北京市西城区 2002 年高级中等学校招生统一考试 政治

一、选择题(下列各题的四个选项中，只有一项最符合题意。共 30 分，每小题 2 分)

1. 2002 年 3 月 25 日，我国自行研制的“神舟”三号飞船在酒泉卫星发射中心发射成功。4 月 1 日，“神舟”三号飞船完成试验任务后在预定区域准确降落。初步研究表明，我国在____与空间材料科学领域的研究取得了重要进展。(　　)

A. 航空科技　　B. 空间生命

C. 人类基因　　D. 生命科学

2. 2001 年 10 月 29 日至 11 月 9 日，联合国气候变化大会在摩洛哥马拉喀什举行。世界上第一个全面控制二氧化碳等温室气体排放的国际公约是(　　)

A. 《京都议定书》

B. 《反弹道导弹条约》

C. 《气候变化框架公约》

D. 《全面禁止核试验条约》

需要全本请访问 www.ertongbook.com

3. 2001 年 10 月 21 日，亚太经合组织(APEC)第九次领导人非正式会议在上海科技馆举行。这次会议的主题是(　　)

A. 新世纪、新挑战、新亚洲

B. 投资环境与对外开放

C. 携手新世纪，和平发展共繁荣

D. 新世纪、新挑战: 参与、合作，促进共同繁荣

4. 法律是一种特殊的行为规则。其最主要的特征是(　　)

A. 由国家制定或认可

B. 对全体社会成员具有普遍约束力

C. 靠国家强制力保证实施

D. 以规定权利和义务为内容

5. 犯罪最本质的特征是(　　)

A. 社会危害性　B. 刑罚当罚性

C. 刑事违法性　D. 严重社会危害性

6. 下列关于宪法的说法不正确的是(　　)

A. 宪法是国家所有法律的总和

B. 宪法的变动必然会引起普通法律随之做出相应的修改

C. 宪法具有最高的法律效力

D. 宪法是国家的根本大法

7. 右图中商品推销商的行为(　　)

①破坏了市场经济秩序

②违背了诚实信用原则

③违背了市场交易的平等原则

④侵犯了消费者的知悉权

A. ②③④　B. ①②④

C. ①②③　D. ①③④



8. 马克思说:“任何一个民族，如果停止劳动，不用说一年，就是几个星期，也要灭亡。”这是因为(　　)

A. 生产劳动是制作和使用劳动工具的活动

B. 人类社会是按照各种关系结合在一起的人们的

总体

C. 生产劳动是人类社会存在和发展的基础

D. 能否从事生产劳动是人和动物的本质区别

9. 生产力是人类改造自然的能力。在生产力中起主导作用的是(　　)

A. 生产资料　　B. 生产工具

C. 劳动对象　　D. 劳动者

10. 下列选项正确体现阶级和国家关系的是(　　)

①国家不是从来就有的，也不会永远存在下去 ②阶级是在一定生产关系中处于不同地位的各种集团 ③国家是在阶级对立的基础上产生的　④国家是阶级矛盾不可调和的产物　⑤阶级是在国家产生之后产生的　⑥在阶级社会里，国家是阶级统治的工具

A. ①④⑤　B. ④⑤⑥　C. ③④⑥　D. ②③④

11. 资本主义社会的基本矛盾是(　　)

A. 社会生产同生产资料资本主义私有制之间的矛盾

B. 生产社会化同生产资料资本主义私有制之间的矛盾

C. 发达国家和发展中国家之间的矛盾

D. 工人阶级和资产阶级之间的矛盾

12. 材料一: 2002 年 2 月 28 日是中美上海公报发表 30 周年纪念日。为纪念中美关系史上的这一重大事件，江泽民主席和布什总统互致函电表示祝贺。

材料二: 2002 年 3 月 16 日，外交部副部长李肇星召见美国驻华大使雷德，就美国政府日前允许台湾所谓“国防部长”汤曜明赴美开会等干涉中国内政、破坏中美关系的行径，向美国政府提出严正交涉。

上述材料充分说明了(　　)

A. 社会主义和资本主义将长期和平共处

B. 社会主义国家和资本主义国家将长期共存和斗争

C. 社会主义国家和资本主义国家势不两立，要斗争到底

D. 经济全球化已经成为不可逆转的世界趋势

13. 公有制为主体，多种所有制经济共同发展，是我国现阶段的一项基本经济制度。这一制度的确立，是由(　　)

A. 党的基本路线决定的

B. 我国的主要矛盾决定的

需要全本请访问 www.ertongbook.com

C. 我国人口、资源和环境国情决定的

D. 我国社会主义性质和初级阶段国情决定的

14. “把我国建设成为富强、民主、文明的社会主义现代化国家。”对这句话理解不正确的是(　　)

A. 这是我们的最高理想

B. 这是党的基本路线的内容之一

C. 这是实现共产主义理想的必要准备和必经阶段

D. 这充分反映了现阶段全国各族人民的共同利益和愿望

15. 2002 年 2 月 1 日，中共中央、国务院在北京隆重举行国家科学技术奖励大会。江泽民总书记向获得 2001 年度国家最高科学技术奖的王选和黄昆院士颁发奖励证书和奖金。王选院士获奖后说，我们研究成果花了 20 多年，要成就大的事业需要长期艰辛的劳动，急功近利是不行的。王选院士的话表明了(　　)

A. 科学技术是第一生产力

B. 青少年要勇于创新

C. 理想的实现要发扬艰苦奋斗的精神

D. 当代青年要有社会责任感

二、选择题 II（下列各题的四个选项中，至少有一项符合题意。共 10 分，每小题 2 分，多选、错选、漏选不得分）

16. 2001 年 11 月 10 日，世界贸易组织第四届部长级会议审议并通过了中国加入世界贸易组织的决定。同年 12 月 11 日，我国正式加入世界贸易组织，成为其第 143 个成员。我国加入世界贸易组织（　　）

A. 是为了扩大内需，培养新的经济增长点

B. 是党中央、国务院做出的重大战略决策

C. 是我国改革开放进程中具有历史意义的一件大事

D. 标志着我国对外开放进入一个新的阶段

17. 下列关于我国公民权利和义务关系的说法中，正确的有（　　）

A. 公民的权利和义务具有一致性

B. 公民可以多享有权利、少履行义务

C. 公民既是享有权利的主体，又是履行义务的主体

D. 没有无义务的权利，也没有无权利的义务

18. 社会主义初级阶段是（　　）

A. 以经济建设为中心，大力发展社会生产力的阶段

B. 坚持按劳分配为主体，多种分配方式并存的阶段

C. 科学技术水平、民族文化素质需要提高的阶段

D. 我国现在处于并将长时期处于的历史阶段

19. 2001 年 10 月 24 日，新华社播发了中共中央要求认真贯彻执行《公民道德建设实施纲要》的通知。通知指出，努力建立与发展社会主义市场经济相适应的社会主义道德体系，对形成追求高尚、激励先进的良好社会风气，保证社会主义市场经济的健康发展，促进整个民族素质的不断提高，全面推进建设有中国特色的社会主义伟大事业，具有十分重要的意义。这段话主要说明(　　)

A. 物质文明建设是精神文明建设的基础

B. 社会主义精神文明是现代化建设的重要保证

C. 社会主义精神文明对物质文明建设有巨大的推动作用

D. 应该把社会主义精神文明作为各项工作的中心来抓

20. 下列关于人类社会发展史的正确认识有(　　)

A. 首先是生产发展的历史

B. 阶级社会的历史又是阶级斗争的历史

C. 人民群众是历史的创造者

D. 英雄人物和革命领袖是历史的创造者

三、简答题(本大题分 6 小题，共 21 分)

21. 观察漫画并回答问题:



(1) 这幅漫画反映的行为属于哪种违法行为?(1 分)

(2) 这种违法行为要受到相应的处罚，其处罚适用的法规是什么?(1 分)

需要全本请访问 www.ertongbook.com

22. 青少年光顾网吧，出现了许多令人忧虑的问题。为了保护青少年的身心健康，信息产业部、公安部、文化部、国家工商行政管理总局联合制定了《互联网上网服务营业场所管理办法》，其中明确规定：在限定时间外向 18 周年以下的未成年人开放，或者允许无监护人陪伴的 14 周岁以下的未成年人进入其营业场所的，有关部门应对其进行警告、罚款、要求停业整顿、没收违法所得、关闭营业场所、吊销经营许可证和营业执照等处罚。

阅读上述材料，回答下列问题：

(1) 材料体现了我国法律对未成年人的哪种保护？(1 分)

(2) 作为青少年，我们应该如何做？(2 分)

23. 生产关系的基础是什么?阶级社会生产关系的基础分别是什么?(4 分)

24. 连线题: (4 分)

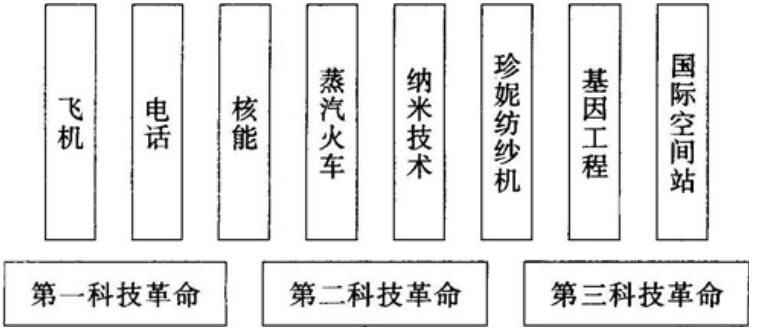

25. 2001 年，被国内外多家媒体誉为“中国年”。2001 年的中国，被世人称为“全球通”。加入世界贸易组织，15 年的艰苦奋斗，终于有了结果；奥运圆梦，五环旗将在北京的上空高高飘扬；足球“入世”，圆了中国球迷 44 年的梦想；成功举办 APEC 会议和世界大学生运动会，让世界进一步了解中国。

2001 年，我国经济稳步增长。国内生产总值超过了 9 万亿元人民币，经济增长速度超过了 7%，国家外汇储备达 2000 亿美元。经济总量已跻身世界第六位……。

阅读上述材料，回答下列问题:

(1) 上述材料表明了什么?(1 分)

(2) 发生上述情况的原因和根本原因是什么?(3 分)

26. 中国入世，加剧了人才竞争。据相关调查显示: 入世后我国最紧缺的人才，一是信息、金融、法律和现代管理等领域的专业人才；二是生物技术、环保技术等领域的高层次科技人才；三是熟悉世贸组织规则、能参与解决国际争端的专门谈判人才；四是了解国际惯例、符合需要的外语人才；五是跨领域、跨行业、跨学科的复合型人才。面对这种情况，许多毕

业生把中国“入世”这一因素考虑到自己对专业的选择上来。

入世带来了机遇和挑战。作为新一代中学生，我们应该如何确立自己的成才目标呢?(4 分)

四、辨析题(5 分，只判断不分析不给分)

27. 生产力决定生产关系，生产关系只能随着生产力的发展而发展。

五、回答题(本大题分 2 小题，28 题 6 分，29 题 8 分，共 14 分)

28. 2002 年 3 月 16 日，郭某乘坐出租车，不慎将装有手机和一万现金的手包丢在了车上，后被司机王某拾得。第二天，郭某和王某见面了……

情景一: 王某确认失物是郭某的，后主动归还。请你评价王某的行为。(2 分)

情景二: 郭某要求王某归还失物，王某谎称自己没看见，拒绝归还。请你全面推测郭某可能采取哪几种办法解决这件事?并运用法律知识对推测进行评析。(4 分)

29. 材料一: 在“十五”期间，我国西部开发四大工程即青藏铁路、南水北调、西气东输、西电东送，将相继告竣。这四大工程开发了西部，共享了资源，拉动了内需，拓展了市场，激活了中国东西南北的经济发展。

材料二: 藏羚羊是我国青藏高原特有物种，属国家一级保护动物。其下腹部绒毛可纺成“沙图什”(意为“羊绒之王”)，制作一条沙图什披主肩将导致 3 到 5 只藏羚羊丧生。这样一条披肩在欧美市场售价高达 3 万美元，如此暴利驱使盗猎者大量捕杀藏羚

羊，致使其已濒临灭绝。这样的市场一天不消失，藏羚羊就一天不得安宁! 在一个日益相互关联的地球上，没有谁的行动可以与他人无关地独立发生，世界上的任何人都要为地球环境的破坏负起自己的责任。

最早救助藏羚羊的是藏族人民的好儿子索南达杰。当他一次次走向可可西里时，他意识到对可可西里保护比开发更加迫切。当他第 12 次进入可可西里时，不幸倒在了盗猎分子的枪口下。现在，中国第一座民间自然保护站——索南达杰自然保护站已经建立，每年有 30 位来自全国各地的环境志愿者轮流在保护站工作。2002 年 6 月 5 日，志愿者北京市民李清已奔赴可可西里国家自然保护区。

阅读上述材料并回答问题:

(1) 材料体现了我国在经济发展中应该坚持什么战略?其含义是什么?(3 分)

(2) 运用法律知识分析说明，公民应当如何履行义务?(3 分)

(3) 无论对东部地区还是西部地区，实施西部开发都有重要意义。下面提供有关方面的一些论点，请你将它们的序号分别填入下表的空格内。(2 分)

A. 实现共同富裕

B. 自然资源得以充分开放和利用

C. 增加就业机会

D. 发挥了技术和人才优势

E. 吸引社会资金和外资，促进经济发展，提高人民生活水平

对西部地区的重要意义	
对东部地区的重要意义	

参考答案

1. B 2. C 3. D 4. C 5. D 6. A 7. B 8. C 9. D 10. C 11. B 12. B 13. D 14. A 15. C 16. B C D 17. A C D 18. A B C D 19. B C 20. A B C

21. 答: (1) 是妨害社会管理秩序的行为。(1 分)

(2) 《中华人民共和国治安管理处罚条例》(1 分)

22. 答: (1) 社会保护(1 分)

(2) 增强自我保护意识。依法自律。(1 分) 在限定时间外不去网吧；上网时间不要过长；远离非法信息等。(1 分)

23. 答: 生产资料归谁所有。(1 分)

奴隶社会: 奴隶主占有生产资料。(1 分)

封建社会: 地主阶级占有绝大多数土地(或封建土地所有制)。(1 分)

资本主义社会: 资本家占有生产资料，工人没有任何生产资料(或生产资料资本主义私有制)。(1 分)

24. 答: 与标准答案完全一致，给 4 分。错 1 个或 2 个，扣 1 分。

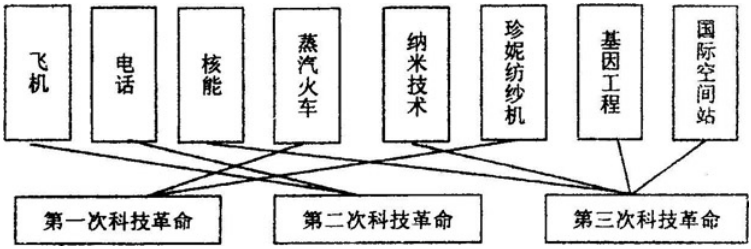

25. 答: (1) 我国经济和社会发展取得了辉煌成就。(1 分)

(2) 坚持了党的基本路线；坚定不移地进行改革开放；以经济建设为中心；在进行物质文明建设的同

需要全本请访问 www.ertongbook.com