考点测试 1

商品的基本属性和商品的价值量

▲ 三年高考　◇ 二年模拟　◆ 预测明年

测试时间：45 分钟
本卷满分：100 分

考点聚焦 本练涉及的考点有：商品和商品经济的含义；商品的基本属性；使用价值与价值的关系；商品的价值量与社会必要劳动时间及劳动生产率之间的关系。

本考点在近几年的高考中有所涉及，考查的内容有 劳动生产率的含义、劳动生产率与商品价值量的关系、劳动生产率与社会必要劳动时间的关系等。题目基础题型以选择题为主。今后高考仍不排除结合学科语言和实际材料从多方面考查对商品价值量与社会必要劳动时间的关系、商品价值量与劳动生产率的关系等知识的识记、理解和运用，也不排除考查提高劳动生产率对商品生产者的意义的认识。

课 时 测 试

一、选择题（每小题 4 分，共 48 分）

1.（04·北京）为加强对食品安全的监管，国务院组建了国家食品药品监督管理局。作为商品的食品，是最基本的生活必需品，必须保证其质量。这是因为（　　）

A. 食品的质量越好，生命安全越有保障
B. 食品的质量与价格互为前提
C. 食品的有用性决定其价值
D. 食品的有用性取决于个人生活需要

宋代的庄绰在《养柑蚁》一文中说："广南可耕之地少，民多种柑橘以图利，常患小虫，损失其实。惟树多蚁，则虫不能生，故园户之家，买蚁于人。遂有收蚁而贩者，用猪羊脬脂其中，张口置蚁穴旁，俟蚁入中，则持之而去，谓之养柑蚁。"

2.（04·湘鄂川）上述材料中，一些人捕捉蚂蚁进行买卖，使蚂蚁具有价格，是因为（　　）

A. 蚂蚁能够消灭虫害
B. 蚂蚁具有交换价值
C. 捕捉蚂蚁耗费了一般人类劳动
D. 蚂蚁对柑橘农户具有使用价值

期货交易是一种交换方式，交易双方约定在未来某个时期内按协议价格和数量进行交易。据此回答 1～2 题。

3.（04 春·全国）期货价格反映市场未来的供求关系，并通过各种渠道影响现货市场价格。2003 年，黑龙江省农民（豆农）在出售大豆时参考期货价格，选择良好的出售时机，使全省豆农在销售环节至少增收 2 亿元。这说明（　　）

A. 期货信息可以使商品价值增加，让参与者致富
B. 市场机制还有待于进一步完善
C. 期货价格刺激生产者改进生产技术，提高产量
D. 市场价格是受供求关系影响而波动的

4.（04 春·全国）商品价格决定于（　　）

A. 社会必要劳动时间，但受到供求关系的影响
B. 供求关系，但受到社会必要劳动时间的影响
C. 个别劳动时间，但受到供求关系的影响
D. 供求关系，但受到使用价值的影响

5.（02·广东广西）我国确立了信息化带动工业化的发展战略。信息化所代表的高新技术能够（　　）

A. 减少单位产品的社会必要劳动时间
B. 提高单位产品的社会必要劳动时间
C. 使单位产品的个别劳动时间不变
D. 使单位产品的个别劳动时间提高

2003 年 1 月 25 日《人民日报》报道，2002 年汽车销售 324.8 万辆，增幅 33%，2002 年增长只要超过 23%，中国汽车销量即可轻松突破 400 万辆大关。据此回答 6～7 题。

6.（04·黄冈）据业内人士介绍，2002 年汽车销量的大幅增长和汽车行业的价格战关系密切。何况，国产轿车价格迟早要与国际车价接轨。主动降低，不仅可逼迫自己降低成本，还可以把市场蛋糕做大。由此可见（　　）

①价格和供求之间存在着密切的联系　②商品的价格是由商品的价值决定的　③价格竞争是市场竞争的重要手段　④价格优势是企业在竞争中取得胜利的决定性因素

A. ①③④　B. ②③④　C. ①③　D. ②④

7.（04·黄冈）在产品趋同化日益明显的今天，随着我国汽车业生产能力和技术的提高，汽车品牌的竞争必将由技术、质量、性能价格比更多地转向营销服务，服务已成为企业提升核心竞争力的重要

需要全本请访问 www.ertongbook.com

一环。这说明 （ ）

A. 技术、质量、价格的竞争已不重要

B. 要想在商品竞争中取得优势，必须创造商品丰富的个性

C. 企业的营销水平直接决定了商品的质量

D. 在商品质量、价格相似的情况下，服务质量的好坏对企业的竞争力具有重要影响

《经济日报》载文指出，药品定价，不仅关系到药品生产企业的生存和发展，也是近年来全社会关注的热点问题。科学、合理、公正地制定药品价格，既有利于优势企业发展，又能减轻群众的用药负担。据此回答 8～10 题。

8.（05·预测）药品价格应由 （ ）

A. 药品的使用价值决定

B. 生产药品的厂家决定

C. 医院自行决定

D. 生产药品的社会必要劳动时间决定

9.（05·预测）合理的价格有利于优势企业的发展，是因为 （ ）

A. 价格合理有利于促进公平竞争，实现优胜劣汰

B. 价格合理能提高企业的经济效益

C. 价格合理能提高企业的劳动生产率

D. 价格合理能杜绝假冒伪劣商品的生产

10.（05·预测）企业要在市场竞争中获胜 （ ）

A. 应增加商品价值，获得高额利润

B. 应提高部门的劳动生产率，以增加收益

C. 应提高个别劳动生产率，以获得额外收益

D. 应增加商品的使用价值，以提高市场占有率

安徽阜阳劣质奶粉残害儿童事件曝光后，全国各地大力查处劣质奶粉及其制售者。国家质量监督检验检疫总局 2004 年 5 月 10 日公布了 30 家奶粉产品质量国家监督抽查连续合格企业名单。据此回答 11～12 题。

11.（05·预测）材料中强调重视奶粉质量是从商品的_____的角度提出的要求 （ ）

A. 价值　　B. 使用价值

C. 交换价值　　D. 社会属性

12.（05·预测）确保奶粉质量安全，是因为 （ ）

A. 质量好的奶粉的价值大

B. 质量差的奶粉只有使用价值而没有价值

C. 质量好的奶粉其价值容易实现

D. 质量差的奶粉中不凝结人类的劳动

二、非选择题（共 52 分）

13. 年年岁岁心相似，岁岁年年信不同。在经历了写信、寄贺卡、打电话等流行方式后，近两年又增添了一种新的拜年方式——发手机短信。一句“新春快乐”“你在他乡还好吗”之类的问候，传递着对亲人、朋友、同事的深深祝福，也免去了许多不必要的送往迎来，因而蔚然成为时尚。据统计，今年春节期间用手机短信拜年的达 98 亿条，有些经济发达的地区人均发短信超过几十条，手机短信的营业收入可达十几亿元。

试用经济常识的有关知识简析人们热衷于发送手机短信的原因。（26 分）

14 随着“入世”带来的机遇和挑战，我国许多企业都十分重视创名优产品，更新技术，降低生产成本，转换经营机制，以便适应市场，在竞争中取胜。

运用商品经济有关知识，简要说明企业为什么要采取上述的商业行为？（26 分）

考点测试 2

货币、纸币、通货膨胀

▲ 三年高考　◇ 二年模拟　◈ 预测明年　　测试时间：45 分钟　本卷满分：100 分

考点聚焦 本练涉及的考点有：货币的产生和发展；货币的职能；纸币的产生和发展；通货膨胀与通货紧缩。

本考点在近几年的全国高考试题中基本未涉及。虽不是考查重点，但对货币的职能、货币的流通规律及公式、纸币的有关知识等内容在备考中还是需要注意的。

课时测试

一、选择题（每小题 4 分，共 52 分）

1.（04·广东广西）在商品流通中所需货币量不变的前提下，货币流通次数与　（　　）

A. 待售商品数量成反比

B. 商品价格水平成反比

C. 商品价格总额成正比

D. 货币本身的价值成正比

2.（04·江苏）商店里的货品有标价，如一支钢笔标价为 6 元。在这里，货币执行的是　　的职能。　（　　）

A. 价值尺度　　B. 流通手段

C. 贮藏手段　　D. 支付手段

3.（04·江苏）判断社会经济生活中是否出现通货膨胀，主要是看　（　　）

①货币发行量是否过多　②物价是否持续攀升　③社会上是否出现抢购风　④商品的价值量是否变大

A. ①②　B. ③④　C. ①④　D. ②④

4.（04·浙江）某国待售商品 20 亿件，平均每件商品价格 150 元，据测定该年每 1 元平均流通 3 次，当年该国流通中需要货币量是_____亿元；当年由于该国政府多发纸币使商品价格上涨 25%，商品价格上涨后流通的货币量是____亿元；当年该国多发行_____亿元纸币。下列正确的答案是　（　）

A. 1000、1250、250　　B. 1200、1350、300

C. 1000、1200、200　　D. 1400、1300、270

在北京街头有一幅广告，画面中有许多人民币的图样。根据《中华人民共和国人民币管理条例》的有关规定，如果未经中国人民银行批准，在宣传品、出版物或其他商品上使用人民币图样，无论是放大、缩小还是同样大小的人民币图样，都属于违法行为。据此回答 5～6 题。

5.（04·北京）下列对"人民币"理解错误的是　（　　）

A. 它是一种货币符号

B. 它能充当商品交换的媒介

C. 它是纸币，没有使用价值和价值

D. 它是我国的合法货币

6.（04·北京）国家禁止在广告中使用人民币图样，是因为　（　　）

A. 人民币是国家发行的、强制使用的货币符号

B. 在商业行为中使用人民币图样损害了人民币的形象

C. 人民币的形象和尊严必须得以有效维护

D. 人民币是我国惟一合法的货币

2004 年 1 月 16 日，我国外交发言人强调，维护人民币汇率稳定是中国经济稳定发展的关键，人民币不能升值，也不能贬值。据此回答 7～9 题。

7.（05·预测）人民币　（　　）

①是由国家发行的、强制使用的货币符号　②是商品，是使用价值和价值的统一体　③只按照它们所代替的金属货币的价值执行流通手段的职能　④它的流通是我国国民经济赖以维持、发展的血脉

A. ①②③　　B. ①②④

C. ②③④　　D. ①③④

8.（05·预测）如果人民币贬值，在经济领域则会出现如下现象　（　　）

①单位纸币的购买力下降　②人民币存款所代表的实物量减少　③商品价格下跌　④通货膨胀

A. ①②③　　B. ①②④

C. ①③④　　D. ②③④

9. (05·预测)在我国,人民币的发行权集中于 (　　)

A. 国家　　B. 社会

C. 金融机构　　D. 中国人民银行

通货紧缩是指由于货币供应量的减少或货币供应量的增长滞后于生产增长的幅度，以致引起对商品和劳务的总需求小于总供给，从而导致物价总水平下降的现象。据此回答10~11题。

10. (05·预测)当一国或地区出现通货紧缩时 (　　)

①市场纸币流通量过多　②货币流通速度减慢

③经济增长率下降　④各种商品价格持续下降

A. ①②　　B. ③④

C. ①②③　　D. ②③④

11. (05·预测) 近年来我国为化解通货紧缩采取了如下有效措施 (　　)

①中国人民银行连续降息　②积极的财政政策，增发国债　③打击走私犯罪活动　④加强社会主义精神文明建设

A. ①②④　　B. ③④

C. ①②③　　D. ①②

一位顾客在国外考察时，从一家超市花2.5美元买了一块香皂，回家使用时，发现上面凹下去了一大块，这位顾客便找超市论理。店员拿过香皂检验一番后，问是想退还是想换。这位顾客说要退，店员当即退还3美元,说多出的0.5美元是店家给顾客的“过失费”。据此回答12~13题。

12. (05·预测)材料中的这位顾客花2.5美元买了块香皂，在这里，美元代替金属货币执行的职能是 (　　)

A. 价值尺度　　B. 流通手段

C. 储藏手段　　D. 世界货币

13. (05·预测)美元作为纸币与铸币相比,有以下优点 (　　)

①印制纸币成本比铸造金属货币的成本低

②避免了铸币在流通中的磨损，防止贵金属的无形流失　③美元比铸币的价值大　④纸币比金属货币更容易保管、携带、运输

A. ①②③　　B. ①②④

C. ①③④　　D. ②③④

二、非选择题(48分)

14. 辨析题(仅作判断不说明理由者不得分)

辨题：通货紧缩比通货膨胀好，群众可以得到更多的实惠，有利于提高人民生活水平。(24分)

15. 面对非典疫情给我国经济发展带来的严峻挑战，中央银行决定在继续实行稳健的货币政策的同时，适当增加货币供应量和信贷，又要继续防止通货紧缩趋势和防范积聚潜在的通货膨胀压力。阅读材料,回答问题：

(1)流通中的货币供应量由哪些因素决定？(8分)

(2)为什么要防止通货紧缩和防范通货膨胀？(16分)

考点测试3

价值规律的表现形式与作用

▲ 三年高考　◇ 二年模拟　◆ 预测明年

测试时间：45分钟
本卷满分：100分

考点简析　本练涉及的考点有：价值规律的内容；价值规律的表现形式；价值规律的作用。

本练在近几年的高考试题中几乎每年都有所涉及，考查的内容主要集中在对“等价交换”的理解上，题型以选择题为主。今后高考还会重视对本考点的考查。复习中不仅要注意理解价值规律的基本内容、表现形式和作用等基础知识，而且还要注意提高运用价值规律知识去分析、解决实际问题的能力。

课时测试

一、选择题（每小题4分，共52分）

1.（03·全国）长江三角洲地区经济高速增长的根本原因是（　　）

A. 市场机制比较成熟　　B. 特色经济形成规模

C. 积极参与国际竞争　　D. 第一产业发展迅速

2.（03·上海）近年来，彩电行业的价格战愈演愈烈，一些在竞争中处于不利地位的企业逐步退出了这一市场，少数知名品牌的市场份额则在不断扩大。上述现象说明（　　）

A. 彩电行业出现了“卖方市场”

B. 优胜劣汰是市场经济的客观规律

C. 彩电行业劳动生产率的提高使彩电价值量不断变大

D. 彩电价值量由挑起价格战的企业的个别劳动时间决定

3.（02·全国）在国际经济发展趋缓的形势下，确保实现我国经济较快增长的根本之策是（　　）

A. 刺激和扩大国内需求

B. 扩大我国商品出口量

C. 扩大国债发行规模

D. 扩大吸引外资规模

4.（02春·全国）价值规律要求的等价交换是指（　　）

①每一次具体的交换过程都是等价交换　②等价交换的实现有赖于价格依据供求变化围绕价值上下波动　③等价交换应当理解为商品交换过程的总趋势　④在商品交换过程中绝大多数是符合等价交换，只有少数是不等价交换

A. ①②　　B. ③④　　C. ②③　　D. ①④

5.（03·黄冈）《经济日报》载文指出：“农产品从长期短缺过渡到相对丰裕，并不意味着‘物多必贱’。相反，农民们可通过改变作物种植方式以及搞好储藏，巧妙地利用好时间差，从微观上创造出大量‘物以稀为贵’的市场机会，使产品保值增值”在这里，“物以稀为贵”（　　）

A. 是正确的。它是指商品的价格由价值决定并受供求关系影响

B. 是正确的。它认为商品价值受供求关系影响

C. 是错误的。它承认供求关系对价格有决定作用

D. 是错误的。它否认供求关系决定商品价值

6.（03·黄冈）上题中的“物多必贱”（　　）

A. 否认了供求关系对价格的影响

B. 未看到价格是由价值决定的

C. 确认了价格对供求关系的制约

D. 坚持了价值是由个别劳动时间决定的

水利部负责人在国务院新闻办召开的记者招待会上介绍，南水北调工程为适应社会主义市场经济的要求，将建立水价形成机制和工程建设管理体制。通过调整水价，促进节约用水。根据各受益地区获得的水量，按比例分担工程投资。

7.（04·武汉）水利部上述思路的经济学依据是（　　）

①价值是价格的基础，价格是价值的表现形式　②国家运用价格杠杆进行宏观调控，有利于资源优化配置　③运用价格机制进行资源配置，能从根本上解决水资源短缺问题　④市场经济条件下，水资源的利用应遵循价值规律

A. ①②　　B. ③④　　C. ①③　　D. ②④

《人民日报》报道：在彩电业出现大幅度业绩滑坡、利润下降甚至亏损的局面下，部分企业开始由“规模性”追求向“技术性”概念转变，以高科技附加值的产品加快占据市场。于是康佳推出了高清晰数字技术的“柔性彩电”，海信研制生产出“胶片彩电”，创维打出“健康逐行王”等。据此回答8～9题。

8.（04·开封）从经济学角度看，各个企业之所以重

需要全本请访问 www.ertongbook.com

视技术创新,是因为 ( )

A. 科技是人类社会存在和发展的基础

B. 价值规律的必然要求

C. 高科技产品在市场竞争中一定能取胜

D. 技术含量高的商品使用价值大

9. (04·开封)如果某企业率先采用了先进技术，那么它在激烈的市场竞争中 ( )

A. 一定不会被淘汰

B. 其社会必要劳动时间将低于其他生产者

C. 所生产的商品价值量将降低

D. 有可能获得更多的额外收益

保暖内衣从诞生到现在，只有短短的 4 年时间，生产厂家由原来的几家猛增到几十家，价格也由原来的几百元甚至上千元一套降低到百元左右。据此回答 10～11 题 。

10. (05·预测)商品供求关系的变化直接影响商品的 ( )

A. 价格的变化 B. 生产的变化

C. 消费的变化 D. 价值的变化

11. (05·预测)保暖内衣价格下降有多种原因，其中根本原因是 ( )

A. 新商品往往供不应求，老商品往往供过于求

B. 由于生产厂家的增多，日益激烈的竞争造成的

C. 生产保暖内衣的个别劳动时间缩短了

D. 生产保暖内衣的社会劳动生产率逐渐提高了

2004年 2 月 16 日《市场报》报道,2003 年下半年，我国部分农副产品因多种原因的影响价格上涨，使农民生产积极性大大地提高，尤其是农产品价格上涨的部分产品，其种植面积会不断扩大。据此回答 12～13题 。

12. (05·预测)上述材料表明 ( )

A. 商品的价格是由供求关系决定的

B. 价格和供求之间存在着相互影响、相互制约的关系

C. 价格的波动背离了价值规律

D. 商品的价格是由商品的使用价值决定的

13. (05·预测)农民种植品种的变化反映了 ( )

A. 价值规律是商品生产和商品交换的调节者

B. 价值规律刺激商品生产者改进技术，提高劳动生产率

C. 价值规律促使商品生产者在竞争中优胜劣汰

D. 只有通过价格波动，等价交换原则才能实现

二、非选择题(共 48分)

14. (04春·江苏)阅读图表，回答问题：

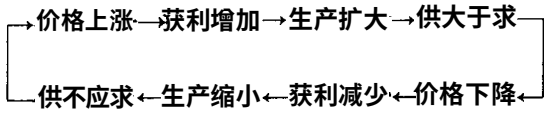

(1)该图表所揭示的商品经济的基本规律是什么？(4分)

(2)这一规律的基本内容是什么？(6分)

(3)这一规律有哪些主要作用？(12分)

15. 浙江是我国经济较为发达的省份，改革开放后，个体、私营经济蓬勃发展，在给地方经济带来巨大效益的同时，也给社会造成了不良影响，那就是浙江的小商品市场假冒伪劣商品泛滥，极大地影响了浙江的形象，也给浙江的经济发展带来了巨大消极影响。2002 年,浙江人在广场上,一把大火将假冒伪劣商品集中烧毁，以表示浙江向假冒伪劣宣战的决心。记者采访相关人员，他们纷纷表示,今后要依靠科技进步,大胆创新,创造出更多的浙江品牌，提升浙江的经济发展档次。

据此回答：

(1)企业为什么必须重视产品质量，实施名牌战略？(12分)

(2)提高产品质量为什么必须依靠科技的进步与创新？(14分)

单元能力测试1（考点1～3）

商品和商品经济

▲三年高考　◇二年模拟　◆预测明年　　测试时间：90分钟　本卷满分：150分

一、选择题(下列各题只有一个最符合题意的答案,每小题3分,共75分)

2004年初国家质检总局发出通知，要求重拳打击制售伪劣防治非典产品的行为，坚决取缔非法生产加工窝点。据此回答1～2题。

1. 伪劣防治非典产品（　　）
   A. 是商品，因为它凝结着无差别的人类劳动
   B. 是商品，因为它用于别人消费
   C. 7不应成为商品，因为它不具备应有的使用价值
   D. 不是商品，因为它不用于交换

2. 之所以要重拳打击伪劣防治非典产品，是因为这种产品（　　）
   ①生产者以获得额外收益为目的　②严重破坏市场秩序　③侵害人民群众身心健康　④不利于企业公平竞争
   A. ①②③　　B. ①②④
   C. ①③④　　D. ②③④

据《北京青年报》报道，由天津海得润滋公司生产的海水淡化水将投放北京市场，550毫升瓶包装的淡化海水售价1元左右。在我国，海水淡化变饮用水大规模投放市场还属首次。据此回答3～4题。

3. 自然状态的海水不是商品，经过淡化处理并出售的海水是商品,是因为其（　　）
   A. 有使用价值
   B. 是劳动产品
   C. 是用于交换的劳动产品
   D. 是用来满足别人需要的产品

4. 目前，我国淡化海水的年产量在1000万吨左右。国家海洋局天津海水淡化与综合利用研究所博士阮国龄说：“大规模的应用海水淡化水在技术上已经成为可能。”技术的进步不仅使产量提高，而且淡化海水成本也在大幅度下降，这意味着人们可以买到更便宜的淡化海水。其中包含的经济学道理是（　　）
   ①科学技术是第一生产力　②技术进步有利于劳动生产率的提高　③社会劳动生产率与价值量成反比　④社会劳动生产率与价值量成正比
   A. ①②③④　　B. ①②③
   C. ②③④　　D. ①②④

浙江桐庐县分水镇是全国规模最大的圆珠笔生产基地。该镇领导说：“从年产全国人均一支笔到全世界人均一支笔，这只是数量概念，问题在于谁在用分水生产的笔，比尔·盖茨有没有用？克林顿有没有用？没有质量的数量是没有含金量的。”据此回答5～6题。

5. 该镇领导这段话揭示出的经济学道理是（　　）
   A. 使用价值大小影响商品价值
   B. 有使用价值的东西一定有价值
   C. 质量决定价值
   D. 商品使用价值是价值存在的物质前提

6. 圆珠笔的生产同样受价值规律这只“看不见的手”的支配。下列说法正确的是（　　）
   ①通过市场价格的调节，价值规律使市场上圆珠笔的使用价值与价值保持平衡　②价值规律刺激商品生产者改进技术，改善经营管理，提高劳动生产率　③企业的劳动生产率高，生产的产品多，就能在市场竞争中立于不败之地
   ④分水镇成为全国规模最大的圆珠笔生产基地是市场竞争的结果
   A. ①②　　B. ②④
   C. ①③　　D. ③④

7. 有一个木匠，费时多日，给自家造了一扇实用精良的门。门上的钉子锈了，板掉了，他总是修缮如初。就这样不停地修补，若干年后，仍坚固如初。木匠以此作为自己的招牌，但找他做门的却日渐减少。木匠不明所以，询于邻人。邻人劝告他去看看别人的门，木匠这才发现，无论质地或样式，他的门早已陈旧得不屑一顾了。从经济学的角度看,这个木匠的错误在于（　　）
   A. 没有认识到价值决定价格，价格对价值的实现有重要影响
   B. 认为不仅要重视商品的质量，而且要重视商品的供求关系
   C. 没有认识到商品生产应根据市场的变化而及时地调整
   D. 认为价值规律对商品生产和商品交换有重要

调节作用

《经济日报》载文指出,药品定价,不仅关系到药品生产企业的生存和发展，也是近年来全社会关注的热点问题。科学、合理、公正地制定药品价格,既有利于优势企业发展，又能减轻群众的用药负担。据此回答 8～10 题。

8. 药品价格应由 ( )
A. 药品的使用价值决定
B. 生产药品的厂家决定
C. 医院自行决定
D. 生产药品的社会必要劳动时间决定

9. 合理的价格有利于优势企业的发展,是因为 ( )
A. 价格合理有利于促进公平竞争，实现优胜劣汰
B. 应提高部门的劳动生产率,以增加收益
C. 应提高个别劳动生产率，以获得额外收益
D. 应增加商品的使用价值，以提高市场占有率

10. 企业要在市场竞争中获胜 ( )
A. 应增加商品价值，获得高额利润
B. 应提高部门的劳动生产率，以增加收益
C. 应提高个别劳动生产率，以获得额外收益
D. 应增加商品的使用价值，以提高市场占有率

入世对我国农业是‘利好’还是‘利空”,这取决于农业能否加快推进实施农业标准化生产，突破国际“绿色技术壁垒。’因此,推进农业标准化是转变农业增长方式、加快农业结构战略性调整的需要，更是应对入世，参与国外农产品市场竞争的需要。必须调整产品结构，全国提高农产品安全水平，加快实现我国农产品产量型向质量型、专用型和高附加值型发展。据此回答 11～13 题。

11. 突破国际“绿色技术壁垒”实质是要求我国农业生产建立起国际认可的农产品质量保证体系，着力提高农产品质量。从经济学角度看，这主要是因为 ( )
A. 注意质量是商品生产者的根本出发点和落脚点
B. 商品是使用价值和价值统一体，使用价值是价值的物质承担者
C. 没有质量保证的商品不能进入市场流通
D. 农产品质量决定其价格的高低

12. 农产品需要由产量型向质量型、专用型和高附加型发展,是因为 ( )
A. 农产品产量越高，其使用价值就越低
B. 过分强调高产会导致其劳动消耗过大
C. 农产品专用程度越高其质量也越高
D. 使用价值好的商品有利于其价值的实现

3. 主张农产品向高附加值型发展,体现了 ( )
A. 商品生产者的目的在于获得价值
B. 现在农民的生产是为了提高使用价值
C. 附加值越高的农产品越有销路
D. 农产品是人们的衣食之源

黄金是财富的象征。过去黄金由国家严格控制，现在也走向市场。据此回答 14～16 题。

14. 长期以来，黄金作为一种防范通货膨胀的手段，是因为黄金具有 ( )
A. 价值尺度职能　　B. 贮藏手段职能
C. 世界货币的职能　　D. 支付手段的职能

15. 上个世纪 80 年代至 90 年代初，含金比例较高的金首饰是中国内地金饰品销售的主流。黄金首饰作为商品,其价格从根本上说是由 ( )
A. 使用价值决定的
B. 社会经济发展水平决定的
C. 价值决定的
D. 交换价值决定的

16. 开放黄金市场具有如下重大意义 ( )
①沟通国际国内黄金市场，加强国际黄金行业的交往　②有效地刺激民间消费和民间投资的增长　③有效地发挥黄金市场通过黄金交易和资金融通加速货币流通的功能　④说明黄金已经丧失了作为货币的一切功能
A. ①②③　　B. ①②④
C. ②③④　　D. ①③④

韩国世界杯新闻中心的楼下就是由无数店铺组成的市场，有一家专门出售 2002 年世界杯的各种纪念品的小店，生意很是火爆，别看这些小商品本身的价值不怎么起眼，可印上了与世界杯相关的图案，一下子就身价倍增。回答 17～18 题。

17.“这些小商品本身价值不怎么起眼’是说 ( )
A. 生产这些小商品的劳动生产率较低
B. 生产这些小商品消耗的社会必要劳动时间少
C. 生产这些小商品消耗的个别劳动时间少
D. 这些小商品并不精美

18. 这些小商品印上了和世界杯相关的图案就“身价倍增”,不是因为 ( )
①社会劳动生产率的提高，使商品的价值量提高　②个别劳动生产率的提高，使商品的价值量降低　③现有的社会正常的生产条件的改变　④印上和世界杯相关的图案使需求量增加
A. ①②③　　B. ①②④
C. ②③④　　D. ①③④

19. 2004 年春季前后是服装、鞋帽畅销时期，各大商场抓住这个商机，采取打折让利的促销手段。商

家打折让利促销 （ ）

A. 是商品的使用价值变化了

B. 导致商品价格低于价值

C. 是为了实现其商品的价值

D. 会导致商品生产者亏损

看漫画回答 20～22 题。

厂家叫嚷 质"优料精　百姓叹息“一点不灵”



20 这幅漫画中的“保健口服液” （ ）

A. 是劳动产品，因为它具有使用价值

B. 可以成为商品，因为它具有价值和使用价值

C. 不应成为商品出售，因为它不具备应有的使用价值

D. 不能成为商品，因为它不是用于交换的

21. 我们必须打击假冒伪劣产品，因为假冒伪劣产品 （ ）

①坑害人民群众　②破坏市场秩序　③不利于企业公平竞争　④不是人们的劳动成果

A. ①②③　　B. ②③④

C. ①②④　　D. ①③④

22. 这幅漫画给我们的启示是 （ ）

①只有生产高质量的产品，才能顺利实现其价值 ②商品必须具有满足人们需要的使用价值，才能得到社会的认可　③生产者的惟一动机和目的就是为了赚钱　④生产假冒伪劣产品既害人又害己，为社会所不容

A. ①②③　　B. ②③④

C. ①②④　　D. ①③④

一种新产品刚上市时价格比较高，但过了一段时间以后价格会大幅下降。据此回答 23～25 题。

23. 出现上述现象的主要原因是 （ ）

A. 人们消费水平提高

B. 该产品质量下降

C. 该产品所包含的价值量下降

D. 由供求关系变化引起的

24 下列关于商品价格的说法正确的是 （ ）

A. 商品价格与商品价值成反比

B. 商品价格是由其生产数量决定的

C. 商品的价格和价值总是不相符的

D. 商品价格受供求关系的制约

25. 按照价值规律的要求，商品的价格 （ ）

A. 总是高于价值

B. 总是低于价值

C. 总是围绕价值上下波动

D. 总是围绕供求上下波动

二、非选择题（共 75 分）

26. 以‘梅李之乡’著称的福建省永泰县，青梅种植户达 2 万户，面积 5 万多亩，年产青梅 14 万吨，青梅成了当地农民收入的主要来源。然而由于农民缺乏应用科技指导，当地深加工能力也不足，再加上当地政府缺少必要的引导和服务，农民缺乏主动出击市场的能力和经验，只能坐等外地商贩前来收购，造成青梅价格低贱，增产不增收。

（1）青梅价格下跌反映了什么经济学道理？（6 分）

（2）结合上述材料，分析农民怎样才能既增产又增收？（12 分）

27. 读下面这幅漫画，运用经济学知识回答：



（1）试述这幅漫画反映的经济学道理。（6分）

需要全本请访问 www.ertongbook.com

(2)如果你在假期到农村参加社会实践，根据以上经济学道理，你对养鸡专业户能提供哪些有益的指导？(10分)

28. 2004年2月16日《经济日报》载文指出,在越发成熟的市场契机下，长虹空调不再通过价格战而是通过技术创新和资源的有效合理利用来提高产品性价比来奠定市场的强势地位。

(1)作为消费者如何看待商品的价格战？(8分)

(2)为什么企业通过提高产品性价比能增强市场优势？(8分)

29. 材料一　目前，手机科技发展迅速，从原来外壳上的竞争转移到屏幕上，彩屏手机开始大行其道。而敏感的价格成为横在消费者和彩屏手机之间的一大障碍。最初，一些高端的手机入市价格都在7000元上下。而仅仅几个月过去，彩屏手机已不再是高端商务型手机的专利了。不少彩屏手机开始放下“价格”的架子，以其时尚定位向更广泛的市场目标进发，“彩屏”开始呈现出以“高”向“中”“低”扩军的势头,其中有些品牌的价格甚至跌破2000元大关。

材料二　2002年冬季，随着空调企业整合期的到来，空调厂家顶严寒的“压力”拼死向前冲。空调市场刮起降价风，掀起一股促销热潮。格力、海尔、美的等知名品牌也纷纷卷入降价洪流。但商家的“不惜血本”也不能挽救空调市场的萧条景象。

材料三　2002年冬季至2003年春季，非典盛行，长虹、海尔厂家相继推出了健康空调，环保空调，开发出的新产品销售市场一举打入国际市场。

请运用经济常识回答：

(1)产生材料一、二、三三种现象的根本原因是什么？三则材料共同反映的本质问题是什么？(5分)

(2)综合材料一、二,谈谈你的认识。(12分)

(3)结合材料三说明,长虹、海尔集团是怎样适应市场要求的。(8分)

考点测试4

社会主义初级阶段的经济制度

▲ 三年高考　◇ 二年模拟　◈ 预测明年

测试时间：45分钟
本卷满分：100分

考点 本练涉及的考点有：公有制是社会主义经济制度的基础，以公有制为主体、多种所有制经济共同发展的基本经济制度；我国的分配制度。

本练在历年的高考试题中复现率较高，从近几年的“3+2”和“3+X”高考看，主要以选择题的形式出现，考查的内容涉及公有制的主体地位、国有经济的主导作用、农村集体经济的实现形式和大力发展非公有制经济等。能力上既重视考查对基础知识的识记与理解，也重视联系热点实际考查对知识的领会、迁移和综合能力。今后的复习仍需注意这一命题方向和特点。

课时测试

一、选择题（每小题4分，共52分）

1. （04春·江苏）五年来，某市已有4622名下岗职工走上个体经济的道路，22539名下岗职工在各类市场及个体私营企业中实现了再就业。上述材料主要说明，发展个体经济和私营经济，可以（　　）
   A. 有效地吸收劳动者就业
   B. 保存和发展传统技艺
   C. 增加国家财政收入
   D. 使劳动者获得更多收入

中共十六大以来，我国各方面改革进一步深化。请回答第2题。

2. （04·北京）中共十六届三中全会提出，要使股份制成为公有制的主要实现形式。这里的股份制（　　）
   A. 必须由国家或集体控股
   B. 是产品的分配方式
   C. 指混合所有制经济
   D. 都具有公有制性质

3. （04·湘鄂川）电信行业的发展必须打破垄断。电信行业的垄断（　　）
   A. 降低了电信行业的市场价格
   B. 提高了电信行业的服务质量
   C. 制约了电信行业的健康发展
   D. 扩大了电信行业的市场需求

4. （03·全国）在长江三角洲地区的经济中，非公有制经济发挥了重要推动作用。非公有制经济是（　　）
   A. 社会主义市场经济的重要组成部分
   B. 社会主义市场经济的主导作用
   C. 我国国民经济的主导作用
   D. 社会主义公有制经济的重要组成部分

5. （03春·全国）改革开放以来我国不断改革和完善所有制结构，建立了（　　）
   A. 以公有制为主体，多种所有制经济共同发展的基本经济制度
   B. 以公有制经济为主体，个体和私营经济为补充的基本经济制度
   C. 社会主义市场经济体制
   D. 以间接管理为主、宏观调控的管理体制

6. （02·上海）近年来，我国开始推行电子政务。2001年11月，国家经贸委规定，包括规划和纲要在内的所有文件都要上网，让各类所有制企业都及时了解和知情，以促进公平竞争。这一举措说明（　　）
   ①各类所有制企业应平等参与竞争　②非公有制经济是社会主义市场经济的重要组成部分　③市场的公平竞争主要靠行政干预　④政府对经济活动的管理不断改进
   A. ①②③　B. ②③④　C. ①③④　D. ①②④

7. （03·北京）我国现阶段之所以要在分配制度上，坚持把按劳分配与按生产要素分配结合，是因为（　　）
   A. 按劳分配是社会主义个人消费品分配的基本原则
   B. 社会主义公有制的经济基础与市场经济的客观要求
   C. 社会主义初级阶段多种所有制的并存与多种经营方式的并存
   D. 社会主义初级阶段生产力发展水平多层次、不平衡

8. （03·南昌）在我国现阶段，下列收入中属于按劳分配所得的有（　　）

A 三资企业工人的工资

B. 个体劳动者的劳动收入

C. 国有企业职工的奖金和津贴

D. 企业承包经营者的年薪

9. (03·武汉) 改革开放以来，我国私营经济以每年20%~30%的速度在增长。据统计，私营企业现有221万家,吸纳了包括国有企业下岗职工在内的从业人员共2931万人,创造产值占我国 GDP的1/5,缴纳税款占全国税收收入的1/10。可见 ( )

①私营经济为扩大就业和经济增长做出了贡献

②私营企业为深化国有企业改革提供了有利条件

③私营经济是社会主义市场经济的重要组成部分

④公有制经济与非公有制经济具有统一性

A. ① B. ①② C. ①②③ D. ①②③④

10. (03·郑州)某国有企业职工税后收入如下表(单位:元)

年度 \ 项目	工资	奖金	股息	房屋出租	其他投资	合计
2002	6000	2000	1000	2000	0	11000
2003	6500	2500	-500	2500	2000	13000

这一材料体现了 ( )

①我国坚持按劳分配与按生产要素分配相结合的原则 ②个人收入受市场竞争的影响 ③个人收入与企业经济效益相挂钩 ④个人收入与付出的劳动量相联系

A. ① B. ②③ C. ②③④ D. ①②③④

2003年8月25日《人民日报》载文指出,在新一轮发展中,我们要继续坚持"两个毫不动摇",推动国有经济不断发展壮大，推动个体私营经济不断上规模、上水平。据此回答11~13题。

11. (05·预测)材料中的"两个毫不动摇"就是指毫不动摇地 ( )

①深化经济体制改革 ②巩固和发展公有制经济 ③鼓励、支持和引导非公有制经济发展

④实行经济结构调整

A. ①② B. ②③ C. ③④ D. ①④

12. (05·预测)推动国有经济发展壮大 ( )

A. 是发挥国有经济主导作用的需要

B. 是克服经济私有化倾向的需要

C. 是为了促进非公有制经济发展

D. 必然使公有资产支配范围扩大

13. (05·预测)推动个体私营经济上规模、上水平表明 ( )

A. 它们是社会主义经济制度的基础

B. 它们在国民经济中占据主导地位

C. 它们的劳动生产率较高

D. 它们都是社会主义初级阶段重要的经济成分

二、非选择题(共48分)

14. 党的十六届三中全会强调，要适应经济市场化不断发展的趋势，进一步增强公有制经济的活力，大力发展国有资本、集体资本和非公有资本等参股的混合所有制经济，经济投资主体多元化，使股份制成为公有制的主要实现形式。需要由国有资本控股的企业，应区别不同情况实行绝对控股或相对控股。要建立健全国有资产管理和监督体制，深化国有企业改革，完善公司法人治理结构，加快推进和完善垄断行业改革。要大力发展和积极引导非公有制经济，允许非公有资本进入法律法规未禁入的基础设施、公用事业及其他行业和领域。非公有制企业在投融资、税收、土地使用和对外贸易等方面，与其他企业享受同等待遇。要改进对非公有制企业的服务和监管。

阅读上述材料，回答下列问题：

(1)为什么要进一步增强公有制经济的活力？(10分)

(2)使股份制成为公有制的主要实现形式会不会动摇我国公有制的主体地位？(10分)

(3)材料中强调，要大力发展和积极引导非公有制经济。请结合所学知识谈谈你对这一结论的认识。(10分)

15. (04·湘鄂川)电力曾经被誉为国民经济的"先行官"。针对近些年来由经济快速增长和人民生活水平提高引发的电力紧张现象，国家决定加快电力工业的发展。在确保国有电力企业健康发展的同时，鼓励其他经济成分投资兴建电力企业。一些地方还通过试行电力供应"分时定价"的方式，缓解高峰时期的供电紧张局面。

根据所学经济常识，分析上述材料中发展电力工业的措施。(18分)

考点测试 5

社会主义市场经济的基本特征

▲ 三年高考　◇ 二年模拟　◈ 预测明年　　测试时间：45 分钟　本卷满分：100分

考点聚焦 本练涉及的考点有 市场经济的一般特征 国家的宏观调控 社会主义市场经济的基本特征。

本练是历年高考考查的重点，从试题类型看，小到小选择题，大到主观题，可以说无所不包。涉及的内容有 市场经济的四个基本特征，宏观调控的手段、宏观调控的必要性等。今后备考应重视对本练的复习，要注意结合价值规律、市场经济的一般特征、市场经济的弱点和缺陷、国企改革、党和国家现阶段的经济政策和战略、整顿和规范市场经济秩序及入世后政府职能的转变等内容和热点来理解。

课 时 测 试

一、选择题（每小题 4 分，共 52 分）

1.（04 春·全国）期货交易是一种交换方式，交易双方约定在未来某个时期内按协议价格和数量进行交易，我国发展期货市场有利于　（　　）

A. 社会主义市场经济体系的完善

B. 中央政府对市场经济的调控

C. 企业（生产者）经济效益的提高

D. 我国社会保障制度的完善

2.（04 春·北京）某市三轮摩托车营运不但影响市容，而且常引发交通事故。有关部门多次发文取缔，均因车主抵制而未果。2003 年，该市修改相关法规，制定了包括折价回收三轮车、帮助车主转岗就业在内的一揽子保障政策和安置措施，从而在较短时间内圆满解决了这一难题。

这一问题的圆满解决表明　（　　）

A. 社会问题应完全按市场规律来解决

B. 国家履行社会管理职能的关键在于依法行政

C. 国家管理经济的职能就是进行经济协调和市场监管

D. 运用法律、行政与经济综合手段解决社会问题具有重要意义

3.（04·全国高考）今年头两个月我国固定资产投资增长了 53%，增速超过去年一倍，仅钢铁工业投资增长就达到 72.6%。解决局部投资过热、低水平重复建设问题，政府应采取的主要方法是　（　　）

A. 充分发挥市场自身的作用

B. 进行宏观经济调控

C. 鼓励居民消费

D. 降低银行利率

资源问题是可持续发展的重要问题。回答第 4 题。

4.（04·天津）我国人均资源占有量不足，有效提高资源利用率的根本方法是　（　　）

A. 发挥市场作用　　B. 强化宏观调控

C. 增强节约意识　　D. 依靠科技进步

5.（03·上海）国务院有关部门决定，自今年 5 月 1 日至 9 月 30 日，对受"非典"影响较大的餐饮、旅游、出租汽车等八大行业，实行减免行政事业性收费和 15 项政府性基金的政策。这一政策的出台说明　（　　）

A. 市场经济健康发展需要国家的宏观调控

B. 国家在资源配置中起基础性作用

C. 国家重点保护关系国民经济命脉的行业

D. 国务院是我国的国家权力机关

6.（03·上海综合）正当全国人民众志成城抗击"非典"时，却有一些人见利忘义，制假售假，哄抬物价。对此，国家有关部门及时下发《关于加强防治非典药品监督和管理工作的紧急通知》，要求依据《价格法》等法律、法规严肃处理，从重处罚。这里体现的国家宏观调控的手段是　（　　）

①法律手段　②经济手段

③行政手段　④舆论手段

A. ②　B. ①③　C. ①②④　D. ①②③④

7.（03·江苏）不少农民"跟风种地"，去年市场什么品种走俏，今年就种什么品种，结果往往事与愿违。他们之所以不能取得预期的经济效益，其原因是市场调节具有　（　　）

A. 开放性　　B. 竞争性

C. 自发性　　D. 滞后性

8.（02·大综合）面对房地产业的蓬勃发展和不断增加的住户投诉，政府应当　（　　）

A. 严格执法程序,坚决保护住户利益

B. 采取适当措施,妥善保护房地产开发商的积极性

C. 制定和完善相关法律,规范房地产市场

D. 让市场自发协调住户和房地产开发商的利益

经过 15 年的艰苦谈判,中国在 2001 年 12 月 11 日正式成为世界贸易组织(WTO)的成员国,据此回答 9~10 题。

9. (02 春·全国) 加入 WTO 以后,我国市场上国内外企业间的竞争将日趋激烈。这是因为 ( )

A. 中国企业国际竞争力迅速提高

B. 中国市场将成为开放统一的市场

C. 中国市场的商品需求基本饱和

D. 中国政府不再调控市场经济活动

10. (02 春·全国)面对加入 WTO 后的新形势,我国要形成一批拥有著名品牌和自主知识产权、主业突出、核心能力强的大公司和企业集团。实行这一措施是为了 ( )

A. 提高国家核心竞争力 B. 增加国有经济成分

C. 拓宽产品销售渠道 D. 改善人们就业状况

11. (02·全国) 位于某江上下游的 A、B 两市水资源的拥有量差别很大。2000 年,缺水的 B 市出资 2 亿元向 A 市买下了 5000 万立方米水资源的永久使用权,用以解决本市水资源供不应求的问题,也使 A市获得了相应的收益。水资源的市场调节有利于 ( )

A. 提高资源配置效率 B. 调整区域经济结构

C. 发挥政府调控作用 D. 推动区域经济增长

12. (04·武汉)民营企业大北农集团出资 1000 万元设立科学基金,奖励有突出贡献的科学家。这一做法 ( )

A. 有利于多种所有制经济共同发展

B 有利于促进我国生产力的发展

C. 表明民营企业已成为社会主义市场经济的重要组成部分

D. 表明非公有制经济与公有制经济在本质上是一样的

13. (04·武汉)近几年,我国经济稳步发展,避免了有些国家搞市场经济造成的大起大落局面,这说明我国的社会主义市场经济能比资本主义国家的市场经济运转的更好。对此,以下说法正确的是 ( )

A. 我国的市场经济是国家计划指导的

B. 我国的市场经济体制是同社会主义基本制度结合在一起的

C. 我国的市场经济在资源配置中起基础性作用

D. 我国的市场经济没有自发性、盲目性、滞后性

二、非选择题(共 48 分)

14. (04·西安)背景 近年来,由于市场监督不力,市场上不时传出"有毒大米、有毒食用油""有毒月饼""黑心棉花""劣质奶粉"等事件。这些事件严重破坏了市场经济秩序。

辨题:整顿和规范市场经济秩序,就要强化国家对市场的监督。(20 分)

15. (04·黄冈)材料一《人民日报》以《市长为何搬不动市场》为题报道说,经过 13 年的发展,地处沈阳市南二马路的中国小食品城已小有名气。而沈阳市五部门却于去年 10 月联合发出通知,限令小食品城整体迁移至浑河大市场。虽然他们是出于对小食品城长远发展的考虑,但却未考虑到对按期经营的影响,使众多业主对此举颇有微词,不予配合,迟迟不搬。半年过去了,南二市场依旧存在,浑河大市场未见红火。

材料二 记者在分析"南二风波"时说,市场经济不是"市长经济",不是市长让干什么,经营者就干什么,要看到市长有力量,同时还要看到市场的力量。一些经济学者说,现在搞市场经济,市长不管市场是不对的;可是,市长依然沿袭老办法,想用行政命令的方式迅速解决市场问题,也是做不到的。

(1)请运用经济学知识,结合材料一中的做法,说明材料二为什么说"要看到市长有力量,同时还要看到市场的力量"?(14 分)

(2)请结合材料二,指出市长搬不动市场的原因是什么?市长应当怎样管好市场?(14 分)

单元能力测试2（考点4～5）

社会主义初级阶段的经济制度和社会主义市场经济

▲ 三年高考　◇ 二年模拟　◈ 预测明年

测试时间：90分钟
本卷满分：150分

一、选择题（下列各题只有一个最符合题意的答案。每小题3分，共75分）

汽车工业“十五规划”的负责人强调，汽车工业的发展不能局限于某个地区、某个国家的界限，充分利用国内外两种资源、两个市场、抓住机遇、迎接挑战，是前进方向。但放任自流，无所作为也不是政府的政策方向。政府从法律、市场秩序、消费环境、管理体制改革等方面积极有效地开展工作，也是行业发展的内在要求。结合材料，回答1～2题。

1. 我国汽车工业发展的前进方向表明市场经济具有的特征（　　）

①平等性　②竞争性　③法制性　④开放性

A. ①②　B. ②③　C. ③④　D. ②④

2.“放任自流、无所作为不是政府的政策取向”意味着（　　）

①在市场经济条件下，市场对资源的调节作用不是万能的，也不是完美无缺的　②社会主义市场经济的发展离不开国家的宏观调控　③国家的计划指导是我国市场经济的显著特征　④国家宏观调控这只“看得见的手”支配着市场这只“看不见的手”

A. ①②　B. ②③　C. ②④　D. ③④

要通过发展股份制，增强国有经济的控制力、影响力和带动力。对国有企业进行规范的股份制改革，可以使国有资本吸引、调动和组织更多的社会资本，放大国有资本的功能。重要的企业由国家控股，更好地发挥国有经济在国民经济中的主导作用。阅读材料，请回答3～4题。

3. 要增强国有经济的控制力（　　）

①对关系国民经济命脉的重要行业和关键领域，国有经济必须占支配地位　②在混合所有制经济中，国有成分和集体成分必须占支配的地位

③国有经济要提高自己的整体质量和竞争力，并在国内外竞争中不断壮大　④国有经济必须实行股份制改革，将其全部改组为股份合作制企业

A. ①②　B. ②③　C. ①③　D. ③④

4.“要通过发展股份制，增强国有经济的控制力影响力和带动力”说明（　　）

A. 只要实行股份制，国有经济的控制力、影响力和带动力就可以增强

B. 国有企业发展股份制有助于巩固公有制的主体地位

C. 股份制是我国公有制的惟一实现形式

D. 只有国有经济才能实行股份制

下面漫画中农民增产不增收，是因为（　　）

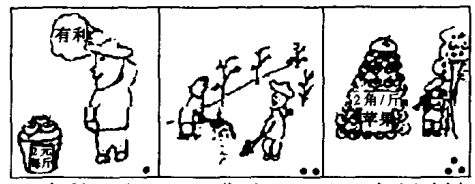

有利可图　一哄而上　挥泪砍树

A. 市场上等价交换原则没有得到贯彻

B. 农民对价格信号的反应不灵敏

C. 市场调节具有滞后性

D. 市场交易秩序混乱，缺乏诚实信用

6. 为解决上述问题，增加农民收入，政府应该（　　）

①发展农业产业化经营

②实施小城镇化战略，转移农村富余劳动力

③提供科技、市场信息服务

④整顿市场秩序，放开价格

A. ①③　B. ②④　C. ①④　D. ②③

7. 在扶贫项目的确定上，相当长一段时间内由政府选择。现在，一些地方开始由农民选出项目，经过专家论证后付诸实施，政府将把扶贫资金直接投到这些项目中去。这种扶贫方式（　　）

A. 适应了市场经济的要求，尊重了农民的经营自主权

B. 尊重了农民的意愿，但不利于政府的宏观调控

C. 将政府的宏观调控和农民的微观经营混为一谈

D. 坚持和完善了家庭承包经营为基础、统分结合的双层经营体制

读漫画《新“老鹰捉小鸡”》，回答8～9题。

8. 这幅漫画说明（　　）

A. 假冒伪劣是地方政府保护的结果

B. 地方政府不正确地行使了权力

C. 地方保护主义保护了地方的利益



新“老鹰捉小鸡”

D. 地方保护主义有存在的基础

9. 地方政府的做法 ( )

①违背了市场经济的法制性

②重视了市场经济的平等性

③违背了市场经济的开放性

④忽视了市场经济具有竞争性

A. ① B. ①③ C. ①③④ D. ①②③④

全国金融工作会议指出：市场经济是信用经济、法制经济。会议同时强调要建立良好的社会信用。据此回答 10～11 题。

10. 市场经济是法制经济,主要是说 ( )

A. 市场经济必须打破地区封锁

B. 不讲平等性，市场经济就无法进行

C. 只要建立法制，就能克服竞争的盲目性

D. 经济运行必须有健全的法制基础，经济活动必须依法进行

11. 会议强调要建立良好的社会信用，是因为 ( )

A. 良好的社会信用是实现共同富裕目标的必要条件

B. 良好的社会信用有助于维护市场经济秩序

C. 只要讲信用就能促进经济发展

D. 良好的社会信用是宏观调控的主要内容

《人民日报》报道二连浩特发展个体、私营企业“四不限”，鼓励个体私营企业大胆进入国家法律明令禁止以外的任何经济领域。据此回答 12～14 题。

12. 个体、私营经济都是 ( )

A. 社会主义条件下的混合所有制经济

B. 以劳动者自己劳动为基础的

C. 以生产资料私有制和雇佣劳动为基础的

D. 社会主义市场经济的重要组成部分

13. 二连浩特大力鼓励个体、私营经济发展，是因为发展个体、私营经济 ( )

①有利于扩大劳动就业 ②对提高国家的综合实力有决定作用 ③有利于增加劳动者个人收入 ④有利于国家财政增收

A. ①②③ B. ①②④

C. ①③④ D. ②③④

14. 对个体、私营经济加强扶持和引导 ( )

A. 根本目的是为了防止两极分化

B. 符合多种所有制经济共同发展的政策

C. 忽视了公有制经济的主体地位

D. 是价值规律的客观要求

党的十六大报告在讲到收入分配问题时指出，初次分配注重效率，发挥市场的作用，鼓励一部分人通过诚实劳动、合法经营先富起来。再分配注重公平，加强政府对收入分配的调节职能，调节差距过大的收入。据此回答 15～17 题。

15. 上述材料主要体现了 ( )

A. 按劳分配原则 B. 公有制的主体地位

C. 大公无私的奉献精 D. 效率与公平的统一

16. 合理且适度的收入差距是贯彻党和国家尊重劳动、尊重知识、尊重人才、尊重创造等重大方针的必然要求,它有利于 ( )

①克服平均主义，更好地发挥收入分配的激励作用 ②尊重和保护一切合法的劳动收入和合法的非劳动收入 ③鼓励知识创新和科技创新，充分调动广大科技人员创新的积极性 ④发挥公有制经济的主体作用

A. ①②③ B. ②③④ C. ①②④ D. ①③④

17. 党和政府一直十分重视收入差距的调节问题，明确提出了保护合法收入、取缔非法收入、整顿不合理收入、调节过高收入、保障低收入者基本生活等一系列政策。这表明 ( )

A. 坚持公有制的主体地位是社会主义市场经济的基本标志

B. 社会主义以实现共同富裕为根本目标

C. 在社会主义条件下，国家能够实行强有力的宏观调控

D. 有效调控收入差距，是一项长期而艰巨的任务

近几年来，中国移动与中国联通两大移动运营商为了争夺市场，以单向收费来让利于消费者。但是作为通信主管部门的信息产业部却对两家运营商不断地开出“罚单”,对单向收费坚决“封杀”。信息产业部的做法不仅遭到广大消费者的强烈反对，而且两运营商也频频“暗渡陈仓”,变相“违规”。信息产业部陷入了两面不讨好的“尴尬”境地。据此回答 18～20 题。

18. 上述材料说明 ( )

A. 市场经济条件下国家需要加强宏观调控

B. 政府对国有企业的经营管理不应过问

C. 话费下降不符合消费者的利益

D. 信息产业部的行为与企业市场行为发生了矛盾

19. 信息产业部是两移动运营商的最大股东，两大运

营商的单向收费必然影响到股东的收入，因此信息产业部不断出台措施限制单向收费，保证其利润收入。这从一个侧面说明 （ ）

A. 国有企业资产管理制度必须改革
B. 国家不应从两家企业中获得利润
C. 市场经济与集体主义是一致的
D. 国家利益高于消费者的利益

20. 信息产业部要摆脱这种“尴尬”局面必须 （ ）

A. 收回企业的经营自主权，由该部直接经营
B. 提高行政效率，消除人浮于事的现象
C. 提高对外开放的水平，保护民族产业
D. 搞好职能“定位”，消除政府产业化现象

中央从全面建设小康社会着眼做出支持东北老工业基地加快调整和改造的重大战略决策。我国政府贯彻这一重大决策，正式着手东北老工业基地的调整和改造，振兴东北经济。回答 21～23 题。

21. 国家提出振兴东北老工业基地的政策，表明 （ ）

A. 社会主义市场经济是同我国的社会主义基本制度结合在一起的
B. 社会主义市场经济以共同富裕为根本目标
C. 国家的宏观调控可以控制社会总需求和总供给的大致平衡
D. 在社会主义市场经济条件下，国家能够集中力量办大事

22. 振兴东北经济，为海内外投资者提供了巨大的商机，必将吸引他们进行踊跃的投资和开发。因为 （ ）

A. 价值规律具有自发的调节作用
B. 国家的宏观调控在资源的配置中起基础性作用
C. 市场经济是社会化的商品经济
D. 社会主义的本质是实现共同富裕

23. 20 年的改革开放，东北人民虽然摆脱了计划经济的束缚，但是市场经济观念还比较淡薄，这说明在振兴东北的过程中 （ ）

A. 要发挥市场在资源配置中的基础性作用
B. 要充分发挥东北的资源优势
C. 要加强国家的宏观调控
D. 要坚持对外开放

目前，“十五”计划确定的青藏铁路、西电东送、西气东输、南水北调四大工程已经全部开工。据此回答 24～25 题。

24. 随着四大工程的相继开工建设，上海市民用上新疆的天然气，东部百姓乘火车直达“日光城”，华北人喝上甘甜的长江水，这些多年的梦想正在化为美好的现实。可见，四大工程开工建设 （ ）

A. 有利于优化我国的所有制结构
B. 有利于实现资源的优化配置
C. 反映了市场对经济资源的调节作用
D. 体现了宏观调控在资源配置中起基础性作用

25. 四大工程以前所未有的气魄，在华夏大地上实现东西南北资源大调度，改变着中国经济的发展布局。这表明 （ ）

A. 发展市场经济是振兴我国经济的必由之路
B. 社会主义市场经济以实现共同富裕为根本目标
C. 社会主义市场经济条件下，国家能够实行强有力的宏观调控
D. 市场经济的发展主要靠国家的宏观调控

二、非选择题（共 75 分）

26. 材料一　保护一切合法的劳动收入和合法的非劳动收入。包括民营企业家等新出现的社会阶层都是中国特色社会主义事业的建设者，他们中的先进分子可以加入中国共产党。十六大后，民营企业家等非公有制经济人士的人大代表、政协委员都比以前有所增加。5 月份，浙江省首次有两家非公有制企业荣获“全国五一劳动奖状先进集体”称号。

材料二　十六届三中全会公报指出：要大力发展和引导非公有制经济，允许非公有资本进入法律法规未禁入的基础设施、公用事业及其他行业和领域。非公有制企业在投融资、税收、土地使用和对外贸易等方面，与其他企业享受同等待遇。

阅读上述材料，回答下列问题：

（1）“保护一切合法的劳动收入和合法的非劳动收入”的经济学依据的什么？（8 分）

需要全本请访问 www.ertongbook.com