高考能力创新设计

2005全国名校联考

天利38套经济版

政治

全国高考命题研究组
北京天利考试信息网 编

西藏人民出版社

需要全本请访问 www.ertongbook.com

欢迎加入“天利考试信息网”

北京天利考试信息网向广大考生提供最新考试信息、高考动态、最新试题、高校介绍、志愿填报技巧等各类信息和服务，是考生的良师益友。

加入办法：

1.累计购买正版西藏人民出版社“天利”图书10本以上（剪下图书所附回执表寄回信息网）；

2.汇寄30元入网费（教师可免费申请），网员享受以下权利：

①获得网号、密码或网卡，网上或网下获得最新考试信息；

②获赠新书或效率手册或最新试题；

③获得天利高考动态杂志和其他信息资料；

④网上订书可获优惠。

北京天利考试信息网：www.TL100.com E-mail：info@TL100.com

通讯地址：100027 北京4717信箱天利考试信息网

电 话：010-64635854，64656531，84480193

“天利38套经济版”回执

姓 名		性 别		职 业	学生/教师	年级科目	
联系地址、邮编及电话							
说 明							

高考能力创新设计
——天利38套经济版
北京天利考试信息网 编
*
西藏人民出版社出版
责任编辑：李海平 封面设计：谭仲秋
社址：850000 拉萨市林廓北路20号
北京发行部：100027 北京4717信箱
电话：010-64680026 64651171
北京市金顺印刷厂印刷
全国新华书店经销
开本：787×1092毫米 1/16 印张：61.5 字数：1500千
2004年6月第4版第1次印刷
ISBN 7-223-01347-8/G·566
总定价（全12册）：72.00元

目 录

1.南京市2004年高三第一次质量检测
2.广东省2004年高三第二次调研考试
3.广州市2004年高中毕业班综合测试（一）
4.江苏省苏、锡、常、镇四市2004年高三教学情况调查
5.江苏省徐州市2004年高三第二次质量检测
6.桂林市2004年高考第三次模拟考试
7.广东省深圳市2004年高三第一次调研考试
8.江苏省盐城市2004年高三第二次调研考试
9.北京市西城区2004年高三抽样测试
10.东北三校2004年高三联合考试
11.湖北省黄冈市2004年高三期末调研考试
12.杭州市2004年高三年级教学质量监测
13.福建省达标中学2004年高中毕业班质量检查
14.太原市2004年高三基础知识测试
15.南昌市2004年高三第一次调研测试
16.石家庄市2004年高中毕业班复习教学质量检测（一）
政治参考答案及解题提示

南京市 2004 年高三第一次质量检测

1 A

政　　治

本试卷分第Ⅰ卷（选择题）和第Ⅱ卷（非选择题）两部分。共 150 分。考试用时 120 分钟。

第Ⅰ卷（选择题，共 75 分）

一、在下列各题的四个选项中，只有一项是最符合题意的。每小题 2 分，共 48 分

1.《中共中央关于完善社会主义市场经济体制若干问题的决定》，提出“五个统筹”和“五个坚持”，确立了　　（　）

A．全面、协调、可持续发展观　　B．城乡、地区平衡发展观

C．经济、社会协调发展观　　D．人与自然和谐发展观

2．在《公民道德建设实施纲要》颁布两周年之际，经党中央同意，中央精神文明建设指导委员会提出关于深入贯彻党的十六大精神，进一步加强公民道德建设的意见，决定从 2003 年开始，将《纲要》印发的_____定为“公民道德宣传日”。　　（　）

A．5 月 4 日　　B．8 月 1 日　　C．9 月 10 日　　D．9 月 20 日

3．2003 年 8 月 3 日，2008 年北京奥运会会徽在北京天坛公园祈年殿隆重揭晓。会徽为中国传统印章图形中的一种“肖形印”，其正式名称为　　（　）

A．中国印·舞动的北京　　B．中国印·欢快的北京

C．新北京　新奥运　　D．绿色奥运　科技奥运　人文奥运

4．富有浓郁中国文化传统的 2008 年北京奥运会会徽，既有优美的形象景观，还有利于市场开发。会徽能够进行市场开发，是因为　　（　）

A．有奥运会会徽的商品就有竞争力

B．使用奥运会会徽就能提高企业经济效益

C．奥运会会徽也是一种商品，具有巨大的商业价值

D．会徽是重要的信息资源

5．伟大的斗争产生伟大的精神。2003 年春季，面对突如其来的灾难，全国人民齐心共抗“非典”，形成了伟大的抗击“非典”24 字精神。它们是：①万众一心，众志成城；②团结互助，和衷共济；③爱国守法，明礼诚信；④迎难而上，敢于胜利。　　（　）

A．①②③　　B．①②④　　C．①③④　　D．②③④

6．面对“非典”疫情，党中央果断决策，带领全国人民坚持一手抓防治“非典”，一手抓经济建设，为确保抗击“非典”胜利和保持我国经济持续发展提供了强大的政治保证。这反映出　　（　）

A．我们党是社会主义事业的领导核心

B．中国共产党代表中国先进文化的前进方向

C．我们党加强组织建设，保持党与人民群众的血肉联系

D．中国共产党具有组织社会管理和经济建设的职能

7．新中国成立以后，我军已进行过九次重大精简整编。进入新世纪，党中央、中央军委审时度势，决定在“九五”期间裁军五十万的基础上，2005 年前再裁军二十万。下列关于中国人民解放军的说法中，正确的是

①他们是我国武装力量的主体　②他们是我国人民民主专政的坚强柱石　③他们已实现科技现代化　④他们承担着保卫祖国和国家建设双重任务　（　）

A．①②③　　B．②③④　　C．①③④　　D．①②④

8．灰心生失望，失望生动摇，动摇生失败。从唯物论看，这说明　　（　）

A．物质对意识具有决定作用　　B．主观意识有时是第一位的

C．意识具有能动作用　　D．具体问题要具体分析

9．下列表述能体现整体和部分关系原理的有

①国兴则家昌，国破则家亡　②一着不慎，全盘皆输　③我国经济建设分三步走　④动中有静，静中有动　（　）

A．①②④　　B．①②③　　C．①③④　　D．②③④

10．发现错误的意义不亚于发现真理。一位科学家说：“我们那些最重要的发现是受到失败的启示而作出的。”这说明　　（　）

A．失败就是成功，谬误就是真理　　B．要想成功必须先失败

C．没有失败就不会有成功　　D．失败与成功相反相成

11．我国政府主张尊重各国的历史文化、社会制度和发展模式，承认世界多样性的现实，提倡国际关系民主化和多样化。尊重世界的多样性的哲学依据是　（　）

A．事物之间的联系是普遍的，多种多样的

B．任何两个事物都是有联系的

C．世界的本质是多样的

D．不同事物的矛盾具有不同的特点

12．集体主义是新时期我国人民的正确的价值取向。这是因为

①它反映社会主义公有制经济关系的客观要求，体现我国人民的根本利益　②它正确的解决了个人利益和集体利益的关系　③它是我国人民实现现代化建设战略目标的力量源泉　④它是马克思主义理论精髓，也是邓小平理论精髓　（　）

A．①②③　　B．②③④　　C．①③④　　D．①②④

13．爱因斯坦说：“我评定一个人的真正价值只有一个标准，即看他在多大程度上摆脱了‘自我’。”对这句话的正确理解是　　（　）

A．人生价值的大小是看社会对他满足的程度

B．人生价值的大小，取决于自我价值实现的程度

C．人生的真正价值在于完善自我

D．人生的真正价值在于对社会的贡献

14．克隆技术是一种人工诱导的无性繁殖方式。2003 年 2 月 15 日世界上第一只体细胞克隆动物——克隆羊多利因为肺部感染而被执行“安乐死”。科学家还不能确定这是克隆过程的遗传疾病，还是纯属偶然。这说明　　（　）

A．联系是不以人的意识为转移的

B．真理总是相对的

C．人的认识是有限性与无限性的统一

D．不同人对同一事物的认识会有所不同

15．上下五千年的悠久历史，培育出独具特色、长领风骚的中国兵法。这体现了　　（　）

A．实践是客观的物质性活动　　B．实践是认识的基础

C．认识对实践具有指导作用　　D．实践是社会发展的决定力量

16．实现个人与社会、主观与客观的统一的基础是　　（　）

A．科学理论的指导　　B．社会实践

C．获得真理性的认识　　D．学习科学文化知识

17．长江三峡工程自开工建设以来，政府精心组织，全国人民齐心支持，工程顺利推进，各期阶段性目标顺利完成，为 2009 年全面建成三峡工程奠定了坚实的基础。这表明　　（　）

A．社会主义国家具有集中力量办大事的优越性

B．建设大型工程是我国现阶段的中心工作

C．只要建设大型工程就能促进我国经济发展

D．我国政府坚持对人民负责的原则

18．右边漫画给我们的启示是　　（　）



“三个和尚挑水吃”

A．人多力量大，合作促创新

B．坚持以人为本、就业优先

C．要积极发展劳动密集型产业

D．要优化资源配置

19．近期，粮食、棉花、油料等农产品价格上涨引起各方关注。新时期确保粮食安全，主要应该　　（　）

A．进一步扩大粮食生产面积，提高粮食产量

B．完全通过市场来调节

C．保护和提高粮食综合生产能力

D．以国家粮食储备调节为主

20．社会主义税收取之于民，但我国税收的增长主要依靠　　（　）

A．增强公民的纳税意识

B．发展生产和提高经济效益

C．增加税种，扩大征税范围

D．加大打击偷税、漏税、骗税、抗税等行为

21．中国人民银行是我国的中央银行，其主要职责是　　（　）

A．统一经营全国的外汇买卖业务，办理国际结算

B．发行股票和各种建设债券

C．制定、执行全国统一的金融方针、政策

D．为国家大型工程建设筹集资金

22．2003 年 7 月 15 日，国家发展和改革委员会召开了民航价格听证会，来自全国各地的消费者代表、经营者代表、专家学者共同对《民航国内航空运输价格改革方案》进行论证。举行价格听证会，由消费者评议物价，这充分尊重了消费者的　　（　）

A．知情权　　B．自主选择权　　C．公平交易权　　D．安全权

23．近一年来，人民币汇率问题成为国际关注的热点，我国面临部分国家要求人民币升值的压力。对此，我国政府明确表明维护人民币汇率基本稳定。汇率是指　　（　）

A．两国货币的价值之比　　B．美元和欧元的比价

C．两种货币之间的兑换比率　　D．两国外汇储备的比例

24．2003 年，发达国家对发展中国家的贸易保护主义有抬头趋势。他们不仅沿用所谓的配额制，而且动辄引用反倾销条款。面对发达国家的贸易保护主义，我国在对外贸易中应坚持

①独立自主、自力更生原则　②平等互利的原则　③非歧视原则　④保护民族工业原则　（　）

A．①②　　B．③④　　C．①③　　D．②④

二、在下列各题的四个选项中，至少有一项是符合题意的。错选、多选，该题不给分；少选且正确的，给 1 分。每小题 3 分，共 27 分

25．2003 年 8 月 27 日，十届全国人大常委会第四次会议通过了《中华人民共和国行政许可法》，这是我国的第一部行政许可法。该法对行政许可的设定范围、种类、程序以及行政许可的监督、收费等做出了明确的规定。该法的实施有利于　　（　）

A．我国政府向服务型的转变

B．促进我国政府依法行政

C．进一步加强我国的民主政治建设

D．增强各级人民代表大会的行政管理职能

26．近年，部分省市政府设立新闻发言人制度，及时发布和解释政府重大决策、重要规定和重大工作，表明政府对突发事件、社会热点和新闻报道等问题的态度和处理意见。设立新闻发言人制度（　）

A．能营造更加公开、透明的信息环境

B．使社会公众享有更加充分的知情权和监督权

C．能使社会公众直接参与政府决策

D．能提高政府决策透明度

27．2003 年 10 月 19 日，胡锦涛主席和布什总统在泰国曼谷 APEC 会议上成功会晤，就中美关系和其他共同关心的国际和地区问题深入交换了意见，就进一步充实和发展中美建设性合作关系达成重要共识。12 月 7 日至 10 日，温家宝总理对美国成功进行访问，对中美经贸问题及台湾问题等阐明了我国的立场。这表明（　）

A．中美两国存在着共同利益

B．霸权主义、强权政治已不复存在

C．我国奉行独立自主的和平外交政策

D．世界的多极化已经形成

28．老子说过：“不出户，知天下；不窥牖（音 yǒu，指窗户），见天道。出尔弥远，其知甚少。是以圣人不行而知，不见而明，不为而成。”这一观点（　）

A．肯定了事事需要亲自参加实践

B．否认了实践是认识的来源

C．强调了意识是物质的反映

D．认为人的认识是主观自生的，是先天就有的

29．在中国共产党建党 82 周年之际，胡锦涛总书记发表重要讲话，号召全党兴起学习“三个代表”重要思想新高潮。从哲学角度看，学习和贯彻“三个代表”重要思想，必须（　）

A．坚持改造客观世界与改造主观世界相结合

B．坚持解放思想，实事求是、与时俱进

C．坚持在实践中运用理论和发展理论相结合

D．坚持按价值规律办事

30．创新是一个非常复杂的思维过程，是产生现实中不存在的新事物的人类活动，它最能体现出一个人或一个国家的主观能动性作用。从哲学角度分析（　）

A．创新就是摆脱一切束缚

B．创新就是摆脱一切已有的观念，树立全新的观念

C．创新就是把敢想敢干的精神和科学求实的态度结合起来

D．创新就是解放思想与实事求是相统一

31．2003 年 5 月 1 日，浙江省首次有两家非公有制企业——浙江宣化集团、浙江宝业集团获得全国“五一劳动奖状”先进集体。这说明（　）

A．非公有制经济能为我国社会主义现代化建设作出贡献

B．随着改革开放的深入，我国工人阶级队伍已发生质变

C．非公有制经济已经成为我国经济的主导

D．国家承认和尊重一切有益于人民和社会的劳动

32．党的十六届三中全会提出，加快建设全国统一市场。强化市场的统一性，有利于（　）

A．商品以及各种要素在全国范围内流动

B．各地经济迅速发展

C．促进公平竞争

D．促进技术进步和实现优胜劣汰

33．面对日趋激烈的国际人才竞争和加入 WTO 后的新形势，我国提出人才强国战略。我国加强人才队伍建设，是因为（　）

A．国际竞争实质就是人的竞争

B．劳动者素质高低影响着一国劳动生产率水平

C．人才是最重要的经济资源

D．科技进步只有通过人才能实现

第Ⅱ卷（非选择题，共 75 分）

三、简答题（本大题共 2 小题，每小题 9 分，共 18 分）

34．在党的十六届三中全会上，胡锦涛同志代表中央政治局向中央委员会报告工作，被列为全会首项议程。这是新一届党中央领导集体进一步发扬党内民主、增强党的活力的最新努力。

问题：中央政治局向中央委员会报告工作，对发扬党内民主、增强党的活力有何意义？

35．材料一：2003 年我国投资继续高幅增长，经济发展迅猛，加上夏季持续高温，生产和生活用电量激增，各地特别是东南沿海地区普遍出现“电荒”，对此，各地纷纷实施紧急限电措施。

材料二：针对电力供应不足，我国加大财政投入，开工和即将开工建设一大批电力工程，这将有效地缓解电力供需矛盾，为国民经济持续、快速、健康发展奠定基础。

问题：结合上述材料及所学经济学知识，分析国家加强电力等基础设施建设对我国经济发展的积极作用。

四、辨析题（第 36 题 10 分，第 37 题 11 分，共 21 分。仅作判断不说明理由者不得分）

36．辨题：“仁者见仁，智者见智”，因此，公说公有理，婆说婆有理，大家都有理。

37．背景：近年来，为加快城镇建设，我国一些地区进行旧城改造。在拆迁中，有关部门的有些做法损害了群众利益，引发不少纠纷。针对上述情况，各地政府及时出台相关政策和法规，规范拆迁，切实保护群众利益。

辨题：在我国，群众利益无小事，国家保护公民的一切利益。

五、论述题（本大题共 2 小题，第 38 题 17 分，第 39 题 19 分，共 36 分。每题设置 2 分综合评价分，用于对考生分析问题和解决问题能力的综合评价。要求紧扣题意，综合运用所学知识，结合材料展开分析）

38．根据以下材料回答问题。（17 分）

从“女娲补天”到“嫦娥奔月”，从敦煌精美的“飞天”壁画，到李白“欲上青天揽日月”的壮美诗句，寄托了几千年来中国人的飞天梦。

新中国成立后，面对当时的国际形势，毛泽东同志发出“我们也要搞人造卫星”的号召，我国开始了“可上九天揽月”的航天路。20 世纪八十年代，邓小平同志提出“科学技术是第一生产力”，促进了我国航天事业的发展。随着我国科学技术的发展和综合国力的增强，以江泽民同志为核心的第三代领导集体高瞻远瞩、审时度势，作出了实施载人航天工程的重大战略决策。

从“两弹一星”到“神舟”五号，我国的航天工业从无到有，从弱到强，走过了不平坦的道路。当代中国航天人励精图治，科学务实，奋发进取，克服了巨大困难，解决了很多技术难题，仅用 11 年时间就突破了载人航天技术，中国人为之魂牵梦绕、为之不懈追求的载人航天梦，终于梦想成真！

（1）从“两弹一星”到“神舟”五号的发展过程体现了什么哲学道理？

（2）结合材料，运用所学哲学知识说明：中国人的航天梦为什么能变成真。

39．根据以下材料回答问题。（19 分）

表 1　A 地区国有企业经营状况

	亏损企业户数	上缴税收占工业企业上缴税收比例	盘活企业存量资产
2001 年	70	40%	500 亿元
2003 年	13	60%	2000 亿元

注：2003 年该地区通过市场重组企业 8 户，其中一户具有一定的国际竞争力。

表 2　A 地区国有资本在各行业中所占比重（%）

	金融、通信、电力、石油等	食品、服装、商业等
2001 年	82	78
2003 年	95	26

注：2003 年该地区国有及国有控股企业完成增加值增长 11．65%，比 2001 年高出 3%。

表 3　A 地区国有企业的资本构成情况（%）

	国有资本	集体资本	非公有资本
2001 年	80	12	8
2003 年	51	23	26

（1）表 1、表 2、表 3 分别说明了什么经济现象？

（2）综合上述各表，运用经济学知识，你认为，怎样才能增强我国国有企业活力。

广东省 2004 年高三第二次调研考试

2 A

政　　治

本试题分第Ⅰ卷（选择题）和第Ⅱ卷（非选择题）两部分。共 150 分。考试时间 120 分钟。

第Ⅰ卷（选择题，共 75 分）

一、在下列各题的四个选项中，只有一项是最符合题意的。每小题 2 分，共 48 分

1．2003 年 11 月 27 日至 29 日，中共中央、国务院在北京召开中央经济工作会议。会议强调，明年经济工作要着重把握好六个方面：保持宏观经济政策的连续性和稳定性；把解决_____作为全党工作的重中之重；紧紧抓住_____这条主线；不失时机地深化经济体制改革；充分利用两个市场、两种资源；认真解决好关系人民群众切身利益的问题。（　）

A．“三农”问题；结构调整　　B．党的作风建设；经济建设

C．反腐败问题；科教兴国　　D．“三农”问题；可持续发展

2．中共十六届三中全会于 2003 年 10 月 11 日在北京举行，会议审议通过了《中共中央关于完善社会主义市场经济体制若干问题的决议》和_____，并决定提交第十届全国人大常委会审议。（　）

A．《中共中央关于加强精神文明建设的决定》

B．《中共中央关于修改宪法部分内容的建议》

C．《中共中央关于改进党的作风建设的决定》

D．《中共中央关于实施可持续发展战略的决定》

3．据国家统计局统计，2002 年我国 GDP 突破 10 万亿元。2003 年我国上半年经济发展受到非典的较大冲击，第二季度 GDP 同比增长速度由第一季度的 9.9%回落到 6.7%，增长速度为 1992 年以来同期的最低水平。但由于第一季度的经济增势强劲，6 月份后各项经济指标明显回升，上半年 GDP 仍能达到_____，同比增长为_____。（　）

A．40000 亿元；7.5%　　B．50053 亿元；8.2%

C．60553 亿元；9.5%　　D．50053 亿元；6.8%

4．2003 年 9 月，第 58 届联合国大会常务委员会，拒绝将_____等少数国家提出的所谓“台湾在联合国代表权问题”提案列入本届联大议程，从而再次挫败了台湾当局分裂中国的图谋。这是台湾当局“两个中国”、“一中一台”的图谋连续_____次遭到惨败。（　）

A．洪都拉斯；十一　　B．冈比亚；十

C．危地马拉；十一　　D．冈比亚；十一

5．2003 年 10 月 15 日，我国自主研制的“神舟”五号载人飞船，在酒泉卫星发射中心发射成功，并于 16 日在内蒙古成功着陆。这标志着我国已经成为世界上独立自主地完成掌握载人航天技术的国家之一。梦圆飞天，是党和国家坚持走中国特色的“飞天之路”的结果。是一代代航天科技工作者和解放军官兵发扬航天精神的结果。这种航天精神是

①特别能吃苦　②特别能战斗　③特别能攻关　④特别能奉献　（　）

A．①②③　　B．②③④　　C．③④　　D．①②③④

6．2003 年 8 月 5 日，中国红十字会、红十字会国际委员会在北京人民大会堂举行第三十九届_____奖章颁奖大会。中共中央总书记、国家主席胡锦涛出席大会。_____等 10 位在我国护理事业中作出卓越贡献的优秀护理工作者，荣获国际护理界最高的该项荣誉奖章。（　）

A．南丁格尔；钟南山　　B．最高贡献；邓练贤

C．南丁格尔；叶欣　　D．最高贡献；叶欣

7．人类在认识世界、改造世界的过程中，取得了可喜成就的同时，也面临着生存与发展的严峻挑战。据中国卫生部统计，目前我国有爱滋病病人约 8 万人，爱滋病病毒感染者 84 万人。2003 年 12 月 1 日是世界第_____个世界爱滋病日。今年的宣传主题是_____。（　）

A．十五；相互关爱，共享生命　　B．十六；相互关爱，共享生命

C．十六；热爱生活，共享生活　　D．十五；热爱生命，共享生活

8．今有一公司，国有经济占股份 55%，集体经济占股份 15%，外资企业的股份占 15%，私营企业和个人股份占 15%，并建立了股东大会、董事会、监事会和经理层，职权明确，运转协调。该企业的特点是

①这是一个国有经济控制的企业；②该企业属于混合所有制经济；③该企业的投资主体是多元化的；④该企业是股份有限公司　（　）

A．①②③　　B．①②④　　C．②③④　　D．①②③④

9．中东国家以色列，由于极端缺水，影响农业生产。因此，创造并广泛应用了滴灌技术，使灌溉水利用系数接近 0.9，以同样的水消耗使农业产值增长了 12 倍。以色列的做法对我们的启示是（　）

A．人具有主观能动性，可以认识规律和利用规律

B．发展高产、优质、高效农业，关键是发展农业科学技术

C．降低劳动消耗才能提高经济效益

D．有创新就会有进步、有效益

10．2003 年 8 月 4 日《经济日报》载文指出，社会主义市场经济的发展，必须建立产业退出援助机制。对衰退型产业，政府要在技术、资金、劳动者培训、社会保障等方面提供援助，促使该领域的生产要素向其他产业转移。上述援助　（　）

A．体现了国家宏观调控对优化资源配置的基础作用

B．表明了国家宏观调控是社会主义市场经济健康发展的必要条件

C．表明价值规律自发调节生产资料和劳动力在社会生产各部门的分配

D．表明国有经济的控制力得到了增强

11．下图中这口菜刀　（　）



A．是劳动产品，因为它具有使用价值

B．可以成为商品，因为它有使用价值和价值

C．不可以作为商品出卖，因为它不具有合格的使用价值

D．不能成为商品，因为它是生产者自己使用的

12．按照从安全性强（而收益较低）到安全性差（到收益较高）的顺序排列债券，正确的是　（　）

A．政府债券、公司债券、金融债券　　B．公司债券、金融债券、政府债券

C．政府债券、金融债券、公司债券　　D．金融债券、政府债券、公司债券

13．一个国家币值发生变化会引起汇率的变化。如：2001 年 3 月，日元汇率基本稳定在 100 日元换 7.139 元人民币的水平上，而 2002 年 3 月，日元的汇率基本稳定在 100 日元换 6.42 元人民币的水平上。这一变化意味着

①日元升值；②日元汇率升高；③日元贬值；④日元汇率跌落。　（　）

A．①②　　B．①③　　C．②③　　D．③④

14．我国入世以后，汽车产业在实现强强联合的基础上，根据市场的不同需要，调整结构，生产出不同款式的产品投放市场，在激烈的市场竞争中站稳了脚跟。这说明　（　）

A．生产水平决定消费水平　　B．消费结构决定生产结构

C．消费对生产具有反作用　　D．消费方式决定生产方式

15．“东突”恐怖势力，是以在新疆建立所谓“东突厥斯坦”国为目标的民族分裂分子和宗教极端分子为主的恐怖势力。他们在新疆境内制造了 200 多起恐怖暴力事件，造成大量人员伤亡。这一情况表明　（　）

A．在我国，阶级斗争仍然是主要矛盾

B．必须加强我国的专政职能，依法打击敌对势力的破坏

C．民主与专政是相辅相成，互为前提的

D．人民民主专政是社会主义现代化建设的政治保证

16．爱因斯坦说过：“人只有献身社会，才能找出那短暂而有风险的生命意义。”这句话告诉我们　（　）

A．个人与社会是辩证统一的

B．人生价值是社会价值与自我价值的统一

C．价值观对人生道路具有导向作用

D．人生价值包括贡献和索取两个方面

17．非典期间，我国涌现了许许多多的把生的希望留给他人，迎着困难上的可歌可泣的抗典英雄，也出现了一部分人在经济利益的驱动下，造谣惑众，哄抬物价，危害人民。对这种社会现象，正确的认识是　（　）

A．正常的。因为社会主义条件下，才可能生产先人后己的英雄

B．不正常。因为求取个人利益是违背社会主义公德的

C．无所谓正常与否。因为识时务者为俊杰

D．说明在市场经济条件下，要加强国家职能，扬善惩恶

18．改革开放以来，中国产品畅销世界，但由于一线技术工人不足等原因，全国产品合格率只有 70%，远远低于发达国家水平，由此造成的损失每年达 2000 亿元以上。鉴此，某市颁布的用工指导价中，高级钳工每月工资达 6000 多元，远远高于硕士毕业生，一时间钻研技术已成为广大青年工人的追求目标。材料说明　（　）

A．一个国家劳动者的技术水平代表着这个国家的技术实力，甚至是生产力水平

B．遵守职业道德是劳动者必须履行的义务

C．市场调节具有盲目性、自发性

D．该市确立了“技术立市”方略

19．“寒江雪柳日新晴，玉树琼花满目春。历尽天华成此景，人间万事出艰辛。”这首诗蕴涵的辩证法道理是　（　）

A．发展是前进性和曲折性的统一

B．物质决定意识，意识是对物质的反映

C．矛盾的普遍性与特殊性是相互联结的

D．主要矛盾决定事物的性质

20．一段时期来，美国、日本、欧盟等国家和地区通过政治和官方途径向中国施加压力，要求人民币升值。我国政府和有关部门明确指出，我国保持人民币汇率稳定，这对我国有利、对周边国家有利、对世界经济发展有利。材料表明　（　）

A．国家利益是制定、执行对外政策的依据
B．霸权主义、强权政治是和平与发展的主要障碍
C．我国是发展中国家，发展是硬道理
D．我国是发展中国家，为世界的和平和发展事业做出了重大贡献

21．“实践是知识的母亲，知识是生活的明灯。”这句谚语的哲学寓意是（　　）
A．实践出理论，理论必须在实践中检验和发展
B．实践是理论的基础，科学理论对实践有指导作用
C．知识来源于实践，也来源于书本
D．在生活中学习知识比实践更重要

22．“匠不巧则宫室不善。巧匠为宫室，为圆必以规，为方必以矩，为平直必以准绳。”这说明（　　）
A．规律具有普遍性
B．人具有主观能动性
C．感性认识要上升到理性认识
D．要发挥主观能动性，必须要遵重客观规律

23．在下列关于阶级、国家政权、政党之间关系的表述中，正确的有（　　）
A．各阶级都是通过政党夺取国家政权的
B．政党都是通过国家政权实现本阶级的根本利益
C．任何国家政权都是政党领导下的阶级统治的工具
D．政党是随着阶级的消灭、国家的消亡而消亡的

24．社会不良文化是未成年人犯罪的重要原因。据有关少管所调查资料反映，少年犯中有70%以上受过不良文化的影响；暴力型和奸淫型少年犯中，90%看过凶杀、暴力、淫秽录像和黄色书刊。为了解决上述问题，要求国家首先要（　　）
A．加强政治职能，打击青少年犯罪
B．加强文化职能，杜绝青少年犯罪
C．加强文化职能，提供健康文明的精神产品
D．加强公共服务职能，创造良好的生活环境

二、在下列各题的四个选项中，至少有一项是符合题意的。（错选、多选该题不给分，少选且正确的给1分。每小题3分，共27分）

25．2003年5月25日，湖南株州市某居民委员会的61名选民向所在区人大常委会提交了《罢免请求书》，要求罢免袁某的区人大代表资格。理由是：袁某当选的选举程序违法；以权谋私；不能模范遵守宪法和法律。可见（　　）
A．社会主义民主具有真实性
B．人民代表受人民的监督
C．人民代表具有法定的特有的权利和义务
D．社会主义民主政治必须不断完善

26．今年9月，备受社会关注的大学生周一超杀害公务员一案，被法院作出了判决：以故意杀人罪判处死刑，剥夺政治权利终身。然而，在此案审理过程中有429人向法院联名写信，请求给周一超“一次生的机会，让其悔改自新，回报社会”。对他们提出的请求，正确的认识是（　　）
A．是正确的，体现了人民是国家的主人
B．是正确的，体现了社会对司法机关的监督
C．是不正确的，因为没有认识到我国公民在法律面前一律平等
D．是不正确的，因为杀人就必须偿命

27．中共十六届三中全会指出，要改善农村富余劳动力转移就业的环境，积极扩展农村就业空间，取消农民就业的限制性规定，为农民创造更多的就业机会。这有利于（　　）
A．加快我国城镇化进程
B．发挥市场在资源配置中的作用
C．逐步缩小城乡差距
D．消除城乡社会分工格局

28．青藏铁路的建成将成为世界上海拔最高和最长的高原铁路。他的开工建设的经济学意义是（　　）
A．有利于缩小地区差异，促进各民族共同繁荣
B．有利于维护国家统一和民族团结
C．有利于改善西藏交通落后状况，促进西藏经济发展
D．有利于巩固祖国边防国家的统一

29．我国的特别行政区政府、民族自治政府和其它省市政府一样均是中华人民共和国的地方政府。这表明（　　）
A．我国的领土完整是不可分割的
B．我国实行单一制的国家结构形式
C．我国各级政府都必须坚持四项基本原则
D．我国的政体是人民代表大会制度

今年11月，TCL集团以67%的股份与法国汤姆逊公司实行联合，这是中国企业首次以控股身份出现在国际经济舞台。目前该公司拥有博士、硕士一百多人，具有强大的自主科技研发队伍，其目的是为了进军全球数码领域、抢占市场、提高竞争力。据此回答30、31题

30．TCL集团的做法（　　）
A．表明了科学技术是第一生产力　　B．有利于提高国有经济的控制力
C．是经济全球化发展的客观要求　　D．有利于主导世界经济的发展方向

31．TCL集团的做法体现辩证法原理有（　　）
A．物质决定意识，意识对物质具有反作用的观点
B．联系的观点和发展的观点
C．新事物必然战胜旧事物的观点
D．具体问题具体分析的观点

32．一个时期以来，巴以矛盾冲突不断升级，引起国际社会的广泛关注。巴以双方一次次签署协议，给中东和平带来一次次希望和曙光，但这些协议又一次次搁浅。中东和平路线图计划不能治标也不能治本。巴以寻求和平可谓是“路漫漫其修远”。巴以和平进程的这种状况说明（　　）
A．和平是当今时代的主题
B．没有实现可能性的东西，人们更要创造条件去奋斗
C．主次矛盾可以相互转化
D．事物的发展是前进性与曲折性的统一

33．祖国统一是中国人民的最高利益，尽管李登辉、陈水扁不遗遗力地搞“两国论”、“一边一台”，但它们最终是要失败的。因为（　　）
A．自古以来台湾就是中国不可分割部分，从来就不具有国家主权
B．台湾经济、政治、文化的发展离不开祖国
C．违背全国人民包括台湾人民的意愿
D．我国实行的是单一制的国家结构形式

第Ⅱ卷（非选择题，共75分）

三、简答题（本大题共2小题，每小题9分，共18分）

34．随着知识经济的到来，对技术的要求越来越高，当一个企业没有新技术、新产品时，劳动生产率越高，亏损反而越严重。
运用经济常识谈谈你对上述现象的理解。

35．近年来我国互联网发展迅速。互联网信息内容安全管理工作也面临新的情况和问题，境内互联网上各种有害信息时有传播，毒化社会风气，危害青少年的健康成长和社会主义精神文明建设，网上各种违法犯罪呈上升趋势。每年国家有关部门都在联合研究和部署，在全国范围内开展互联网有害信息专项清理整顿行动。
（1）结合材料，说明国家为什么要清理互联网有害信息？
（2）对互联网的有害信息，作为青年学生应该怎样面对？结合政治常识就如何整治互联网的有害弊端，请你向有关部门提出建议。

四、辨析题（本大题2小题，每小题11分，共22分。仅作判断不说明理由者不得分）

36．社会主义改革是新事物战胜旧事物的过程。有人把这个过程比喻为“乘风破浪会有时，直挂云帆济沧海”。

37．材料　改革开放以来，我国坚持以经济建设为中心，解放生产力，发展生产力。综合国力不断提高。同时，积极发展对外关系，国际地位不断提高，在国际事务中发挥着举足轻重的作用。
辨题：我国国际地位的提高在于我国综合国力的增强。

五、论述题（本大题共2小题，第38题16分，第39题19分。共35分。每题设置2分综合评价分，用于对考生分析问题和解决问题能力的综合评价。要求紧扣题意，综合运用所学知识，结合材料展开分析）

38．材料一　据《经济日报报道》：“据日本有关机构调查，日元汇率每下跌1元，丰田公司可赢利15亿日元，东芝公司可增加50亿日元，日立公司可增加20亿日元。”“日本有关当局对日元的贬值袖手旁观，没有长远的眼光，没有采取任何阻止日元下跌的措施，表现出一种放任日元贬值的姿态。”据此有人认为：日元下跌是对日本有利可图的，所以，不要阻止为好。
材料二　表面看，日元贬值有利于出口，然而，事物还有另一面。日元贬值令日本金融机构叫苦不迭，殃及日本股市下跌，加重了日本的信用危机。日元贬值对日本经济的负作用是长期的、深远的。它不利于日本经济的恢复、而且还会引发全球性的经济恐慌。
（1）上述材料反映了哪两种根本对立的世界观和方法论？
（2）两种不同的世界观和方法论的对立表现在哪些方面？
（3）这些对立在上述材料中是如何反映出来的？

39．材料一　我国西部的主要资源优势

项目	资源总量占全国（%）	人均占有量	
		西部为东部（%）	西部为全国（%）
主要矿种工业储量潜在值	49.3	242	172
能源资源	59.1	358	206
其中可开发水能水资源总量	81.5 69.4	1095 562	284 242
宜农荒地	68.5	548	240
宜林荒地	70.6	580	242
可利用天然草地	95.5	2260	314

材料二　2003年6月10日召开的新一届国务院西部地区开发领导小组第一次会议认为，三年多来，党中央、国务院高度重视西部大开发战略的实施。在西部大开发中，要将计划手段与市场手段相结合，要利用市场经济的方法，建立吸引资金、技术、人才的机制，使更多的资金、技术、人才到西部地区开发建设；而计划手段，就是通过西部总体规划，加大财政转移支付力度，加快西部建设。
（1）请运用所学的经济常识，分析说明在西部大开发中，我们为什么要把计划手段和市场手段相结合起来？
（2）用经济常识的有关知识，分析说明西部地区应如何把资源优势转化为经济优势，实现区域经济的腾飞？
（3）简要说明西部大开发的政治经济意义？

需要全本请访问 www.ertongbook.com

广州市 2004 年高中毕业班综合测试（一）

3 A

政　　治

本试卷分选择题和非选择题两部分，满分为 150 分。考试用时 120 分钟。

第一部分（选择题，共 75 分）

一、在下列各题的四个选项中，只有一项是最符合题意的。每小题 2 分，共 48 分

1．2003 年 10 月 11 日至 14 日在北京召开的中共十六届三中全会审议通过了《中共中央关于完善社会主义_____若干问题的决定》、《中共中央关于修改宪法部分内容的建议》。（　）

A．经济体制改革　　B．政治体制改革

C．教育体制改革　　D．市场经济体制

2．2004 年 1 月 12 日，中共中央总书记胡锦涛在中央纪委第三次全体会议上发表重要讲话，突出强调在全党_____，继续深入开展党风廉政建设和反腐败斗争。（　）

A．大力弘扬民族精神，大力传承中华民族优良传统

B．大力弘扬载人航天精神，大力实施科教兴国战略

C．大力弘扬求真务实精神，大兴求真务实之风

D．大力弘扬艰苦奋斗精神，大兴深入实际调查研究之风

3．2003 年 9 月 23 日，上海合作组织六成员国总理在北京签署、批准的文件有

①《上海合作组织成员国多边经贸合作纲要》　②《上海合作组织 2004 年度预算》　③《上海合作组织地区反恐怖机构设置和人员编制》　④《上海合作组织总理会晤联合公报》　⑤《关于技术性启动上海合作组织常设机构的备忘录》（　）

A．①②　　B．①②③　　C．②③④⑤　　D．①②③④⑤

4．2003 年 9 月 29 日，世界上第一个全球性的打击跨国犯罪的法律文件正式生效，它所针对的犯罪行为包括：参加有组织犯罪集团、洗钱、腐败和妨碍司法。这个法律文件是（　）

A．《联合国打击跨国有组织犯罪公约》

B．《联合国打击跨国黑社会洗钱犯罪公约》

C．《联合国打击跨国政府官员腐败犯罪公约》

D．《联合国打击跨国妨碍司法犯罪公约》

5．2003 年 9 月 20 日，是中央文明委确定的第一个_____宣传日。（　）

A．法制教育　　B．公民道德　　C．环境卫生　　D．精神文明

6．2003 年 12 月 15 日，公安部公布第一批认定的“东突”恐怖组织和恐怖分子名单，呼吁国际社会加强合作，更有效地防范和打击包括“东突”在内的恐怖势力。第一批认定的“东突”恐怖组织有

①东突厥斯坦伊斯兰运动　②东突厥斯坦解放组织　③东突厥斯坦新闻信息中心　④世界维吾尔青年代表大会　⑤车臣恐怖组织　⑥“基地”组织（　）

A．①②③　　B．①②④⑤　　C．①②③④　　D．①②③④⑥

7．2003 年 11 月 15 日，我国科学家宣布：我国已经率先完成_____“框架图”，所获序列覆盖了该基因组的 95.94%，精确度达到了 99.95%。（　）

A．人类基因组　　B．水稻基因组　　C．家蚕基因组　　D．果子狸基因组

8．中共十六届三中全会强调，要依照法定程序，把十六大确定的重大理论观点和重大方针政策写入宪法。这体现了中国共产党（　）

A．对国家和社会生活的政治领导　　B．对国家和社会生活的思想领导

C．具有修改宪法的权力　　D．行使维护政治统治和政治稳定的职能

9．内蒙古自治区鄂尔多斯市农民殷玉珍默默无闻与荒漠抗争 17 年，将昔日的不毛之地变成了“绿色王国”。2002 年 12 月 10 日，她被评为第四届中国“十大女杰”，成为治沙女英雄。这表明（　）

A．只要对社会作出了贡献，就立即得到社会的回报

B．人生的真正价值在于得到社会的承认

C．个人对社会的突出贡献是先进人物的主要特色

D．社会对个人的尊重和满足主要是精神方面的表现

2003 年春，广东发生非典型肺炎。起初，北京某权威机构在广东送去的两例死亡病例的肺组织标本切片中发现了衣原体，认为是病源。但是，钟南山发现，大量的事实表明临床症候与治疗用药均不支持这个结论，衣原体不是非典型肺炎的致病原因。后经科学确认，冠状病毒是致病的原因。钟南山说：“科学只能实事求是，不能明哲保身，否则受害的将是患者。”回答 10～12 题。

10．钟南山的话说明（　）

A．任何事业的成功都会有一个艰难曲折的过程

B．一切浅尝辄止、满足现有认识的态度，都不符合认识世界和改造世界的根本要求

C．人的认识随着实践的发展而不断深化、扩展和向前推移

D．真理是人们对事物本质及其发展规律的正确认识

11．认为衣原体是非典型肺炎致病原因的人（　）

A．只看到事物的现象，没看到事物的本质

B．只有感性认识，没有理性认识

C．只关注实践的过程，忽视了实践的结果

D．只重视经验，忽视了认识的作用

12．在救治非典病人的危急关头，钟南山院士毫不犹豫地说：“把最危重的病人集中收治到我们这里！这里就是战场，我们就是扫雷班。现在要排雷，扫雷班不干谁干？”这说明，要实现自己的人生价值就必须

①在自己的岗位上埋头苦干、发挥聪明才智　②发扬敢于胜利的精神，作风雷厉风行，以战斗的姿态对待工作　③提高个人的思想政治素质、道德素质、科学文化素质、心理和身体素质　④有百折不挠、不怕牺牲的顽强奋斗精神（　）

A．①②③　　B．②③④　　C．①②④　　D．①③④

13．李时珍的“窥天地之真而达造化之极”这句话说明（　）

A．世界上的一切事物既是固定不变的，又是变化发展的

B．要脚踏实地的在实践中追求真理，才能为人类造福

C．只有绝对的、永恒的运动，没有相对的、暂时的静止

D．人们对客观世界的改造要按照传统的方法进行

14．广东人在饮食上特别喜欢用糖，糖对人体确实有较大的作用，但吃糖太多不仅会引起肥胖症、糖尿病、龋齿等，还会影响神经活动和智力。这表明（　）

A．事物的矛盾都具有各自的特点，即特殊性

B．事物自身包含的矛盾双方是相互依存的

C．矛盾双方是相互排斥、相互分离的

D．矛盾双方在一定条件下可以相互转化

15．2003 年 11 月 15 日，中国女排在第 9 届世界杯上能够以十一战全胜的佳绩重新夺回失去 17 年的世界冠军称号，顽强拼搏的“女排精神”发挥了重要作用。这说明（　）

A．精神的力量是无限的、万能的　　B．物质决定意识，意识有时也决定物质

C．正确的意识促进事物的发展　　D．社会意识决定社会存在

16．长期以来，王麻子剪刀厂的主要产品一直延续传统的铁夹钢工艺，尽管它的硬度、韧度比不锈钢产品强得多，好磨好使，但工艺复杂、成本高，加上铁容易生锈，亮度也跟不上，外观也低了一个档次，产品逐渐失去了竞争优势，最终导致有着 352 年历史的北京王麻子剪刀厂破产。王麻子剪刀厂破产给我们的启示是（　）

A．为了企业的生存，传统工艺必须统统抛弃

B．只要好销售，产品质量不必太好

C．商品的价值和使用价值始终是对立的

D．企业要生存要发展，必须面向市场进行产品创新

17．从 2003 年 8 月 1 日起，我国正式启动强制性产品认证制度执法检查工作，所有规定范围内的产品都必须通过 3C 认证才能进入市场，消费者只需认定 3C 认证标志就可以放心购买产品。我国实行强制性产品认证制度的意义是（　）

A．有利于增加国家税收收入

B．有利于维护国家经济利益和经济安全以及消费者合法权益

C．有利于企业开发新的产品

D．有利于加强政府参与企业的经营管理

18．中共十六届三中全会指出：建立健全社会信用体系，形成以道德为支撑、产权为基础、法律为保障的社会信用制度，逐步开放信用服务市场。以下有关信用的观点正确的有

①生活在社会中的每一个人都要讲信用　②企业特别要讲信用，良好的信誉对企业的生存竞争至关重要　③信用是企业经营者的重要道德素质　④信用是一个纯道德问题，与法律无关（　）

A．①②　　B．①②④　　C．①②③④　　D．①②③

某地的白兰瓜曾享誉全国，但当地瓜农为抢市场卖好价，用化学肥料代替传统肥料，甚至用催熟剂擦洗，硬是将 120 天的生长期缩短到 75 天左右。“早产”的白兰瓜不但不甜，反添苦涩味，变成了“苦瓜”，上市后无人问津。回答 19～20 题。

19．该地瓜农的做法（　）

A．是积极参与市场竞争的进取行为

B．只注重了商品的使用价值，而忽视了商品的价值

C．把生产经营的效益与效率很好地统一起来

D．违背了市场需求和优胜劣汰的价值规律

20．瓜农们让白兰瓜“早产”，导致上市后无人问津，是因为他们（　）

A．为了适应激烈的市场竞争而忽视了过去的经验

B．不正确的发挥了主观能动性，忽视了客观规律性

C．运用科学的方法，改变了种瓜方式

D．抓住了矛盾的主要方面，忽视其次要方面

21．下图是 1987 年～2002 年期间我国外汇储备变化情况（单位：亿美元）。国家外汇储备的变化说明了（　）

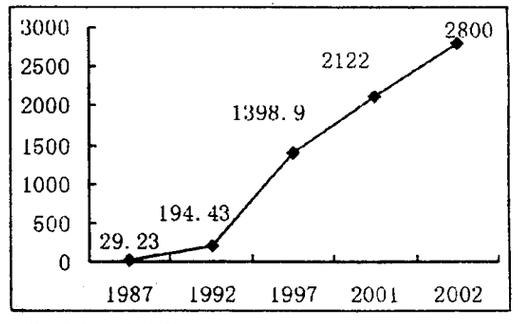

A．我国人民生活水平稳步提高

B．我国出口贸易有较快的增长

C．我国经济结构趋于合理

D．我国建成了统一开放竞争有序的现代市场体系

22．在三峡工程建设中，国务院决定成立了具有独立核算、自负盈亏、自主经营、具有法人地位的经济实体——中国长江三峡工程开发总公司，全面负责三峡工程的建设和经营。国务院还批准了开征三峡建设基金作为资本金，利用银行贷款、出口信贷和发行企业债券等渠道融资。大力引进国际先进技术和设备并经过消化吸收和技术改造，使技术开发创新、生产能力和质量管理方面进入世界先进行列。现在已实现了二期工程目标。我国在三峡工程建设中

①运用行政手段和经济手段实行强有力的宏观调控　②按市场经济规律办事，充分发挥了市场在资源配置中的作用　③实行的是计划经济和行政手段的管理方式　④既坚持了对外开放，又坚持了独立自主、自力更生的原则（　）

A．①②　　B．①②③　　C．①②④　　D．②③④

23．据《广州日报》报道，某市场 8 个肉档日卖注水猪肉 2 吨。这种市场行为违反了市场交易的（　）

A．自愿原则，强买强卖　　B．公平原则，损害了消费者合法权益

C．平等原则，不尊重消费者　　D．真实原则，蒙骗消费者

24．2003 年国庆节以后，粮、油、副食品价格在经历了持续多年的低位滑行之后出现恢复性上涨。这一现象的出现　（　）

A．是销售者结成价格联盟等人为因素决定的

B．是物价总水平出现大幅度提高的结果

C．是政府对价格实行宏观调控带动起来的

D．是价值规律在社会主义市场经济条件下的必然反映

二、在下列各题的四个选项中，至少有一项是符合题意的。错选、多选，该题不给分；少选且正确的给 1 分。每小题 3 分，共 27 分

25．2003 年 6 月 20 日，国务院总理温家宝签署国务院第 381 号令，公布施行《城市生活无着的流浪乞讨人员救助管理办法》，并宣布自 2003 年 8 月 1 日起正式施行，1982 年 5 月国务院发布的《城市流浪乞讨人员收容遣送办法》同时废止。从此，对城市生活无着的流浪乞讨人员不再是由公安机关强制收容遣送，而是救助与服务、教育与培训。这表明　（　）

A．政府具有社会公共服务的职能

B．乞讨作为一种职业已经合法化

C．我国国家机构坚持了对人民负责原则

D．我国是一个讲人权的法治国家

26．随着经济的发展和公民法律意识的增强，我国税收收入增长迅速，2002 年比 1994 年增长了 2.35 倍，年均增长 16.3%，2003 年全国税收收入共完成 20450 亿元，比上年增加 3446 亿元。我国税收取之于民、用之于民的性质，体现了（　）

A．国家、企业、个人的整体利益与局部利益、长远利益与目前利益的统一

B．“三个代表”重要思想对经济工作的要求

C．我国税收是为劳动人民的利益服务的

D．税收是国家实施宏观调控的重要手段

27．“一国两制”是我国实现祖国和平统一的基本方针，是两岸统一的最佳方式。中国政府和中国人民以最大的诚意，尽最大的努力实现祖国和平统一，但决不承诺放弃使用武力。这是因为　（　）

A．任何国家的统一最终还是要使用武力才能实现

B．存在干涉中国内政，企图使台湾问题国际化的外国敌对势力

C．“台独”和分裂祖国势力的活动日益猖獗

D．两岸没有可能进行政治谈判和对话

28．下边漫画表明　（　）



“染与变”

A．外因和内因都是事物变化发展的根本原因

B．外因是事物变化发展的条件，内因是事物变化发展的根据，外因通过内因而起作用

C．所有的现象都是假象，都不能反映事物的本质

D．感性认识既能了解事物的现象，又能把握事物的本质

29．人类在征服疾病的过程中发现并广泛使用了抗生素，使许多感染性疾病，如天花、肺结核、伤寒等，不再是不治之症。后来人们发现所有的抗生素都有毒性反应，对肝、肾、血液、神经系统等造成轻重不等的伤害，长期服用还会使病菌产生耐药性，使抗生素不能有效杀灭或抑制病菌，一些新型疾病有可能出现并危及人类。这就要求我们　（　）

A．要一分为二的看待事物

B．不要主观的、孤立的看问题

C．要正确、适度使用药物，趋利避害

D．要在实践中不断加深对事物的认识

30．中共十六届三中全会在总结改革开放 25 年来理论和实践成果的基础上，实现了新的理论创新，如提出了以人为本，树立全面、协调、可持续的发展观；使股份制成为公有制的主要实现形式的观点，等等。这些理论创新，对我国今后的改革实践，将产生深远影响。这说明　（　）

A．认识对实践有一定的推动作用　B．正确的意识能够促进事物的发展

C．认识的最终目的是为了指导实践　D．事物是不断变化发展的

31．党和国家把扩大就业放在经济社会发展更加突出的位置，实施积极的就业政策，努力改善创业和就业环境。以下做法符合扩大就业和再就业要求的是　（　）

A．在产业类型上，注重发展劳动密集型产业

B．在企业规模上，注重扶持中小企业

C．在经济类型上，注重发展非公有制经济

D．在就业方式上，注重采用灵活多样的形式

32．中共十六届三中全会提出，要完善人民币汇率形成机制，保持人民币汇率在合理、均衡水平上的基本稳定。保持人民币汇率的基本稳定　（　）

A．有利于中国、周边国家、世界经济和金融持续稳定发展

B．不利于我国外汇储备的增长和国家综合国力的增强

C．反映了我国加入 WTO 的承诺和国际竞争的原则

D．是与我国目前的经济发展水平、经济运行状况和国际收支状况相适应的

33．人大代表建议，要加紧制定有关市场经济的一整套法律法规，清理和废除不适应市场经济规则的一些法律法规，修改和清理一些部门之间相互冲突的法律法规。这一建议的目的是　（　）

A．加强社会主义市场经济的法制性

B．用法律手段对经济活动进行宏观调控

C．逐步取消行政手段对经济活动的干预

D．依法维护经济活动参加者的合法权益，规范市场经济秩序

第二部分（非选择题，共 75 分）

三、简答题（本大题共 2 小题，每小题 9 分，共 18 分）

34．进城务工是增加农民收入的重要途径之一，但拖欠农民工工资已成为严重的社会问题。党中央、国务院对此高度重视，先后出台了有关的政策法规。劳动和社会保障部、建设部联合下发通知，要求采取措施解决民工工资拖欠问题。许多地方也相继出台了地方性工资支付的法规和规章。

问题：运用政治常识有关知识，简要说明党和政府为什么高度重视民工工资拖欠问题？(9 分)

35．中国第一位“太空使者”杨利伟儿时的梦想是飞行。他参军成为飞行员后，严格要求自己，爱钻研、肯奉献、协同意识强。被选为我国首批航天员后，经过五年多的艰苦训练，掌握了飞行动力学、地球物理学、天文学、宇宙航行学和航天医学等方面的知识，训练的强度比他当飞行员时大得多。他在回答香港中学生提问时说：“千年飞天梦圆，说明我们中华民族是完全有志气、有智慧、有能力自立于世界民族之林。”

问题：结合上述材料，简要说明一个人要成就一番事业必须树立崇高理想和发扬民族精神。(9 分)

四、辨析题（本大题共 2 小题，第 36 题 10 分，第 37 题 11 分，共 21 分。仅作判断不说明理由者，不得分）

36．一个国家的经济发展越快，对世界和平与发展的贡献就越大。(10 分)

37．背景：中共十六届三中全会提出：坚持公有制的主体地位，发挥国有经济的主导作用。积极推行公有制的多种有效实现形式……要适应经济市场化不断发展的趋势，进一步增强公有制经济的活力，大力发展国有资本、集体资本和非公有制资本等参股的混合所有制经济，实现投资主体多元化，使股份制成为公有制的主要实现形式。

辨题：股份制就是公有制。(11 分)

五、论述题（本大题共 2 小题，第 38 题 17 分，第 39 题 19 分，共 36 分。每题设置 2 分综合评价分，用于对考生分析问题和解决问题能力的综合评价。要求紧扣题意，综合运用所学知识，结合材料展开分析）

38．2003 年 1 月 8 日，西气东输工程——延水关黄河隧道胜利贯通，标志着西气东输工程建设取得阶段性成果，为 2004 年 1 月 1 日把天然气送到上海奠定了坚实的基础。在延水关黄河隧道建设中，技术人员不断研究新工艺、新技术，最终采用了双液灌浆法，攻克了堵水技术难题，为隧道胜利贯通创造了关键性条件。

请结合上述材料并运用有关的哲学知识，分析说明西气东输工程技术人员是如何贯通延水关黄河隧道的？(17 分)

39．材料一　　表 1　近年我国劳动力资源状况　　单位：万人

项目	每年新增劳动力	社会失业人员	下岗	农村剩余劳动力
人数	800	770	410	10000

表 2　我国就业结构状况　　单位：%

年度	第一产业从业人员	第二产业从业人员	第三产业从业人员
1999	50.1	25.0	26.9
2001	50.0	22.5	27.5
2002	50.0	21.4	28.6

注：一般发达国家农业就业人口 5%，第三产业就业人口 70%～80%

材料二

我国城市居民享受最低生活保障人数

单位:万人

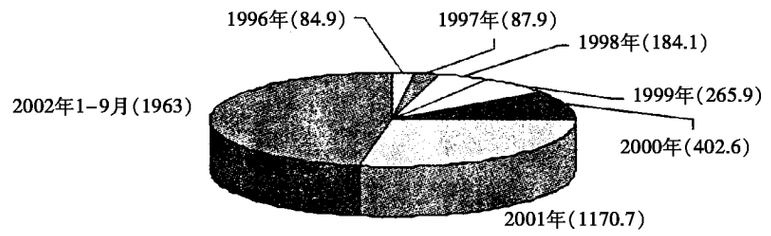

材料三

领取失业保险金人数变化

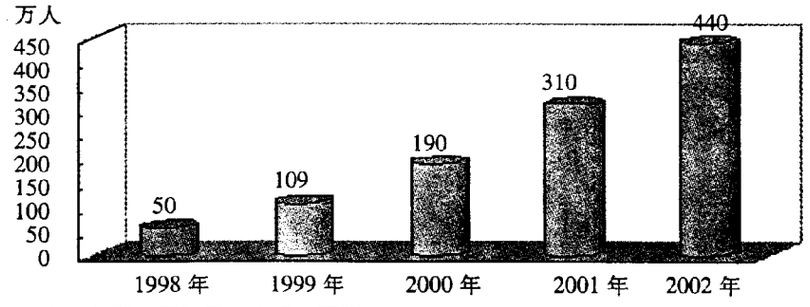

(1) 材料一反映了什么经济现象？

(2) 材料二和材料三共同反映了什么经济现象？

(3) 综合三个材料，谈谈扩大就业、再就业和完善社会保障制度对促进经济发展的意义。

江苏省苏、锡、常、镇四市
2004 年高三教学情况调查

4 A

政　　治

本试卷分第Ⅰ卷（选择题）和第Ⅱ卷（非选择题）两部分，满分 150 分。考试用时 90 分钟。

第Ⅰ卷（选择题，共 78 分）

一、在下列各题的四个选项中，只有一项是最符合题意的。每小题 3 分，共 54 分

1．中共十六届三中全会于 2003 年 10 月 11 日至 14 日在北京举行，全会审议通过了《中共中央关于_____若干问题的决定》。（　）

A．建立社会主义市场经济体制　　B．完善社会主义市场经济体制

C．全面建设小康社会　　D．深化行政管理体制改革

2．经中共中央同意，中央精神文明建设指导委员会决定从 2003 年开始，将每年的 9 月 20 日确定为_____。（　）

A．公民道德宣传日　　B．“三个代表”宣传日

C．讲卫生讲文明宣传日　　D．公民义务宣传日

3．2003 年，我国国民经济保持了较快增长的良好势头，全年国内生产总值突破_____万亿元人民币，经济增长率达_____%。（　）

A．11　9.1　　B．10　8.5

C．12　7.8　　D．11　10

4．2003 年 12 月 1 日是第 16 个“世界艾滋病日”，其宣传主题为（　）

A．青少年——迎战艾滋病的主力军

B．相互关爱，共享生命

C．预防艾滋病，你我同参与

D．关注“世纪瘟疫”

5．2003 年 1 月 10 日，朝鲜宣布退出《不扩散核武器条约》。在中国斡旋下，8 月 27 日我国和_____在北京举行了六方会谈，从而启动了和平解决朝鲜半岛核问题的进程。（　）

A．朝鲜、美国、韩国、俄罗斯、日本

B．日本、法国、美国、韩国、加拿大

C．朝鲜、英国、日本、德国、俄罗斯

D．朝鲜、韩国、美国、日本、英国

6．周恩来曾说过：“按照唯物论的观点，当社会还没有发展到使宗教赖以存在的条件完全消失的时候，宗教是会存在的。”这句话表明

①宗教有其产生、存在和灭亡的规律　②宗教作为一种社会意识依赖于客观存在　③我国贯彻宗教信仰自由政策，发挥宗教的作用是必要的　④我国宗教能够与社会主义相适应（　）

A．①②　　B．①②③　　C．③④　　D．①②③④

7．“世界上没有真正的垃圾，只有放错了地方的资源。”这告诉我们（　）

A．主要矛盾与次要矛盾在一定条件下可以相互转化

B．认识对实践具有指导作用

C．事物的联系是具体的、有条件的、相对的

D．事物的性质主要由取得支配地位的矛盾的主要方面决定的

8．大自然对人类的馈赠是丰厚的，但并非取之不尽，用之不竭。在这样的前提下，谋求发展，既要合理利用资源又不能损害自然环境，还要注意保护自然，否则将会受到自然的惩罚。从哲学上讲，这是因为（　）

A．外因是事物变化发展的必要条件

B．矛盾双方是既对立又统一的关系

C．办事情要抓关键，解决主要矛盾

D．现象是事物本质的反映

9．漫画“一切正常”告诉我们（　）



A．想问题、办事情必须坚持适度原则

B．一切事物都是向前发展的

C．事物的发展最终要靠质变来实现

D．质变是量变的必然结果

10．唐朝诗人杜荀鹤在题为《小松》的诗中写道：“自小刺头深草里，而今渐觉出蓬篙。时人不识凌云木，直待凌云始道高。”这首诗给我们的启示是

①新事物总是弱小的　②要用发展的观点看待人和事　③新事物是不可战胜的　④要辩证地看问题，促进新事物成长（　）

A．①②③　　B．①④　　C．②③④　　D．①②③④

11．“把学问用于装饰是虚假，完全依学问上的规则断事是书生的怪癖。”英国思想家培根的这句话说明了这样的一个哲学道理（　）

A．改造主观世界与改造客观世界是统一的

B．实践是检验认识正确与否的惟一标准

C．理论必须与具体实践相结合

D．感性认识比理性认识更具体、更生动、更可靠

12．阅读下列图表

	原来	现在
某服装厂的劳动生产率	一天生产西服 100 件	一天生产西服 400 件
同类服装厂的社会劳动生产率	一天生产西服 100 件	一天生产西服 200 件

现在该服装厂西服的单位商品价值量是原来的_____，该厂单位时间内创造的价值总量是原来的_____。（　）

A．1/4　4 倍　　B．1/2　4 倍

C．1/2　2 倍　　D．1/4　2 倍

13．中国未来的电力定价将进行大的调整，实行分段收费（按季节性和时段所导致的不同成本来定价），从而达到优化零售电价结构的目的。这样做是因为（　）

A．合理的电价既要体现价值，又要反映供求关系

B．电价应当稳中有变，不断调整

C．电价是由市场供求关系决定的

D．优化零售电价结构需要电价上涨

14．2003 年 7 月 22 日，我国民政部颁布《城市生活无着落的流浪乞讨人员救助管理办法实施细则》，要求对生活无着落的流浪乞讨人员进行救助。这里用于救助的资金属于

①财政支出　②国民收入中的积累部分　③国民收入中的消费部分　④财政收入（　）

A．①②　　B．①③

C．③④　　D．②④

15．振兴东北老工业基地，首先要解放思想，使东北人从旧体制、旧思维、旧路径下解脱出来。这是因为（　）

A．社会存在决定社会意识

B．社会意识对社会存在具有能动的反作用

C．思想观念的变化具有相对滞后性

D．科学理论对实践具有决定作用

16．近年来，为了发展经济，有的地方动用执法部门设关卡，不让外地产品流入本地；有的地方强令推销本地产品；有的地方组织质量监管部门专拣外地产品“曝光”，以达到“扫地出门”的目的。这些做法

①破坏了市场的开放性　②践踏了市场经济公平竞争的原则　③是地方保护主义的表现　④违背了社会主义市场经济的要求（　）

A．③④　　B．①②

C．①②③　　D．①②③④

17．入世以来，中国作为负责任的大国，一直认真履行加入 WTO 的各项承诺，进一步开放市场，不断地扩大外商投资的领域，加强对知识产权的保护，为其他 WTO 成员的产品和服务进入中国市场创造更加规范和更加宽松的环境。这表明（　）

A．我国在对外开放中将对外商实行国民待遇

B．对外开放有利于保护民族工业，促进国内市场的供求平衡

C．我国对外开放的水平不断提高

D．发展社会主义市场经济必须对外开放

18．在发展市场经济的过程中，我国政府运用货币政策和财政政策治理通货膨胀和通货紧缩，取得了良好的效果。运用这两种政策的共同目的是（　）

A．实现经济总量平衡，保持国民经济持续健康协调发展

B．调整生产力布局，促进区域经济协调发展

C．解决社会总需求小于社会总供给的矛盾

D．控制投资增长，抑制过热消费

二、在下列各题的四个选项中，至少有一项是符合题意的。错选、多选，该题不给分；少选且正确的得 2 分。每小题 4 分，共 24 分

19．2003 年 10 月 25 日上午，在台北市，数千民众举行了一场“庆祝台湾光复、反对‘台独’制宪”的游行活动。游行的人们高举着“我爱台湾、反对‘台独’”、“制宪公投是假、迈向‘台独’是真”等标语，表达对执政当局的不满，谴责“台独”分子的分裂行径。这表明（　）

A．实现祖国完全统一是海峡两岸人民的共同心愿

B．“台独”违背了中华民族的最高利益

C．“一国两制”是两岸统一的最佳方式

D．台湾当局的分裂行径是世界和平与发展的最大障碍

2003 年 10 月 8 日，国务院总理温家宝和东盟国家领导人签署了《中华人民共和国与东盟国家领导人联合宣言》，宣布建立“面向和平与繁荣的战略伙伴关系”，这是中国首次同一个国家集团正式建立战略伙伴关系。据此回答 20、21 题。

20．从政治常识角度看，中国和东盟建立“面向和平与繁荣的战略伙伴关系”表明（　　）

A．国家性质、国家力量的变化决定国际关系的变化

B．我国和东盟国家有着共同的利益

C．我国与东盟结成联盟共同对抗强权政治和恐怖主义

D．我国进一步加强了同发展中国家的团结与合作

21．从经济常识角度看，中国和东盟建立“面向和平与繁荣的战略伙伴关系”（　　）

A．顺应了世界经济一体化的潮流

B．有利于加快贸易自由化与区域集团化进程

C．说明和平与发展是当今时代的主题

D．表明世界多极化的格局正在形成

22．对下岗和再就业，有的人怨天尤人，坐等观望；有的人发奋图强，积极创业，成为“再就业明星”。这说明（　　）

A．承认矛盾的特殊性，是正确解决矛盾的前提

B．事物发展是质变与量变的统一

C．内因是事物变化发展的根本原因

D．价值观对人的发展具有重要的导向作用

23．近几年上海郊区、浙江嘉兴、绍兴等地区相继推行“小城镇社会保险”制度，农民已经逐步实现了“失业有镇保、生病有医保、退休有养老”的目标。这样做（　　）

A．有利于市场经济的健康发展　　B．有利于维护社会安定

C．有利于城乡社会协调发展　　D．有利于实现公民权利和义务的统一

24．我国现阶段坚持按劳分配为主体、多种分配方式并存，坚持效率优先、兼顾公平，坚持各种生产要素按贡献参与分配。这样做（　　）

A．是世界经济全球化的普遍要求

B．是与我国现阶段生产力发展水平相适应的

C．是由我国的基本经济制度决定的

D．是发展社会主义市场经济的需要

第Ⅱ卷（非选择题，共72分）

三、简答题（本大题共2小题，每小题13分，共26分）

25．目前全国各地正在逐步推行和实施政务信息公开化，定期向社会公众披露政府政务信息，做到内容公开、程序公开。（13分）

（1）政务信息公开化与政治文明建设有什么关系？

（2）政务信息公开化的理论依据和现实意义是什么？

26．素有“世界火腿之冠”美名的金华火腿，是用流传千年的腌制方法加工生产出来的。可现在有的厂家生产火腿却用上了“新工艺”——向火腿中添加包括敌敌畏在内的有毒药剂。2003年11月16日，央视“每周质量报告”对此进行了曝光。“报告”还指出，此类事件当地政府并非不知情，这次金华火腿声誉受损，地方政府难咎其责。

结合上述材料及所学的经济学知识对这一事件加以评述。（13分）

四、论述题（本大题共2小题，每小题23分，共46分。要求紧扣题意，综合运用所学知识，结合材料展开分析）

27．结合以下材料回答问题：（23分）

我们党在建立和完善社会主义市场经济体制的过程中，及时总结实践经验，丰富和发展了社会主义市场经济理论。

十五大报告提出，公有制实现形式可以而且应当多样化。股份制是现代企业的一种资本组织形式，资本主义可以用，社会主义也可以用。

十六大报告指出，进一步探索公有制特别是国有制的多种有效实现形式，积极推行股份制，发展混合所有制经济。

十六届三中全会强调，大力发展国有资本、集体资本和非公有资本等参股的混合所有制经济，实现投资主体多元化，使股份制成为公有制的主要实现形式。

（1）我们党对股份制作为公有制的实现形式的认识过程体现了辩证唯物主义认识论的哪些道理？

（2）运用所学哲学常识的知识说明能否把股份制作为公有制的惟一实现形式？

28．阅读下列材料，回答问题：（23分）

材料一：

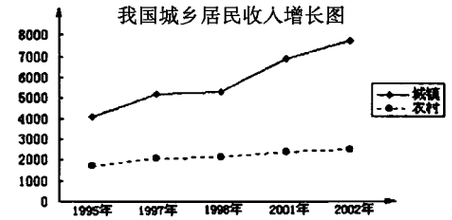

材料二：

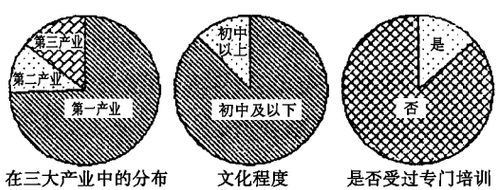

材料三：　　中美两国大豆生产对比表

内容 / 国家	每公斤成本	平均亩产	平均含油率	产品质量	种植规模
美国	0.8元	180公斤	20%	水分、质量均匀	农场式大规模机械生产
中国	1.6元	120公斤	17%	混种混收品质不均	手工劳动为主

注：我国大豆价格比国际市场价格高出20%。入世后，我国从大豆净出口国变为最大进口国。

（1）材料一反映了什么现象？

（2）材料二、材料三与材料一是什么关系，请简要分析。

（3）你认为国家可以采取哪些措施解决上述问题？

江苏省徐州市 2004 年高三第二次质量检测

5 A

政　　治

本试卷分第Ⅰ卷（选择题）和第Ⅱ卷（非选择题）两部分。满分 150 分，考试时间 120 分钟。

第Ⅰ卷（选择题，共 75 分）

一、在下列各题的四个选项中，只有一项是最符合题意的。每小题 2 分，共 48 分

1．党的十六届三中全会指出，深化经济体制改革必须“坚持以人为本，树立_____、协调、可持续的发展观，促进经济社会和人的全面发展。”（　）

A．均衡　　B．全面　　C．快速　　D．创新

2．2003 年 6 月 29 日和 10 月 17 日，中央政府分别与香港和澳门特别行政区政府签署了内地与香港和澳门“关于建立更紧密经贸关系的安排”，其英文缩写是_____。这两个安排的签署体现了中央政府和祖国人民对香港和澳门的关心和支持，是内地与香港和澳门经贸发展的新起点和里程碑。（　）

A．APEC　　B．WTO　　C．WHO　　D．CEPA

3．2003 年 12 月，新中国历史上第一次全国人才工作会议在北京举行。胡锦涛发表重要讲话强调：以“三个代表“重要思想为指导大力实施_____战略，为全面建设小康社会提供坚强人才保证和智力支持。（　）

A．人才强国　　B．科教兴国　　C．科技强国　　D．可持续发展

4．2004 年 2 月 20 日，2003 年度国家科技奖励大会在北京隆重举行，授予_____、王永志两位院士 2003 年度国家最高科学技术奖，授予“中国载人航天工程”项目_____。（　）

A．杨利伟　国家科学技术进步奖一等奖

B．刘东生　国家自然科学奖一等奖

C．刘东生　国家科学技术进步奖特等奖

D．王选　　国家技术发明奖二等奖

5．2004 年 2 月，中共中央颁布《_____》和《中国共产党纪律处分条例》，这是从严治党的重大举措，对于全面推进党的建设新的伟大工程，将产生重大而深远的影响。（　）

A．中国共产党党内监督条例（试行）

B．党政领导干部选拔任用工作暂行条例

C．关于实行党风廉政建设责任制的规定

D．关于领导干部廉洁自律的规定

6．2003 年 10 月，联合国大会通过了《联合国_____公约》，这是联合国为加强世界各国在该领域的国际合作而制定的一份重要法律文件。12 月 10 日，我国政府正式签署该条约。（　）

A．反贪污　　B．反恐怖　　C．反洗钱　　D．反腐败

7．2004 年 1 月，美国宇航局发射的“_____”号和“机遇”号火星车成功登陆火星，人类在火星探测方面又向前迈出了一大步。（　）

A．旅居者　　B．勇气　　C．猎兔犬 2　　D．海盗

8．有人把中国共产党的执政新理念形象地概括为“紧握人民的手，管住官员的手，打造无形的手，强化服务的手，缔造和平的手。”这表明

①中国共产党坚持立党为公，执政为民　②中国共产党认真履行经济管理、社会服务的职能　③中国共产党始终把发展作为党执政兴国的第一要务　④党和政府努力争取更好的国际环境和周边环境（　）

A．①②③　　B．②③④　　C．①③④　　D．①②③④

9．2003 年 3 月 16 日，中国佛教协会在致全国佛教界的公开信中讲道，佛教主张“庄严国土，利乐有情”，奉行“爱国爱教，利国利民”。这表明（　）

A．在阶级社会中，宗教主要起着消极作用

B．宗教对社会发展有着阻碍作用

C．宗教在一定历史条件下起着一定的积极作用

D．宗教对认识和改造自然起着推动作用

10．随着经济快速发展，我国主要能源的供求格局发生了较大变化，从长三角的“电荒”到涉及东北、华东、华南、西南等地区的“煤荒”与“油荒”，资源对经济发展的制约作用开始显现。这一事实说明（　）

A．人类在自然界面前是无能为力的

B．改造自然必须承认自然及其规律的客观性

C．人的活动决定着自然界的存在和发展

D．认识和利用自然必须发挥主观能动性

11．中共中央总书记、国家主席胡锦涛强调指出，全面建设小康社会是学习贯彻“三个代表”重要思想的最好实践，也是对学习贯彻“三个代表”重要思想成效的最好检验。这段话蕴含的哲学道理是（　）

A．实践是认识的来源　　B．实践是认识发展的动力

C．实践是认识的目的　　D．认识对实践具有指导作用

12．“神舟”五号飞船载人航天获得圆满成功，离不开新一代航天人“特别能吃苦、特别能战斗、特别能攻关、特别能奉献”的载人航天精神。这告诉我们（　）

A．人类能够正确认识和利用客观规律

B．人们对事物的认识是变化发展的

C．人生的真正价值在于精神的贡献

D．要重视精神的力量，自觉树立正确的思想意识

13．古诗道：“我劝天公重抖擞，不拘一格降人才”。其实，人才既有格又无格，拘泥于一格会压制人才；没有一定的格就无法选拔人才。这说明（　）

A．发挥主观能动性才能认识和利用规律

B．事物是既对立又统一的

C．既要尊重规律又要突破规律

D．必须坚持理论和实践的统一

14．调查显示，2003 年群众对反腐倡廉工作的认可度、满意度都比往年有所上升，但建设工程、公检法、医疗、教育和组织人事仍是群众心目中五大“腐败高发地”。对党的作风建设看不到成绩，悲观失望是错误的；看不到问题的严重性，丧失警惕，不下大气力解决是危险的。这主要说明（　）

A．任何事物都是发展变化的　　B．认识的根本任务是透过现象看本质

C．看问题必须分清主流和支流　　D．要集中精力解决主要矛盾

15．为完善农产品市场体系，切实保护种粮农民的利益，我国将多年通过“保护价”收购农民余粮，间接暗补粮农的形式调整为对农民实行直接补贴。“直补”改革首先在粮食主产区吉林、安徽部分县、市进行试点，然后推广到江苏等省实施。这一工作方法的哲学依据是（　）

A．社会存在决定社会意识　　B．现象和本质既有联系又有区别

C．矛盾普遍性和特殊性的辩证关系　D．解放思想和实事求是的辩证统一

支持东北地区等老工业基地加快调整和改造，是党的十六大提出的一项重大战略决策。回答 16、17 题。

16．振兴东北等老工业基地，必须坚持自力更生为主，充分发挥企业和广大干部群众的积极性、创造性，发挥自身优势，挖掘内部潜力，激发内在活力。这是因为（　）

A．内因对事物的发展起决定作用　　B．量变是质变的前提和必要准备

C．矛盾是事物发展的根本动力　　D．意识对客观事物具有反作用

17．根据中央振兴东北的决策，国家将加大对东北地区在投资项目、税收政策和财政转移支付等方面的支持力度。这说明财政和税收（　）

A．在资源配置中起基础性作用　　B．是国家调节经济的重要杠杆

C．是国家实现经济监督的重要手段　D．是再生产顺利进行的纽带

某公司在市场竞争中坚持效益原则，采用先进的生产技术，实施严格的生产管理和成本控制，有效地降低了成本。其生产的产品不仅技术含量高，且具有价格优势。回答 18、19 题。

18．该公司产品“技术含量高”与“价格优势”之间的关系是（　）

A．只要产品的技术含量高，就能降低价格

B．把技术用于节约消耗才能形成价格优势

C．产品技术含量的高低决定价格的高低

D．产品价格由价值决定，与技术含量高低无关

19．该公司坚持效益原则之所以要采用先进生产技术，是因为它可以（　）

A．减少个别劳动时间，提高企业劳动生产率

B．减少社会必要劳动时间，增加商品价值量

C．减少个别劳动时间，降低商品价值量

D．提高社会劳动生产率，增加企业收入

20．根据十六大关于“完善保护私人财产的法律制度”的精神，十届人大二次会议通过的宪法修正案规定：“公民的合法的私有财产不受侵犯。”把保护公民合法私有财产写入国家根本大法

①可以充分调动劳动、资本、技术、管理等各种生产要素的积极性　②保护了有钱人的利益，会造成收入差距的进一步拉大　③表明私有制已成为我国经济制度的主体　④有利于促进社会主义市场经济体制的进一步完善（　）

A．①②　　B．②③　　C．①④　　D．②④

21．据中国人民银行公布的数据显示：截止到 2003 年 12 月底，我国全部金融机构本外币储蓄同比增长 4%，继续保持快速增长。但在储蓄高增长的背后，是居民消费倾向的长期下降。这一现象的出现，主要是因为（　）

A．居民消费的需求已经得到满足

B．居民收入的增长速度一直高于经济增长的速度

C．我国储蓄存款利率高，风险小

D．社会保障体制等尚不健全，居民消费信心依然不足

22．某户居民购买了一套房子，入住后，发现实际建筑面积比购房合同约定的面积少了 6 平方米。房地产开发商的做法侵害了消费者的_____，违背了市场交易的_____。（　）

A．自主选择权　自愿原则　　B．公平交易权　诚实信用原则

C．知情权　法制性原则　　D．安全权　公平原则

23．去年非典型肺炎疫情的发生和蔓延，给亚洲一些国家的旅游、贸易、对外交往和社会生活带来负面影响，今年禽流感又在亚洲一些国家肆虐起来。提高政府应对灾害性突发事件的能力从经济上看，需要（　）

A．大力发展生态农业

B．建立充足的社会物资储备

C．大力发展公共卫生事业

D．充分发挥市场在资源配置中的基础性作用

24．随着个人按揭贷款等金融业务的广泛开展，居民购房热情大为高涨，房产价格持续上升，房地产业对中国 GDP 增长的贡献率不断提高。这说明（　）

A．金融业的发展能够提高人民的生活水平

B．推动经济发展必须提高商品的价格

C．第三产业对经济发展的推动作用日益明显

D．居民消费水平不断提高，消费结构不断改善

二、在下列各题的四个选项中，至少有一项是符合题意的，错选、多选，该题不给分；少选且正确的给 1 分。每小题 3 分，共 27 分

25．2003 年 8 月 27 日，《行政许可法》在全国人大常委会第四次会议上获得通过，并将于 2004 年 7 月 1 日起施行。从“行政审批”到“行政许可”的变化有利于 （ ）

A．保护公民、法人和其他组织的合法权益

B．弱化政府的行政管理职能

C．保障和监督行政机关依法实施行政管理

D．从根源上和制度上防止和治理腐败

26．浙江省非公有制企业不仅数量位居全国前茅，而且党组织建设步伐也走在全国前列。目前这个省有 3 名以上党员的 7800 余家非公有制企业中，已经单独组建党组织的有 6427 家，比例达到八成以上。在非公有制企业中建立党组织 （ ）

A．是推进党的建设新的伟大工程的重要组成部分

B．有利于引导和监督企业遵守国家的法律法规

C．是不断增强党的阶级基础和扩大党的群众基础的需要

D．是发挥党对非公有制企业经营管理指挥作用的需要

27．2004 年 2 月 25 日～28 日，在中国的斡旋下，朝核问题第二轮六方会谈在北京举行。中国为成功举办两轮六方会谈所做的努力受到舆论的广泛赞扬。中国积极参与解决朝鲜半岛争端表明 （ ）

A．维护世界和平是我们国家的重要职能

B．维护国家的独立和主权是我国外交政策的基本目标

C．当前国际竞争的实质是综合国力的较量

D．我国积极参与国际社会的一切活动

28．右图漫画对我们的警示是 （ ）



A．必须树立“以人为本”的科学发展观

B．想问题办事情必须善于抓住主要矛盾

C．必须坚持用全面的观点看问题

D．人生的真正价值在于奉献

29．苏格拉底“认识你自己”这句名言流传千古而不衰。而要发展我们的国家，就必须经常地“认识我中国”。这是因为 （ ）

A．世界上的任何事物都是相互联系的

B．正确的认识能更好地指导实践

C．改造客观世界与改造主观世界是统一的

D．实践是有意识、有目的的活动

30．要做到“认识我中国”就必须 （ ）

A．了解国情，立足国情

B．大力弘扬求真务实的精神

C．做到主观和客观的具体的历史的统一

D．在实践中创造和发展规律

31．2004 年 1 月，国务院决定选择国有独资的中国银行和中国建设银行进行股份制改造试点，使之最终成为具有国际竞争力的现代化股份制商业银行。这种做法 （ ）

A．符合现代市场经济发展的要求

B．表明我国把股份制作为公有制的主要实现形式

C．促进了国有商业银行由宏观调控部门向企业的转变

D．有利于促进金融业的健康发展

32．近年来，我国手机短信业务发展迅猛。手机短信在给人们的工作和生活带来益处的同时，虚假和色情等有害短信息也日益成为社会的一大公害。保证手机短信市场的健康发展需要 （ ）

A．增强消费者的公德意识和自我保护意识

B．充分发挥市场调节的基础性作用

C．健全市场经济法律、法规

D．大力发展信息技术产业

33．2004 年 2 月 1 日，商务部发布公告，对原产于日本、韩国、美国和台湾地区的进口苯酚反倾销调查做出终裁，决定从 2004 年 2 月 1 日起，对上述产品征收 3%～144% 不等的反倾销税，期限为 5 年。这反映出 （ ）

A．国际贸易竞争日趋激烈

B．我国加强税收监管，努力增加关税收入

C．世界贸易中不等价交换现象日益严重

D．我国在对外贸易中坚持平等互利原则，维护本国利益

第Ⅱ卷（非选择题，共 75 分）

三、（第 34 小题）简答题：本题满分 9 分

34．**材料一**：在十届全国人大二次会议上，来自全国各地的人大代表审议并通过了《政府工作报告》和《中华人民共和国宪法修正案》。大会共收到代表提出的议案 1374 件，这是 1983 年六届全国人大一次会议实行代表议案制度以来，数量最多的一次。

材料二：今年春节期间，全国人大代表、浙江新光饰品有限公司董事长周晓光在当地电视台打出广告，公开向群众征询全国人大议案的内容。周晓光的这种做法，引起广泛反响。

根据上述材料，回答下列问题：

（1）人大代表的法律地位在上述材料中是怎样体现的？（6 分）

（2）如果你是一名人大代表，你准备采取哪些方式加强与选民的联系？（3 分）

四、（第 35 小题）简答题：本题满分 9 分

35．胡锦涛同志指出，求真务实是辩证唯物主义和历史唯物主义一以贯之的科学精神，是我们党思想路线的核心内容，也是党的优良传统和共产党人应该具备的政治品格。必须大力弘扬求真务实精神、大兴求真务实之风。

从哲学上简要说明应怎样做到求真务实。（9 分）

五、（第 36 小题）辨析题：本题满分 10 分。仅作判断不说明理由者不得分

36．外汇储备越多越好，外汇汇率越低越好。（10 分）

六、（第 37 小题）辨析题：本题满分 11 分。仅作判断不说明理由者不得分

37．十届全国人大二次会议审议通过的《中华人民共和国宪法修正案》，增加了尊重和保障人权的规定。

辨题：尊重和保障人权，就要限制和约束国家机关的权力。（11 分）

七、（第 38 小题）论述题：本题满分 18 分。本题设置 2 分综合评价分，用于对考生分析问题和解决问题能力的综合评价。要求紧扣题意，综合运用所学知识，结合材料展开分析

38．进入 21 世纪后，随着江苏经济的快速增长，地区发展不平衡的问题日益尖锐起来：苏南超省平均水平，苏中超全国但低于省平均水平，苏北低于全国平均水平。为贯彻中央提出的“统筹区域经济协调发展”的重大决策，实现“两个率先”的目标（率先全面建成小康社会、率先基本实现现代化），江苏省委、省政府立足省情，确立了“提升苏南发展水平，促进苏中快速崛起，发挥苏北后发优势”的分类指导方针。鼓励苏南经济发达市、县与苏北经济薄弱县实行对口挂钩协作，加速苏北工业化进程；利用新一轮沿江开发的契机，建设苏中以长江为轴的新型国际制造业基地；鼓励苏南主动参与长三角区域经济分工合作，主动与上海及国际经济接轨，提高经济国际化水平。从而形成长江南北联动开发，三大区域优势互补、互利互赢、竞相发展的新格局。

结合上述材料说明在实现“两个率先”目标过程中，江苏是怎样用联系的观点统筹本省经济发展的？

八、（第 39 小题）论述题：本题满分 18 分。本题设置 2 分综合评价分，用于对考生分析问题和解决问题能力的综合评价。要求紧扣题意，综合运用所学知识，结合材料展开分析

39．根据以下材料回答问题。

材料一：现阶段我国农村经济发展情况

农业产值占 GDP 比重	农业就业人数占全国就业人数的比重	农村人口占全国人口的比重	从事农业的劳动力	乡镇企业转移剩余劳动力	进城务工人员	农村剩余劳动力
15%	50%	62.34%	3.07 亿人	1.28 亿人	0.8 亿人	1.5 亿人

材料二：我国城乡居民收入增长情况

指标 / 年份	城市居民可支配收入增长率（%）	农村居民人均纯收入增长率（%）	城乡人均收入差距（比）
2001	8.5	4.2	2.92∶1
2002	13.4	4.8	3.1∶1
2003	8.0	4.0	3.2∶1

材料三：目前城镇个体户的增值税有月销售额 600～2000 元的起征点，工薪阶层所得税也有 800 元的免征额。而农业税没有起征点和免征额，无论土地总产量是多少，是自用还是外销都要纳税，均按常年总产量的 8.4% 计征。如果按照城市居民纳税的起征点和免征额的规定，绝大多数农民无须纳税。

（1）三则材料分别反映了什么经济现象？

（2）三则材料共同反映了我国当前经济发展中存在的什么问题？

（3）结合上述材料和所学经济常识，说明解决这一问题的意义和途径。

需要全本请访问 www.ertongbook.com

桂林市 2004 年高考第三次模拟考试

6 A

政　　治

本试卷分第Ⅰ卷（选择题）和第Ⅱ卷（非选择题）两部分。共 150 分。考试用时 120 分钟。

第Ⅰ卷（选择题，共 75 分）

一、在下列各题的四个选项中，只有一个是最符合题意的。每小题 2 分共 48 分

1．2003 年 11 月 7 日，中共中央、国务院、中央军委隆重举行大会，庆祝我国首次载人航天飞行圆满成功。中央军委主席江泽民为_____颁发“_____奖章”和证书。（　）

A．杨力伟　航天功勋　　B．杨利伟　航天功勋

C．杨力伟　航天英雄　　D．杨利伟　航天英雄

2．2003 年 7 月 1 日，胡锦涛在“三个代表”重要思想理论研讨会上指出：“三个代表”重要思想的精髓是（　）

A．立党为公、执政为民　　B．坚持党的先进性

C．建设中国特色社会主义　　D．解放思想、实事求是、与时俱进

3．经中央批准，9 月 20 日定为“公民道德宣传日”。《公民道德建设实施纲要》明确提出的 20 字基本道德规范是_____。

①爱国守法　②和衷共济　③明礼诚信　④迎难而上　⑤团结友善　⑥敢于胜利　⑦勤俭自强　⑧敬业奉献（　）

A．①③⑤⑦⑧　B．②④⑤⑦⑧　C．①②③④⑤　D．③④⑤⑥⑦

十六届三中全会，审议通过了《中共中央关于完善社会主义市场经济体制若干问题的决定》并决定提交第十届全国人大常委会审议。《决定》指出：为适应经济全球化和科技进步加快的国际环境，适应全面建设小康社会的新形势，必须加快推进改革，进一步解放和发展生产力，为经济发展和社会全面进步注入强大动力。据此回答 4～6 题

4．上述材料表明

①党对国家生活实行政治领导　②正确处理社会关系的实践活动能够推动社会的进步　③生产实践对人类社会的进步起着决定性作用　④改革是经济社会发展的惟一动力（　）

A．①②　　B．②③　　C．①③　　D．②④

5．《决定》在总结市场化改革 25 年来成果的基础上，实现了新的创新，对中国今后 10 年乃至更长时间的改革实践，将产生深远的影响，这表明

①事物是变化发展的　②认识对实践具有积极地促进作用　③实践是认识的最终目的　④意识对物质具有能动作用（　）

A．②③④　　B．①③④　　C．①②④　　D．①②③

6．完善社会主义市场经济体制，其实质就是（　）

A．加快推进和完善垄断行业的改革

B．建立健全社会保障体系

C．解决区域协调发展的问题

D．更大程度地发挥市场在资源配置中的基础性作用

2003 年的“非典”疫情，全世界有 8400 多人受感染，790 人死亡。请根据有关知识回答 7～9 题。

7．“非典”从突然爆发，来势汹汹，到如今已基本得到控制。这表明（　）

A．世界上没有不可认识的事物，只有尚未认识的事物

B．人们的认识能力是无限的

C．只要发挥主观能动性就能战胜“非典”

D．质变必然促进事物的发展

8．人们在抗击“非典”的斗争中认识到，要将卫生工作的重点转向长期应对传染病感染的能力建设方面，转向日常生活的告别陋习，讲文明，讲卫生的宣传教育方面。这说明

①实践是认识的来源和发展的动力　②主次矛盾可以在一定条件下相互转化　③矛盾的主次方面可以在一定条件下相互转化　④物质是运动变化发展的（　）

A．②③　　B．①②　　C．③④　　D．②④

9．中国政府在抗击“非典”的斗争中开展了卓有成效的工作，得到了 WHO 的充分肯定。这表明（　）

A．中国共产党是为人民谋利益的政党

B．社会主义具有无比的优越性

C．中国政府是全心全意为人民服务的政府

D．中国政府是共产党领导下的政府

10．从今年开始，我国人事制度改革将加大力度，事业单位人员将打破公职身份，用三到五年时间，全面实行事业单位人员聘任制，事业单位人员将根据需要能上能下。对国家全面实行事业单位人员聘任制的正确理解是（　）

A．这是公民和国家关系的新调整，从根本上有利于公民权利的充分实现

B．改革人事制度能使公民真正成为国家的主人

C．这将会激化人民内部矛盾，不利于社会稳定

D．国家利益高于个人利益，为了国家利益应该牺牲个人利益

目前，我国有 2820 万人口尚未解决温饱问题，其中相当一部分住在西部自然条件非常恶劣的地区，这些人群需要通过移民的方式来解决贫困问题。国家每年安排移民资金 30～50 亿元。据此回答 11～14 题。

11．上述材料在经济学上主要体现了（　）

A．生产资料公有制在国民经济中居于主体地位

B．实现共同富裕是社会主义的根本目标

C．防止两极分化、消灭收入差距是公有制经济的分配原则

D．在社会主义市场经济条件下，解决贫困问题完全要依靠国家的宏观调控

12．以前，政府通过对口帮扶、科技、贷款等手段，使几千万贫困人口脱贫。现在针对生产、生活等自然条件恶劣的情况，只有通过移民的方式才能使贫困人口脱贫。这是

①坚持了一切从实际出发，实事求是的原则　②用一分为二的观点看问题　③坚持用具体问题具体分析的原则解决问题　④用内因外因辩证关系原理处理问题（　）

A．①②　　B．③④　　C．①③　　D．②④

13．不管是用对口帮扶、科技、贷款等手段，还是通过移民的方式来解决贫困问题，从政治常识的角度看，都体现了国家机关坚持（　）

A．依法治国的原则　　B．对人民负责的原则

C．民主集中制的原则　　D．诚实信用的原则

14．解决脱贫问题，应建立在贫困地区对国家脱贫政策的理解和执行上。这主要反映的哲理是（　）

A．内因是事物变化发展的根据

B．外因是事物变化发展的条件

C．外因通过内因而起作用

D．事物发展是内因外因共同起作用的结果

15．我国计划用五年时间，培育一批国内外知名的农产品品牌，抵御进口农产品的冲击，扩大优势农产品的出口。我国之所以要培育农产品的知名品牌，是因为

①品牌产品的使用价值较好，有利于实现产品的价值　②品牌产品凝聚的科技含量较高，包含的价值量低　③品牌产品集中体现了企业信誉和形象，具有较强的市场竞争力　④品牌产品比普通产品具有更大的使用价值，更能满足消费者的需求（　）

A．①②　　B．①③　　C．③④　　D．②③④

2003 年 8 月和 2004 年 2 月，为解决朝鲜半岛的核危机，由中国召集，朝鲜、美国、俄罗斯、日本参加的“六方会谈”在北京举行。据此回答 16～18 题。

16．上述材料主要体现了我国外交政策的基本点是（　）

A．独立自主是我国外交政策的基本立场

B．促进世界和平是我国外交政策的基本目标之一

C．和平共处五项原则是我国对外关系的基本准则

D．坚持对外开放，加强国际交往是我国的基本国策

17．中国政府一直主张和平解决朝鲜核危机问题，这突出表明我国在处理国际问题时，主要（　）

A．按联合国的决议决定自己的态度和对策

B．按照国际条约决定自己的态度和对策

C．根据大国一致原则决定自己的态度和对策

D．根据我国的国家利益和问题本身的是非曲直决定自己的态度和对策

18．朝鲜半岛无核化进程的反复性事实说明（　）

A．矛盾是事物发展的动力和源泉

B．量变和质变是事物发展的两种状态

C．事物发展是前进性和曲折性的统一

D．理性认识比感性认识更重要

19．全国工商行政管理部门将加大打破行业垄断和地区封锁的工作力度，这是国家在履行（　）

A．政治职能，保卫社会主义现代化建设

B．经济职能，促进经济健康发展

C．文化职能，保证经济建设的正确方向

D．社会公共服务职能，为经济发展创造良好的环境

20．据报道，2003 年我国税务机关共检查纳税人 150 多万户，查补税款 330 多亿元。我国对税收案件的查处表明（　）

A．税收具有强制性的特征　　B．税收是组织财政收入的基本形式

C．违反税法必定要受到刑事制裁　　D．税收是取之不尽、用之于民的

21．为了维护生态平衡，新疆全力推进天然林保护、退耕还林还草工程。这说明（　）

A．意识是物质的产物和反映　　B．价值观对人们的活动具有导向作用

C．理性认识来源于感性认识　　D．本质总要表现为一定的现象

22．2003 年 12 月 25 日，胡锦涛在会见各地台资企业协会会长时指出，我们反对任何形式的“台独”分裂活动，绝不允许任何人以任何方式把台湾从中国分裂出去。这是因为

①世界上只有一个中国，中国的主权和领土完整不容分割　②任何形式的分裂、独立都违背了中华民族的根本利益　③坚持一个中国原则是发展两岸关系和实现和平统一的基础　④我们充分尊重台湾同胞要求当家作主的意愿（　）

A．①②③　　B．②③④　　C．①②④　　D．①③④

23．某食品生产企业生产的“藕粉”，包装上用大字写着醒目的“藕粉”，另用

小字写着“选用优质藕粉、木薯粉为主要原料”，但未标明藕粉、木薯粉各占多大比例，剥夺了消费者的知情权。消费者的知情权主要是指消费者在购买商品和服务时有权获知 （ ）

A．该企业的利润情况　　B．该企业的生产成本

C．所购买商品和服务的真实情况　　D．该企业的生产规模

24．2003 年《瞭望》周刊报道，诺贝尔经济学家罗伯特、蒙代尔直言：人民币如果升值将使外商投资大量减少，这样中国的经济增长将下降至少 2 到 3 个百分点。人民币升值意味着 （ ）

A．不利于进口　　B．有利于出口

C．外汇汇率升高　　D．外汇汇率跌落

二、下列各题的四个选项中，至少有一项是符合题意的。错选、多选，该题不给分；少选且正确的给 1 分。每小题 3 分共 27 分

25．党的十六届三中全会提出的完善社会主义市场经济体制的目标是：按照统筹城乡发展，统筹区域发展，统筹经济社会发展，统筹人与自然和谐发展，统筹国内发展和对外开放的要求，更大程度地发挥市场在资源配置中的基础性作用，增强企业活力和竞争力，健全国家宏观调控体系，完善政府的社会管理和公共服务职能，为全面建设小康社会提供强有力的体制保障。从哲学上看，五个统筹主要体现了 （ ）

A．联系的观点　　B．意识的反作用

C．量变与质变的原理　　D．矛盾的观点

26．诚信缺失已严重影响到我国社会生活的方方面面，就是我国的教育也不能幸免。教育部在 2004 年普通高校招生会议上提出，每个参加高考的考生在参加高考前都要签订“考试诚实守信协议书”。作为培养社会主义建设人才的教育，如果不能培养具有良好道德、讲诚信的公民，将导致 （ ）

A．社会秩序的混乱和社会风气的败坏　　B．社会主义法制失去应有的道德基础

C．人民群众的根本利益受到严重损害　　D．我国国家性质发生改变

27．国务院国有资产管理委员会 2004 年将加快对 189 户中央企业的股份制改革步伐，尽快使股份制成为中央企业的重要实现形式。使股份制成为中央企业的重要实现形式 （ ）

A．是社会化大生产发展的必然要求

B．说明股份制是公有制的惟一实现形式

C．有利于实现投资主体的多元化

D．有利于增强中央企业的活力

28．2003 年，我国各项存款增长较快，其中居民储蓄存款达 11 万亿元，同比增长 19.95%。居民储蓄较快增长的根本原因是 （ ）

A．国家实行鼓励储蓄的经济政策

B．国家实行存款自愿、取款自由、存款有息、为储户保密的储蓄原则

C．国民经济健康快速发展

D．储蓄作为一种投资方式，风险小，收益高

29．党中央指出，要鼓励企业创造更多的就业岗位。改革发展和结构调整都要与扩大就业紧密结合。中央之所以鼓励企业创造更多的就业岗位，是因为 （ ）

A．这是提高企业经济效益的必然要求

B．这是实现劳动者平等就业权的客观需要

C．这样做有利于人民生活的改善

D．这是维护社会稳定的需要

30．古人云：“为圆必以规，为方必以矩，为平直必以准绳。”这就要求 （ ）

A．公民要增强法制观念和道德意识

B．党要在宪法和法律的范围内活动

C．人人必须先履行义务才能享受权利

D．国家机关及其工作人员要依法办事

31．2003 年 12 月 14 日，伊拉克前总统萨达姆在提克里特被捕。有人认为萨达姆被捕有利于伊拉克局势稳定，也有人认为萨达姆被捕反而会使伊拉克局势更加混乱。从哲学上看这表明 （ ）

A．任何现象都是本质的反映，任何本质都要表现为现象

B．由于受主客观条件的限制人们对同一事物会有不同的反映

C．由于受主客观条件的限制人们对同一事物不可能有相同的反映

D．事物是普遍联系而不是彼此孤立的，要用联系的观点看问题

32．迄今已有 352 年历史的著名老字号企业王麻子剪刀厂，负债总额达 2779 万元，资金负债率为 216.6%，已向法院申请破产。对企业破产的正确认识是 （ ）

A．可以强化企业的风险意识

B．可以形成优胜劣汰的竞争机制，及时淘汰落后企业

C．会使企业失业人员增多，就业压力增大，不宜采用

D．可以达到资源的优化配置，实现产业结构的合理调整

33．恩格斯指出“我们不要过分陶醉于对自然界的胜利，对于每一次这样的胜利，自然界都报复了我们。”对这句话的正确理解是 （ ）

A．我们不应该征服和改造自然

B．我们要爱护和保护人类的共同家园

C．我们要与自然界和谐相处

D．我们要树立全面、协调、可持续的发展观

第Ⅱ卷（非选择题，共 75 分）

三、简答题（本大题共 2 小题，每小题 9 分共 18 分）

34．在学习“商品、货币、价值规律”这部分内容时，某校组织学生搞了一次社会调查。同学们在议论市场上各种商品的价格时，出现了两种不同的意见。一方坚持：“市场上价廉物美的商品是可以买到的。”另一方则坚持：“好货不便宜，便宜没好货。”双方各自列举了大量的事实，以试图说服对方。

你对这两种意见有何看法？请简要说明理由。

35．列宁说：“离开工作，离开斗争，从共产主义小册子和著作中得来的关于共产主义的基本知识，可以说是一文不值。”鲁迅说：“其实即使是天才，在生下来的第一声啼哭，也和平常的儿童一样，绝不会就是一首好诗。”孔子曰：“生而知之者，上也；学而知之者，次也。”

（1）上述言论各反映了什么哲学思想？

（2）运用认识论的有关原理对上述言论进行简要评析。

四、辨析题（本大题共 2 小题，每小题 11 分共 22 分，仅作判断不说明理由不得分）

36．背景：恐怖主义已成为世界的一大公害，“东突”恐怖势力已深探地伤害了中国和中国人民，但受恐怖主义袭击最严重的是美国。有人说，这主要是因为美国恃强凌弱，到处欺负弱小国家，特别是意识形态、价值观念与自己不同的国家。

辨题：要消除国际恐怖主义，最根本的是要反对霸权主义。

37．完善社会保障体系必须扩大财政支出，提高社会保障水平。

五、论述题（本大题共 2 小题，第 38 题 15 分，第 39 题 20 分，共 35 分。每题设置 2 分综合评价分，用于对考生分析问题和解决问题能力的综合评价。要求紧扣题意，综合运用所学知识，结合材料展开分析）

38．党的十六大报告指出：“实施西部大开发战略，关系全国发展的大局，关系民族团结和边疆稳定。要打好基础，扎实推进，重点抓好基础设施和生态环境建设，争取十年内取得突破性进展。积极发展有特色的优势产业，推进重点地带开发。发展科技教育，培养和用好各类人才。国家要在投资项目、税收政策和财政转移支付等方面加大对西部地区的支持，逐步建立长期稳定的西部开发资金渠道。西部地区要进一步解放思想，增强自我发展能力，在改革开放中走出一条加快发展的道路。”

请说明上述材料所蕴含的哲学道理。

39．材料一：近几年我国农村居民人均纯收入增长情况

年　份	1998	1999	2000	2001	2002	2003
比上年增长（%）	4.3	3.8	2.1	4.2	4	4.3

材料二：2003 年三大产业在国内生产总值中的增长情况

国内生产总值	比上年增长	第一产业增长	第二产业增长	第三产业增长
116694 万亿元	9.1%	2.5%	12.5%	6.7%

材料三：目前，我国适合市场需求的优质粮不足 20%；经济发达国家的农产品加工业的产值，一般都是农业产值的 3 倍以上，而我国还不到 80%；发达国家农产品加工程度普遍在 90%以上，而我国只有 20%左右。

阅读上述材料。回答下列问题：

（1）材料一、二、三分别反映了什么经济现象？

（2）材料一和材料二、材料三有什么内在联系？

（3）应如何解决上述材料所反映的问题？

广东省深圳市 2004 年高三第一次调研考试

7 A

政　　治

本试卷分第Ⅰ卷（选择题）和第Ⅱ卷（非选择题）两部分。共 150 分。考试时间 120 分钟。

第Ⅰ卷（选择题，共 75 分）

一、在下列各题的四个选项中，只有一项是最符合题意的。每小题 2 分，共 48 分

1．中共十六届三中全会于 2003 年 10 月 11 日至 14 日在北京举行。会议审议通过了《_____》和《中共中央关于修改宪法部分内容的建议》。（　）

A．中共中央关于建立社会主义市场经济体制若干问题的决定

B．中共中央国务院关于加快林业发展的决定

C．中共中央关于完善社会主义市场经济体制若干问题的决定

D．全面建设小康社会，开创中国特色社会主义事业新局面

2．2003 年 10 月 15 日，我国第一艘载人航天飞船_____成功发射并安全返回。_____成为中国航天第一人。（　）

A．神舟 4 号　翟志刚　　B．神舟 5 号　杨利伟

C．神舟 6 号　杨利伟　　D．长征 5 号　聂海胜

3．2003 年 11 月 27 日至 29 日，中央经济工作会议在北京举行。会议强调，牢固确立和认真落实_____的发展观，既是经济工作必须长期坚持的重要指导思想，也是解决当前经济社会发展中诸多矛盾必须遵循的基本原则。（　）

A．全面建设小康社会　　B．持续、快速、健康

C．以人为本、高速增长　　D．全面、协调、可持续

4．2003 年，我国国民经济在非典的影响下仍保持了较快增长的良好势头，全年经济增长率预计达_____，国内生产总值突破_____万亿元。（　）

A．8.5%　11　　B．8.5%　10　　C．9%　11　　D．7.8%　10

5．2003 年 10 月 8 日，温家宝总理与东盟各国领导人共同签署了“面向_____的战略伙伴关系”联合宣言，并出席了中国加入《东南亚友好合作条约》的签字仪式。（　）

A．合作与开放　B．信任与合作　C．和平与繁荣　D．和平与发展

6．我国的法律援助制度从 1996 年起步至今，由于它能为经济困难或特殊案件的当事人减免费用提供法律服务而产生了广泛的社会影响。法律援助

①是我国法治文明和社会进步的表现　②体现了法律面前一律平等的原则　③违背了司法机关独立行使审判权　④有利于实现社会公平（　）

A．①②③　　B．①②④　　C．②③④　　D．①③④

7．在现阶段，我国民族工作的根本任务是（　）

A．加快民族地区经济文化的发展

B．实行民族区域自治

C．加强民族团结

D．加大发达地区对少数民族地区的援助力度

2003 年春季，一场突如其来的重大灾害——非典型肺炎席卷华夏大地。疫情发生后，国务院要求卫生部门集中优势力量攻关，尽快研究有效的医疗方法，做到资源共享，信息互通；在抗击“非典”过程中以钟南山、叶欣等为代表的白衣战士，以对“救死扶伤”事业的无限忠诚谱写了人民利益高于一切的壮丽篇章，形成了伟大的抗“非典”精神。回答 8、9 题

8．国务院的要求主要体现的国家职能是（　）

A．政治职能　　B．经济职能

C．社会公共服务职能　　D．文化职能

9．白衣战士的事迹说明（　）

A．坚持集体主义必须牺牲个人利益　B．自我价值是社会价值的基础

C．精神的力量决定事物的发展进程　D．人生的真正价值在于对社会的贡献

10．学习贯彻“三个代表”重要思想，根本目的就是要推动全党更好地带领人民群众把中国社会主义事业的伟大实践推向前进。之所以要把学习“三个代表”重要思想与实践“三个代表”重要思想结合起来，从哲学上讲，是因为（　）

A．联系才能促进发展

B．改造主观世界是改造客观世界的目的

C．改造主观世界与改造客观世界是辩证统一的

D．物质和意识是不可分的

11．“海尔”作为我国称雄国内外市场的企业集团，在这些年的发展过程中，始终瞄准国际先进技术水平，积极引进国外公司的关键技术和先进设备，通过消化和技术创新，生产出具有世界先进水平的优质产品。“海尔”名牌的塑造给我们的哲学启示是（　）

A．量的积累必然引起质的飞跃

B．坚持内因、外因相结合的方法

C．要重视外因在事物发展中的作用

D．要把自力更生和实行对外开放结合起来

12．党的十六大报告提出“要在全社会形成崇尚科学、鼓励创新、反对迷信和伪科学的良好氛围”。之所以强调反对封建迷信和伪科学，是因为（　）

A．有神论没有任何积极作用

B．这些思想是人们主观臆造的

C．无神论为人类社会的进步与发展提供了强大的精神动力

D．它们是错误的思想意识，阻碍着人们的实践活动

13．“假日旅游”是拉动我国经济增长的一个重要支撑点，但由于交通压力加大，景区超载，环境破坏等原因，其弊端在我国社会经济生活中已日渐显现，影响着我国整个旅游产业的可持续发展。材料说明（　）

A．矛盾双方依据一定的条件各向自己相反的方向转化

B．复杂事物包含的矛盾有主次之分

C．物质决定意识，意识对物质具有能动作用

D．不同的事物具有不同的矛盾

14．胡锦涛总书记指出：“相信谁、依靠谁、为了谁，是否始终站在广大人民群众的立场上，是区分唯物史观和唯心史观的分水岭，是判断真假马克思主义的试金石”。这一论断的哲学依据是（　）

A．要坚定地走与人民群众相结合的道路

B．人民群众是实践的主体，是历史的创造者

C．中国共产党始终代表中国最广大人民的根本利益

D．人民群众的实践是认识的来源

15．甲说，现在已经可以做到人工影响天气，将来必定能够“天随人意”。乙说，无论到什么时候也实现不了“天随人意”。两者的共同点是（　）

A．承认了规律的客观性

B．否定了人的主观能动性

C．割裂了客观规律性和主观能动性的关系

D．都是辩证唯物主义观点

我国户籍管理制度改革经历了从“农转非”严格的计划指标管理，到设置限制进城的“门槛”，再到对某些外来人员进城条件逐步放宽甚至取消的过程。2003 年是我国人口迁移政策发生实质性变化的一年。“天高任鸟飞，四海皆我家”逐渐变成了现实。回答 16、17 题

16．我国户籍制度的改革有利于（　）

A．解决就业问题　　B．实现资源的优化配置

C．使农民成为市场的主体　　D．鼓励农民进城生活

17．我国人口迁移政策变化的历程表明（　）

A．实践是认识的目的　　B．意识具有能动的反作用

C．理性认识比感性认识更深刻　　D．主观与客观是历史的具体的统一

18．国民收入与国内生产总值都是反映一国经济活动的重要指标。与国内生产总值相比，国民收入（　）

A．能把三大产业的水平和劳务成果反映出来

B．是各部门各行业的劳动者生产出来的产品的总和

C．是劳动者新创造的社会财富

D．便于进行国际经济的横向比较

19．党的十六届三中全会指出：“产权是所有制的核心和主要内容，包括物权、债权、股权和知识产权等各类财产权。建立归属清晰、权责明确、保护严格、流转顺畅的现代产权制度。”建立现代产权制度是（　）

A．构建现代企业制度的重要基础　B．调整所有制结构的要求

C．市场经济开放性的要求　　D．贯彻我国现阶段分配制度的要求

20．目前，我国个体、私营经济创造的国内生产总值占全部国内生产总值的 30%；外商对华投资实现的工业增加值在全国工业增加值中的比重超过了 25%，出口额在全国出口总值中的比重超过了 52%，缴纳税收超过全国税收总额的 20%。材料说明，非公有制经济（　）

A．已成为新增就业的主渠道

B．是我国社会主义经济的重要组成部分

C．是推动国民经济发展的重要力量

D．成为促进社会稳定的重要因素

21．近年来，拖欠农民工工资现象已经成为社会关注的热点问题。党中央、国务院三令五申，要求高度重视和保护农民工的合法权益。拖欠农民工工资是侵害了劳动者的（　）

A．劳动权　　B．享受社会保险和福利的权利

C．提请劳动争议和处理的权利　　D．取得劳动报酬的权利

22．据统计，在自己的合法权益受到侵害的我国消费者群体中，主动寻求解决的仅为 22.3%，而近 70%的消费者则自认倒霉。这表明（　）

A．消费者对“消法”的了解程度不够

B．消费者的维权意识有待提高

C．要建立维护消费者合法权益的组织机构

D．消费者要懂得权利和义务是统一的

23．从 1998 年起，中央财政支出中教育经费所占比例每年提高一个百分点，仅此一项，这些年来教育经费就增加了近 500 亿元。这说明（　）

A．国家通过财政可以有效地调节资源配置

B．国家通过财政可以促进经济发展

C．财政可以有力地促进科学、教育、文化事业的发展

D．财政有利于促进人民生活水平的提高

24．在市场竞争激烈的环境下，一些名优企业往往在新商品上市之前，就已开发出与之相关的下一代产品。商家注重开发新产品、进行品质创新是因为（　）

A．使用价值是价值的物质承担者

B．供求关系决定市场占有量

C．社会必要劳动时间决定商品的价值量

D．使用价值是指商品能够满足人们某种需要的属性

二、在下列各题的四个选项中，至少有一项是符合题意的。错选、多选，该题不给分；少选且正确的给 1 分。每小题 3 分，共 27 分

25．十六大报告提出“党内民主是党的生命”。在十六届三中全会上，中央政治局向中央委员会报告工作被列为首项议程，这是新一届党中央领导集体带头推进党内民主的一项重大举措。加强党内民主 （ ）

A．对人民民主具有重要的示范和带动作用

B．反映了党员和党组织的意愿

C．是党的根本组织制度和领导制度的要求

D．有助于科学决策和强化党内监督

26．国务院台湾事务办公室发言人 2003 年 11 月 28 日在回答记者有关询问时表示，我们严重关切台湾地区“公投立法”的有关情况，正在密切关注这一事态的发展。我们坚决反对任何人借“公投立法”进行“台独”分裂活动。这是因为 （ ）

A．我们决不承诺放弃使用武力统一台湾

B．“一国两制”是两岸统一的最佳方式

C．它是涉及国家领土主权和民族尊严的重大原则问题

D．世界上只有一个中国，台湾是中国神圣领土不可分割的一部分

27．第 58 届联大于 2003 年 10 月 31 日审议通过了《联合国反腐败公约》，该《公约》是联合国历史上第一部指导国际反腐败斗争的法律文件，我国代表在《公约》上签了字我国积极参加《联合国反腐败公约》 （ ）

A．为打击腐败犯罪的国际合作奠定了法律基础

B．有利于为我国反腐败斗争创造良好的国际环境

C．说明我国是联合国的创始国和安理会的常任理事国

D．体现了我国坚持依法治国的原则

“只能喝到本地产的啤酒，只能抽到地方牌香烟，购置外地汽车要交纳高额的上牌费……”这林林种种现象的背后是地方保护主义在作怪，取消地方保护主义势在必行。回答 28、29 题

28．之所以要取消地方保护主义，是因为 （ ）

A．市场经济具有开放性

B．地方保护主义加剧了市场竞争

C．宏观调控不能以行政手段为主

D．地方保护主义不利于建立统一开放竞争有序的现代市场体系

29．在人们对地方保护主义口诛笔伐的同时，一些地方政府却以维护所谓“地方利益”为由，仍乐此不疲。从哲学角度看，地方政府的做法 （ ）

A．没有抓住重点　　B．割裂了局部与整体的联系

C．是从整体着眼，寻求最优目标　　D．把局部利益置于整体利益之上

30．近年来，我国每年发生的安全事故都在 100 万起以上，直接和间接经济损失高达 2000 多亿元。企业急功近利安全投入低，经营者违章经营赌徒心理重，生产者违规操作预防意识差是发生安全事故的最主要原因。安全生产已刻不容缓。这启示我们 （ ）

A．必须坚持正确的价值取向　　B．因果联系是普遍的客观的

C．事物发展是前进性与曲折性的统一　　D．必须按客观规律办事

31．“昨夜江边春水生，蒙艟巨舰一毛轻。向来枉费推移力，此时江中自在行。”从哲学上看，这表明 （ ）

A．质变是量变的基础　　B．人在自然面前是无能为力的

C．事物的联系是具体的、客观的　　D．矛盾双方在一定条件下可以相互转化

32．自今年 9 月份以来，国内粮食市场价格呈现 6 年来的首次全面上扬。粮价上涨大大调动了农民种粮的积极性。截至目前，全国已完成秋冬农作物种植面积 6.63 亿亩，比上年增加 910 多万亩，冬小麦播种面积是近 5 年减少最少的一年，基本遏制了粮食播种面积连年大幅下滑的势头。粮价的上涨 （ ）

A．有利于增加农民收入　　B．有利于农业的产业化经营

C．有利于我国农业基础地位的巩固　　D．意味着我国开始出现了通货膨胀

33．建立新型的社会保障制度是完善社会主义市场经济体制的重要内容。它有利于 （ ）

A．企业深化改革　　B．新老企业平等参与市场竞争

C．维护劳动者的合法权益　　D．实现社会的安定

第Ⅱ卷（非选择题，共 75 分）

三、简答题（本大题共 2 小题，每小题 9 分，共 18 分）

34．为坚持执政为民，中央和地方政府推出千余项便民利民措施。公安部推出包括户籍管理、交通管理、出入境管理、消防管理等四个方面 30 项便民和利民措施。最高人民法院宣布建立和完善 10 项制度，推出 23 项司法为民新举措。民政部积极推进婚姻登记管理体制改革，方便城乡特别是边远地区的群众办理婚姻登记等等。

问题：中央和地方政府为什么要推出这些便民利民措施？

35．一场非典危机，给人们的饮食出行、卫生习惯和消费方式带来了许多新变化，人们的日常生活更趋文明、科学、合理。正如恩格斯所说：“人类遭遇的每一次灾难，总是以社会的进步作为补偿。”

问题：简要说明“人类遭遇的每一次灾难，总是以社会的进步作为补偿”体现的辩证法道理

四、辨析题（本大题共 2 小题，每小题 11 分，共 22 分。仅作判断不说明理由者不得分）

36．发展社会主义民主政治，最根本的就是加强立法工作。

37．背景：一段时间以来，关于人民币应该升值的言论在国际上传得沸沸扬扬。有人认为：人民币升值可能意味着人民币地位的提高，中国老百姓手中的财富更加值钱，中国经济在世界经济中的地位得到提升等等。

辨题：人民币升值有利于我国经济的发展。

五、论述题（本大题共 2 小题，第 38 题 16 分，第 39 题 19 分，共 35 分。每题设置 2 分综合评价分，用于对考生分析问题解决问题能力的综合评价。要求紧扣题意，综合运用所学知识，结合材料展开分析）

38．根据以下材料回答问题。

2003 年 10 月 15 日，我国首次载人航天飞行取得圆满成功，实现了飞向太空的历史性跨越。总结我国载人航天工程取得成功的经验，主要有以下几方面：中央在对载人航天工程进行充分的技术、经济可行性论证的基础上，作出实施载人航天工程的科学决策，为首次载人航天飞行圆满成功提供了根本保证。精心组织，科学管理，是首次载人航天飞行成功的重要前提。与时俱进、自主创新，是首次载人航天飞行成功的重要途径。尊重人才，培养人才，充分调动人才的积极性和创造性，是首次载人航天飞行成功的重要基础。大力弘扬“两弹一星”精神，充分发挥社会主义制度优越性，是首次载人航天飞行成功的重要保障。

运用所学哲学常识的知识，说明我们为什么能够取得载人航天飞行的圆满成功？

39．根据以下材料回答问题。

材料一：东北三省与东南两省 GDP 占全国比重的变化

	1978 年	1999 年
辽宁	6%	5%
吉林	11%	2%
黑龙江	5%	4%
山东	6%	9%
广东	5%	10%

材料二：权威数据表明，东北地区的市场化程度总指数远远低于东部沿海地区。其次，在东北老工业基地整个经济结构中，新兴产业比重过低，以传统产业为主的产业结构仍然未能有较大改变。大量传统优势产品竞争能力下降，市场份额逐步萎缩。第三是资源面临枯竭，缺乏后续替代产业。东北部分重点地区的矿产资源（如煤矿、森林）已经完全枯竭或濒临枯竭，失去了原有的经济优势。第四是国有经济在社会总资本中比重过高，分布战线过长，布局不合理。

（1）材料一和材料二分别说明了什么经济现象？

（2）结合材料二，运用经济常识有关知识，谈谈如何振兴东北老工业基地。

江苏省盐城市2004年高三第二次调研考试

8 A

政　　治

本卷分为第Ⅰ卷（选择题）和第Ⅱ卷（非选择题）两部分。满分为150分。考试时间120分钟。

第Ⅰ卷（选择题，共75分）

一、在下列各题的四个选项中，只有一项是最符合题意的。每小题2分，共48分

1．2003年12月7～10日，温家宝总理对美国进行了正式访问。这次访问的主要议题是_____、经贸问题和朝核问题。（　）

A．人权问题　　B．西藏问题

C．台湾问题　　D．伊拉克重建问题

2．2003年11月7日，中共中央、国务院、中央军委授予为我国航天事业作出突出贡献的杨利伟_____荣誉称号，并颁发功勋章。（　）

A．航天英雄　　B．共和国卫士

C．十大杰出青年　　D．全国劳动模范

3．上题材料表明（　）

A．物质贡献比精神贡献更重要

B．自我价值与社会价值处于同等地位

C．对社会的贡献是人生的唯一价值

D．人生价值是自我价值与社会价值的统一

4．2003年8月27日十届全国人大常委会第四次会议表决通过了《中华人民共和国行政许可法》。在全国人大常委会分组审议这部草案时，一些委员建议将草案向全社会公布，征求社会各界和广大人民群众的意见。这一建议的采纳有利于（　）

A．提高立法的科学性　　B．维护公民在法律面前的平等地位

C．所有公民意志得到充分体现　　D．人民群众充分行使自己的立法权

5．李元龙同志生前是江苏南京市六合区竹镇大泉村党支部书记。他始终以富裕百姓为己任，千方百计带领大家发展经济，使一个贫穷的偏僻山村改变了落后面貌，让群众过上了好日子。李元龙常说：“当了村干部，要有‘百姓心’，尽公仆力”。这表明李元龙

①努力实践“三个代表”重要思想　②不谋取任何个人利益　③始终保持同人民群众的血肉联系　④牢记党的根本宗旨（　）

A．①②　　B．①③④　　C．①②④　　D．②③④

6．最近，广东省深圳市福田区在选举区人大代表时出现了4位新闻人物。他们毛遂自荐竞选人大代表，其中一位以非正式候选人身份高票当选。他们的举动引起了社会各界的关注。公民自荐竞选人大代表表明（　）

A．公民自荐竞选是人大工作活力的主要体现

B．人大代表是国家权力机关的主体

C．人大代表是直接选举产生的

D．人民群众的参政意识、民主意识增强

7．法律援助制度是国家对经济困难的公民和某些特定当事人免费或减免来提供法律服务，以保证其合法权益得以实现的社会公益性法律制度。2003年7月16日国务院第15次常务会议通过了《法律援助条例》，自2003年9月1日起施行。这体现了（　）

A．我国社会保障制度的进一步完善

B．我国政府代表全体公民的根本利益

C．我国政府坚持对人民负责的原则

D．中国共产党是中国最广大人民群众利益的忠实代表

8．在长期共同的开发建设中，特别是改革开放以来，民族地区的经济和各项社会事业快速发展，民族团结越来越巩固。这主要是因为（　）

A．我国各民族的平等权利已得到充分实现

B．我国积极推进西部大开发战略

C．我国已消除了大民族主义和地方民族主义的影响

D．党和政府贯彻和执行了正确的民族政策

9．经中、朝、美、韩、俄、日协商，有关朝鲜核问题的六方会谈于2003年8月27日在北京举行，这标志着和平解决朝核问题又向前迈出了重要一步。中方为和谈所作的不懈努力，受到与会各方的一致赞赏。这反映了（　）

A．我国在处理国际问题上具有决定权

B．争取和平反对战争已成为世界各国的共识

C．我国的独立自主的外交政策已得到与会各国认同

D．维护世界和平与发展是我国外交政策的基本目标

10．中国人民银行行长周小川认为，人民币币值稳定与广大人民群众的根本利益密切相关，因此要不断增强实施金融宏观调控的前瞻性和科学性。这主要说明（　）

A．要坚持用矛盾的观点看问题　　B．要正确把握事物的因果联系

C．联系是客观的、无条件的　　D．整体具有部分根本没有的功能

11．死海含盐分极高，水中鱼虾及岸边草木都不能生长，所以被称为死海。但近年来，通过科学家考察，在死海中发现有耐盐的细菌和藻类，原来死海不“死”。这体现的哲理是（　）

A．矛盾的主要方面决定事物的性质

B．认识在实践的基础上不断发展

C．事物的发展是内、外因共同起作用的结果

D．科学理论对实践有指导作用

12．我国古代思想家庄子曾说：“一尺之棰，日取其半，万世不竭。”这句话蕴涵的哲学道理是（　）

A．量变到一定的程度必然会引起质变

B．整体与部分密不可分，部分对整体具有决定作用

C．物质无限可分，人们对事物的认识是没有止境的

D．矛盾双方在一定条件下相互转化

13．父亲叫儿子去买火柴，并嘱咐儿子火柴要擦得着。儿子回来后对父亲说：“我今天买的火柴每一根都擦得着。”父亲问：“你怎么知道的？”儿子说：“我每一根都试过了。”父亲听后，哭笑不得。从哲学上看，儿子（　）

A．没有认识到量变会引起质变

B．没有认识到矛盾的普遍性和特殊性是辩证统一的

C．忽视了发挥人的主观能动性

D．没有用发展的眼光看问题

14．“在历史发展的关键时期，把握住了机遇，落后的国家和民族就有可能实现跨越式发展，成为时代发展的弄潮儿；而丧失了机遇，原本强盛的国家和民族也会不进则退，成为时代发展的落伍者。”这说明（　）

A．矛盾双方在一定条件下各向自己的对立面转化

B．矛盾双方的对立统一始终是不可分割的

C．要按规律办事，做到实事求是

D．只要抓住机遇，就能获得成功

2003年12月15日，我国成功研制出在全球运算速度名列前茅的商品化高性能计算机——10万亿次曙光4000A。据此回答15、16题：

15．李国杰院士说：“在高性能计算机方面，我们绝对不能单纯追求计算峰值速度，我们更需要关注的是用户应用的实际效益，在服务于具体应用的同时实现核心技术的突破。这就是我们常说的‘顶天立地’——技术顶天，应用立地。”这表明（　）

A．实践是社会性历史性的活动

B．实践是有意识、有目的的能动性的活动

C．实践的发展为人们提供了新的认识工具

D．认识的最终目的是指导实践

16．上海超级计算中心在曙光4000A投入应用后，其具备的网络使用技术和在信息服务方面的一系列突破将极大地推进我国的网络建设，带来巨大的社会效益和经济效益。从哲学上看，这表明（　）

A．新事物是在旧事物的基础上产生的

B．高新技术产品必然有着广阔的市场

C．新事物具有强大的生命力和远大的发展前途

D．新事物的成长壮大要经历艰难曲折的过程

17．“你最好接受自己的长相。你是骆驼，就不要去唱苍鹰的歌，骆驼照样充满魅力。”这启示我们（　）

A．成才应从自身实际出发　　B．外因是事物变化发展的条件

C．要解放思想，与时俱进　　D．要不失时机地促成飞跃

2003年8月3日，国务院总理温家宝在长春市主持召开座谈会，提出了振兴东北老工业基地的战略决策。据此回答18、19题。

18．振兴东北老工业基地，要充分发挥市场的作用，结构调整、技术改造、企业重组，都应主要依靠市场来决定。政府主要是制定规划和政策，营造投资、创业和发展的良好环境。这说明（　）

A．市场经济是实现资源配置的唯一有效形式

B．要把市场调节和宏观调控结合起来

C．市场调节要以宏观调控为基础

D．社会主义国家能够实行强有力的宏观调控

19．振兴老工业基地，主要依靠充分发挥广大企业和干部群众的积极性、创造性，发挥自身优势，挖掘内部潜力，激发内在活力。同时，也离不开国家在政策、资金等方面的支持。材料体现的哲理是（　）

A．振兴老工业基地是一项长期、艰巨、复杂的任务

B．事物发展是内外因共同起作用的结果

C．事物的发展是前进性与曲折性的统一

D．主要矛盾决定着事物发展的进程

20．近5年内，中国政府将出资8亿元，组织实施制造业信息化关键技术研究及应用。对传统产业进行信息化改造（　）

A．可以提高单位商品的价值量　　B．能够使企业降低成本，提高经济效益

C．必然使产品有广阔的市场需求　　D．是商品生产者的目的

21．过高的社会保障水平会造成政府负担过重，不利于生产的发展；过低的社会保障水平则会损害劳动者的积极性。因此，我国的社会保障（　）

A．要把基本点放在劳动者的生存需要上

B．要坚持权利与义务相统一的原则

C．应坚持兼顾发展生产与保障劳动者基本生活的原则

D．应进一步依靠国家的支持

22．截至2003年12月，我国居民储蓄已突破11万亿元。我国居民储蓄快速增

长的根本原因是 （ ）

A．我国经济的健康发展，居民可支配收入增多

B．人民生活水平的提高

C．我国居民消费观念改变

D．我国实行保护和鼓励个人储蓄的政策

23．2003 年上半年，由于“非典”影响，餐饮业、旅游业等行业萧条，国家决定对这些行业减免部分税收。这表明税收 （ ）

A．是国家实现经济监督的重要手段　B．是国家组织财政收入的基本形式

C．是国家宏观调控的工具　D．是经济发展的重要标志

24．2003 年 11 月 16 日，央视“每周质量报告”栏目对浙江金华部分企业使用敌敌畏浸泡火腿一事进行了曝光。央视曝光后，购买火腿的消费者立即骤减，许多商家对今年的火腿销售前景深表忧虑。这说明 （ ）

A．供求关系影响商品的价格

B．使用价值是商品价值的物质承担者

C．使用价值决定商品的价值

D．企业的信誉和形象是企业经营成败的唯一因素

二、在下列各题的四个选项中，至少有一项是符合题意的。错选、多选，该题不给分；少选且正确的给 1 分。每小题 3 分，共 27 分

25．中央经济工作会议指出，在经济结构调整中，一定要认真解决和切实防止重复建设。这一举措 （ ）

A．是完善我国分配制度的客观要求　B．有利于实现资源优化配置

C．是保证地区平衡发展的客观要求　D．有利于实现经济增长方式的转变

26．整顿和规范市场经济秩序要大力加强法制建设，标本兼治，重在治本。从经济学角度看，这是因为 （ ）

A．健全的法制是维护市场公平竞争的保证

B．法制性是市场经济的一般特征

C．法律是国家调控经济活动的重要手段

D．法制性是现代市场交易活动的基本精神

27．党的十六届三中全会指出，要大力发展国有资本、集体资本和非公有资本等参股的混合所有制经济，实现投资主体多元化，使股份制成为公有制的主要实现形式。这是因为股份制 （ ）

A．有利于实现所有权和经营权的分离

B．有利于扩大公有资产的支配范围

C．有利于使非公有制经济成为社会主义经济的组成部分

D．有利于建立现代企业制度

28．在人类的发明创造活动中，对某一事物的“习惯性”思维往往制约着人们的发明眼界。而对这种”思维定式”的有意识破除，则可能使人们产生出许多新的发明和创造。这就要求我们 （ ）

A．解放思想，破除一切传统观念

B．在思维过程中，要进行合理想象，大胆创新

C．在科学理论指导下，面对实际，敢于提出、解决新问题

D．要敢于打破常规，进行逆向思维

29．右图漫画给我们的哲学启示是 （ ）



A．量变达到一定程度才能引起质变

B．主观能动性的发挥受到客观条件的制约

C．要坚持适度原则

D．事物发展的趋势是曲折的

30．截至 2003 年 10 月末，我国的外汇储备已达 4009 亿美元，比年初增加 1145 亿美元，增长 30%。外汇储备的持续增加意味着 （ ）

A．我国经济实力显著提高　B．保持汇率不变的水平越来越高

C．对外支付能力日益增强　D．抵御风险能力越来越强

31．2003 年 8 月北京市第十一届人大常委会对北京市副市长张茅进行了述职评议。这说明 （ ）

A．人大正确行使自己的行政权

B．北京市政府对市人大负责

C．我国人大监督制度正在逐步完善

D．人大常委会拥有立法权

32．议会制共和制与议会制君主立宪制都是当代国家政体的类型，二者的共同点是 （ ）

A．议会拥有立法权和行政监督权

B．国家元首由选举产生并有一定的任期

C．政府由议会产生并对议会负责

D．国家元首是国家实际上的对内对外最高代表

33．胡锦涛总书记指出：党的宣传工作要坚持以科学的理论武装人、以正确的舆论引导人、以高尚的精神塑造人、以优秀的作品鼓舞人，坚持贴近实际、贴近生活、贴近群众，努力形成能体现“三个代表”要求的理论指导、舆论力量、精神支柱和文化条件，引导和激励全党、全国人民为实现全面建设小康社会的宏伟目标而团结奋斗。这是 （ ）

A．党的政治领导的表现

B．党的思想领导的表现

C．政府行使组织和领导社会主义精神文明建设的职能

D．加强党对精神文明建设的领导

第Ⅱ卷（非选择题，共 75 分）

三、简答题（本大题共 2 小题，每小题 9 分，共 18 分）

34．中国共产党第十六届中央委员会第三次全体会议审议通过了《中共中央关于修改宪法部分内容的建议》，并决定提交第十届全国人民代表大会常务委员会审议。

中国共产党审议通过《建议》，并决定提交第十届全国人大常委会审议的主要依据和意义是什么？

35．20 世纪 80 年代，鲁酒异军突起，市场占有率在 70%以上。面对这种大好形势，山东各地在短短几年内新上了 700 多家酒厂。其中低档白酒占总产量的 80%，不符合市场需求，不少酒厂产品严重积压。政府强令效益好的白酒企业收购、兼并一些困难企业，致使这些企业经营困难，效益下降。如今，偌大的市场上，鲁酒日渐衰退。

结合上述材料和所学的经济学知识，简要分析鲁酒衰退的原因。

四、辨析题（本大题共 2 小题，每小题 11 分，共 22 分。仅作判断不说明理由者不得分）

36．全面建设小康社会要“坚持以人为本，树立全面、协调、可持续的发展观，促进经济、社会和人的全面发展。”

辨题：坚持以人为本就是要不断增加人民群众的收入。

37．推进城镇化是繁荣农村经济的唯一出路，这有利于统筹城乡协调发展。

五、论述题（本大题共 2 小题，第 38 题 17 分，第 39 题 18 分，共 35 分）

38．几个同学观察蚂蚁时发现，蚂蚁在墙壁上爬行，爬到一大半时跌落下来。然后它又开始往上爬，反复数次，仍坚持不懈。甲感叹地说：“可敬的小蚂蚁，这样地执着，百折不回。我们遭遇到一点挫折，就能气馁、退缩吗？”乙却说：“可悲的蚂蚁，只要稍稍改变一下方位，就能很容易地爬上去，我们该学得聪明一点，不能像蚂蚁那样蛮干一气。”有同学问老师：“两个人的见解迥异，他们哪一个对呢？”老师说：“两个人都对。”

阅读上述材料，运用所学哲学知识回答：

（1）甲、乙两人见解迥异，为什么老师认为两人的观点都对？

（2）甲、乙和老师的观点分别体现了什么哲学道理？

39．

表 1：我国劳动力资源状况　单位：（万人）

项目	15～64 岁人口	每年新增劳动力	城镇下岗职工和失业人员	农村剩余劳动力
人数	85000	800	1400	15000

表 2：我国就业结构与发达国家的比较　单位：（%）

	在三大产业中的比重			在中小企业中的比重
	第一产业	第二产业	第三产业	
中国	50.8	20.5	28.7	40 左右
发达国家	10 以下	30 左右	60 以上	65～80

注：中小企业多数是民营企业。

表 3：我国与发达国家技术工级别比例　单位：（%）

	高级技工	中级技工	初级技工
中国	5	35	60
发达国家	35	50	15

注：目前我国不少企业不惜用高薪聘请高级技术工人。

（1）表 1、表 2、表 3 分别反映了什么经济现象？

（2）结合表 1、表 2 和表 3，运用所学经济学有关知识，谈谈你对解决就业问题的建议。

需要全本请访问 www.ertongbook.com