高考能力创新设计

2005全国名校联考

天利38套经济版

文科综合

全国高考命题研究组
北京天利考试信息网 编

西藏人民出版社

需要全本请访问 www.ertongbook.com

欢迎加入“天利考试信息网”

北京天利考试信息网向广大考生提供最新考试信息、高考动态、最新试题、高校介绍、志愿填报技巧等各类信息和服务，是考生的良师益友。

加入办法：

1.累计购买正版西藏人民出版社“天利”图书10本以上（剪下图书所附回执表寄回信息网）；

2.汇寄30元入网费（教师可免费申请），网员享受以下权利：

①获得网号、密码或网卡，网上或网下获得最新考试信息；

②获赠新书或效率手册或最新试题；

③获得天利高考动态杂志和其他信息资料；

④网上订书可获优惠。

北京天利考试信息网：www.TL100.com E-mail：info@TL100.com

通讯地址：100027 北京4717信箱天利考试信息网

电 话：010-64635854，64656531，84480193

“天利38套经济版”回执

姓 名		性 别		职 业	学生/教师	年级科目	
联系地址、邮编及电话							
说 明							

高考能力创新设计
——天利38套经济版
北京天利考试信息网 编
*
西藏人民出版社出版
责任编辑：李海平 封面设计：谭仲秋
社址：850000 拉萨市林廓北路20号
北京发行部：100027 北京4717信箱
电话：010-64680026 64651171
北京市金顺印刷厂印刷
全国新华书店经销
开本：787×1092毫米 1/16 印张：61.5 字数：1500千
2004年6月第4版第1次印刷
ISBN 7-223-01347-8/G·566
总定价（全12册）：72.00元

目 录

1.北京市海淀区2004年高三第二学期期中练习
2.四川省2004年高考适应性考试
3.湖北省黄冈中学等八校2004年高三第二次联考
4.湖北省八市2004年高三年级3月调考
5.天津市南开区2004年高中质量调查
6.杭州市2004年第二次高考科目教学质量检测
7.福建省达标中学2004年高中毕业班质量检查
8.石家庄市2004年高中毕业班第一次模拟考试
9.山西省首批重点中学2004年四校高三联考
10.浙江省宁波市2004年十校联考
11.合肥市2004年高三第一次教学质量检测
12.长春市2004年高中毕业班第二次调研测试
13.云南省2004年高三第二次教学质量检测
14.河南省新乡市2004年高三第三次调研考试
15.山东省潍坊市2004年高三统一考试
16.贵阳市2004年高三诊断性检测
文科综合参考答案及解题提示

北京市海淀区 2004 年高三第二学期期中练习

1 A

文 科 综 合

本试卷分第Ⅰ卷（选择题）和第Ⅱ卷（非选择题）两部分。满分 300 分。考试时间 150 分钟。

第Ⅰ卷（选择题，共 140 分）

一、选择题：本大题共 35 小题，每小题 4 分，共计 140 分。在每小题所列出的四个选项中，只有一项是最符合题目要求的

图 1 为“中国部分灾害分布图”，读图 1 回答 1、2 题。

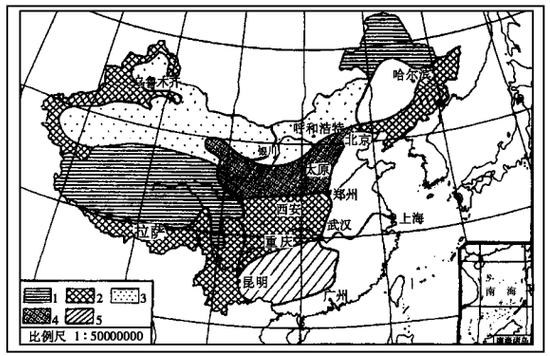

注：图例中数字所代表的灾害类型
1—冻融、冰川为主　2—崩塌、滑坡、泥石流为主　3—沙漠化为主
4—黄土湿陷、水土流失为主　5—岩溶、塌陷为主

图 1

1．关于图中灾害类型分布的叙述，正确的是　（　）
A．灾害 1 主要分布在青藏高原和东北北部地区
B．灾害 2 分布在青藏高原东部和北部边缘地区
C．灾害 3 分布在内蒙古高原和黄土高原
D．灾害 4 分布在黄土高原和华北平原

2．关于图中灾害成因的叙述，不正确的是　（　）
A．自然因素是形成灾害 1 的主要原因
B．气候因素是形成灾害 3 的主要自然因素
C．地形崎岖是形成灾害 5 的主要原因
D．人类对植被的破坏是灾害 4 加剧的主要原因

下表为我国位于同一地形区上甲、乙两地的相关资料。读资料分析回答 3、4 题。

	纬度、经度	海拔（米）	1 月平均气温（℃）	7 月平均气温（℃）	年降水量（mm）	夏半年（5 月～10 月）雨日占全年雨日的%	冬半年（11 月～4 月）雨日占全年雨日的%	年日照时数
甲	25°35′N，103°E	1898	7.1	20.0	1005.0	72	28	2110.2
乙	26°35′N，104°E	1811	2.9	19.8	1250.6	56	44	1548.6

3．两地所在的地形区是　（　）
A．黄土高原　　B．四川盆地　　C．云贵高原　　D．江南丘陵

4．两地冬季气温和雨日存在明显差异的原因是　（　）
A．两地受暖锋影响的时间长短不同
B．甲地受暖锋控制，乙地受冷锋控制
C．甲地受暖气团控制，乙地受锋面和冷气团控制
D．两地分别受来自不同纬度的海洋气团控制

近年来，北京在一些人行道改造工程中，采用了质量很好的透水砖，这给城市带来了诸多方面的环境效益。据此回答 5、6 题。

5．城市中以往多采用釉面砖、水泥等不透水的材质铺设地面，这对城市生态环境的主要危害有
①阻断了大气降水直接补充地下水的途径　②冬季雨雪天气极易使地面结冰，引起交通和出行困难　③影响了城市植被的生长　④降低了城市地面和空气的干燥程度　（　）
A．①②　　B．②④　　C．②③　　D．①③

6．除了铺设透水砖以外，下列哪些做法对改善北京城市生态环境有直接影响　（　）
A．提高水的重复利用率
B．推广使用清洁能源
C．扩大郊区发展花卉、蔬菜的生产规模
D．在城近郊区大力发展旅游业

图 2 为某群岛示意图，此季节该群岛北侧附近的洋流流向是自西向东，M 线为晨昏线，此时北京为某月 10 日，读图回答 7～9 题。

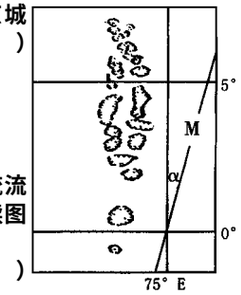

图 2

7．此时格林尼治的地方时为　（　）
A．9 日 23 时　　B．10 日 1 时
C．9 日 13 时　　D．10 日 13 时

8．当图中 α 夹角为 20°时，下列叙述正确的是　（　）
A．南极圈上出现极夜现象　　B．此时北京的正午太阳高度是 30°06′
C．北半球各地昼长正逐渐加大　　D．该地区正午时物体的影子朝南

9．危及到该群岛国家经济发展和生存的主要环境问题是　（　）
A．地震　　B．全球性气候变暖
C．泥石流、滑坡　　D．海洋环境污染

读图 3，回答 10、11 题。

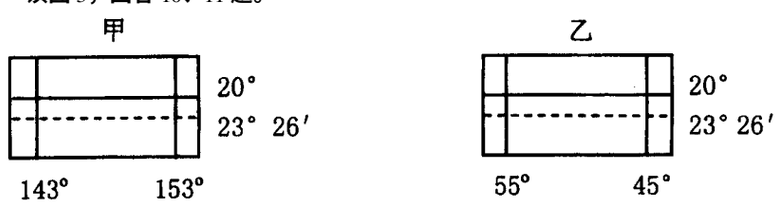

图 3

10．甲乙两区域所在国自然地理特征相似的是
①都是所在大洲面积最大、人口最多的国家　②都位于板块内部，地壳较稳定　③都有大面积的沙漠分布　④首都都是单一政治职能的城市　⑤人口都集中分布在沿海　⑥都有丰富的铁矿资源　（　）
A．①④　　B．②⑥　　C．③⑤　　D．③⑥

11．当北京为一年中雨量最多的季节时，下列叙述正确的是　（　）
A．甲区域所在国的西南沿海也正处在雨季
B．乙区域所在国东部地区盛行东北季风
C．甲区域所在国正值小麦播种季节
D．乙区域所在国的最大河流正值枯水期

环境与可持续发展是现代经济发展战略所关注的一个重要问题。历史上的经验教训也很值得借鉴。回答 12～15 题。

12．关中地区曾是我国古代政治和经济中心区域。后来，由于资源的枯竭和环境恶化而丧失其重要地位，中国的统治中心迁离此区域是在　（　）
A．汉末三国的战乱时期　　B．唐朝前期盛世局面结束时
C．唐朝灭亡后的战乱时期　　D．朱元璋在长江流域建都时

13．江南开发是我国古代经济的一个重要增长点。下列各项与江南地区持续开发不相关的是　（　）
A．西汉时期西域作物的引进　　B．隋朝开凿大运河
C．宋朝时北方作物向南方传播　　D．靖康之变宋室南迁

14．清朝康乾盛世，对于山区、海滩、北方边疆地区土地进一步开垦，使当时全国耕地数额超过此前任何一个时期。以下对这种现象的认识，正确的是　（　）
A．为商品经济的发展提供了广阔市场和原料
B．是我国农耕经济不断发展进步的主要体现
C．加速了自然环境的破坏和资源枯竭的过程
D．是我国封建经济逐渐走向衰落的重要原因

15．西方国家的长期殖民统治不利于广大亚非拉国家近代经济的全面发展，造成穷困和落后，主要的相关因素有
①经济结构的单一化　②劳动力的大量流失　③阻碍了近代生产方式的传播　④自然资源被掠夺　（　）
A．①②③　　B．②③④　　C．①③④　　D．①②④

客观评价历史人物的功过，是历史科学的一项重要任务。回答 16～19 题。

16．秦始皇对于中国古代的政治、经济和文化有极其重大的影响，以下对于秦始皇的评价，不正确的是　（　）
A．完成了统一，使人民生活安定，经济发展繁荣
B．建立了中央集权的国家制度，对中国封建社会的政治制度产生了重大影响
C．统一了度量衡、货币、文字，有利于全国经济、文化的交流
D．结束了长期诸侯割据称雄的局面

17．以下对于康熙皇帝历史功过的认识，正确的是
①捍卫了国家主权和领土完整　②打击分裂割据势力维护统一　③赋税和土地政策有利于经济发展　④实行文化专制政策　（　）
A．①②③　　B．①②④　　C．①③④　　D．①②③④

18．拿破仑在近代欧洲历史上具有极大的影响，以下对拿破仑的评价正确的是　（　）
A．重建君主制度导致大革命成果付之东流
B．对于近代法律制度的建设做出重大贡献
C．发动侵略战争阻碍各国人民反封建斗争
D．宣扬“民族主义”造成欧洲国家的分裂

19．康有为对中国近代社会政治变革产生的影响是　（　）
A．率先提出实行君主立宪制的政治主张
B．批判封建统治者恪守祖训的腐朽思想
C．提倡西学，全盘否定传统儒家思想道德
D．反对共和革命，维护清朝封建专制统治

全球化是当今世界发展的一个重要趋势。有的学者认为：“从 1492 年哥伦布远航美洲使东西两半球会合之日起，全球化过程已经开始了”。回答 20～23 题。

20．新航路开辟时，正值中国明朝时期。新航路的开辟对当时中国的影响是　（　）
A．加强了中国与世界各地的贸易联系
B．西方国家开始从中国大量掠夺白银
C．西方殖民者开始骚扰东南沿海地区
D．中国闭关锁国的状态遭受严重冲击

21．资本主义世界体系初步形成的重要推动力是　（　）
A．地理大发现　　B．工业革命
C．垄断组织的形成　　D．跨国公司的出现

22．韩国和新加坡是第二次世界大战后迅速实现现代化的工业国家，其共同原因是
①发展外向型经济，参与国际竞争　②实现国民经济非军事化节省开支　③建立平等互利的国际经济新秩序　④根据国际经济形势调整发展战略　（　）
A．①④　　B．①③④　　C．①③　　D．②③④

23．联合国开发计划署 1999 年度《人类发展报告》指出：“迄今为止的全球化是不平衡的，它加深了穷国和富国、穷人和富人的鸿沟。”我国学者认为：“西方是经济全球化最大的赢家，第三世界却可悲地扮演着输家的角色。”发展中国家在参与经济全球化的过程中受到主要按西方国家意志制定的国际规则和国际惯例的影响和制约。但是，发展中国家无法选择逃避，毕竟全球化能够提供发展的机遇。以下各项，对于上述材料认识正确的是
①经济全球化过程加剧了社会的贫富分化　②经济区域集团化阻碍了全球化的实现　③经济全球化加强了西方国家的经济优势　④发展中国家必须全面实现西方化　（　）
A．①②③　　B．②③④　　C．②④　　D．①③

近期出台的《中国共产党党内监督条例》，是我党成立 83 年来的第一部自我监督条例。据此回答 24、25 题。

24.《条例》的出台
①是贯彻党要管党，从严治党方针的体现　②表明党内民主建设不断完善　③表明党对国家的政治领导　④是党维护政治统治和政治稳定职能的体现　（　）
A．①　B．①②　C．①②③　D．①②③④

25.《条例》的出台，标志着我党反腐工作已由被动防御转向主动预防，由权力反腐为主转向制度反腐为主，由事后处理转向事前制约，这一变化说明了　（　）
A．感性认识要上升到理性认识　B．正确认识对实践有指导作用
C．科学理论在实践中不断完善　D．认识是实践发展的根本动力

安徽省原副省长王怀忠因腐败在被依法执行死刑前，谈到他的三点感触：一是中国共产党确实是真反腐败；二是要想人不知，除非己莫为；三是职位再高，只要犯了罪都要被依法严惩。据此回答 26～28 题。

26．王怀忠等腐败分子被严惩，表明我党加强党风廉政建设和反腐败的决心和信心。推进党的作风建设的根本目标是　（　）
A．保持党同人民群众的血肉联系　B．从源头上预防腐败问题
C．立党为公、执政为民　D．保持党的先进性

27．“要想人不知，除非己莫为”体现了　（　）
A．内因是事物变化发展的动力　B．外因是事物变化发展的必要条件
C．物质决定意识，意识是物质的反映　D．要透过现象看本质

28．“职位再高，只要犯了罪都要被依法严惩”这说明　（　）
A．对犯罪分子要加大处罚力度
B．公民在法律面前一律平等
C．司法机关要严格立法、公正司法
D．依法治国是党领导人民治理国家的基本方略

2003 年～2004 年岁农年初的两个月来，根据国务院的部署，各有关方面迅速行动，积极采取措施清理拖欠建设工程款和农民工工资。截至目前，2003 年发生的欠款已兑付 89%。然而，不签定劳动合同、虚假劳动合同、无效劳动合同等，也使一部分农民工利益受损，给清理工作带来很大困难。据此回答 29、30 题。

29．拖欠行为
①扰乱了市场经济秩序　②侵害劳动者取得劳动报酬的权利　③违背了诚实信用原则　④侵害劳动者平等就业的权利　（　）
A．①　B．①②　C．①②③　D．①②③④

30．订立劳动合同最基本、最重要的原则是　（　）
A．平等自愿　B．不得违反法律、行政法规规定
C．协商一致　D．等价交换

31．目前，火星上有水已成定论。但受条件的限制，对于“水在火星表面为什么消失了，又跑到哪里去了？”等问题还无结论。正如恩格斯所言：“我们只能在我们时代的条件下进行认识，而且这些条件达到什么程度，我们便认识到什么程度。”这说明　（　）
A．客观条件会妨碍人的主观能动性的发挥
B．认识客观事物必须充分发挥主观能动性
C．人类的认识是有限的
D．人的认识能力受客观条件的制约

32．下列成语、俗语与有关哲理对应恰当的是
①满招损，谦受益——矛盾双方在一定条件下相互转化　②路遥知马力，日久见人心——实践决定认识　③仁者见仁，智者见智——意识对物质有反作用　④不积跬步，无以致千里——量变与质变的辩证关系　（　）
A．①②③　B．①②④　C．②③④　D．①③④

“有信路路畅通，无信步步难行”。《中国社会信用体系建设发展纲要》日前已报送国务院，我国将用五年时间建成覆盖全国的社会信用体系。据此回答 33、34 题。

33．这表明我国政府_____的职能。　（　）
A．参与经济活动　B．维护国家安全
C．协调各方利益　D．实施市场监管、社会管理

34．“有信路路畅通，无信步步难行”是因为　（　）
A．诚信属于社会意识，是对社会存在的反映
B．意识对事物的发展具有反作用
C．事物是对立统一的
D．诚信是市场经济的一般特征

35．中国海关提供的最新统计数字显示，2003 年中美双边贸易额首次突破千亿，达到 1263 亿美元。其中，中国从美国进口额约 338.6 亿美元，出口额约 924.7 亿美元。这表明 2003 年中国对美国的贸易情况为_____，发展中美贸易_____。　（　）
A．顺差　可以实现资源的优化配置
B．逆差　可以促进我国企业提高劳动生产率
C．顺差　表明两国的国家利益是一致的
D．逆差　有利于我国引进先进的科学技术

第Ⅱ卷（非选择题，共 160 分）

二、非选择题。本大题共 5 小题，共 160 分

36．读图 4“我国某地区年降水量分布图”，回答下列问题。（共 31 分）

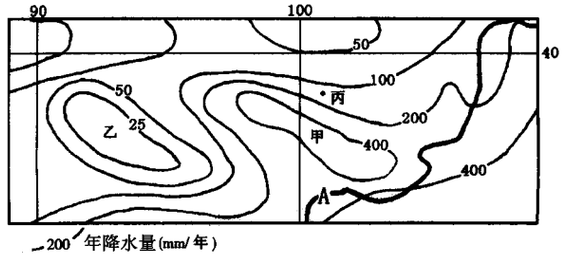

图 4

（1）图中等降水量线数值递变的趋势，可以反映出我国年降水量具有_____的分布规律。甲地的年降水量____（大于或小于）400mm，请解释其原因。（10 分）

（2）关于图中河流在 A 段水文特征的叙述，正确的是____（选择填空）。（4 分）
①泥沙含量大　②水流湍急　③有结冰期　④有凌汛现象　⑤水位季节变化小
A．①③　B．②④　C．②③　D．④⑤

（3）乙地的地形区名称是_____，请说出判断理由（根据图中信息回答）。（9 分）

（4）丙地区充分利用资源优势发展葡萄种植业，使之成为了我国最佳的优质酿酒葡萄生态产区之一。请对丙地区发展葡萄生产的优势自然条件进行评价。（8 分）

37．美国学者托马斯·K·麦格劳在《现代资本主义：三次工业革命中的成功者》一书中写道：“直到大约 17 世纪，经济发展的停滞不前似乎是自然而然的”；“工业革命的来临和现代资本主义的产生结束了经济长期停滞的局面”。工业革命促进了资本主义经济突飞猛进的发展，也对传统中国的生存与发展提出了严峻的挑战。（共 33 分）

结合所学知识，回答以下问题。

（1）在 18～19 世纪英国工业革命期间，中国社会经济状况如何？这次工业革命给中国带来什么影响？（12 分）

（2）从 19 世纪后期到 20 世纪初，发生了第二次工业革命。在此期间，中国工业的发展状况如何？中国是否把握住了这次工业革命的机遇？分析其原因。（8 分）

（3）20 世纪的中期和后期，进行了第三次工业革命。概述新中国工业在应对挑战和把握机遇方面的成就与失误。（13 分）

38．阅读材料回答：（共 26 分）

材料一：去年，粮食主产区安徽某地作为粮改“直补”的首批试点，把过去投入到流通环节的补贴直接发放到粮农手中，变“暗补”为“直补”。一方面，保护种粮农民的利益，调动了农民积极性，多种粮，种好粮；另一方面，促进粮食流通体制的改革。“直补”试行以来，农民反映“收入增了，市场活了，心气顺了。”

材料二：随着北京二、三产业的快速发展和城市规模急速扩张，占用农业用地成为必然趋势。如何确保“农民失地不失业”就成为北京解决三农问题的新课题。丰台区某村结合本村实际，在政府有关部门的积极协调下，与北京市巴士公司合作，把七、八条公交线路直接引进村，使该地成为丰台区的一个交通枢纽，不仅解决了村民的就业问题，而且盘活了地区经济。该村的农民人均收入提高了六百多元，也大大提高了该地区的城镇化水平。

材料三：党中央、国务院 2004 年一号文件把农村经济工作的基本目标确定为促进农民增收，体现了党和政府在解决三农问题上的科学发展观。

（1）材料一、二分别说明了什么？（4 分）
（2）运用哲学常识分析说明材料一、二是如何解决农民增收问题的？（12 分）
（3）结合政治常识，谈谈党和政府为什么高度重视农民增收问题？（4 分）
（4）科学发展观的基本内涵是什么，材料中如何体现了科学的发展观？（6 分）

39．石油是对现代社会和经济影响至关重大的重要能源，现代国际关系的一些重大事件就是围绕着石油问题产生的，石油资源也在很大程度上关系着国家的安全。（共 32 分）

回答下列问题。

（1）结合相关历史知识回答，石油作为一种重要的能源其地位是何时确立的，为什么？（4 分）

（2）说明图 5 中所示区域内石油最主要的分布地区及其在世界上的地位。（5 分）

（3）简述石油形成的一般地质年代和地质分布规律。（4 分）

（4）西方国家力图控制第三世界国家的石油资源。依据第二次世界大战后的史实，说明产油国是如何与西方国家进行斗争的？影响如何？（6 分）

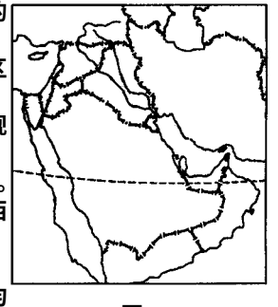

图 5

据统计，我国石油、天然气等重要矿产资源的人均储量分别只占世界人均水平的 8.3%、4.1%，去年我国消耗的原油约 34%依靠进口；同时，GDP 每新增一元钱所消耗的资源是日本的 13 倍；此外，我国资源循环利用率也远低于发达国家，例如水资源循环利用率比发达国家低 50%以上。

（5）上述材料反映了什么问题？联系哲学常识谈谈应如何解决？（13 分）

40．长江中下游地区自然条件优越，自然资源丰富，经济发达，其经济在全国具有举足轻重的地位。（共 38 分）

回答下列问题。

（1）长江中下游地区自古以来就是我国商品经济发达地区。概括明朝时期这一地区工商业城市的三种主要类型，并各举出一个城市为例。（9 分）

（2）读图 6“长江中下游地区城市分布图”，据图分析该地区工业城市分布的突出特点，列举出图中长江沿岸的主要钢铁工业中心。（4 分）

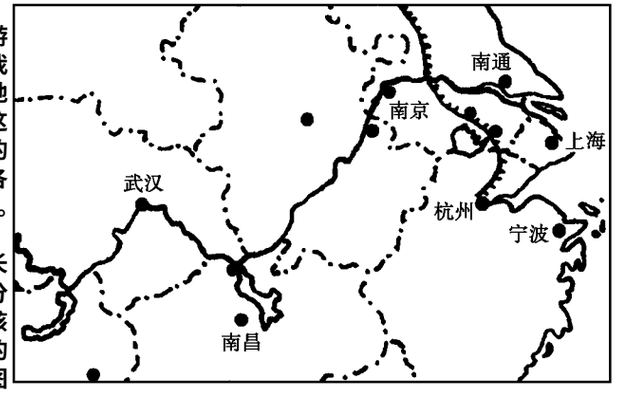

图 6

（3）长江三角洲工业生产居全国重要地位。从地理学科角度分析该地区工业发展的区位优势以及工业发展的主要制约性因素。（12 分）

（4）阅读以下材料：

非典灾难给我国不少地区企业的发展带来巨大冲击，但长江三角洲地区很多企业却能从容应对。例如，某企业从生产机器故障诊断仪，迅速变为生产快速测温计；某企业着重抓好职工和干部的培训，以人才激励机制、立信机制、危机管理机制应对瞬息万变的市场；某企业面对萎缩的国内市场，积极开拓国外市场，接下大量出口订单，营销模式也从行销、坐销变为网络营销，尝到了网络经济的甜头。

①结合经济常识有关知识，谈谈长江三角洲地区企业成功的经验有哪些？（10 分）
②如何应对近年来时有发生的重大突发公共安全事件，请你为政府出谋划策。（3 分）

四川省 2004 年高考适应性考试

2 A

文 科 综 合

本试卷分为第Ⅰ卷（选择题）和第Ⅱ卷（非选择题）两部分。满分 300 分。考试时间 150 分钟。

第Ⅰ卷（选择题，共 140 分）

一、选择题　本大题共 35 小题，每小题 4 分，共计 140 分。在每小题列出的四个选项中，只有一项是符合题目要求的

阅读下列材料，回答 1、2 题：

第二次世界大战结束后，印度和巴基斯坦两个国家的分治，形成了亚洲人口最大的一次国际迁移；取得独立的非洲国家，原来的殖民者遣返人口回国。

1．上述材料反映的是影响人口迁移的（　）

A．自然环境因素　　B．社会经济因素

C．政治因素　　D．科学技术因素

2．下列叙述的地理事实中，有与材料涉及国家相符的是（　）

A．80 年代末形成的世界政治经济力量中心之一

B．成功实现载人航天

C．农业商品率高，机械化水平高

D．人口再生产类型为“现代型”

下面是四个地方昼夜长短示意图，据此回答 3、4 题：

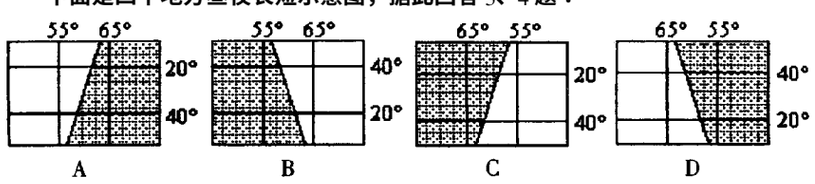

3．一架飞机经过晨昏线时，当地时间正好是 2 月 9 日 5 时。那么在图示的 4 个地区中，它最有可能飞越的是（　）

A．A 图　　B．B 图　　C．C 图　　D．D 图

4．若飞机到达我国上海时，北京时间是 2 月 10 日 13 时，那么飞机从所经过的晨昏线开始，到达上海的途中飞行时间是（　）

A．20 小时　　B．12 小时　　C．13 小时　　D．23 小时

甲图为某国轮廓图，读下图回答 5、6 题：

5．当甲图中 A 旗杆正午的影子如乙图所示时，甲图中①、②、③、④地的旗杆无影子的是（　）

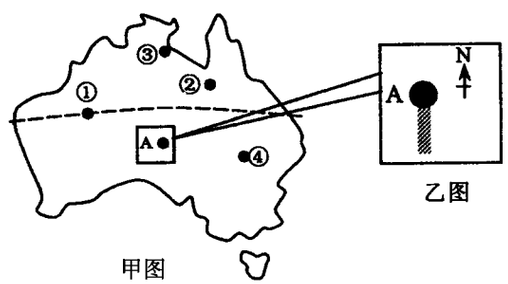

A．①　　B．②　　C．③　　D．④

6．若此时，A 旗杆的影子处于一年中最长，那么（　）

A．纽约曙光初现　　B．亚平宁半岛上和风细雨

C．圣地亚哥天气干热　　D．孟买正受到西南气流的洗礼

下图所示为世界四条著名大河，读图回答 7～9 题：



7．上述河流的河口地区，进入新一天的时间顺序，由早到晚，正确的是（　）

A．①②④③　　B．②①③④　　C．④③②①　　D．③①②④

8．上述河流流域内，有世界著名棉花产地的是（　）

A．②④　　B．①③　　C．②③　　D．①④

9．下面关于四条河流的正确叙述是（　）

A．①、③河流三角洲地区，夏季降水较多的是①河流

B．①、④河流注入海洋的海水盐度较高的是④河流

C．②、③河流流经地区，平均海拔较高的是②河流

D．③、④河流流域内，森林覆盖率较高的是③河流

下图为某地等高线图，据图回答 10、11 题：

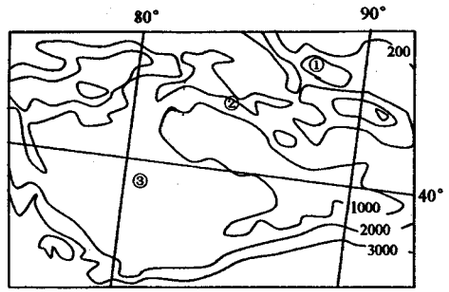

10．关于图中①、②、③地区的正确叙述是（　）

A．①、②、③地区将依次见到沙漠、森林、草原

B．当地球公转速度为一年中最慢时，②地区的牧民把牛羊赶往森林带以上的山地放牧

C．自流井是③地区的特色景观

D．长绒棉是①地区广泛种植的著名经济作物

11．图中所示的盆地地区，人口密度小的主要原因是（　）

A．地形崎岖，交通不便　　B．地势高，气候严寒

C．资源贫乏，人口承载量小　　D．深居内陆，气候干旱

专制主义中央集权制是我国封建社会政治制度的基本特征，历朝统治者采取多种措施，巩固中央集权。据此回答 12～14 题：

12．西汉为巩固专制主义中央集权，强化对地方官吏的监察，实行了（　）

A．察举制　　B．刺史制度　　C．编户制度　　D．厂卫制度

13．明朝与隋唐在科举制上的最大不同之处是（　）

A．考试目的　　B．考试作用　　C．考试内容　　D．考试管理

14．与清朝大规模推行“改土归流”的结果不相符合的是（　）

A．加强了中央政府对西藏地区的统治

B．改变了当时落后闭塞和割据纷争

C．促进了各民族间的经济文化交流

D．有利于巩固统一的多民族国家

中国的现代化进程体现了曲折发展的特征。近代中国仁人志士为找到救国救民的道路，进行了不懈地探索。据此回答 15～19 题。

15．对太平天国《天朝田亩制度》和《资政新篇》的评价，正确的是（　）

A．两者都是太平天国的革命纲领

B．两者都反映了农民阶级的愿望和要求

C．两者都具有空想性和落后性

D．两者关于社会经济的主张是相互矛盾的

16．康有为、梁启超领导的维新变法运动的实质是（　）

A．资产阶级与封建势力的斗争　　B．光绪帝和西太后的斗争

C．维新派与顽固派的斗争　　D．立宪派与革命派的斗争

17．中共“二大”第一次提出反帝反封建民主革命纲领的依据是（　）

A．第一次工运高潮失败的教训　　B．中国当时的社会政治状况

C．建立革命统一战线的需要　　D．中共最高革命纲领

18．新三民主义中的民族主义主要新在（　）

A．反对满洲贵族　B．提倡民族平等　C．反对帝国主义　D．主张节制资本

19．中国共产党在过渡时期对民族资本主义进行改造所采取的重要措施是（　）

A．合理调整工商业　　B．统一全国财政经济

C．实行赎买政策　　D．进行民主改革

20．十一届三中全会以后，我国经济体制改革的根本目的是（　）

A．坚持和完善社会主义制度　　B．消除计划经济体制的严重弊端

C．进一步解放并发展社会生产力　　D．建立社会主义市场经济体制

21．19 世纪上半期，英国加强了海外贸易和殖民扩张，当时从英国本土到印度的最近航线是（　）

A．大西洋→太平洋→印度洋　　B．大西洋→好望角→印度洋

C．大西洋→地中海→红海→印度洋　　D．大西洋→北冰洋→太平洋→印度洋

22．第二次世界大战对世界政治领域产生的最重要影响是（　）

A．形成了以美苏冷战为特征的两极格局

B．促进了殖民体系的崩溃和第三世界的崛起

C．国家垄断资本主义在西方各国空前发展

D．联合国在国际事务中发挥越来越大的作用

23．第二次世界大战后英国追随美国采取的外交行动有（　）

①参加“联合国军”进攻朝鲜北部　②参加北大西洋公约组织　③发动第二次中东战争　④参加伊拉克战争

A．①②③④　　B．①③④　　C．①②④　　D．②③④

农业、农村和农民问题是关系经济社会发展全局的重大问题。回答 24～27 题。

24．2003 年 10 月以来，我国粮价全面上扬，是近六年来的第一次。粮价上涨直接反映了（　）

A．人民币贬值，出现新一轮的通货膨胀　B．我国农村三大产业结构不合理

C．粮食供求关系发生变化　　D．粮食主产区的农民收入过低

25．2003 年上半年以来，我国粮、油、肉、蛋价格全面上涨，而这条“生物链”的源头在于粮食。这说明（　）

A．一切事物都处在相互影响、相互制约的联系之中

B．事物的联系必然引起事物的发展

C．事物的质变就是发展

D．规律的存在是不以人的意志为转移的

26．2003 年 10 月 21 日国务院常务会议指出，实行最严格的耕地保护制度，切实加强对土地开发利用的管理。绝不允许乱占滥用耕地，对违反规定的要严肃处理。这是因为

①耕地问题关系到农业的基础地位能否巩固　②耕地是农民进行农业生产的基本要素，保护耕地就是保护农民的利益　③保护耕地有利于土地资源的合理配置　④保护耕地要停止退耕还林还草，扩大耕地面积（　）

A．①②③　　B．①②④　　C．②③④　　D．①②③④

27．农民增收困难是当前我国农业和农村发展中突出的问题，必须切实把增加农民收入作为农业和农村工作的中心任务，采取有效措施促进农民收入较快增长。为此，必须

①大力推进农业和农村经济结构战略性调整　②积极引导农村富余劳动力外出务工就业　③加大政府对农业和农村的投入力度　④深化农村改革（　）

A．①②③　　B．①②④　　C．①③④　　D．①②③④

过去的 2003 年，人们感受至深的是：“立党为公、执政为民”、“权为民所用，情为民所系，利为民所谋”、“群众利益无小事”等执政理念始终贯穿于新一届中

央领导集体的言行中，深深地体现在党中央、国务院推出的一系列重大举措里。回答 28、29 题。

28．在抗击“非典”中，我们新一代党中央集体庄重宣示：“时刻把人民健康和生命安全放在第一位”。这样做最根本的原因是（　　）

A．中国共产党是社会主义事业的领导核心
B．中国共产党代表最广大人民的根本利益
C．政府必须坚持对人民负责的原则
D．我们党的优良传统是密切联系人民群众

29．党和政府关心提高居民整体收入水平和增加农民收入，关注就业和再就业，采取措施解决拖欠民工工资的问题……从哲学角度看，这样做的原因是（　　）

A．人民群众是实践的主体，是历史的创造者
B．人民群众的实践是认识世界和改造世界的惟一途径
C．人民群众是指对社会发展起推动作用的劳动人民
D．只要坚持党的群众路线，就能制定正确的路线、方针和政策

《开罗宣言》和《波茨坦公告》都确认台湾是中国的领土。中国政府将以最大的诚意、尽最大的努力，用和平方式实现国家的最终统一。回答 30、31 题。

30．下列对国际法的认识，正确的是（　　）

A．国际法具有国际性，是各个国家的最高法律
B．国际法是各国在交往中，调整国家之间关系的有约束力的原则、规则和制度
C．国际法是所有主权国家共同制定的有约束力的国际交往准则
D．国际法是处理国家内部问题的法律

31．陈水扁之流绞尽脑汁地否定《开罗宣言》和《波茨坦公告》，其目的在于（　　）

A．否认国际法的法律效力　　B．分裂中国、策划台湾独立
C．篡改历史事实　　D．否认联合国的宗旨和原则

中共中央、国务院于 2003 年 12 月 19 日至 20 日在北京召开全国人才工作会议。中共中央总书记、国家主席胡锦涛在会上发表重要讲话指出，人才问题是关系党和国家事业发展的关键问题。回答 32、33 题。

32．党和国家之所以高度重视人才问题，从根本上说，这是（　　）

A．和平与发展这一当代世界主题的客观要求
B．世界各国之间综合国力竞争的要求
C．培养未来的党和国家领导人的客观要求
D．国际形势发展总趋势的内在要求

33．人才工作的重点是培养人的学习能力、实践能力，着力提高人的创新能力。这种人才必须是

①敢于坚持解放思想和实事求是相统一的人才　②敢于面对不断变化的客观实际，提出新问题，解决新问题的人才　③敢于冲破习惯势力和主观偏见束缚的人才　④支持、促进新事物成长，具有创新精神的人才（　　）

A．①②③　　B．①③④　　C．②③④　　D．①②③④

2003 年 9 月 29 日，日本东京地方法院对“二战”期间日军遗弃在中国大陆的化学武器造成中国人伤害事件进行判决。这是日本法院首次判决日本政府对“二战”遗弃化学武器造成伤害负赔偿责任。回答 34、35 题。

34．日本法院判决：日本政府对 13 名提出控诉的中国受害者及遗属应付给共约 1.9 亿日元的赔偿。这些用于赔偿的日元执行了货币的（　　）

A．价值尺度、流通手段、储藏手段、支付手段和世界货币五种职能
B．价值尺度职能
C．支付手段职能
D．流通手段职能

35．在“二战”遗弃化学武器伤人索赔的众多案件中，日本政府多次无视事实，拒绝赔偿，而中国受害者一再起诉。从哲学上看，根本原因是双方的（　　）

A．立场不同　　B．知识构成不同　C．思想观念不同　D．思维方式不同

第Ⅱ卷（非选择题，共 160 分）

二、非选择题　本大题共 6 个小题，共 160 分

36．右面是印度洋（局部）洋流示意图，读图回答下列问题。（19 分）

（1）当今天的范围正好占全球的四分之三，昨天的范围是四分之一时，图中①地的区时为____时。（3 分）

（2）该季节，阿根廷潘帕斯草原的气候特征是_____。（3 分）

（3）图中①地的西部有一条裂谷带，关于该裂谷带成因的叙述，正确的是_____。（4 分）

A．正好处于非洲板块和印度洋板块的张裂处
B．地壳上升，河流侵蚀而形成的河谷
C．由于冰川侵蚀作用而形成的冰川谷
D．由于断层下沉而形成的裂谷

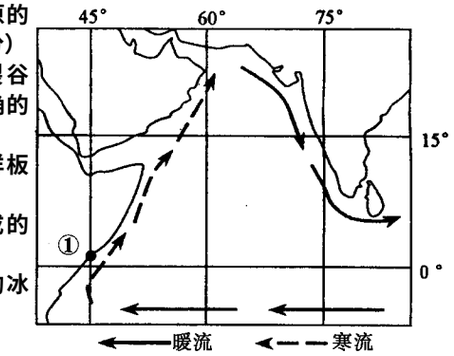

（4）此时，流经①地沿岸海区的洋流是一支寒流，试分析这支寒流的成因。（9 分）

37．阅读下列材料：（35 分）

材料一：全球史观关于世界历史发展的主线问题是两线论，即世界从分散走向聚合的一体化进程和世界秩序及运行规则的合理化进程。

材料二：经济全球化是近年国际问题中的热门话题，专家认为：“严格意义上的经济全球化发生在 80 年代初，……全球化之所以发生在这个时候，第一靠全球的信息网络化，第二靠全球向市场化的变革。前者为全球化提供了技术的保障，后者为全球化提供了体制上的保障。”

——引自陈宝森《经济全球化进程刚刚开始》

材料三：“全球化是发达国家用来打开发展中国家市场的敲门砖，是新殖民主义的一种形式，因此发展中国家应该团结起来，抵制全球化。”

——引自江时学《发展中国家怎么办——拉美 5 国家的实践》

材料四：发展中国家与发达国家人均国内生产总值比较表

	1970 年	1992 年
33 个发展中国家	108 美元	297 美元
21 个发达国家	3129 美元	22185 美元

——引自世界银行《1994 年世界发展报告》

请回答：

（1）根据材料一和材料二，举出自 16 世纪以来有助于全球“一体化”进程（10 分）和“合理化”进程（6 分）的事例。

（2）根据以上材料，评述材料三的观点。（8 分）

（3）材料四反映了当代世界经济发展中的什么问题？根源何在？（6 分）

（4）我国应怎样面对经济全球化的挑战？（5 分）

38．（40 分）根据我国社会主义市场经济发展的实践，党的十六届三中全会突破了把公有制的主要实现形式定位于国有经济和集体经济的传统观点，强调“使股份制成为公有制的主要实现形式”。这意味着，我国在如何全面理解公有制问题上，已完全摆脱了计划经济条件下对公有制的理解。

（1）运用所学经济常识，说明“使股份制成为公有制的主要实现形式”对我国经济发展的意义。（12 分）

（2）从传统观点到提出“使股份制成为公有制的主要实现形式”的认识变化，体现了什么哲学道理？（10 分）

中华人民共和国全国人大常务委员会 2003 年 12 月 27 日全票通过《中华人民共和国宪法修正案（草案）》，决定提请 2004 年 3 月 5 日召开的十届全国人民代表大会第二次会议审议。本次修宪的亮点之一是：“国家尊重和保障人权。”（18 分）

（3）请说明全国人大常委会决定提请把“国家尊重和保障人权”写入宪法的政治学根据。（10 分）

（4）全国人大常委会决定提请把“国家尊重和保障人权”写入宪法是一种价值选择，请说明这一选择的哲学依据。（8 分）

39．读右栏图，回答问题：（28 分）

（1）甲图中①城市为我国“神舟”五号飞船发射地，其形成和发展的主要区位因素是_____，而②城市形成和发展的主要区位因素是_____。（4 分）

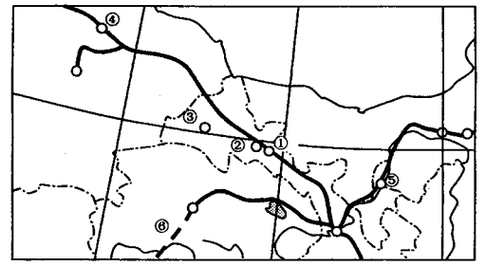

甲图



乙图



丙图

（2）甲图中城市⑤所在地区是我国西北重要的农业区，试分析该地区农业发展的区位因素。（8 分）

（3）试分析影响甲图中铁路⑥建设的主要区位因素。（8 分）

（4）乙图和丙图所示文物图案，位于甲图①②③④中的_____地，其所属艺术宝库称_____。（2 分）

（5）乙图和丙图的艺术风格有何特点？（3 分）

（6）该艺术宝库主要反映了什么历史现象？（3 分）

40．读图回答下列问题：（38 分）

材料一：

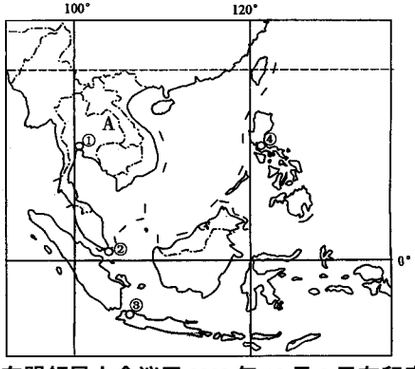

材料二：第九次东盟领导人会议于 2003 年 10 月 8 日在印度尼西亚巴厘岛落下帷幕。巴厘岛峰会的一个亮点是中国政府宣布加入《东南亚友好合作条约》，并与东盟签署了“面向和平与繁荣的战略伙伴关系”的联合宣言，这标志着中国和东盟的双边关系迈上了一个新台阶。随着 2010 年东盟和中国联合自由贸易区的逐步形成，一个拥有将近 20 亿人口的世界最大市场和由发展中国家组成的最大自由贸易区将出现在世人面前。

（1）分析材料一中 A 地区冬季盛行风向形成的主要原因。（6 分）

（2）材料一中的①、②、③、④四城市中为“东盟”总部所在地的是____。（2 分）

（3）该地区为世界主要水稻产区，试分析影响该地区水稻种植业的主要区位因素。（9 分）

（4）北宋时期，政府设置“市舶司”，并成为与该地区各国贸易的主要港口是_____。（2 分）

（5）试分析二十世纪七、八十年代以来，该地区主要国家经济增长的原因和存在的问题。（7 分）

（6）从政治常识角度，谈谈你对“中国和东盟的双边关系迈上了一个新台阶”的认识。（12 分）

高考生物资料 www.ca.ungbook.com

湖北省黄冈中学等八校
2004 年高三第二次联考

3 A

文 科 综 合

本试卷分第Ⅰ卷（选择题）和第Ⅱ卷（非选择题）两部分，满分 300 分，时间 150 分钟。

第Ⅰ卷（选择题，共 140 分）

一、本卷共 35 小题，每小题 4 分，共计 140 分。在每小题所列的四个选项中，只有一项是最符合题目要求的

正当美国宇航局为“勇气”号出现的问题一筹莫展时，“勇气”号的孪生兄弟“机遇”号火星车仍按照原计划于太平洋标准时间 2004 年 1 月 24 日晚 9 时 05 分（北京时间 25 日下午 1 时 05 分）在火星表面登陆，以寻找火星上是否存在水的线索。阅读材料，完成 1～3 题。

1．材料中的“太平洋标准时间”指的是 （ ）

A．太平洋中部的地方时　　B．西五区的区时

C．120°W 的地方时　　D．美国东部共同使用的时间

2．下列四幅图（图 1）中与太平洋标准时间 6 月 8 日 15 时的情况相吻合的是 （ ）

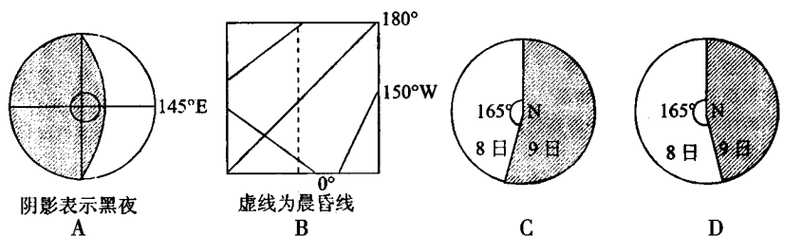

图 1

3．2 月 2 日，位于火星不同半球的“勇气”号和“机遇”号火星车伸出各自的机械臂，触摸火星表面。这是这对孪生兄弟第一次双管齐下对火星展开探测。此次美国的火星探索活动，能让人类对火星有更明确的认识。从认识论的角度看，上述事实说明 （ ）

A．事物的联系是人们创造的　　B．实践的主体不一定是人

C．实践的发展提供了新的认识工具和手段　　D．人是无所不能的

读图 2，完成 4、5 题。



图 2

4．如果该图为北半球海平面等压线图，下列说法正确的是 （ ）

A．甲地受低压槽控制，阴雨天气

B．甲地气压一定比乙地高

C．甲地受高压脊控制，天气晴朗

D．乙地吹西南风

5．如果该图为北半球 500 百帕等压面图，图中等值线为等高线。下列对甲、乙所对应的近地面的天气状况的分析，最有可能的是 （ ）

A．甲、乙两地近地面均为阴雨天气

B．甲、乙两地近地面均为晴天

C．甲近地面为阴雨天气，乙近地面为晴天

D．甲近地面为晴天，乙近地面为阴雨天气

读图 3，完成 6～8 题。

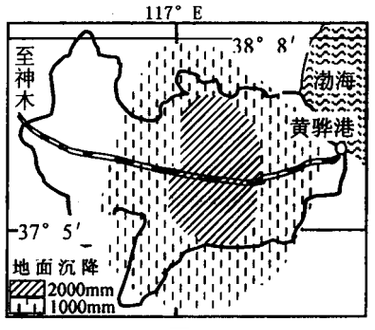

图 3

6．图中所示反映了我国某地区的环境问题。该问题产生的主要原因是 （ ）

A．矿物燃料的大量燃烧　　B．不合理的灌溉

C．过度开采地下水　　D．过度樵采和滥垦滥牧

7．该环境问题对该地区可能造成的影响是 （ ）

A．影响南水北调东线工程的安全

B．影响京广铁路线等重要交通线路的安全

C．提高了河流的泄洪能力使得可利用的水资源减少

D．该地的降水增加形成涝灾

8．图中“神黄”铁路运输的物资中，运量较大的物资可能是 （ ）

A．煤炭　　B．机械产品　　C．棉花　　D．粮食

读图 4，完成 9、10 题。

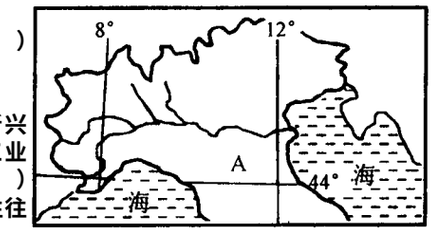

图 4

9．图中河流的汛期是在 （ ）

A．春季　　B．夏季

C．秋季　　D．冬季

10．图中 A 区域是世界著名的新兴工业区。与传统工业相比，该新兴工业区的特点是 （ ）

A．资本集中程度高，主要行业往往包括数百个中小企业

B．工业大多分散在小城镇，甚至农村

C．生产过程较为集中，自动化程度高

D．工业以机械制造、石油加工和微电子工业为主

图 5 为我国某种工业的分布图，读图并结合所学的地理原理回答 11、12 题。



图 5

11．该工业最有可能是 （ ）

A．纺织工业　　B．电子装配业

C．制糖工业　　D．机械制造业

12．该工业的布局属于 （ ）

A．资源指向型　　B．原料指向型

C．市场指向型　　D．技术指向型

中国古代科技发达，文化灿烂，是世界四大文明古国之一。然而到了近代，由于封建制度的腐朽没落，中国大大落后于西方。回答 13～15 题。

13．四大发明之所以是中国成为世界文明古国的重要标志，是因为四大发明 （ ）

A．是西方早期资产阶级反封建的有力武器

B．在推动人类进步的过程中作用巨大

C．发明的过程比较艰难

D．领先西方的时间最长，足以令中华民族骄傲至今

14．下列有关图 6 中人物的说明中，不正确的是 （ ）

A．他周游列国，兜售“仁”的学说

B．他兴办私学，有教无类，打破“学在官府”的垄断现象

C．他注重整理古代文化典籍，传说他编订了《诗》、《书》、《春秋》等

D．他主张“存天理，灭人欲”



图 6

15．导致明清时期产生带有民主色彩思想的原因，除封建制度的日趋没落之外，还主要在于 （ ）

A．出现了中国封建社会最后一个盛世——康乾盛世

B．出现了李贽、黄宗羲、顾炎武、王夫之等大思想家

C．阶级矛盾相对缓和，社会相对安定

D．明清时期商品经济的发展导致资本主义萌芽出现

在中国近现代史上，先进的中国人为了挽救民族的危亡，为了国家的富强，作了与时俱进、长期不懈的努力。回答 16～19 题。

16．对于近代中国人民两大主要任务的描述最为确切的是 （ ）

A．争取民族独立，推翻封建统治

B．推翻封建统治，发展资本主义

C．争取民族独立，实现中国近代化

D．建立民主共和制，清除外国侵略势力

17．义和团运动与太平天国运动的明显区别是 （ ）

A．属于旧式农民革命　　B．延缓中国殖民地化进程

C．盲目排斥外洋事物　　D．与外国侵略者直接作战

18．从中国资产阶级维新变法到资产阶级民主革命的转变反映了 （ ）

A．资产阶级革命时机已经成熟

B．社会各阶层推翻君主制度的共同要求

C．资产阶级开辟资本主义独立发展道路的愿望

D．资产阶级认识到清政府完全成为列强侵华的工具

19．1985 年邓小平说：“改革是中国的第二次革命”。其本质含义是 （ ）

A．解放和发展社会生产力　　B．制定社会主义建设新时期党的基本路线

C．改变陈旧落后的思想观念　　D．改革不适应经济发展的管理体制

在世界近现代史上，由于国际政治经济力量的此消彼长，国际政治经济格局几经变化。回答 20、21 题。

20．下列说法与资本主义世界经济格局演变无关的是 （ ）

A．18 世纪上半期到 19 世纪中期，英国处于“世界工厂”的地位

B．19 世纪末到 20 世纪 70 年代，美国掌握世界经济霸权

C．20 世纪 70 年代以后，资本主义世界出现美、日、欧三足鼎立的局面

D．1937 年，苏联的工业产量处于世界第二位，欧洲第一位

21．从 20 世纪 70 年代初期起，中美关系逐渐得到改善。下面对其得到改善原因的说法正确的是

①当时中苏关系破裂，苏联对中国的安全构成严重威胁　②当时美苏争霸出现苏攻美守局面，美国出于战略考虑，必须改善与中国的关系　③当时美国认识到长期孤立、封锁中国的政策遭到失败　④中国综合国力不断上升，已经不容小视 （ ）

A．①②④　　B．②③④　　C．①②③　　D．①②③④

2003 年 10 月至 2004 年 7 月，中国在法国举办文化年；2004 年秋季至 2005 年 7 月，法国在中国举办文化年，中西文化交流又掀起一个高潮。其实，中国古代对外交流频繁，同亚洲、非洲、欧洲许多国家和地区都有长期密切的友好往来。中外友好交往是中外关系的主流。回答 22～25 题。

22．中国需要汲取有益的经验和文化，这不仅可以激发中国文化的创造力，而且对整个中国社会经济的发展都是有益的。因此，加强文化建设，要把发扬民族文化的优秀传统和汲取世界各民族的长处结合起来。这体现了 （ ）

A．矛盾的普遍性和特殊性的辩证统一　　B．主要矛盾和矛盾主要方面的统一

C．认识和实践的统一　　D．现象和本质的统一

23．丝绸之路的开辟具有划时代的意义，主要是由于它 （ ）

A．使中国与欧洲直接进行交流　　B．使天山地区第一次与内地连成一体

C．促进中西经济文化的交流　　D．加强了西域与内地的联系

24．宋代中日贸易得到很大发展。中日贸易扩大的重要原因是 （ ）

A．当时已经出现资本主义萌芽　　B．造船和航海技术提高

C．日本资源贫乏，急需中国物品　　D．东南沿海倭患被肃清

25．郑和下西洋与欧洲冒险家开辟新航路活动的最大不同点是 （ ）

A．航海的时间与规模不同

B．航海的范围是否有新的突破

C．航海的结果对各自支持航海国家的影响不同

D．航海的动机及世界影响不同

26．“绿杨烟外晓寒轻，红杏枝头春意闹。”是宋祁《玉楼春·春景》中的名句。清代著名诗评家王国维在《人间词话》里对其作过如下评价：“著一‘闹’字而境界全出。”但同时代的著名文论家李渔却在《窥词管见》里说：“此语殊难索解。争斗有声之谓‘闹’，桃李争春则有之，红杏闹春，余实未之见也。”两种不同的评论表明 （ ）

A．都不符合审美法则

B．认识不一定是由客观存在决定的

C．意识能否正确反映客观事物受主观因素的影响

D．主观与客观是不可能统一的

27．从唯物论角度看，图 7 漫画中的人物 （ ）



图 7

A．忽视了意识对物质的反作用

B．违背了实事求是的原则，属于主观主义的工作方法

C．违背了矛盾的特殊性原理
D．违背了联系的普遍性原理

28．2004 年 1 月 12 日，胡锦涛同志在中央纪律检查委员会第三次全体会议上发表重要讲话，突出强调在全党大力弘扬求真务实精神、大兴求真务实之风。之所以突出强调在全党大力弘扬求真务实精神，这是因为 （ ）
A．正确的思想决定着社会发展进程
B．社会存在的性质决定社会意识的性质
C．解放思想、实事求是是邓小平理论的精髓
D．正确的意识对客观事物的发展有促进作用

29．党的十六届三中全会指出，要大力发展国有资本、集体资本和非公有资本等参股的混合所有制经济，实现投资主体多元化，使股份制成为公有制的主要实现形式。其目的是 （ ）
A．组建大公司、大企业集团　　B．实现多种所有制经济均衡发展
C．进一步增强公有制经济的活力　　D．扩大各种所有制的投资范围

30．2003 年 12 月 22 日，全国人大常委会听取中共中央关于修改宪法部分内容的建议。修改建议规定：“公民的合法的私有财产不受侵犯”。国家依法保护公民私有财产权，其经济意义在于 （ ）
A．有利于缩小贫富差距，实现共同富裕
B．有利于进一步调动人们创造财富的积极性，有利于完善和发展社会主义市场经济
C．有利于增强人们的法制观念
D．有利于公民直接行使政治权力

2003 年 8 月 3 日，国务院总理温家宝在长春市主持召开座谈会，提出了振兴东北老工业基地的战略决策。回答 31、32 题。

31．振兴东北老工业基地，要充分发挥市场的作用，结构调整、技术改造、企业重组，都应主要依靠市场来决定。政府主要是制定规划和政策，营造投资、创业和发展的良好环境。这说明 （ ）
A．市场经济是实现资源配置的惟一有效形式
B．要把市场调节和宏观调控结合起来
C．市场调节要以宏观调控为基础
D．社会主义国家能够实行强有力的宏观调控

32．加快东北地区的发展，表明国家行使了 （ ）
A．政治职能　　B．经济职能
C．文化职能　　D．社会公共服务职能

33．据有关专家预测，2004 年我国通货紧缩压力减缓，价格水平继续回升。下列不属于通货紧缩表现的是 （ ）
A．货币不断升值　　B．物价总水平持续下降
C．企业生产投资不断增加　　D．社会总需求持续小于社会总供给

多年来，朝鲜的导弹和核武器问题一直是东北亚地区安全的核心问题，也是朝鲜与以美国为首的西方国家摩擦的焦点。回答 34、35 题。

34．经中国、朝鲜、美国、韩国、俄罗斯、日本六方协商，有关朝鲜核问题的六方会谈于 2003 年 8 月 27 日在北京举行。六方会谈的举行，标志着和平解决朝核问题又向前迈出了重要一步。这表明 （ ）
A．东北亚地区已实现和平与稳定
B．国际形势总趋势是趋向紧张
C．通过对话和合作有利于解决共同关注的国际问题
D．世界大多数国家都呼吁建立国际新秩序

35．2004 年 2 月 25 日第二轮六方会谈在北京举行，消除朝美之间的分歧是解决朝核问题的关键。从根本上说，朝美之间的分歧是由 （ ）
A．两国的社会制度决定的　　B．两国的社会意识决定的
C．两国的国家利益决定的　　D．两国领导人的意志决定的

第Ⅱ卷（非选择题，共 160 分）

二、本卷共 6 小题，共计 160 分

36．（41 分）我国某中学地理兴趣小组在 2004 年 3 月 21 日这一天，对该校附近的 5 米高的电线杆的影子进行测量，其结果如下表：

北京时间	11∶30	11∶35	11∶40	11∶45	11∶50	11∶55	12∶00	12∶05
影长（米）	5.3	5.1	5	5.1	5.3	5.5	5.6	5.7

回答：
（1）根据表中数据在方框内绘制电线杆影长变化图。（4 分）
（2）该校的地理坐标为_____、_____。（4 分）
（3）根据该校的位置可判断其所在的地形区为_____。（4 分）
A．东北平原　　B．华北平原　　C．黄土高原　　D．准噶尔盆地
（4）该地区的主要粮食作物是_____，（4 分）其粮食主要产区在长期的耕作过程中土地利用的主要问题是_____，（2 分）要合理利用其土地资源，实行农业生产的可持续发展，我们可以采取哪些具体措施？（6 分）其中近年来治理过程中最有效的办法是_____。（2 分）

读图 8，完成下列要求：

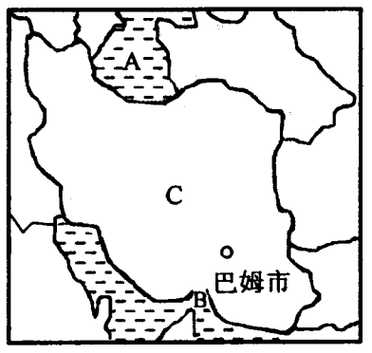

图 8

（5）图中 A 湖沿岸是世界石油产区之一，A 湖的名称是_____，B 海峡是世界繁忙海峡之一，B 海峡的名称是_____。（4 分）
（6）北京时间 2003 年 12 月 26 日 9 时 28 分，图中巴姆市附近（震中位置为东经 58.4 度，北纬 29.3 度）发生里氏 6.3 级地震，巴姆古城一片废墟，人员伤亡惨重。这次地震震级不是很大，但破坏很大、人员伤亡惨重，其原因中最不可能的是 （ ）（4 分）
A．本次地震属浅源地震且巴姆市震中距小
B．地震发生时，当地人正在睡梦中
C．巴姆市内建筑多是砖坯结构，抗震性差
D．地震发生后诱发了大面积的滑坡、泥石流等地质灾害
（7）我国西汉和唐代时分别称 C 国及附近地区为_____和_____。（2 分）
（8）C 国在 20 世纪 80 年代与其邻国曾有一场战争，指出该战争的名称并分析其发生原因。（5 分）

37．（27 分）真正意义上的世界史是在 15 世纪以后开始形成的。在这个形成过程中，世界史的主线就是现代化。所谓现代化，它是一个国家由农业社会向工业社会转化的过程，它的核心就是经济的工业化，政治的民主化。但是，由于世界各地历史状况不同，现代化在各地表现出很大的差异性和多样性。据此回答下列问题。
（1）人类社会历史由分散走向整体，是以什么历史事件为开端的？（2 分）为什么？（4 分）
（2）试以英、法、美三国为例，谈谈三国在近代最终是怎样解决土地问题的。（6 分）并从是否有利于农业现代化的角度，对三国的做法作简要评价。（6 分）
（3）20 世纪 70 年代末以前，三次科技革命的成果都没有在中国经济现代化中充分发挥作用，简析其原因。（9 分）

38．（29 分）阅读下列材料，回答问题：
材料一　洪武三十年（朱元璋年号），明政府颁布了《大明律》……明律条文较唐律为简；但内容更加严酷，对谋反“大逆”的起义人民，不分首从，一律凌迟处死。当然，《大明律》对贪官污吏处罚也极严。《大明律》明确规定，贪污白银达 60 两以上的官吏，一律处斩……那时的官员出门乘坐公家的舟车，行李都不能超重……
材料二　明朝中后期以来，昏君屡出，不理政事，导致了宦官专权的局面。大宦官王振、刘瑾、魏忠贤等先后擅权。他们打击正直朝臣和士人，横掠百姓，贪污受贿，无恶不作。
材料三　吴官正同志在中纪委第三次全体会议上的工作报告中指出：我们要以邓小平理论和“三个代表”重要思想为指导，认真贯彻胡锦涛同志提出的“为民、务实、清廉”的要求，坚持标本兼治、综合治理的方针，惩防并举，注重预防，通过扎实有效的工作，推进党风廉政建设和反腐败斗争。
材料四　经最高人民法院核准，安徽省原副省长王怀忠 2004 年 2 月 12 日在济南被执行死刑。最近，中央纪委、监察部严肃查处了湖北省原省委副书记、省长张国光严重违纪违法问题。据统计，从 2002 年 12 月至 2003 年 11 月，被开除党籍并移送司法机关的共 8691 人。其中县（处）级以上党政领导干部 412 人，省（部）级干部 6 人。这些重大案件的查办，充分体现了我们党惩治腐败的坚定决心。
（1）根据材料一、二，谈谈《大明律》和明朝中后期政局各有什么特点？（5 分）并简要分析产生这两种不同特点的根源。（4 分）
（2）阅读材料三回答，“三个代表”重要思想科学内涵的精神实质是什么？（4 分）
（3）运用辩证唯物主义认识论的知识，说明为什么推进党风廉政建设和反腐败斗争，必须以“三个代表”重要思想为指导。（7 分）
（4）结合材料，从实践“三个代表”重要思想的高度谈谈加强反腐败斗争的重要性。（9 分）

39．（32 分）阅读下列材料，回答问题：
材料一　新华社 2004 年 2 月 8 日全文播发了《中共中央国务院关于促进农民增加收入若干政策的意见》。《意见》指出，当前种粮效益低、主产区农民增收困难的问题尤为突出，必须采取切实有力的措施，尽快加以解决。抓住了种粮农民的增收问题，就抓住了农民增收的重点；调动了农民的种粮积极性，就抓住了粮食生产的根本；保护和提高了主产区的粮食生产能力，就稳住了全国粮食的大局。
材料二　湖北省仙桃市位于江汉平原，是著名的大粮仓。近年来由于农产品价格持续低迷，农民增收难，负担重。仙桃市政府认为，解决“三农”问题治本之策在于让农民增收和致富。他们的经验是：一、“跳出粮食抓农业。”根据“北高南低、北旱南涝”的地理特性，确立了“南渔北牧”的发展思路，退田还湖，退耕还渔，大力发展水产养殖业和畜牧养殖业。波尔山羊、萨能奶羊、黑白花奶羊和大雁鹅等良种草食畜禽相继落户仙桃。二、“跳出农村抓农村。”近两年来，仙桃市对全市 365 家乡镇企业全部进行改制，通过改制后，绝大多数乡镇企业搞活了。目前，乡镇企业已占据农村经济的“半壁江山”。该市彭场镇，有 40 多家无纺布企业，产品全部出口，去年外贸出口交货值 5 亿多元。该镇共有 4 万农村劳动力，1.8 万人进乡镇企业当工人，8000 人外出打工，约 2000 人跑运输，搞营销。仙桃一跃成为我国首批进入小康的县市。
——以上材料均摘自《半月谈》2003 年第 5 期
（1）江汉平原是我国的商品粮基地也是我国的_____基地。（2 分）
（2）简要说明江汉平原的气候条件对其粮食生产的影响。（6 分）
（3）结合材料一，运用经济常识道理说明粮食生产的重要性。（6 分）
（4）结合材料二，运用经济常识有关知识，分析该市政府是如何解决农民增收难题的？（9 分）
（5）运用哲学常识的有关知识，分析该市政府领导农民实现小康的工作思路。（9 分）

40．（31 分）看图 9 并阅读文字材料，回答下列问题：

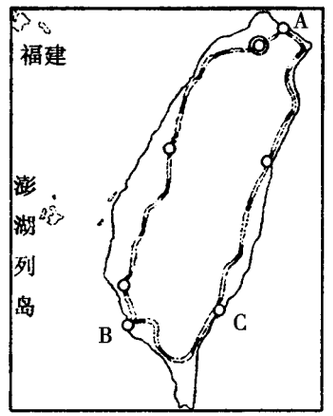

图 9

材料一　关于大陆没解放台湾，毛泽东晚年曾多次自责说：这是七大后我党犯的第一个大的历史错误……我们只看到胡宗南在西南还有大军，于是二野分兵去了西南，三野又要守备大城市和扫清残敌，所以没有把二野三野集中起来解放台湾，而是以劣势兵力在金门打了败仗……
材料二　1950 年 6 月 27 日杜鲁门命令美国第七舰队阻止对台湾之任何攻击，提出“台湾未来的地位的决定必须等待太平洋安全的恢复，对日和约的签订或经由联合国考虑”。
——以上材料均摘自《史学丛谈》
材料三　据新华网报道，针对台湾当局正积极推动的所谓“公投制宪”活动，岛内一些学者和反对“台独”的人士指出，这一方面是民进党当局在为明年的选举造势，同时也是在为其一贯的“台独”分裂图谋铺路……
材料四　国家主席胡锦涛 2003 年 10 月 24 日在回答澳大利亚记者的提问时指出，我们在台湾问题上的立场是“和平统一、一国两制”，我们会尽最大努力争取以和平的方式解决台湾问题，但是我们绝对不容许“台独”。
（1）读图 9，描述台湾岛上的铁路分布特点并说明其影响因素。（6 分）
（2）图中 A、B、C 三地为全岛最大港口的是_____。（填写代号）（2 分）该港口成为全岛最大港口的区位优势有哪些？（6 分）
（3）依据材料一、二、三，分析当前台湾海峡两岸长期分裂的历史原因。（9 分）
（4）结合材料四，阐述我国政府对台湾问题的基本立场。（8 分）

湖北省八市 2004 年高三年级 3 月调考

4 A

文 科 综 合

本试卷分第Ⅰ卷（选择题）和第Ⅱ卷（非选择题）两部分。全卷共 300 分，考试时间 150 分钟。

第Ⅰ卷（选择题，共 140 分）

一、本卷共 35 小题，每小题 4 分，共 140 分。在每小题列出的四个选项中，只有一项是最符合题目要求的

右图为北纬 30°状况（图中数字是相应经线与北纬 30°纬线的交点，A、B 点分别是晨线、昏线与该纬线圈的交点）。读图完成 1 ~ 3 题。

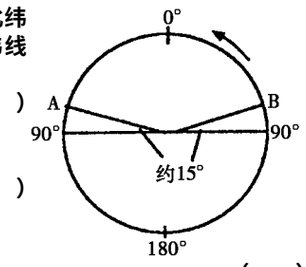

1．该日最有可能是 （ ）
A．3 月 21 日　　B．6 月 22 日
C．9 月 23 日　　D．12 月 22 日

2．此时北京时间是 （ ）
A．20 时　　B．8 时
C．4 时　　D．16 时

3．此季节 （ ）
A．南亚地区盛行东北风
B．开普敦地区处于少雨期
C．密西西比河流域正忙于播种小麦
D．在北印度洋上自西向东航行的船只顺风顺水

下表是某台风移动路线统计数据，读表完成 4、5 题。

时间	8 点	12 点	20 点	24 点
路径 地理坐标	120°E 20°N	116°E 20.5°N	114°E 21°N	114.5°E 22°N

4．该台风移动方向为 （ ）
A．向西　　B．向北　　C．向西北　　D．向东北

5．该台风中心路经地区将出现特大暴雨和风暴潮，下列地区中应作好重点预防的是 （ ）
A．北部湾　　B．珠江口沿岸
C．台湾岛东南部　D．台湾海峡

读图，完成 6、7 题。

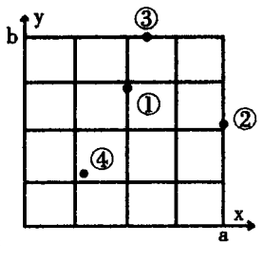

6．若图中 x 轴表示出生率，且 a = 4%；y 轴表示死亡率，且 b = 4%，则图中四个点表示现代型人口再生产类型的是 （ ）
A．①　　B．②
C．③　　D．④

7．若图示为 6 月 22 日，且 x 轴表示昼长（a = 24 小时），y 轴表示正午太阳高度（b = 90°），则图中四个点纬度最低和最高的分别是 （ ）
A．①②　　B．④①
C．①③　　D．②③

读右图，完成 8、9 题。

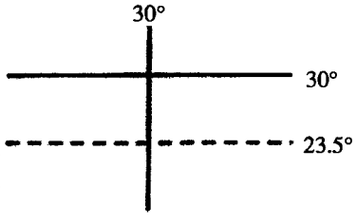

8．图中纬线横穿该国的北部和南部，经线纵贯该国的中部地区，且北部和东部临海，判断此国家是 （ ）
A．巴西　　B．印度　　C．埃及　　D．沙特阿拉伯

9．该国发展经济的优越条件有
①光照资源充足　②能源资源丰富　③地处交通要道　④科技力量雄厚　⑤劳动力素质极高 （ ）
A．①②③　　B．②③④　　C．③④⑤　　D．①②④

2003 年冬季，我国面临电力短缺的省市有 20 多个，其中浙江省较为严重，不少地方都开始拉闸限电或者分时供电，给人们的生活带来很大影响。据此回答 10、11 小题。

10．对浙江省电力短缺原因的推测不可信的是 （ ）
A．电力需求增长过快　　B．干旱缺水，水电站发电不足
C．台风导致秦山核电站被迫停产　D．浙江省常规能源短缺

11．针对很多地方缺电的状况，国家可采取的措施是
①加强电力建设　②利用小煤窑建坑口电站　③加快潮汐能发电的建设步伐　④因地制宜，开发新能源　⑤发展科技，改进工艺，降低工业能耗 （ ）
A．①④⑤　　B．①②④　　C．①③④　　D．③④⑤

人才问题是事关国家兴衰的重要问题。回答 12 ~ 14 题。

12．西汉选拔人才注重的是 （ ）
A．门第出身　　B．考试成绩　　C．品德才能　　D．高官推荐

13．隋唐的科举制对国家最积极的作用是 （ ）
A．有利于士族地主巩固特权　　B．有利于出身不高的知识分子参与政权
C．有利于提高官员的文化素质　D．有利于扩大和巩固封建统治的政治基础

14．科举制发展到明清时期，阻碍了社会的进步，主要是因为 （ ）
A．制约了社会经济的发展　　B．阻碍了中外文化的交流
C．禁锢了人们的思想　　D．妨碍了教育的近代化

近代以来，实现工业化一直是中国人的梦想，几代人为之作出了不懈的努力。回答 15 ~ 17 题。

15．20 世纪初，日渐流行的“实业救国”思想并未使中国走上富强的道路，主要是因为 （ ）
A．企业资金缺乏，技术落后　　B．发展实业的社会环境差
C．政府不重视实业　　D．国内战乱频繁

16．新中国成立后不久，我国采取优先发展重工业的方针，其原因不包括 （ ）
A．受苏联模式的影响　　B．我国重工业基础薄弱
C．应对严峻的国际形势　　D．社会主义制度已经建立

17．党的十六大报告指出：我国要走新型工业化的道路。与新型的工业化相比，传统工业化的特点是
①以机器大生产为主要特征　②建立在资源高消耗的基础上　③以广阔的国内外市场为发展条件　④走的是先污染后治理的道路 （ ）
A．①②　　B．②③④　　C．①②③　　D．①②③④

在中国历史上，农民、农村和农业问题在不同的时期具有不同的内容。回答 18 ~ 20 题。

18．下列赋税制度中，有利于减轻农民经济负担的是
①以庸代役　②两税法　③方田均税法　④一条鞭法 （ ）
A．②③④　　B．①②③④　　C．①③④　　D．①②③

19．1949 年 ~ 1959 年我国农村生产关系变化的趋势是 （ ）
A．封建剥削制度→个体小农经济→社会主义公有制
B．封建土地所有制→农民土地所有制→家庭联产承包责任制
C．封建土地所有制→社会主义公有制→家庭联产承包责任制
D．互助组→合作社→人民公社

20．十一届三中全会以来，我国促使农业向专业化、商品化、社会化方向发展的措施有
①实行家庭联产承包责任制　②发展乡镇企业　③调整农业产业结构　④发展农业科学技术 （ ）
A．①②　　B．①②③④　　C．②③④　　D．①②③

近代以来，国际关系错综复杂，在不同阶段呈现出不同的特点。回答 21 ~ 23 题。

21．19 世纪欧洲大陆霸主演变的排序是 （ ）
A．法→俄→法→德　　B．英→法→俄→德
C．荷→法→德→俄　　D．俄→法→德→意

22．由于英国的坚持，雅尔塔会议同意法国参加战后对德国的分区占领，英国此举的主要原因是 （ ）
A．法国政府为打败德国作出了重要贡献
B．法国是英国的盟国
C．想借法国抗衡苏、美势力
D．法国是反法西斯联盟的重要成员

23．下列组织由美国主导的有
①国际联盟　②北约　③北美自由贸易区　④亚太经合组织 （ ）
A．①②③④　　B．②③　　C．②③④　　D．①②③

一个时期以来，人民币汇率再度成为国内外经济界谈论的热点，少数国家的一些官员及政客不仅对人民币汇率肆意攻击，甚至还通过此事对中国的货币体系或货币政策妄加指责。针对这种情况，我国政府面临压力，重申“保持人民币汇率在合理均衡水平上的基本稳定”。据此回答 24 ~ 26 题。

24．“保持人民币汇率在合理均衡水平上的基本稳定”，从根本上说 （ ）
A．有利于维护我国国家经济安全和世界金融的稳定发展
B．有利于周边国家和地区的经济和金融的稳定发展
C．有利于中国经济和金融的持续稳定发展
D．有利于发展中国家的经济和金融的稳定发展

25．维护国家的经济安全，首先是维护国家的金融安全，因为金融是 （ ）
A．国民经济的基础　　B．国家财政收入的主要来源
C．现代市场经济的核心　　D．对外开放的主要渠道

26．维护国家的经济安全就是在发展对外经济关系中 （ ）
A．必须始终坚持以我为主，兼顾他人的原则
B．必须把立足点放在扩大开放，加快自身发展的基础上
C．始终坚持和平共处五项原则，加强合作，减少麻烦
D．始终不移地把独立自主、自力更生、平等互利作为自己的原则和立足点

党的十六届三中全会指出：“按照统筹城乡发展、统筹区域发展、统筹经济社会发展、统筹人与自然的和谐发展、统筹国内发展和对外开放的要求，更大程度地发挥市场在资源配置中的基础性作用，为全面建设小康社会提供强有力的体制保障。”据此回答 27、28 题。

27．上述论断体现的哲学道理有
①一切从实际出发，实事求是　②全面地看问题就是要平衡事物发展的各个方面　③矛盾特殊性要求我们具体问题具体分析　④坚持内外因相结合　⑤矛盾双方在对立中统一，在统一中对立 （ ）
A．③④⑤　　B．②③④⑤　　C．①③④⑤　　D．①②③④⑤

28．在发展经济的过程中，要做到人与自然和谐发展，首要的是 （ ）
A．利用自然、改造自然，使之为人类谋福利
B．尊重自然，遵循自然客观规律
C．保护环境，促进生态平衡
D．坚持可持续发展战略

29．党的十六届三中全会，突破了把公有制主要实现形式定位于国有经济和集体经济的传统观念，强调“股份制成为公有制的主要实现形式”。经过多年的再认识和总结，又形成了归属清晰、权责明确、保护严格、流转顺畅的现代产权制度，使股份制逐渐成为我国公司所有制的主要形式。建立现代产权制度
①有利于维护公有财产权，巩固公有制经济的主体地位　②有利于保护私有财产权，促进非公有制经济的发展　③有利于各类资本的流动和重组，推动资本所有制经济发展　④有利于增强企业和公司创业、创新的动力，形成良好的信用意识和市场程序 （ ）
A．①②③　　B．①②③④　　C．①③④　　D．②③④

30．“塞北梅花羌笛吹，淮南桂树小山词；请君莫奏前朝曲，听唱新翻杨柳枝。”唐代诗人刘禹锡这首诗的哲学寓意是 （ ）
A．要坚持与时俱进、勇于创新
B．强调了意识的能动作用
C．量变的积累必然引起质变
D．事物的发展是前进性与曲折性的统一



(A)



(B)

券的变迁

31．右边这幅漫画 （ ）
A．图（A）体现了宏观调控，图（B）反映了市场调节
B．图（B）的家庭生活水平全面实现了小康
C．计划经济与市场经济在我国现阶段同时存在
D．图（A）到图（B）的变化，说明改革开放使人们的消费水平有了很大的提高

2003 年 6 月 27 日，浙江省人大常委会第四次会议表决通过了关于建立公民旁听省人大常委会会议制度的决定。依据这一《决定》，浙江省普通百姓也能有机会旁听省人大常委会会议。据此回答32、33 题。

32．允许公民旁听省人大常委会会议，有利于 （ ）

A．国家制度建设

B．加强社会主义法制建设

C．广大人民直接参加国家和社会事务的管理

D．进一步拓宽公民参政渠道

33．允许公民旁听省人大常委会会议说明 （ ）

A．我国社会主义民主的核心是实行人民代表大会制

B．人民的民主权利有了完善的制度保证

C．人民民主具有真实性的特点

D．社会主义政治文明建设有了稳定的发展

34．2003 年，俄罗斯、沙特阿拉伯、土耳其、印度尼西亚、菲律宾等国多次发生恐怖袭击事件，造成重大人员伤亡。这一年成为恐怖活动高发年。这说明 （ ）

A．恐怖主义严重影响了世界和平

B．恐怖主义是霸权主义的一种表现形式

C．恐怖主义是世界和平与发展的主要障碍

D．恐怖主义有助于反对霸权主义

35．2003 年，陈水扁当局利用“公投立法”蓄意制造“台独”分裂活动，遭到了海峡两岸人民和海外华人、华侨的坚决反对。这说明 （ ）

A．祖国统一是炎黄子孙的共同心愿

B．每一个中国公民都有维护国家统一的义务

C．我国政府坚持“一个中国”原则

D．任何的“台独”图谋都是不能得逞的

第Ⅱ卷（非选择题，共 160 分）

二、本卷共 6 小题，共 160 分

36．（23 分）下面分别为亚太经济合作组织四个成员国的局部图。读图回答：

（1）A 港口为中国最大的_____港（功能），有一批物资计划从该港口运往 B 港，请依次写出其航行的路线（海及大洋）_____。（6 分）

（2）图中_____国（国名）和_____国（国名）为世界著名的粮食出口国，他们农业现代化的共同特点是_____。（6 分）

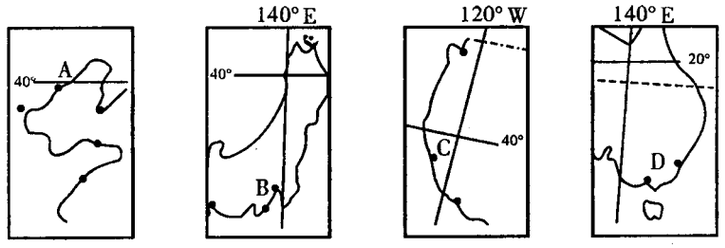

（3）以下说法是否可信？

①C 港与 D 港多雨期一致：_____，理由是_____。（6 分）

②海轮以同样的速度往返 B、C 两港之间，若航线一致，在船上的人所看到的昼夜更替的周期也一致：_____，理由是_____。（5 分）

37．（25 分）加入 WTO 后，我国农业面临着新的机遇和挑战。近年来，发展绿色食品和绿色农业，注重农产品的质量和安全性已成为一种国际化的趋势，绿色产品有着巨大的市场潜力。同时，一些发达国家凭借其科技优势，通过立法或制定严格的强制性技术标准，对国外商品进行准入限制，形成了新的贸易壁垒即“绿色壁垒”。

我国《农药限制使用规定》于 2002 年 8 月 1 日正式生效，将用 5 年左右的时间基本实现蔬菜、水果、茶叶等鲜食农产品的无公害生产。

中栏图表示某种农产品生产和销售的一般模式，读图并结合上述材料回答：

（1）阶段Ⅰ，影响蔬菜产区的主要区位因素是_____。（2 分）

（2）阶段Ⅱ表示近几年来蔬菜产销区位变化，形成这种变化的主要原因有_____、_____、_____。（6 分）

（3）2002 年，乙地区蔬菜丰收但向甲地区所在国家出口的蔬菜数量却明显减少，结合上述材料分析其原因是_____。（2 分）

图例：

城区

△郊区农村蔬菜等农产品产区

→蔬菜等农产品销售方向

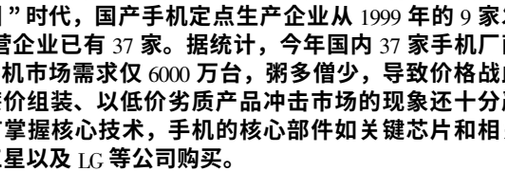

甲区域位于某发达国家　　乙区域位于我国东部地区

（4）用政治常识分析，“绿色壁垒”的形成说明了什么？（6 分）

（5）从经济常识角度谈谈我国农业应如何突破“绿色壁垒”？（9 分）

38．（32 分）阅读下列四幅图，结合所学知识回答问题。

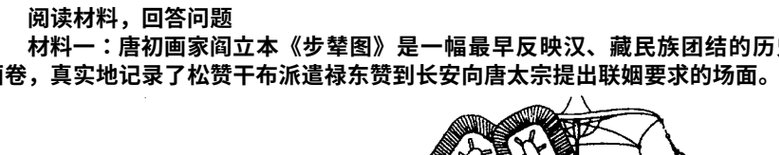

A　　B　　C　　D

（1）以上四幅图分别反映了各个时期生产力的重大突破，每次突破的标志是什么？（8 分）

（2）图 A 和图 B 中反映的一、二次重大突破对人类历史进程分别产生了哪些重大影响？（10 分）

（3）图 C 所代表的时期，物理学在理论上有哪两项重大发展？这一时期自然科学发展的基础和动力分别是什么？（8 分）

（4）科技的发展促进了经济的发展。在第三次科技革命的影响下，世界经济出现了什么新的趋势？（6 分）

39．（40 分）

阅读材料，回答问题。

自 1991 年手机在我国投入使用以来，用户数量一直保持着强劲增长势头，到目前为止已增加到 1000 多万户。然而有喜亦有忧，手机市场的巨大利润，使得当前整个手机行业正处在“战国”时代，国产手机定点生产企业从 1999 年的 9 家发展到至今的 20 多家，制造经营企业已有 37 家。据统计，今年国内 37 家手机厂商计划产量 1.7 亿台，而今年手机市场需求仅 6000 万台，粥多僧少，导致价格战此起彼伏。同时，冒牌生产、廉价组装、以低价劣质产品冲击市场的现象还十分严重。另外，国内手机厂家没有掌握核心技术，手机的核心部件如关键芯片和相关模块主要从菲力浦、高通、三星以及 LG 等公司购买。

回答：

（1）上述材料反映了哪些经济现象？应该怎样看待这些经济现象？（8 分）

（2）从政治常识角度回答，应该怎样解决手机市场的“三忧”问题？（6 分）

（3）运用哲学常识简析，怎样看待手机市场上的“喜”与“忧”？（6 分）

阅读材料，回答问题

材料一：唐初画家阎立本《步辇图》是一幅最早反映汉、藏民族团结的历史画卷，真实地记录了松赞干布派遣禄东赞到长安向唐太宗提出联姻要求的场面。



《步辇图》

材料二：驱逐帝国主义势力出西藏，西藏人民回到中华人民共和国大家庭中来；西藏地方政府积极协助人民解放军进入西藏，巩固国防，西藏军队逐步改编为人民解放军；在中央人民政府统一领导之下，西藏实行民族区域自治……

材料三：在十届全国人大代表中，有藏族代表 35 名；在西藏自治区人大代表中，藏族和其他少数民族代表超过 80%。

中央和其他省市都有无偿的“援藏工程”；各地都选派一些优秀人才，支援西藏建设；内地一些学校还开设了“西藏班”，为来自高原的藏族孩子提供优质教育。

近年来，随着西部大开发战略的实施，国家投入巨资兴建青藏铁路，将为西藏经济腾飞奠定更加坚实的基础。

回答：

（4）唐朝时，称藏族为____，为加强对西藏地区的管理，元朝设置了____（2 分）。

（5）清朝前期，政府采取了哪些措施加强对西藏地区的管理？（4 分）

（6）从材料二看，新中国在西藏问题上采取了什么重大决策？（4 分）

（7）目前，我国修建青藏铁路需要克服的最主要的技术难题是（2 分）（ ）

A．高寒问题　　B．冻土问题　　C．缺氧问题　　D．风沙问题

（8）下图中②③④河流名称依次是：（2 分）

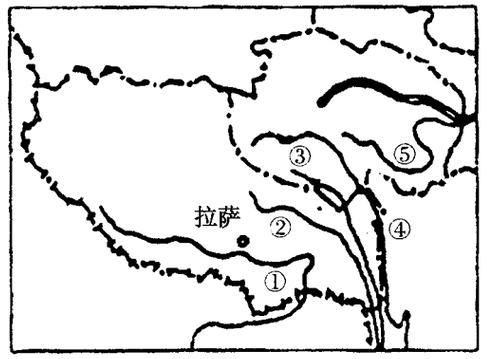

A．金沙江、怒江、澜沧江　　B．怒江、金沙江、澜沧江

C．怒江、澜沧江、金沙江　　D．澜沧江、怒江、金沙江

（9）为什么①河流峡谷地区的热带山地环境比北半球其他地区向北推移了 5～6 个纬度？_____。（6 分）

40．（40 分）我国东北地区幅员辽阔，风光秀美，土壤肥沃，蕴藏着丰富的资源。保卫、开发和利用好这块宝地，历来为我国政府和人民所重视。结合所学知识，回答下列问题：

（1）著名的三江平原是_____江、_____江、_____江冲积而成的。该平原的沼泽分布率达 20%，试分析其形成的自然原因：_____。（11 分）

（2）东北松嫩平原地区，主要的农作物是（2 分）（ ）

A．高粱、冬小麦、大豆、甜菜　　B．玉米、春小麦、甜菜、亚麻

C．水稻、燕麦、大豆、高粱　　D．烟叶、大豆、高粱、春小麦

（3）列举近代史上帝国主义侵略东北的史实（二例即可）。（4 分）

（4）试简析辽沈战役胜利的原因。（6 分）

（5）新中国成立之初，决定开发北大荒，变北大荒为“北大仓”，为国民经济的发展做出贡献。但与此同时，由于长期的排水、开垦和捕猎，破坏了湿地具有的蓄水、调节气候、河川经流的功能，影响了人民的生产和生活。2000 年，国务院下令停止围垦，并逐步退耕还湿地。这一过程体现了哪些哲学道理？（9 分）

（6）党中央、国务院作出“振兴东北”的战略决策有何经济、政治意义？（8 分）

天津市南开区 2004 年高中质量调查

5 A

文 科 综 合

本试卷满分为 300 分，考试时间为 150 分钟。

一、选择题（在每小题列出的四个选项中，只有一项是最符合题目要求的，并把正确答案的字母填在题后的括号内，每小题 4 分，共 140 分）

欧盟是当今世界一体化程度最高的区域政治、经济集团组织。读图 1，回答 1 ~ 3 题。

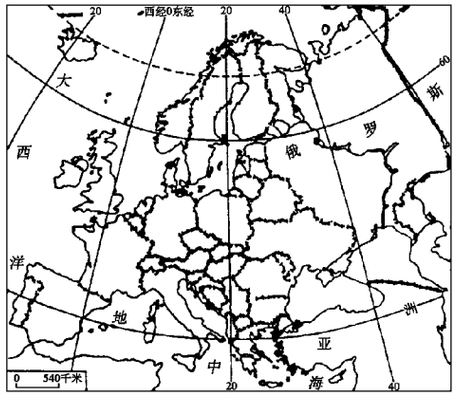

图 1

1．下列将于今年 5 月 1 日加入欧盟的几个国家中，属于前苏联加盟共和国的一组国家是 （ ）

A．爱沙尼亚、立陶宛

B．斯洛文尼亚、斯洛伐克

C．匈牙利、马耳他

D．拉脱维亚、波兰

2．欧盟目前成员国中，经济实力最强的国家 （ ）

A．该国的新兴电子工业城市慕尼黑位于莱茵河下游

B．该国首都既是本国最大港口，又是最大城市

C．在该国的农业现代化进程中，重视机械化，大力发展商品谷物农业

D．国内河网密布，可通向波罗的海、北海和黑海。河流水量丰富，利于航行

3．在欧盟扩大后的两个月的季节里，下列自然现象可能在欧洲出现的是 （ ）

A．沙尘暴席卷西欧平原

B．南欧三大半岛连日阴雨

C．阿尔卑斯山的雪线向一年中最高位置退升

D．斯堪的纳维亚北部出现极夜

读“南水北调”工程示意图，回答 4 ~ 7 题。

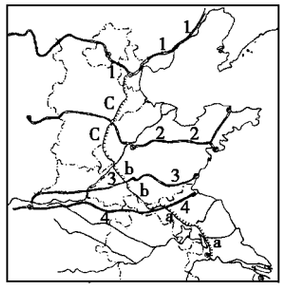

图 2

4．东线输水线路中，可以自流输水的河段是（ ）

A．a B．b

C．c D．bc

5．图 2 输水线路穿过的铁路中，直接联系国家和地区最多的是 （ ）

A．1 B．2

C．3 D．4

6．东线输水的终点地区，一年中用水最紧张的时期是 （ ）

A．冬季 B．秋末冬初 C．春季 D．春末夏初

7．东线输水的终点城市天津（117°E，39°N），在日出最偏东南的日子时，此日美国堪萨斯城（95°W，39°N）正午太阳高度达到最大值时，天津的时间和正午太阳高度是 （ ）

A．1 点 40 分，74°26′ B．21 点 20 分，43°34′

C．2 点 20 分，27°34′ D．22 点 40 分，51°

即将建立的中国—东南亚联盟自由贸易区，将使中国、东盟各国得到很多方面的利益，从而实现双赢格局。读图 3，完成 8 ~ 11 题。

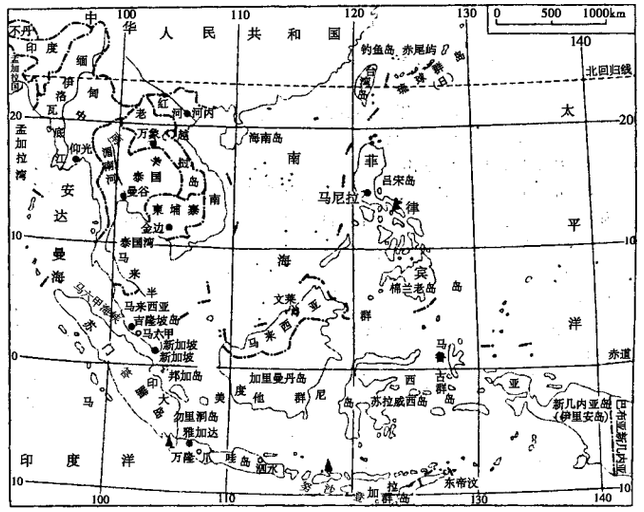

	2000 年	2010 年
总人口	18 亿	20 亿
GDP	950 美元	1050 美元

中国—东盟自由贸易区人口、经济预测

图 3

8．依照目前本区工业发展水平，在东南亚联盟各国中适宜大量投资的工业是

①原料指向型工业 ②市场指向型工业 ③动力指向型工业 ④廉价劳动力指向型工业 ⑤技术指向型工业 （ ）

A．①③ B．②④ C．③⑤ D．④⑤

9．新马泰是目前中国公民出境游的重要目的国。在新马泰地区稀缺的旅游景观是 （ ）

A．雨林景观 B．河谷景观 C．季雨林景观 D．活火山景观

10．对我国外贸的不正确认识是 （ ）

A．我国对外贸易由澳门转口的比例较大

B．内陆边疆的边境贸易不断发展

C．技术密集程度较高的机电产品出口增长明显

D．与贸易伙伴间的进出口商品存在一定的互补性

11．过春节是新加坡居民生活中喜庆、隆重的活动，这种文化传播，属于 （ ）

A．迁移扩散 B．传染扩散 C．刺激扩散 D．等级扩散

半个世纪来，最热的夏季考验着中国经济最繁荣的区域之一长江三角洲。而频频出现的拉闸限电对这一地区提出了严重警示，能源建设的瓶颈已经成为经济发展的阻力。回答 12 ~ 15 题。

12．该地区成为中国经济最繁荣区域之一的根本原因是 （ ）

A．市场观念超前发展 B．市场机制比较成熟

C．对外互利贸易和合作 D．该地区建设者的创新精神

13．解决电力瓶颈问题，需要鼓励民营经济投资热电、小水电等建设，给大电网以补充。这说明民营经济 （ ）

A．已成为我国经济发展的重要力量

B．是我国经济的主导力量

C．已成为社会主义经济的重要组成部分

D．是社会主义市场经济的主体

14．运用价格机制和加快全国联网，能有效地缓解电力供需矛盾。这表明

①国家宏观调控的主要任务是加强政府的计划性 ②市场经济是资源优化配置的有效形式 ③国家宏观调控能够有效克服市场的缺陷 ④价格和供求是相互制约的关系 （ ）

A．①② B．②③④ C．②③ D．①②③

15．2003 年 5 月，国务院审议批准了国家发展和改革委员会提出的 13 个电站建设，总投资额为 512 亿元。这一加强电力基础设施建设举措表明 （ ）

A．国务院是我国的最高权力机关 B．国务院行使最高决定权

C．国务院行使了管理经济的职能 D．国家预算需经国务院审批后方能生效

中国古代为了加强中央集权，对百官进行监察，形成了一套完整的监察制度。据此回答 16 ~ 18 题。

16．秦朝三公的权限中，属于御史大夫的是 （ ）

A．负责管理军事 B．负责国家监察事务

C．执掌群臣奏章 D．帮助皇帝处理政事

17．我国古代地方行政区划由郡县二级转变为州、郡、县三级制，是由于 （ ）

A．郡国并行制的实行 B．刺史监察权的实行

C．承袭了三公九卿制 D．尚书台权力的扩大

18．北宋在各州设通判监督知州，其作用是 （ ）

A．保证了中央的财政供给 B．加强了对地方司法的管理

C．加强了中央对地方的控制 D．削弱了地方割据势力

法制的进步是人类文明进步的重要标志之一。据此回答 19 ~ 21 题。

19．“自由”“平等”被资产阶级视为天赋人权，并写入《人权宣言》，其根本原因是 （ ）

A．反对封建等级制度的需要 B．反对君主专制的需要

C．商品经济发展的需要 D．维护私有财产的需要

20．1954 年宪法与 1949 年《共同纲领》在内容上的根本不同是 （ ）

A．规定的国家政体不同 B．只有宪法才规定人民的基本权利和义务

C．表现的阶级属性不同 D．规定的社会形态和体现的原则不同

21．2002 年 10 月 9 日《中华人民共和国法典》在人民大会堂举行首发式，该法典的出版发行体现了 （ ）

A．立法机关要严格按照立法程序制定法律，确保国家各项事业有法可依

B．社会主义政治文明的新发展

C．执法必严是实现依法治国的基础

D．要公正司法，严格执法

一般在社会转型时期，农业、农民和农村都会发生巨大变化。据此回答 22 ~ 24 题。

22．春秋战国时期，我国农业发生的重大变化是 （ ）

A．农作物品种迅速增加 B．出现了特色农业区

C．形成大农业生产格局 D．粮食产量迅速提高

23．20 世纪 50 年代，我国发生的下列历史事件中，未改变生产资料私有制，同时又促进生产发展的是 （ ）

A．没收官僚资本主义企业 B．开展土地改革运动

C．开展农业合作化运动 D．对资本主义工商业进行赎买

24．19 世纪中期是日本历史上重要的转折时期。此时日本社会经济领域发生的最重要变化是 （ ）

A．逐渐形成了中心城市 B．采用铁器和牛耕生产

C．农民普遍获得了土地 D．土地制度发生了变化

根据二战后世界经济政治形势变化发展回答 25 ~ 27 题。

25．二战后美苏争霸不同于一战前英德争霸的特点是

①争夺世界的霸主地位 ②以核武器作为争霸威慑力量 ③以军事集团为基础 ④反映出两种不同社会制度的较量 （ ）

A．②④ B．③④ C．①②④ D．②③④

26．1971 年，尼克松说：“在经济领导问题上，他们在全世界同我们竞争得非常激烈。……同我们在第二次世界大战结束时相比，美国遇到了我们甚至连做梦也没有想到过的那种挑战”这段话说的是 （ ）

A．西欧日本与美国的竞争 B．苏联与美国的争霸斗争

C．第三世界争取新经济秩序 D．美国国内严重的经济问题

27．导致为侵略战争翻案的日本右翼势力抬头的原因有

①日本军国主义没有被彻底根除 ②美国对日本的扶植 ③经济危机导致日本国内阶级矛盾激化 ④日本政府没有对战争责任进行深刻反思 （ ）

A．①②③ B．①②④ C．①③④ D．②③④

28．中华文明几千年来一脉相承，长期居于世界领先地位，这与中国自古至今重视人才有着极大关联。下列史实有利于人才的培养与选拔的是

①科举制的不断完善与发展 ②自古以来形成的比较完备的教育体系 ③近代以来的留学热潮 ④知识分子有较高的社会地位 （ ）

A．①②③ B．②③④ C．①②④ D．①②③④

2004 年 1 月 4 日、24 日先后在火星表面成功着陆的美国宇航局发射的“勇气”号、“机遇”号火星探测车开始了探索天体的演化过程，寻找生命存在的证据，进而揭示生命的起源的科学探测。回答 29、30 题。

29．美国宇航局发射的火星探测车按照预先设定的程序成功抵达火星，表明 （ ）

A．意识是人脑对客观物质的反映

B．只要发挥主观能动性，就能达到预期目的

C．实践是认识的惟一源泉

D．人类可以认识和利用规律

30．经过几十年的努力，人类已经对火星有了一定的了解，然而还是很初步的，揭开火星之谜还需要人类不懈的努力。这说明 （ ）

A．人类对事物的认识是无条件的

B．人类的认识需要随着实践不断深化、扩展、向前推移

C．人类对事物的认识能力是有限的

D．世界上存在人类无法认识的事物

中共中央国务院于 2003 年 11 月 27 日 ~ 29 日在北京召开了中央经济工作会议。中共中央总书记、国家主席胡锦涛明确提出了 2004 年经济工作的总体要求，着重强调了做好 2004 年经济工作需要把握的重要原则和重大问题。回答 31、32 题。

31．做好 2004 年经济工作，任务繁重而艰巨，既要看到我们面临的挑战和困难，更要看到我们的优势和发展的有利条件。这要体现的哲学原理是 （ ）

A．任何事物都有对立统一两个方面

B．任何事物都有优点和缺点

C．看问题、办事情要坚持两点论、两分法

D．坚持矛盾分析的方法，分析一切

32．2004 年经济工作必须紧紧抓住结构调整这条主线，加快发展第三产业，促进区域经济协调发展。从哲学上看。这是因为 （ ）

A．量变必然引起质变

B．第三产业是一个国家兴旺发达的主要标志

C．矛盾的主要方面决定事物的性质

D．事物内部结构和排列顺序的变化会引起质变

广大民工已成为我国社会转型中形成的一个新的劳动群体。目前进城务工的

农民多达 9400 万人，平均每 3 个产业工人中，就有 2 个来自农村。但是近年来，不法企业拖欠农民工工资，侵犯农民工合法权益已成为严重的社会问题。回答 33～35 题。

33．党中央国务院高度重视农民工工资拖欠问题，陆续出台了有关的法规政策。要求各级政府必须结合当地实际，采取措施积极解决，维护农民工合法权益。这主要体现了 （ ）

A．想问题、办事情要坚持用联系的观点和发展的观点
B．实践决定认识，认识对实践具有反作用
C．想问题、办事情要坚持一切从实际出发，实事求是
D．矛盾的普遍性和特殊性相结合的原理

34．从中央到地方各级行政主管部门，依法解决农民工工资拖欠问题，做到权为民所用，情为民所系，利为民所谋。这体现了

①国家机关对人民负责的原则　②“三个代表”重要思想的根本点和归宿是执政为民　③依法治国的原则　④国家机关维护社会稳定的职能 （ ）

A．①②④　B．①②③④　C．①③　D．①②③

35．从经济常识角度看，党中央、国务院高度重视解决拖欠农民工工资的问题体现了

①价值规律的调节作用　②国家的宏观调控起基础性作用　③社会主义的本质　④市场经济中的“有形手”和“无形手”的结合 （ ）

A．①②　B．①③　C．②④　D．③④

二、非选择题（共 160 分）

36．（16 分）读图 4，完成下列要求。

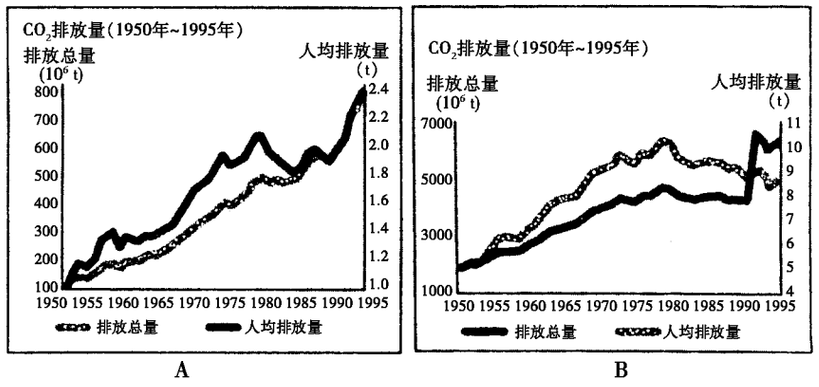

图 4

（1）图示内容为欧洲和南美洲 CO_2 排放情况资料。表现欧洲的是_____图，表现南美洲的是_____图。1995 年，欧洲人均排放量大约是南美洲人均值的_____倍。（3 分）

（2）B 地区人均排放量自上世纪七十年代末逐渐下降的主要原因有_____。（2 分）

与 B 地区相比，造成 A 地区 CO_2 浓度上升的特别原因是_____。（2 分）

（3）城市中心区大气污染和温室效应的主要污染源是_____，（2 分）对此，我们应采取的对策是_____，_____。（2 分）

（4）CO_2 排放量持续增加产生的严重后果是什么？

_____。（2 分）

为加强国际合作，共同减少 CO_2 的排放，不少国家签署了（3 分） （ ）

A．南极条约
B．保护臭氧层维也纳公约
C．京都议定书
D．联合国海洋法公约

37．读图 5，完成下列要求。

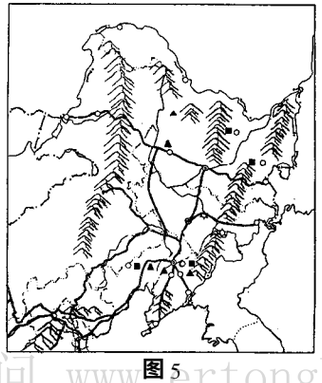

图 5

（1）该地区具有特殊生态意义的生态系统是_____。（1 分）其形成的原因主要有（4 分） （ ）

A．春季旺盛的蒸发
B．冻土的存在
C．黑土分布广泛
D．低温状态下的地表过湿

（2）该地区的_____平原和_____平原是我国最重要的商品粮基地之一。松辽平原的_____种植，已成为我国农业专业化生产的典范。（3 分）

（3）民俗文化常是反映地域环境的一面镜子。东北、云南、陕西民俗中的“怪”即说明了这一点。完成连线，并回答有关问题。（6 分）

①窗户纸糊窗外　反穿皮袄毛朝外　A．陕西
②袖珍小马有能耐　火车没有汽车快　B．云南
③面条如腰带　泡馍大碗卖　C．东北

（泡馍：用牛、羊肉浓汤泡制的一种食品）

简要说明三句民俗特征反映出的当地典型的地理环境特点：

_____。

（4）请将图中表示鞍山的符号涂黑，并将黑龙江省会填注在图上。作为我国的老工业基地，如何借鉴德国鲁尔区的整治经验，实现新时期的振兴？（6 分）

_____

_____

_____。

（5）运用经济学知识说明国家为什么要振兴东北老工业基地。（9 分）

_____。

（6）振兴东北老工业基地的举措蕴含了哪些哲学原理。（8 分）

_____。

38．阅读下列材料，结合所学知识回答相关问题。

材料 1：



1863年上海洪盛机器碾米厂

材料 2：　1913 年在中国的外商、华商煤矿比例一览表（%）

	年产 100 万吨以上	年产 10～99 万吨	年产 1～9 万吨	年产 1 万吨以下
外商企业	100	88.5	41.5	0
华商企业	0	11.5	59.5	100

——摘自汪敬虞《中国近代工业史资料》

1919 年全国各省注册工厂数量一览表

省区	江苏	浙江	广东	山东	福建	黑龙江	甘肃	陕西
数量	155	42	33	31	20	3	1	3

——摘自陈真《中国近代工业史资料》

材料 3：20 世纪初在上海、无锡等地投资实业的民族资本家荣宗敬、荣德生兄弟，被称为“面粉大王”，据统计，至 1936 年，荣家企业年产面粉 1694 万袋，约占当时全国（东北地区除外）总产量的 27%，拥有磨粉机 347 台，占全国总数的 28%。

——摘自《荣家企业史料》

材料 4：上海原有工厂四千多家，1946 年底已倒闭三千多家，占 78%；1947 年底的开工率仅为平时的 20%。

——摘自《中国近现代史》

材料 5：

上海工商界代表申请全行业公私合营

回答：

（1）上述材料反映了中国近现代史上怎样的历史现象？（4 分）

（2）根据材料 2 并结合所学知识，归纳我国民族工业的特点。（6 分）

（3）20 世纪初，荣氏兄弟的面粉业迅猛发展的原因是什么？（2 分）扼要分析这一发展对我国政治生活产生的重要影响。（4 分）

（4）造成材料 4 所反映的历史现象的原因是什么？（4 分）

（5）针对民族工业，新中国成立后到 1956 年，党和政府采取了哪些重大措施？（4 分）分析采取这些措施的原因。（4 分）

39．（16 分）天津市经过多年的经验积累，走出了一条通过建立有效的机制和制度，以保障下岗失业人员尽早实现就业和再就业的新路。市委、市政府批准实施的《天津市 2003 年至 2005 年再就业规划纲要》中的十项政策，实实在在地体现了建立社会保障制度所要坚持的既要有利于生产，又要保障基本生活；劳动者的权利和义务相统一，这两个基本原则。

阅读材料，回答下列问题：

（1）依据所学政治常识，说明市委、市政府为什么要完善社会保障制度，尽早实现下岗失业人员的就业和再就业？（8 分）

（2）天津市再就业形势喜人。但是，仍有人一再失去就业机会。有人认为，“要保障下岗失业人员再就业的关键，是市政府能够提供更多的就业岗位”，应如何看待这种观点？（8 分）

40．读台湾岛地形剖面图，回答问题：



台湾岛的地形剖面图（沿北回归线附近）

（1）在图中标出台湾海峡。（1 分）

（2）台湾海峡是如何形成的？（4 分）

（3）由图中信息可看出台湾山脉的最高峰_____海拔接近 4000 米，使得自然景观的_____非常明显。500 米以下属_____景观。森林资源丰富，在种类繁多的林木中_____尤为著名，_____产量居世界首位。（5 分）

（4）请以史实简要说明：台湾自古以来就是中国领土不可分割的一部分。（6 分）

（5）近年来，台湾当局在海峡两岸问题上不断制造麻烦，现在又就“公投立法”挑起事端，造成台海紧张局势。国际社会纷纷发表声明，支持一个中国。回答：台湾问题是如何造成的？（2 分）

（6）我国政府解决台湾问题的具体方针是什么？（2 分）我国政府不承诺放弃武力解决台湾问题，其理由是什么？（4 分）

41．（39 分）2003 年 10 月 15 日 9 时，我国的“神舟”五号载人飞船，在酒泉卫星发射中心成功升空。飞船绕地球飞行 14 圈后，于 16 日 6 时 23 分，在我国内蒙古中部草原地区成功着陆。

（1）读右图，请回答：



①“神舟”五号的发射地点和着陆地点分别是图中字母_____处、_____处。（2 分）

②“神舟”五号的发射基地与西昌卫星发射基地地理环境比较：_____低，_____多。（4 分）

③“神舟”五号选择在内蒙古中部降落的主要原因是_____、_____。（4 分）

（2）近代以来，智慧的中国人为改变我国科技落后状况，在科技强国上进行了不懈的努力，主张引进西方先进科技成就。

①试指出地主阶级所提出的口号及其重大活动，并简要分析未成功的原因。（4 分）

②戊戌变法的变法法令为发展科技提出了哪些主张？为什么它不能改变我国科技落后的面貌？（6 分）

（3）我国“神舟”五号载人飞船的飞行成功，是我国实施“科教兴国”战略的结果。

①运用所学经济常识说明我国为什么要实施“科教兴国”的战略？（10 分）

②我国载人航天工程，这一“科教兴国”的重大战略决策，体现了哪些政治道理？（9 分）

需要全本请访问 www.ertongbook.com

杭州市 2004 年第二次高考科目教学质量检测

6 A

文 科 综 合

本卷分第Ⅰ卷和第Ⅱ卷，满分 300 分。考试时间 150 分钟。

第Ⅰ卷（选择题，共 140 分）

一、本卷共 35 小题，每小题 4 分，共计 140 分。在每小题列出的四个选项中，只有一项是符合题目要求的

右图表示，当地面空气上升到 3000 米高度时，理论温度为 T，而此时 3000 米高空的实际温度为 T1。当 T1 ≥ T 时，空气上升就会受阻，即出现了逆温现象。右图为我国东部某城市某日气温日变化示意图，据此回答 1～3 题。

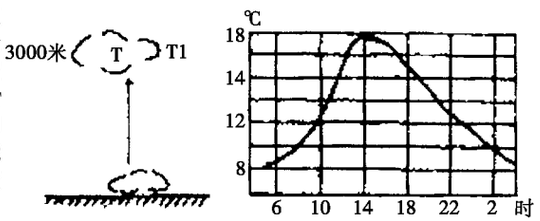

1．若 T1 稳定在 －8℃，则该城上空逆温现象消失的时间起码在 （ ）

A．日出之后　　B．6 ∶00 之后　　C．8 ∶00 之后　　D．日落之后

2．一般逆温结束后两小时，近地面对流才能起到“净化”空气的作用。而当地环保监测部门发现，该城大气中有毒气体（如 NO_x、SO_2）含量具有明显的日变化特点（见上图）。如果考虑以上因素，该城市居民的最佳室外锻炼时间应该是 （ ）

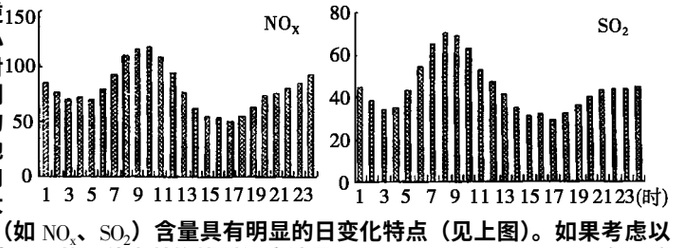

A．日出之前　　B．8 ∶00～10 ∶00　　C．10 ∶00～12 ∶00　　D．15 ∶00～17 ∶00

3．据国家环保局公布的数字显示，我国南方城市的酸雨频率明显高于北方城市。其主要原因可能为 （ ）

A．南方城市的酸雨主要不是含硫的酸雨

B．北方城市二氧化硫排放量比南方城市少

C．北方城市降水的机会比南方城市少

D．北方的土壤大多偏碱，南方的土壤大多偏酸

读我国某地等高线地形示意图，回答 4、5 题。

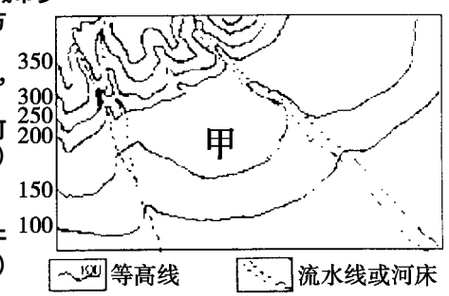

4．右图甲所代表的地形最有可能是 （ ）

A．冲积扇　　B．火山口

C．新月形沙丘　　D．三角洲

5．在自然环境没有遭到破坏的干旱半干旱区，甲地往往会形成 （ ）

A．绿洲　　B．固定沙丘

C．流动沙丘　　D．沼泽地

读右图，回答 6、7 题。

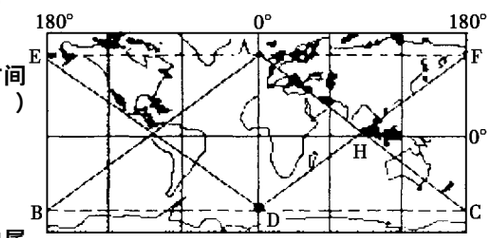

6．若 AB 为昏线，则北京时间为 （ ）

A．6 月 22 日8 ∶00

B．6 月 22 日20 ∶00

C．12 月 22 日20 ∶00

D．12 月 22 日8 ∶00

7．若 DF 为昏线，东半球内属于 22 日的范围可能是 （ ）

A．160°W 向东至 20°E 之间　　B．20°W 向东至 160°E 之间

C．0°向东至 160°E 之间　　D．0°向东至 180°之间

下边是我国某地区自然景观分布剖面示意图，据此回答 8～11 题。

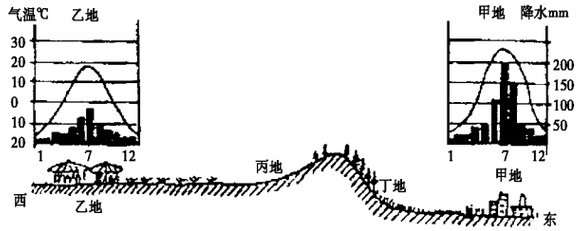

8．根据图中反映的信息，甲地广泛分布的肥沃土壤最有可能是 （ ）

A．黄土、棕壤　　B．红壤、紫色土

C．黑土、黑钙土　　D．砖红壤、栗钙土

9．计划在图中甲、乙、丙、丁四地进行不同类型的农业生产活动，其中合理的是 （ ）

A．甲处开荒种玉米　　B．乙处垦殖种水稻

C．丙处发展棉花生产　　D．丁处广泛建茶园

10．甲、乙两地各有一河流经过，两河补给情况如下表。下列叙述正确的是 （ ）

A．甲河水量主要随降水的季节变化而变化，乙河的水量主要随温度的季节变化而变化

B．甲河和潜水之间具有互补关系，乙河则单向补给潜水

C．甲、乙两河由于有季节性积雪融水补给，都会形成明显的春汛

D．我国各河中，具有与甲河相似径流量季节变化特征的是松花江，具有与乙河相似的径流量季节变化特征的是塔里木河

补给类型及补给量	甲河				乙河			
	冬	春	夏	秋	冬	春	夏	秋
地下水	5	5	5	5	2	2	2	2
积雪融水	0	13	0	0	0	15	0	0
冰川融水	0	0	0	0	0	0	0	0
雨水	0	10	32	20	0	0	20	0
其他	0	2	10	5	0	0	0	0
合计	5	30	47	30	2	17	22	2

11．甲城是重要的老工业基地，计划在近年内对产业结构进行重大调整，其中合理的 （ ）

A．依托当地资源优势，大力发展有色金属冶炼工业

B．发挥技术优势，建立汽车零部件生产基地

C．积极引进外资，建立大型钢铁联合企业

D．为解决甜菜制糖厂生产能力过剩问题，将部分糖厂改造为甘蔗制糖联合企业

文明是指人类社会历史发展过程中所创造的物质财富和精神财富。西方某历史学家曾说：“在整个第七、八、九世纪中，中国是世界上最安定最文明的国家……当西方人的心灵为神学所缠迷而处于蒙昧黑暗之中时，中国人的思想却是开放的、兼收并蓄而好探索的。”据此回答 12～16 题。

12．这个时期中国成为世界上最文明国家的有力佐证是 （ ）

A．形成中华文化圈

B．出现“百家争鸣”的繁华景象

C．指南针、火药、印刷术三大发明出现

D．远洋航行到达非洲东海岸

13．这个时期中国成为世界上最安定最文明国家的主要原因，不包括 （ ）

A．实行开放的对外政策　　B．社会出现重大变革

C．实行开明的民族政策　　D．长期稳定的政治局面

14．世界文化遗产是指被联合国教科文组织和世界遗产委员会确认的世界罕见的无法替代的财富，是人类文明的结晶。1987 年 12 月，敦煌莫高窟被列为世界文化遗产，下列说法不正确的是 （ ）

A．该遗产中的最精美部分都是这一时期的作品

B．是世界上规模最大、保存最完整的佛教艺术宝库

C．位于甘肃敦煌鸣沙山崖壁上

D．是我国最早反映佛教文化的艺术宝库

15．最早把西方人的心灵从蒙昧黑暗之中解放出来的重大历史事件是 （ ）

A．启蒙运动　　B．文艺复兴

C．新航路的开辟　　D．英国资产阶级革命

16．这一重大历史事件是一场意识形态领域的斗争，其指导思想是 （ ）

A．理性主义思想　　B．科学社会主义思想

C．人文主义思想　　D．制约和平衡的思想

以法治国一直是人们的追求，但在不同的历史时期，人们对法治的认识是不同的。据此回答 17～20 题。

17．管仲认为：“法者，天下之程式也。……夫生法者君也，守法者臣也，法于法者民也。”下列对于管仲这句话的解读，不正确的是 （ ）

A．法是天下人的行为规范　　B．法应该由君主制定，让臣民遵守

C．其核心是建立君主专制　　D．其思想深受法家思想的影响

18．黄宗羲认为：“然则其（封建国家）所谓法者，一家之法而非天下之法也。……即论者谓有治人无治法。吾以谓有治法而后有治人。”黄宗羲思想的核心是 （ ）

A．建立一家之法　　B．法律是由人来决定的

C．反对君主制，实行法治　　D．建立君主立宪制

19．孟德斯鸠在《论法的精神》中指出：“一个公民的政治自由是一种心境的平安状态。这种心境的平安状态是从人人都认为本身是安全的这个看法产生的。要享有这种自由，就必须建立一个政府。在它的统治下一个公民不惧怕另外一个公民。”结合所学知识，指出孟德斯鸠“法治”思想的实质是 （ ）

A．必须重视公共意志　　B．必须废止专制，实现分权

C．必须实行开明君主专制　　D．必须崇尚人性，摆脱神权桎梏

20．下列对于上述三位思想家“法治”思想的评价，不正确的是 （ ）

A．在其所处时代都具有进步性，体现了时代要求

B．都深深地带有民主的色彩

C．体现了社会存在决定社会意识的原理

D．人们对法治的认识是不断深化提高的

阅读《19 世纪晚期英国海外贸易示意图》，回答 21～23 题。

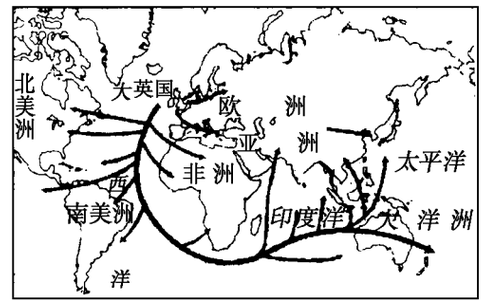

21．图中所揭示的历史信息是 （ ）

A．资本主义世界市场初步形成　　B．英国开始成为“世界工场”

C．英国的海外市场急剧萎缩　　D．英国的世界霸主地位开始确立

22．这一时期英国的海外贸易状况，表明 （ ）

A．英国的资本输出被美国超过，居世界第二位

B．英国仍然是世界上最大的殖民帝国

C．英国通过更新生产设备和采用新技术来推动海外贸易的发展

D．大量欧洲资本涌入英国

23．二十世纪七八十年代，英国为了更好地参与经济竞争，采取的重大举措是 （ ）

A．充分利用美国的援助

B．与西欧其他国家紧密联系，开始一体化进程

C．实行非军事化

D．开始在英帝国内实行互惠关税

中国政府在今年初推出了旨在“富农”“重农”的“一号文件”——《中共中央国务院关于促进农民增加收入若干政策的意见》，以引领九亿农民增收。据此回答 24～27 题。

24．“一号文件”的主要精神是“还农民公平税负”，这是 （ ）

A．减轻农民负担的惟一办法

B．农村经济发展的根本途径

C．增加农民收入的有效措施
D．推进农村城镇化的具体措施

25．在贯彻“一号文件”过程中，北京、杭州、延安等地方政府不约而同地宣布免征本市农民的农业税。这是因为免征农业税
①有利于遏制粮食种植面积的下滑　②有利于减轻农民负担　③有利于增加农民的就业机会　④有利于缩小城乡居民收入差距　（　）
A．①②④　B．①②③　C．②③④　D．①③④

26．贯彻“一号文件”解决“三农”问题，必须“跳出农业解决农业问题”。这主要体现了　（　）
A．抓住事物主要矛盾的工作方法
B．用一分为二观点看问题的方法
C．从整体上把握事物联系的工作方法
D．注重量的积累促成事物飞跃的工作方法

27．从政治常识角度看，“富农”“重农”　（　）
A．是建设社会主义政治文明的重要内容
B．是国家对人民负责的具体表现
C．不利于正确处理人民内部矛盾
D．是创造良好国际经济新秩序的举措

根据十六届三中全会提出的修宪建议，十届全国人大二次会议对我国现行宪法进行了修改，这是现行宪法21年来的第四次修改。宪法的进一步修改为我国推进依法治国提供了有力的法源依据。据此回答28、29题。

28．本次宪法修改体现了
①中国共产党在社会主义事业中的核心地位　②全国人大在国家机构体系中的核心地位　③人民民主在国家政治生活中的核心地位　④宪法在我国法律体系中的核心地位　（　）
A．①②③　B．②③　C．①④　D．①②③④

29．修改后的宪法增加了征用土地补偿条款、鼓励非公有制经济条款，提出了私有财产不受侵犯等反映我国经济、社会发展要求的新内容，这说明　（　）
A．社会意识的变化反映了社会存在的发展
B．社会意识对社会存在具有能动的反作用
C．社会意识总是能推动社会存在向前发展
D．社会意识的变化总是滞后于社会存在的变化

市场经济是信用经济。目前，信用缺失已成为我国社会主义市场经济发展的“瓶颈”。据此回答30～33题。

30．市场经济是信用经济，这意味着　（　）
A．商品的价值必须和使用价值相符　B．商品价格必须与商品的价值相符
C．商品交换必须遵循等价交换原则　D．商品的价值必须和交换价值相符

31．在我国，信用缺失的现实原因是
①我国的市场竞争日趋激烈　②有些企业经营者缺乏诚信意识　③我国的法律法规和失信惩罚机制不健全　④传统的计划经济体制的影响　（　）
A．①②　B．①③④　C．②③④　D．①②③④

32．为打造信用企业，某股份有限公司提出了“成就顾客，回报股东，富裕员工，造福社会”的企业使命；“以客为本，以信立市”的经营理念；“重顾客，重品质，重改进，重创新”的质量观；“欲胜市场必自强”的竞争观。其中，最能体现“整体观念”和“内因是事物变化发展的根据”这一哲理的分别是　（　）
A．该公司的企业使命和经营理念　B．该公司的企业使命和竞争观
C．该公司的质量观和经营理念　D．该公司的经营理念和竞争观

33．“以客为本，以信立市”的经营理念直接体现了
①以市场为导向，生产要适销对路的市场观　②诚实信用是市场交易活动的基本精神　③经济效益是企业经济活动的根本出发点　④公平原则是衡量市场交易活动是否有序的试金石　（　）
A．①②　B．③④　C．②③　D．①④

温家宝总理在向十届人大二次会议所作的《政府工作报告》中指出，力争用三年时间，基本建成覆盖城乡、功能完善的疾病预防控制和救治体系，提高应对重大传染病等突发公共卫生事件的能力。回答34、35题。

34．这一目标的提出　（　）
A．既重视了物质的客观性，又发挥了人的主观能动性
B．既承认了矛盾的普遍性，又重视了矛盾的客观性
C．既反映了联系的客观性，又体现了联系的多样性
D．既看到了现象的主观性，又看到了本质的客观性

35．建设疾病预防控制和救治体系，属于　（　）
A．政府的经济职能　B．政府的政治职能
C．政府的公共服务职能　D．政府的文化职能

第Ⅱ卷（非选择题，共160分）

二、非选择题　本卷共6小题，共160分

36．复种指数是一农业地区一年内作物播种面积与耕地面积之比。读“中国耕地复种指数图”，完成下列各题（22分）

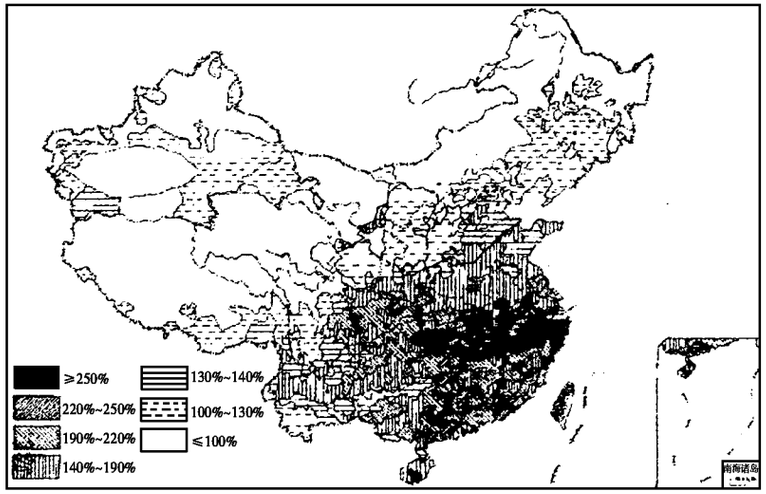

中国耕地复种指数图（引自吴传钧等《中国土地利用》）

（1）复种指数最高的区域集中于_____。（2分）

（2）复种指数最低的省级行政区是_____、_____、_____和_____。（10分）这些地区复种指数低的自然原因分别是什么？社会原因又是什么？（10分）

37．右图为我国某区域“日平均气温稳定超过≥5℃的积温”图，完成下列各题：（14分）

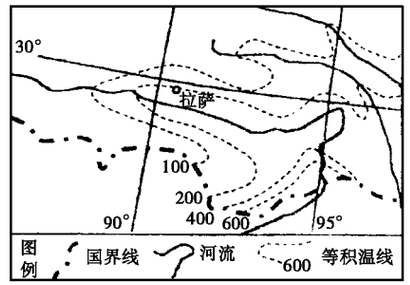

（1）请在图上绘出150的等积温线。（4分）

（2）描述该地等积温线的分布特点。并分析这一分布特点的原因。（提示：可从气候要素和河流、地形的角度考虑）

38．唐代以来，江浙一带的经济地位逐渐上升，据此回答以下问题：（32分）

（1）唐代后期，江浙一带经济地位上升的表现有哪些？（3分）

（2）江浙地区在唐代对外贸易繁荣的原因有哪些？（6分）这种繁荣对古代江浙经济发展产生了怎样的影响？（4分）

（3）到了近代，江浙一带传统经济的发展趋势如何？为什么？（6分）

（4）十一届三中全会后，江浙一带的工业经济又获得了迅速发展，分析其原因。（6分）

江浙一带是中国古文明的发祥地之一，历史悠久，文化发达。省会南京与杭州都是我国著名的七大古都之一，有着极为丰富的历史遗存和文化积淀。在新的历史时期，作为历史文化名城，它们既展现出古朴的风貌，又焕发出新的风采。

（5）南京被称为“六朝古都”，为什么？古代把杭州称为“最美丽华贵之城”的外国旅行家是谁？（3分）

（6）历史文化名城的保护任重道远，请你为保护历史文化名城提一些建设性的意见。（4分，只要言之成理，即可酌情给分）

39．汇率又称汇价，是两种货币之间的兑换比率。人民币汇率变化对我国的经济发展会产生重要影响，这种影响是一柄“双刃剑”。

试用两点论和重点论统一的方法分析人民币升值对我国经济的影响。（10分）

40．材料一：一段时间以来，一些干部在“发展”问题上产生了很大的误区，把“发展是硬道理”片面地理解为“经济增长率是硬道理”，把“以经济建设为中心”视为“以速度为中心”，把经济发展简单化为GDP决定一切。在这种片面发展观的指导下，很多地方的考核主要以GDP为主，而其他如环境、资源、教育、文化、卫生等得不到应有重视。

材料二：党的十一届三中全会以后，国家的工作重心由阶级斗争转向经济建设，这对于改善人民生活，促进我国经济发展起到了积极的作用。进入80年代，我国开始由片面强调经济发展转向重视经济社会的协调发展，但它仍忽视了人和自然的关系。进入90年代，我国又提出了可持续发展战略，它强调人们在满足当代人需要的同时，又不损害子孙后代的生存发展需求。进入21世纪，党的十六届三中全会的《决定》进一步指出：要“坚持以人为本，树立全面、协调、可持续的发展观，促进经济社会和人的全面发展。”

阅读上述材料回答：（共40分）

（1）运用经济学知识回答：GDP是什么经济指标的英文缩写？对照全面建设小康社会的目标，应如何辩证地认识这一指标？（12分）

（2）中国共产党为什么能提出“以人为本”的科学发展观？（9分）

（3）从“以经济建设为中心”到“以人为本”的科学发展观的提出体现了辩证唯物主义认识论的哪些道理？（要求答出三个要点，共9分）

（4）读下图回答：美国五大湖工业区和“硅谷”发展的地理背景有哪些不同？（10分）

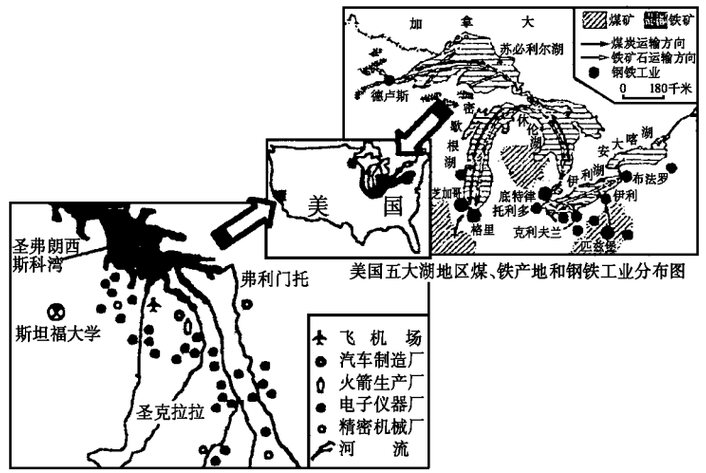

美国五大湖地区煤、铁产地和钢铁工业分布图

41．泛亚铁路的规划修建与湄公河流域的共同开发，为我国西南地区的发展创造了良机。回答下列问题。（共42分）

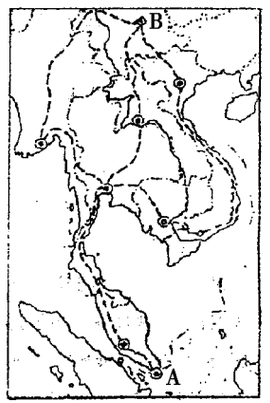

-----泛亚铁路规划线路

（1）从该铁路的起点B到终点A所经过的气候区是亚热带季风气候、_____气候和_____气候。（4分）

从地理的角度分析该铁路的修建对我国西南地区特别是云南经济发展的作用。（6分）

（2）试用史实概述我国古代唐朝至清朝前期开发西南的主要方式。（8分）

（3）西南地区具有悠久的革命传统，在中国近代救国救民、探索民族独立的进程中，西南地区发生许多重大事件，请结合有关史实加以说明。（只要言之成理，皆可酌情给分。6分）

第二次世界大战后，帝国主义在亚洲的殖民体系遭到了毁灭性打击，亚洲国家纷纷摆脱了殖民统治，走上了独立发展民族经济的道路。

（4）运用所学知识回答，第二次世界大战以后，东南亚经济发展对我国西南地区的开发，有哪些可以借鉴的经验？（6分）

东盟是我国的近邻，我国一贯重视发展和东盟国家的经贸关系，2003年10月7日，国务院总理温家宝出席了在巴厘岛举行的第七次东盟与中日韩（10＋3）领导人会议并宣布中国与东盟建立“面向和平与繁荣的战略伙伴关系”。

（5）中国与东盟建立“面向和平与繁荣的战略伙伴关系”有何政治经济意义？（12分）

福建省达标中学 2004 年高中毕业班质量检查

7 A

文 科 综 合

本试卷分第Ⅰ卷（选择题）和第Ⅱ卷（非选择题）两部分，满分 300 分。考试时间 150 分钟。

第Ⅰ卷（选择题，共 140 分）

一、本卷共 35 小题，每小题 4 分，共计 140 分。在每小题列出的四个选项中，只有一项是最符合题目要求的

读图 1，图中 OP、EF 为地球公转到远日点附近时的晨昏线，回答 1～3 题。

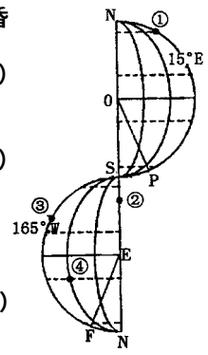

图 1

1．此时北京时间可能是 （ ）
A．7 月 6 日 7 时　B．1 月 6 日 7 时
C．7 月 6 日 19 时　D．1 月 6 日 19 时

2．该季节能够发生的现象是 （ ）
A．墨累—达令盆地正值小麦开始播种的时节
B．黄淮海平原盐碱地含盐量较小
C．旅游活动对庐山、黄山的环境污染最小
D．珠穆朗玛峰的雪线海拔高度降到最低位置

3．关于图中①、②、③、④四地的叙述，正确的是 （ ）
A．该日四地正午太阳高度由大到小依次是④、③、②、①
B．①在②的东北方向，③在④的西北方向
C．此时四地白昼由长到短依次是①、②、③、④
D．①、②位于东半球，③、④位于西半球

读图 2“中纬度某地某日河流、晨线、风向、等值线的组合图”，回答 4、5 题。

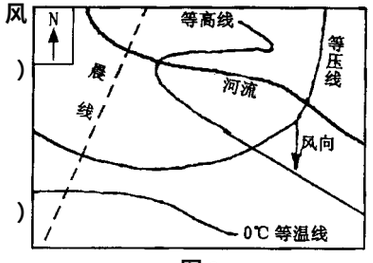

图 2

4．该地区 （ ）
A．位于南半球
B．该日昼长夜短
C．图示河段无凌汛现象
D．典型植被为热带季雨林

5．此时，下列现象可能发生的是 （ ）
A．中国长城站出现极昼现象
B．法国马赛的海滨浴场人满为患
C．尼罗河河口表层海水盐度达到一年中最小值
D．巴西首都四周的草原一片葱绿

读图 3“我国 7 年后部分行业就业人数增长情况预测”，回答 6～8 题。

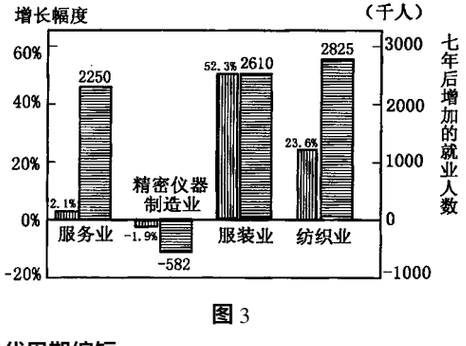

图 3

6．当前，下列行业部门中就业人数最多的是 （ ）
A．服务业
B．纺织业
C．服装业
D．精密仪器制造业

7．未来七年，纺织业、服装业就业人数增长幅度较大的主要原因是 （ ）
A．现代科技进步，产品更新换代周期缩短
B．信息通信网络发展，对外联系加强
C．市场环境变化，对纺织、服装产品的需求增加
D．纺织业、服装业所用原料的范围越来越广，产品种类不断增多

8．为缓解严峻的就业形势，今后我国扩大劳动就业的主要出路在于 （ ）
A．完善就业服务体系，保障劳动者的劳动权
B．调整产业结构，优先发展服装纺织业
C．坚持科教兴国，发展高科技产业
D．根据我国国情，加快发展第三产业

读图 4，其中 a 图为某地气温与降水量示意图，b 图为盛行风向（气流）与河流流量示意图，c 图为盛行风向与雨量示意图，回答 9～11 题。

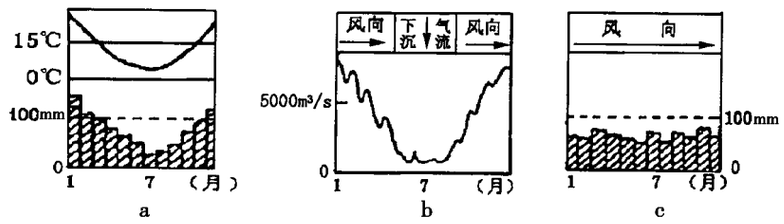

图 4

9．下列农业区的气候特征与 a 图类似的是 （ ）
A．阿根廷的潘帕斯草原　B．美国的五大湖地区
C．中国的三江平原　D．法国的巴黎盆地

10．适宜在 b 图所示气候环境下生长的农作物或水果是 （ ）
A．甜菜　B．青稞　C．椰子　D．葡萄

11．北半球某城市的气候特征如 c 图所示，若该城要建一个火力发电厂，从环境效益考虑，最合理应建在城市的_____郊区。 （ ）
A．东北部　B．西南部　C．南部　D．西北部

读图 5“沿 32°N 局部地区地形剖面图”，回答 12、13 题。

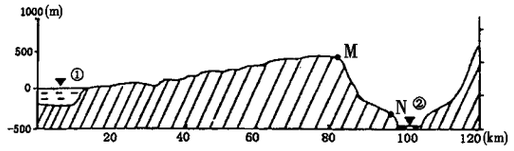

图 5

12．图中①、②分别是 （ ）
A．地中海　波斯湾　B．地中海　黑海
C．地中海　死海　D．苏伊士运河　死海

13．关于图中 M、N 两地地球自转线速度的叙述，正确的是 （ ）
A．M＞N　B．M＜N　C．M＝N　D．无法确定

商业的发展离不开市场，市场的开拓和争夺是古今商业活动的重要内容。结合相关知识回答 14～16 题。

14．下列关于唐朝市场的表述，准确的是
①政府对城市的市场进行严格管理　②“草市迎江货”反映了长江沿岸城市的繁盛　③市场金融服务领先于欧洲　④繁华的夜市是唐前期中原城市的一大特点 （ ）
A．①②　B．①③　C．③④　D．②④

15．美日在中国对外贸易总额中所占比重变化表

	1895 年	1899 年	1913 年	1918 年	1921 年
美国		9.5%	7.6%	12.8%	17.3%
日本	3%	11.5%	19.7%	38%	25%

上表数据反映了 （ ）
A．中国对外贸易处于入超地位　B．一战期间及战后初期美日在华争夺激烈
C．美日侵华方式以资本输出为主　D．中国经济的半殖民地化加深

16．20 世纪，争夺世界市场的斗争十分激烈。不能反映该特点的是 （ ）
A．《九国公约》　B．苏俄新经济政策
C．两次世界大战　D．欧洲共同体的建立

19 世纪中期，中国出现外资企业、洋务企业和民族资本主义企业三种新的经济成分。结合相关知识回答 17～19 题。

17．它们的共同特征是 （ ）
A．资本主义性质　B．私人经营
C．使用机器生产　D．产品完全投放市场

18．它们同自然经济的关系是 （ ）
A．互相依赖　B．不同程度瓦解着自然经济
C．既互相依赖又互相瓦解　D．继承发展

19．一战期间，民族资本主义发展的特点不包括 （ ）
A．没有形成独立完整的工业体系　B．与自然经济相比仍不占优势
C．轻重工业比例严重失调　D．民族资本所占比重首次超过外国资本

科学技术的进步与人类认识的飞跃互相促进。结合相关知识回答 20～23 题。

20．英国科学史专家李约瑟将中国称作“发明与发现的国度”。下列表述准确的是 （ ）
A．《甘石星经》留下了关于哈雷彗星的最早记录
B．毕升发明的雕版印刷术推动了人类文明的进程
C．张衡制作的地动仪是世界上第一台预测及防震仪器
D．《本草纲目》包含着生物进化和遗传变异思想

21．最早记述图 6 所示地貌特征的是 （ ）
A．徐霞客　B．宋应星
C．郦道元　D．沈括

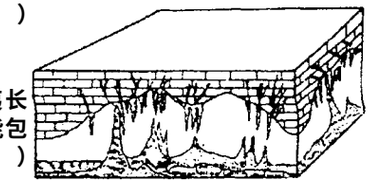
图 6

22．魏源在《海国图志》中提出“师夷长技以制夷”。他所说的“长技”在当时不可能包括 （ ）
A．蒸汽机　B．火车
C．汽车　D．轮船

23．“我在月球上迈出的一小步，是人类迈出的一大步。”这位迈出“一小步”的宇航员来自 （ ）
A．苏联　B．英国　C．法国　D．美国

2004 年 3 月新修订的我国宪法，增加了“公民的合法的私有财产不受侵犯”的条文，完善了对私有财产保护的规定。回答 24～27 题。

24．下列西方法律文件中，最早明确载有私有财产神圣不可侵犯条款的是 （ ）
A．英国《权利法案》　B．《拿破仑法典》
C．法国《人权宣言》　D．1787 年美国宪法

25．我国此次修宪完善对私有财产保护的规定，意义在于 （ ）
A．确立了非公有制经济作为社会主义经济重要组成部分的法律地位
B．有利于改善投资环境，促进市场经济的发展
C．有利于保护弱势群体，缩小贫富差距
D．确定了我国公民私有财产的合法性

26．“公民的合法的财产不受侵犯”这一宪法条文是在广泛听取各个方面、阶层的意见与建议、反复商议的基础上，形成草案，最后由全国人大表决通过。这体现了
①民主集中制是我国国家机构的组织活动原则　②社会主义民主具有真实性、广泛性　③法律是社会各个阶级阶层意志的反映　④社会主义政治文明得到全面落实 （ ）
A．①②　B．②④　C．①②④　D．①②③④

27．上题材料表明 （ ）
A．整体是由部分组成的
B．每一事物都与周围事物处在联系之中
C．人民群众是社会精神财富的创造者
D．感性认识的积累就会形成理性认识

十届全国人大二次会议通过的政府工作报告，列出了要为群众办 7 件大事的时间表。回答 28～30 题。

28．今年 7 月 1 日起，各级政府要认真执行《中华人民共和国行政许可法》。这意味着 （ ）
A．各级政府都将自觉规范自己的行为
B．政府行为开始有法可依
C．政府只能按法定权限和程序办事
D．政府职能将逐步削弱

29．我国力争用三年时间基本建成覆盖城乡、功能完善的疾病预防控制和救治体系，提高应对突发公共卫生事件的能力。这说明了 （ ）
A．生命健康权是我国公民最基本的权利
B．突发公共卫生事件成为我国发展的首要威胁
C．国家财政支出将重点转向卫生事业

D．国家在社会管理中坚持以人为本

30．我国于今年启动西部地区“两基”攻坚计划，到2007年使西部地区基本普及九年义务教育，基本扫除青壮年文盲，以促进西部发展。这体现的哲学道理是（　　）

A．量变是质变的前提和必要准备

B．抓住主要矛盾就能促进事物发展

C．改造主观世界能够更好地改造客观世界

D．意识能有效地指导人们的实践活动

中华民族历来崇尚诚信，历史上留下了许多关于诚信的名言。回答31～33题。

31．《明儒学案》上有“一诚足以消万伪，一敬足以敌千邪”的说法。企业从中得到的警示是（　　）

A．必须诚实待人，减少竞争　　B．应该遵守市场交易原则

C．需要提高经营者业务素质　　D．必须遵循市场经济规律

32．唐代《贞观政要》中说：“言而不行，言无信也；令而不从，令无诚也。不信之言，无诚之令，为上则败德，为下则危身。”（注：上——君；下——臣。）这对我国各级政府的启示是

①要在社会诚信上起表率作用　②着力建设社会信用机制　③坚持依法治国与以德治国　④加强作风建设，严惩腐败（　　）

A．①②④　　B．①③④　　C．②③④　　D．①②③

33．杨泉的《物理论》指出，“以信接人，天下信之；不以信接人，妻子疑之。”这句话蕴含的哲理是（　　）

A．矛盾双方在一定条件下可以相互转化

B．事物的性质主要由矛盾的主要方面规定

C．价值观对人们的行为具有正确的导向作用

D．外因是事物变化发展的条件

2003年10月，第七次东盟与中日韩领导人会议召开，中国作为第一个非东盟国家正式加入《东南亚友好合作条约》，这是中国第一次同一个地区组织结成战略伙伴关系。回答34、35题。

34．中国与东盟结成战略伙伴关系（　　）

A．体现了市场经济平等性的特征

B．反映了区域集团化、政治一体化的趋势

C．适应了生产社会化特别是经济全球化的要求

D．反映了国际经济旧秩序的根本改变

35．会上，中国还与东盟决定：从2004年起，一年一度的“中国——东盟博览会”将在中国南宁举办。这对我国来说，能够（　　）

A．促进少数民族地区的发展，缩小地区差距

B．加快与东盟国家结盟，促进地区和平发展

C．消除各民族间的差异，实现民族平等

D．消除与别国意识形态差异，扩大对外开放

第Ⅱ卷（非选择题，共160分）

二、本卷共5小题，160分。按下列各题的要求回答问题

36．水资源是人类共同关心的问题，联合国将2003年定为“世界淡水年”。（32分）

（1）根据图7，简要概括我国水资源的现状并分别指出其主要原因。（8分）



图7　人均径流量（立方米/人·年）

读“江苏省和宁夏回族自治区水资源利用情况对比表”，回答（2）～（3）题：

省级行政区	人均用水量（m^3/人·年）	人均生活用水量（m^3/人·年）	人均生产用水量（m^3/人·年）	农田灌溉亩均用水量（m^3/亩·年）	万元GDP用水量（m^3/万元）
江苏	610	70	540	446	570
宁夏	1780	26	1754	1352	4000

（2）两省区在水资源利用结构上有哪些差异？（4分）

（3）简要分析宁夏的农田灌溉亩均用水量比江苏多的自然和人为原因。（6分）

2003年6月20日开始，淮河流域持续降水22天，使安徽、江苏的淮河沿线均超过警戒水位。读图8，回答（4）～（6）题：

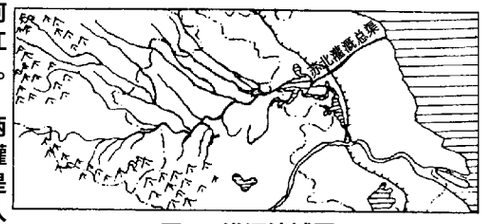

图8　淮河流域图

（4）淮河入海水道主要有两条通道，一条是向东通过苏北灌溉总渠，注入_____海；一条是向南借道_____（河流），再流入海洋。（4分）

（5）简要分析淮河易产生洪涝的自然原因。（6分）

（6）为了减轻淮河流域的洪涝灾害，我们应在下游采取哪些治理措施？（4分）

37．阅读下列材料（30分）

材料一　噶尔丹自立为准噶尔汗。他南下侵占回部（维吾尔族居住地区）诸城郭，占领南疆，向康熙帝提出：“圣上君南方，我长北方。”（注：君、长皆为统治的意思）1690年，在沙俄支持下，他悍然进军内蒙古，康熙帝亲自带兵在乌兰布通打败噶尔丹。1696年，康熙帝再败噶尔丹于昭莫多。噶尔丹众叛亲离，次年服毒自杀。

材料二　1862年，俾斯麦在议会上发表演说：“德意志所瞩望的不是普鲁士的自由主义，而是普鲁士的威力，……当代重大问题不是用说空话和多数人的决议所能解决的，……而是要用铁和血来解决的。”

材料三　1860年12月，美国南卡罗来纳州举行特别代表大会，169名代表一致投票通过一项法令，取消这个州与其他各州的“联盟关系”；密西西比州立法机关以84票对15票、佛罗里达州以62票对7票、亚拉巴马州以61票对39票、德克萨斯州议会以160票对8票决定脱离美国联邦；田纳西州是公民投票，10.5万票对4.7万票，也是决定脱离联邦。……在总统就职演说中，林肯表示：“任何一个州都不能单凭自己的动议合法地退出联邦，任何为此而通过的决议和法令在法律上都是无效的。”

请回答：

（1）根据所学知识，举出康熙帝所做的与打败噶尔丹作用类似的三件大事。（6分）

（2）材料二中的“重大问题”、“要用铁和血来解决”各指什么？俾斯麦是如何实现上述主张的？（6分）

（3）从背景和影响两方面，指出材料二、三反映的两个历史事件的相似之处。（8分）

（4）材料一中“圣上君南方，我长北方”和材料三中各州投票行为的共同实质是什么？二者的最终结局说明什么？（4分）

（5）材料中康熙帝、俾斯麦、林肯的言行有何共同之处？对此你如何评价？（6分）

38．（26分）

某县土地肥沃，高氮腐殖土居多，是以资源型为主的半林半农的农业县。该县政府通过创办网站等途径招商引资。一位韩国商人在网上了解到该县情况后，决定投资上千万元，在该县创办一个以腐殖土为原料的有机化肥厂。县政府考虑到肥沃土地资源的重要性（一厘米厚的腐殖土要上千年时间才能形成），拒绝了韩商的投资意向。

县政府经过充分调研和论证，确定了生态经济的发展战略：增加对农业的财政投入，推广优良品种和农业科技，引导农民生产绿色农产品；发展生态林业、生态药业和生态旅游业；鼓励民营企业转租承包地、实行集中经营、办厂加工农产品和吸收农民就业；支持企业和农民外出推销产品。这些举措有力促进了当地经济发展，增加了农户收益。

（1）从哲学角度分析该县拒绝韩商投资项目的理由。（12分）

（2）运用经济常识，总结该县在增加农民收入方面有哪些经验？（8分）

（3）该县领导是如何做到执政为民的？（6分）

39．红军长征是人类战争史上的奇迹。长征以它特有的魅力，不仅成为中国人民无穷的精神力量，而且超越时代和国界，成为世界上广为传扬的英雄史诗。（36分）

材料一　红军长征路线示意图

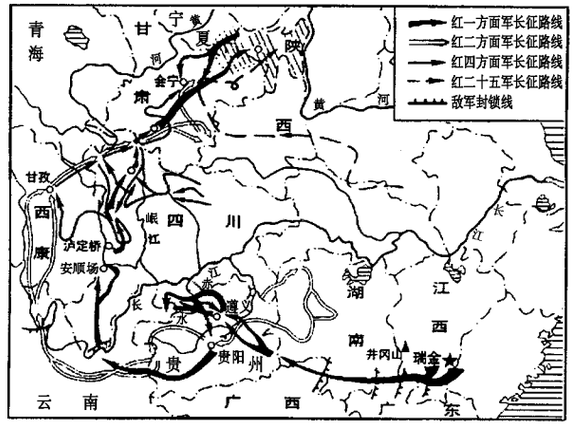

图9

材料二　红军长征的图片



遵义会议旧址　飞夺泸定桥　翻越雪山　吃的野菜、穿的蓑衣

图10

材料三　七律·长征

红军不怕远征难，万水千山只等闲。五岭逶迤腾细浪，乌蒙磅礴走泥丸。
金沙水拍云崖暖，大渡桥横铁索寒。更喜岷山千里雪，三军过后尽开颜。

请回答：

（1）读图9，关于红一方面军长征所经地区的叙述，正确的是（4分）

A．途经江南丘陵、云贵高原、柴达木盆地、黄土高原等主要地貌单元

B．跨过乌江、金沙江、嘉陵江、汉江、黄河等河流

C．沿线气候类型有：热带季风气候、亚热带季风气候、高原山地气候

D．经过了我国地势的三级阶梯

（2）材料三中的“五岭”指我国的____（山脉），该山脉是我国____水系与____水系的分水岭。长征途中，“飞夺泸定桥”是发生在____（河流）上。（8分）

（3）根据图10提供的信息，指出红军在长征中克服了哪些方面的艰难险阻？（8分）

（4）从红一方面军长征结束到全国抗战爆发前，中国共产党为推动抗日救亡运动采取了哪些重要措施？（6分）

（5）夺取全国胜利，这只是万里长征走完了第一步。运用哲学常识，简要说明材料中的史实对我国现代化建设的新长征有何启示。（10分）

40．2003年底，温家宝总理在哈佛大学发展演讲时强调，“我们要走一条和一些大国不一样的道路，这条道路就是和平崛起的道路”。这是中国在总结人类社会发展史，尤其是近代以来大国兴衰的经验教训的基础上，作出的理性抉择。

结合相关知识回答下列问题。（36分）

（1）15世纪后期开始，英国逐渐崛起。简要概括英国崛起不同于我国的几种途径或方式。（6分）

（2）从地理角度分析，日本、德国两国工业发展共同的有利和不利条件。（8分）

（3）二战前，日本、德国两国谋求崛起的主要方式给人类留下什么教训？（2分）

（4）综合运用经济常识和政治常识，说明为什么我国必须奋力崛起，而且必须是和平崛起？（12分）

（5）根据十一届三中全会以来的史实，概括我国是怎样促进“和平崛起”的。（8分）

石家庄市 2004 年高中毕业班第一次模拟考试

8 A

文 科 综 合

本试卷分为第Ⅰ卷（选择题）和第Ⅱ卷（非选择题）两部分，满分为 300 分，考试时间为 150 分钟。

第Ⅰ卷（选择题，共 140 分）

一、本卷共 35 小题，每小题 4 分，共计 140 分。在每小题列出的四个选项中，只有一项是最符合题目要求的

右图表示某日四地太阳高度变化过程，h = 23°26′，②地在北半球。读图回答 1 ~ 4 题。

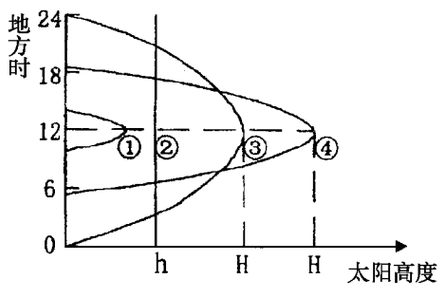

1．图示时间太阳直射点在（　　）
A．23°26′N
B．赤道与北回归线之间
C．赤道上
D．23°26′S

2．图中①～④四地按纬度从高到低排列，依次是　　（　　）
A．④①③②　　B．④③①②　　C．②③①④　　D．②①③④

3．图中②地夏半年太阳高度值的变化范围是　　（　　）
A．66°34′～90°　　B．0°～23°26′　　C．0°～66°34′　　D．23°26′～66°34′

4．关于图示时间地理现象的叙述，正确的是　　（　　）
A．华北平原小麦返青　　B．华北平原正值收摘棉花的繁忙时期
C．哈尔滨正值冰灯节　　D．从波斯湾驶往日本的油轮顺风行驶

5．甲、乙两地同在北半球，且甲地纬度高于乙地，则　　（　　）
A．乙地正午太阳高度一定比甲地大
B．乙地和甲地地球自转角速度一定相同
C．乙地观测到的北极星一定比甲地观测到的低
D．乙地夏至日一定比甲地晚看到日出

读下列我国两省会城市位置图，回答 6 ~ 8 题。

6．①②两城市所属气候类型最根本的区别在于　　（　　）
A．最热月平均气温的高低　　B．最冷月平均气温的高低
C．最热月降水的多少　　D．最冷月降水的多少

7．穿过①②两城市的铁路干线是　　（　　）

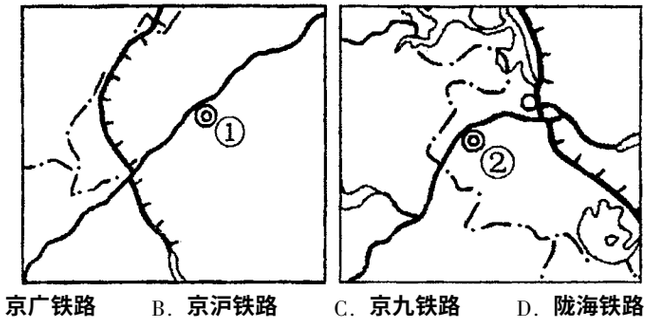

A．京广铁路　　B．京沪铁路　　C．京九铁路　　D．陇海铁路

8．关于两城市共同特点的叙述，正确的是　　（　　）
A．两城市都是我国重要的钢铁工业基地
B．两城市的水运优势都非常突出
C．两城市都是我国著名的古都
D．两城市都处于我国的酸雨区

某国三种进口的主要工业原料所占百分比（1998 年）图和该国某港口位置示意图如下，回答 9 ~ 11 题。

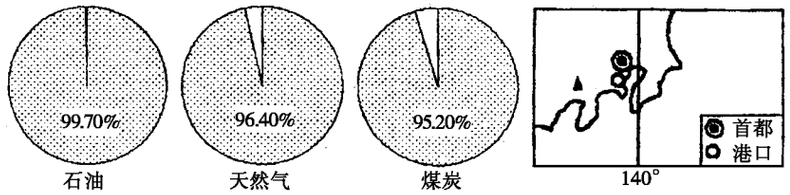

9．关于图示国家自然环境的叙述，正确的是　　（　　）
A．自然资源十分贫乏
B．海岸线曲折，濒临世界上盐度最低的海区
C．气候具有海洋性特征
D．山地多、平原少，地势南高北低

10．关于图示国家农业的叙述，正确的是　　（　　）
A．以水稻种植业为主，机械化水平较高
B．气候条件不利于谷物的生长和成熟
C．以商品谷物农业为主，一般由小农场经营
D．渔获量大，但海水养殖业不发达

11．图示国家大量进口工业原料，这一事实说明该国　　（　　）
A．国民生产总值较低
B．经济基础十分脆弱
C．民众消费水平高，市场广大
D．以传统工业为主，新兴工业发展缓慢

农业在国民经济中占有重要地位。回答 12 ~ 14 题。

12．唐朝时期，农业有了较快发展的原因有　　（　　）
①唐太宗的“存百姓”思想　②曲辕犁、筒车的创制与使用　③高产农作物的引进　④纳银代役
A．②③④　　B．①②③　　C．①②　　D．①②③④

13．十一届三中全会后，为推动农业向专业化、商品化、社会化方向发展，所采取的措施不包括　　（　　）
A．实行家庭联产承包责任制，改变土地所有制形式
B．发展乡镇企业，为农村致富开辟新路
C．调整农村产业结构
D．加大对农业的科技投入

14．法国大革命时期确立的小农土地所有制　　（　　）
A．在《人权宣言》中以法律形式肯定下来
B．导致了雅各宾政权的倒台
C．成为资本主义国家解决土地问题的典范
D．阻碍了法国工业发展速度

外交是国家政治经济的延续，影响着国际关系的变化和发展。回答 15 ~ 17 题。

15．20 世纪 70 年代，中国外交出现重大突破和转机的关键是　　（　　）
A．美国在与苏联的争霸中逐渐处于劣势
B．中国综合国力的提高
C．中国恢复了在联合国的合法席位
D．中美关系逐步缓和

16．20 世纪初，英国与法国、俄国缔结军事协定，表明
①国际关系的中心仍在欧洲　②帝国主义牺牲弱小国家利益达到自己的目的　③英德矛盾成为帝国主义的主要矛盾　④缓和了帝国主义列强瓜分世界的矛盾　（　　）
A．②③④　　B．①②③　　C．①③　　D．①②③④

17．下列与世界格局向多极化发展无关的是　　（　　）
A．中国在国际事物中发挥的作用越来越大
B．苏联解体
C．欧洲一体化进程的加快
D．美国鼓吹“人权高于主权”论

思想创新推动了社会的进步和发展。回答 18 ~ 20 题。

18．孔子以爱人之心调解与和谐社会人际关系的主张是　　（　　）
A．“克己复礼”、贵贱有“序”　　B．“己所不欲，勿施于人”
C．“存天理，灭人欲”　　D．“兼爱”“非攻”

19．明清时期的民主启蒙思潮与欧洲启蒙运动的相同之处是
①源于资本主义生产关系的产生和发展　②抨击封建君主专制统治　③对晚清民主思想产生了影响　④为资本主义社会提供了一套政治构想　（　　）
A．①②　　B．②③④　　C．①②③　　D．①②③④

20．中国共产党把马克思主义原理同中国革命具体实践相结合，最初表现在　　（　　）
A．中共一大主张用无产阶级军队推翻资产阶级政权
B．中共二大提出彻底民主革命纲领
C．遵义会议妥善处理党内长期存在的分歧和矛盾
D．中共七大确立毛泽东思想为党的指导思想

资源是国家经济发展的重要条件。回答 21 ~ 23 题。

21．春秋时期，在改革中充分利用本地自然资源而富庶的诸侯国是　　（　　）
A．齐国　　B．楚国　　C．吴国　　D．秦国

22．1973 年底到 1974 年初，中东产油国大幅度提高石油价格，此举对当时资本主义发展趋势的影响是　　（　　）
A．引发了战后资本主义世界最严重的经济危机
B．以美元为中心的资本主义世界货币体系解体
C．激化了美国与中东国家的矛盾
D．资本主义经济进入“滞涨”时期

23．社会主义全面建设时期，我国迎来了油田开发高峰，下列叙述正确的是
①石油作为新能源在我国开始利用　②建起了大庆、胜利、大港三大油田　③促进了我国工业化建设　④我国从此成为石油出口大国　（　　）
A．①③　　B．②④　　C．②③　　D．①③④

24．以胡锦涛为总书记的新的中央领导集体经常强调，“立党为公，执政为民”、“权为民所用，情为民所系，利为民所谋”。这些寓意深远而又朴实无华的语言表明中国共产党　　（　　）
A．是中国工人阶级和中华民族的先锋队
B．代表中国最广大人民的根本利益
C．是中国特色社会主义事业的领导核心
D．不断加强自身建设，提高执政能力

25．党中央之所以这样强调，其哲学依据是　　（　　）
A．坚持主客观具体的历史的统一　　B．事物是普遍联系的
C．社会存在决定社会意识　　D．人民群众是历史的创造者

国家决定，从今年起要逐步降低农业税税率，五年内取消农业税。今年农业税率的降低可减轻农民负担 70 亿元。为支持农村税费改革，今年中央财政将拿出 396 亿元用于转移支付。回答 26 ~ 28 题。

26．今年中央拿出 396 亿元用于转移支付，从根本上说是为了　　（　　）
A．有效地调节资源配置　　B．使农业成为国民经济的基础
C．促进经济的发展　　D．对经济进行宏观调控

27．联系上题的答案，国家逐步降低农业税率直至全部取消农业税，表明　　（　　）
A．社会主义国家税收取之于民，用之于民
B．税收是调节经济的杠杆
C．税收是国家实现经济监督的重要手段
D．税收是组织财政收入的基本形式

28．国家采取重大措施解决“三农”问题，体现的政治学道理是
①国家履行经济职能　②国家机关践行“三个代表”的重要思想　③党对国家和社会生活的政治领导　④国家机关贯彻对人民负责的原则　（　　）
A．①④　　B．②③　　C．①②④　　D．①②③④

某网站推出“2004 年十届全国人大二次会议，你关注什么？”为题的网上调查，受到网友的广泛关注。据统计，在 20 万名网友投票选出最受关注的十大问题，居第一位的是：深入开展反腐败斗争，加强对权力的制约和监督。回答 29、30 题。

29．加强对权力的制约和监督，从根本上说是为了　　（　　）
A．克服权大于法的现象　　B．确保人民当家作主的地位
C．杜绝利用手中权力搞腐败的现象　　D．提高政府的管理水平和工作效率

30．加强对权力的制约和监督能有效地遏制腐败现象的发生，从哲学角度看是因为　　（　　）
A．主要矛盾决定事物的性质　　B．内因是事物发展变化的根据
C．量变达到一定程度必然引起质变　　D．外因是事物变化发展的条件

31．中国共产党制定《党内监督条例》和《中国共产党纪律处分条例》是　　（　　）

A．为了从源头上防止腐败现象的发生
B．从制度上加强党的政治建设
C．为了保障公民监督权的充分行使
D．在贯彻依法治国的基本方略

上海东方书报亭是上海市政府为人民群众办的实事工程之一。它以公司制形式运作书报刊零售，公司引进超市连锁经营方式，将收入和销售业绩挂起钩来，实行统一经营，统一进货，统一配送，统一规章，统一标识的连锁经营方式。东方书报亭成功地走出了一条文化事业产业化发展的创新之路，为 2600 多名下岗职工提供了就业机会。公司销售收入上亿元，营业员人均收入超过 1500 元。回答 32～34 题。

32．上海市政府的做法

①是在坚持依法行政　②是国家在履行组织社会主义文化建设的职能　③表明体制创新是促进经济发展的动力　④体现了我国人民民主专政的国家性质　（　　）

A．①②　　B．①②④　　C．①③④　　D．②③④

33．上海书报亭的成功之路体现了

①产业化、市场化是经济发展的必由之路　②规模经营是企业发展的一条重要途径　③建立新型社会保障制度有利于实现社会安定　④科学管理能提高经济效益　（　　）

A．①②④　　B．①②③　　C．③④　　D．②③

34．上海东方书报亭的成功之路给我们的哲学启示是　（　　）

A．关键部分会对整体的性能状态起决定作用
B．实践是社会性、历史性的活动
C．要坚持解放思想、与时俱进、思维创新
D．要抓主要矛盾，又要统筹兼顾

35．2003 年以来，我国相继提出了“睦邻、安邻、富邻”的思想，以及“和平、安全、合作、繁荣”的亚洲政策目标。上述思想和目标反映了我国外交政策　（　　）

A．以维护世界和平，促进共同发展为宗旨
B．以独立自主为基本立场
C．以加强同第三世界国家的团结与合作为基本立足点
D．以坚持对外开放加强国际交往为基本国策

第Ⅱ卷（非选择题，共 160 分）

二、非选择题

36．读下图，回答问题。（36 分）

红场有不少著名的建筑物，南面是瓦西里升天大教堂，又名波克罗夫大教堂。它是伊凡雷帝为了纪念 1552 年战胜喀山鞑靼军队而下令建筑的。瓦西里升天大教堂前面是民族英雄米宁和波扎尔斯基雕像（1818 年雕像落成）。红场的西侧是著名的列宁墓，由红色花岗石和黑色长石建成。红场的北面是历史博物馆，红砖白顶，是莫斯科的标志性建筑。

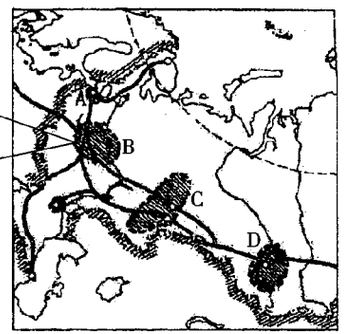

（1）俄罗斯有漫长的海岸线、许多大河，而水运却不发达，其自然原因是什么？（6 分）

（2）图中 A、B、C、D 四工业区，以重工业和军事工业为主的是_____（填字母）工业区，该工业区建立的基础是什么？（8 分）

（3）俄罗斯主要农业地域类型是_____，其主要农业地带是_____和_____。（4 分）

（4）俄罗斯乡村居民多用圆木建筑居所，这种房屋既保暖防潮，又坚固结实，且易于拆卸。试从自然条件方面分析俄罗斯居民建筑这种房屋的原因。（6 分）

（5）试对莫斯科的旅游资源开发条件进行简要评价。（12 分）

37．材料解析题（32 分）

材料一　香港自古以来就是中国的领土，鸦片战争以后一直被英国占领。1949 年中华人民共和国成立以后，为了打破帝国主义对我国的经济封锁，保留香港作为国际通道，新中国没有立即收回香港主权。但中华人民共和国政府从来不承认关于香港地区的三个不平等条约，声明将在适当时机收回香港主权。

自 1949 年中华人民共和国建立以后，台湾与祖国大陆长期处于隔绝状态。1999 年 12 月 20 日，中国正式对澳门恢复行使主权，澳门也回到祖国的怀抱。

——引自《中国近代现代史》下册

材料二　1996 年～2002 年内地对港、澳、台双边贸易额

单位：亿美元

年份	香港		澳门		台湾	
	出口	进口	出口	进口	出口	进口
1996	329.1	78.3	5.7	1.2	28.0	161.8
1997	437.8	69.9	6.4	1.2	34.0	164.4
1998	387.5	66.6	7.5	1.2	38.7	166.3
1999	368.9	68.9	6.4	0.97	39.5	195.3
2000	445.2	94.3	7.1	0.95	50.4	254.9
2001	465.5	94.2	7.4	1.2	50	273.4
2002	584.7	107.4	8.8	1.4	65.9	380.6

——引自海关总属《海关统计》

回答：

（1）材料一中澳门、香港、台湾三地与祖国的分离和资本主义发展过程中的哪些重大事件、现象有关？试简要说明。（16 分）

（2）材料二反映了哪种现象？（4 分）这种现象对海峡两岸现状的解决有什么影响？（4 分）

（3）结合材料一、二和所学知识，谈谈解决海峡两岸现状的重要举措。（8 分）

38．（本题 22 分）

中共中央总书记胡锦涛今年 1 月 12 日在中纪委第三次会议上的讲话中指出：“在全党大力弘扬求真务实精神，大兴求真务实之风，关键是要引导全党同志不断求我国社会主义初级阶段国情之真，务坚持长期艰苦奋斗之实；求社会主义建设规律和人类社会发展规律之真，务抓好发展这个党执政兴国的第一要务之实；求人民群众的历史地位和作用之真，务发展最广大人民根本利益之实；求共产党执政规律之真，务全面加强和改进党的建设之实。”

（1）用政治常识的有关知识说明在全党大兴求真务实之风的必要性。（12 分）

（2）求真务实的精神体现了什么哲学道理？在材料中是如何体现的？（10 分）

39．（本题 20 分）

材料一　2003 年我国钢铁行业钢产量达到 2.2 亿吨，2004 年末将接近 3 亿吨，2005 年将达到 3.3 亿吨。而调查预测，2010 年我国钢实际需求为 3.3 亿吨左右，这意味着我国钢铁工业投资已超前了 5 年；目前我国电解铝产能为 546 万吨，已经产大于销，但在建能力还有约 500 万吨；水泥、有色金属等行业的投资也相应出现了过热现象。

材料二　2003 年 2 月 4 日，国务院召开严格控制部分行业投资电话会议，国务院副总理曾培炎强调，制止钢铁、电解铝、水泥行业过度投资。

（1）材料一、材料二各反映了什么经济现象？用经济常识有关知识加以分析。（12 分）

（2）科学的发展观要求“在经济领域内部，在各个产业、行业之间要协调发展，统筹兼顾”。请从哲学角度结合材料谈谈对这一观点的认识。（8 分）

40．读下面材料，回答问题。（本题 50 分）

材料一　生态资源历来是江西的骄傲。在经济发展中江西率先提出“既要金山银山，更要绿水青山”的口号，在招商引资中坚持“三不准”原则：即严重污染环境的项目坚决不准搞；严重危害人民生命健康和职工安全的项目坚决不准搞；黄、赌、毒的项目坚决不准搞。2003 年，江西省共审批园区工业项目 2582 个，否决大型项目 59 个，制止 70 余家可能造成严重污染的项目入园。

统计资料显示，2003 年江西省经济运行质量全面提升，多项经济指标位居历史最高，发展速度居中部六省之首；直接利用国外、境外资金 16．12 亿美元，第一次进入全国前十位，全省经济增长速度达到 13%，创近 10 年第一。在经济高速发展的同时，江西省的生态环境质量等级为优，在全国排名第八。

材料二

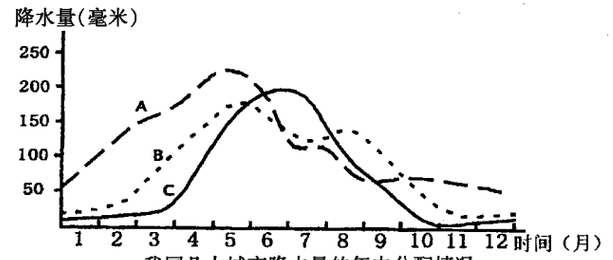

我国几大城市降水量的年内分配情况

甲

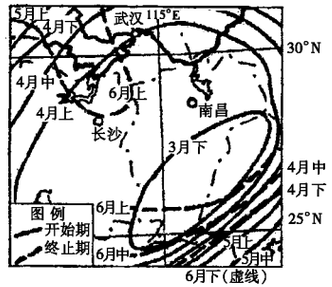

我国部分地区春雨开始期与终止期

乙

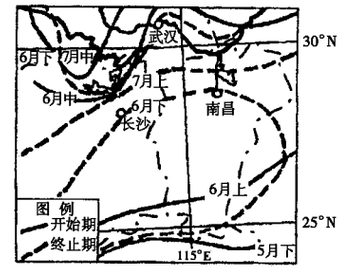

我国部分地区梅雨开始期与终止期

丙

（1）甲图中的三条曲线分别表示南昌、重庆、昆明年内降水分配情况。其中表示南昌的是_____（填字母）曲线，结合乙图、丙图说明判断理由。（7 分）

（2）乙图所示范围内，最早进入春雨期的是_____。此后春雨地区向什么方向扩展？（4 分）

（3）春雨过多，对当地农业生产有何不利影响？（9 分）

（4）江西是我国农业大省。六朝时期，江西的_____是重要产粮区。（4 分）隋唐时期，江南地区因围湖造田和向山要田，对自然生态平衡有所影响，这种现象在江西出现了没有？（2 分）当时的洪州（南昌）是什么中心？（2 分）

（5）江西是中国革命的摇篮。毛泽东等老一辈革命家在此开辟出中国民主革命胜利之路，试用 1927 年～1931 年的相关史实加以说明。（12 分）

（6）江西省“既要金山银山，更要绿水青山”的口号体现了什么发展观，请用所学哲学知识进行分析。（10 分）

高考全本精彩网 www.gaokaoshengbook.com