高考能力创新设计

2005全国名校联考

天利38套经济版

历史

全国高考命题研究组
北京天利考试信息网 编

西藏人民出版社

需要全本请访问 www.ertongbook.com

欢迎加入“天利考试信息网”

北京天利考试信息网向广大考生提供最新考试信息、高考动态、最新试题、高校介绍、志愿填报技巧等各类信息和服务，是考生的良师益友。

加入办法：

1.累计购买正版西藏人民出版社“天利”图书10本以上（剪下图书所附回执表寄回信息网）；

2.汇寄30元入网费（教师可免费申请），网员享受以下权利：

①获得网号、密码或网卡，网上或网下获得最新考试信息；

②获赠新书或效率手册或最新试题；

③获得天利高考动态杂志和其他信息资料；

④网上订书可获优惠。

北京天利考试信息网：www.TL100.com E-mail：info@TL100.com

通讯地址：100027 北京4717信箱天利考试信息网

电 话：010-64635854，64656531，84480193

“天利38套经济版”回执

姓 名		性 别		职 业	学生/教师	年级科目	
联系地址、邮编及电话							
说 明							

高考能力创新设计
——天利38套经济版
北京天利考试信息网 编
*
西藏人民出版社出版
责任编辑：李海平 封面设计：谭仲秋
社址：850000 拉萨市林廓北路20号
北京发行部：100027 北京4717信箱
电话：010-64680026 64651171
北京市金顺印刷厂印刷
全国新华书店经销
开本：787×1092毫米 1/16 印张：61.5 字数：1500千
2004年6月第4版第1次印刷
ISBN 7-223-01347-8/G·566
总定价（全12册）：72.00元

目 录

1.南京市2004年高三第一次质量检测
2.广东省2004年高三第二次调研考试
3.广州市2004年高中毕业班综合测试（一）
4.江苏省苏、锡、常、镇四市2004年高三教学情况调查
5.广东省深圳市2004年高三第一次调研考试
6.桂林市2004年高考第三次模拟考试
7.江苏省徐州市2004年高三第二次质量检测
8.广东省揭阳市2004年第一次高考模拟考试
9.东北三校2004年高三联合考试
10.湖北省黄冈市2004年高三年级期末调研考试
11.杭州市2004年高三年级教学质量监测
12.福建省达标中学2004年高三质量检查
13.福州市2004年高三期末质检
14.太原市2004年高三基础知识测试
15.南昌市2004年高三第一次调研测试
16.浙江省宁波市2004年高三年级期末考试
历史参考答案及解题提示

天利

南京市 2004 年高三第一次质量检测

1 A

历　史

本试卷分第Ⅰ卷（选择题）和第Ⅱ卷（非选择题）两部分。共 150 分。考试用时 120 分钟。

第Ⅰ卷（选择题，共 75 分）

一、选择题。本大题共 25 小题，每小题 3 分，共计 75 分。在每小题列出的四个选项中，只有一项是最符合题目要求的

1．关于西周井田制的论述，不正确的是（　）

A．目的是为了巩固奴隶制统治　B．土地的所有权与使用权是分离的

C．分封制瓦解导致井田制破坏　D．东周向封建地主土地所有制转化

2．“亭长何曾识帝王，入关便解约三章。只消一勺清凉水，凉却秦锅百沸汤。”此诗说明作者（　）

A．肯定了刘邦推翻秦朝的贡献　B．认识到刘邦得民心的原因

C．指出了刘邦约法三章的目的　D．分析了楚汉战争的性质

3．王安石变法的内容中，有利于稳定物价和商品交流的是（　）

A．市易法　B．募役法　C．青苗法　D．方田均税法

4．中国古代对外交通经历了由西北陆路转向东南海路的过程，并在 15 世纪初创造过世界航海史上的壮举，实现这一转变的根源是（　）

A．北方始终战乱，南方相对稳定　B．资本主义在江南地区萌芽

C．古代经济重心的南移　D．科学技术的进步

5．清代实行的有利于农村劳动力转移的主要措施是（　）

A．实行一条鞭法　B．征收统一的地丁银

C．推行更名田　D．增加商品税收

6．康乾盛世被称为中国封建社会末期的“百年之治”，但很快盛极而衰，它给当今社会留下的历史教训最主要的是（　）

A．加快社会改革，调整生产关系　B．加强以德治国，紧跟时代潮流

C．保持社会稳定，促进经济发展　D．惩治贪官污吏，加强政权建设

7．第二次鸦片战争后，中国被迫开放一系列通商口岸。与第一次鸦片战争相比较，具有下列哪些特点

①数量增多　②从东南沿海扩展到整个沿海地区　③开始进入内地　④由中国东部扩展到西部（　）

A．①②③　B．①②④　C．②③④　D．①③④

8．19 世纪末维新变法运动与义和团运动先后兴起，其相同的原因是（　）

A．西学的传入　B．民族矛盾的上升

C．洋务运动的破产　D．资本主义的发展

9．与中国的戊戌变法相比较，日本明治维新能够取得成功的一个显著背景是（　）

A．受西方资本主义影响　B．自上而下实行经济改革

C．封建统治比较薄弱　D．农民阶级支持全面改革

10．辛亥革命、二次革命和护国运动中，都曾出现过宣告“独立”的情况。这些“独立”的准确含义应是（　）

A．强调地方政府的区域自治　B．实行民主共和的分权原则

C．反对专制黑暗的中央政府　D．坚持革命党人的武装割据

11．辛亥革命后，“民主共和”、“实业救国”两大思潮在实践中遭到挫折的根本原因是（　）

A．封建残余势力大　B．人民群众没有发动起来

C．帝国主义侵略的加剧　D．民族资本主义发展不充分

12．从组织成分看，下列哪一政府不能反映中共关于统一战线的政策（　）

A．广东革命政府　B．陕甘宁边区政府

C．中华苏维埃共和国临时中央政府　D．中华人民共和国中央人民政府

13．“在中国近代史上反对外敌入侵第一次取得完全胜利”，指的是（　）

A．三元里人民抗英斗争的胜利　B．义和团廊坊战斗的胜利

C．汉口九江人民收回英租界　D．抗日战争的伟大胜利

14．社会主义制度在我国建立的标志是（　）

A．中华人民共和国的成立　B．三大改造的完成

C．第一届全国人民代表大会的召开　D．国民经济的恢复

15．1959 年～1961 年我国国民经济出现严重困难，造成这一局面的最主要原因是（　）

A．空前的自然灾害　B．苏联撕毁两国经济技术合作协议

C．国际反共势力的破坏　D．“左”倾冒进主义错误

16．真理标准问题的讨论是一次深刻的思想解放运动。这里的“解放”指的是（　）

A．纠正了以阶级斗争为纲的错误方针

B．使全党认识到经济建设是全党工作的重心

C．使全党认识到“文革”是错误的

D．打破了长期以来个人崇拜和教条主义的束缚

17．按时间顺序排列下列事件

①提出社会主义初级阶段的理论　②提出建设有中国特色的社会主义　③作出改革开放的伟大决策　④提出建立社会主义市场经济体制（　）

A．③②①④　B．①③②④　C．②①③④　D．③④①②

18．17 世纪中期以来，英国流传着一句民谚：“风能进，雨能进，国王不能进（我的破茅屋）。”下列人物的思想中能体现这一民谚精髓的是（　）

A．达·芬奇　B．塞万提斯　C．洛克　D．伏尔泰

19．“无产阶级将利用自己的政治统治，一步步地夺取资产阶级的全部资本，把一切生产工具集中在国家即组织成为统治阶级的无产阶级手里，并且尽可能快的增加生产力的总量。”《共产党宣言》中这段话的核心思想应是（　）

A．夺取国家政权　B．夺取生产资料

C．无产阶级掌权　D．发展社会生产力

20．19 世纪 60、70 年代，资产阶级革命和改革在世界许多地区展开，通过不同方式走上迅速发展资本主义的道路。这些革命或改革包括

①美国独立　②意大利统一　③东西德国统一　④俄国废除农奴制　⑤日本明治维新（　）

A．②④⑤　B．③④⑤

C．①④⑤　D．①②③④⑤

21．观察右图，并判断成图年代在（　）

A．德意志统一前

B．第一次世界大战前

C．第二次世界大战前

D．欧盟成立前



“项庄舞剑，意在沛公”——一幅反映德国（左）向英国（右）的海上霸权挑战的漫画

22．下列关于凡尔赛体系未能维持 20 年和平原因的表述，不正确的是（　）

A．对德和约的掠夺性惩罚，加深了战败国和战胜国之间的矛盾

B．巴黎和会的分赃不均，使战胜国之间潜伏着深刻危机

C．凡尔赛体系的形成，未能改变帝国主义政治经济发展不平衡规律

D．凡尔赛体系使欧洲和中东政治格局发生了很大变化，激化了大国矛盾

23．二次大战后，联邦德国和日本经济发展较快。下列对其共同因素表述不正确的是（　）

A．国民经济非军事化，全力进行经济建设

B．依靠马歇尔计划援助，加强政府对经济的宏观调控

C．注意发展科技教育，培养人才

D．实行资本主义改革，消除不利于经济发展的因素

24．20 世纪 50、60 年代，社会主义阵营国家的改革，其实质是

A．要求脱离社会主义阵营　B．探索本国社会主义发展道路

C．各国内部社会斗争的结果　D．对社会主义制度的否定

25．20 世纪 90 年代，两极格局瓦解的根本原因是（　）

A．二战后世界经济的迅速发展　B．西欧和日本不再唯美国马首是瞻

C．第三世界的崛起　D．苏联争霸的失败

第Ⅱ卷（非选择题，共 75 分）

二、材料解析题。本大题共 3 题，第 26 题 10 分，第 27 题 11 分，第 28 题 12 分，共 33 分。要求：分析材料，结合所学知识回答问题

26．阅读下列材料：

材料一　（汉武帝）和他的近臣将所谓“儒术”扩展之后又延长，以至包括了有利于中央集权官僚政治所必需的种种理论与实践的步骤。孔子所提倡的自身之约束，待人之宽厚，人本主义之精神，家人亲族的团结和礼仪上之周到等等全部构成官僚集团行动上的规范。孟子所倡导的人民生计与国本攸关也毫无疑问地被尊重。

——黄仁宇《中国大历史》

材料二　至于三纲五常，为中国之大教，足下谓西夷无之矣，然考之则不然。东西律例，以法为宗。今按法国律例，民律第三百七十一条云：“凡一切子女，无论其人何等年岁，须于其父母有恭敬孝顺之心。”……第二百一十三条云：“凡为妇者，应为其夫者所管属。”

——康有为《与朱一新论新学书》

材料三　新文化运动的倡导者认为，中国所以危亡，民主和科学所以不能实现，是由于封建伦理道德的束缚所致。陈独秀尖锐地指出：以孔子学说为代表的封建伦理道德，阻碍了中国人民的觉醒与社会进步。李大钊发表文章指出，孔子是“数千年前之残骸枯骨”、“历代帝王专制之护符”、“保护君主政治之偶像”。……对于不合时宜的旧道德，“虽冒毁圣非法之名，亦所不恤矣。”

——马尚斌等编《中国近代史教程》

请回答：

（1）依据材料一，分析儒家思想对于封建统治的作用。（4 分）结合所学知识，说明汉以来儒家思想在封建社会中的地位。（2 分）

（2）依据材料二和所学知识，分析资产阶级维新派对于儒家思想的态度。（2 分）

（3）依据材料三，说明随着资产阶级革命和共和运动的深入，新文化运动的倡导者是如何认识和评价儒家思想的。（2 分）

27．阅读下列材料：

材料一　就社会主义制度来说，我们走社会主义道路，不走资本主义道路，在这个问题上是没有中间道路的。但是讲到国际关系，就不能简单地说，社会主义国家什么都好，非社会主义国家什么都不好，把两个世界搞成铁板两块，互不来往，互相攻击，那就不是和平共处了，就会推动战争。　　——周恩来

材料二　即使没有苏联的威胁，我们也有必要在世界上两个最强大、人口最多的国家之间架起新的友谊桥梁。原因之一是，这种友好关系将会给双方带来明显的经济和文化利益。原因之二在于原子时代这一严峻的现实。……但无论我们还是中国，都再也承受不起为意识形态所付出的昂贵代价了。　　——尼克松

材料三　经过多年的外交努力，我国已基本建立起全方位、多层次的对外工作格局。特别是 20 世纪 90 年代下半期，这项工作取得了长足的进展。在构筑面向新世纪的对外关系格局时，我们既考虑到同大国政治经济集团处理好关系，也应考虑同广大发展中国家建立友好合作关系；运用自己在联合国的特殊地位和影响力，积极开展外交活动，为社会主义现代化建设创造一个优越的环境；永远和广大发展中国家在一起，在反霸权主义的斗争中精诚合作，互相支持；坚持联合国宪法精神，做出中国人民为维护世界和平的贡献。　　——《历史学习精要》

请回答：

（1）据材料一、材料二可以看出：中、美双方处理国际关系的根本出发点是什么？（2 分）20 世纪七十年代我国外交方面有哪些重要突破？（3 分）

（2）当今世界发展的两大主题是什么？（2 分）据材料三，概括出新时期我国外交政策的主要特点。（4 分）

28．阅读下列材料：

材料一　2000 年一位 90 岁的美国加州的老太太桃莉丝·汉道克，徒步横穿 5100 公里到达华盛顿，以普通游客的身份进入联邦国会大厦，发表政治演说，立即被警察当场逮捕，后被法官判处“囚禁已关押之时间”。因为“国会大厦是立法重地，在那里立法的国会议员们，只要在这个屋顶之下说什么都可以，怎么说都不犯法，都不会被逮捕被定罪。他有立法豁免权。而只要你不是国会议员，就不得在这里发表任何政治演说，不能有任何政治示威的行动。……那是为了保障立法者，能够在绝对没有压力的情况下，把他所代表的选区的民众意见，顺畅地说出来……如果让议员们身处狂热民众的实际包围之下，……甚至用武力驱赶议员，……所谓民主当然就全玩完了。”　　——摘自丁林《九旬老太的长征与被捕》

材料二　1789 年，经过资产阶级民主派的努力，美国宪法增加了十条修正案（政府不得立法等）。……华盛顿当选为美利坚合众国第一任总统，组成了第一届联邦政府。　　——人教版普通高中历史教材

材料三　据报导，美国前总统克林顿任期内来华访问时，曾参观西安兵马俑。当他步出展馆时，发现一小女孩站在高处观望他。双方招呼并对话：

克：你为什么站那么高？

孩：可以看清楚美国总统。

克：你知道他是干什么的？

孩：管美国人（民）。

克：（略微思索后）准确地说，是美国人民在管总统。

请回答：

（1）材料一中美国对国会大厦使用的规定，在英国史上能找到哪一法律文献的规定与之相似？（2 分）

（2）试就材料一所述立法议员受到压力的情况，从中外历史上各举一例。（4 分）

（3）结合材料二、三和所学知识，你认为美国宪法、选民、议会、总统、政府之间相互间关系如何？（3 分）

（4）你认为克林顿和中国小女孩的认识为什么会有差异？（3 分）

三、问答题。本大题共 3 小题，第 29 题 14 分，第 30 题 13 分，第 31 题 15 分，共计 42 分

29．史学界有的学者认为，我国古代科技的发展有两个黄金时期，一是在汉朝，一是在宋朝。明清时期近代科学没有在中国产生，其原因有四：曰压制工商，曰儒家思想，曰奴才教育，曰自满保守。

请结合所学的知识回答：

（1）我国古代科技发展的两个黄金时期出现的原因分别是什么？在世界上的地位分别如何？（10 分）

（2）简要说明明清时期中国没有产生近代科学的主要原因。（4 分）

30．有人认为：“自鸦片战争以来，近代工业在中国不断增多……在西方殖民主义和封建主义军阀的夹缝中，我们的民族工业缓慢发展。国人致力于实业……曾出现三大热潮……中国近代（五四以前）的社会进步无疑都是以此为基础的。”结合所学知识，请回答：中国民族资本主义“三次热潮”出现的时间以及形成原因。（9 分）它的发展又是怎样为“中国近代（五四以前）的社会进步”提供基础的？（4 分）

31．从原因和结果两方面说明，为什么英国 1651 年颁布了《航海条例》，又为什么于 1849 年废除？（15 分）

天利

广东省 2004 年高三第二次调研考试

2 A

历　史

本试卷分第Ⅰ卷（选择题）和第Ⅱ卷（非选择题）两部分。满分 150 分，考试时间 120 分钟。

第Ⅰ卷（选择题，共 75 分）

一、选择题（本大题共 25 小题，每小题 3 分，共 75 分。在每小题列出的四个选项中，只有一项是符合题目要求的）

1．战国时期封建制度确立的条件是

①封建土地私有制逐渐代替奴隶社会土地国有制　②新兴的地主阶级的形成及其经济势头的增长　③地主阶级要求发展封建经济，实行地主阶级专政　④在新兴地主阶级的推动下，各国先后变法　（　）

A．①②③　　B．③④

C．①②③④　　D．②③④

2．对于秦国来说，商鞅变法起决定性的历史作用是　（　）

A．为秦始皇统一六国奠定基础

B．秦国军事实力日益强大

C．旧制度被废除，封建经济得到发展

D．加速了秦国专制主义中央集权政治的发展

3．唐朝初年，江南的稻米已经大量运往洛阳等地，不能反映这一现象的是　（　）

A．江南经济地位上升　　B．经济中心已经移到南方

C．大运河发挥了水路交通作用　　D．南北经济交流加强

4．民族是人们在历史上经过长期发展而形成的有共同语言共同地域，共同经济生活及表现于共同文化上的共同的心理素质的稳定的共同体，根据这一定义，中华民族开始于　（　）

A．黄帝时代　　B．秦　　C．汉　　D．清

5．《农政全书》与《天工开物》的相似处有　（　）

A．介绍农业生产技术，经验　　B．介绍了欧洲的技术方法

C．被译为日、俄、英等文字　　D．是我国古代优秀的农学著作

明代松江地区纺织业兴盛，鸦片战争后走向衰落。据此回答 6、7 题

6．兴盛的主要原因是该地区　（　）

A．有大量农业剩余人口，转向纺织业生产

B．水陆交通便利，便于外地棉花运入

C．出现了机器纺织业

D．为棉花主产区

7．衰落的主要后果是　（　）

A．该地区的自然经济开始解体　　B．农民回归土地，商品经济发展受阻

C．农民转为种桑养蚕　　D．崇拜洋货的风气盛行

8．柳亚子《题太平天国战史》：“楚歌声里霸图空，血染胡天烂漫红。煮豆燃萁谁管得，莫将成败论英雄。”其中“煮豆燃萁”是指　（　）

A．北伐失利　　B．永安建制

C．安庆保卫战失利　　D．天京变乱

9．中国无产阶级的产生早于资产阶级，其决定性的因素是　（　）

A．无产阶级是先进生产力的代表

B．中国自然经济占统治地位

C．自然经济的解体早于资本主义经济的产生

D．半殖民地半封建的社会性质

10．在我国最早出现的近代企业是　（　）

A．洋务派兴办的企业　　B．民族资本主义企业

C．外商企业　　D．洋务派兴办的军事工业

11．三民主义是比较完整的资产阶级民主革命纲领，因为①包含了民族革命，政治革命，社会革命的内容。②表达了资产阶级政治，经济上的利益和要求。③反映了中国人民要求民族独立和民主权利的共同愿望。④提出了彻底的反帝反封建的革命目标。　（　）

A．①②　　B．②③

C．①②③　　D．①②③④

12．第一次工人运动高涨的结束，促使中国共产党　（　）

A．提出以领导工人运动为中心任务　B．加快建立革命统一战线

C．重心转向发动领导农民运动　　D．制定民主革命纲领

13．大革命失败后，中国共产党对民主革命道路进行了新的探索，其主要内容是　（　）

A．领导工人阶级进行武装斗争

B．建立根据地形成“工农武装割据”局面

C．联合各革命阶级建立统一战线

D．纠正“左”倾错误促进革命形势发展

14．把建设新中国的战略目标确定为“由农业变为工业国，实现国家工业化”的中共的重要会议包括

①中共“七大”　②中共七届二中全会　③中国人民政治协商会议　④中共“八大”　（　）

A．②④　　B．③

C．①②④　　D．①②③④

15．下列选项能正确反映 1949～1956 年我国农村土地所有制变化状况的是　（　）

A．封建剥削的土地所有制—农民土地所有制—家庭联产承包责任制

B．封建剥削的土地所有制—社会主义公有制—家庭联产承包责任制

C．封建剥削的土地所有制—农民土地所有制—社会主义公有制

D．农民土地所有制—农业初级社—农民生产合作社

16．我国的社会主义经济成分最早来源于　（　）

A．农业合作化运动　　B．没收官僚资本

C．对资本主义工商业的改造　　D．社会主义工业化建设运动

17．实行包产到户后，安徽凤阳三年跨了三大步，这一变化从根本上说明家庭联产责任制　（　）

A．符合农业现代化要求　　B．符合当时农村生产力发展的实际

C．个体经济是农村发展方向　　D．使农村改革走向专业化

18．“我不想变成上帝，或居住在永恒中，或者把天地抱在怀里，属于人的那种光荣就够了。我自己是凡人，我只要求凡人的幸福”这句话体现的思想是　（　）

A．禁欲主义　　B．蒙昧主义

C．人文主义　　D．理性主义

19．“当革命风暴横扫整个法国的时候，英国正在进行一场比较平静的但是威力并不因此减弱的变革”。恩格斯的这段话是　（　）

A．肯定英国资产阶级革命的地位　　B．赞扬法国大革命的作用

C．谴责英国组织“反法同盟”　　D．肯定英国工业革命的历史地位

20．19 世纪中期，亚洲革命风暴普遍失败的根本原因是　（　）

A．国内外反动势力联合镇压革命运动

B．起义军各自为战，没有统一领导

C．领导阶级内部的斗争激烈

D．缺乏先进阶级领导和彻底的纲领

21．与德意志相比，意大利统一的历史背景的不同之处是　（　）

A．资本主义的发展　　B．国家处于分裂状况

C．大多数地区被外国控制　　D．统一的领导核心形成

22．第一次工业革命对国际关系产生的最大影响是　（　）

A．世界资本主义体系基本形成

B．英国成为最大殖民国家

C．非洲已经完全沦为西方的殖民地

D．英美矛盾成为帝国主义间最主要的矛盾

23．苏俄实行战时共产主义政策的主要目的是　（　）

A．向社会主义直接过渡　　B．恢复工农业生产

C．巩固苏维埃政权　　D．实现社会主义公有制

24．二战后初期，西方舆论断言：“苏联将从世界大国的名单中被勾销”，下列事实中最能反驳这一断言的是　（　）

A．1950 年，苏联实现国民经济的恢复和发展

B．1946 年，苏联建成第一部原子能反应堆

C．1949 年，苏联第一颗原子弹爆炸成功

D．1957 年，苏联第一颗人造卫星上天

25．经济全球化对于发展中国家来说：

①是一把双刃剑　②处境更为不利　③提供了机遇　④面临压力和挑战（　）

A．①②③　　B．①③④　　C．①②④　　D．①②③④

第Ⅱ卷（非选择题，共 75 分）

二、材料解析题（本大题共 3 小题，其中第 26 题为 12 分，第 27 题为 12 分，第 28 题为 11 分，共计 35 分）

26．阅读唐代诗人白居易的诗《朱陈村》

徐州古丰县，有村曰朱陈。去县百余里，桑麻青芬氳。
机梭声札札，牛驴走纷纭。女汲涧中水，男采山上薪。
县远官事少，山深人俗淳。有财不行商，有丁不入军。
家家守村业，头白不出门。生为陈村民，死为陈村尘。
田中老与幼，相见何欣欣。一村唯两姓，世世为婚姻。
亲疏居有族，少长游有群。黄鸡与白酒，欢会不隔旬。
生者不远别，嫁娶先近邻。死才不远葬，坟墓多绕村。
既安生与死，不苦形与神。所以多寿考，往往见玄孙。

请回答：

（1）这首诗描写了一幅什么景象？结合作者所处的时代，分析作者在诗中表现的思想倾向？（4 分）

（2）“朱家村”的婚姻状态有什么局限性？（2分）

（3）如何评价“朱家村”的生产结构？（6分）

27．阅读下列材料：

材料一　感到民众运动势头压力的日本人，试图把它打上排外的印记，并重新唤起人们对义和团时期的回忆，一些在上海的英国人，对商人和学生在产业工人中的人成效的活动感到恐慌，也开始称之为排外。我听说上海租界董事会有可能采取极其严厉的反对抵制和罢工的行动。……如果我们让自己卷入这场只是针对日本人的，幸而与我们无关，而且在任何意义上都不是排外的动乱，将是愚蠢之极的。我向上海的总领事发出具体的指示，告诫美国侨民团体，既不要鼓动也不要反对这场运动……。没有人会不同意中国学生的目的和理想，他们是在为民族的自由和新生而战。我本人也极感同情，但我当然还是避免与运动的直接接触，因为它纯粹是中国人自己的事情。

——（美国）P．芮恩斯《一个美国外交官在中国》

材料二　在上海和其他城市的英法租界当局对五四运动的支持态度，由于6月份罢市、罢工以后受到日本政府的宣传及一些在华外国人对运动中的“过激主义”的歇斯底里的恐惧的影响而发生了改变。……6月6日，即罢工罢市开始的第二天，公共租界发布了一个通告，告诫公众不许在租界内散发传单，禁止在租界内展示有鼓动民心口号的旗帜……在星期日（6月8日）晚举行的一次会议上，工商局董事会（上海租界的殖民管理机构）作出决议禁止“未经批准的人员穿戴标志某一统一特殊组织、协会或团体的服饰、徽章或帽盔出现在街头或其他任何公共场所”。市议会（即工商局董事会）还决定镇压所有的罢工，抵制活动、街头讲演和其他学生活动，从租界中驱除上海学院。同时还决定，自6月9日下午4时起以武力执行这些决议。工商局董事会提出的这些镇压行动受到一些外国商人及上海的英国、法国、比利时等国领事馆的支持。

——（美国）周策纵《五四运动：现代中国的思想革命》

请回答：

（1）分别分析美国和英国对五四运动的不同反映。如何评价芮恩斯的看法和态度？（6分）

（2）结合所学知识，分析美国持这种态度的原因。（3分）

（3）结合所学知识，分析英国持这种态度的原因。（3分）

28．阅读下列材料：

材料一　斯大林在论述苏联的工业化时说：“在资本主义国家，工业化通常是从轻工业开始的。由于轻工业同重工业比较起来，需要的投资少，资本周转快，获得利润比较容易，所以在那里，轻工业积累了利润并把这些利润集中于银行。这才轮到重工业，积累才开始逐渐转到重工业中去，造成重工业发展的条件但这是一个需数十年之久的长期过程。……共产党当然不能走这条道路，所以必须赶快发展重工业，如果这事做迟了就要失败。”　　——《斯大林选集》下卷

材料二　毛泽东在评论苏联的工业化时说：“苏联片面地注重重工业，忽视了农业和轻工业，因而造成市场上的货物不够，货币不稳定。”

——《毛泽东选集》

材料三　历史学家评论苏联的工业化时说：“斯大林在苏联社会主义工业化时，早就提出了‘工业是主导，农业是基础’，‘要发展工业就必须从农业开始’的重要论断。他在理论上一再反对把农业作为工业的殖民地，但实际上是把农业作为殖民地了。苏联工业化一开始时，农民不但要交纳直接税和间接税，还得通过低价出售农产品和高价买进工业品。例如，1936年苏联政府从一个区收购小麦，每公斤付给农民13卢布，而政府出售面粉时，则作价93卢布。……国家售价比购价高出5～6倍。结果，使农业生产遭受到严重的破坏。在苏联工业化短短的十几年内，曾发生两次较大的农业危机。……苏联全国大约饿死1000万人。”

——《斯大林时期苏联工业化的理论和实践》

请回答：

（1）依据材料一分析，通常工业化应按什么途径进行？为什么要按这种途径进行？（2分）

（2）斯大林认为，苏联产工业化应按什么途径进行？为什么采取这样的途径？（3分）

（3）据材料二、三分析，苏联采取的工业化途径造成了什么问题？（3分）

（4）苏联的工业化过程为我们的社会主义经济建设提供了什么经验教训？（3分）

三、问答题：（本大题共3小题，第29题14分，第30题13分，第31题13分，共计40分）

29．有的学者认为，明清时期中国资本主义的萌芽产生后，“除了技术不发展的情况以外，一切资本主义生产方式所需要的物质条件都具备，”鸦片战争前的中国封建社会已在发生“本质的变化”，生产进入到工场手工业阶段。但是我们的教材对上述观点，持否定态度。请结合教材内容评价上述观点。

30．抗日战争胜利后，国民党本来可以在中国的政治、经济生活中发挥重大作用。但是国民党没有把握好和谈时机，失去了两次机会，不得不退据台湾。回答：第一次机会指的是什么？（2分）国民党是如何失去的？（2分）第二次机会指的是什么？（2分）国民党又是如何失去的？（2分）这两次机会的丧失对国民党自身和中华民族产生了哪些重大影响？（5分）

31．在世界近代资本主义发展史上，1861年改革中的沙俄政府和美国内战中的林肯政府制定了不同的土地政策，也产生了不同的影响，请问：美、俄两国制定了怎样的土地政策？（4分），产生上述土地政策的社会原因各是什么？（4分）这些土地政策分别对两国历史进程产生了怎样的影响？（5分）

需要全本请访问 www.ertongbook.com

天利

广州市 2004 年高中毕业班综合测试（一）

3 A

历　史

本试卷分选择题和非选择题两部分。满分为 150 分。考试用时 120 分钟。

第一部分（选择题，共 75 分）

一、选择题：（本大题 25 小题，每小题 3 分，共计 75 分。在每小题列出的四个选项中，只有一项是最符合题目要求的）

1．提出“道之以政，齐之以刑，民免而无耻；道之以德，齐之以礼，有耻且格”的观点是（　）

A．道家　　B．儒家　　C．墨家　　D．法家

2．秦汉时期，中国通过丝绸之路西传的技术，除造纸术外还包括

①井渠法　②铸铁术　③养蚕缫丝术　④一牛挽犁牛耕法（　）

A．①②③　　B．②③④

C．①③④　　D．①②④

3．规定“若四方有事，则命将以出；事解辄罢，兵散于府，将归于朝”的军事制度是（　）

A．府兵制　　B．保甲制

C．募兵制　　D．将兵法

4．下列措施中，最有利于推动农业商品化的是（　）

A．开征茶税　　B．推行市易法

C．实行赋役征银　　D．发展互市贸易

5．清朝政府在西南少数民族地区实行“改土归流”政策，“归流”是指（　）

A．任用当地少数民族首领进行管治

B．把西南少数民族地区纳入清朝版图

C．少数民族事务归属理藩院掌管

D．由中央政府派遣官员直接管治

6．洋务运动中，清政府引进的项目主要包括

①科技　②资金　③人员　④设备（　）

A．①②③　　B．②③④

C．①③④　　D．①②③④

7．19 世纪晚期，领导军民反抗列强侵略台湾的著名人物包括

①刘永福　②丘逢甲　③丁汝昌　④徐骧（　）

A．①③④　　B．①②④

C．②③④　　D．①②③④

8．19 世纪末 20 世纪初，帝国主义对中国经济侵略的基本方式是（　）

A．兴办银行、修筑铁路　　B．投资洋行、操纵市场

C．开采矿山、建立工厂　　D．倾销商品、输出资本

9．戊戌新政中，切中时弊，震动巨大的措施主要是（　）

A．裁汰冗员，废除特权　　B．改革财政，编制预算

C．设立议院，召开国会　　D．废除八股，改试策论

10．北洋政府时期，孙中山专注发展实业，重点是发展（　）

A．银行业　　B．钢铁工业

C．铁路运输　　D．纺织业

11．北伐战争前夕，广州国民政府管治的地区主要是（　）

A．粤　　B．粤、桂

C．粤、闽　　D．粤、桂、滇

12．国共十年对峙时期，红军得以战胜一切敌人的最基本条件是（　）

A．根据地建设　　B．武装斗争

C．游击战术的运用　　D．土地革命

13．日伪政权在沦陷区开设满洲中央银行、中国联合准备银行等金融机构的目的是（　）

A．攫取中国的资财　　B．向沦陷区输出资本

C．控制沦陷区工矿企业　　D．建立东亚新秩序

14．抗战胜利后，中国人民对政局发展的迫切要求是（　）

A．统一军令、政令　　B．结束“训政”，实施“宪政”

C．实现民主统一、和平建国　　D．实行“军党分立”、“以政治军”

15．建国初期，中共中央和中央人民政府为纯洁干部队伍开展了（　）

A．整风运动　　B．“三反”运动

C．民主改革运动　　D．“五反”运动

16．我国社会主义现代化建设的目标是（　）

A．实现国家工业化　　B．建立社会主义市场经济体制

C．建设有中国特色的社会主义　　D．实现经济发展和社会全面进步

17．社会主义现代化建设时期，我国注重同任何国家发展友好合作关系，主要是为了（　）

A．维护中国人民的最高利益　　B．扩大中国的国际影响

C．推动国际经济合作　　D．赢得相对稳定的和平环境

18．《1978 年～1985 年全国科学技术发展规划纲要》确定的重点研究项目除了空间、高能物理外，还包括

①农业、能源　②材料、电子计算机　③地质力学　④激光、遗传工程（　）

A．①②③　　B．①③④

C．②③④　　D．①②④

19．16 世纪以来亚、非、拉美地区的社会生活方式逐渐发生变化的原因是（　）

A．资本主义世界体系的初步确立　　B．西方宗教、文化的渗透

C．文艺复兴的影响　　D．资本主义生产方式的传播

20．1791 年法国宪法规定有财产限制的选举制度违背了《人权宣言》精神，主要反映在（　）

A．政治民主　　B．个人自由

C．权利平等　　D．保护私有财产

21．采用和推广机器零部件标准化生产方法的重大意义是（　）

A．推动机器普及　　B．促进新技术应用

C．提高工作效率　　D．降低生产成本

22．20 世纪初，英国的欧洲政策发生了重大转变，主要是（　）

A．削弱法国　　B．遏制德国

C．放弃“光荣孤立”　　D．抵制美国势力渗透

23．最早把生物学确立在科学基础上的是（　）

A．赫胥黎　　B．达尔文

C．哈维　　D．施旺

24．《联合国家宣言》的主要精神是（　）

A．维持国际和平及安全　　B．提倡和平、合作、发展

C．促进国际经济文化交往　　D．保卫生命、自由、独立

25．20 世纪 80 年代开始，朝鲜半岛南北双方对话的主题是（　）

A．和平、合作、发展　　B．改革、交流、发展

C．互利、合作、统一　　D．统一、合作、交流

第二部分（非选择题，共 75 分）

二、材料解析题（本大题共 3 小题，第 26 题 10 分，第 27 题 10 分，第 28 题 14 分，共 34 分）

26．阅读下列材料

材料 1：“天有其时，地有其财，人有其制”。“制天命而用之”。

——《荀子》

材料 2：“天子受命于天，天下受命于天子……王者承天意以行事，与天同者，大治，与天异者，大乱。”

——董仲舒《春秋繁露》

材料 3：“天道，自然也，无为；如谴告人，是有为，非自然也。……六经之文，圣人之语。语言天者，俱愚者之言。”

——王充《论衡》

材料 4：“天之能，人固不能也；人之能，天亦有所不能也。……天人交相胜，还相用。”

——刘禹锡《天论》

请回答：

（1）在人与自然关系问题上，材料 1 提出了什么观点？（3 分）

（2）材料 2 和材料 3 对人与自然关系问题各持什么观点？（4 分）

（3）材料 4 所述“天人交相胜，还相用”正确与否？（1 分）为什么？（2 分）

27．阅读下列材料

材料 1：“现在中国就应该赶紧解决的问题真多得很。从人力车夫的生计问题到大总统的权限问题，从卖淫问题到卖官卖国问题……从女子解放问题到男子解放问题……哪一个不是火烧眉毛的紧急问题？”

——摘自胡适《多研究些问题，少谈些主义》

材料 2：“第一，空谈好听的‘主义’，是极容易的事，是阿猫、阿狗都能做的事，是鹦鹉和留声机都能做的事。第二，空谈外来进口的‘主义’，是没有用处的。”

——摘自胡适《多研究些问题，少谈些主义》

材料 3：“依马克思的唯物史观，社会上法律、政治、伦理等精神的构造，都是表面的构造。他的下面，有经济的构造作他们一切的基础。经济组织一有变动，他们都跟着变动。换一句话说，就是经济问题的解决，是根本解决。经济问题一旦解决，什么政治问题、法律问题、家族制度问题、女子解放问题、工人解放问题，都可以解决。”

——李大钊《再论问题与主义》

请回答：

（1）材料 1 中，胡适所述的社会问题出现在什么时代？（2 分）

（2）据材料 2，指出胡适对解决这些社会问题所持的态度。（2 分）

（3）据材料 3，李大钊如何分析上述社会问题的？（4 分）

（4）胡适和李大钊进行问题与主义之争的实质是什么？（2 分）

28．阅读下列材料

材料 1：（19 世纪后期）英国科学家虽然有不少发明，但他们固守蒸汽时代的旧技术，轻视电力技术应用，比如电灯发明后，它以耀眼的光芒宣告，新的光源将使世界的面貌焕然一新。而当时在英国，电灯的推广却遭到煤气照明公司的反对，千方百计保护已取得垄断地位的煤气照明，致使第二次科技革命产生的新型工业部门发展迟缓。

——《世界近代史》

材料 2：美国在这一时期（19 世纪后期）的技术研究和技术引进，主要是应用技术，并不更多注意基础学科研究，但这为后来科学研究和更多的技术发明创造了条件，争取了时间，聚集了力量。……在一战期间，欧洲及世界各地的著名科学家向美国流动，美国抓住这一时机采取自由开放的政策在世界各地搜罗“智囊”，进口博士……

——《世界经济运动轨迹探索》

材料 3：经济重心转向大西洋后，世界经济进入了从产生到发展的最活跃时期。随着国际竞争的加剧，科学技术革命的连续发生，生产力向更高层次飞跃，领先国家经历了由英国到美国的更替，从而牵动世界经济重心从西欧向北美跨越。

——《世界经济运动轨迹探索》

请回答：

（1）根据材料 1，指出英国轻视新发明新技术的原因及后果。（3 分）

（2）根据材料 2，指出 19 世纪后期美国为大力发展新科技而采取的措施。（4 分）

（3）依据上述材料并结合所学知识，指出两次世界经济重心转移的主要原因，并说明科学技术在经济发展中的重要作用。（7 分）

三、问答题：（本大题共 3 小题，第 29 题 13 分，第 30 题 13 分，第 31 题 15 分，共41 分）

29．概述宋元时期中国对外经济文化交流频繁活跃的情况，并指出它的有利条件和显著的特点。

30．“社会主义阶段的最根本任务就是发展生产力”。在社会主义建设各时期，党和政府为发展生产力作了哪些努力？取得什么重要成果？

31．概述 20 世纪 90 年代世界经济发展的主要趋势和韩、日、印三国经济发展情况，并指出当前影响亚洲地区经济持续发展最主要的问题及应对措施。

历　史

本试卷分第Ⅰ卷（选择题）和第Ⅱ卷（非选择题）两部分。满分150分。考试时间90分钟。

第Ⅰ卷（选择题，共80分）

一、选择题：本大题共20小题，每小题4分，共计80分。在每小题列出的四个选项中，只有一项是符合题目要求的

1．我国神圣领土台湾在三国时称为夷洲，在隋唐、元朝、明朝前期时依次称为（　）

A．流求、小琉球、琉球　　B．琉球、流求、小琉球

C．琉球、小琉球、流求　　D．流求、琉球、小琉球

2．“冗官、冗兵、冗费”是造成北宋长期“积贫积弱”局面的原因之一，这说明（　）

A．兵不在多而在勇　　B．政治改革要重视精兵简政

C．政治改革要有强大的经济后盾　　D．北宋加强中央集权措施弊大于利

3．魏晋南北朝时期，我国经济发展的主要特点是（　）

A．新兴封建城市成为繁华商业中心

B．大量荒地得到开垦使耕地面积扩大

C．引进农作物新品种并大力推广种植

D．江南迅速开发使南北经济趋向平衡

4．下列科技著作与称谓不相符的是（　）

A．《梦溪笔谈》——中国科学史的里程碑

B．《四部医典》——脉学之宗

C．《徐霞客游记》——地理学巨著

D．《神农本草经》——中国第一部完整的药物学著作

5．在太平天国运动发展的过程中，西方列强对其实行的政策是（　）

A．由“中立”到剿杀　　B．自始至终进行剿杀

C．自始至终奉行不干涉政策　　D．由支持太平天国到支持清政府

6．《辛丑条约》签订后，慈禧太后在《罪己诏》中说：“今兹和约，不侵我土地，念友邦之见谅，疾愚暴之无知。……量中华之物力，结与国之欢心。”此时帝国主义列强“不侵我土地”的根本原因是（　）

A．甲午战争后列强已将中国领土瓜分完毕

B．列强侵华主要方式已发生重大变化

C．义和团运动粉碎了列强瓜分中国的迷梦

D．清政府已彻底成为列强统治中国的工具

7．20世纪20年代，孙中山先生实现了由旧三民主义到新三民主义的伟大飞跃，促使孙中山先生思想发生转变的根本原因是（　）

A．中国社会主要矛盾的变化　　B．多次革命斗争的失败

C．坚持民主革命的精神　　D．共产国际和中国共产党的帮助

8．对“国民大革命”中“大”的理解，最确切的是（　）

A．国共两党共同领导　　B．双方投入兵力多，战争规模大

C．人民群众广泛参与　　D．广大农民开展土地革命

9．“八七”会议和遵义会议的相似点包括

①会议全力纠正了组织上、军事上、思想上的错误　②毛泽东都参加了会议并提出正确主张　③在危急的情况下挽救了党和革命　④是党独立自主解决问题的开始（　）

A．①③　　B．②③

C．①④　　D．③④

10．日本在沦陷区推行奴化教育的最终目的是（　）

A．让中国人理解日本的“亲善”行为

B．在中国推行义务教育制度，传播日本文化

C．摧残中国人的民族意识，实现其同化政策

D．在中国建立一整套殖民化的教育体制

11．解放战争时期中国共产党制定的土地政策与抗日战争时期相比，不同点在于（　）

A．满足农民对土地的要求　　B．调动农民生产的积极性

C．促进根据地经济的发展　　D．推动民主革命的进展

12．毛泽东认为平抑物价斗争的功绩不亚于淮海战役，主要是由于这项斗争（　）

A．有力地推动了国民经济的快速发展

B．沉重地打击了资产阶级的投机倒把行为

C．有利于私人资本主义经济的健康发展

D．使人民政府在经济上开始站稳了脚根

13．我国新时期的外交方针与政策有

①不结盟政策　②开展与周边国家的睦邻友好关系　③“一边倒”与“一大片”　④对外开放（　）

A．①②③　　B．①②④

C．①③　　D．③④

14．文艺复兴运动与启蒙运动的主要区别在于

①是否适应商品经济发展的需要　②是否反封建　③有无对未来社会的政治设想　④是否成为资产阶级革命的思想武器（　）

A．①②③④　　B．②③④

C．③④　　D．①④

15．英国资产阶级革命、美国独立战争和法国大革命的相似之处是（　）

A．都体现了封建制度过渡到资本主义制度的规律

B．革命期间都曾受到外国武装的干涉

C．都以发布重要宣言作为革命成功的标志

D．都建立了具有本国特点的资本主义政治制度

16．19世纪三四十年代，欧洲无产阶级作为独立的政治力量登上政治历史舞台的历史条件包括

①资本主义制度的全面确立　②科学社会主义诞生　③资本主义经济危机的发生　④工业革命使社会日益分裂为两大阵营（　）

A．①②③　　B．②③④

C．②④　　D．③④

17．明治维新中推行的“文明开化”政策的核心是（　）

A．用西方资本主义文化改造日本封建文化

B．废除封建身份制度，实现形式上的平等

C．政府大力支持发展近代资本主义工商业

D．提倡武士道精神，力争实现民族振兴

18．世界上第一个工农苏维埃政府成立后采取的最能反映当时俄国人民迫切愿望的措施是（　）

A．没收地主土地分配给农民耕种

B．摆脱战争，争取和平

C．将铁路、银行、大工业等收归国有

D．由工人对一切企业生产实行监督

19．罗斯福新政的下列措施中，具有建立诚信机制作用的是（　）

A．推行“以工代赈”，增加失业者的就业机会

B．整顿银行，成立联邦储蓄保证公司

C．奖励农民压缩产量，调整生产结构

D．实行美元贬值，刺激出口

20．第二次世界大战后，亚洲各国走上了独立发展民族经济的道路，但各地经济发展的速度很不平衡，其主观原因是

①各国经济发展战略、政策不同　②各国原有工业基础不同　③各国对科技及教育的重视程度不同　④各国的地理位置、自然条件不同　⑤各国善于抓住历史机遇的能力不同（　）

A．①③⑤　　B．①②③

C．①②④⑤　　D．①③④⑤

第Ⅱ卷（非选择题，共70分）

二、材料解析题：本大题共2小题，第21题21分，第22题15分，共计36分。要求：分析材料，结合所学知识回答问题

21．阅读下列材料：

材料一　以下一组材料是古代思想家关于“君”、“民”关系的言论汇编：

①“民惟邦本，本固邦宁。”（伪《古文尚书·五子之歌》）“民为君之本。”（《谷梁传·桓公十四年》）

②“以百姓心为心。”（《老子》第四十九章）“君之爱民，当如心之爱身也。”（清唐甄《潜书·明鉴》）

③“自古及今，未有穷其下而无危者也。”（《荀子·哀公》）“民乏财用，不亡何待？”（《国语·楚语上》）

④“左右皆曰贤，未可也；诸大夫皆曰贤，未可也；国人皆曰贤，然后察之，见贤焉，然后用之。”（《孟子·梁惠王下》）

⑤（执政者须）“言必信，行必果。”（《荀子》）“自古皆有死，民无信不立。”（《论语·颜渊》）

材料二　（唐太宗对大臣们说）“……夫欲盛则费广，费广则赋重，赋重则民愁，民愁则国危，国危则君丧矣。朕常以此思之，故不敢纵欲也。”（《资治通鉴》卷一九八）

阅后回答：

（1）材料一反映了深深植根于中华文化悠久历史传统中的哪一理念？根据材料一简述该理念的内容？（不得摘抄原文）（12 分）

（2）材料二中唐太宗的这段话说明了什么道理？（3 分）

（3）材料一、材料二对你有何启示？（6 分）

22．阅读下列材料：

材料一　对于日本真正战败的原因，当事者和历史学家意见不一。负责进行战略轰炸的人断言，即使没有原子弹，日本在 1945 年底也就完全被摧毁了，尼米兹海军上将始终认为，美国海军的绝对优势使胜利得以实现，而且只要有海军的优势就足以获胜。苏联的参战出人意料地得到负责中国境内的空军作战的陈纳德将军的支持。他认为，红军参战是决定性的因素，即使没有原子弹也会是这样。……看来是所有这些因素综合在一起，才把日本一步步引向失败，然后又使失败突然来到。但是有两个不变的压倒一切的因素早已注定了日本的命运：首先是日本经济上的弱点——它的经济潜力只有美国的 15%……但是美国人——这是第二个决定的因素——出色地动员和发挥了自己的力量，对日作战，美国拥有军事优势……而这是根本的。

——H·米歇尔《第二次世界大战》下册

材料二　我们所想到的是日本人的武士道的精神，拼命抵抗，致死方休。……要一个人一个人地消灭日本人的抵抗，一寸土地一寸土地征服那个国家，很可能要丧失 100 万美国人和 50 万英国人的生命。

——W·丘吉尔《第二次世界大战回忆录》第 8 卷

材料三　8 月 6 日，美国以第一颗原子弹投到日本海军基地——广岛，……事后调查该市死伤总数，死者计 6 万人，伤 10 万余人，而伤者亦大多数无法治疗。

——《日本拒绝乞降受降目击记》

材料四　日军兵力分布情况

太平洋战争爆发时			1942 年		日本投降时	
中国战场 35 个师团	太平洋战场 10 个师团	东南亚战场 7 个师团	中国战场 37 个师团	太平洋、印度洋战场 15 个师团	中国战场（不含东北）111 万多人	东南亚、太平洋战场不到 109 万人

——杨小彬《中国抗战与第二次世界大战》

请回答：

（1）据材料一在分析日本战败的原因时有哪些主要观点？（3 分）

（2）你如何评价原子弹在对日作战中的作用？对日本人民遭受原子弹轰炸的悲剧如何认识？（8 分）

（3）西方人士分析日本战败的原因是否客观公正？为什么？（4 分）

三、问答题：本大题共 2 小题，第 23 题 24 分，第 24 题 10 分，共计 34 分

23．建设有中国特色社会主义的理论是怎样逐步形成和发展的？该理论与“工农武装割据思想”在形成原因上有哪些相似之处？（24 分）

24．概括 19 世纪晚期的德国和第二次世界大战后的联邦德国经济发展的共同特点，并分别指出这两次发展对当时世界格局的影响。（10 分）

天利

广东省深圳市 2004 年高三第一次调研考试

5 A

历　史

本试卷分第一部分（选择题）和第二部分（非选择题）两部分。满分 150 分。考试用时 120 分钟。

第一卷（选择题，共 75 分）

一、选择题：本大题共 25 小题，每小题 3 分，共计 75 分。在每小题列出的四个选项中，只有一项是符合题目要求的

1．下列有关夏商周三代都城的叙述，不正确的是（　）

A．相传夏初建都阳城　　B．商初以亳为都城

C．西周中期迁都到殷　　D．周平王迁都洛邑

2．依据下列春秋战国时期的水利工程图，指出图中 B 所代表的水利工程是（　）

A．芍陂　　B．郑国渠　　C．西门豹渠　　D．都江堰

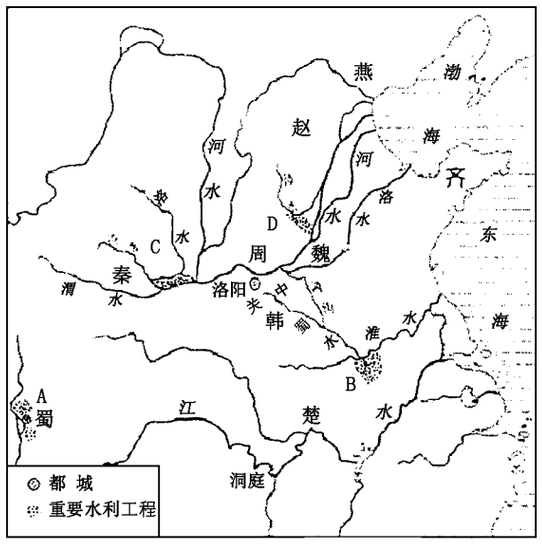

3．魏晋南北朝时期，下列地区中经济最发达的是（　）

A．洞庭湖流域　B．鄱阳湖流域　C．三吴地区　D．成都平原

4．下列关于古代“海上丝绸之路”的叙述，不正确的是（　）

A．开辟于东汉时期　　B．从广东沿海港口出发

C．汉朝时最远可达印度半岛　　D．唐朝时可达波斯湾

5．唐朝实行募兵制的积极意义是（　）

A．有利于民族融合　　B．抑制地方割据势力的形成

C．减轻农民的兵役负担　　D．增加政府的赋税收入

6．北宋“庆历新政”的中心内容是（　）

A．减轻徭役　　B．提倡农桑　　C．加强军事　　D．整顿吏治

7．下列关于我国古代货币的叙述，不正确的是（　）

A．秦朝流通“半两钱”　　B．隋朝仍流通五铢钱

C．唐玄宗时开始流通“开元通宝”　　D．明清时期大量流通白银

8．明朝在全国推行一条鞭法

①有利于商品经济的发展　②促进了货币地租的发展　③有利于减轻农民的负担　④有利于资本主义萌芽的增长（　）

A．①②③　　B．②③④　　C．①③④　　D．①②③④

9．下列有关“改土归流”的叙述，正确的是（　）

A．元朝时期开始实行“改土归流”

B．明朝时期西南大部分地区实行了“改土归流”

C．全部任用汉人担任流官取代当地土司

D．加强了对西南地区的统治

10．“将来大皇帝有新恩施及各国，亦应准英人一体均沾”。英国获得此项特权是通过（　）

A．《南京条约》　　B．《南京条约》的补充条约

C．《望厦条约》　　D．《天津条约》

11．1853 年，太平天国北伐的主要目的是（　）

A．巩固天京大本营　　B．断绝清政府的财源

C．配合西征　　D．推翻清朝的统治

12．从鸦片战争到 19 世纪六、七十年代，我国新出现的经济成份有

①外商在通商口岸开办的企业　②洋务派兴办的企业　③民族资本主义企业　④官僚资本主义企业（　）

A．①④　　B．②③　　C．①②③　　D．①②③④

13．按发生的先后顺序排列下列事件

①中国司法主权开始遭到破坏　②允许外国资本家在中国开设工厂　③侵略势力深入长江中下游地区　④在北京设立“使馆界”，允许各国派兵保护（　）

A．①②③④　　B．①③②④　　C．②①④③　　D．③①④②

14．维新派认为，造成“锢智慧”、“坏心术”、“滋游手”的是（　）

A．君主专制制度　　B．封建土地制度

C．八股取士制度　　D．八旗制度

15．资产阶级革命派提出的民权主义与维新派的民权思想相比，其主要不同在于（　）

A．反对民族压迫　　B．反对一切形式的君主制

C．实行资产阶级民主　　D．反对封建专制统治

16．辛亥革命爆发后，帝国主义由准备武装干涉转为“严守中立”，其主要原因是（　）

A．革命派宣布清政府签订的不平等条约继续有效

B．革命力量在全国迅速发展

C．帝国主义一时难以调集军事力量

D．袁世凯掌握了清政府大权

17．新文化运动的兴起，实质上反映了（　）

A．尊孔复古逆流与民主共和思潮的矛盾

B．北洋军阀与资产阶级革命派的矛盾

C．资本主义与封建主义的矛盾

D．无产阶级文化与资产阶级文化的矛盾

18．遵义会议的历史功绩，不包括（　）

A．结束了王明“左”倾错误路线在中央的统治

B．在事实上确立了以毛泽东为核心的新的党中央的正确领导

C．纠正了博古等人在军事上和组织上的“左”倾错误

D．在思想上清算了“左”的和右的错误

19．毛泽东的《论反对日本帝国主义的策略》（　）

A．提出了建立抗日民族统一战线的方针

B．提出了持久战的理论

C．奠定了抗日民族统一战线的理论基础

D．制定了全面抗战路线

20．日本在沦陷区推行奴化教育的根本目的是（　）

A．宣传法西斯主义　　B．培养和训练汉奸

C．缓和中日民族矛盾　　D．消磨中国人民的民族意识

21．为争取抗日战争的最后胜利和新民主主义革命在全国的胜利奠定了思想基础的是（　）

A．延安整风　　B．中共七大

C．中共七届二中全会　　D．中国人民政治协商会议

22．1945 年 8 月，毛泽东到重庆谈判的主要目的是（　）

A．尽力争取国内和平　　B．表明中共的和平诚意

C．揭穿国民党的假和平阴谋　　D．争取中间力量的支持

23．建国初期，合理调整工商业产生的直接影响是（　）

A．私人资本主义得到一定程度的发展　B．国民经济迅速恢复和发展

C．加快了对资本主义工商业的改造　D．巩固了新生的人民民主政权

24．中共八大在探索社会主义建设道路方面作出了重大贡献，主要体现在（　）

A．把党的工作重心转移到经济建设上来

B．否定了经济建设中保守和冒进的错误倾向

C．提出了把我国建设成为社会主义工业国的总任务

D．对社会主义制度下的主要矛盾作出了科学的论断

25．文化大革命期间愤怒声讨“四人帮”的群众运动是（　）

A．“一月革命”　B．二月抗争　　C．“四五运动”　D．“九一三事件”

第二卷（非选择题，共 75 分）

二、材料解析题：本大题共 3 小题，第 26 题 14 分，第 27 题 10 分，第 28 题 13 分，共计 37 分。要求：分析材料，结合所学知识回答问题

26．阅读下列材料：

材料一　东汉官吏的选举，基本上与西汉相同。一是察举，另一是征辟。这些办法在东汉初实行时还注意德才，参考门第，但很快就不讲德才，主要看门第了。当时地方推举的孝廉茂才多出自豪族，征辟更是如此。

——《简明中国古代史》

材料二　九品之制，初因后汉建安中，天下兴兵，衣冠士族，多离於本土。……魏氏革命，州、郡、县皆置大小中正，区别所管人物，定为九等。其言行修著，则升进之；或道义亏缺，则降下之。……以吏部不能普审天下人才士庶，故委中正铨第等级，凭之授受。

——《通典·选举》

材料三　今之中正，不精才实，务依党利；……有私於己，必得其欲。是以上品无寒门，下品无势族。

——《晋书·刘毅传》

材料四　隋文帝即位后，多次下令征求才能之士。到了炀帝设置进士科，以“试策”取士，在中国选官史上揭开了新的一页。……唐王朝建立之后，继续实行科举取士，并把这一制度更加完善起来。唐朝初年，考试是由尚书省之吏部主持的，玄宗决定把主考权移给礼部，由礼部侍郎主持。此后，历代相沿不改。

——《历代职官沿革史》

回答：(1) 上述材料反映出我国古代哪几种选官制度？(4 分)

（2）材料三与材料二相比，选官的依据发生了怎样的变化？原因有哪些？（4 分）

（3）与前几种选官制度相比，材料四反映出隋唐的选官方式有什么明显变化？据此分析这一方式为历代沿用的原因。（6 分）

27．阅读下列材料：

材料一　西安事变一发生，英美大使馆即积极支持宋美龄营救蒋介石的活动，并对西安联共抗日的主张表示同情。英国驻华大使还直接给张学良发电报，宣称与蒋介石的分歧应当“在自由的气氛中进行讨论”，并说西方的舆论一致反对这次只能造成损害的事变，希望张学良能够“彻悟”。法国的态度与英、美基本上保持一致。

材料二　苏联对西安事变持斥责态度。苏联驻华大使馆临时代办声明，苏联政府“判定张学良之行动，徒足以破坏中国统一，减少中国力量。”苏联《真理报》、《消息报》都曾连续发表社论，反对中国一切形式的内战。

材料三　德国报纸发表评论说：“张学良反复无常，此次与苏俄携手，并非出于对共产主义的信仰，仅系企图颠覆蒋介石将军之势力耳。”墨索里尼的女婿、意大利外交部长齐亚诺直接致电张学良说：“阁下为吾挚友，倘参加共产，即为吾敌。须知中华民国苟无蒋介石将军，则难于自存”云云。拥有一百多人的德国军事顾问团，亦积极活动，反对西安赤化，怂恿何应钦下令讨伐。

——雨辰《西安事变》

回答：（1）概括指出国际各派政治力量是如何研判西安事变的？（6 分）

（2）西安事变的和平解决，反映出当时国际、国内主要矛盾发生了怎样的变化？（4 分）

28．以下两图分别反映了我国不同时期的工业发展状况：

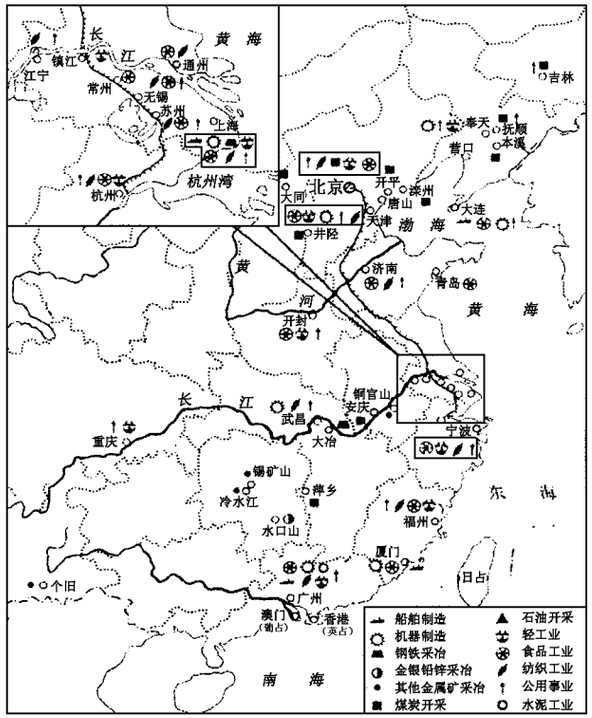

图一：民国初年民族工业分布示意图

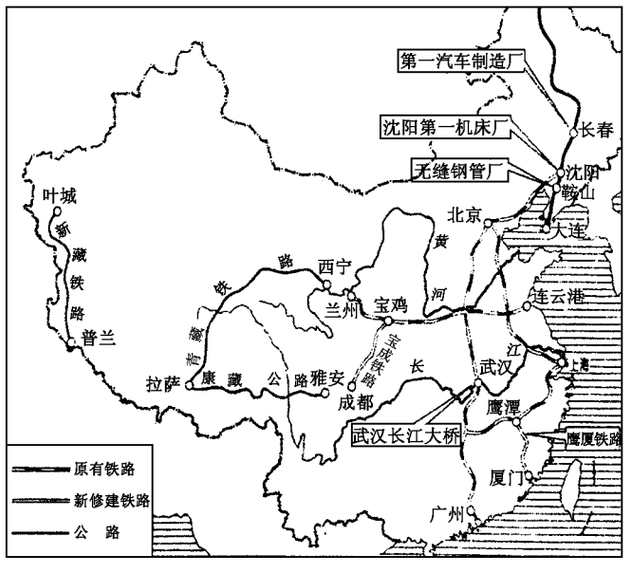

图二：第一个五年计划工业交通建设主要成就分布示意图

根据上述地图，结合所学知识，回答：（1）从工业结构看，两个时期我国工业发展的侧重点有什么不同？原因是什么？（6 分）

（2）从地域分布看，两个时期我国工业发展又有什么相同点？原因是什么？（5 分）

（3）上述对工业结构和工业地域分布的分析，对我国的工业发展有何启示？（2 分）

三、问答题：本大题共 3 小题，第 29 题 12 分，第 30 题 14 分，第 31 题 12 分，共计 38 分

29．儒家思想是我国封建社会的统治思想。西汉的董仲舒和南宋的朱熹对儒家思想有什么新发展？明末清初三大思想家又是怎样从不同的角度批判朱熹的新儒学的？这种批判反映了怎样的时代内容？（12 分）

30．孙中山把旧三民主义发展为新三民主义，反映出他对中国民主革命的认识发生了哪些重大转变？试分析孙中山思想转变的原因和影响。（14 分）

31．新中国成立至 50 年代中期，我国独立自主外交政策的基本方针有哪些？取得了哪些外交成就？（12 分）

需要全本请访问 www.ertongbook.com

天利

桂林市2004年高考第三次模拟考试

6 A

历　史

一、单选题（本大题共25小题，每小题3分，共计75分）

1．秦朝时中央政府对东北南部地区实行有效管理的机构是（　）

A．辽东郡　　B．九原郡

C．辽阳郡　　D．黑水郡

2．张骞通西域开辟了西域与内地关系的新时代。其表现有

①西域各国纷纷派使者访问汉朝　②西域与内地经济文化交流日益密切　③公元前60年，西域都护设立　④汉政府开始大量移民西域（　）

A．①②③　　B．①②③④

C．①②　　D．②③

3．下列诗句反映的历史现象能够说明外来文化对我国古代建筑具有影响的是（　）

A．武帝祠前云欲散，仙人掌上雨初晴

B．汉文皇帝有高台，此日登临曙色开

C．诸葛大名垂宇宙，宗臣遗像肃清高

D．南朝四百八十寺，多少楼台烟雨中

4．唐前期，统治者比较善于用人，下列表述不正确的是（　）

A．进谏名臣魏征受到太宗重用

B．武则天重用有才能的人

C．为防止大臣专权，唐太宗统一全国后不再重用开国功臣

D．唐玄宗曾亲自考核新任命的县令

5．王安石变法中的农田水利法，其内容是（　）

A．集资兴修水利　　B．鼓励垦荒和兴修水利

C．用法制保护水利设施　　D．禁止开荒，防止水土流失

6．明朝的一条鞭法，采取赋役征银的办法，说明当时（　）

A．白银开采量大　　B．社会比较富裕

C．银钱信誉度高　　D．商品经济有了很大发展

7．清政府曾派兵平定了大小和卓的叛乱。稳定了下列哪个地区的社会环境？（　）

A．西藏　　B．外蒙古

C．内蒙古　　D．新疆

8．下列中国近代史上的政治运动和思想文化现象以民族资本主义的产生、发展为基础的是

①早期维新思想的形成　②新文化运动　③五四运动　④国民大革命（　）

A．①②　　B．①②③

C．①②③④　　D．②③

9．下列对戊戌变法和辛亥革命共同点的归纳不准确的是（　）

A．是爱国救亡的政治运动　　B．主张在中国建立资本主义制度

C．主张取消君主制度　　D．未提出彻底的反帝反封纲领

10．下列政治、思想、文化运动不发源于北京的是（　）

A．维新变法运动　　B．新文化运动

C．五·四运动　　D．一二·九运动

11．将发展工商业提高到摆脱民族危机，振兴中华的阶级、阶层有

①早期维新派　②资产阶级革命派　③农民阶级　④维新派（　）

A．①②④　　B．①②③

C．①②③④　　D．①④

12．与欧美国家的近代化相比，中国近代化

①受内部封建保守势力的顽强抵制　②缺少必要的资本原始积累　③发展畸形，结构不合理　④资产阶级掌握近代化的领导权（　）

A．①②③　　B．①③④

C．①②③④　　D．①②④

13．在八七会议上，毛泽东对第一次国内革命战争的经验教训进行概括即（　）

A．政权是由枪杆子中取得的

B．星星之火可以燎原

C．如果解决了土地问题，就可为战胜敌人准备了最基本的条件

D．必须全心全意依靠人民群众

14．国民经济恢复后，新中国优先发展重工业方针的原因不包括（　）

A．苏联模式的影响

B．我国重工业基础极为薄弱

C．严峻的国际形势

D．我国轻工业已能完全满足人民生活需要

15．在国共十年对峙、抗日战争、解放战争时期，毛泽东站在革命前列，进行了一系列开创性的工作。如

①创立了中国第一个农村革命根据地　②创立了抗日民族统一战线　③出席重庆国共和谈　④在党的七届二中全会上提出了将党的工作重心转入城市（　）

A．①②③④　　B．①②④

C．①④　　D．①②

16．目前，台湾仍与大陆分离的直接历史原因是（　）

A．日本对台湾的长期殖民统治　　B．朝鲜战争的影响

C．美国第七舰队进驻台湾海峡　　D．国民党残余势力割据台湾

17．中国在20世纪70年代末以来，发生了一场长期、深刻的思想解放运动，如

①家庭联产承包责任制　②对外开放　③发展多种经济所有制　④发展社会主义市场经济体制（　）

A．①②③　　B．①②③④

C．②③④　　D．②③

18．与文艺复兴相比，启蒙运动在反封建斗争方面的突出特点是（　）

A．要求摆脱天主教神学的束缚　　B．具有强烈的宗教色彩

C．矛头直指封建专制制度　　D．推动自然科学发展

19．美国1787年宪法是美国政局长期稳定的基础，主要是由于（　）

A．确立了资产阶级和种植园主的联合统治

B．实行一国两制

C．规定了公民的民主自由权利

D．确立了三权分立的政治体制

20．日本吞并朝鲜的有利国际环境不包括（　）

A．中国在甲午战争中失败　　B．日俄战争中俄国失败

C．美国的支持　　D．第一次世界大战爆发

21．一战的影响不包括（　）

A．使人类遭到一次空前的浩劫

B．严重削弱了英法意帝国主义大国

C．摧毁了俄、奥、德、奥斯曼四大帝国

D．使以欧洲为重心的国际格局转变为以太平洋为中心的国际格局

22．国联并没有起到维护国际和平与安全的作用，主要是由于（　）

A．为英法所操纵

B．美国没有参加

C．没有第三世界国家加入

D．盟约没有规定国联具有反侵略的权利

23．罗斯福新政开创了资本主义国家经济的新模式，新模式指的是（　）

A．垄断资本主义　　B．计划经济

C．劳资协商，各业协调　　D．国家干预经济

24．20世纪60到80年代，韩国和新加坡经济出现高速增长，与中国50到70年代中期经济发展战略的最大不同是（　）

A．大力发展重工业　　B．大力发展外向型经济

C．大力发展轻工业　　D．大力发展农业

25．第三次科技革命使能源结构发生了较大变化，最突出的是（　）

A．煤炭广泛开采　　B．石油广泛使用

C．太阳能被收集利用　　D．核能被开发利用

二、材料分析题（本大题共3小题，每小题12分，共计36分，要求：分析材料，结合所学知识回答问题）

26．壁画、绘画、照片等能够形象生动地反映某些事物，往往成为重要的史料。读下列三幅图并回答问题。



图(一)　废井田　开阡陌



图(二)　景德镇的瓷器工场



图(三)　1963年上海洪盛机器辗米厂

(1)图(一)反映的是什么重要变法？为什么说这场变革是历史的巨大进步？(5分)

（2）图（二）表明我国出现了什么新现象？这种新现象的出现说明了什么？（2 分）

（3）图（三）反映了什么现象？图（二）现象到图（三）现象的出现，中国与西欧相比有何主要的不同之处？（5 分）

27．历史上，中国共产党员成份发生了几次较大变化。阅读下列材料并回答问题：

类别 / 人数或比例 / 时间	知识分子或小资产阶级知识分子	工人	农民	总数
1921 年	50 多	—	—	50 多
1922 年	174	21	—	195
1924 年	—	40%	—	650
1926 年	—	70%	—	4000
1928 年	—	10%	76%	130000
1934 年	—	—	90%	300000
1945 年	20%	—	—	121 万

——引自《党史信息报》2003 年 10 月 22 日

（1）根据材料概括指出中国共产党员成份的变化情况。（4 分）

（2）分析发生上述变化的原因。（6 分）

（3）近年来，中国共产党吸收了许多民营企业家入党。这种做法有何重要意义？（2 分）

28．阅读下列材料：

材料一：1906 年 8 月，一位英国人在一封信中说道：“我以为东方必将发生一场变革。日本的胜利似乎已对整个东方产生非常明显的影响……此外，俄国革命也在这里产生了极为惊人的影响。俄国的事件已引起人们的极大的关注，一种新的精神似乎已开始支配人气。他们厌恶统治者，并以俄国为例，开始认为不可能得到另一种较好的政体。看来东方正从睡梦中觉醒。在中国爆发了一场著名的排外运动，这是一种“中国人的中国”的思想趋势。在波斯（伊朗），由于邻近俄国，这种觉醒看来像是采取了民主改革运动的形式。在埃及和北非，觉醒突出地表现为狂热行为的明显增加以及泛伊斯兰运动的扩大。这些动乱症状的同时出现太惊人，不能完全归因于巧合。谁知道呢、或许东方确实正从其长久的睡眠中觉醒。”

——D.G 布朗《1905～1909 年的波斯革命》

材料二：亚洲的一个小王国（日本）对欧洲一个强大国家的胜利是近代史上的一个转折点。这一事件给整个殖民地世界以巨大希望和极大刺激……使各地被压迫民族激动不已。

——《全球通史》

请回答：

（1）材料一中“日本的胜利”、“俄国革命”，中国的排外活动、波斯的“民主革命”分别指什么事件？（4 分）

（2）材料一对东方觉醒的预见是否正确？对东方觉醒的原因分析是否全面？为什么？（4 分）

（3）材料一、二的相同点是什么？你对此有何认识和评价？（4 分）

三、问答题（本大题共 3 小题，每小题 13 分，共计 39 分）

29．战国时期的商鞅和明末清初黄宗羲的经济主张不尽相同。如：商鞅提出：力本业（农业）耕织致粟帛多者，复其身（免除谣役），事末利（经商）及息而贫者，收为奴。黄宗羲说：“世儒不察，以工商为末，妄议抑之。夫工固圣王之所欲来，商又使其愿出于途，盖皆本也”。

问：（1）在经济思想上，商鞅和黄宗羲的观点有何不同？（2 分）

（2）结合史实说明这两种不同经济思想所反映的两个历史阶段特点并加以评论。（11 分）

30．我国是一个农村人口占绝大多数的国家。农村的稳定，农村经济的发展和农民生活的改善关系到国家稳定和现代化建设成败的全局。回答：

（1）我国农村经济结构的变化开始于明清时期。这一时期我国经济结构变化的主要表现是什么？（2 分）

（2）近代时期，我国农村经济结构发生的主要变化是什么？引起变化的主要原因是什么？（5 分）

（3）十九世纪五十年代中期，我国农村经济结构发生了重大变化，指出其表现。这种变化为什么没能使中国农业走上现代化道路？（2 分）

（4）家庭联产承包责任制曾经极大地推动了农业生产的发展，但并没有使中国实现农业现代化的原因是什么？当前，我国农村经济历史性巨变的倪端已经初露。指出这方面的表现。（4 分）

31．二十世纪三、四十年代，是国际极端势力发展最为猖獗，危害最大的时期。这一时期国际极端势力的主要代表是什么？（1 分）为什么会发展猖獗？（5 分）造成了哪些危害？（2 分）这些极端势力后来是怎样被削弱的？（2 分）是否完全被铲除？请举例说明。（3 分）

天利

江苏省徐州市 2004 年高三第二次质量检测

7 A

历　史

本试卷分第Ⅰ卷（选择题）和第Ⅱ卷（非选择题）两部分。满分 150 分。考试时间 120 分钟。

第Ⅰ卷（选择题，共 75 分）

一、选择题：本大题共 25 小题，每小题 3 分，共计 75 分。在每小题列出的四个选项中，只有一项是符合题目要求的

1．春秋战国时期民族融合的主要形式是（　）
A．思想领域的纷争　B．诸侯国之间的兼并战争
C．铁器和牛耕的使用与推广　D．新旧社会制度的更替

2．汉武帝以后开辟的“海上丝绸之路”，最远抵达（　）
A．非洲东海岸和红海沿岸　B．印度半岛南端
C．孟加拉沿岸诸国　D．印度支那半岛

3．下列关于均田制的叙述，不正确的是（　）
A．实行的朝代主要是北魏、隋、唐
B．这是按人口分配土地的制度
C．分配的土地包括国家和地主原有的土地
D．均田制是府兵制赖以存在的经济基础

4．唐太宗从隋亡中吸取的最重要教训是“存百姓”，为此，他（　）
A．任用贤臣，虚怀纳谏　B．改革赋役，推行租庸调制
C．完善科举，扩大统治基础　D．对外开放，吸纳外来文化

5．明代思想家顾炎武说：“八股之害，等于焚书，而败坏人才，有甚于咸阳之郊所坑者四百六十人也。”其中“败坏”的主要含义应是指（　）
A．学术研究的脱离实际　B．知识涉猎范围的空前狭小
C．读书人游手好闲，不学无术　D．人们思想受到严格的限制和禁锢

6．在如何选官用人问题上，太平天国后期的洪仁　曾提出（　）
A．在各省设新闻官，听取社会舆论
B．废除八股，改试策论，开设经济特科
C．通过考试来任免官职
D．设投票箱，由公众选举官吏

7．在瓜分狂潮下挺身抗争的义和团运动，其落后性主要表现在（　）
A．幻想依靠政府对抗外来侵略　B．带有强烈的民族复仇色彩
C．盲目排斥近代西方先进的物质文明　D．斗争缺乏严密的组织性和纪律性

8．中共在“二大”上，之所以能第一次在全国人民面前提出明确的反帝反封建民主革命纲领，主要是因为其（　）
A．代表先进的生产力　B．得到共产国际的帮助
C．正确认识了中国的国情　D．是先进阶级的代表

9．发生在工农红军长征期间（1934 年 10 月～1936 年 10 月）的历史事件不包括（　）
A．中共发表《八一宣言》　B．瓦窑堡会议
C．“一二·九”运动　D．西安事变

10．抗日战争时期，中共在党的自身建设上取得的成就有①确立了以毛泽东为核心的党中央领导　②确定了党的指导思想　③从思想上清算了“左”和右的错误　④形成了空前的团结和统一（　）
A．①②④　B．②③④
C．①②③④　D．①③④

11．新中国成立初期，人民政府在工商业经营者中进行了一次普遍的守法经营教育，这是指（　）
A．镇压反革命运动　B．“三反”运动
C．“五反”运动　D．反右派斗争

12．在中国要避免“文化大革命”的悲剧重演，首先要（　）
A．实现国民经济现代化　B．防止教条主义和个人崇拜
C．不断批判保守落后思想　D．完善社会主义民主和法制

13．全面建设社会主义时期，我国国民经济建设出现失误的原因不包括（　）
A．忽视人的主观能动性
B．中国共产党缺乏领导经济建设的经验
C．对经济落后大国的社会主义建设认识不足
D．对掌握经济规律的必要性认识不足

14．新中国外交政策走向成熟的标志性事件是（　）
A．和平共处五项原则的提出
B．“求同存异”方针的确立
C．中华人民共和国重返联合国
D．“三个世界”划分理论得到国际社会认可

15．十一届三中全会以后，我国城市经济体制改革侧重于（　）
A．所有制体制的多元化、管理体制的灵活化
B．厂矿经营企业化、生产技术现代化
C．企业生产社会化、物资交流商品化
D．工业生产专业化、市场流通商品化

16．目前，阻碍台湾与祖国大陆统一的主要因素是（　）
A．两岸经济发展水平的不对称
B．两岸人民生活水平的差距
C．两岸政治制度的不同
D．岛内分裂倾向的发展和某些大国反华势力的干涉

17．法国著名史学家米希勒称 16 世纪为“世界的发现和人的发现”的世纪，这里“人的发现”主要是指开始（　）
A．认识到人的主观能动性　B．重视人性的价值和尊严
C．注重改善人的生产生活环境　D．强调人体研究的科学价值

18．关于早期资产阶级革命的评述，不正确的是（　）
A．发生于资本主义工场手工业时期
B．根本任务是推翻封建制度，确立资产阶级统治
C．革命进程呈现出曲折和反复
D．都在启蒙思想的影响和推动下进行

19．《权利法案》与《中华民国临时约法》的相似之处是（　）
A．都规定了民主共和的政体　B．强调国民有选举和被选举的权力
C．限制了国王或总统的全部权力　D．反映了世界历史发展的进步趋势

20．英国城乡人口比例 16 世纪约为 1∶3，到 19 世纪前期约为 2∶1。导致上述变化的主要原因是
①圈地运动的推行　②工业革命的展开　③高福利待遇的吸引　④大城市生活的诱惑（　）
A．①②　B．③④
C．②③　D．①④

21．亚当·斯密提出“用看不见的手”去自动调节资本主义社会的生产与分配，反对用人为的制度加以控制。这一理论提出的社会背景是（　）
A．人文主义成为社会主流意识形态　B．机器生产代表手工劳动
C．启蒙思想在欧洲的流行　D．资本主义工场手工业发达

22．资本主义世界市场的初步形成，对亚洲、非洲、拉丁美洲落后地区所产生的客观进步作用主要是（　）
A．激发了当地人民的革命斗争　B．促进了当地传统经济的发展
C．加强了东西方经济文化交流　D．传播了资本主义的生产方式

23．罗斯福在新政中实行美元贬值政策的主要目的是（　）
A．保持利率稳定，恢复银行信用
B．筹集建设资金，实行以工代赈
C．刺激商品生产，增强世界市场竞争力
D．增加财政收入，缓和政府经济压力

24．有关当今世界形势特点的表述，不正确的是（　）
A．缓和与紧张，和平与动荡并存　B．两极格局结束，多极格局形成
C．地区冲突和民族矛盾明显加剧　D．南北差距扩大的趋势有增无减

25．第三次科技革命促进了经济结构的变化，其最突出的表现是（　）
A．国家垄断资本主义得以普遍发展
B．政府加强了对科技的扶植和资金的投入
C．第三产业的产值和就业人数急剧上升
D．新兴工业区按人才交通环境条件等建设

第Ⅱ卷（非选择题，共 75 分）

二、材料解析题：本大题共 3 小题，第 26 题 10 分，第 27 题 10 分，第 28 题 14 分，共 34 分。要求：分析材料，结合所学知识回答问题

26．（本题满分 10 分）细阅以下图表，回答有关问题：

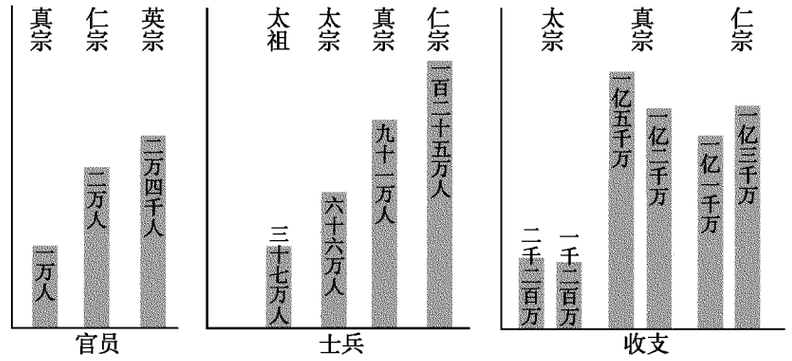

回答由太祖建国到仁宗、英宗的时候，短短的几十年里有哪些方面是大量增加的？原因何在？以上的情况，给国家带来了什么影响？

27.（本题满分 10 分）阅读下列材料

材料一　第一个五年计划的基本任务是：集中力量优先发展重工业。“因为我国过去重工业的基础极为薄弱，经济不能独立，国防不能巩固，帝国主义国家都来欺负我们……”，“资本主义国家从发展轻工业开始，一般是花五十年到一百年的时间才能实现工业化，而苏联采用了社会主义工业化的方针，从重工业开始，在十多年中就实现了国家的工业化”。

引自《建国以来重要文献选编》1993 年版

材料二　1958 年毛泽东在各地视察期间专门发表讲话说：“到现在，我们还有一些同志不愿意在工业方面搞大规模的群众运动，他们把工业战线上搞群众运动，说成是‘不正规’，贬为‘农村作风’、‘游击习气’，这显然是不对的。”

材料三　在改革开放后的工业过程中，乡镇企业和外资企业可谓是两支突起的“异军”。它们的迅速发展，已成为我国宏观经济的两个新的增长点。

引自《中国现代化历程》第三卷

回答：

（1）据材料一与当时的历史背景，指出社会主义工业化启动时采取“集中力量优先发展重工业”的原因。（2 分）

（2）材料二的思想在实践中是怎样实施的？结果如何？你对材料二的观点有何认识？（4 分）

（3）指出材料三中所提的两支突起的“异军”，在我国社会主义工业化进程中解决了什么问题？（4 分）

28.（本题满分 14 分）阅读下列材料

材料一　1895 年 4 月，日本通过侵华战争，强迫清政府签订不平等的《马关条约》，霸占了台湾。1937 年 7 月，日本发动全面侵华战争，1941 年 12 月，中国政府在《中国对日宣战布告》中昭告各国，中国废止包括《马关条约》在内的一切涉及中日关系的条约、协定、合同，并将收复台湾。1943 年 12 月，中美英三国政府发表的《开罗宣言》规定，日本应将所窃取于中国的包括东北、台湾、澎湖列岛等在内的土地，归还中国。1945 年签订的《波茨坦公告》规定：“开罗宣言之条件必将实施。”

材料二　《李登辉其人》载：1988 年 2 月，李登辉在继任后的首次记者会上明确表示：“只有一个中国而没有两个中国的政策。只有一个中国，我们必须统一。”1992 年 8 月 21 日，李登辉在接见岛内“大陆问题学者专家”谈话时称：“中共当局一定要从现实的立场出发，尊重我为对等政治实体。”

材料三　根据雅尔塔会议及《鉴于德国失败和接管最高权力的声明》等有关规定，苏美英法对德国实行分区占领。1949 年在美国和苏联的支持下，相继成立了德意志联邦共和国和德意志民主共和国，德国分裂为两个国家。德国分裂后，被迫相互承认和在国际社会中并存。

以上材料摘自《一个中国的原则和台湾问题》

根据以上材料，说明台湾问题和两德问题的不同（提示：可从形成的原因，在国际法上的地位，双方各自对国家分裂状态的认识程度的不同等方面去组织答案。学生从其他角度进行归纳、组织只要符合逻辑，言之成理，也可同样赋分）。

三、问答题：本大题共 3 小题，第 29 题 15 分，第 30 题 13 分，第 31 题 13 分，共41 分

29.（本题满分 15 分）我国古代少数民族曾创立过许多促进本民族发展的政治经济制度。结合所学知识分别指出辽、金和后金在政权建立前后所实行的制度的名称和内容。结合这些制度创立的背景概括分析其实质和作用。

30.（本题满分 13 分）“东方红，太阳升，中国出了个毛泽东”，在这举国纪念毛泽东同志诞辰 110 周年之际，请你简要概述伟人毛泽东在民主革命时期（1919 年～1949 年）和社会主义革命与建设初期（1949 年～1957 年）做出的突出贡献。（注意要高度概括，不要过多罗列具体史实）

31.（本题满分 13 分）从 17 世纪到一战期间，美国从殖民地到建国，随后又迅速崛起为世界强国。根据所学知识回答下列问题：

（1）美国历史上的两次资产阶级革命取得了哪些主要成果？（4 分）

（2）移民对美国崛起具有重要意义，美国历史上有哪几种形式的移民活动？（3 分）对美国社会发展产生了哪些影响？（3 分）

（3）充分利用有利的国际因素是美国崛起的重要因素，试举 3 例说明 300 多年来美国是怎样利用国际因素加快发展步伐的？（3 分）

天利

广东省揭阳市 2004 年第一次高考模拟考试

8 A

历　　史

本试卷分第Ⅰ卷（选择题）和第Ⅱ卷（非选择题）两部分，考试时间 120 分钟。满分 150 分。

第Ⅰ卷（选择题，共 75 分）

一、选择题：本大题共 25 小题，每小题 3 分，共 75 分。在每小题列出的四个选项中，只有一项是符合题目要求的

1．战国时期，兼并战争不断，而经济却有较显著的发展，其根本原因是（　　）

A．各诸侯国都注意发展生产

B．铁农具的开始使用

C．重农抑商政策的实行

D．封建制度的确立适应了生产力的发展

2．秦采取郡县制从本质上说（　　）

A．是一种管辖地方的措施　　B．是地主阶级巩固统治的需要

C．是加强中央集权的需要　　D．是分封制的另一种表现形式

3．《齐民要术》系统总结了六世纪以前哪个地区的农牧业生产经验（　　）

A．黄河以北　　B．长江以南

C．西域地区　　D．黄河中下游地区

4．唐朝时学校体制完备，达到当时世界先进水平，其根本原因是（　　）

A．统治者重视　　B．封建经济的繁荣

C．科举制度促进教育事业的发展　　D．名人办学，名师辈出

5．下列史实中，最能体现中华民族具有巨大凝聚力和向心力的是（　　）

A．郑成功收复台湾　　B．文天祥抗元

C．土尔扈特部归国　　D．戚继光抗倭

6．第二次鸦片战争中，美俄两国的态度是（　　）

A．帮助英法共同侵略中国　　B．持中立立场

C．调停中国与英法的冲突　　D．直接出兵中国

7．《天朝田亩制度》既具有革命性，又具有落后性，造成这种双重性的根本原因是（　　）

A．太平天国领袖的主观愿望　　B．农民小生产者的经济地位

C．半殖民地半封建社会性质　　D．自给自足的自然经济特点

8．对北洋军阀的评价，正确的是（　　）

A．代表中国大资产阶级的利益

B．其统治深化了中国半殖民地化程度

C．是帝国主义实行“分而治之”的产物

D．中国共产党诞生后其统治结束

9．鲁迅先生说：“中国现代社会的情况，只有实地的革命战争。一首诗吓不走孙传芳，一炮就把孙传芳轰走了。”这里的“一炮”是指（　　）

A．广东国民政府东征　　B．北伐战争

C．护国运动　　D．护法运动

10．中国共产党继承了孙中山的未竟事业，这主要表现在（　　）

A．完成了反帝反封建的历史任务

B．建立了人民民主专政的国家政权

C．实现了平均地权，把土地分给了广大农民

D．没收了官僚资本，建立了公有制

11．以下事件发生在中国工农红军长征期间的有

①中共确定抗日民族统一战线的方针　②察哈尔民众抗日同盟军成立　③“一二·九”运动　④国民政府开始实施“攘外必先安内”政策（　　）

A．①②③　　B．①③

C．②④　　D．②③④

12．“一·二八”上海抗战与“八·一三”上海抗战（　　）

A．都是国民政府组织的抗战　　B．都因战败与日本签订了屈辱协定

C．都使日军遭受重大伤亡　　D．都打乱了日军全面侵华的部署

13．促成民主党派性质转变的事件是（　　）

A．国民党宣布民盟为“非法团体”　　B．中华人民共和国成立

C．社会主义改造运动基本完成　　D．共产党领导的多党合作制确立

14．20 世纪 50 年代，我国发生的下列历史事件，没有改变生产资料私有制的是（　　）

A．土地改革运动　　B．农业合作化运动

C．没收官僚资本企业　　D．改造资本主义工商业

15．在中国要避免“十年文革”那样的悲剧重演，主要在于（　　）

A．实现国民经济的现代化　　B．彻底批判封建主义残余

C．防止教条主义和个人崇拜　　D．完善社会主义民主和法制

16．“一国两制”构想的基本含义是（　　）

A．一个国家，两种制度　　B．一个国家，两个政府

C．一个政府，两个国家　　D．一种制度，两个政府

17．英国新贵族与美国种植园奴隶主的相似之处是（　　）

A．都属于封建剥削阶级　　B．都建立过独裁统治

C．都采用资本主义剥削方式　　D．都采用奴隶制剥削方式

18．19 世纪中期的英国和 20 世纪初期的美国在对外扩张上的最大共同点是（　　）

A．利用大国地位称霸世界　　B．利用高科技垄断市场

C．利用强大军事力量进行武力扩张　　D．凭借雄厚的经济实力进行经济扩张

19．西属拉丁美洲在独立以后未形成统一国家的根源在于（　　）

A．殖民者的分化政策　　B．在独立运动过程中有多个领导人

C．未形成统一的市场　　D．独立的步伐不一致

20．《凡尔赛和约》中最能体现出巴黎和会是一次帝国主义分赃会议的是（　　）

A．边界问题　　B．军备问题

C．赔款问题　　D．殖民地问题

21．20 世纪 30 年代的民族解放运动，与以往的民族解放运动相比，最显著的特点是（　　）

A．它超出了亚非两洲，并具有广泛的群众性

B．具有反对法西斯主义侵略的性质

C．在无产阶级的领导下进行

D．在统一战线的形式下进行

22．斯大林格勒战役的胜利是世界反法西斯战争的转折点，其主要依据是（　　）

A．德军遭受到第一次重大失败

B．德军失去作战主动权被迫转入战略防御

C．苏联保住了重要的工业基地

D．促成了世界反法西斯同盟的形成

23．二战后东欧人民民主国家在发展中存在的最大隐患是（　　）

A．照搬了苏联高度集中的政治经济体制

B．与苏联的关系不协调

C．国内旧势力的残余还很强大

D．西方资本主义国家极力进行经济渗透

24．英国在准备撤出印度时采取的策略，其特征是（　　）

A．以印度不脱离英联邦为前提

B．以继续驻军为条件

C．制造其内部矛盾，便于继续控制

D．充分尊重印度的民族自决权

25．下列新科学技术中，哪一组是二战后最早在美国出现的

①原子弹爆炸　②电子计算机诞生　③第一颗人造卫星上天　④第一架航天飞机升空（　　）

A．②④　　B．①②④

C．②③④　　D．①②③④

第Ⅱ卷（非选择题，共 75 分）

二、材料解析题：本大题共 3 小题，第 26 题 11 分，第 27 题 13 分，第 28 题 12 分，共 36 分。要求：结合所学知识，回答问题

26．阅读下列材料：

材料一　臣伏见，景德、祥符中，文武官总计九千七百八十五员，今内外官属总一万七千三百余员，其未授差遣京官、使臣及守候人不在数内，较之先朝，才四十余年，已愈一倍多矣。……以至隋唐虽设官浸多，然未有如本朝繁冗甚也。今天下州郡三百二十，县一千二百五十，而一州一县所任之职，素有定额，大率用吏不过五六，复有台寺之小吏，府监之杂工，萌序之官，进纳之辈，总而计之，不止于三倍。

——引自包拯奏报

材料二　宋代对官吏实行三年一“磨勘”，只要无大过错，照例升迁，实际上是有升无降，而且官员待遇之优厚大大超过历朝。除俸、禄粟、职钱之外，还有各种名目的优待，宰相、枢密使的正俸为铜钱三百六十万文，禄米为一千二百石，

冬春服装绫四十匹，绢六十匹，绵二百两。单正俸计算，约等于北宋中期二万四千亩土地的收入。

——引自《中国通史纲要》

根据以上材料，结合时代背景，评述上述材料所反映的历史现象及其出现的原因和后果。

27．阅读下列根据有关中国现代史资料编制的表格：

表一　1952 年、1956 年我国国民经济中公、私经济成份比较表

所有制性质	经济成份	1952 年	1956 年
公有制经济	国营经济	19.1%	32.2%
	合作社经济	1.5%	53.4%
	公私合营经济	0.7%	7.3%
私有经济	资本主义经济	6.9%	0
	个体经济	71.8%	7.1%

表二　1978 年、1992 年我国几种经济成份比较表

所有制性质	经济成份	1978 年	1992 年
公有制经济	全民所有制经济	80.8%	51.4%
	集体所有制经济	19.2%	35.0%
私营经济	城乡个体经济	0	7.8%
	私营经济、合资、外商独资	0	5.8%

回答：

依据上表材料，分析建国以来我国经济结构与经济体制的变化及其主要原因。

28．阅读下列材料：

材料一　1793 年 6 月 3 日通过的关于将流亡者产业分成小块出售的法令，自霜月二日（1792 年 11 月 21 日）起被推广应用于所有国有产业，已被收归国有的慈善机构和教育事业的财产以及已被处决的犯人和流放的神甫的财产均按同样的办法处理。把地块分小诚然能使相当数量的农民从此拥有土地或使更多的农民能扩大其农庄。……1793 年 6 月 10 日法令允许按人口平分市镇公地，使每个居民都能分得一份土地。……6 月 3 日法律虽然同意穷人可购买二十至五十亩土地，地价分多年付清，但到了 9 月 13 日，国民公会又从财政考虑出发，收回这个让步，改作发给他们一张分二十年偿还的票面为五百里弗的无息借据。权充购买国有产业之用。

——引自 G·勒菲弗尔《法国革命史》

材料二　这一时期（指 19 世纪末期），法国农业发展比其他主要资本主义国家缓慢，小农经济仍占绝对优势。……法国虽然土壤肥沃，气候良好，但单位面积产量并不很高。当时，法国几种主要作物的产量只居世界第 11～17 位。

19 世纪末，法国共有农户 560 多万，农业人口占 60%以上，耕种 5 公顷以下的 400 万农户（占 70%以上），只有 650 万公顷土地。……小农抵押借款的数额增加到 250 亿法郎，大批破产农民开始沦为无产阶级和半无产阶级。农民贫困和农业经营的分散性阻碍了农业机器和农艺科学的广泛应用，并间接影响了工业的发展。

——引自张芝联主编《法国通史》

根据以上材料，结合时代背景，评述法国大革命时期处理土地问题的方式及其后果。

三、问答题：本大题共 3 小题，第 29 题 12 分，第 30 题 14 分，第 31 题 13 分，共 39 分

29．三国两晋南北朝时期，社会经济的发展出现了什么新趋势？（3 分）概述形成这一趋势的主要原因及其历史作用。（9 分）

30．有人认为，中国的近代化是一个逐渐发展的过程，19 世纪中后期是“器物变革”时期，19 世纪末 20 世纪初是“制度变革”时期。“器物变革”和“制度变革”各指什么？（3 分）概述促成由“器物变革”到“制度变革”转变的因素。（9 分）中国在 20 世纪初未能实现近代化的根本原因是什么？（2 分）

31．19 世纪末 20 世纪初，20 世纪 50 年代到 70 年代初，是资本主义经济高速发展时期。概述资本主义经济的这两次高速发展的相似的历史条件，（9 分）及其对世界经济政治格局产生的影响。（4 分）

需要全本请访问 www.ertongbook.com