目　　录

1. 南京市高三第二次质量检测
2. 广东省高三第二次调研考试
3. 广州市高中毕业班综合测试(二)
4. 江苏省南通市高三第一次调研考试
5. 江苏省南通市高三第二次调研考试
6. 江苏省盐城市高三第三次调研考试
7. 江苏省盐城市高三第四次调研考试
8. 江苏省苏州市高三教学调研测试
9. 广东省深圳市高三第一次调研考试
10. 广东省韶关市普通高校招生模拟测试题
11. 上海市黄浦区高考模拟考试
12. 广东省惠州市高三总复习质检
13. 江苏省常州市高三教学情况调查
14. 广西桂林市高考第二次模拟考试
15. 南宁市高中毕业班第一次适应性测试
16. 江苏省连云港市高三第二次调研考试
17. 广东省湛江市高考模拟测试题(一)
18. 广西梧州市高三第二次测试
19. 广东省揭阳市第一次高考模拟考试
20. 北京市西城区高三抽样测试
21. 东北三校高三联合考试
22. 湖北省黄冈市高三期末调研考试
23. 太原市高三基础知识测试
24. 南昌市高三第一次调研测试
25. 石家庄市高中毕业班复习教学质量检测(一)
26. 浙江省宁波市高三年级期末考试
27. 辽宁省大连市高三期末考试
28. 山西省临汾市高三年级模拟测试
29. 山东省烟台市高三诊断性测试
30. 天津市耀华中学高三第二次月考
31. 吉林省实验中学第五次模拟试题
32. 湖南省株洲市高三年级统一检测(三)
33. 江西省九所重点中学高三联考
34. 山东省淄博市第一次高考模拟考试
35. 浙江省余姚市高三第二次模拟考试
36. 山东省泰安市高三复习质量检测
37. 浙江省湖州市高三教学质量检测
38. 河南省周口市高三第七次摸底考试

政治参考答案及解题提示

附：2004 年全国及 11 个单独命题省市高考试题及答案(略，见本书续篇——《最新五年高考真题汇编》，见背面介绍)

天利38套

开卷全国教辅畅销书

- 2003～2004“开卷”全国高考类畅销书排行第一
- 清华附中等 120 所全国示范高中教师推荐必做试题
- 《中国教育报》、搜狐、《中国青年报》、新浪等 90 多家报刊、电视台、网站报道，搜狐(learning.sohu.com)推荐用书
- 每年 320 万考生使用的书

选择天利　　选择名校

搜狐天利模拟联考联盟

- 11 月起，每月一次 1 卷，保密不对外
- 150 名特级教师规范命题、审题
- 免费加盟、免费获得样卷。洽天利网

需要全本请访问 www.ertongbook.com

天利38套

搜狐教育推荐用书

2005 全国各省市

高考模拟试题汇编

政　治

全国高考命题研究组
北京天利考试信息网 编

高考畅销书排行榜第一
1000 所重点中学教师推荐高考必备

西藏人民出版社

政　治

本试卷分第Ⅰ卷（选择题）和第Ⅱ卷（非选择题）两部分。共 150 分。考试用时 120 分钟。

第Ⅰ卷（选择题，共 75 分）

一、在下列各题的四个选项中，只有一项是最符合题意的，每小题 2 分，共 48 分

1．胡锦涛同志在“三个代表”重要思想研讨会上讲话指出：“三个代表”重要思想的本质是（　）

A．坚持与时俱进　　B．立党为公，执政为民

C．保持党的先进性　　D．解放思想，实事求是

2．2004 年 1 月，中共中央颁布了《中国共产党_____条例（试行）》和《中国共产党_____条例》，这标志着中共反腐斗争的制度建设步入新阶段。（　）

A．党外民主监督，纪律处分　　B．党内监督，纪律处分

C．新闻舆论监督，法律处罚　　D．民主监督，行政处罚

3．我国与欧洲空间局的合作项目“_____”拉开序幕。2003 年 12 月 30 日，我国将计划中的第一颗卫星“探测一号”赤道星送上了太空。（　）

A．伽利略计划　　B．尤里卡计划

C．火星探测计划　　D．地球空间双星探测计划

4．党的十六届三中全会通过的《中共中央关于完善社会主义市场经济体制若干问题的决定》中指出：完善市场体系，规范市场秩序，必须形成以道德为支撑、产权为基础、法律为保障的_____，这是建设现代市场体系的必要条件，也是规范市场经济秩序的治本之策。（　）

A．社会信用制度　　B．现代产权制度

C．现代企业制度　　D．社会保障制度

5．朝核问题第二轮六方会谈于 2004 年 2 月 25 日～28 日在北京举行。会谈的六方除中国、朝鲜外，还有（　）

A．美国、欧盟、韩国、日本　　B．联合国、美国、韩国、俄罗斯

C．联合国、欧盟、德国、瑞士　　D．美国、韩国、日本、俄罗斯

6．党的十六届三中全会通过的《中共中央关于完善社会主义市场经济体制若干问题的决定》中指出：_____是公有制实现的主要形式。（　）

A．全民所有制　　B．集体所有制

C．股份制　　D．合作制

7．从 2003 年起，每年的 9 月 20 日为我国的_____宣传日。（　）

A．环境保护　　B．公民道德

C．安全责任　　D．卫生健康

8．在我国各级人代会期间，人大代表都十分关注政府的财政预算报告。这是因为（　）

A．人大代表拥有国家宪法赋予他们的特有权利和义务

B．财政预算一般由中央预算和地方预算两部分组成

C．财政预算反映了政府活动的方向

D．人大代表特别关心政治问题

9．2003 年 12 月 3 日，国务院新闻办公室发表《中国的防核扩散政策和措施》白皮书，重申了中国坚决反对各类大规模杀伤性武器及其运载工具扩散的立场，主张全面禁止和彻底销毁核武器、生物武器和化学武器等各类大规模杀伤性武器，坚决反对此类武器及其运载工具的扩散。中国政府的上述立场和态度表明（　）

A．中国正在制定和执行国际法

B．中国在发挥联合国常任理事国的作用

C．中国一贯坚持和奉行独立自主的和平外交政策

D．中国不主张利用核技术

10．凡是唯物主义都认为（　）

A．物质决定意识，意识对物质有反作用

B．意识是客观事物在人脑中的反映

C．事物是普遍联系的

D．社会存在决定社会意识

11．塑料袋的发明虽然只有几十年，但今天塑料袋和人们日常生活已密切相关。塑料袋为人们生活带来了诸多的方便，同时它又被英国一家媒体评为“人类最糟糕的发明”，因为它对环境危害是显而易见的。这表明（　）

A．事物之间的联系是多样的　　B．任何事物都是变化发展的

C．任何事物都有两重性　　D．价值取向影响着人们对事物的评价

12．对火星的种种猜测，直到今日，才终于有了结果：美国宇航局于 2004 年 3 月 2 日公布“机遇”号火星探测车对火星进行探测的详细资料，称有明确证据表明，火星过去曾有丰富的水资源；这个红色星球上可能还存在过生命。这段材料表明（　）

A．猜测都是符合规律的　　B．认识是实践发展的根本动力

C．客观是主观研究的对象与结果　　D．实践是检验真理的惟一标准

13．一位老中医给肺病患者治病时说，冬天冷、气压高，肺的工作负荷大，用药量大，而且治疗效果差；夏季天气热，肺的负担轻，虽然不发病，但这是治疗的最佳时机。这种方法叫“冬病夏治”。“冬病夏治”体现了唯物辩证法的_____。（　）

A．意识的反作用原理　　B．世界的物质性原理

C．矛盾特殊性原理　　D．量变和质变的辩证关系原理

14．“人的智力是按人如何学会改造自然界而发展的。”这句话说明（　）

A．实践是认识的来源　　B．实践是认识的动力

C．人的认识具有主观能动性　　D．人具有改造自然的能力

15．德国寓言大师克雷洛夫说：“现实是此岸，理想是彼岸，中间隔着湍急的河流，行动则是架在河上的桥梁。”这个比喻告诉我们

①理想不是现实，二者是根本对立的　②理想的确立和形成，仅是理想通往现实之路的一个环节　③把理想变为现实，要靠实实在在的实践　④今天的理想必然会转化为明天的现实（　）

A．①②　　B．②③　　C．③④　　D．②④

16．下列成语、俗语、古语与有关哲理的对应中，正确的是

①防微杜渐——量变与质变的辩证关系　②严师出高徒——内外因辩证关系　③好事多磨——事物发展是前进性与曲折性的统一　④千里之堤，溃于蚁穴——矛盾发展的不平衡性（　）

A．①②④　　B．①②③　　C．①③④　　D．②③④

为落实《中共中央关于完善社会主义市场经济体制若干问题的决定》中提出的扩大就业方针，我国将继续大力发展劳动密集型产业，这给相关产业和企业带来了商机，特别是第三产业将获得长足发展，劳动密集型的传统服务业，也将受到政策的鼓励而焕发青春。据此回答 17、18 题

17．我国之所以要继续大力发展劳动密集型产业，是因为

①我国是一个人口大国，劳动力资源丰富　②我国的科技水平低，还不具备发展技术密集型产业的条件　③就业是民生之本，劳动密集型产业有利于增加就业容量　④我国是人民当家作主的社会主义国家（　）

A．①②　　B．②③　　C．①③　　D．②④

18．上题结论体现出的哲理有

①一切从实际出发，实事求是　②发挥主观能动性必须与尊重客观规律相结合　③第三产业具有吸纳劳动力强的特点　④主观与客观必须坚持具体的、历史的统一（　）

A．①②④　　B．①②③　　C．①③④　　D．②③

19．某员工在外资企业工作，年薪 5 万元；利用业余时间在民营企业兼职，年薪 2 万元；购买股票分得红利 2 万元；出租住房收入 2 万元；转让一项技术收入 1 万元。该员工一年的劳动收入为（　）

A．12 万元　　B．9 万元　　C．8 万元　　D．7 万元

20．“非典”肆虐过后，国家及时减免或下调了深受“非典”影响的相关行业的税收和税率。最近，国家又对遭受“禽流感”危害的家禽养殖业的税率进行下调。这表明（　）

A．税收具有可变性特征　　B．税收的减免是企业生存的根本

C．企业是以盈利为目的　　D．税收是国家宏观调控的重要手段

21．1990 年，由原商业部首次组织评定的“中华老字号”企业共有 1600 余家。目前“中华老字号”企业勉强维持现状的约占 70%；长期亏损、面临破产的约占 20%；有品牌、有规模且经济效益好的仅占 10%。让“老字号”企业走出困境的根本途径是（　）

A．规范市场竞争秩序　　B．提高产品数量

C．加大原有品牌的创新力度　　D．政府着力对“老字号”进行品牌保护

22．对比下列图表，可知：

人民币外汇牌价，2003 年 10 月 25 日，来源：国家外汇管理局

100 外币	人民币卖出
美元	827.66
欧元	961.70
港元	106.83
日元	7.54
英镑	1562.40

人民币外汇牌价，2004 年 2 月 25 日，来源：国家外汇管理局

100 外币	人民币卖出
美元	828.95
欧元	1051.48
港元	106.58
日元	7.66
英镑	1567.13

①欧元升值幅度最大　②欧元贬值　③欧元对人民币的汇率升高　④欧元对人民币的汇率跌落（　）

A．②　　B．④　　C．①③　　D．②③

23．2003 年 11 月 10 日，WTO 上诉机构公布了美国政府对进口钢铁加征关税的措施违反 WTO 的有关协议。由此表明，在国际贸易中，应该（　）

A．坚持公平竞争，不得损害其他国家正当利益

B．制止“倾销”行为，防止外来商品占领国内市场

C．取消关税，统一国际和国内两个市场

D．以 WTO 协议替代各国外贸政策

24．据统计，在自己合法权益受到侵害的我国消费者群体中，主动寻求解决的为 22.3%，而近 70%的消费者则自认倒霉。这表明（　）

A．消费者对“消法”的了解程度不够　B．消费者的维权意识有待提高

C．要建立维护消费者权益的组织机构　D．消费者要懂得权利和义务是统一的

二、在下列各题的四个选项中，至少有一项是符合题意的。错选、多选，该题不给分；少选且正确的，给 1 分。每小题 3 分，共 27 分。

25．在十届全国人大二次会议通过的宪法修正案中，增加了“国家尊重和保

障人权”的内容。对此，下列说法中正确的是 （ ）

A．在我国，人权首先是生存权和发展权

B．人权无国界

C．要尊重和保障人的一切权利

D．人权入宪，是人民福音，国家幸事

26．2003 年 11 月 1 日，国务院决定第二批取消 406 项行政审批项目，另将 82 项行政审批项目作改变管理处理，移交行业组织或社会中介机构管理。这表明 （ ）

A．行政审批越来越不适应社会和经济的发展

B．要逐步弱化行政审批的职能

C．要转变政府职能，加强政府的宏观调控

D．我国正在形成行为规范、运转协调、公正透明、廉洁高效的行政管理体制

27．浙江义乌全国人大代表为了在全国人民代表大会上更好地履行代表职责，主动通过电视台打广告向选民征集议案。这位代表的做法 （ ）

A．依法创造性地履行了人民代表的义务

B．体现了社会主义民主政治的进步

C．表明人民代表议政意识和能力不断提高

D．有利于人民代表更好地行使宪法和法律赋予的权利

28．在 2004 年我国经济工作中，必须大力克服经济建设中盲目投资、低水平重复建设和信贷投放偏快等存在的问题。这是因为，上述这些问题解决不好，会 （ ）

A．造成有限资源的浪费　　B．引起新一轮通货膨胀

C．引发金融风险　　D．导致通货紧缩

29．海尔集团公司进行信息化建设之后，企业各种信息处理大大加快：集团各部门对客户的反应速度从 36 天降低到 10 天；国内采购周期从 10 天缩短为 3 天，对定单的处理时间从 7 天降低到 1 天；100% 的供应商从网上接采购定单，80% 的货款从网上支付。由此可见 （ ）

A．信息化能够带动工业化

B．工业化能够促进信息化

C．信息化能使传统产业迅速提高劳动生产率、降低成本

D．信息化源于信息网络技术的迅速发展

30．近几年来，国家投入大量资金用于“兴边富民”行动，使世代居住在边境地区的少数民族群众生产生活有了很大改观。上述材料主要说明 （ ）

A．加快民族地区经济、文化的发展是我国各项工作的中心

B．加快民族地区经济发展，完全依靠增加资金的投入

C．只要民族地区经济发展，社会就能保持稳定

D．加快民族地区经济、社会发展是民族工作的根本任务

31．关于求真务实，下列说法中正确的是 （ ）

A．求真务实是辩证唯物主义的根本要求

B．求真务实是马克思主义的理论品质

C．求真务实才能够提高执政党的执政能力和水平

D．求真务实是共产党人应有的政治品格

32．经过多方努力，我国 SARS 疫苗研究获得重大突破。动物试验显示，该疫苗不仅能完全抵抗 SARS 病毒，而且没有副作用。下一步，国家将批准 SARS 疫苗进入临床，届时将在京、穗两地征集志愿者进行人体试验。这表明 （ ）

A．认识包括感性认识和理性认识　　B．科学试验是实践的重要形式

C．实践是社会性、历史性的活动　　D．认识对实践具有推动作用

33．美国马萨诸塞州麦福德大学的生物学家马利·特里姆和他的研究小组在《科学》杂志上发表自己的研究成果，认为氧化氮就是萤火虫控制光线的关键。萤火虫通过自己的呼吸细胞产生这种化学物质，然后通过大脑释放出来，对自己发出的光线加以控制，光线的切换在几毫秒之间就完成了。这一材料表明 （ ）

A．科学只有寻因究果，才能使人们对事物的认识日益深入

B．承认因果联系的普遍性和客观性是人们认识事物的前提

C．探索事物的因果联系，是科学研究的重要使命

D．萤火虫也具有意识

第Ⅱ卷（非选择题，共 75 分）

三、简答题（本大题共 2 小题，每小题 9 分，共 18 分）

34．

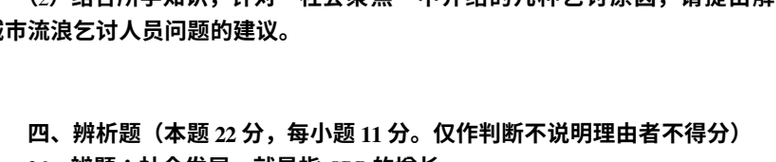

问题：

（1）请在上述图示空格内填入恰当内容。

（2）上述图示对企业经营者有何启示？

35．社会聚焦：

据调查，某中心城市有各类乞讨人员近 3000 名，其流浪街头的原因大致有：①因残疾而丧失劳动能力；②老年人因子女不赡养等家庭原因；③因家居贫困地区或遭遇自然灾害，致使生活无着落；④采用乞讨方式进行街头行骗；等等。

时政链接：

2003 年 6 月 20 日，国务院总理温家宝签署国务院第 381 号令，公布《城市流浪乞讨人员救助管理办法》，并自 2003 年 8 月 1 日起正式实施，同时废止《城市流浪乞讨人员收容遣送办法》。上述两种“办法”的最大区别，在于对流浪乞讨人员由原来强行收容遣送改为自愿接受救助。

请你参与：

（1）以《城市流浪乞讨人员救助管理办法》取代《城市流浪乞讨人员收容遣送办法》，表明我国政府在治国理念上有何新发展？

（2）结合所学知识，针对“社会聚焦”中介绍的几种乞讨原因，请提出解决城市流浪乞讨人员问题的建议。

四、辨析题（本题 22 分，每小题 11 分。仅作判断不说明理由者不得分）

36．辨题：社会发展，就是指 GDP 的增长。

37．背景：据报载，中国企业在市场交易上因信用缺失问题造成的无效成本，已占到我国 GDP 的 10%～20%，直接和间接经济损失每年高达 5855 亿元，相当于中国年财政收入的 37%，国民生产总值每年至少因此减少两个百分点。

辨题：诚信就是财富。（要求：请从经济学、哲学两个角度分别进行辨析）

五、论述题（本大题共 2 小题，共 35 分。第 38 题 17 分，设置 2 分综合评价分，用于对考生分析问题和解决问题能力的综合评价；第 39 题 18 分。要求紧扣题意，综合运用所学知识，结合材料展开分析）

38．（17 分）

在江苏，“全面建设小康社会必须以百姓需要为依据，以人民满意为标准。”

“江苏的小康应当是区域共同发展的小康。放手让苏南先导拉动，放手让苏中快速崛起，放手让苏北跨越发展，长江南北联动开发，构建各展所长、优势互补、互利共赢的新格局。”

——李源潮　中共江苏省委书记（在江苏省九届政协二次会议上的讲话）



（1）全面建设小康社会，为什么要“以百姓需要为依据，以人民满意为标准”？

（2）江苏全面建设小康社会的新格局，是如何体现整体与部分之间关系的？

39．（18 分）

表一：A 县农民收入结构变化情况

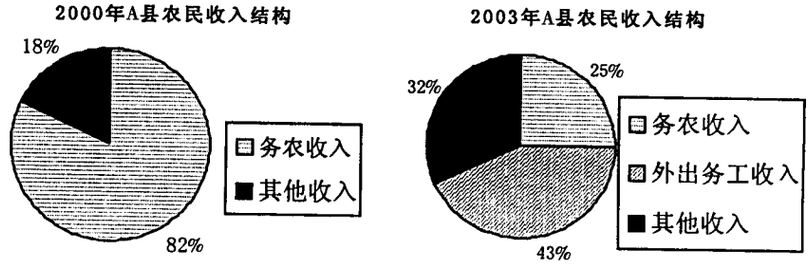

表二：E 市城市居民与外来农民工若干情况对比表

	适龄子女入学率	职业培训	社会保障覆盖率
城市居民	98.2%	30 小时/年	60%
外来农民工	46.9%	2 小时/年	10%

表三：E 市城市居民与外来农民工收入增幅比较表

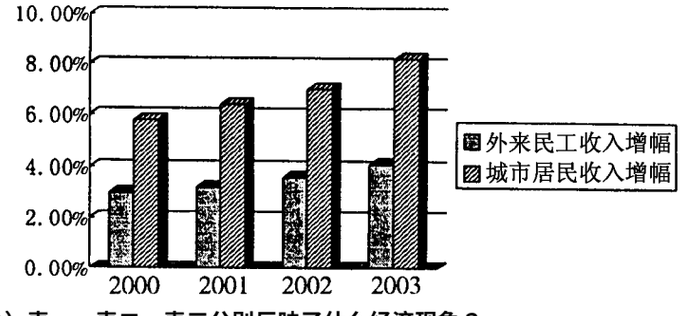

（1）表一、表二、表三分别反映了什么经济现象？

（2）表二与表三有何内在联系？

（3）结合上述三则材料，请谈谈你对农民进城务工问题的认识。

政　治

本试题分第Ⅰ卷（选择题）和第Ⅱ卷（非选择题）两部分。共150分。考试时间120分钟。

第Ⅰ卷（选择题，共75分）

一、在下列各题的四个选项中，只有一项是最符合题意的。每小题2分，共48分

1．2003年11月27日至29日，中共中央、国务院在北京召开中央经济工作会议。会议强调，明年经济工作要着重把握好六个方面：保持宏观经济政策的连续性和稳定性；把解决_____作为全党工作的重中之重；紧紧抓住_____这条主线；不失时机地深化经济体制改革；充分利用两个市场、两种资源；认真解决好关系人民群众切身利益的问题。（　）

A．“三农”问题；结构调整　　B．党的作风建设；经济建设

C．反腐败问题；科教兴国　　D．“三农”问题；可持续发展

2．中共十六届三中全会于2003年10月11日在北京举行，会议审议通过了《中共中央关于完善社会主义市场经济体制若干问题的决议》和_____，并决定提交第十届全国人大常委会审议。（　）

A．《中共中央关于加强精神文明建设的决定》

B．《中共中央关于修改宪法部分内容的建议》

C．《中共中央关于改进党的作风建设的决定》

D．《中共中央关于实施可持续发展战略的决定》

3．据国家统计局统计，2002年我国GDP突破10万亿元。2003年我国上半年经济发展受到非典的较大冲击，第二季度GDP同比增长速度由第一季度的9.9%回落到6.7%，增长速度为1992年以来同期的最低水平。但由于第一季度的经济增势强劲，6月份后各项经济指标明显回升，上半年GDP仍能达到_____，同比增长为_____。（　）

A．40000亿元；7.5%　　B．50053亿元；8.2%

C．60553亿元；9.5%　　D．50053亿元；6.8%

4．2003年9月，第58届联合国大会常务委员会，拒绝将_____等少数国家提出的所谓“台湾在联合国代表权问题”提案列入本届联大议程，从而再次挫败了台湾当局分裂中国的图谋。这是台湾当局“两个中国”、“一中一台”的图谋连续_____次遭到惨败。（　）

A．洪都拉斯；十一　　B．冈比亚；十

C．危地马拉；十一　　D．冈比亚；十一

5．2003年10月15日，我国自主研制的“神舟”五号载人飞船，在酒泉卫星发射中心发射成功，并于16日在内蒙古成功着陆。这标志着我国已经成为世界上独立自主地完成掌握载人航天技术的国家之一。梦圆飞天，是党和国家坚持走中国特色的“飞天之路”的结果。是一代代航天科技工作者和解放军官兵发扬航天精神的结果。这种航天精神是

①特别能吃苦　②特别能战斗　③特别能攻关　④特别能奉献　（　）

A．①②③　　B．②③④　　C．③④　　D．①②③④

6．2003年8月5日，中国红十字会、红十字会国际委员会在北京人民大会堂举行第三十九届_____奖章颁奖大会。中共中央总书记、国家主席胡锦涛出席大会。_____等10位在我国护理事业中作出卓越贡献的优秀护理工作者，荣获国际护理界最高的该项荣誉奖章。（　）

A．南丁格尔；钟南山　　B．最高贡献；邓练贤

C．南丁格尔；叶欣　　D．最高贡献；叶欣

7．人类在认识世界、改造世界的过程中，取得了可喜成就的同时，也面临着生存与发展的严峻挑战。据中国卫生部统计，目前我国有爱滋病病人约8万人，爱滋病病毒感染者84万人。2003年12月1日是世界第_____个世界爱滋病日。今年的宣传主题是_____。（　）

A．十五；相互关爱，共享生命　　B．十六；相互关爱，共享生命

C．十六；热爱生活，共享生活　　D．十五；热爱生命，共享生活

8．今有一公司，国有经济占股份55%，集体经济占股份15%，外资企业的股份占15%，私营企业和个人股份占15%，并建立了股东大会、董事会、监事会和经理层，职权明确，运转协调。该企业的特点是

①这是一个国有经济控制的企业；②该企业属于混合所有制经济；③该企业的投资主体是多元化的；④该企业是股份有限公司　（　）

A．①②③　　B．①②④　　C．②③④　　D．①②③④

9．中东国家以色列，由于极端缺水，影响农业生产。因此，创造并广泛应用了滴灌技术，使灌溉水利用系数接近0.9，以同样的水消耗使农业产值增长了12倍。以色列的做法对我们的启示是（　）

A．人具有主观能动性，可以认识规律和利用规律

B．发展高产、优质、高效农业，关键是发展农业科学技术

C．降低劳动消耗才能提高经济效益

D．有创新就会有进步、有效益

10．2003年8月4日《经济日报》载文指出，社会主义市场经济的发展，必须建立产业退出援助机制。对衰退型产业，政府要在技术、资金、劳动者培训、社会保障等方面提供援助，促使该领域的生产要素向其他产业转移。上述援助（　）

A．体现了国家宏观调控对优化资源配置的基础作用

B．表明了国家宏观调控是社会主义市场经济健康发展的必要条件

C．表明价值规律自发调节生产资料和劳动力在社会生产各部门的分配

D．表明国有经济的控制力得到了增强

11．下图中这口菜刀（　）



A．是劳动产品，因为它具有使用价值

B．可以成为商品，因为它有使用价值和价值

C．不可以作为商品出卖，因为它不具有合格的使用价值

D．不能成为商品，因为它是生产者自己使用的

12．按照从安全性强（而收益较低）到安全性差（到收益较高）的顺序排列债券，正确的是（　）

A．政府债券、公司债券、金融债券　　B．公司债券、金融债券、政府债券

C．政府债券、金融债券、公司债券　　D．金融债券、政府债券、公司债券

13．一个国家币值发生变化会引起汇率的变化。如：2001年3月，日元汇率基本稳定在100日元换7.139元人民币的水平上，而2002年3月，日元的汇率基本稳定在100日元换6.42元人民币的水平上。这一变化意味着

①日元升值；②日元汇率升高；③日元贬值；④日元汇率跌落。（　）

A．①②　　B．①③　　C．②③　　D．③④

14．我国入世以后，汽车产业在实现强强联合的基础上，根据市场的不同需要，调整结构，生产出不同款式的产品投放市场，在激烈的市场竞争中站稳了脚跟。这说明（　）

A．生产水平决定消费水平　　B．消费结构决定生产结构

C．消费对生产具有反作用　　D．消费方式决定生产方式

15．“东突”恐怖势力，是以在新疆建立所谓“东突厥斯坦”国为目标的民族分裂分子和宗教极端分子为主的恐怖势力。他们在新疆境内制造了200多起恐怖暴力事件，造成大量人员伤亡。这一情况表明（　）

A．在我国，阶级斗争仍然是主要矛盾

B．必须加强我国的专政职能，依法打击敌对势力的破坏

C．民主与专政是相辅相成，互为前提的

D．人民民主专政是社会主义现代化建设的政治保证

16．爱因斯坦说过：“人只有献身社会，才能找出那短暂而有风险的生命意义。”这句话告诉我们（　）

A．个人与社会是辩证统一的

B．人生价值是社会价值与自我价值的统一

C．价值观对人生道路具有导向作用

D．人生价值包括贡献和索取两个方面

17．非典期间，我国涌现了许许多多的把生的希望留给他人，迎着困难上的可歌可泣的抗典英雄，也出现了一部分人在经济利益的驱动下，造谣惑众，哄抬物价，危害人民。对这种社会现象，正确的认识是（　）

A．正常的。因为社会主义条件下，才可能生产先人后己的英雄

B．不正常。因为求取个人利益是违背社会主义公德的

C．无所谓正常与否。因为识时务者为俊杰

D．说明在市场经济条件下，要加强国家职能，扬善惩恶

18．改革开放以来，中国产品畅销世界，但由于一线技术工人不足等原因，全国产品合格率只有70%，远远低于发达国家水平，由此造成的损失每年达2000亿元以上。鉴此，某市颁布的用工指导价中，高级钳工每月工资达6000多元，远远高于硕士毕业生，一时间钻研技术已成为广大青年工人的追求目标。材料说明（　）

A．一个国家劳动者的技术水平代表着这个国家的技术实力，甚至是生产力水平

B．遵守职业道德是劳动者必须履行的义务

C．市场调节具有盲目性、自发性

D．该市确立了“技术立市”方略

19．“寒江雪柳日新晴，玉树琼花满目春。历尽天华成此景，人间万事出艰辛。”这首诗蕴涵的辩证法道理是（　）

A．发展是前进性和曲折性的统一

B．物质决定意识，意识是对物质的反映

C．矛盾的普遍性与特殊性是相互联结的

D．主要矛盾决定事物的性质

20．一段时期来，美国、日本、欧盟等国家和地区通过政治和官方途径向中国施加压力，要求人民币升值。我国政府和有关部门明确指出，我国保持人民币汇率稳定，这对我国有利、对周边国家有利、对世界经济发展有利。材料表明（　）

A．国家利益是制定、执行对外政策的依据
B．霸权主义、强权政治是和平与发展的主要障碍
C．我国是发展中国家，发展是硬道理
D．我国是发展中国家，为世界的和平和发展事业做出了重大贡献

21．“实践是知识的母亲，知识是生活的明灯。”这句谚语的哲学寓意是（　　）
A．实践出理论，理论必须在实践中检验和发展
B．实践是理论的基础，科学理论对实践有指导作用
C．知识来源于实践，也来源于书本
D．在生活中学习知识比实践更重要

22．“匠不巧则宫室不善。巧匠为宫室，为圆必以规，为方必以矩，为平直必以准绳。”这说明（　　）
A．规律具有普遍性
B．人具有主观能动性
C．感性认识要上升到理性认识
D．要发挥主观能动性，必须要遵重客观规律

23．在下列关于阶级、国家政权、政党之间关系的表述中，正确的有（　　）
A．各阶级都是通过政党夺取国家政权的
B．政党都是通过国家政权实现本阶级的根本利益
C．任何国家政权都是政党领导下的阶级统治的工具
D．政党是随着阶级的消灭、国家的消亡而消亡的

24．社会不良文化是未成年人犯罪的重要原因。据有关少管所调查资料反映，少年犯中有70%以上受过不良文化的影响；暴力型和奸淫型少年犯中，90%看过凶杀、暴力、淫秽录像和黄色书刊。为了解决上述问题，要求国家首先要（　　）
A．加强政治职能，打击青少年犯罪
B．加强文化职能，杜绝青少年犯罪
C．加强文化职能，提供健康文明的精神产品
D．加强公共服务职能，创造良好的生活环境

二、在下列各题的四个选项中，至少有一项是符合题意的。（错选、多选该题不给分，少选且正确的给1分。每小题3分，共27分）

25．2003年5月25日，湖南株州市某居民委员会的61名选民向所在区人大常委会提交了《罢免请求书》，要求罢免袁某的区人大代表资格。理由是：袁某当选的选举程序违法；以权谋私；不能模范遵守宪法和法律。可见（　　）
A．社会主义民主具有真实性
B．人民代表受人民的监督
C．人民代表具有法定的特有的权利和义务
D．社会主义民主政治必须不断完善

26．今年9月，备受社会关注的大学生周一超杀害公务员一案，被法院作出了判决：以故意杀人罪判处死刑，剥夺政治权利终身。然而，在此案审理过程中有429人向法院联名写信，请求给周一超“一次生的机会，让其悔改自新，回报社会”。对他们提出的请求，正确的认识是（　　）
A．是正确的，体现了人民是国家的主人
B．是正确的，体现了社会对司法机关的监督
C．是不正确的，因为没有认识到我国公民在法律面前一律平等
D．是不正确的，因为杀人就必须偿命

27．中共十六届三中全会指出，要改善农村富余劳动力转移就业的环境，积极扩展农村就业空间，取消农民就业的限制性规定，为农民创造更多的就业机会。这有利于（　　）
A．加快我国城镇化进程
B．发挥市场在资源配置中的作用
C．逐步缩小城乡差距
D．消除城乡社会分工格局

28．青藏铁路的建成将成为世界上海拔最高和最长的高原铁路。他的开工建设的经济学意义是（　　）
A．有利于缩小地区差异，促进各民族共同繁荣
B．有利于维护国家统一和民族团结
C．有利于改善西藏交通落后状况，促进西藏经济发展
D．有利于巩固祖国边防国家的统一

29．我国的特别行政区政府、民族自治政府和其他省市政府一样均是中华人民共和国的地方政府。这表明（　　）
A．我国的领土完整是不可分割的
B．我国实行单一制的国家结构形式
C．我国各级政府都必须坚持四项基本原则
D．我国的政体是人民代表大会制度

今年11月，TCL集团以67%的股份与法国汤姆逊公司实行联合，这是中国企业首次以控股身份出现在国际经济舞台。目前该公司拥有博士、硕士一百多人，具有强大的自主科技研发队伍，其目的是为了进军全球数码领域、抢占市场、提高竞争力。据此回答30、31题

30．TCL集团的做法（　　）
A．表明了科学技术是第一生产力　　B．有利于提高国有经济的控制力
C．是经济全球化发展的客观要求　　D．有利于主导世界经济的发展方向

31．TCL集团的做法体现辩证法原理有（　　）
A．物质决定意识，意识对物质具有反作用的观点
B．联系的观点和发展的观点
C．新事物必然战胜旧事物的观点
D．具体问题具体分析的观点

32．一个时期以来，巴以矛盾冲突不断升级，引起国际社会的广泛关注。巴以双方一次次签署协议，给中东和平带来一次次希望和曙光，但这些协议又一次次搁浅。中东和平路线图计划不能治标也不能治本。巴以寻求和平可谓是“路漫漫其修远”。巴以和平进程的这种状况说明（　　）
A．和平是当今时代的主题
B．没有实现可能性的东西，人们更要创造条件去奋斗
C．主次矛盾可以相互转化
D．事物的发展是前进性与曲折性的统一

33．祖国统一是中国人民的最高利益，尽管李登辉、陈水扁不遗遗力地搞“两国论”、“一边一台”，但它们最终是要失败的。因为（　　）
A．自古以来台湾就是中国不可分割部分，从来就不具有国家主权
B．台湾经济、政治、文化的发展离不开祖国
C．违背全国人民包括台湾人民的意愿
D．我国实行的是单一制的国家结构形式

第Ⅱ卷（非选择题，共75分）

三、简答题（本大题共2小题，每小题9分，共18分）

34．随着知识经济的到来，对技术的要求越来越高，当一个企业没有新技术、新产品时，劳动生产率越高，亏损反而越严重。
运用经济常识谈谈你对上述现象的理解。

35．近年来我国互联网发展迅速。互联网信息内容安全管理工作也面临新的情况和问题，境内互联网上各种有害信息时有传播，毒化社会风气，危害青少年的健康成长和社会主义精神文明建设，网上各种违法犯罪呈上升趋势。每年国家有关部门都在联合研究和部署，在全国范围内开展互联网有害信息专项清理整顿行动。
（1）结合材料，说明国家为什么要清理互联网有害信息？
（2）对互联网的有害信息，作为青年学生应该怎样面对？结合政治常识就如何整治互联网的有害弊端，请你向有关部门提出建议。

四、辨析题（本大题2小题，每小题11分，共22分。仅作判断不说明理由者不得分）

36．社会主义改革是新事物战胜旧事物的过程。有人把这个过程比喻为“乘风破浪会有时，直挂云帆济沧海”。

37．材料　改革开放以来，我国坚持以经济建设为中心，解放生产力，发展生产力。综合国力不断提高。同时，积极发展对外关系，国际地位不断提高，在国际事务中发挥着举足轻重的作用。
辨题：我国国际地位的提高在于我国综合国力的增强。

五、论述题（本大题共2小题，第38题16分，第39题19分。共35分。每题设置2分综合评价分，用于对考生分析问题和解决问题能力的综合评价。要求紧扣题意，综合运用所学知识，结合材料展开分析）

38．材料一　据《经济日报报道》：“据日本有关机构调查，日元汇率每下跌1元，丰田公司可赢利15亿日元，东芝公司可增加50亿日元，日立公司可增加20亿日元。”“日本有关当局对日元的贬值袖手旁观，没有长远的眼光，没有采取任何阻止日元下跌的措施，表现出一种放任日元贬值的姿态。”据此有人认为：日元下跌是对日本有利可图的，所以，不要阻止为好。
材料二　表面看，日元贬值有利于出口，然而，事物还有另一面。日元贬值令日本金融机构叫苦不迭，殃及日本股市下跌，加重了日本的信用危机。日元贬值对日本经济的负作用是长期的、深远的。它不利于日本经济的恢复、而且还会引发全球性的经济恐慌。
（1）上述材料反映了哪两种根本对立的世界观和方法论？
（2）两种不同的世界观和方法论的对立表现在哪些方面？
（3）这些对立在上述材料中是如何反映出来的？

39．材料一　我国西部的主要资源优势

项目	资源总量占全国（%）	人均占有量	
		西部为东部（%）	西部为全国（%）
主要矿种工业储量潜在值	49.3	242	172
能源资源	59.1	358	206
其中可开发水能水资源总量	81.5 69.4	1095 562	284 242
宜农荒地	68.5	548	240
宜林荒地	70.6	580	242
可利用天然草地	95.5	2260	314

材料二　2003年6月10日召开的新一届国务院西部地区开发领导小组第一次会议认为，三年多来，党中央、国务院高度重视西部大开发战略的实施。在西部大开发中，要将计划手段与市场手段相结合，要利用市场经济的方法，建立吸引资金、技术、人才的机制，使更多的资金、技术、人才到西部地区开发建设；而计划手段，就是通过西部总体规划，加大财政转移支付力度，加快西部建设。
（1）请运用所学的经济常识，分析说明在西部大开发中，我们为什么要把计划手段和市场手段相结合起来？
（2）用经济常识的有关知识，分析说明西部地区应如何把资源优势转化为经济优势，实现区域经济的腾飞？
（3）简要说明西部大开发的政治经济意义？

需要全本请访问 www.ertongbook.com

广州市高中毕业班综合测试（二）

3A

政　　治

本试卷分第Ⅰ卷选择题和第Ⅱ卷非选择题两部分，满分 150 分。考试时间 120 分钟。

第Ⅰ卷（选择题　共 75 分）

一、在下列各题的四个选项中，只有一项是最符合题意的。（每小题 2 分，共 48 分）

1．2003 年，中国经济在 SARS 冲击、全球经济不稳定的情况下，仍然保持了良好的发展势头，按现行汇率，GDP 总量突破_____亿美元，同比上年增长_____。（　）

A．1.1 万　8.7%　　B．1.4 万　9.1%

C．1.2 万　9.9%　　D．1.3 万　7.8%

2．2003 年 9 月 1 日，一部关系到广大困难群体切身利益的法规《法律援助条例》正式实施，标志着具有中国特色的法律援助制度基本形成。关于法律援助制度的说法正确的有

①《条例》的实施是实现法律面前人人平等和完善社会保障法规体系的重要措施　②法律援助是国家行为、政府义务　③法律援助的经费主要由社会捐助和当事人少量承担　④法律援助的对象只是经济上有需要的当事人　（　）

A．①②　　B．③④　　C．②③　　D．①④

3．2003 年 9 月 1 日至 4 日，联合国亚太经济社会第五十九届年会在泰国首都曼谷举行。本届会议的主题是“应对本区域需要，解决经济社会关切问题，尤其是（　）

A．贫困问题　　B．安全问题　　C．艾滋病问题　　D．老龄化问题

4．2003 年 10 月 8 日，国务院总理温家宝在印度尼西亚巴厘岛与东盟十国领导人签署了_____，标志着中国与东盟的合作进入一个崭新的阶段。（　）

A．《东南亚互助合作协议》

B．《中国与东南亚互不侵犯战略合作议定书》

C．《东南亚友好合作条约》

D．《中国与东南亚更紧密经济贸易合作协议》

5．2004 年 2 月 28 日，为期 4 天的第二轮朝核问题六方（中国、朝鲜、美国、韩国、日本和俄罗斯）会谈在北京结束。六方会谈通过了《主席声明》，各方表示将致力于_____，并本着相互尊重、平等协商的精神，通过对话和平解决核问题，维护朝鲜半岛和本地区的和平与稳定。（　）

A．朝鲜半岛无核化　　B．朝鲜半岛非军事化

C．朝鲜半岛核贸易正常化　　D．朝鲜半岛和平利用核能化

6．首个由中国科学家提出并以中方为主组织实施的中欧空间探测国际合作计划，日前正式启动。2003 年 12 月 30 日，中国与欧洲合作的第一个科学探测卫星项目_____的首颗卫星_____发射成功。（　）

A．双星计划　探测一号　　B．火星计划　探测一号

C．伽俐略计划　勇气号　　D．伽俐略计划　希望号

7．2003 年 6 月 20 日，国务院颁布《城市生活无着的流浪乞讨人员救助管理办法》取代旧的收容遣送制度。新办法的关键之处是对救助管理提出了全新的_____原则。（　）

A．司法救济　　B．自愿救助　　C．无偿救助　　D．强制收留

8．从旧的收容遣送制度的废除到《城市生活无着的流浪乞讨人员救助管理办法》的出台，体现的政治意义

①是社会主义政治文明进步的重要体现　②是落实弱势公民的国民待遇的重要举措　③是尊重和保护人权的具体表现　④是减少犯罪，实现社会稳定的根本性措施　（　）

A．①②④　　B．②③④　　C．①③④　　D．①②③

9．2003 年 3 月，美英两国绕开联合国对伊拉克发动军事打击，萨达姆政权垮台，美英以占领国的身份包揽了伊拉克的控制权。但复杂的伊拉克局势特别是安全形势促使美英又不得不回到联合国的框架内。10 月 16 日，安理会通过了 1511 号决议，重申了联合国在伊战后重建中所起的重要作用。这一变化表明（　）

A．单边主义是解决和平与发展问题的主要障碍

B．联合国是惟一有权对一国采取军事行动的国际组织

C．维护联合国的权威对世界和平与发展具有重要意义

D．美国与联合国的合作是维持多极世界战略平衡的重要保证

10．下列国家中，实行总统制、多党制的复合制国家是（　）

A．美国、墨西哥、意大利　　B．俄罗斯、墨西哥、巴西

C．美国、巴西、泰国　　D．德国、日本、印度

爱因斯坦的广义相对论曾经做出过暗能量的假设。2003 年 8 月 23 日，一个由美国牵头的多国科学家小组在研究中借助美国“威尔金森微波各向异性探测器”拍摄到了宇宙婴儿时期的一张照片，从而证实了一个神奇得让人无法置信的图景：用以构成恒星、树木、人类的普通物质只占 4%，另有 23% 的是诡异的暗物质，余下的 73% 则是暗能量。另外，中国和意大利的科学家也正在借助粒子加速器实验，合作寻找暗物质的粒子。这些成就在人类探索宇宙奥秘和物质基本结构的道路上无疑是一个里程碑。回答 11、12 题。

11．从哲学上看，暗物质和暗能量的发现表明了（　）

A．世界上没有不可认识的事物，只有尚未被认识的事物

B．高新科学技术使人们认识到新事物总是层出不穷的

C．世界的本原只有随着现代自然科学的发展才能被证实

D．承认自然的客观性是正确处理人与自然关系的基本前提

12．从爱因斯坦的假设到现代科学的证实，暗物质和暗能量的发现过程表明（　）

A．事物的发展是前进性和曲折性的统一

B．实践对认识具有决定作用

C．认识的根本任务是透过现象看本质

D．科学实验是推动社会进步的有力杠杆

13．英国著名哲学家贝克莱有一句名言“存在就是被感知”。有一次，别人问他：“贝克莱先生，假设您站在悬崖边上，闭上您的眼睛，您敢纵身一跃吗？”贝克莱先生哑口无言。这个小故事表明（　）

A．事物的客观实在性依赖于人们能否感知

B．运动是物质的根本属性和存在方式

C．物质是不以人的意志为转移的客观实在

D．人的意识对客观事物的反映是有差别的

14．信访曾经在很长时期内是人民群众反映民意的主要渠道。但近年来，电台直通车、电视对话、网上交流正逐渐成为政府和老百姓沟通的新的途径，各地的电子政务正是在这一背景下蓬勃发展起来的。从哲学上看，电子政务的出现表明（　）

A．任何事物之间都存在着相互影响、相互制约的联系

B．联系是以人的主观意志为转移的

C．一事物与周围事物的联系是事物存在和发展的条件

D．人们可以创造条件建立新的具体联系

15．有人说，“无私奉献与市场经济通行的等价交换原则相矛盾，在市场经济条件下再提倡发扬无私奉献精神已经不合时宜了”。从哲学上看，这种观点主要错在（　）

A．只看到矛盾的主要方面而忽视了次要方面

B．否认了矛盾是事物发展的根本动力

C．没有看到矛盾双方在一定条件下是统一的

D．否认了内因是事物发展的根本原因

16．下列说法体现唯物辩证法原理的是（　）

A．子不语怪、力、乱、神

B．人之为学，学之，则难者亦易矣；不学，则易者亦难矣

C．万物都在运动，但只是在概念中运动

D．不行而知，不见而名，不为而成

17．据统计，自中国留学人员广州科技交流会举办六届以来，领风气之先的广州以其良好的创业环境，成为众多海外留学人员回国创业的热土，“回国创业，先到广州看看”已经成为海外学子的共识。这表明（　）

A．个人与社会是辩证统一的关系

B．物质贡献是衡量人生价值的惟一尺度

C．实现人生价值需要社会提供一定的客观条件

D．只有高素质的人才才能实现自己的人生价值

读下表，回答 18～20 题。

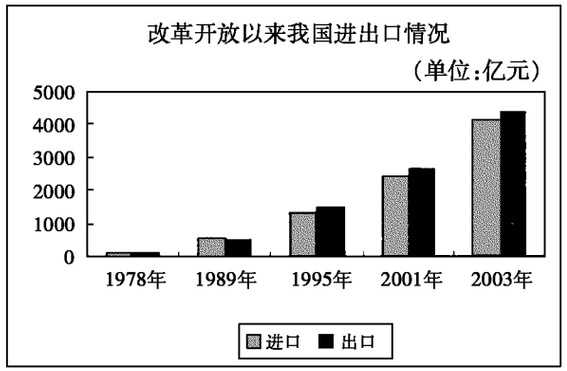

18．我国进出口贸易迅猛发展的根本原因是（　）

A．面向世界开放的市场化改革　　B．立足于扩大内需的战略方针

C．通过科技进步转变经济增长方式　D．大力实施“引进来”的开放战略

19．由于我国对外贸易特别是对欧美的出口强劲增长，国际上个别国家要求人民币升值的呼声非常强烈，但中国政府从中国经济和世界经济发展的大局出发，坚持人民币币值基本稳定的政策。从我国对外贸易来看，如果人民币升值，将直接导致我国出口商品丧失（　）

A．产品结构优势　　B．管理成本优势

C．技术含量优势　　D．价格竞争优势

20．根据商务部的统计，在我国的进出口贸易中，无论从贸易总量还是从增量看，美国、欧盟、日本等传统国家和地区都占了绝大部分的比重。而与此同时，自加入 WTO 以来，我国与这些地区的贸易纠纷如反倾销调查也快速上升。为此，我国发展对外贸易要实施

①以质取胜战略　②市场多元化战略　③贸易保护主义政策　④最惠国待遇原则　（　）

A．②③　　B．①④　　C．①②　　D．②④

21．2004 年 2 月 9 日，人民日报全文发表了《中共中央国务院关于促进农民增加收入若干政策的意见》（中共中央 2004 年 1 号文件）。该文件开宗明义，头一条就是“集中力量支持粮食主产区发展粮食产业，促进种粮农民增加收入”。这说明（　）

A．促进种粮农民增收是有效解决农业农村中其他问题的关键

B．我国粮食主产区的农业劳动生产率不高

C．保护和调动农民的种粮积极性，才能巩固和加强农业的基础地位

D．多年以来我国的粮食供过于求，丰年有余

22．2003 年下半年，国内粮食市场价格呈现 6 年来的首次全面上扬，但农民的收入并没有相应增加。据有关人士估计，这次粮价上涨的直接受益者是一些粮食购销和加工企业。因此，从政府的角度来看，要增加农民收入，就要（　）

A．深化粮食流通体制改革，实行对种粮农民的直接补贴

B．实行粮食统购统销的专营制度

C．增加对农业和农村基础建设的投入

D．坚持和完善以家庭承包经营为基础的双层经营体制

23．“货真价实，童叟无欺”是商业领域的基本要求。它反映了经济活动中商品生产者和经营者要（　）

A．积极参与市场竞争
B．遵循等价交换的原则
C．遵循公平、诚实信用的交易原则
D．努力实现商品的使用价值和价值的有机结合

24．2003年，“比医院药房的药品价格平均低40%”的一家“老百姓大药房”引发了广州、杭州、长沙等地的药品零售业一次“重地震”，市民大声叫好，竞相到平价药房购药。这表明（　　）
A．竞争必然导致物价的降低
B．竞争会打破垄断，有利于资源的优化配置
C．竞争有利于消费者，不利于生产者和经营者
D．竞争是市场经济的必然产物，也是市场经济的特征

二、在下列各题的四个选项中，至少有一项是符合题意的。错选、多选，该题不给分；少选且正确的给1分。（每小题3分，共27分）

25．民族、宗教和国家问题往往交织在一起。当今世界，因民族矛盾而导致的国内、国际冲突此起彼落，不断发生。而我国却能够政通人和，各民族紧密团结在一起，共同致力于全面建设小康社会。因为（　　）
A．我国已经彻底消除了民族歧视和民族差别
B．我国坚持民族平等、团结和各民族共同繁荣的原则
C．我国实行了民族区域自治制度和宗教信仰自由政策
D．东南部经济发达省市对少数民族地区大力支持

26．2003年10月，在中共十六届三中全会上，中共中央向全国人大常委会提出了关于修改宪法部分内容的建议。12月16日，十届全国人大常委会第六次会议开始审议宪法修正案草案。2004年3月，十届全国人大二次会议审议并通过了由全国人大常委会提出的宪法修正案，明确把中共中央提出的将“三个代表”重要思想等内容载入宪法。这表明（　　）
A．中国共产党是社会主义事业的领导核心
B．立法是执政党和国家权力机关的共同职能
C．中国共产党以宪法和法律作为根本活动准则
D．程序公正、合法是依法治国的重要内容

一般而言，经济增长与就业之间呈现正相关的关系。著名的奥肯定律指出，当经济增长率高于2.25%时，经济增长率每增加一个百分点，失业率就会下降半个百分点。但是根据国家有关部门的统计，我国近20年的GDP年均增长率达到9%，就业增长率却在下降。1979年～1989年我国的就业年均增长率2.96%，年新增1380万人就业，而1991年～2001年，就业年增长率仅为1.1%，平均新增劳动力就业仅为752万人。回答27、28题。

27．根据上述材料，下面关于经济增长与就业关系的说法正确的是（　　）
A．经济增长必然带来就业的增长
B．发展经济是改善就业的根本途径
C．经济增长促使就业结构越来越趋向合理化
D．经济增长越快，就业率越高

28．针对我国就业领域中存在的问题，促进我国就业增长率大幅度提高的有效措施是（　　）
A．鼓励发展有市场需求的劳动密集型企业
B．调整产业结构，大力发展第三产业
C．注重发展中小企业和个体私营等非公有制企业
D．加快发展信息技术、生物工程等高新技术产业

29．根据宏观经济形势的走向，2004年我国将继续实施积极的财政政策，但是要适度降低国债发行力度，调整结构和投向，确保重点支出。坚持科学的发展观，统筹兼顾，重视解决城乡之间、地区之间、经济与社会发展之间的不平衡问题，支持困难地区和困难群众改善生产条件、生态环境和生活水平。这说明实施积极的财政政策有利于（　　）
A．平衡国际收支
B．推动国民经济持续快速健康协调发展
C．促进社会公平
D．带动产品结构的优化升级、更新换代

30．从哲学上看，对积极财政政策的调整和完善体现了（　　）
A．坚持用联系和发展的观点解决前进中的问题
B．新事物代替旧事物的过程是前进性与曲折性相统一的过程
C．必须从整体上把握事物的联系
D．重视用量变引起质变的道理看问题、办事情的原则

31．党的十六届三中全会指出，对垄断行业要放宽市场准入，引入竞争机制。加快推进和完善垄断行业改革，有利于（　　）
A．从源头上遏制和预防行业腐败
B．提高国有资产的运营质量和效率
C．建立统一、开放、竞争、有序的市场体系
D．刺激和带动民间投资、拓宽就业渠道

32．每年“春运”期间，汹涌的客流使铁路不堪重负。过去铁路部门一直害怕春运，而现在是满怀信心迎接春运，把春运当作扩大市场份额、增加收入的大好时机，于是我们在春运现场看到了“铁路与你手拉手，温馨服务送你走”这样充满了人性关怀的标语。这一变化表明（　　）
A．奉献社会是企业一切经济活动的根本出发点
B．社会主义市场经济与坚持经济效益优先是对立关系
C．社会主义市场经济与坚持集体主义在根本上是一致的
D．价值观极大地影响人们认识和改造世界的活动指向

33．对于追求和探索真理，古罗马诗人卢克莱修曾说：“站在岸上看船在海上颠簸是一件乐事，站在一座堡垒的窗前看下面的战争和它的种种经过是一件乐事，但是没有一件乐事能与站在真理的高峰目睹下面谷中的错误、漂泊、迷雾和风雨相比拟的了”。这表明（　　）
A．追求和探索真理比占有真理更有意义
B．追求到终极的真理是人生乐事
C．认识要在实践中接受检验和不断发展
D．认识的最终目的就是获得和占有真理

第Ⅱ卷（非选择题　共75分）

三、简答题（本大题共2小题，每小题9分，共18分）

34．改革开放以来，中国老百姓的生活发生了巨大的变化。新华社记者用“大起来的住房、多起来的汽车、低下来的食品支出比重、高起来的文化程度、热起来的假日旅游、快起来的通信方式”等词语来描述这种变化。
问题：运用经济常识的有关知识，简要说明这一变化对促进经济发展的意义。

35．2003年10月11日至14日，中共中央十六届三中全会在北京召开。这次大会的一个重要议程就是由胡锦涛总书记代表中共中央政治局向中央委员会作工作报告，向中央委员会述职并汇报工作。这在党的历史上还是第一次。
问题：中共中央政治局向党的中央委员会述职并汇报工作，说明了什么政治常识的道理？

四、辨析题（本大题共2小题，第36题11分，第37题10分，共21分。仅作判断不说明理由者不得分）

36．发扬求真务实的精神就是要求不“唯书”，只“唯实”。

37．材料：张某因组织黑社会集团犯罪，制造多起伤人和害人命案，被某市检察机关提起公诉，并由当地中级人民法院做出死刑、缓期二年执行的一审判决。一部分群众对这一判决表示强烈不满和愤慨。最高人民法院调审此案后，终审判决张某死刑并立即执行。
辨题：人民法院行使审判权必须依据和服从民意。

五、论述题（本大题共2小题，第38题17分，第39题19分，共36分。要求紧扣题意，综合运用所学知识，结合材料展开分析）

38．1960年，“杂交水稻之父”袁隆平从一些学报上获悉杂交高粱、杂交玉米等成果已在国外广泛应用，这使他认识到：遗传学家孟德尔等人提出的基因分离、自由组合等规律对作物育种有重要意义。于是，他跳出了传统的无性杂交学说，开始进行水稻的有性杂交试验。

袁隆平和助手们整整花了6年时间，先后用1000多个品种，做了3000多个杂交组合，仍然不能培育出不育株率和不育度都达到100%的不育系来。袁隆平总结了6年来的经验教训，并根据自己的观察，大胆提出“利用远缘的野生稻与栽培稻杂交”的新设想。

经过多年的观察、实验，以及与全国各地科研人员的合作，1973年10月，袁隆平终于发表了题为《利用野稻选育三系的进展》的论文，正式宣告我国籼型杂交水稻“三系”配套成功。

请结合上述材料，分析说明如何发展创造性思维，促进新事物的成长？

39．根据以下材料，运用所学经济常识知识，回答下列问题。
材料一：东北某省H市工业资产的规模及构成情况

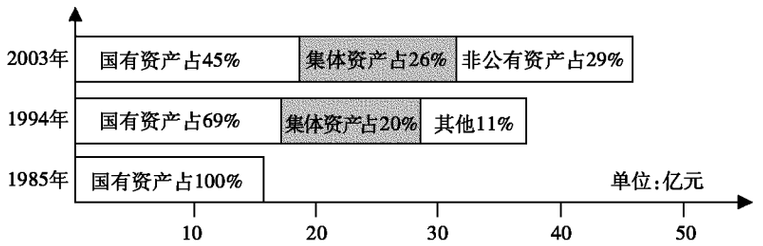

注：该市的国有工业企业数量从1994年时的165家减少到2003年底的72家，其中造纸厂、特钢制造、热电厂等企业经过股份制改造已经成功上市，市场竞争力进一步增强。

材料二：H市2003年财政收入来源及就业分布情况

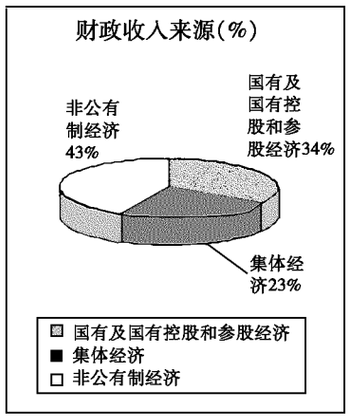

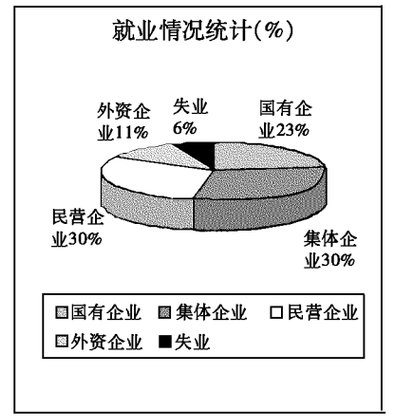

注：据统计，改革开放以来，H市的财政收入年均增长6%，就业和再就业总量增长了85%，但城镇登记失业率也从不到1%增加到6%。

材料三：据国务院发展研究中心组织的调研显示，H市所在的某省是我国国有经济比重最高的省份。而该省国企经营困难的原因主要是社会包袱过重，企业设备老化，产品结构不合理，管理混乱，经营观念陈旧，企业主管部门多，行政干预多，资产负债率高。

问题：（1）材料一和材料二分别说明了什么经济现象？

（2）分析H市财政收入和就业容量大幅度增长的主要原因。

（3）综合三个材料，谈谈你对振兴H市所在的某省国有经济的看法。

江苏省南通市高三第一次调研考试

4A

政　　治

本试卷分第Ⅰ卷（选择题）和第Ⅱ卷（非选择题）两部分，共150分。考试时间120分钟。

第Ⅰ卷（选择题，共75分）

一、在下列各题的四个选项中，只有一项是最符合题意的。每小题2分，共48分

1．面对突如其来的非典型肺炎疫情，党中央、国务院高度重视。2003年5月7日，国务院第七次常务会议审议通过_____，5月9日公布施行。这一法律文件的颁布施行以及《城市流浪乞讨人员救助管理办法》取代《城市流浪乞讨人员收容遣送办法》，标志着我国政府的_____能力有了较大提高。（　）

A.《特大安全事故行政责任追究的规定》　经济调节和市场监管

B.《突发公共卫生事件应急条例》　社会管理和公共服务

C.《婚姻登记条例》　市场监管和社会管理

D.《物业管理条例》　经济调节和公共服务

2．温家宝总理在今年的政府工作报告中提出，中央政府从今年起逐步降低农业税税率，平均每年降低_____个百分点以上，_____年内取消农业税。（　）

A．2　3　　B．5　5　　C．1　5　　D．1　3

3．2003年8月3日，2008年北京奥运会会徽在北京天坛公园祈年殿举行的仪式上隆重揭晓。会徽图形为中国传统印章图形中的一种“肖形印”（见右图），其正式名称为_____。（　）



A.“中国印·跳动的北京”

B.“肖形印·运动的北京”

C.“中国印·舞动的北京”

D.“肖形印·奔跑的北京”

4．2003年12月10日，第58届联合国大会主席亨特在联合国总部向中国残疾人联合会主席邓朴方颁发了_____。这是中国人首次获此殊荣，邓朴方也是世界上第一位获得此奖的残疾人。（　）

A．2003联合国人权奖　　B．2003诺贝尔和平奖

C．2003诺贝尔文学奖　　D．2003联合国消除贫困奖

5．2003年10月8日，中国正式加入《东南亚友好合作条约》，从而使中国成为东南亚地区以外第_____个加入该条约的大国。同日，中国国务院总理温家宝与东盟十国领导人签署_____，双方宣布建立面向和平与繁荣的战略伙伴关系。（　）

A．一　《中国—东盟战略伙伴关系联合宣言》

B．二　《东南亚友好合作条约》

C．三　《中国—东盟自由贸易区宣言》

D．四　《世界人权宣言》

6．2003年10月15日9时整，我国自主研制的_____载人飞船在酒泉卫星发射中心用“长征”二号F型运载火箭发射升空。9时9分50秒，飞船准确进入预定轨道，将中国第一名航天员_____成功送上太空，在绕地球14圈后，于次日安全着陆，我国首次载人航天飞行圆满成功。我国是世界上第_____个掌握这一技术的国家。（　）

A．“风云”二号　王永志　一　　B．“风云”三号　翟志刚　二

C．“神舟”四号　聂海胜　四　　D．“神舟”五号　杨利伟　三

7．2004年2月25日～28日，由_____韩、俄、日在北京举行了第二轮六方会谈。各方表示将致力于朝鲜半岛无核化，并愿本着相互尊重、平等协商的精神，通过对话和平解决核问题，维护朝鲜半岛和本地区的和平与稳定。各方一致同意继续会谈进程，原则同意于2004年6月底之前在_____举行第三轮会谈。（　）

A．中、朝、英　北京　　B．中、朝、美　北京

C．中、朝、德　平壤　　D．中、朝、法　汉城

8．3月11日，国际恐怖势力发动了对西班牙的恐怖袭击，造成了1000多人的重大伤亡，联合国和世界各国同声谴责这一罪恶行径。西班牙的政体和政党制度分别是（　）

A．总统制共和制和两党制　　B．议会制君主立宪制和两党制

C．议会制君主立宪制和多党制　　D．议会制共和制和多党制

9．王安石在《游褒禅山记》中写道：“古人之观于天地、山川、草木、虫鱼、鸟兽，往往有得，以其求思之深而无不在也。”这段话表明（　）

A．认识事物必须发挥主观能动性　　B．感性认识有待于发展到理性认识

C．感性认识是理性认识的来源　　D．理性认识必须回到实践中去

10．随着科学技术的发展，近年来，我国已经成功培育水稻、小麦、棉花、玉米、大豆、油菜等作物的新品种二百多个。这一情况说明（　）

A．物质世界是人类创造的

B．人类能够有意识地利用和改造自然

C．物质世界与人的意识是相互依存的

D．人造物质可以脱离天然物质而存在

11．漫画《分工负责》启示我们，想问题办事情必须（　）


分工负责

A．用不同的方法去解决不同的矛盾

B．透过现象看本质

C．从整体着眼

D．立足预期目标

12．我国人民在抗击“非典”的战斗中焕发出“万众一心、众志成城、团结互助、和衷共济、迎难而上、敢于胜利”的伟大精神，这是以爱国主义为核心的民族精神在新时期的生动展现。这说明（　）

A．社会存在的变化决定社会意识的变化

B．本质离不开现象，现象是本质的表现

C．理想来源于现实，又高于现实

D．个性寓于共性之中，并通过共性表现出来

13．否认马克思主义的科学性，丢掉老祖宗，是错误的、有害的；教条式地对待马克思主义，也是错误的、有害的。上述两种态度的共同错误在于（　）

A．否认了物质对意识的决定作用

B．割裂了矛盾的普遍性和特殊性的联系

C．否认了意识的能动作用

D．否认了事物的变化发展

14．亚洲金融危机爆发以来，中国政府采取扩大内需的方针，实施积极的财政政策和稳健的货币政策，有力促进了经济增长，也给广大老百姓带来了许多实惠。这则材料给我们的哲学启示是（　）

A．人们可以创造和改变事物发展的规律

B．认识世界和改造世界必须充分发挥主观能动性

C．意识对客观事物的发展具有促进作用

D．发挥主观能动性受到主客观条件的限制

15．东汉思想家王充说：“入山见木，长短无所不知；入野见草，大小无所不识。然而不能伐木以作屋，采草以和药，此知草木所不能用也。”造成上述现象的根本原因是（　）

A．不懂得实践是认识的来源

B．不懂得实践是认识发展的动力

C．不懂得实践是检验认识的惟一标准

D．不懂得实践是认识的目的

16．早在1835年马克思谆谆告诫年轻人：“我们在选择职业时应遵循的主要指针，是人类的幸福和我们的自身完善。不能认为这两种利益会彼此敌对，互相斗争，一方必然要消灭另一方，人类的天性生成是这样：人们只有为了同时代的人的完善，为了他们的幸福而工作，他自己才能达到完善。”这里“人类的天性”是指（　）

A．人具有从事生产劳动的特征

B．人的生存和发展离不开自然界

C．人类具有认识和改造客观世界的能力

D．人们总是处于一定的社会关系之中

党的十六届三中全会强调要“实行最严格的耕地保护制度，保证国家粮食安全。”据此回答17、18题。

17．之所以要“实行最严格的耕地保护制度”，是因为（　）

A．土地属于国家所有　　B．退耕还林、还草影响粮食安全

C．耕地是农民最基本的生产资料　　D．耕地可确保粮农收入迅速增长

18．保护国家粮食安全的根本原因在于（　）

A．解决吃饭问题是头等大事　　B．粮食是国民经济的基础

C．我国农业劳动生产率较低　　D．我国农产品供给都始终偏紧

19．蓝色农业，是指利用海洋和内陆水域，以及低洼盐碱地等蓝色国土资源发展渔业和渔区经济，并以此带动水生动植物开发利用的相关产业。目前，各地普遍重视开发蓝色农业资源，推动了水产养殖业和远洋渔业的发展，带动了水产品储藏、加工、保鲜、运输、出口和渔用饲料以及渔船、鱼网、渔机具等二、三产业的发展。这表明（　）

A．农业资源的合理利用是产业结构调整的关键

B．调整农业和农村经济结构有利于可持续发展

C．蓝色农业是传统农业和现代化农业的结合

D．蓝色农业更符合市场要求，满足人民生活需要

20．如果全年物价上涨幅度为2.2%，居民一年期存款名义利率1.98%，利息税为20%，那么，居民若存款10000元，一年的实际收益为（　）

A．198.0元　　B．158.4元　　C．65.08元　　D．－65.08元

21．2004年1月1日《工伤保险条例》正式施行，国家将大力推行工伤保险，力争到年底在所有统筹地区启动实施工伤保险，使参保职工人数达到6000万。劳动和社会保障部有关负责人表示，今后有关部门将督促各地做好实施工作，加大推进力度。工伤保险属于（　）

A．财产保险　　B．人身保险　　C．社会保险　　D．社会救济

2003年，人民币汇率问题成为国际关注的热点，我国面临人民币升值的压力。据此回答22～24题

22．人民币升值是指（　）

A．外汇汇率升高

B．我国的外汇储备增加
C．一定量的人民币可以换得更多外币
D．人民币的面值增大

23．人民币升值会造成（　　）
A．我国外汇收入大量增加　　B．我国出口受阻，不利于经济发展
C．我国外贸出现顺差　　D．我国外贸出现出超

24．针对部分国家要求人民币升值的压力，我国明确表示要保持人民币汇率基本稳定。这表明（　　）
A．我国坚持对外开放的原则　　B．我国主张参与经济全球化
C．我国对外开放的程度下降　　D．我国坚持独立自主的原则

二、在下列各题的四个选项中，至少有一项是符合题意的。错选、多选，该题不给分，少选且正确的给 1 分。每小题 3 分，共 27 分

25．在每年的“两会”上，政协委员、人大代表总要提出许多关系国计民生的议案，交大会讨论审议。这表明在我国，人民代表大会行使国家权力的形式是这样的（　　）
A．与人民政协共同行使　　B．通过立法或某种决策
C．督促其他国家机关办理议案　　D．直接作出行政或司法决定

26．当今世界，许多国家和地区宗教矛盾尖锐，教派冲突不断，有的甚至发展到教派仇杀的极端地步。这给我们的警示是（　　）
A．不可忽视宗教的消极作用
B．必须坚决制止有组织的宗教活动
C．必须坚持我国宗教的独立自主自办方针
D．必须依法加强对宗教事务的管理

27．为促进内地和香港特别行政区经济的共同繁荣与发展，加强双方与其他国家和地区的经贸联系，2003 年 6 月 29 日《内地与香港关于建立更紧密经贸关系的安排》（CEPA）签署。这一文件的签署（　　）
A．体现中央政府和祖国人民对香港地区的关心和支持
B．是进一步落实“一国两制”、“港人治港”、高度自治方针的具体措施
C．是促进香港与内地进一步走向共同发展、共创双赢的重要步骤
D．有利于中央政府加强对香港经贸的管理

28．“善奕者，得势。初学者，顾子而不谋势，得小利而失全盘。”从哲学上看，“谋势”就是要（　　）
A．坚持联系的观点，着眼全局看问题
B．要以发展的眼光看问题，预见事物发展的趋势
C．充分发挥主观能动性，把握事物的本质和规律
D．想问题办事情要从实际出发

29．磁悬浮列车具有速度快、能耗低、污染少的优点，但人们对其安全性、磁辐射又有一定的担心。对此有关专家解释说，磁悬浮列车的安全性远远高于飞机、汽车等传统交通工具，其磁辐射比彩电的磁辐射还低得多。这说明（　　）
A．认识的根本任务在于指导实践
B．新事物代替旧事物需要发挥主观能动性
C．做事情既要抓住重点，又要统筹兼顾
D．看问题既要全面，又要分清主流和支流

30．人文精神就其核心来说，就是世界观、人生观、价值观。一些人精神空虚，就是由于这方面的失落、混乱和迷误而造成的。生老病死，顺利和挫折，机会和风险，在这些问题面前，如果没有科学的态度，就容易被神秘主义的迷信所俘虏。对这段话理解正确的是（　　）
A．世界观决定着人的生活追求和现实生活中的价值选择
B．世界观、人生观、价值观对人们认识世界具有导向作用
C．人的各种精神要素要受世界观、人生观和价值观的影响
D．世界观、人生观和价值观处于改造主观世界的核心地位

31．据新华社报道，农产品连续 6 年低价位徘徊后的上扬，大大调动了农民种粮的积极性，各地抓住有利时机，抢播抢种，基本遏制了粮食播种面积连年大幅度下滑的势头。这表明（　　）
A．价值规律是商品生产和商品交换的调节者
B．价格波动会影响生产和供求
C．商品的价格由价值决定
D．农业是国民经济的基础

32．《中共中央关于完善社会主义市场经济体制若干问题的决定》提出，要建立健全社会信用体系。下列属于信用行为的有（　　）
A．存款储蓄　　B．购买者预付商品的预付款
C．拍卖　　D．银行向企业发放贷款

33．从今年 3 月 1 日起，最新修订的《最低工资规定》开始施行。新规定不仅适用于企业职工，更包括农民工和钟点工。这一规定体现了（　　）
A．市场经济平等性的要求　　B．维护劳动者基本权利的要求
C．兼顾社会公平原则的要求　　D．处理好社会稳定与发展关系的要求

第Ⅱ卷（非选择题，共 75 分）

三、简答题（本大题共 2 小题，每小题 9 分，共 18 分）

34．2003 年 10 月 14 日中国共产党第十六届中央委员会第三次全体会议审议通过了《中共中央关于修改宪法部分内容的建议》，并决定提交第十届全国人民代表大会常务委员会审议。在此之前，中共中央 8 月 26 日和 28 日在中南海先后召开党外人士座谈会，听取各民主党派中央、全国工商联的领导人和无党派人士对《建议（征求意见稿）》的意见和建议。

2003 年 12 月 22 日至 27 日举行的十届全国人大常委会第六次会议将中央《建议》列入议程。会议以《建议》为基础，形成并全票通过了全国人大常委会关于提请审议宪法修正案（草案）的议案和宪法修正案（草案）。2004 年 3 月，十届全国人大二次会议审议通过了全国人大常委会提出的宪法修正案，明确把“三个代表”重要思想、推动物质文明、政治文明和精神文明协调发展等内容载入宪法。

上述材料是怎样体现我国政党制度的基本内容的？

35．经十届全国人大二次会议修正的《中华人民共和国宪法》第十一条第二款规定：“国家保护个体经济、私营经济等非公有制经济的合法的权利和利益。国家鼓励、支持和引导非公有制经济的发展，并对非公有制经济依法实行监督和管理。”

请从理论和实践的结合上说明为什么要鼓励、支持和引导非公有制经济的发展？

四、辨析题（本大题共 2 小题，每小题 11 分，共 22 分。仅作判断不说明理由者不得分）

36．1942 年，刘东生从西南联合大学毕业，决心从事黄土研究，一干就是 60 年。从 20 世纪 50 年代起，刘东生对黄土高原进行了大量的野外考察和实验分析，提出了有重要突破的“新风成说”，平息了 170 多年来的黄土成因之争，被誉为“黄土之父”；80 岁上下，探索的足迹仍遍布南极、北极和青藏高原等“地球三极”……2002 年获国际最高环境科学成就奖；2003 年获中国国家最高科技奖。

辨题：理想是人生的精神支柱。有了理想，就能实现人生价值，推动社会进步。

37．在我国，政府谋大局，管“国计”；群众视眼前，重“民生”。

五、论述题（要求紧扣题意；综合运用所学知识，结合材料展开分析。本大题共 2 小题，共 35 分。第 38 题 17 分，第 39 题 18 分）

38．中央决定今年适当降低我国经济增长速度，由去年的 9.1% 调低为 7%。这一调整既考虑了保持宏观调控目标的连续性，又考虑了经济增长速度与能源、重要原材料、交通运输等实际条件的衔接，同时有利于引导各方面把主要精力放在深化改革、调整结构、提高经济增长的质量和效益上，把更多的财力、物力用在社会发展和加强薄弱环节上。为了树立和落实全面、协调、可持续的发展观，中央要求各级领导一定要树立“以人为本”的施政理念，真正做到“权为民所用，情为民所系，利为民所谋”，各项改革要顺民意、谋民利、合民心。

根据上述材料，回答下列问题：

（1）我们对经济增长目标的调整体现了哪些哲学道理？

（2）运用哲学知识分析说明各项改革为什么要“顺民意、谋民利、合民心”？

39．

表 1：我国国内生产总值增长情况

年度	全年国内生产总值（亿元）	比上年增长（按可比价格计算）
2001 年	95933	7.3%
2002 年	102398	8.0%
2003 年	116694	9.1%

注：我国 GDP 占世界 GDP 的比重仅为 3%。

表 2：我国与世界平均投资率、消费率比较

	投资率	消费率
中国（2003 年）	42.7%	37%
世界平均	不超过 30%	约 80%

注：投资率（或消费率）反映的是投资（或消费）在 GDP 中所占的比例。2003 年我国固定资产投资增长高达 26.7%，个别行业甚至达到 121.9%。

表 3：我国的资源储量和消耗情况

我国单位 GDP 能耗为发达国家的倍数			2003 年我国资源消耗占世界总消耗的比重			我国重要矿产资源的人均储量占世界人均水平的百分比	
美国	德国	日本	钢材	水泥	煤	石油	天然气
3 倍	5 倍	6 倍	1/4	50%	30%	8.3%	4.1%

（1）表 1 说明什么现象？表 2、表 3 反映了 2003 年我国经济运行的什么特征？

（2）表 2、表 3 所反映的问题对我国经济发展有何不利影响？

（3）综合上述各表，运用经济常识和有关知识，谈谈你对解决上述问题的看法。

江苏省南通市高三第二次调研考试

5A

政　　治

本试卷分第Ⅰ卷（选择题）和第Ⅱ卷（非选择题）两部分，共 150 分。考试时间 120 分钟。

第Ⅰ卷（选择题　共 75 分）

一、在下列各题的四个选项中，只有一项是最符合题意的。每小题 2 分，共 48 分

1．2003 年 7 月 1 日，胡锦涛在“三个代表”重要思想理论研讨会上发表重要讲话。他强调，学习“三个代表”重要思想的根本出发点和落脚点是　（　）

A．发展先进文化　　B．实现社会主义现代化

C．最广大人民的根本利益　　D．解放和发展生产力

2．2003 年 9 月 20 日，是中央文明委确定的第一个“_____宣传日”。（　）

A．法制教育　　B．公民道德

C．环境卫生　　D．精神文明

3．2003 年 11 月 6～7 日，世界经济发展宣言大会在珠海召开，会后发表了以_____为主题的《世界经济发展宣言》，因发表地在珠海，故称《珠海宣言》。（　）

A．“平等、团结、互助、合作”　　B．“平等、诚信、合作、发展”

C．“平等、合作、诚信、共赢”　　D．“团结、合作、互惠、互利”

4．2003 年 11 月 15 日我国科学家宣布：我国率先完成_____基因组“框架图”绘制工作，这是我国科学家继完成人类基因组 1%测序工作、水稻基因组图谱之后的第三大基因组研究成果。（　）

A．果子狸　　B．蚂蚁

C．老鼠　　D．家蚕

5．《中共中央国务院关于进一步加强人才工作的决定》于 2003 年年底出台。《决定》指出，人才问题是关系_____的关键问题，新世纪新阶段人才工作的根本任务是_____。（　）

A．党和国家事业发展　以经济建设为中心

B．全面建设小康社会　实施人才强国战略

C．党和国家事业发展　实施人才强国战略

D．建设中国特色社会主义　实施科教兴国战略

6．2004 年 1 月 6 日，国务院正式宣布将 450 亿美元的外汇储备注资_____，两家银行各获得 225 亿美元。注资完成后，两家银行将开展股份制改造，上市也将迈出实质性步伐。（　）

A．中国人民银行和中国银行　　B．中国银行和中国农业银行

C．中国银行和中国建设银行　　D．中国建设银行和中国农业银行

7．2004 年 3 月 14 日，第十届全国人民代表大会第二次会议通过了《中华人民共和国宪法修正案》，这是对我国现行宪法的第_____次修改。按照修改后的《中华人民共和国宪法》，我国地方各级人民代表大会每届任期为_____年。（　）

A．三　三　　B．五　三

C．三　五　　D．四　五

8．最近，胡锦涛同志多次强调各级领导干部必须坚持立党为公、执政为民，牢固树立正确的政绩观，并强调要把树立正确的政绩观作为新时期党的建设新的伟大工程的重要内容。树立正确的政绩观

①是实践“三个代表”重要思想的本质要求　②是坚持党的宗旨的内在要求　③是实现加快发展，全面建设小康社会宏伟目标的迫切要求　④是转变作风、端正党风、密切联系群众和巩固党的执政地位的必然要求　（　）

A．①②　　B．③④

C．①②③　　D．①②③④

9．2003 年 11 月 28 日，国务院台湾事务办公室发言人表示：我们严重关切台湾地区“公投立法”的有关情况，坚持反对任何人借“公投立法”进行“台独”分裂活动。这是因为

①我们坚决捍卫国家的主权和领土完整　②国家主权和领土完整必须依靠和平方式来维护　③中国是一个主权国家，在国际上代表中国的只能是中华人民共和国　④“台独”分子搞任何形式的分裂活动，都违背了中华民族的根本利益　（　）

A．①②③④　　B．①②③

C．①③④　　D．②③④

10．“苹果是感觉的集合。”这一哲学命题是　（　）

A．正确的，它表明意识是物质的反映

B．正确的，它表明意识对物质有能动作用

C．错误的，它否认了意识对物质有反作用

D．错误的，它否认了物质是不依赖于人的意识的客观存在

11．2003 年 4 月 15 日，中、美、英、日、德、法 6 国政府首脑联合宣布，6 国科学家完成了人类基因组 30 亿对碱基的测序，从而揭示了人类生命“天书”的奥秘。这表明　（　）

A．事物的本质和规律是可以认识和改变的

B．意识具有能动作用

C．规律的存在是客观的、无条件的

D．人类已完成了对人自身的认识

12．人类基因组 30 亿对碱基的测序工作的顺利完成是 6 国科学家合作的结果。这表明　（　）

A．实践是主观见之于客观的活动　　B．实践是客观的物质性的活动

C．实践具有社会性的特征　　D．认识对实践具有指导作用

13．认真观看下列两幅图片后，将试卷沿水平方向旋转 90 度后再进行观看，这时可以看到与刚才不同的结果。这给我们的哲学启示是　（　）



A．任何事物都是发展的，必须坚持用发展的观点看问题

B．要善于区分不同事物的不同性质，坚持具体问题具体分析

C．意识对客观事物的反映受到多种因素的制约

D．任何事物都有优点和缺点，必须坚持全面的观点看问题

黑格尔说：“第一个把美女比作鲜花的是天才，第二个重复这一比喻的是庸才，第三个重复这一比喻的是蠢才”。据此回答 14、15 题。

14．黑格尔这句话体现的哲理是　（　）

A．要坚持从实际出发　　B．要坚持联系的观点

C．要坚持发展的观点　　D．要坚持适度原则

15．黑格尔这句话启示我们　（　）

A．要培养创新精神　　B．要注意区分不同事物的不同矛盾

C．要把握事物之间的因果联系　　D．要注重量的积累

16．为把 2008 年奥运会真正办成“绿色奥运”，北京的措施之一是将废水处理作为再生水回用。“废水不废”，体现的唯物辩证法观点是　（　）

A．科学理论对实践有重大指导作用

B．事物是一分为二的，矛盾双方在一定条件下可以转化

C．改造世界要正确发挥人的主观能动性

D．内因是事物发展的根据

17．愚公移山、卧薪尝胆、凿壁借光的故事，“宝剑锋从磨砺出，梅花香自苦寒来”、“业精于勤，荒于嬉；行成于思，毁于随”的格言警句，共同表明　（　）

A．中华民族是富有理想传统的民族

B．理想是人生的奋斗目标和精神支柱

C．理想的实现需要特定的社会历史条件

D．理想转化为现实特别需要艰苦奋斗的精神

18．近年来，全国各主要旅游区游客不断大幅增加，旅游消费逐渐成为消费热点。下列对旅游消费说法中正确的是

①旅游消费属于生存资料消费　②旅游消费属于享受性消费　③旅游消费属于劳务消费　④旅游消费在一定程度上扩大了内需，刺激了经济增长　（　）

A．①②③　　B．②③④

C．①③④　　D．①②④

2004 年 3 月 15 日，由国家质检总局、国家发改委、商务部和海关总署共同制定的《缺陷汽车产品召回管理规定》正式发布，该《规定》将于今年 10 月 1 日起开始实施。缺陷汽车召回是指按照规定程序，由缺陷汽车产品制造商（包括进口商），采用修理、更换、收回等方式消除其产品可能引起人身伤害、财产损失的缺陷的过程。据此回答 19、20 题

19．《缺陷汽车产品召回管理规定》的制定和实施体现了　（　）

A．行政手段已成为国家对经济进行宏观调控的主要手段

B．国家综合运用法律、行政手段对经济进行宏观调控

C．市场经济条件下要充分发挥宏观调控对资源配置的基础性作用

D．企业的信誉和形象决定其经济效益的高低

20．从商品的基本属性角度分析，缺陷汽车产品召回表明　（　）

A．商品的交换价值是由价值决定的

B．商品的价值决定价格

C．商品的使用价值是价值的物质承担者

D．商品的价格受供求关系影响

21．有专家研究指出，GDP 人均在 300 至 500 美元之间，信用被视为可有可无；人均在 500 至 1000 美元之间，信用往往被大肆破坏；人均在 1000 至 5000 美元之间是信用重组阶段；人均超过 5000 美元以后，信用便进入良性循环。专家要表明的观点是　（　）

A．信用的暂时被破坏具有必然性，不可避免

B．必须先破坏，然后再建设信用系统

C．信用建设和经济发展相互影响、相互促进

D．没有经济发展，就没有信用

22．近年来，钟点工市场逐渐兴起，如大连的“好阿姨”家政服务已走出大连，面向多个城市。城镇居民的家务劳动逐步走向社会化表明　（　）

A．个体劳动已成为社会发展的趋势　B．居民生存消费的比重增大

C．居民商品性消费的比重加大　　D．第三产业的服务水平不断提高

23．改革开放以来，我国个体私营经济在国民经济中所占比重不断增大。2000 年，个体私营经济纳税 1177 亿元，占全国工商税收的 9.3%，创造的国内生产总值已占全部国内生产总值的 30%（东部沿海省市更高达 60%以上）。1992 年到 2001 年，个体、私营经济新增就业人员 4774 万人，2000 年全国 360 万再就业的下岗职

工中，有250万人在个体、私营企业就业。这表明
①个体私营经济的性质已具有明显的公有性 ②个体私营经济已成为扩大就业和再就业的重要渠道 ③个体私营经济已成为社会主义市场经济的重要组成部分 ④必须毫不动摇地鼓励、支持和引导个体私营经济的发展 （ ）

A．①②③④ B．①②③
C．①③④ D．②③④

24．有关统计显示，近几年我国居民储蓄的增长速度一直高于经济增长速度和居民收入增长速度。我国居民储蓄过快增长，可能会 （ ）

A．弱化消费对于经济增长的拉动作用
B．导致居民消费持续下降
C．不利于国家扩大投资规模
D．促使我国经济快速发展

二、在下列各题的四个选项中，至少有一项是符合题意的。错选、多选，该题不给分，少选且正确的给1分。每小题3分，共27分

25．电子政务是指政府机构利用网络信息平台与社会各界进行信息共享，为公众提供更快捷更方便的服务，公众可以通过政府门户网站进行咨询、网上办事、发表意见。电子政务的推行有利于 （ ）

A．提高政府工作效率 B．发展社会主义民主
C．建成透明、公正的政府运行模式 D．消除贫富差距和一切文化差别

26．2003年8月10日，内蒙古根河市委、市政府在广泛征求猎民意见的基础上，对经济落后、生活水平很低的我国最后一个狩猎民族——鄂温克族猎民实施整体搬迁。在搬迁过程中，充分尊重和保留了该民族的文化传统和宗教信仰。该市市委、市政府的做法表明我国 （ ）

A．坚持民族平等、民族团结和各民族共同繁荣的原则
B．实行民族区域自治制度
C．实行宗教信仰自由政策
D．保护一切宗教活动

27．2003年6月20日，国务院总理温家宝签署国务院第381号令，公布施行《城市生活无着的流浪乞讨人员救助管理办法》，并宣布自2003年8月1日起正式施行。同日起，1982年5月国务院发布的《城市流浪乞讨人员收容遣送办法》被废止，各地“收容遣送站”悉数更名为“救助管理站”。这表明 （ ）

A．政府具有社会公共服务的职能
B．乞讨作为一种职业已经合法化
C．我国国家机构坚持对人民负责原则
D．我国是一个讲人权的法治国家

28．鲁迅先生曾经说过，“有一回拿破仑过AIPS山，说‘我比AIPS山还要高’，这何等雄伟，然而不要忘记他后面跟着许多兵。”鲁迅先生的观点表明 （ ）

A．英雄造时势
B．时势造英雄
C．人民群众是历史的创造者
D．历史的发展是不以个人的意志为转移的

29．在《红楼梦》这部小说中，曹雪芹塑造了贾宝玉、林黛玉、薛宝钗等具有丰富个性的典型形象。而对于林黛玉这个人物，不同的人有着不同的认识，“一千个人心中有一千个林妹妹”。以上材料体现的哲学道理有 （ ）

A．矛盾具有特殊性
B．不同的人对同一事物不可能有共同的认识
C．认识是主体对客体的能动的反映
D．认识受主、客观因素影响

长三角包括上海、苏州、宁波等15个城市，它以占全国1%的土地和6%的人口，创造了18%的GDP。据此回答30、31题。

30．加快推进长三角经济一体化，必须打破由于行政区划造成的地方保护主义与传统经济，必须尽快确立相互融合的联动发展理念。这种做法 （ ）

A．是市场经济开放性的要求
B．是应对经济全球化挑战，提升整体综合实力和国际竞争力的现实选择
C．体现了市场经济的自发性和盲目性，不利于实现共同富裕
D．有利于实现资源的优化配置

31．加快推进长三角经济一体化，要以思想观念的融合为先导，遵循市场经济规律，努力实现市场相通、体制相融、资源共享、交通共连、人才互通、产业互补。这一要求体现了如下哲理 （ ）

A．改造社会必须以承认社会的客观性为前提
B．实践是有意识有目的的能动性活动
C．社会意识对社会存在有反作用
D．世界上任何两个事物都存在相互联系

32．为缩小我国同工业发达国家的差距，早日实现国民经济现代化，必须走新型工业化道路。下列做法中符合新型工业化道路发展要求的有 （ ）

A．提高劳动者素质，不断增加就业
B．提高资金投入产出率，优化资源配置，降低生产成本
C．减少资源占用与消耗，发展绿色产业、环保产业
D．大力推进国民经济和社会信息化，带动工业化在高起点上迅速发展

33．经济全球化进程加快是近年来世界经济形势的一大特点。下列对经济全球化的认识正确的是 （ ）

A．经济全球化趋势的出现是生产力发展的一种表现
B．经济全球化有利于生产要素在全球范围内的加速流动
C．经济全球化的最大受益者必然是广大发展中国家
D．经济全球化将有利于消除南北差距，缓解南北矛盾

第Ⅱ卷（非选择题 共75分）

三、简答题（本大题共2小题，每小题9分，共18分）

34．自1990年《行政诉讼法》正式施行以来，全国法院共受理了80多万件行政诉讼案件，几乎涉及所有行政管理领域，反映了政府部门的“不作为”和“乱作为”现象较为严重。为了规范政府行为，继2003年8月27日十届全国人大常委会第四次会议通过了《行政许可法》后，国务院又于2004年4月20日发布了《全面推进依法行政实施纲要》。

问题：运用所学政治常识知识，谈谈对依法行政的必要性和重要性的认识。

35．投资是拉动经济增长的“三驾马车”之一。据有关资料显示，我国2004年第一季度投资规模与2003年第四季度相比又有大幅增长，增幅达40%以上。国家有关部门指出，要采取措施制止这一增长势头。

问题：既然投资可以拉动经济增长，为什么又要制止投资大幅增长的势头？

四、辨析题（本大题共2小题，每小题11分，共22分。仅作判断不说明理由者不得分）

36．量变引起质变的哲学道理要求我们，在任何时候都必须坚持适度原则。

37．背景：今年群众最关心的热点问题是什么？据新华网的调查，反腐败问题以84%的得票率名列榜首。2004年2月17日，《中国共产党党内监督条例（试行）》正式颁发，这是我们党制度反腐，制度建党的一件大事，对防止和克服党内腐败现象必将起到重要作用。

辨题：杜绝腐败依赖于加强党内监督。

五、论述题（要求紧扣题意，综合运用所学知识，结合材料展开分析。本大题共2小题，共35分。第38题17分，第39题18分）

38．我国到2020年全面实现小康，2050年将基本实现现代化，我省则制定了“两个率先”的目标，总体构想是：到2010年左右，全省总体上全面建成小康社会；到2020年左右，全省总体上基本实现现代化。

我省的苏南、苏中、苏北三大区域经济发展不平衡，区域差距呈扩大趋势，苏南发展势头极好，而经济薄弱县几乎都在苏北地区。2002年，苏南人均GDP为3456美元，苏中为1360美元，苏北为924美元。针对这种情况，我省对苏南、苏中、苏北提出了不同的要求：2007年前苏南总体上全面建成小康社会；2012年前苏中总体上全面建成小康社会，苏南总体上基本实现现代化；2017年前苏北先于全国总体上全面建成小康社会，苏中部分地方基本实现现代化，苏南进一步提高现代化水平。

我省“两个率先”目标的提出和苏南、苏中、苏北三大区域目标的制定体现了哪些哲学道理？

39．材料一：我国农民人均收入构成情况（单位：元）

年份	种粮收入	乡镇企业收入	外出务工收入	其他收入
2002	410	688	1030	338
2003	400	718	1150	352

注：农民年收入仅够购买不断涨价的种子、肥料和燃料以及缴纳农业税款，而医药费和子女的学杂费等根本无法解决。（材料数据为对我国农村部分地区抽样调查结果。）

材料二：我国城乡居民人均收入增长情况（单位：元）

年份	城镇	农村	城乡人均收入差距比
2002	7703	2476	3.1∶1
2003	8396	2622	3.2∶1

注：城乡收入差距比的国际公认警戒线为3.0∶1。

材料三：“三农”问题是今年十届全国人大二次会议上代表们所关注和议论的焦点问题之一。2004年《政府工作报告》指出，从今年起，逐步降低农业税税率，平均每年降低1个百分点以上，五年内取消农业税。今年国家从粮食风险基金中拿出100亿元直接补贴种粮农民，以调动农民种粮的积极性。加强农业生产资料价格监管，保护农民利益。

（1）材料一、二共同反映了什么经济问题？
（2）联系材料三，说明国家为什么要重视这一问题的解决？
（3）结合材料谈谈如何解决这一问题？

需要全本请访问 www.ertongbook.com

江苏省盐城市高三第三次调研考试

6A

政　　治

本卷分为第Ⅰ卷（选择题）和第Ⅱ卷（非选择题）两部分，满分150分。考试时间120分钟。

第Ⅰ卷（选择题　共75分）

一、在下列各题的四个选项中，只有一项是最符合题意的。每小题2分，共48分

1．2003年8月3日，第29届奥运会会徽发布仪式在北京天坛祈年殿隆重举行，北京奥运会会徽是（　）

A．中国印·舞动的北京　　B．中国印·古老的天坛

C．中国印·奔腾的黄河　　D．中国印·蜿蜒的长城

2．完善社会主义市场经济体制必须坚持完善公有制为主体，多种所有制经济共同发展的基本经济制度。所有制的核心和主要内容是（　）

A．公有制　　B．产权

C．以人为本　　D．分配制度

3．中央经济工作会议指出，2004年应坚持扩大内需的方针，继续实施积极的财政政策和稳健的货币政策，下列体现积极的财政政策的是（　）

A．深化国企改革，完善各种配套改革

B．增加对企业技术改造和农业结构调整的信贷支持

C．大力调整农业结构，千方百计增加农民收入

D．发行长期建设国债，保持必要的投资拉动力度

4．中共十六届三中全会通过了《关于完善_____若干问题的决定》。（　）

A．城乡经济结构　　B．就业和社会保障制度

C．社会主义市场经济体制　　D．社会主义文化体制

5．2003年江苏省经济持续快速增长，全省实现生产总值12451.8亿元，比上年增长13.5%；人均生产总值突破_____美元，上了一个新台阶。（　）

A．1000　　B．2000

C．1500　　D．2500

6．2004年1月美国“勇气”号和“机遇”号探测车先后成功登陆_____，经过探测，证明了_____的存在。（　）

A．月球　水　　B．火星　水

C．月球　反物质　　D．火星　反物质

7．2004年2月25日至28日，举世瞩目的中、朝、美、俄、韩、日六方会谈在北京举行，本次会谈在和平解决_____迈出了重要一步（　）

A．朝韩关系　　B．朝核问题

C．美朝关系　　D．能源问题

8．2004年3月20日，陈水扁及台湾当局煽动旨在分裂中国的“公投”，因投票人数不足半数，宣告失败，这主要是因为（　）

A．美国不支持台湾公投

B．世界各国都接受一个中国的原则

C．违背了和平共处五项原则

D．违背了包括台湾人民在内的全体中国人民的根本利益

9．划分民主共和制和君主立宪制的标准是（　）

A．中央和地方的关系　　B．立法机关和行政机关的关系

C．国家元首的产生方式和任期　　D．国家元首是否有实权

10．胡锦涛同志指出，发展先进生产力和先进文化是实现最广大人民的根本利益的基础和前提，实现最广大人民根本的利益则是发展先进生产力和先进文化的目的和归宿。这表明“三个代表”重要思想的本质是（　）

A．发展生产力　　B．以经济建设为中心

C．立党为公、执政为民　　D．经济、政治、文化协调发展

11．为解决我国部分社会成员收入差距过分扩大的问题，要扩大中等收入者比重，提高低收入者收入水平，调节过高收入，取缔非法收入。这主要体现了（　）

A．按劳分配的原则　　B．全面建设小康社会的根本目标

C．效率优先的原则　　D．以实现共同富裕为根本目标

12．中印两国在信息技术领域的合作有很强的互补性，印度是世界软件大国，中国则在硬件制造方面具有世界优势，正如印总理瓦杰帕伊所认为的“中印都是古老的文明古国，我们两个发展中国家应该成为信息技术领先的国家”。这种合作体现了（　）

A．生产社会化特别是经济全球化的要求

B．当代世界市场竞争激烈化

C．建立健全社会主义市场经济的要求

D．区域集团合作方式多样化

13．我国非公有制企业在融资、税收、土地使用和对外贸易等方面，与公有制企业享受同等待遇。这表明市场经济具有（　）

A．平等性　　B．竞争性

C．法制性　　D．开放性

14．存款储蓄和个人购买的保险、股票、债券，它们的共同点是（　）

A．都有稳定的收益　　B．都是集资手段

C．都是为了获得利息　　D．都是一种投资行为

15．近年来，浙江绍兴成立了“农民土地信托中心”，农民个人承包土地的使用权，在自愿的前提下，可以到中心来签约，以“土地入股分红”的形式，经营自己的土地使用权。成立“农民土地信托中心”是为了（　）

A．加快我国土地私有化进程　　B．解决农村剩余劳动力的出路问题

C．推进土地经营权流转　　D．壮大农村集体经济

16．股份有限公司与有限责任公司的区别在于（　）

A．是否通过发行股票筹集资本　　B．是否承担有限责任

C．是否是企业法人　　D．是否由法定数额的股东组成

17．荀子曰：“草木繁华滋硕之时，则斧斤不入山林，不夭其生，不绝其长也。”该观点表明，人类对自然物的利用和改造（　）

A．与人的实践活动水平、人的意识是密不可分的

B．是人具有主观能动性的表现

C．必须以自然物本身的属性与规律为基础和前提

D．是人类生存和发展的需要

18．美国以伊拉克拥有大规模杀伤性武器为由发动了对伊战争，但战争结束至今，美国也未找到伊拥有大规模杀伤性武器的确凿证据。这表明（　）

A．错误的思想不是对客观存在的反映

B．主观臆测不属于意识的能动性

C．意识对客观事物的反作用是消极的

D．从主观出发会产生错误的认识和行动

19．调整农业结构可以促进农村经济发展。这体现的哲学道理是（　）

A．现象和本质的关系　　B．计划与市场的关系

C．量变与质变的关系　　D．共性与个性的关系

“非典”肆虐，教训深刻。如何应对突发公共卫生事件，成为全社会共同关注的课题。据此回答20～22小题

20．国务院有关部门决定对受“非典”影响较大的餐饮、旅游、出租车等八大行业，实行减免行政事业性收费和15项政府性基金的政策。这一政策的出台说明（　）

A．市场经济健康发展需要国家的宏观调控

B．国家在资源配置中起基础性作用

C．国家重点保护关系国民经济命脉的行业

D．国有经济的主导地位主要体现在控制力上

21．面对肆虐的非典病毒，北京五中学生们通过广泛的社会调查，收集了十分详实的非典信息，在分类整理、分小组探讨的基础上，提出了防范的合理化建议。这一研究性学习的过程和方法表明

①想问题办事情必须坚持一切从实际出发　②实现认识的根本任务，必须充分发挥主观能动性　③分析与综合是科学的思维方法　④坚持调查研究是获得正确认识的惟一途径（　）

A．①②③　　B．①③④

C．①②④　　D．②③④

22．五中学生建议，人们要改变不良生活习惯，重视公共卫生，加强体育锻炼。这是因为（　）

A．实践是认识的重要来源

B．认识对实践有促进作用

C．新事物是在旧事物的基础上产生的

D．事物是普遍联系的

23．读右图漫画，这幅漫画启示我们（　）



A．要重视量的积累

B．具体问题具体分析是正确解决矛盾的关键

C．客观条件制约着主观能动性的发挥

D．必须从整体上把握事物的联系

24．一些城市为了公共工程建设，需要拆迁部分居民房屋。在拆迁过程中，一方面部分工作人员野蛮拆迁，损害居民利益；另一方面部分居民乘机漫天要价、阻挠拆迁。这表明（　）

A．个人利益必须服从集体利益

B．必须代表最广大人民群众的根本利益

C．既要反对极端个人主义，又要维护个人正当利益

D．个人利益和集体利益是一致的

二、在下列各题的四个选项中，至少有一项是符合题意的。错选、多选，该题不给分；少选且正确的给1分。每小题3分，共27分

25．2003年9月1日《法律援助条例》正式实施。我国建立法律援助制度的意义在于（　）

A．有利于法律面前人人平等原则的贯彻执行

B．有利于推进社会主义法治建设

C．标志着我国法律体系基本完善

D．标志着社会保障制度的建立和完善

26．中共中央颁布实施《中国共产党党内监督条例（试行）》，是从严治党的一项重大措施，是党内政治生活的一件大事。《条例》的颁布实施有利于（　）

A．推进党内监督工作规范化、制度化

B．提高党内监督水平，全面推进党的建设

C．发扬党内民主，防止个人专权

D．推进社会主义政治文明建设

27．我国某地一寺庙佛门弟子积极参加当地的架桥修路、捐资助学等活动，方丈还以 80 万元巨资买下了电视黄金时段前 15 秒公益广告权，宣传保护野生动物和禁止毒品。这说明在我国 （ ）

A．宗教的本质已发生变化　　B．宗教主要起着积极作用

C．宗教已成为独立自主自办的事业　D．宗教能够与社会主义社会相适应

28．我国在确定经济和社会发展战略时提出在本世纪必须实现三个“零增长”：2030 年人口规模“零增长”，2040 年能源消耗“零增长”，2050 年生态环境退化“零增长”。这是因为 （ ）

A．坚持两点论不能不讲重点论

B．事物是普遍联系的

C．实践是有意识有目的的能动性活动

D．发挥主观能动性必须以尊重客观规律为基础

29．我国的“神舟”飞船的发射成功，经历了“神舟”一、二、三、四、五号，经过从无人到载人的过程。这表明 （ ）

A．意识能正确反映客观事物

B．只要发挥主观能动性，就能正确认识和利用规律

C．量变是质变的前提和必要准备，质变是量变的必然结果

D．认识在实践中不断深化、扩展

30．对中国取得的成绩和存在的问题，温家宝总理有这样一个“乘除法”：“一个很小的问题，乘以 13 亿，都会变成一个大问题；一个很大的总量，除以 13 亿，都会变成一个小数目”。这段话体现的哲理是 （ ）

A．要善于用矛盾分析的方法分析问题

B．事物发展是内因与外因共同作用的结果

C．矛盾双方在一定条件下各向其相反方向转化

D．事物发展是前进性和曲折性的统一

31．“没有疲软的市场，只有疲软的企业；没有疲软的消费，只有疲软的商品。”这一说法对企业的启示是 （ ）

A．要重视产品的质量和品种，因为使用价值是价值的物质承担者

B．必须提高劳动生产率，因为只有提高劳动生产率才能增加商品数量

C．必须面向市场，因为商品生产者只有让渡出使用价值才能实现商品的价值

D．要改进技术、加强管理，因为这样才能增加商品的价值量

32．发挥国有经济的主导作用，主要体现在 （ ）

A．在关系国民经济命脉的重要领域和关键行业占支配地位

B．提高国有经济的整体质量和竞争力，引导和影响其他所有制经济的发展

C．国有资产在国民经济中占支配地位

D．使所有国有企业在国内外竞争中不断壮大

33．2003 年以来，美国不断对中国施压，要求人民币大幅度升值。我国政府顶住了外来压力，保持了人民币汇率的稳定。美国要求人民币升值的目的是 （ ）

A．扩大对中国产品的出口，提高其产品在中国市场上的竞争力

B．增强其对外投资能力，扩大对中国的直接投资

C．削弱中国产品的竞争力，遏制中国经济的发展

D．减少对中国的贸易逆差，保持国际收支平衡

第Ⅱ卷（非选择题　共 75 分）

三、简答题（本大题共 2 小题，每小题 9 分，共 18 分）

34．2003 年 10 月在东盟与中日韩领导人会议期间，温家宝总理向亚洲邻国全面介绍了我国致力于“睦邻、安邻、富邻”的周边外交政策考虑。睦邻，就是与周边国家和睦相处。安邻，就是积极维护本地区的和平与稳定。富邻，就是加强与邻国的互利合作，与亚洲各国实现共同发展。

我国“睦邻、安邻、富邻”的周边外交政策考虑体现了哪些政治常识道理？

35．十届全国人大二次会议对宪法进行了修改。其中完善了私有财产保护的规定：一是进一步明确了国家对全体公民的合法的私有财产都给予保护，保护的范围既包括生活资料，又包括生产资料。二是增加了对私有财产的征收、征用制度，规定国家为了公共利益的需要，可以依照法律规定对公民的私有财产实行征收或者征用并给予补偿。

简要分析我国完善私有财产保护规定的经济意义。

四、辨析题（本大题共 2 小题，每小题 11 分，共 22 分。仅作判断不说明理由者不得分）

36．没有取得成功的实践是毫无意义的。

37．为了贯彻实施《中华人民共和国行政许可法》，各级政府正在认真清理行政审批项目，一大批行政审批项目已经被取消。

辨题：行政审批项目越少，越有利于正确发挥政府的职能。

五、论述题（本大题共 2 小题，第 38 题 17 分，第 39 题 18 分，共 35 分）

38．苏州被誉为中国城市中的“赶超明星”、“全能选手”。GDP 位居全国城市第四位。今日姑苏，在经济飞速发展的同时，优秀的传统文化和现代文明和谐共存。在环境保护、科技进步、文化教育、社会治安、社区建设、群众体育等方面取得显著成绩，市区和县级市全部获得国家卫生城市、国家环保城市、全国创建文明城市工作先进市等称号。去年非典期间，全国许多地区经济发展都受到严重影响，而苏州由于公共卫生机制早已建立，经济却得到全面加速。对于苏州发展的原因，苏州市长认为：“社会是一个整体，农村与城市，经济与社会，经济增长与就业增长，物质与精神，人与自然，任何一方都不可偏废。协调发展的效果，日久自见辉煌。”

从哲学上看，苏州的发展给我们哪些启示？

39．材料一：我国农村居民人均纯收入情况表

年份	1998	1999	2000	2001	2002	2003
农村居民人均纯收入比上年增长（%）	4.3	3.8	2.1	4.2	4	4.3
城乡人均收入差距	2.51:1	—	—	2.92:1	3.1:1	3.2:1

材料二：2003 年我国经济发展状况

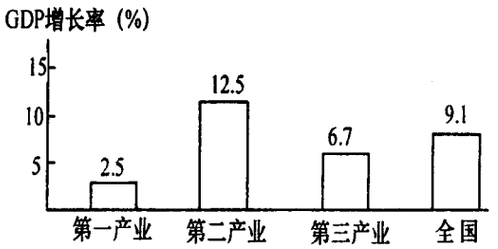

注：目前我国适合市场需求的优质粮食不足 20%，农产品加工业的产值低。

材料三：全国人均耕地变化表

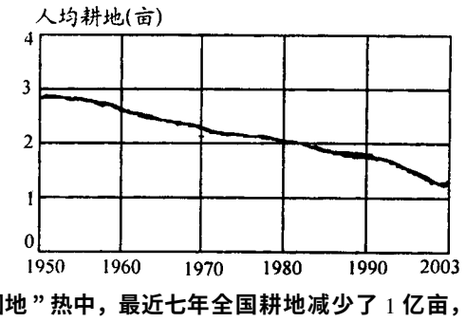

注：在“圈地”热中，最近七年全国耕地减少了 1 亿亩，同时土地利用强度加大，肥力衰退。

阅读上述材料，回答下列问题：

（1）材料一、材料二、材料三分别反映了什么经济现象？

（2）材料一和材料二、材料三有何内在联系？

（3）应如何解决上述材料所反映的问题？

江苏省盐城市高三第四次调研考试

7A

政　　治

本卷分为第Ⅰ卷（选择题）和第Ⅱ卷（非选择题）两部分，满分150分。考试时间120分钟。

第Ⅰ卷（选择题　共75分）

一、在下列各题的四个选项中，只有一项是最符合题意的。每小题2分，共48分

1．2003年9月18日，新华社播发了《中央精神文明建设指导委员会关于深入贯彻党的十六大精神，进一步加强公民道德建设的意见》。经党中央同意，中央精神文明建设指导委员会决定将9月20日定为____宣传日。（　）

A．公民道德　　B．法制

C．精神文明　　D．公共卫生

2．2003年5月25日我国发射的第三颗____导航定位卫星，在西安卫星测控中心的精确控制下，顺利进入地球同步轨道。（　）

A．北斗一号　　B．资源三号

C．探测一号　　D．创新三号

3．2003年10月8日，温家宝总理与东盟十国领导人签署____，双方宣布建立面向____的战略伙伴关系。这是中国首次和一个国家集团签署此类文件（　）

A．《东南亚友好合作条约》、互助与合作

B．《东南亚友好合作条约》、和平与繁荣

C．《中国——东盟自由贸易区条约》、竞争与协作

D．《中国——东盟自由贸易区条约》、联合与发展

4．“孙志刚事件”发生后，全社会对城市流浪乞讨人员问题进行了大讨论。2003年6月20日，国务院公布法规，改变原来的____为现在的____，这无疑是社会的一大进步。（　）

A．拘留查处、收容遣送　　B．拘留查处、救助管理

C．收容遣送、救助管理　　D．救助管理、收容遣送

5．2004年2月《中共中央国务院关于____》正式公布。这是时隔18年后中央再次把农业和农村问题作为中央“一号文件”下发。（　）

A．促进农业发展若干政策的意见

B．促进农民增加收入若干政策的意见

C．促进农村经济结构调整的若干政策

D．促进城镇化建设若干政策的意见

6．参加朝核问题六方会谈的国家中除了美国、中国、朝鲜外还有（　）

A．日本、英国、俄罗斯　　B．法国、英国、德国

C．韩国、日本、俄罗斯　　D．日本、法国、韩国

7．十六届三中全会认为，产权是所有制的核心和主要内容。要建立____的现代产权制度。（　）

A．权责明确、归属清晰、保护严格、政企分开

B．归属清晰、自主经营、有序高效、流转顺畅

C．自主经营、有序高效、保护严格、政企分开

D．归属清晰、权责明确、保护严格、流转顺畅

8．建立健全现代产权制度，有利于

①维护公有财产权，巩固公有制经济的主体地位　②保护私有财产权，促进非公有制经济的发展　③各类资本的流动与重组，推动混合所有制经济的发展　④防范、化解金融风险，保障经济安全（　）

A．①③　　B．②④

C．①②③　　D．①②③④

9．陈水扁不顾海内外强烈反对而执意推动的所谓“3·20公投”，因投票人数不足半数而宣告失败。对此看法正确的有

①“公投”的实质是制造“两个中国”　②台湾的前途和命运可以由台湾人民“公投”决定　③“公投”违背了台湾人民的根本利益　④“公投”是借民主之名，行台独之实

A．②　　B．①③④

C．①②③　　D．①②③④

10．宋之鄙人得璞玉而献之子罕，子罕不受，鄙人曰：“此宝也，宜为君子器，不宜为细人用。”子罕曰：“尔以宝为宝，我以不受子玉为宝。”这段话主要表明（　）

A．任何事物都有两重性　　B．事物之间是普遍联系的

C．不同的人有不同的价值观　　D．人生的价值在于奉献不在于索取

11．“感时花溅泪，恨别鸟惊心。”在文学中，这种拟人写法反映的哲理是（　）

A．物质不能脱离意识而存在

B．物质的具体形态是可以改变的

C．意识对物质具有能动的反作用

D．意识对客观事物的反映具有多样性

12．在感性认识和理性认识的关系上，下列说法既唯物又辩证的是（　）

A．理性认识依赖于感性认识，感性认识有待于上升到理性认识

B．感性认识是理性认识的来源，理性认识是感性认识的深化发展

C．感性认识是对事物现象的片面认识，理性认识是对事物本质的正确认识

D．理性认识是感性认识的基础，并反作用于感性认识

13．人既是发展的受益者，也是发展的决定性力量。要加快发展，必须提高人的素质。因为（　）

A．事物的发展是受人支配的

B．活动目的对事物的发展具有决定性影响

C．人的素质对实践发展有重要影响

D．实践的主体、手段和对象都具有客观性

14．“按图索骥”这一成语给我们的哲学启示是（　）

A．要继承前人经验，不能割断历史

B．要从实际出发，不能迷信书本

C．要发挥主观能动性，不能消极等待

D．要重视实践，不能思想僵化

学习贯彻“三个代表”重要思想，既要对事又要对人。据此回答15、16题

15．对事，就是要用“三个代表”重要思想来指导工作，推动社会发展。这表明（　）

A．实践是有目的、有意识的能动性活动

B．实践是客观的物质性活动

C．实践决定认识

D．认识对实践具有推动作用

16．对人，就是要用“三个代表”重要思想来武装头脑，指导自我修养。这表明（　）

A．我国公民的价值观是一致的

B．改造主观世界必须树立科学价值观

C．世界观决定人生观，人生观体现世界观

D．“三个代表”是判断价值观正确与否的普遍标准

17．十六届三中全会指出，实现投资主体多元化，使股份制成为公有制的主要实现形式。其主要目的在于（　）

A．开辟新的融资渠道，广泛筹集资金

B．推动产业结构的优化升级

C．实现规模经济，推进企业集团化

D．转换经营机制，增强公有制经济的活力

18．虽然我国耕地面积逐年减少，但国家仍在大力实施退耕还林还草，这主要是为了（　）

A．加快中西部地区的发展

B．促进农业经济的快速发展

C．改善生态环境，促进经济和社会的可持续发展

D．改善投资环境，进一步扩大对外开放

19．要让科技真正进村入户，就得把农民和科技人员“绑”在一起，使农民的利益和科技人员的利益统一起来。这种捆绑不是生拉硬扯，而是要建立一种符合市场原则的激励机制。这里所说的“统一”，从经济学上看就是（　）

A．按土地分配与按生产要素分配的相结合

B．按劳分配与按技术要素分配的统一

C．按信息要素分配与按技术要素分配相结合

D．按资分配与按劳分配的统一

20．在完善社会主义市场经济体制过程中，国家之所以高度重视社会保障体系建设，是因为（　）

A．这是现代市场经济的核心

B．我国下岗失业人员过多

C．这是全面提高人民生活水平的需要

D．这是实现经济社会和谐发展的要求

21．2008年奥运会徽是“中国印·舞动的北京”。奥运会徽一经问世，立即受到众商家的追捧。奥运会徽之所以被众商家看好，是因为（　）

A．奥运会徽有价值，能提高商品的价格

B．使用了奥运会徽，就能提高产品的竞争力

C．使用了奥运会徽，企业就有良好的信誉和形象

D．在商品、服务市场上，消费者易受广告促销的影响

22．从2003年9月1日起，我国对在中国境内注册的所有内资企业在进出口经营资格管理方面实行统一政策，都享有进出口经营权。这表明（　）

A．企业必须积极转变经济增长方式

B．企业可以在更大范围内配置资源

C．企业可以成为市场经济的主体

D．企业必须提高国际竞争力

存款准备金是指金融机构为保证客户提取存款和资金清算需要而准备的在中央银行的存款，中央银行要求的存款准备金占其吸收存款总额的比例就叫存款准备金率。据此回答23、24题

23．经国务院批准，中国人民银行决定从2003年9月21日起，提高存款准备金率一个百分点。央行的这一措施

①会影响贷款的投放量　②有利于我国经济的健康发展　③会减少货币的供应量　④有利于存款利率的市场化（　）

A．①③④　　B．①②③

C．②③④　　D．①②④

24．由上述存款准备金定义，可以看出中国人民银行是（　）

A．制定和实施货币政策的国家机关

B．以盈利为目的的企业法人

C．监督管理银行的金融机构

D．为大型项目和大宗进出口贸易提供贷款的银行

二、在下列各题的四个选项中，至少有一项是符合题意的。错选、多选，该题不给分；少选且正确的给 1 分。每小题 3 分，共 27 分

25．党的十六届三中全会上，胡锦涛总书记代表中央政治局向中央委员会报告工作。这一做法有利于 （ ）

A．建立和健全党内民主制度，保证党的重大决策的科学化和民主化

B．加强党的自身建设，提高党的执政能力和执政水平

C．推进政治文明建设，发挥党内民主对人民民主的示范带动作用

D．使民主集中制成为党的根本组织制度和领导制度

26．我国之所以保护正常的宗教活动，是因为 （ ）

A．我国实行宗教信仰自由政策

B．正常的宗教活动有系统化的理论指导

C．正常的宗教活动有利于民族团结和国家统一

D．正常的宗教活动是在法律范围内进行的

27．2003 年 3 月 20 日，美英联军在未经联合国安理会授权的情况下向伊拉克发起军事行动，40 天后占领了伊拉克全境。但在伊拉克战后重建和游击战的双重压力下，美英又不得不借助联合国多边框架，提出了提前向伊拉克方面交权的时间表。这表明 （ ）

A．美国政府开始放弃单边主义政策

B．世界总体形势趋向缓和

C．联合国在维护世界和平方面有着不可替代的作用

D．多极化的国际格局已经形成

28．在某种程度上可以说，一个国家的劳动者技能水平代表着这个国家的技术实力，甚至生产水平，这是因为 （ ）

A．劳动者职业技能的高低决定国家的综合国力

B．劳动者职业技能的高低是生产力水平的标志

C．劳动者职业技能的高低直接决定着产品质量的好坏

D．劳动者的技术素质是劳动者整体素质的重要组成部分

29．十六大提出，要保护一切合法的劳动收入和一切合法的非劳动收入。下列属于合法的非劳动收入的有 （ ）

A．个体劳动者的收入　　B．利息收入

C．私营企业主的税后收入　　D．外资企业中工人的工资收入

30．中央提出坚持“引进来”与“走出去”相结合。实施“走出去”战略包括 （ ）

A．积极开拓国际市场，扩大出口　　B．鼓励国内企业在国外建立生产基地

C．引进国外高新技术产业　　D．实施劳务出口，开拓国际劳务市场

31．这幅漫画的哲学寓意是 （ ）

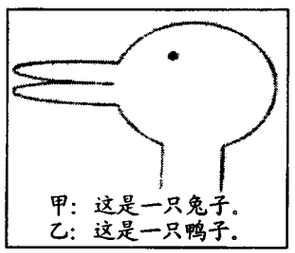

A．人的认识具有能动性

B．人的认识受主体的影响

C．认识受具体时空的制约

D．人的认识结果是由认识的主体决定的

32．离开既定的条件创新，是盲目而没有根基的；离开创新讲条件，则会捆住自己的手脚，迈不开发展的步子。这就要求我们 （ ）

A．把正视客观条件和发挥主观能动性结合起来

B．既要承认物质的决定作用，又要承认意识的能动作用

C．把解放思想和实事求是统一起来

D．既要把握联系的客观性，又要坚持发展的永恒性

33．当前，农民的土地承包经营权益在一些地方仍然不断受到侵害，主要表现为：随意缩短承包期、收回承包地和提高承包费；随意调整承包地，多留机动地；不尊重农民的生产经营自主权，强迫种植、强迫流转承包地等。上述事实蕴含的哲理是 （ ）

A．现象是个别的东西，本质是同类现象中一般的东西

B．现象是多变的，本质是相对稳定的

C．现象是主观的，本质是客观的

D．本质存在于现象中，并通过现象表现出来

第Ⅱ卷（非选择题　共 75 分）

三、简答题（本大题共 2 小题，每小题 9 分，共 18 分）

34．2004 年 3 月底，教育部根据社会发展的变化，公布了新的中、小学生守则和规范。考虑到中小学生的生活、学习环境较相似，对学生行为要求在方向上具有一致性，新守则将原《小学生守则》和《中学生守则》合二为一，这有利于坚持中小学教育的一致性和连续性。在新规范中，对中小学生都提出了“珍爱生命”的要求，对小学生提出“注意安全、防火，不做有危险的游戏”等具体要求，对中学生提出“不吸烟、不滥用药物，拒绝毒品”的具体要求。

简析上述材料中所体现的辩证法道理。

35．2003 年底，国家发改委明确宣布：中国电解铝工业生产能力过剩，面对如此的警告，有些地方政府却视而不见，依然在大干快上，争创业绩。面对国内三大汽车生产基地不断扩大，很多地方还在将汽车工业作为当地的支柱产业，大上“汽车城”项目。

运用所学经济学知识谈谈你对上述材料中存在问题的认识。

四、辨析题（本大题共 2 小题，每小题 11 分，共 22 分。仅作判断不说明理由者不得分）

36．建设社会主义政治文明就是尊重和保障人权。

37．在 2003 年 5 月召开的中央政治局会议和 12 月召开的全国人才工作会议上，中央站在推进改革开放和社会主义现代化的战略高度，作出了“人才是第一资源”的科学判断，提出了“人才强国战略”和“党管人才”的原则。

辨题：党管人才必须尊重人才成长规律，发挥党在人才资源配置中的基础作用。

五、论述题（本大题共 2 小题，第 38 题 17 分，第 39 小题 18 分，共 35 分）

38．2003 年下半年以来，我国粮食价格持续上涨，并带动食用油、肉、蛋等价格的全面上涨，这是我国 1997 年以来的第一次，引起社会各方面的关注。某班同学准备围绕这一经济现象开展研究性学习活动。请你为他们的研究活动提出建议：

（1）要探究粮食价格上涨的原因，你认为应该从哪些方面入手？请从经济学上简要说明理由。

（2）你准备采用什么方法进行研究？请简要说明其哲学依据。

39．

表一：2003 年东北地区三大产业的产值在 GDP 中的比重与全国比较（单位：%）

	第一产业	第二产业	第三产业
东北地区	18.8	56.7	24.5
全国	15.3	51.1	33.6

注：东北地区的工业以资源依赖性较强的传统重工业为主。近年来，东北地区出现了部分资源枯竭的现象。

表二：东北地区工业总产值构成状况与全国比较（单位：%）

	国有工业	城镇集体工业	私营个体工业	外资及其他工业
东北	62	29	7	2
全国	27	42	14	17

注：东北地区国有工业产值几乎在所有工业门类中都占很大比重。国有工业以国有独资企业为主，少量的国有控股企业中，也是国有股一股独大。

表三：东北地区工业产值在全国所占比重变化情况

	占全国比重（%）		在全国的位次	
	1978 年	2003 年	1978 年	2003 年
辽宁	8.86	5.61	2	5
吉林	2.56	1.43	15	18
黑龙江	4.99	2.26	7	14

1．表一、表二、表三分别反映了什么经济现象？

2．表一、表二与表三之间有什么经济联系？

3．结合上述材料，谈谈如何振兴东北老工业基地。

江苏省苏州市高三教学调研测试

8A

政　　治

本试卷分第Ⅰ卷（选择题）和第Ⅱ卷（非选择题）两部分，共150分。考试时间120分钟。

第Ⅰ卷（选择题　共75分）

一、在下列各题的四个选项中，只有一项是最符合题意的。每小题2分，共48分

1．十六届三中全会通过的《中共中央关于完善社会主义市场经济体制若干问题的决定》指出，建立归属清晰、权责明确、保护严格、流转顺畅的_____，是完善基本经济制度的内在要求，是构建现代企业制度的重要基础。（　）

A．社会信用制度　　B．股份制度

C．行政审批制度　　D．现代产权制度

2．2003年11月25日，中共中央政治局召开会议，分析当前经济形势，研究2004年经济工作，讨论进一步加强_____工作，实施_____战略问题。（　）

A．人才　人才强国　　B．环境　可持续发展

C．扶贫　西部大开发　　D．教育　科教兴国

3．2003年12月9日，联合国在墨西哥梅里达市召开为期3天的高级特别政治会议，会议公布了《联合国_____公约》，决定将每年的12月9日定为“联合国_____日”。（　）

A．反腐败　反腐败　　B．反战争　反战争

C．反恐怖　反恐怖　　D．反邪教　反邪教

4．2004年1月26日～2月4日，中国国家主席胡锦涛先后对_____、_____、加蓬、阿尔及利亚欧非四国进行了国事访问，取得圆满成功。（　）

A．英国　西班牙　　B．德国　瑞士

C．法国　埃及　　D．俄罗斯　摩洛哥

5．2004年2月20日，中共中央，国务院在北京隆重举行国家科学技术奖励大会。中国科学院院士刘东生、中国工程院院士王永志荣获2003年度国家（　）

A．科学技术进步奖特等奖　　B．最高科学技术奖

C．自然科学奖一等奖　　D．自然科学奖最高奖

6．2003年8月3日，第29届奥运会会徽发布仪式在北京天坛祈年殿举行。被确定为2008年奥运会会徽的是（　）



A.　B.　C.　D.

7．2003年10月15日，我国自行研制的_____载人飞船，在酒泉卫星发射中心升空后，准确进入预定轨道，中国首位宇航员杨利伟被胜利送上太空。这意味着中国已成为世界上第_____个能够独立开展载人航天活动的国家。（　）

A．“神舟”五号　三　　B．“神舟”五号　四

C．“神舟”六号　三　　D．“神舟”六号　四

8．据有关部门的调查统计，我国制假经济的规模曾高达数千亿元。央视《每周质量报道》所曝光的劣质食品、药品等制假售假严重程度令人不寒而栗。在市场经济中的制假售假的现象说明市场调节具有_____的缺陷。（　）

A．竞争性　　B．自发性　　C．开放性　　D．滞后性

2003年10月24日，3架英国航空的“协和”飞机在伦敦希思罗机场降落，从而结束“协和”飞机27年的服役生涯。由于该飞机的维护费用昂贵，票价过高吸引不到足够的旅客，因此无法在当今航空市场上竞争。据此回答9、10题。

9．“协和”客机退出商业飞行，从根本上说（　）

A．是由供求关系决定的　　B．是违背市场规律的行为

C．是价值规律作用的结果　　D．是国家宏观调控的体现

10．上述材料给我们的启示是（　）

A．企业必须面向市场组织生产和经营　　B．企业必须发展高新技术

C．企业必须加强经营管理　　D．企业必须树立良好的信誉

11．在电视机行业中，某企业率先改进技术，改善生产条件，加强经营管理，提高劳动生产率，从而在单位时间内生产的电视机数量增多，这意味着（　）

A．该企业生产的单位商品价值量变小，但其价值总量不变

B．该企业生产的单位商品价值量变大，但其价值总量不变

C．该企业生产的单位商品价值量不变，但其价值总量增加

D．该企业生产的单位商品价值量不变，价值总量也不变

12．北京2008奥运会市场开发计划，于2003年9月1日在北京正式启动。企业通过积极参与奥运会市场开发，充分享受奥运会品牌带来的广泛效益和回报，并通过奥运会这个平台创立名牌，迅速走向世界市场。从材料中可以看出，企业一切经济活动的根本出发点是（　）

A．扩大企业规模　　B．提高企业产品质量

C．提高企业经济效益　　D．提高企业劳动生产率

13．按平均一人花2000元学费计算，每年我国驾驶培训市场就有300亿元之巨，这充分显示了我国驾驶培训市场的巨大潜力。这启示我们（　）

A．市场经济具有盲目性，必须加强政府的宏观调控

B．国家应当尊重公民个人的生活消费自主权

C．在满足物质消费的同时，还要注意精神消费

D．消费是生产的动力，要善于发现和培育新的消费热点

全国劳动模范，山西省长治市平顺县西沟村农民申纪兰是惟一连任十届的全国人大代表。她说：“人民代表，就是要理直气壮地代表人民利益，代表人民说话，代表人民办事，这就是中国的民主。”据此回答14、15题。

14．十届全国人大代表申纪兰的这段话主要表明（　）

A．我国实行人民代表大会制度　　B．人民代表要对人民负责

C．社会主义民主的广泛性　　D．人民代表直接行使国家权力

15．从人生观和价值观角度看，申纪兰的话体现了（　）

A．社会存在决定社会意识

B．个人利益与集体利益的辩证统一关系

C．人民群众是实践的主体

D．在改造客观世界的同时改造主观世界

16．实践是客观的物质性的活动，是有意识、有目的的能动性的活动，是社会性历史性的活动。下列说法中正确体现三者关系的是

①实践的主体、手段、对象都是客观的　②任何有意识、有目的能动性的活动都必须尊重一定历史时期的客观条件　③任何实践活动都是在一定的社会关系中进行的　④任何客观的物质性的活动都离不开人的能动性，并随着各种条件的变化而变化（　）

A．①③　　B．②④　　C．①④　　D．②

17．唐代诗人白居易的《大林寺桃花》诗曰：“人间四月芳菲尽，山寺桃花始盛开。”地理科学的高山气温垂直分布规律理论科学地揭示了造成这一现象的原因。这表明（　）

A．矛盾分析法是认识事物的根本方法

B．事物在发展过程中必然会形成不同的发展阶段

C．正确的认识对实践有指导作用

D．质变是量变的必然结果

18．“世人闻秋悲寂寥，我道秋日胜春朝。晴空一鹤排云上，直领诗情到碧霄。”这首诗反映出的哲理是（　）

A．意识对客观事物的反映受到多种因素的制约

B．必须具体分析事物之间的联系

C．实践对认识具有决定作用，认识对实践具有反作用

D．个人活动与社会发展相互制约、相互作用

19．近年来，台湾当局多次声称，要用“公民投票”方式决定“台湾前途、命运和现状”，并宣称“公民投票最符合基本人权与民主”。实际上是企图在人权、民主、自决的烟幕下，通过“公民投票”的形式来表达法律上“台独”的目的。上述分析符合的哲理是（　）

A．充分发挥主观能动性，认识世界和改造世界

B．真象表现本质，假象不表现本质

C．理性认识依赖于感性认识，感性认识有待于发展到理性认识

D．现象是本质的表现，本质表现为现象

国家统计局对2002年农民收入情况的抽样调查结果

	人均纯收入	农业生产经营收入	第二、三产业生产经营的收入	外出务工收入	人均税收负担
收入	2476元	1135元	351.5元	438.5元	78.7元
同比增长率	4.8%	0.8%	5.5%	11.6%	下降13.7%

注：2002年城镇居民人均可支配收入7703元，同比增长率12.3%。

阅读分析上表，回答20、21题。

20．上表（含注）直接反映以下哪些问题

①我国农民收入增长较缓　②我国城乡居民收入差距较大　③外出务工是我国农民收入的主要来源　④农民的主要收入来源增长乏力（　）

A．①②③④　　B．②③④　　C．①②④　　D．②④

21．增加农民收入问题是社会普遍关注的热点问题。从上表可看出，以下措施有利于增加农民收入的有

①支持农民进城务工就业　②调整农业产业结构　③推进农村税费改革　④深化粮食流通体制改革（　）

A．①②④　　B．①②③　　C．①④　　D．①②③④

22．如果流通中的纸币量过少，就会出现通货紧缩，物价总水平持续下降，货币不断升值。这时，对消费者来说，意味着用同样的货币可以购买到更多的商品，因此，通货紧缩对于消费者是有利的。这一观点（　）

A．是对事物现象的正确反映　　B．没有用全面的观点看问题

C．体现了运动是物质的根本属性　　D．坚持了一切从实际出发

23．意大利诗人但丁说：“一个知识不全的人可以用道德去弥补，而一个道德不全的人却难以用知识去弥补。能力不足，责任可补。”这句话主要告诉我们（　）

A．实现人生价值要全面提高个人素质

B．道德素质是实现人生价值的重要条件

C．全面提高自身素质，必须重视思想道德修养

D．道德堕落的人是没有人生价值的

24．“千年虫”问题是人类自己疏忽大意造成的。当年，为了节省储存空间，提高计算速度，把年代用两位来表示。后来的模拟实验表明，“千年虫”的危害非常严重。为了捉拿“千年虫”，各国投入了大量人力，财力。当初仅是一个小小的失误，竟造成了如此大的麻烦，不能不令人震惊！这一事实说明 （ ）

A．人的意识是对客观存在的反映

B．把握因果联系的重要性

C．要有创新精神、支持新事物的成长

D．分析与综合必须相结合

二、在下列各题的四个选项中，至少有一项是符合题意的。错选、多选，该题不给分，少选且正确的给 1 分。每小题 3 分，共 27 分

25．我国国有企业在转换经营机制问题上，经历了“不找市场找市长—不找市长找市场—找了市场找市长”的变化过程。这一变化表明，在市场经济的条件下，要提高国有企业的经济效益就必须 （ ）

A．通过行政手段建立现代企业制度

B．充分发挥计划和市场两种手段的长处

C．加强国家的宏观调控

D．坚持走新型工业化道路

26．上述材料中的变化过程，说明的哲学道理是 （ ）

A．人们的认识是不断变化发展的

B．矛盾双方是对立统一的关系

C．人们对同一事物的正确认识是有本质差别的

D．主观与客观的统一是具体的历史的统一

27．2003 年 12 月 10 日，国务院总理温家宝在美国哈佛大学演讲时指出，中国政府致力于两个保护：一个是保护劳动者的基本权利；一个是保护财产权利，既要保护公有财产，又要保护私人财产。关于这一点，中国的法律已经作出明确规定，并付诸实施。从经济学角度看，这“两个保护”是 （ ）

A．市场经济发展的要求　　B．改革开放的要求

C．依法治国的要求　　D．国家宏观调控的体现

28．2004 年 1 月 12 日，中共中央总书记胡锦涛在中纪委第三次全体会议上发表的重要讲话中指出，求真务实，是辩证唯物主义和历史唯物主义一以贯之的科学精神，是我们党的思想路线的核心内容，也是党的优良传统和共产党人应该具备的政治品格。以下能体现求真务实的哲理有 （ ）

A．物质决定意识　　B．人具有主观能动性

C．实践是认识的目的　　D．认识世界是为了更好地改造世界

据报道，去年夏季江苏某市由于缺电导致停水，于是市政府领导出面公开向百姓道歉。上海、浙江等地也就企业让电于民出台了一项政策，即对于让电企业，政府将根据不同情况给予经济补偿。据此回答 29～31 题。

29．材料中的“道歉事件”表明 （ ）

A．我国的国家机构是人民利益的执行者和捍卫者

B．行政机关要立党为公，执政为民

C．群众利益在政府心目中的分量越来越重

D．人民群众的舆论监督起了重要作用

30．政府对让电于民的企业给予经济补偿，体现了 （ ）

A．市场经济的法制性　　B．政府对市场经济的宏观调控

C．政府有时可以干预企业经营　　D．企业要把社会效益放在首位

31．政府对让电于民的企业将根据不同情况给予经济补偿。这里的“根据不同情况”蕴含的哲理是 （ ）

A．从实际出发　　B．按客观规律办事

C．具体问题具体分析　　D．要用发展的观点看问题

32．读下图漫画，它表明 （ ）



A．有些人对事物的盲目信仰和崇拜

B．封建迷信活动已成为社会的一大公害

C．要树立科学世界观，消除封建迷信思想

D．尊重和保护宗教信仰自由，必须反对邪教

33．2004 年 2 月 25 日，“朝核问题”第二轮六方会谈在北京举行。朝鲜核问题成为伊拉克战争后又一牵动全球的焦点，这表明 （ ）

A．世界形势总体趋向缓和　　B．国际关系中不稳定因素仍然存在

C．和平是当今时代的主题之一　　D．国际竞争的实质是综合国力的较量

第Ⅱ卷（非选择题　共 75 分）

三、简答题（本大题共 2 小题，每小题 9 分，共 18 分）

34．江苏省在大力发展农业的过程中，利用民间资本、工商资本和外资开发农业，为农村经济的发展注入了新的活力。据江苏省农业厅的统计，该省三种资本农业企业已有 18160 个，投资总额累计达 168 亿元。这三种资本农业企业既有规模种养，也有农产品深度加工，还有农产品批发市场。三种资本的产品则涉及粮食、棉花、油料、蔬菜、果品、茶叶、蚕茧、肉食蛋奶、水产等几乎所有领域。

问题：结合上述材料及所学的经济学知识，分析利用民间资本、工商资本和外资开发农业的现实意义。

35．中共中央关于修改宪法部分内容的建议，是在中央政治局常委会直接领导下，充分发扬民主，广泛听取各民主党派和无党派爱国人士等各方面的意见，经过半年多工作形成的。2003 年 10 月 14 日，党的十六届三中全会审议通过了《中共中央关于修改宪法部分内容的建议》，并决定提交第十届全国人民代表大会常务委员会审议。2004 年 3 月，十届全国人大二次会议审议通过了全国人大常委会提交的宪法修正案，明确把“三个代表”重要思想等内容载入宪法。

问题：这次宪法修改过程所蕴含的政治常识道理是如何体现的？

四、辨析题（本大题共 2 小题，每小题 11 分，共 22 分。仅作判断不说明理由者不得分）

36．只要坚持正确的价值观，主观能动性就能得到充分发挥。

37．要实现全面建设小康社会的奋斗目标，开创中国特色社会主义事业新局面，必须坚持贯彻“三个代表”重要思想和十六大精神，牢固树立和认真落实以人为本，全面、协调、可持续的发展观，切实抓好发展这个党执政兴国的第一要务。

辨题：坚持以人为本就是要把不断增加人民群众的收入作为经济社会发展的根本出发点。

五、论述题（要求紧扣题意；综合运用所学知识，结合材料展开分析。本大题共 2 小题，共 35 分。第 38 题 17 分，第 39 题 18 分）

38．根据以下材料回答问题。

充分发挥苏南在现代化建设中的先导带动作用，加快苏中、苏北工业化进程，提高城市化水平，形成优势互补，共同发展的新格局。

大力推动苏北工业化和城市化进程。扩大对内对外开放，积极利用外资和民资，培育和发展主导产业，增强自我发展能力。完善南北挂钩协作机制，鼓励苏南产业向苏北梯度转移、苏南企业到苏北投资兴业，促进苏北劳动力向苏南有序转移。

充分利用新一轮沿江开发的契机，促进苏中快速崛起，尽快融入苏南经济板块。

苏南要率先发展，加快结构调整和产业升级，着力提高国际竞争力。

——摘自江苏省十届人大二次会议《政府工作报告》

（1）材料中提出要形成苏南、苏中、苏北优势互补，共同发展的“新格局”，蕴含了唯物辩证法的什么道理？

（2）运用哲学常识的有关知识说明怎样才能形成这一“新格局”。

39．请结合以下材料回答问题

材料一：近三年来我国经济增长情况

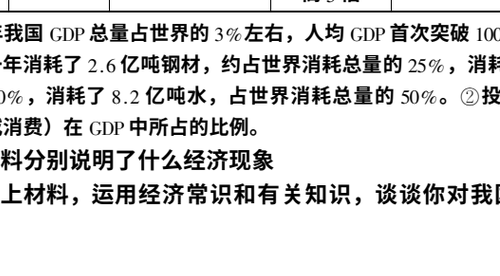

材料二：目前我国四大经济区域实力及发展水平（人均 GDP）情况

地区指标	东部	中部	西部	东北
经济实力	6.25 亿元	2.52 亿元	1.83 亿元	1.16 亿元
人均 GDP	14250 元	6454 元	5335 元	10841 元

注：西部 12 个省区市上半年国内生产总值同比增长 10.7%，与全国各地总平均增长速度的差距有所缩小。但仍明显低于东部地区 11 个省市 20.7%、中部地区 8 个省 17.2%的增长水平。2002 年东部地区经济体制逐渐与国际接轨，特别是加入世贸组织后，这一进程加快，先发优势更加明显。中部、西部明显缺乏开放带动改革机制，在所有制结构上调整较慢。

材料三：我国与世界全员劳动生产率、产业结构、单位 GDP 资源消耗等情况比较

年份	全员劳动生产率情况（美元/人）		三大产业结构	单位 GDP 资源消耗	投资率	消费率
2003 年	中国	发达国家	中国（50:22.3:27.7） 发达国家平均（3.8:27.2:69）	我国万元（GDP）总能耗比发达国家高 5 倍	中国为 42.7% 世界平均不超过 30%	中国为 37% 世界平均约 80%
	1427	45234				

注：①2003 年我国 GDP 总量占世界的 3%左右，人均 GDP 首次突破 1000 美元，达到 1096 美元，但是我们一年消耗了 2.6 亿吨钢材，约占世界消耗总量的 25%，消耗了 15 亿吨煤，占世界消耗总量的 30%，消耗了 8.2 亿吨水，占世界消耗总量的 50%。②投资率（或消费率）反映的是投资（或消费）在 GDP 中所占的比例。

（1）上述材料分别说明了什么经济现象

（2）综合以上材料，运用经济常识和有关知识，谈谈你对我国经济社会发展的看法。

需要全本请访问 www.ertongbook.com