目　　录

1. 北京市东城区高三年级综合练习(二)
2. 北京市西城区抽样测试
3. 北京市海淀区高三第二学期期中练习
4. 浙江省高三第一次教学质量检测
5. 浙江省高三第二次教学质量检测
6. 武汉市高三年级调研考试
7. 湖北省黄冈市重点中学高三交流试卷
8. 湖北省黄冈市高三年级质量检测
9. 四川省高考适应性考试
10. 成都市高中毕业班第二次诊断性检测
11. 成都市高中毕业班第三次诊断性检测
12. 重庆市高三联合诊断性考试(二)
13. 武汉市部分学校高三年级供题训练(二)
14. 天津市高中质量调查
15. 郑州市高中毕业班第二次质量预测
16. 济南市高三统一考试
17. 太原市高三年级模拟试题(一)
18. 南昌市高三第二次调研测试
19. 石家庄市高中毕业班复习教学质量检测(二)
20. 石家庄市高中毕业班第二次模拟考试
21. 福建省达标中学高中毕业班质量检查
22. 杭州市第二次高考科目教学质量检测
23. 浙江省宁波市十校联考
24. 长沙市高考调研卷
25. 河南省焦作市高三第二次质量检测
26. 陕西省高三教学质量检测(二)
27. 合肥市高三第二次教学质量检测
28. 合肥市高三第三次教学质量检测
29. 山东省滨州市高三第一次复习质量检测
30. 山东省临沂市高三教学质量检查考试(二)
31. 山西省临汾市高三年级模拟测试
32. 内蒙古包头市高考模拟考试(一)
33. 贵州省高等学校招生适应性考试
34. 河北省唐山市高三第二次模拟考试
35. 安徽省皖北协作区高三联考
36. 湖南省郴州市高三第二次教学质量检测
37. 云南省高三第二次教学质量检测
38. 山东省青岛市高三第二次统一检测

文科综合参考答案及解题提示

附Ⅰ　2004年全国高考试题及答案

附Ⅱ　2004年11个单独命题省市高考试题及答案(略,见本书续篇——《最新五年高考真题汇编》,见背面介绍)

天利38套

开卷全国教辅畅销书

- 2003~2004"开卷"全国高考类畅销书排行第一
- 清华附中等120所全国示范高中教师推荐必做试题
- 《中国教育报》、搜狐、《中国青年报》、新浪等90多家报刊、电视台、网站报道,搜狐(learning.sohu.com)推荐用书
- 每年320万考生使用的书

选择天利　　选择名校

搜狐天利模拟联考联盟

- 11月起,每月一次1卷,保密不对外
- 150名特级教师规范命题、审题
- 免费加盟、免费获得样卷。洽天利网。

需要全本请访问 www.ertongbook.com

天利38套

搜狐教育推荐用书

2005全国各省市高考模拟试题汇编

文科综合

全国高考命题研究组
北京大利考试信息网 编

高考畅销书排行榜第一

1000所重点中学教师推荐高考必备

西藏人民出版社

北京市东城区高三年级综合练习（二）

1A

文 科 综 合

本试卷分第Ⅰ卷（选择题）和第Ⅱ卷（非选择题）两部分。满分300分。

第Ⅰ卷（选择题，共140分）

一、本卷共35小题，每小题4分，共计140分。在每小题列的四个选项中，只有一项是最符合题目要求的

城市森林是指生长在城市地域范围内，对所在环境有明显改善作用的林地及相关植被，它具有一定的规模，以林木为主体，是各种类型的森林作物、栽培作物和生活在其中的动物、微生物以及它们赖以生存的气候与土壤等自然因素的总称。据此做1～3题。

1．城市森林具有巨大的经济功能，其中最主要的是 （ ）
A．提供直接有形的林产品
B．改善城市的投资环境
C．防风固沙
D．为生活在都市的人们提供康乐游憩的环境和场所

2．北京市在2004年的政府工作报告中提出，要在北京西部构建“西部生态带”。作为北京市城市森林的重要组成之一，在北京西部构建“西部生态带”的主要原因是
①西部地区为山区 ②西部地区的生态环境十分脆弱 ③西部地区的经济基础好 ④北京的上风上水区位于西部地区 （ ）
A．①②③④ B．②④ C．②③④ D．①④

3．为迎接2008年的“绿色奥运”，首都绿化委员会办公室确定了100多种树木为京城绿化的“主力军”，这些造林树木中，不可能有 （ ）
A．落叶阔叶树 B．针叶树 C．常绿阔叶树 D．灌木

读“面积位于世界前列的国家的部分资料”（表2－1），做4～6题。

表2－1

	俄罗斯	加拿大	美国	中国	巴西	澳大利亚
面积（万平方千米）	1707	997	937	960	854	769
人口（亿）	1.45	0.31	2.73	12.95	1.62	0.19
具备生产能力的土地占国土面积的比重（%）	12	8	45	27	28	60
森林总面积（万平方千米）	754.9	247.2	209.6	133.8	566	39.8

4．各国人均森林面积从多到少排列依次是 （ ）
A．俄罗斯、加拿大、澳大利亚、巴西、美国、中国
B．加拿大、俄罗斯、巴西、澳大利亚、美国、中国
C．巴西、俄罗斯、加拿大、澳大利亚、美国、中国
D．加拿大、巴西、俄罗斯、美国、澳大利亚、中国

5．各国具备生产能力的土地面积占国土面积的比重存在显著差异，关于其成因的叙述中正确的是 （ ）
A．美国因境内无高大山脉而比重较高
B．巴西、中国因境内多山而比重较低
C．澳大利亚因气候温和湿润而比重高
D．俄罗斯、加拿大因纬度高而比重低

6．巴西和澳大利亚的人口都集中分布在本国东南部的沿海地区，影响其分布的原因中相同的是 （ ）
A．地势低平，平原面积广阔
B．气候温暖湿润，为温带、亚热带气候
C．海上交通便利
D．两国的政治和经济中心都位于东南沿海地区

某同学在北半球P地利用日影测当地的经纬度，当P地竖直的竹竿影子朝正北时，北京时间正好是14时40分，P地太阳光线与地平面之间的交角为70°，该日全球的昼夜状况如图2－1（图中阴影部分表示黑夜），读图做7～10题。

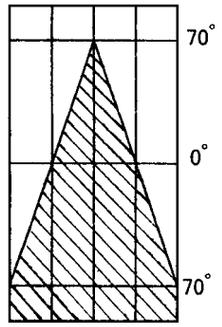

图2－1

7．P地的地理坐标为 （ ）
A．120°E，43°26′N B．80°E，40°N
C．160°E，50°N D．80°E，23°26′N

8．此日，正午影子朝正南的地区是 （ ）
A．北回归线以南的地区
B．北回归线与南极圈之间的地区
C．20°N以南的地区
D．20°N～70°S之间的地区

9．P地所在的地形单元是 （ ）
A．塔里木盆地 B．青藏高原 C．东北平原 D．准噶尔盆地

10．下列叙述中，为P地所在地形单元地理特征的是 （ ）
A．地形区内的河流有明显的春汛现象
B．夏季降水中的水汽主要来自印度洋
C．流水的侵蚀作用显著
D．农业发展中的春季缺水现象严重

我国历史上各个时期不同程度地重视对西部地区的开发与管理。今天“西部大开发”战略的实施，将进一步推动这一地区的发展。回答11～15题。

11．我国古代中央政权对西部地区的管理和开发，率先考虑的问题大多是 （ ）
A．推行和亲政策 B．推行垦荒屯田 C．设置管辖机构 D．发展民族经济

12．下列位于我国西北地区且反映封建经济繁荣时期景象的历史古迹是
①秦始皇陵兵马俑 ②云冈石窟 ③龙门石窟 ④莫高窟 （ ）
A．①②③④ B．①③④ C．③④ D．④

13．清朝前期为加强对西藏地区的管辖，采取的措施有
①设驻藏大臣 ②设乌里雅苏台将军 ③确立达赖和班禅的册封制度 ④设宣政院 （ ）
A．①②③④ B．①③ C．①③④ D．①④

14．为促进西部少数民族地区经济的发展，我国政府投资兴建下列铁路的先后顺序是
①兰新铁路 ②成昆铁路 ③青藏铁路 ④宝成铁路 （ ）
A．①②④③ B．①④②③ C．④①②③ D．④②①③

15．西部大开发中的青海、新疆都提出了“以科技为先导，立足本地资源优势，发展特色经济”的战略，下列关于两省“特色经济”的叙述中，属于青海省的是
①全国的钾肥基地 ②我国特色农产品加工、出口基地 ③全国的石油、天然气能源基地 ④我国的水电基地 （ ）
A．①②④ B．①②③ C．②③ D．①④

改革是促进经济和社会发展的重要手段。回答16～19题。

16．王安石变法中的青苗法、募役法和方田均税法要解决的共同问题是 （ ）
A．抑制土地兼并 B．限制高利贷的盘剥
C．增加政府财政收入 D．减轻农民的负担

17．当前我国农村改革的方向是 （ ）
A．分户经营，自负盈亏 B．向专业化、商品化和社会化发展
C．坚持家庭联产承包责任制 D．发展乡镇企业和非农产业

18．在日本明治维新过程中，解决土地问题的措施是 （ ）
A．废除封建领主制 B．废除封建土地制度
C．分配土地给农民 D．承认土地私有

19．下列对苏俄新经济政策的评述，不正确的是 （ ）
A．是列宁对马克思主义理论的发展 B．目的在于实现向共产主义的过渡
C．使工农联盟得到改善和巩固 D．实施的前提是国家已掌握经济命脉

国际关系是国际交往发展的必然结果，其内容是多方面的，形式也是多样的。回答20～23题。

20．一战后建立的凡尔赛——华盛顿体系 （ ）
A．缓和了不同社会制度间的矛盾
B．消除了帝国主义战胜国之间的矛盾
C．缓和了战胜国与战败国之间的矛盾
D．确立了战后新的国际秩序

21．第二次世界大战对战后世界政治领域产生的最重要的影响是 （ ）
A．1945年成立联合国 B．社会主义阵营形成
C．美苏两极格局形成 D．形成两个德国

22．二战后，西欧国家为加快经济发展，提高国际地位，采取的主要措施包括
①加强政府对经济的宏观管理 ②进行改革，缓和社会矛盾 ③加强对亚非地区的控制 ④实行区域联合，发挥整体优势 （ ）
A．①②③④ B．②③ C．①④ D．①②④

23．当今世界政治多极化趋势的出现，其根源在于 （ ）
A．冷战的结束 B．第三世界的崛起与发展
C．苏联的解体 D．世界经济力量结构的多极化

2004年2月10日，在北京召开的全国银行、证券、保险工作会议传出信息，今年的金融工作有两条主线，一条是宏观调控，另一条是金融改革。回答24～26题。

24．温家宝总理在金融工作会议上提出：今年我国继续坚持稳健的货币政策，保持政策的稳定性和连续性。下面属于运用货币政策调控经济的有
①加强信贷总量调控，优化信贷结构 ②发挥利率杠杆的调控作用，保持汇率的基本稳定 ③对居民储蓄存款利息所得征收个人所得税 ④2004年继续发行1100亿元的建设债券 （ ）
A．①②④ B．②③ C．①② D．①④

25．温家宝总理还谈到：“实施稳健的货币政策，必须把握好货币量的调节力度。密切关注宏观经济的变化，针对苗头性问题，适时适度进行调控”。这样做的哲学依据是
①事物的量变达到一定程度会引起质变 ②物质决定意识，意识是物质的反映 ③事物的矛盾具有各自的特点 ④矛盾的主要方面决定事物发展的性质 （ ）
A．①②③④ B．①②③ C．①② D．①③

26．为了有效地实施宏观调控，防范金融风险，我国不仅设立了保监会、证监会，又于2003年设立了银监会。这说明 （ ）
A．国家性质决定国家机构的性质 B．国家职能是国家机构设置的依据
C．国家职能决定国家机构的性质 D．国家性质决定国家机构的设置

在2003年的世界环境日，国家环保总局局长解振华称，我国在经济增长过程中对环境造成了一些损失，在计算GDP（国内生产总值）时没有计算进去。但是，对环境的欠债总是要还的。所以应该引入一个“绿色GDP”的概念。回答27、28题。

27．“绿色GDP”是指从GDP中扣除自然资源耗减和环境污染后的数值。引入“绿色GDP”概念的主要目的是 （ ）
A．使人们不再关心经济的单一速度指标
B．促进产业结构调整，发展第三产业
C．加快西部及东北老工业基地的发展
D．既要保护环境，又要发展经济

28．GDP是衡量一个国家和地区经济发展水平的重要标志。如果没有科学的发展观，以牺牲环境、资源为代价来拉动GDP的增长，那就不是“绿色GDP”，而是“黑色GDP”了。这说明
①整体与部分之间存在着密切联系 ②正确的意识对事物发展起促进作用 ③矛盾双方在一定条件下相互转化 ④具体问题具体分析是解决矛盾的关键 （ ）
A．①②③ B．②③④ C．①④ D．②③

近日，中共中央向全社会颁布了《中国共产党党内监督条例（试行）》，作为建党以来的第一部党内监督法规的颁布实施在党内外引起了巨大反响。回答29、30题。

29．我们党之所以重视党内监督，是因为 （ ）
A．严格的党内监督是保持党的先进性的重要保证
B．严格的党内监督比党外监督重要
C．严格的党内监督可以杜绝腐败
D．加强党内监督为的是把一切问题解决在党内

30．制定党内监督条例，是从严治党的重大举措。这里体现的哲学道理是 （ ）
A．内因是事物发展的动力 B．外因是事物发展的条件
C．内因是事物发展的源泉 D．内因和外因共同推动事物发展

1B

读漫画《难以嫁接》（图 2－2），回答 31、32 题。



难以嫁接　　罗　杰

图 2－2

31．漫画蕴含的哲理是　（　　）

A．主次矛盾相互转化

B．矛盾具有普遍性

C．矛盾具有特殊性

D．联系具有多样性

32．将本国的意识形态、价值观念转嫁给别国，是

①从本国的国家利益出发　②从世界各国的共同利益出发　③对别国内政和主权的干涉　④建立国际政治新秩序　（　　）

A．①③　　B．②③　　C．①②③　　D．②③④

建立社会保障制度，铺设一张社会安全网，是各国通常的做法。回答 33～35 题。

33．2003 年 9 月 22 日德国《明镜》周刊的封面有这样一段文字：“谁工作，谁就是傻瓜”，意指德国的失业补助等福利津贴与工资差别不大。德国的这种社会福利制度对我们的启示是　（　　）

A．西方国家的高福利制度是造成社会矛盾的根本原因

B．社会保障水平既要有利于生产，又要保障基本生活

C．社会保障制度是实现社会安定的根本性措施

D．高福利制度调动了工人生产的积极性

34．目前我国已初步建立了以职工基本养老保险、失业保险、医疗保险和城市居民最低生活保障制度为重点的社会保障体系。它的积极作用在于

①维护社会稳定，促进经济发展　②体现社会互济，规避各种风险　③有利于完善社会主义市场经济体制　④保证劳动者享有各种权利　（　　）

A．①②③　　B．①②　　C．①③④　　D．①③

35．2003 年 1 至 6 月份，我国政府累计投入 71 亿元城市居民最低生活保障金，共有 2182.65 万城镇居民获得此项救助。这是政府在行使　（　　）

A．政治统治的职能　　B．社会公共服务的职能

C．市场监管的职能　　D．组织经济建设的职能

第Ⅱ卷（非选择题，共 160 分）

二、本卷共 5 小题，共 160 分

36．（28 分）分析“我国某省级行政区的资料”（表 2－2），根据所学知识，完成下列要求：

表 2－2

面积（万平方千米）	118.3		
国境线长	4200 多千米		
人口密度（人/平方千米）	19（2000 年）		
7 月均温（℃）	16～26		
1 月均温（℃）	－28～－14		
年降水量（毫米）	50～500		
土地利用情况（平方千米）	耕地	林地	草地
	56260	95560	624590

（1）说出该省区的简称。（3 分）

（2）在该省区的土地利用类型中，草地的面积是最多的，简述该省区草地面积广大的原因，并分析该省区草场的分布规律及其成因。（10 分）

（3）该省区行政中心所在地区是中国古老灌区之一，也是该省区粮、油、糖的生产基地，影响该地区农业生产布局的主导因素是_____。该地区过度发展灌溉农业会带来哪些问题？（说出两个方面的问题即可）（9 分）

（4）根据该省区的资源优势，该省区应重点发展的工业部门有哪些？请说明该工业部门的布局条件，完成表 2－3 中的内容。（6 分）

表 2－3

工业部门	①	②	③
布局条件			

37．（35 分）从清末至共和国加入世界贸易组织，一个多世纪以来，中国的国际地位发生了巨大变化。据材料结合所学知识回答问题：

材料一　清朝嘉庆年间，英王遣使来华，意欲与中国建立外交、通商关系，嘉庆皇帝在给英王的“敕谕”中说：“天朝不宝远物，凡尔国奇巧之器，亦不视为珍异。尔国王其辑和尔民，慎固尔疆土，无间远迩，朕实嘉之。嗣后毋庸遣使远来，徒烦跋涉，但能倾心效顺，不必岁时来朝，始称向化也。”

材料二　巴黎和会上美国总统威尔逊就中国提出收回山东权益的要求作了一个结论，他说：“我们参加世界战争，主要目的就要维持条约的神圣，中日两国既有一九一五年五月廿五日的中日协定于前，又有一九一八年九月廿四日换文于后，英法等国与日本所订的条约又有维持日本继承德国在山东的权利义务。在这种情形下，山东问题似无法变更！”

——《北洋军阀史》

材料三　（1943 年）美国和英国磋商，取消在华领事裁判权，“以增强中国对日作战的效能”。……美英取消 1901 年中国政府与他国政府，包括美国英国政府，在北京签订的议定书，……交还在中国的租界，放弃在中国领水内关于沿海贸易及内河航行之特权。

——选自《中国现代史》

材料四　中国加入世界贸易组织，是关系中国和世界经济的大事。如果说 1971 年中国恢复联合国合法地位，从此登上世界政治大舞台，那么 30 年后，中国加入世界贸易组织，标志中国全面融入世界经济主流。30 年弹指一挥间，中国的变化动地惊天。中国的发展离不开世界。世界的发展同样需要一个更加改革开放，日益举足轻重、充满勃勃生机的中国。

——《中国对外开放新的里程碑》

回答：

（1）材料一主要反映了什么历史信息？对中国社会产生了什么影响？（8 分）

（2）据材料二说明山东问题是怎样形成的？巴黎和会上以美国为代表的帝国主义国家对中国权益的态度，说明了什么？（8 分）

（3）材料三主要反映了什么历史信息？分析其原因。（6 分）

（4）据材料四，结合所学知识，分析中国融入世界经济主流的原因。（7 分）

（5）一个多世纪以来，中国从任人宰割的半殖民地到独立自主的新中国，并主动融入世界，从中你能得到什么启示？（6 分）

38．（35 分）阅读材料回答问题：

材料一

表 2－4

	1997 年	1998 年	1999 年	2000 年	2001 年	2002 年	2003 年
农民纯收入比上年增长	4.6%	3.4%	2.2%	2.1%	4.2%	4.8%	4.3%

表 2－5

	1997 年	2001 年	2003 年
城镇人均纯收入	5160 亿元	6860 亿元	8500 亿元
农村人均纯收入	2090 亿元	2366 亿元	2622 亿元

材料二　今年年初，中央下发了《中共中央国务院关于促进农民增加收入若干政策的意见》（简称“一号文件”），以中共中央、国务院的名义，专门制定关于促进农民增收的文件，新中国成立以来还是第一次。“一号文件”认为：当前农业和农村经济发展中存在着许多矛盾和问题，突出的是农民增收困难，促进农民增收是农村经济工作的基本目标，要树立科学发展观，按照统筹城乡经济社会发展的要求，坚持“多予、少取、放活”的方针，做好农民增收工作。

（1）材料一反映了农民增收中的什么问题？对经济发展产生什么影响？（9 分）

（2）从所学经济常识的角度谈谈如何理解“多予、少取、放活”的方针？（6 分）

（3）从所学政治常识的角度分析党和国家为什么高度重视农民增收问题？（8 分）

（4）运用所学哲学知识分析党和国家做好农村工作的基本思路。（12 分）

39．（28 分）阅读下列材料，回答问题：

材料一　振兴东北老工业基地的战略目标，是把东北建成中国乃至世界的装备制造业和原材料工业基地。东北将成为继“珠三角”、“长三角”和“京三角”之后中国内地经济增长第四极，并将开创一个“新东北时代”。

材料二　“东北地区图”（图 2－3）

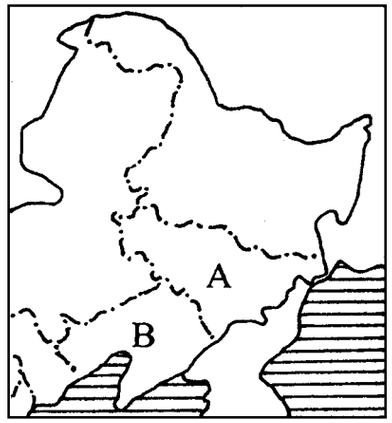

图 2－3

（1）概括新民主主义革命时期发生在东北地区的重大史实。（4 分）

（2）读图 2－3，20 世纪 50 年代位于 A、B 两省省会城市的重工业企业分别是_____、_____。结合所学历史知识简述东北建成新中国第一个重工业基地的条件和意义。（6 分）

（3）振兴东北老工业基地要走“特色之路”，图中 A 省提出将重点建设汽车、农产品加工、医药等产业基地。根据该省区的实际情况，简述该省区三大产业基地中两个基地的发展条件。（8 分）

（4）东北地区的市场化程度总指数低于东部沿海地区，2000 年在内地 31 个省份中辽宁省排名第 10 位，吉林省第 18 位，黑龙江省第 21 位。而在政府与市场关系的市场化指数方面，辽宁省排名第 15 位，吉林省第 20 位，黑龙江省第 27 位。加快市场化改革，在观念和行为上摆脱对传统计划经济的依赖，是振兴东北老工业基地的根本出路。

振兴东北老工业基地为什么要充分发挥市场的作用？政府应该发挥什么作用？（10 分）

40．（34 分）阅读下列材料，回答问题：

材料一　我国是世界上最大的发展中国家，美国是世界上最大的发达国家，两国之间在经济领域的合作，虽然近一段时间来出现一些分歧和摩擦，但总体上保持着良好态势。双方的经贸交往从 25 年前的贸易额仅为 25 亿美元，发展到 2003 年的贸易额突破 1200 亿美元，增长了 48 倍，经贸关系的发展正在对总体上的中美关系产生越来越深远的影响。

材料二　美国的经济作物以大豆、棉花等为主，其中大豆的产量占世界总产量的 1/2 左右，并主要分布在图 2－4 中的 A 地区，A 地区的相关资料如表 2－6。

表 2－6

纬度	土壤有机质	无霜期（天）	降雨量（mm）
37°N～45°N	3%～6%	160～200	500～700

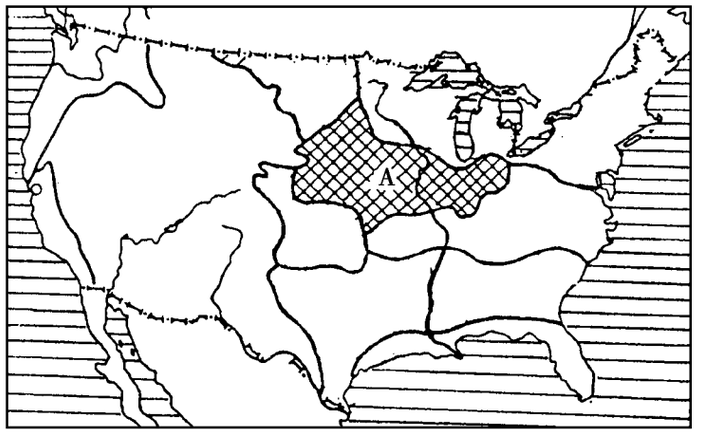

图 2－4

（1）结合美国历史上的两次资产阶级革命和两次科技革命的有关史实，说明美国是怎样发展成为世界经济大国的。（12 分）

（2）A 地区的大豆是与一种重要粮食作物轮种的，该粮食作物是_____。（2 分）

（3）分析图中 A 地区生产大豆的自然条件。（8 分）

（4）中美经贸领域关系的变化发展体现的哲学原理是什么？（6 分）

（5）运用政治常识分析中美经贸领域关系的变化和发展。（6 分）

文 科 综 合

本试卷分第Ⅰ卷和第Ⅱ卷，满分 300 分。时间 150 分钟。

第Ⅰ卷（选择题，共 140 分）

一、本卷共 35 小题，每小题 4 分，共计 140 分。在每小题列出的四个选项中，只有一项是符合题目要求的

1．下列古诗词所描述的地理事物或现象分布于我国地势第三级阶梯上的有（ ）

①天苍苍，野茫茫，风吹草低见牛羊。
②朝辞白帝彩云间，千里江陵一日还。
　两岸猿声啼不住，轻舟已过万重山。
③日照香炉生紫烟，遥看瀑布挂前川。
　飞流直下三千尺，疑是银河落九天。
④会当凌绝顶，一览众山小。

A．①②　　B．②③　　C．①③　　D．③④

2．上题结论表明（ ）

A．物质的根本属性是运动　　B．人的意识是对客观存在的反映
C．物质的惟一特性是运动　　D．主观能动性的发挥受客观条件制约

读图 1，完成 3～5 题。

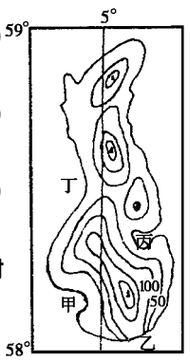

图 1

3．图示岛屿所属的大洲是（ ）

A．亚洲　　B．欧洲
C．大洋洲　　D．北美洲

4．该岛的气候特点与日本比，其共同点是（ ）

A．具有明显的海洋性　　B．最冷月均温在 0℃以下
C．降水季节变化明显　　D．雨热同期

5．图中甲、乙、丙、丁四地最适合建立渔港的是（ ）

A．甲　　B．乙
C．丙　　D．丁

下表为我国甲、乙两城市某日，日出、日落时间（北京时间）统计表，据此完成 6～8 题。

城　市	日出时间	日落时间
甲	5:28	19:00
乙	7:23	20:27

6．甲地位于乙地的（ ）

A．东北方　　B．西北方　　C．东南方　　D．西南方

7．当甲地日出时，地球上两个日期的分界线理论上除 180°经线外，还有（ ）

A．0°经线　　B．38°W 经线　　C．38°E 经线　　D．60°W 经线

8．下列地理现象发生在此季节的有

①恰逢中国“植树节”　②洞庭湖水系储水变化量为正值　③寒潮、台风频繁肆虐　④中纬地区对流层厚度达最大值（ ）

A．①②　　B．②③　　C．②④　　D．①④

图 2 为“某地气温曲线和降水量柱状图”，读图完成 9、10 题。

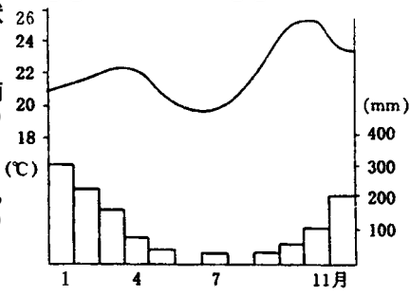

图 2

9．该图所示气候类型可能位于

①亚洲　②非洲　③北美洲　④南美洲　⑤大洋洲（ ）

A．①②④　　B．②③⑤
C．①③④　　D．②④⑤

10．该地 1 月份气温比 11 月份低，其主要原因是（ ）

A．太阳高度角较小
B．白昼时间较短
C．大气对太阳辐射削弱作用较强
D．大气逆辐射作用较弱

台湾回归祖国，实现祖国的和平统一是海峡两岸人民的共同愿望。读图 3 并根据你掌握的有关台湾知识，回答 11、12 题。

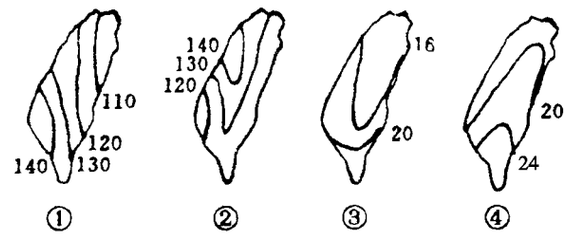

图 3

11．图 3 中能正确反映台湾年太阳辐射量（单位：4185J/cm²）和某月气温（单位：℃）的分别是（ ）

A．①、③　　B．①、④　　C．②、③　　D．②、④

12．台湾森林资源丰富，有热带森林、亚热带森林、温带森林等类型，是由于（ ）

A．台湾岛从北向南兼跨北温带和热带　　B．台湾岛气候类型多样
C．台湾山脉地处低纬且海拔较高　　D．台湾岛地形复杂

“中华文化博大精深、源远流长，为人类文明进步作出了巨大贡献。”据此回答13～16题。

13．下列中国古代社会制度，其中，对西方国家近代文官录用制度的形成有重要影响的是（ ）

A．册封制　　B．科举制　　C．士族制　　D．中央集权制

14．从中国方面看，宋元时期“海上丝绸之路”全面繁荣的最主要经济原因是（ ）

A．宋元政府鼓励航海贸易　　B．造船和航海技术世界领先
C．手工业、商业有了较大发展　　D．泉州发展迅速，成为“东方第一大港”

15．世界上第一部由政府组织编修的药学著作是（ ）

A．《伤寒杂病论》B．《千金方》　　C．《唐本草》　　D．《本草纲目》

16．除了和平共处五项原则外，“求同存异”原则是中国政府提出的另一个著名的国际关系准则。这一原则的提出是在（ ）

A．万隆亚非国际会议　　B．美国总统尼克松访华期间
C．与日本的建交谈判　　D．首次朝鲜核问题六方会谈

领土主权和领土完整，是国家主权的重要内容和表现，也是国家独立的重要标志。据此回答 17～20 题。

17．清朝在边疆地区实行将军、办事大臣、盟旗等制度，其积极作用是

①加强了中央对边疆地区的管辖　②继承和推广了满洲的八旗制度　③巩固和发展了多民族国家的统一　④奠定了今天中国疆域版图的基础（ ）

A．①③④　　B．①②③　　C．②③④　　D．①②③④

18．下列中国近现代史上的重大事件，旨在捍卫国家统一和领土完整的有

①“五四”运动　②延安整风运动　③抗美援朝战争　④“四五”运动（ ）

A．①③　　B．②④　　C．①④　　D．②③

19．下列世界历史上的重大事件，与捍卫国家统一和领土完整无关的是（ ）

A．苏丹马赫迪起义　　B．英俄克里米亚战争
C．美国葛底斯堡战役　　D．苏联斯大林格勒战役

20．下列有关对德国近现代历史上两次统一的评述，正确的是（ ）

A．两次统一都是通过战争来实现的
B．两次统一均改变了欧洲的国际格局
C．前次统一的完成，德国发展成为“高利贷帝国主义”
D．后次统一的完成，德国成为社会主义国家

21．主权国家在国际社会享有的基本权利有

①独立权　②平等权　③自卫权　④管辖权（ ）

A．①②　　B．③④　　C．①②③　　D．①②③④

20 世纪的国际关系，经历了从以欧洲为中心的传统国际格局到两极格局、进而向多极化趋势转变的重大变化。据此回答 22～25 题。

22．从社会进步和制度创新的角度看，20 世纪初期国际社会最重大的事件是（ ）

A．第二次工业革命的兴起　　B．俄国十月革命胜利
C．美国实行“新政”改革　　D．中国清王朝被推翻

23．对于第一次世界大战后形成的“凡尔赛体系”，下列评述中正确的是（ ）

A．是对战败国进行掠夺性惩罚的产物　　B．解决了战胜国之间原有的矛盾
C．根除了帝国主义与殖民地的矛盾　　D．缓解了美日在亚太地区的冲突

24．下列有关对“两极格局”的评述，其中，揭示其本质特征的是（ ）

A．出现了两大军事政治集团的对峙
B．成立了国际协调机构——联合国
C．重新划分了世界版图和势力范围
D．意识形态不同的超级大国在全球的对抗和争霸

25．当今世界，暂时形成了“一超多强”的局面。其中，“多强”中除了中国、日本外，还有（ ）

A．意大利、英国　　B．法国、德国
C．欧共体、加拿大　　D．欧洲联盟、俄罗斯

读漫画《填补》回答 26、27 题。



填补

26．这幅漫画是批评搬石头者（ ）

A．孤立地看问题　　B．静止地看问题
C．片面地看问题　　D．形而上学地看问题

27．搬石头者（ ）

A．看到的是假象
B．看到的是本质
C．没有透过现象看本质
D．没有看到事物的真象

读“中国 GDP 增长图”，据此回答 28～30 题。

中国GDP增长图(1978年～2003年)　　(单位:亿元)

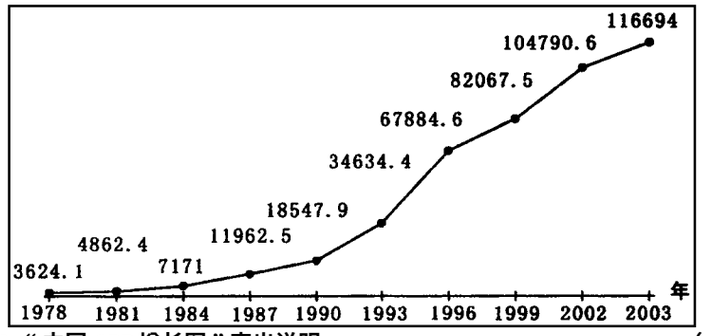

28．“中国 GDP 增长图”突出说明（ ）

A．改革开放使我国国民收入持续增长
B．十四大确定的改革目标使国民收入大幅上升
C．十四大确定的改革目标在实践上取得重大进展
D．改革开放以来，我国 GDP 持续增长

29．GDP 是一个国家或地区在一定时期内（ ）

A．生产活动的最终成果　　B．分配活动的最终成果
C．交换活动的最终成果　　D．消费活动的最终成果

30．“GDP 不能反映某些重要的非市场经济活动，不能全面地反映人们的福利状况，不能反映经济发展对资源环境所造成的负面影响。”这段话表明（ ）

A．错误的意识对事物发展起阻碍作用
B．要坚持两分法，防止片面性
C．主要矛盾与次要矛盾在一定条件下相互转化
D．错误的理论必然导致错误的实践

2003 年，我国钢铁、水泥、电解铝的投资增长迅速。如此，明年将会有 6000 万吨钢铁、1 亿吨水泥、400 万吨电解铝难有销路。

我国工业万元产值用水量为 103m³，美国是 8m³，日本只有 6m³；单位 GDP 用水量比发达国家多 15 倍以上。据此回答 31、32 题。

31．上述材料表明（ ）

A．我国重工业经济增长速度过快
B．我国资源浪费现象非常严重
C．发展经济必须注重经济效益、资源消耗
D．只有减少资源消耗，才能提高经济效益

32．由此看来，我国必须

①正确引导和调控社会投资　②以信息化带动工业化　③以工业化促进信息化　④走新型工业化道路（ ）

A．①②③　　B．②③④　　C．①②③④　　D．①④

2003 年，中欧贸易额高达 1252 亿美元，同比增长 44.4%。欧盟的许多著名企业积极参与中国的重大项目建设。空客飞机，大众汽车、磁悬浮实验段、雪铁龙汽车、大亚湾核电站以及诺基亚、爱立信等移动通信等已成为中欧合作的标志性项目，获得了可观的经济效益。据此回答 33、34 题。

33．进入中国市场的欧洲品牌企业获得可观的经济效益。这是因为（ ）

A．交换价值是价值的物质承担者

B．竞争是企业兼并的核心
C．提高经济效益，有利于增强市场竞争力
D．企业形象是企业的无形资产

34．2003 年，中欧贸易额高达 1252 亿美元。这表明外汇是用美元表示的用于国际间结算的（　　）
A．价值尺度　　B．流通手段
C．支付手段　　D．世界货币

35．2003 年 7 月 25 日至 28 日，朝鲜核问题第二轮六方会谈在北京举行。第二轮会谈取得的主要进展之一是明确了采取协调一致步骤解决问题的方式。对上述材料的正确认识有
①六方会谈中的安理会常任理事国是中、俄、美　②联合国在协调国际关系方面发挥了积极作用　③国家间的共同利益是国家合作的基础　④国际法对各国具有法律上的约束力（　　）
A．①③　　B．②④　　C．①②③　　D．①②③④

第Ⅱ卷（非选择题，共 160 分）

二、非选择题，本大题共 6 小题，共 160 分

36．读图 4“极地航路”示意图，完成下列要求：（30 分）

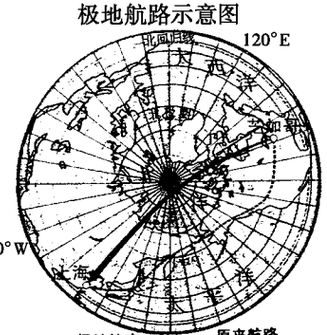

图 4

（1）在开辟“极地航路”前，中国东方航空公司的飞机在北京时间 7 月 8 日下午 1 时从上海直飞芝加哥（西六区），到达时当地时间是 7 月 8 日 12 时，该飞机的飞行时间是_____。（2 分）

（2）后来东方航空公司成功地开辟了从美国芝加哥飞跃北极直达上海的新航线，它的最大好处是：（2 分）

（3）据图判断，该极地航线经过的地跨两大洲的国家有：（2 分）
它们还具有哪些相同的地理位置特征：（4 分）
比较它们土地生产力的差异及其主要自然原因：（6 分）

（4）该“极地航路”示意图原刊登于某报，其中经度标注明显有误，请将其写出来并加以改正：（4 分）

读图 5“沿 116°E 局部地形剖面图”和我国 A、B 两个地区的人口密度和人均土地资源情况表，回答下列问题。（10 分）

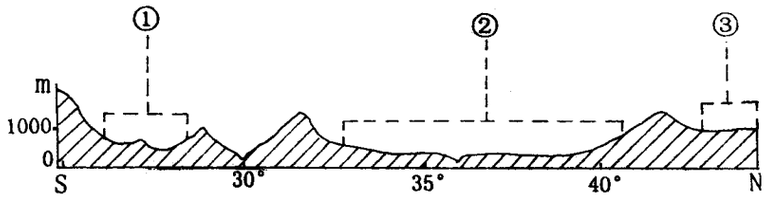

图 5

地区	人口密度（人/平方千米）	人均耕地（亩/人）	人均草地（亩/人）	人均林地（亩/人）
A	262	1.4	0.2	0.3
B	69	1.1	1.1	1.8

（5）A 地区显示的情况与_____号地形区大体一致；B 地区显示的情况与_____号地形区大体一致。（2 分）

（6）A、B 两地区中，从自然资源和人口资源结合、利用的角度看，两者结合得比较好的是_____地区（1 分）。从自然条件考虑，A 地区发展农业生产的主要不利因素有：（3 分）
从可持续发展的角度出发，B 地区农业发展方向是：（4 分）

37．中、印两国既是邻国，又是世界上两个最大的发展中国家。近年来，两国关系有了进一步的发展。阅读下列材料，回答问题。（32 分）

材料一“（公元前 119 年）骞因分遣副使使……身毒①……及诸旁国。”“武帝时，身毒国献连环羁②，皆以白玉作之。”
——摘自《史记》、《西京杂记》

注：①身毒（yuán dú）：古印度的别译；②羁（jī）：马笼头。

材料二


图 6　太平天国使用得到的英国兵船与清军激战


图 7　1857 年印度民族大起义

材料三


图 8　孙中山在同盟会成立大会上


图 9　提拉克在监狱上抗击殖民统治

材料四　1947 年，印度获得独立。两年后，新中国诞生。两国人民经过长期艰苦卓绝的斗争，终于摆脱了帝国主义的奴役，实现了民族独立。
——摘自《中国睦邻史》

材料五　中国经济以接近 10% 的速度连续增长了 20 年。2003 年，国内生产总值比去年增长 9.1%；印度近年来通过进行一系列的改革，经济有了较大发展。2003 年，印度经济增长率达 7.1%。一些国际专家认为，印度经济在连续 7 年稳步增长的基础上，现在正成为牵引亚洲经济发展的又一个火车头。
——摘编自《新华网》、《人民网》

（1）材料一揭示了什么历史信息？（2 分）古代中印交往，印度文化对中国影响最大的是什么？（2 分）

（2）阅读图 6、图 7 并结合相关史实简要说明，发生在同一国际历史背景下的中国太平天国运动和印度民族大起义，有哪些主要的不同之处？（8 分）

（3）阅读图 8、图 9，同各自以往的斗争相比，中国辛亥革命和同一时期的印度民族解放运动有什么共同的新特点？（3 分）

（4）根据材料四，第二次世界大战后，印度获得独立和新中国诞生，具有什么重大的国际影响？（3 分）中、印两国实现民族独立的方式又有什么不同？（4 分）

（5）结合所学历史知识分析材料五，分别指出 20 世纪晚期以来，中、印两国经济持续发展的主要原因。（6 分）

（6）综合上述材料，对于中、印两国的历史发展和交往，能得出什么认识？（4 分）

38．　　2003 年中国全部金融机构本外币存款情况　　单位：亿元

指　标	各项存款余额	企业存款余额	城乡居民储蓄存款余额
年末数	220364	76785	110695
比上年增长%	20.2	19.4	17.4

注：2003 年固定资产投资中，城乡居民个人投资 7563 亿元，比上年增长 16.0%。

（1）运用所学经济学常识，正确分析上述经济现象。（16 分）

（2）上述经济现象给我们哪些哲学启示？（8 分）

（3）针对上述现象，国家怎样行使管理经济的职能？（6 分）

39．读图 10“河北省近海海洋捕捞业变化状况图”（其中努力量是捕捞努力量，即渔船数量或渔船总马力），回答相关问题。（28 分）

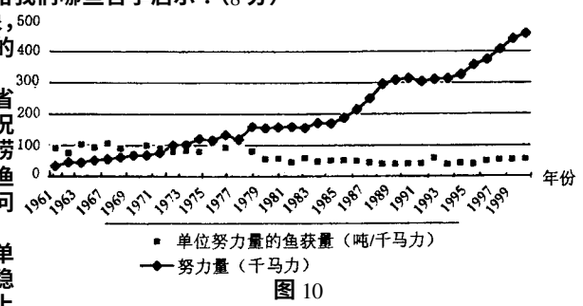

图 10

（1）60～70 年代，单位努力量的鱼获量基本稳定在_____吨/千马力上下；（2 分）80 年代以来，捕捞努力量与单位努力量的鱼获量之间的关系为：_____。（4 分）

上述关系说明：
_____。（6 分）
因此，我国政府采取的措施有：
_____。（4 分）

（2）①在此问题上，我国政府是怎样履行国家职能的？（8 分）
②我国政府的作法体现怎样的发展观？（4 分）

40．我国疆域辽阔，东、中、西三个经济地带特点各异、差别明显。以分区推进的政策思路，在不同经济区域构造各具比较优势的“经济增长极”，以此带动整个经济发展，是我国经济长远发展的正确选择。阅读下列材料，并结合所学知识回答问题。（40 分）

（1）材料一　司马迁称：“关中之地，……人众不过什三，然量其富，什居其六。”《新唐书》记载：“关中号沃野，然其土地狭，所出不足以给京师，……故常漕东南之粟。”

材料二　宋代因太湖平原盛产粮食，故民间有“苏湖熟，天下足”的说法。

材料三　明清时期，江汉平原已经成为全国重要的粮食输出地，民间俗称“湖广熟，天下足。”

①综合分析材料一、二，能得出什么结论？（3 分）

②综合分析材料二、三，从宋代到明清，中国的粮食生产及输出中心发生了什么重大变化？（1 分）根据相关史实，指出明清时期太湖平原的农业生产结构发生变化的主要原因。（3 分）

③近代以来，太湖平原和江汉平原沿长江地区较早地出现了“民族工业”。试根据有关史实，以上述两地沿江的某些城市为例，说明两地沿江地区“民族工业”出现较早的原因及其所产生的影响。（7 分）

④对应总题干，材料中的关中等三个平原依次分别位于今天的哪些区域经济地带？（3 分）新中国成立以来，上述各区域的经济发展取得了（或正在取得）什么重大成就？请各举 1 例说明。（3 分）

材料四　我国东部经济地带包括沿海地区的辽、冀、鲁、苏、浙、闽、粤、琼、桂、京、津、沪 12 个省、市、自治区；西部经济地带包括陕、甘、宁、青、新、云、贵、川、藏、渝 10 个省、市、自治区；中部经济地带包括黑、吉、内蒙古、晋、豫、皖、湘、鄂、赣 9 个省、自治区。

（2）读图 11、12，并结合材料四，完成下列要求：

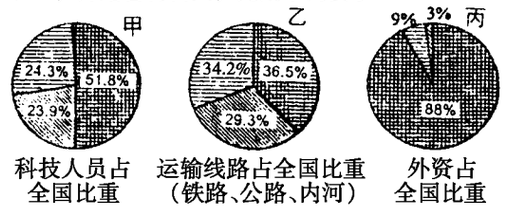

图 11

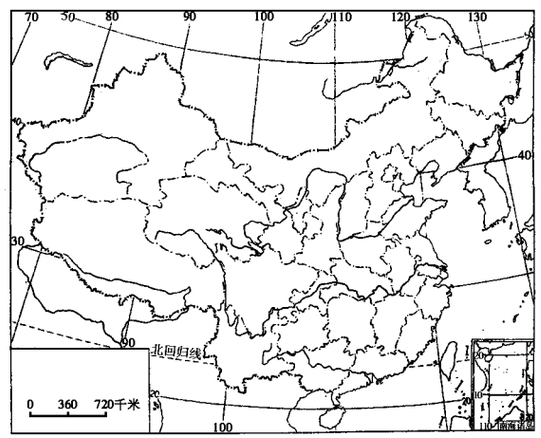

图 12

①在图 12“中国政区图”中用粗实线表示三个经济地带的分界线，并将图 11 中表示中部经济地带的图例画在右面的方框内。（6 分）

②图 11 中的乙图没有充分反映我国东部经济地带所具有的交通优势，试分析其主要原因：（4 分）

（3）试用唯物辩证法的观点，说明分区推进政策思路是正确选择。（10 分）

需要全本请访问 www.ertongbook.com

北京市海淀区高三第二学期期中练习

3A

文 科 综 合

本试卷分第Ⅰ卷（选择题）和第Ⅱ卷（非选择题）两部分。满分300分。考试时间150分钟。

第Ⅰ卷（选择题，共140分）

一、选择题：本大题共35小题，每小题4分，共计140分。在每小题所列出的四个选项中，只有一项是最符合题目要求的

图1为“中国部分灾害分布图”，读图1回答1、2题。

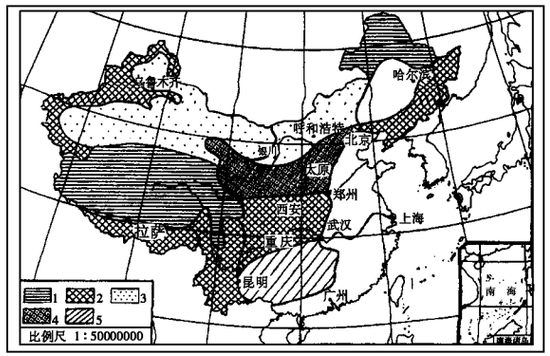

注：图例中数字所代表的灾害类型
1—冻融、冰川为主　2—崩塌、滑坡、泥石流为主　3—沙漠化为主
4—黄土湿陷、水土流失为主　5—岩溶、塌陷为主

图1

1．关于图中灾害类型分布的叙述，正确的是　（　）
A．灾害1主要分布在青藏高原和东北北部地区
B．灾害2分布在青藏高原东部和北部边缘地区
C．灾害3分布在内蒙古高原和黄土高原
D．灾害4分布在黄土高原和华北平原

2．关于图中灾害成因的叙述，不正确的是　（　）
A．自然因素是形成灾害1的主要原因
B．气候因素是形成灾害3的主要自然因素
C．地形崎岖是形成灾害5的主要原因
D．人类对植被的破坏是灾害4加剧的主要原因

下表为我国位于同一地形区上甲、乙两地的相关资料。读资料分析回答3、4题。

	纬度、经度	海拔（米）	1月平均气温（℃）	7月平均气温（℃）	年降水量（mm）	夏半年（5月～10月）雨日占全年雨日的%	冬半年（11月～4月）雨日占全年雨日的%	年日照时数
甲	25°35′N，103°E	1898	7.1	20.0	1005.0	72	28	2110.2
乙	26°35′N，104°E	1811	2.9	19.8	1250.6	56	44	1548.6

3．两地所在的地形区是　（　）
A．黄土高原　　B．四川盆地　　C．云贵高原　　D．江南丘陵

4．两地冬季气温和雨日存在明显差异的原因是　（　）
A．两地受暖锋影响的时间长短不同
B．甲地受暖锋控制，乙地受冷锋控制
C．甲地受暖气团控制，乙地受锋面和冷气团控制
D．两地分别受来自不同纬度的海洋气团控制

近年来，北京在一些人行道改造工程中，采用了质量很好的透水砖，这给城市带来了诸多方面的环境效益。据此回答5、6题。

5．城市中以往多采用釉面砖、水泥等不透水的材质铺设地面，这对城市生态环境的主要危害有
①阻断了大气降水直接补充地下水的途径　②冬季雨雪天气极易使地面结冰，引起交通和出行困难　③影响了城市植被的生长　④降低了城市地面和空气的干燥程度　（　）
A．①②　　B．②④　　C．②③　　D．①③

6．除了铺设透水砖以外，下列哪些做法对改善北京城市生态环境有直接影响　（　）
A．提高水的重复利用率
B．推广使用清洁能源
C．扩大郊区发展花卉、蔬菜的生产规模
D．在城近郊区大力发展旅游业

图2为某群岛示意图，此季节该群岛北侧附近的洋流流向是自西向东，M线为晨昏线，此时北京为某月10日，读图回答7～9题。

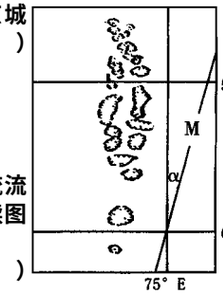

图2

7．此时格林尼治的地方时为　（　）
A．9日23时　　B．10日1时
C．9日13时　　D．10日13时

8．当图中α夹角为20°时，下列叙述正确的是　（　）
A．南极圈上出现极夜现象　　B．此时北京的正午太阳高度是30°06′
C．北半球各地昼长正逐渐加大　　D．该地区正午时物体的影子朝南

9．危及到该群岛国家经济发展和生存的主要环境问题是　（　）
A．地震　　B．全球性气候变暖
C．泥石流、滑坡　　D．海洋环境污染

读图3，回答10、11题。

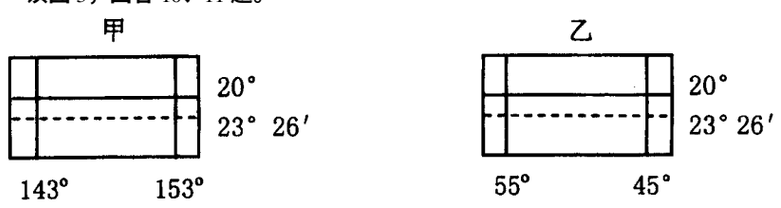

图3

10．甲乙两区域所在国自然地理特征相似的是
①都是所在大洲面积最大、人口最多的国家　②都位于板块内部，地壳较稳定　③都有大面积的沙漠分布　④首都都是单一政治职能的城市　⑤人口都集中分布在沿海　⑥都有丰富的铁矿资源　（　）
A．①④　　B．②⑥　　C．③⑤　　D．③⑥

11．当北京为一年中雨量最多的季节时，下列叙述正确的是　（　）
A．甲区域所在国的西南沿海也正处在雨季
B．乙区域所在国东部地区盛行东北季风
C．甲区域所在国正值小麦播种季节
D．乙区域所在国的最大河流正值枯水期

环境与可持续发展是现代经济发展战略所关注的一个重要问题。历史上的经验教训也很值得借鉴。回答12～15题。

12．关中地区曾是我国古代政治和经济中心区域。后来，由于资源的枯竭和环境恶化而丧失其重要地位，中国的统治中心迁离此区域是在　（　）
A．汉末三国的战乱时期　　B．唐朝前期盛世局面结束时
C．唐朝灭亡后的战乱时期　　D．朱元璋在长江流域建都时

13．江南开发是我国古代经济的一个重要增长点。下列各项与江南地区持续开发不相关的是　（　）
A．西汉时期西域作物的引进　　B．隋朝开凿大运河
C．宋朝时北方作物向南方传播　　D．靖康之变宋室南迁

14．清朝康乾盛世，对于山区、海滩、北方边疆地区土地进一步开垦，使当时全国耕地数额超过此前任何一个时期。以下对这种现象的认识，正确的是　（　）
A．为商品经济的发展提供了广阔市场和原料
B．是我国农耕经济不断发展进步的主要体现
C．加速了自然环境的破坏和资源枯竭的过程
D．是我国封建经济逐渐走向衰落的重要原因

15．西方国家的长期殖民统治不利于广大亚非拉国家近代经济的全面发展，造成穷困和落后，主要的相关因素有
①经济结构的单一化　②劳动力的大量流失　③阻碍了近代生产方式的传播　④自然资源被掠夺　（　）
A．①②③　　B．②③④　　C．①③④　　D．①②④

客观评价历史人物的功过，是历史科学的一项重要任务。回答16～19题。

16．秦始皇对于中国古代的政治、经济和文化有极其重大的影响，以下对于秦始皇的评价，不正确的是　（　）
A．完成了统一，使人民生活安定，经济发展繁荣
B．建立了中央集权的国家制度，对中国封建社会的政治制度产生了重大影响
C．统一了度量衡、货币、文字，有利于全国经济、文化的交流
D．结束了长期诸侯割据称雄的局面

17．以下对于康熙皇帝历史功过的认识，正确的是
①捍卫了国家主权和领土完整　②打击分裂割据势力维护统一　③赋税和土地政策有利于经济发展　④实行文化专制政策　（　）
A．①②③　　B．①②④　　C．①③④　　D．①②③④

18．拿破仑在近代欧洲历史上具有极大的影响，以下对拿破仑的评价正确的是　（　）
A．重建君主制度导致大革命成果付之东流
B．对于近代法律制度的建设做出重大贡献
C．发动侵略战争阻碍各国人民反封建斗争
D．宣扬“民族主义”造成欧洲国家的分裂

19．康有为对中国近代社会政治变革产生的影响是　（　）
A．率先提出实行君主立宪制的政治主张
B．批判封建统治者恪守祖训的腐朽思想
C．提倡西学，全盘否定传统儒家思想道德
D．反对共和革命，维护清朝封建专制统治

全球化是当今世界发展的一个重要趋势。有的学者认为：“从1492年哥伦布远航美洲使东西两半球会合之日起，全球化过程已经开始了”。回答20～23题。

20．新航路开辟时，正值中国明朝时期。新航路的开辟对当时中国的影响是　（　）
A．加强了中国与世界各地的贸易联系
B．西方国家开始从中国大量掠夺白银
C．西方殖民者开始骚扰东南沿海地区
D．中国闭关锁国的状态遭受严重冲击

21．资本主义世界体系初步形成的重要推动力是　（　）
A．地理大发现　　B．工业革命
C．垄断组织的形成　　D．跨国公司的出现

22．韩国和新加坡是第二次世界大战后迅速实现现代化的工业国家，其共同原因是
①发展外向型经济，参与国际竞争　②实现国民经济非军事化节省开支　③建立平等互利的国际经济新秩序　④根据国际经济形势调整发展战略　（　）
A．①④　　B．①③④　　C．①③　　D．②③④

23．联合国开发计划署1999年度《人类发展报告》指出：“迄今为止的全球化是不平衡的，它加深了穷国和富国、穷人和富人的鸿沟。”我国学者认为：“西方是经济全球化最大的赢家，第三世界却可悲地扮演着输家的角色。”发展中国家在参与经济全球化的过程中受到主要按西方国家意志制定的国际规则和国际惯例的影响和制约。但是，发展中国家无法选择逃避，毕竟全球化能够提供发展的机遇。以下各项，对于上述材料认识正确的是
①经济全球化过程加剧了社会的贫富分化　②经济区域集团化阻碍了全球化的实现　③经济全球化加强了西方国家的经济优势　④发展中国家必须全面实现西方化　（　）
A．①②③　　B．②③④　　C．②④　　D．①③

近期出台的《中国共产党党内监督条例》，是我党成立83年来的第一部自我监督条例。据此回答24、25题。

24.《条例》的出台
①是贯彻党要管党，从严治党方针的体现　②表明党内民主建设不断完善　③表明党对国家的政治领导　④是党维护政治统治和政治稳定职能的体现　（　）
A．①　B．①②　C．①②③　D．①②③④

25.《条例》的出台，标志着我党反腐工作已由被动防御转向主动预防，由权力反腐为主转向制度反腐为主，由事后处理转向事前制约，这一变化说明了　（　）
A．感性认识要上升到理性认识　B．正确认识对实践有指导作用
C．科学理论在实践中不断完善　D．认识是实践发展的根本动力

安徽省原副省长王怀忠因腐败在被依法执行死刑前，谈到他的三点感触：一是中国共产党确实是真反腐败；二是要想人不知，除非己莫为；三是职位再高，只要犯了罪都要被依法严惩。据此回答 26～28 题。

26．王怀忠等腐败分子被严惩，表明我党加强党风廉政建设和反腐败的决心和信心。推进党的作风建设的根本目标是　（　）
A．保持党同人民群众的血肉联系　B．从源头上预防腐败问题
C．立党为公、执政为民　D．保持党的先进性

27．“要想人不知，除非己莫为”体现了　（　）
A．内因是事物变化发展的动力　B．外因是事物变化发展的必要条件
C．物质决定意识，意识是物质的反映　D．要透过现象看本质

28．“职位再高，只要犯了罪都要被依法严惩”这说明　（　）
A．对犯罪分子要加大处罚力度
B．公民在法律面前一律平等
C．司法机关要严格立法、公正司法
D．依法治国是党领导人民治理国家的基本方略

2003 年～2004 年岁农年初的两个月来，根据国务院的部署，各有关方面迅速行动，积极采取措施清理拖欠建设工程款和农民工工资。截至目前，2003 年发生的欠款已兑付 89%。然而，不签定劳动合同、虚假劳动合同、无效劳动合同等，也使一部分农民工利益受损，给清理工作带来很大困难。据此回答 29、30 题。

29．拖欠行为
①扰乱了市场经济秩序　②侵害劳动者取得劳动报酬的权利　③违背了诚实信用原则　④侵害劳动者平等就业的权利　（　）
A．①　B．①②　C．①②③　D．①②③④

30．订立劳动合同最基本、最重要的原则是　（　）
A．平等自愿　B．不得违反法律、行政法规规定
C．协商一致　D．等价交换

31．目前，火星上有水已成定论。但受条件的限制，对于“水在火星表面为什么消失了，又跑到哪里去了？”等问题还无结论。正如恩格斯所言：“我们只能在我们时代的条件下进行认识，而且这些条件达到什么程度，我们便认识到什么程度。”这说明　（　）
A．客观条件会妨碍人的主观能动性的发挥
B．认识客观事物必须充分发挥主观能动性
C．人类的认识是有限的
D．人的认识能力受客观条件的制约

32．下列成语、俗语与有关哲理对应恰当的是
①满招损，谦受益——矛盾双方在一定条件下相互转化　②路遥知马力，日久见人心——实践决定认识　③仁者见仁，智者见智——意识对物质有反作用　④不积跬步，无以致千里——量变与质变的辩证关系　（　）
A．①②③　B．①②④　C．②③④　D．①③④

“有信路路畅通，无信步步难行”。《中国社会信用体系建设发展纲要》日前已报送国务院，我国将用五年时间建成覆盖全国的社会信用体系。据此回答 33、34 题。

33．这表明我国政府_____的职能。　（　）
A．参与经济活动　B．维护国家安全
C．协调各方利益　D．实施市场监管、社会管理

34．“有信路路畅通，无信步步难行”是因为　（　）
A．诚信属于社会意识，是对社会存在的反映
B．意识对事物的发展具有反作用
C．事物是对立统一的
D．诚信是市场经济的一般特征

35．中国海关提供的最新统计数字显示，2003 年中美双边贸易额首次突破千亿，达到 1263 亿美元。其中，中国从美国进口额约 338.6 亿美元，出口额约 924.7 亿美元。这表明 2003 年中国对美国的贸易情况为_____，发展中美贸易_____。　（　）
A．顺差　可以实现资源的优化配置
B．逆差　可以促进我国企业提高劳动生产率
C．顺差　表明两国的国家利益是一致的
D．逆差　有利于我国引进先进的科学技术

第Ⅱ卷（非选择题，共 160 分）

二、非选择题。本大题共 5 小题，共 160 分

36．读图 4“我国某地区年降水量分布图”，回答下列问题。（共 31 分）

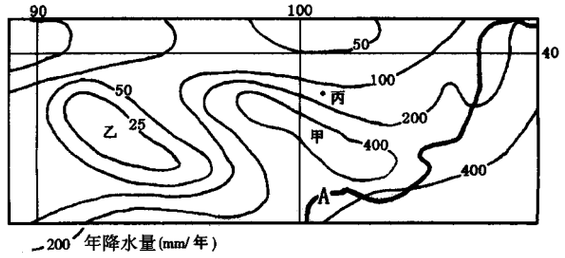

图 4

（1）图中等降水量线数值递变的趋势，可以反映出我国年降水量具有_____的分布规律。甲地的年降水量____（大于或小于）400mm，请解释其原因。（10 分）

（2）关于图中河流在 A 段水文特征的叙述，正确的是____（选择填空）。（4 分）
①泥沙含量大　②水流湍急　③有结冰期　④有凌汛现象　⑤水位季节变化小
A．①③　B．②④　C．②③　D．④⑤

（3）乙地的地形区名称是_____，请说出判断理由（根据图中信息回答）。（9 分）

（4）丙地区充分利用资源优势发展葡萄种植业，使之成为了我国最佳的优质酿酒葡萄生态产区之一。请对丙地区发展葡萄生产的优势自然条件进行评价。（8 分）

37．美国学者托马斯·K·麦格劳在《现代资本主义：三次工业革命中的成功者》一书中写道：“直到大约 17 世纪，经济发展的停滞不前似乎是自然而然的”；“工业革命的来临和现代资本主义的产生结束了经济长期停滞的局面”。工业革命促进了资本主义经济突飞猛进的发展，也对传统中国的生存与发展提出了严峻的挑战。（共 33 分）

结合所学知识，回答以下问题。

（1）在 18～19 世纪英国工业革命期间，中国社会经济状况如何？这次工业革命给中国带来什么影响？（12 分）

（2）从 19 世纪后期到 20 世纪初，发生了第二次工业革命。在此期间，中国工业的发展状况如何？中国是否把握住了这次工业革命的机遇？分析其原因。（8 分）

（3）20 世纪的中期和后期，进行了第三次工业革命。概述新中国工业在应对挑战和把握机遇方面的成就与失误。（13 分）

38．阅读材料回答：（共 26 分）

材料一：去年，粮食主产区安徽某地作为粮改“直补”的首批试点，把过去投入到流通环节的补贴直接发放到粮农手中，变“暗补”为“直补”。一方面，保护种粮农民的利益，调动了农民积极性，多种粮，种好粮；另一方面，促进粮食流通体制的改革。“直补”试行以来，农民反映“收入增了，市场活了，心气顺了。”

材料二：随着北京二、三产业的快速发展和城市规模急速扩张，占用农业用地成为必然趋势。如何确保“农民失地不失业”就成为北京解决三农问题的新课题。丰台区某村结合本村实际，在政府有关部门的积极协调下，与北京市巴士公司合作，把七、八条公交线路直接引进村，使该地成为丰台区的一个交通枢纽，不仅解决了村民的就业问题，而且盘活了地区经济。该村的农民人均收入提高了六百多元，也大大提高了该地区的城镇化水平。

材料三：党中央、国务院 2004 年一号文件把农村经济工作的基本目标确定为促进农民增收，体现了党和政府在解决三农问题上的科学发展观。

（1）材料一、二分别说明了什么？（4 分）
（2）运用哲学常识分析说明材料一、二是如何解决农民增收问题的？（12 分）
（3）结合政治常识，谈谈党和政府为什么高度重视农民增收问题？（4 分）
（4）科学发展观的基本内涵是什么，材料中如何体现了科学的发展观？（6 分）

39．石油是对现代社会和经济影响至关重大的重要能源，现代国际关系的一些重大事件就是围绕着石油问题产生的，石油资源也在很大程度上关系着国家的安全。（共 32 分）

回答下列问题。

（1）结合相关历史知识回答，石油作为一种重要的能源其地位是何时确立的，为什么？（4 分）

（2）说明图 5 中所示区域内石油最主要的分布地区及其在世界上的地位。（5 分）

（3）简述石油形成的一般地质年代和地质分布规律。（4 分）

（4）西方国家力图控制第三世界国家的石油资源。依据第二次世界大战后的史实，说明产油国是如何与西方国家进行斗争的？影响如何？（6 分）

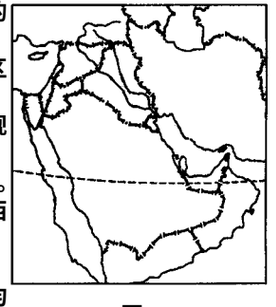

图 5

据统计，我国石油、天然气等重要矿产资源的人均储量分别只占世界人均水平的 8.3%、4.1%，去年我国消耗的原油约 34%依靠进口；同时，GDP 每新增一元钱所消耗的资源是日本的 13 倍；此外，我国资源循环利用率也远低于发达国家，例如水资源循环利用率比发达国家低 50%以上。

（5）上述材料反映了什么问题？联系哲学常识谈谈应如何解决？（13 分）

40．长江中下游地区自然条件优越，自然资源丰富，经济发达，其经济在全国具有举足轻重的地位。（共 38 分）

回答下列问题。

（1）长江中下游地区自古以来就是我国商品经济发达地区。概括明朝时期这一地区工商业城市的三种主要类型，并各举出一个城市为例。（9 分）

（2）读图 6“长江中下游地区城市分布图”，据图分析该地区工业城市分布的突出特点，列举出图中长江沿岸的主要钢铁工业中心。（4 分）

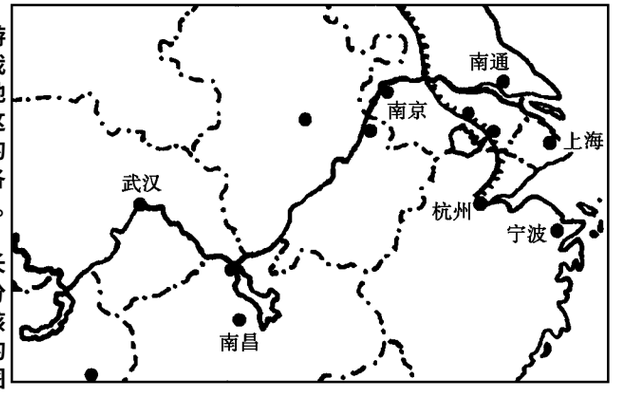

图 6

（3）长江三角洲工业生产居全国重要地位。从地理学科角度分析该地区工业发展的区位优势以及工业发展的主要制约性因素。（12 分）

（4）阅读以下材料：

非典灾难给我国不少地区企业的发展带来巨大冲击，但长江三角洲地区很多企业却能从容应对。例如，某企业从生产机器故障诊断仪，迅速变为生产快速测温计；某企业着重抓好职工和干部的培训，以人才激励机制、立信机制、危机管理机制应对瞬息万变的市场；某企业面对萎缩的国内市场，积极开拓国外市场，接下大量出口订单，营销模式也从行销、坐销变为网络营销，尝到了网络经济的甜头。

①结合经济常识有关知识，谈谈长江三角洲地区企业成功的经验有哪些？（10 分）
②如何应对近年来时有发生的重大突发公共安全事件，请你为政府出谋划策。（3 分）

浙江省高三第一次教学质量检测 4A

文 科 综 合

本试卷分第Ⅰ卷（选择题）和第Ⅱ卷（非选择题）两部分。满分300分。时间150分钟。

第Ⅰ卷（选择题，共140分）

本卷共35小题，每小题4分，共计140分。在每小题列的四个选项中，只有一项是最符合题目要求的

读我国某地地形剖面图，根据图中信息判断1～3题。

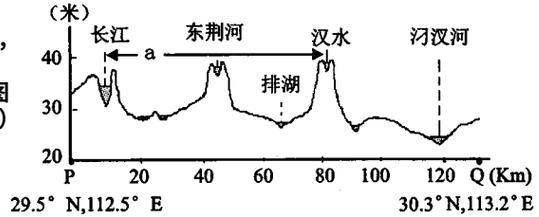

1．图中沿PQ地形剖面图的走向是（　　）
A．西南—东北走向
B．东南—西北走向
C．东西走向
D．南北走向

2．下列各组为图中a地形区主要农作物的是（　　）
A．水稻、玉米、毛竹　　B．水稻、棉花、油菜
C．小麦、甘蔗、毛竹　　D．甘蔗、小麦、油菜

3．长江三峡水库建成后（　　）
A．可缓解图示a地区的洪涝灾害
B．将导致图示地区河湖水位上升，淹没良田
C．可缓解图示地区夏季炎热的天气
D．使图示地区水资源总量大增，有利于农业生产

右图是我国大陆某种工业大中型企业的分布情况，读图并结合所学地理原理回答4、5题。

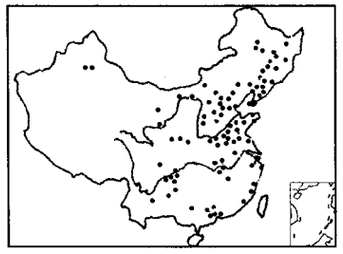

4．影响该工业布局的主要区位因素是（　　）
A．资源　　B．技术
C．市场　　D．动力

5．该工业最有可能是（　　）
A．汽车制造工业　B．酒类饮料制造工业
C．高档时装工业　D．电力工业

R先生到海南岛旅游，天还没亮他就来到海边等待日出，6点整（北京时间）只见如盘红日从东方地平线喷薄而出，其景观令人振奋。而此时R先生的家乡太阳高度达一日中最大。据此回答6、7题。

6．若下图中O点与R先生观日地点处在同一经线，则下列日照图中晨昏线位置正确的是（　　）

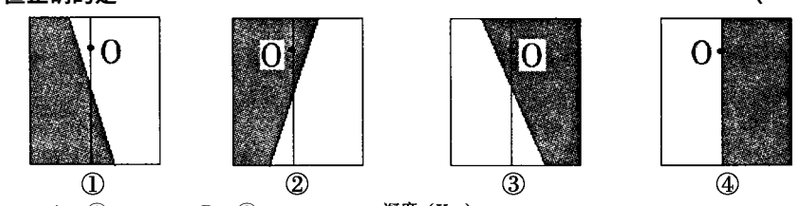

A．①　　B．②
C．③　　D．④

7．R先生的家乡可能在（　　）
A．新加坡　　B．亚平宁半岛
C．悉尼　　D．阿拉斯加半岛

读沿20°W所作的海洋剖面等盐度（‰）线分布简图，判断8～10题。

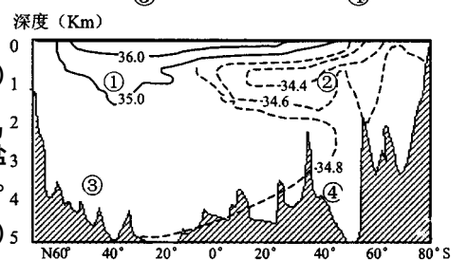

8．图中四地点，盐度最低的是（　　）
A．①　　B．②　　C．③　　D．④

9．①点盐度比同一深度南北两侧高的主要原因是（　　）
A．地处副热带海区，蒸发旺盛　　B．地处海盆，盐类物质下沉
C．受地中海底层海水外流影响　　D．受红海海底层海水外流影响

10．下列洋流中流经该剖面表层的是（　　）
A．阿拉斯加暖流　　B．北大西洋暖流
C．东澳大利亚暖流　　D．加利福尼亚寒流

封建专制主义中央集权制度，一方面促进了统一的多民族国家巩固与发展；另一方面存在自身无法克服、解决的问题。据此回答11、12题。

11．中国封建社会中，封建统治者为了加强对官吏的控制，建立了一套较为严密的监察制度或完备机构。下列制度或机构中具备监察职能的有
①御史大夫　②刺史制度　③提刑按察使司　④军机处（　　）
A．①②③④　　B．②③④　　C．①②③　　D．①③④

12．明清时期，中央政府为了加强对西部边疆地区管理而采取的措施有
①僧官制度　②册封制度　③改土归流　④设置台湾府（　　）
A．①②③　　B．②③④　　C．①②③④　　D．①②④

中国的对外关系，经历了由开放到闭关，由被迫开放到主动开放的过程。据此回答13～15题。

13．以下各项中，不属于明清时期中外关系新现象的是（　　）
A．西方传教士来华带来新的科学技术　B．政府几度实施海禁
C．禁绝中国对外贸易　　D．外国侵略势力对我国形成威胁

14．19世纪60年代以后中国的丝茶大量出口，出现这种情况的根本原因是（　　）
A．西方资本主义市场开放　　B．中国的商品经济发达，对外开放
C．中国丝茶质优价低　　D．中国经济被卷入资本主义世界市场

15．十一届三中全会以后，我国实行对外开放的目的是（　　）
A．学习发达国家的先进技术　　B．发展社会主义经济
C．学习发达国家的管理经验　　D．扩大对外贸易吸引外资

19世纪末20世纪初，清政府统治风雨飘摇。辛亥革命爆发，中国社会发生大动荡大变化。据此回答16～18题。

16．19世纪末20世纪初，康有为、梁启超的政治主张是（　　）
A．要求维护清朝专制统治　　B．反对进行社会变革
C．由进步走向反动　　D．要求发展资本主义工商业

17．辛亥革命后，孙中山颁布《中华民国临时约法》，反映出当时资产阶级革命派的心态是（　　）
A．革命失败了，因为胜利果实落入了袁世凯手中
B．革命失败了，但对袁世凯抱有幻想
C．革命胜利了，因为建立了资产阶级共和国
D．革命胜利了，但对袁世凯不信任

18．1947年，刘邓大军千里跃进大别山，揭开了战略反攻的序幕。战略反攻的意图是（　　）
A．与敌人主力进行决战　　B．全面扩大解放区
C．由内线作战转向外线作战　　D．彻底粉碎国民党的全面进攻

19．以下各项中，对20世纪初中国社会状况的分析，不正确的是（　　）
A．两大社会主要矛盾趋于合流　　B．新文化运动成为群众性的政治运动
C．实业救国逐渐成为一种社会思潮　D．民主共和观念深入人心

19世纪末20世纪初，世界各主要资本主义国家进入帝国主义阶段。据此回答20、21题。

20．19世纪末，美国工业化发展迅猛，社会相对稳定，其原因是（　　）
A．通过海外贸易、殖民掠夺，积累了丰富的资本
B．种族歧视的现象被从法律上消除了
C．工场手工业发达，积累了丰富的生产技术
D．北方赢得了内战的胜利，维护了国家的统一

21．经过明治维新，日本发展成为亚洲第一个工业化国家，同时走上军国主义道路，大肆侵略扩张，这是因为（　　）
A．国家保护并优先发展军事工业
B．日本政府制定了外向型的经济发展战略
C．日本建立了带有强烈封建性和军事性的政治体制
D．政府把大量国营企业优惠或无偿转让给享有特权的资本家

运用“一国两制”思想处理国家事务，可以很好地解决国内存在的一些矛盾。据此回答22、23题。

22．古代中国地域辽阔，民族众多，各地政治经济发展很不平衡，因此，有些统治者采用“一国两制”甚至一国多制的办法进行治理。下列体制具有“一国两制”性质的是（　　）
A．金的猛安谋克制　　B．契丹的南面官北面官制
C．元朝的行省制　　D．后金的八旗制

23．20世纪九十年代后期，根据“一国两制”的方针，我国在香港和澳门设立了特别行政区，这使我国的国家结构形式（　　）
A．发生了变化，由原来的单一制变为复合制
B．保持不变，仍然是单一制的国家
C．发生了明显的变化，由复合制变为联邦制
D．保持不变，但是特区享有外交和行政大权

2003年底，一股禽流感风暴先后袭击了从泰国、越南、韩国到中国等亚洲数个国家和地区。据此回答24～26题。

24．面对突如其来的禽流感风暴，党中央、国务院高度重视，强调要千方百计地做好预防工作，始终要把人民的生命健康放在第一位。材料表明
①人民群众是党的执政之基、力量之源　②我国国家机关坚持对人民负责的原则　③党始终保持同人民群众的血肉联系　④党中央履行社会公共服务职能（　　）
A．①②③　　B．①②④　　C．②③④　　D．①③④

25．据媒体报道，随着禽流感的扩散，肯德基在亚洲设有的3000多家分店中有一半左右的营业额开始直线下降。从哲学角度看，这体现了（　　）
A．事物之间的联系是普遍的、无条件的　B．人们可以消灭有害于人类的联系
C．全局和局部是相互联系，不可分割的　D．事物之间存在着因果联系

26．在禽流感威胁下，香港社会开始改变不利于保障生命健康的饮食和风俗习惯。这主要说明（　　）
A．社会存在决定社会意识　　B．认识对实践有反作用
C．价值观对社会发展有决定作用　D．外因是事物变化发展的条件

27．浙江温州在一场政府自身改革中，共辞退机关工作人员29人，撤职或降级、降职29人，行政告诫90人，此外还有260多人被通报批评。这场“效能革命”让那些在机关里滥竽充数的官员们再也混不下去了。这说明了
①推行“效能革命”目的是为了建立长效的管理机制　②推行“效能革命”旨在提高机关效率、改进政府服务　③当地政府高度重视、积极开展反腐倡廉工作　④当地政府认真践行“三个代表”重要思想（　　）
A．①②　　B．③④　　C．①②④　　D．②③④

改革开放以来，浙江商人这一独具风采的群体，正成为全国人民眼中创造财富的榜样。据此回答28、29题。

28．“哪里有市场，哪里就有浙商”；“哪里有浙商，哪里就有市场”。这说明市场主体要
①研究市场变化规律　②努力提高自身素质　③转变经济增长方式　④想办法不断创造需求（　　）
A．①②　　B．②③　　C．①②④　　D．①③④

29．浙江商人奋发向上的精神风貌为浙江的改革和发展注入了新的生机和活力。这从哲学上看，体现了（　　）
A．在一定条件下，意识能够决定物质
B．想问题、办事情必须从客观实际出发
C．内因是事物变化发展的惟一原因
D．正确的意识能够促进客观事物的发展

30．在杭州湾跨海大桥建设中，宋城集团领衔的浙江民营企业出资额达到注册资本的一半以上，杭州湾大桥也因此成为全国第一例民企“控股”特大型基础设施项目。对此，下列说法正确的是
①民营经济在国民经济中已发挥了主导作用　②浙江民间投资的活力和实力又上了新的台阶　③投资主体的多元化符合市场经济发展要求　④非公有制经济是社会主义市场经济的重要组成部分（　　）
A．①②③　　B．①③④　　C．②③④　　D．①②④

31．2003年下半年以来，以美、日为首的少数国家纷纷要求人民币升值。对此，中国政府明确强调：中国将保持人民币汇率基本稳定。保持人民币汇率基本稳定，是因为
①经济安全是整个国家安全的重要组成部分　②中国在汇率问题上历来是既独立自主，又高度负责　③汇率稳定有利于我国当前经济的健康发展　④汇率稳定能从根本上杜绝国际投机资本流动（　　）
A．①②③　　B．①③④　　C．①②④　　D．②③④

李白有一首脍炙人口的《静夜思》，“床前明月光，疑是地上霜。举头望明月，低头思故乡。”而今有人说“床前”不好，应该改成“窗前”。其实，李白所说的床，并不是人睡觉用的寝具，而是水井边上的一圈栏杆。（辞典上注释：床，井上围栏，“后园凿井银作床，金瓶素绠汲寒浆”）据此回答32、33题。

32．材料告诉我们一个道理 （ ）
A．人们对客观事物的看法受其世界观影响
B．对同一事物，人们的认识不可能统一
C．事物的多样性决定了人们思维的复杂性
D．人的思维可以改变客观对象本身

33．有人将诗中的“床”理解为寝具 （ ）
A．是对认识的发展 B．犯了经验主义错误
C．犯了教条主义错误 D．不是对事实的反映

2003年，全国共有22个省（市、自治区）出现了拉闸限电现象，在一定程度上影响了经济发展和人民生活。据此回答34、35题。

34．上述现象表明，我国 （ ）
A．电力企业的社会劳动生产率逐步下降
B．国家宏观调控的力度不够大
C．各地经济发展还很不平衡
D．电力电量出现了一定程度的供不应求

35．下列措施对解决浙江今后电力紧缺问题可行的是
①在沿海发展核电厂 ②大力发展小水电 ③利用“西气东输”工程发展火电工业 ④调整本省的工业结构，发展新兴工业 （ ）
A．① B．①② C．①②③ D．①②③④

第Ⅱ卷（非选择题，共160分）

本卷共5题，160分。

36．（18分）读某区域及该区域国家某种农作物产量比重示意图，回答：

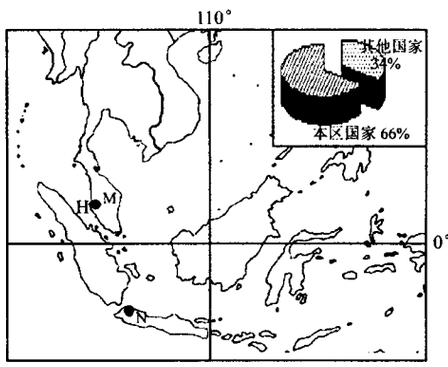

（1）图中H是著名的_____海峡；按六大板块划分，它位于_____板块；自西向东通过该海峡的主要运输货物是_____。（6分）

（2）图中所示产量比重的农作物，最有可能是（2分） （ ）
A．稻谷 B．天然橡胶
C．黄麻 D．荔枝
该地区广泛种植上述农作物的有利条件是：（2分）
_____。

（3）20世纪80年代以来，一些跨国公司将汽车零部件、电子装配等生产企业转到M和N市生产加工，其考虑的主要因素是①_____；②_____。（4分）

（4）为缓解H海峡的运输压力，有人提出在本区域内修筑运河，你认为修在图中何处较合理，用“=”注出，并说明理由。（4分）

37．（37分）阅读材料，结合所学知识回答问题
材料一：东北及邻近地区略图

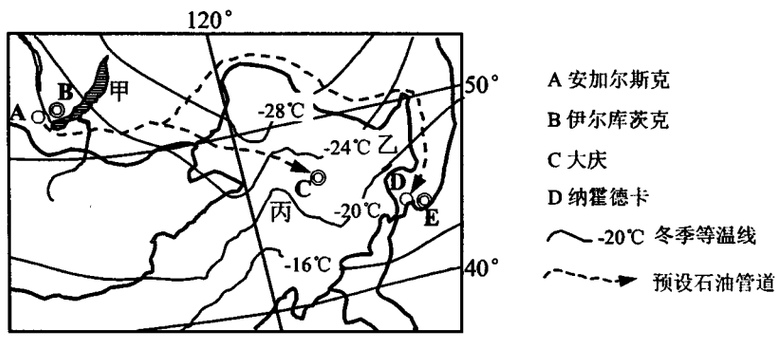

材料二：中俄能源合作由来已久，早在1994年，中俄双方就提出铺设“安大管线”（图中A至C线）的合作意向，2002年9月，俄中两国总理签署了该项目的“可行性研究总协议”。但是，2002年下半年，日本开始插手该地区石油管道项目，而后提出铺设“安纳管线”（图中A至D线），日本政府为此施展“金元外交”，使该问题显得尤为复杂。直至2004年3月，俄罗斯国营石油运输公司宣布确定新的方案：计划修建两条管道，一条通往纳霍德卡，另一条分管道通往中国，并将此方案呈报政府。

材料三：振兴东北是中国“新世纪新的发展阶段中重大而紧迫的任务”。东北老工业基地既体现了计划经济的辉煌，也集中了计划体制的所有弊端。东北三省依然面临着国有企业历史包袱沉重，就业压力大，资源型城市转型压力以及国有企业比重过大，市场化程度过低几个最为突出的困难和问题。

（1）图中甲湖泊为_____（咸水或淡水）湖，其主要补给来源是_____和_____。（6分）

（2）在图中适当位置上用“=”图例画出大兴安岭。（2分）

（3）分析图中丙处等温线向北凸的原因_____。（4分）

（4）图中乙处为_____平原，其农业地域类型是_____；该地发展该类农业的主要有利区位因素是_____。（8分）

（5）试用政治常识分析中、日、俄在输油管线的铺设上产生分歧的原因。（8分）

（6）针对材料三中东北经济发展所面临的困难，请你为振兴东北经济提些建议。（9分）

38．（28分）阅读以下材料

材料一：资产阶级，由于一场生产工具的迅速改进，由于交通的极其便利，把一切民族甚至最野蛮的民族都卷进文明中来了。它的商品的低廉价格，是它用来摧毁一切万里长城、征服野蛮人最顽强抵抗的仇外心理的重炮，它迫使一切民族——如果它们不想灭亡的话——采用资产阶级的生产方式……它按照自己的面貌为自己创造出一个世界。

——马克思、恩格斯《共产党宣言》

材料二：英国在印度斯坦造成社会革命完全是受极卑鄙的利益所驱使，而且谋取这些利益的方式也很愚蠢。……英国不管干了多少罪行，它造成这个革命毕竟是充当了历史的不自觉的工具。

——马克思《不列颠在印度的统治》

材料三：英国在印度要完成双重的使命：一个是破坏的革命，即消灭旧式的亚洲式的社会；另一个是重建的使命，即在亚洲为西方式的社会奠定物质基础。

——马克思《不列颠在印度统治的未来结果》

请回答：

（1）上述马克思、恩格斯的论述反映哪一时期西方列强的殖民侵略？（2分） （ ）
A．新航路开辟后的殖民掠夺
B．19世纪早期到中期的殖民扩张
C．19世纪末20世纪初的瓜分世界
D．第二次世界大战后的殖民侵略

（2）试用“进步”与“正义”两条标准评价列强在新航路开辟后的殖民掠夺。（4分）

（3）在历史学界，人们看待历史人物或事件，常倾向于用“进步”和“正义”两条标准进行评价。除了上述各阶段西方列强的殖民侵略外，请你再从中国古代历史和世界历史中各举一例并说明是如何用这两条标准进行评价的。（12分）

（4）根据材料，结合鸦片战争的历史背景和影响，谈谈我们应该怎样全面正确地评价英国发动的这场战争。（10分）

39．（40分）

（ⅰ）（16分）党的十六大提出了全面建设小康社会的总体目标，就农村而言，最根本的就是统筹城乡经济社会发展，建设现代农业，发展农村经济，增加农民收入，这是全面建设小康社会的重中之重。

近几年来农民进城就业的环境依然严峻，特别是拖欠和克扣农民工工资现象比较严重，这引起了党和政府的高度重视，先后采取了一系列措施，维护了进城务工农民的合法权益。

（1）解决“三农”问题，需要统筹城乡经济发展，“统筹城乡社会经济发展”的思路体现了什么哲理？（8分）

（2）拖欠和克扣农民工工资侵犯了农民工的那项合法权益？违背了哪些经济学道理？试分析其危害性。（8分）

（ⅱ）（24分）阅读材料，回答问题。

材料一：二战后初期，印度人民掀起了民族解放运动的新高潮。英国殖民政府改变殖民政策，推行“分而治之”方针，把印度分为印度教徒的印度和穆斯林的巴基斯坦两个自治领。1947年8月，印度和巴基斯坦分别独立。然而，印巴自分治以来开始了半个多世纪的时断时续的战争噩梦。印巴之间的矛盾概括起来可分为三个方面：克什米尔问题、恒河河水问题和东巴（今孟加拉国）问题，尤其克什米尔争端，可以说是两国之间的“死结”。自分治以来先后爆发了两场全面战争。1999年5月以来，两国之间冲突与争吵愈演愈烈。两国为了取得军事优势展开了军备竞赛，多次进行核实验和导弹试射，引起国际社会强烈担忧。2004年初，巴基斯坦核弹之父卡迪尔·汗因为核泄密公开向国人道歉更引起了国际社会普遍关注。

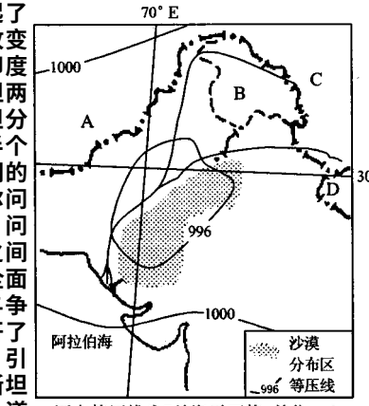

图中等压线为7月海平面值，单位：mb

材料二：印度基本情况表（2002－2003年度）

项　目	数　目	世界地位
每年荒漠化面积（公顷）	60多万	居世界第五位
人口（人）	10.5亿	居世界第二位
国民生产总值（美元）	4586亿	居世界第十一位
人均国民生产总值（美元）	430	居世界第一百位之后
国民科技人数比例	3229人（每百万人口）	居世界第三位
陆海空三军总人数（人）	125.5万	居世界第四位
宗教	印度教82.6%穆斯林教11.4%	

（4）根据图中等压线分布，印度河流域的中下游地区7月在_____（高或低）气压的控制下，天气特点是炎热少雨。试分析形成这种天气特点的特殊原因。（4分）

（5）克什米尔地区是图中A、B、C、D中的_____。（2分）

（6）分析材料一、二并结合所学知识，概括说明造成印巴之间纷争的原因有哪些？（3分）请你谈谈应当如何解决国与国之间的历史遗留问题？（5分）

（7）目前印度IT（信息技术）产业发展迅速，具有相当的国际竞争力，是世界公认的最大的软件生产国。但是，该国依然是一个经济发展相对缓慢的发展中国家。试分析制约该国经济发展的主要因素有哪些？（6分）

（8）试分析印度土地荒漠化严重的主要原因。（4分）

40．（37分）浩渺深遂的宇宙，带给人无限的遐想，激发着人类探索未知世界的欲望。近些年来，随着航天技术的发展，人类在探索宇宙空间的道路上，又向前迈出了重要的一步。回答下列问题：

（1）中国自古以来就在研究和探索宇宙的奥秘，中国古代天文学成就辉煌一时。请举出中国东汉及以前我国天文学领域的世界最早成就。（至少三项。3分）

（2）1999年我国第一艘“神舟”号宇宙试验飞船安全返回，为我国载人宇宙飞船奠定基础。

①我国成功地把第一颗人造地球卫星送入太空是在（2分） （ ）
A．一五计划时期 B．十年探索时期 C．十年文革时期 D．改革开放时期

②试说明改革开放以后我国在航天领域取得重大成就的原因。（5分）

（3）北京时间2004年1月25日13时5分10秒，美国宇航局“机遇”号火星车第一次撞击火星表面。其探测使命初定为90个火星日（火星自转360°周期为24小时37分）。

①“机遇”号火星车完成初定探测使命时，其发射地洛杉矶（约118°W，34°N）的区时为_____时_____分_____秒。“机遇”号连续两次看到日落的时间间隔_____（大于、等于、小于）24小时37分。（4分）

②“机遇”号探测期间，我国华北地区可能发生的气象灾害有哪些？_____。（4分）

（4）近年来我国先后发射了“神舟”系列飞船，实现了载人航天的突破；我国今年将正式启动月球探测“嫦娥工程”，在不远的将来，中国的航天员将实现“嫦娥奔月”的梦想。

用所学的政治常识说明我国航天科技发展的重大意义。（9分）

（5）在探索宇宙空间的道路上，人类的挑战充满了艰辛曲折。前苏联“联盟”号飞船的坠毁，美国的“挑战者”号和“哥伦比亚”号航天飞机的两次失事，都造成了巨大的损失，但是，这都没有动摇人类进一步探求未知世界的信念。

20世纪以来人类探索宇宙空间的历程对我们有什么哲学启示？（10分）

浙江省高三第二次教学质量检测　5A

文 科 综 合

本试卷分第Ⅰ卷（选择题）和第Ⅱ卷（非选择题）两部分，满分300分。考试时间150分钟。

第Ⅰ卷（选择题，共140分）

一、本卷共35小题，每小题4分，共计140分。在每小题列的四个选项中，只有一项是最符合题目要求的

统计数据显示，三峡工程竣工后，三峡库区将搬迁移民113万人，其中非农业人口占57%。据此判断1～3题。

1．三峡库区位于我国　（　）
A．地势的第三阶梯　B．长江中游地区
C．湖北省和重庆市　D．洞庭湖平原地区

2．三峡移民任务虽然艰巨，但也有诸多有利条件，例如　（　）
A．我国中西部地区人口密度小，可安置大量移民
B．农业人口可以就近后靠安置
C．非农业人口一般不需要重新安置
D．大量外迁人口可以进行开发性移民

3．要保证三峡大坝具有预期寿命，应采取的最主要措施是　（　）
A．长江上游的水土保持　B．控制航运总量和船只数量
C．合理安置好移民　D．经常对大坝进行安全维修

下图为某地某日太阳高度变化曲线、气温曲线和降水柱状图。读图回答4～6题。

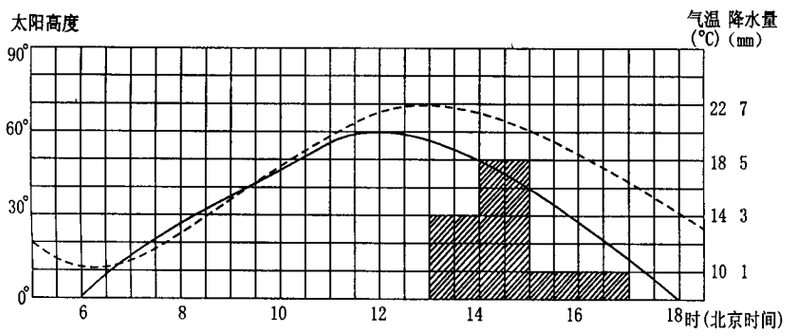

4．该地位于　（　）
A．50°N，116°E　B．0°，120°E
C．40°N，116°E　D．30°N，120°E

5．该地日最高气温出现的时间较一般情况（午后2点）有所提前，形成的原因可能是　（　）
A．当日太阳辐射最大值提前　B．当日午后出现阴雨天气
C．当日受一高压系统控制　D．当日受一暖气团控制

6．此日前后，可能出现的现象是　（　）
A．长江口海域盐度达全年最大值　B．塔里木河流量达全年最大值
C．华北平原土壤积盐严重　D．长江流域出现梅雨天气

读我国沿海四省2003年国内生产总值比较数据表，回答7、8题。

省份	人口	面积	国内生产总值	一、二、三产业比例
江苏省	7380万人	10万平方千米	12451.8亿元	8.9:54.5:36.6
浙江省	4647万人	10万平方千米	9200亿元	7.8:52.5:39.7
福建省	3440万人	12万平方千米	5241.7亿元	13.5:47.6:38.9
广东省	7565万人	18万平方千米	13449.9亿元	7.8:52.4:39.8

7．四省相比，人口密度最大的省份其人口稠密的主要原因是　（　）
A．经济最为发达　B．大型企业多
C．人口迁入多　D．平原比重大

8．有关四省经济指标的分析，正确的是　（　）
A．福建省第一产业产值最大
B．江苏省第三产业产值最小
C．浙江省人均国内生产总值最高
D．广东与浙江两省第三产业产值相近

天津市宁河县位于39°09′06″N与39°36′01″N之间，素有北方“鱼米之乡”的称号，是华北平原粮食稳产高产地区，现已被国务院农渔部确定为“小站稻”生产基地。读图判断9～11题。

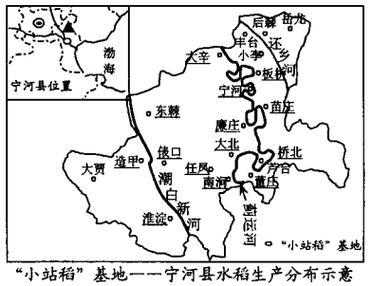

“小站稻”基地——宁河县水稻生产分布示意

9．该县南、北跨度约有　（　）
A．30千米　B．50千米
C．70千米　D．110千米

10．宁河县“小站稻”生产基地分布的主要特点是　（　）
A．沿河流分布　B．沿山坡分布
C．沿等高线分布　D．沿海岸线分布

11．宁河县粮食稳产高产的主要原因是　（　）
A．热量充足　B．耕地质量较高
C．耕作历史悠久　D．临近大城市

12．在以下中国先秦诸子典籍中，包括较多物理学知识的是　（　）
A．《论语》　B．《墨子》　C．《荀子》　D．《庄子》

13．在以下制度中，对我国历史发展最具有深远影响的是　（　）
A．废井田，开阡陌　B．废分封，行县制
C．创立三省六部制　D．推行一条鞭法

14．下列现象没有因果关系的是　（　）
A．土地兼并严重——均田制停止实行
B．商品经济活跃——一条鞭法实行
C．藩王势力膨胀——明成祖迁都北京
D．清朝废除人头税——人口大量增加

15．一个爱好集币的同学在古币市场上看到下列四枚仿制古币，认为有两枚是严重违反历史常识的，这两枚货币是　（　）



A．①②　B．②③　C．②④　D．①③

在中国近（现）代史上，洋务运动、戊戌维新与辛亥革命是经济技术近代化、政治制度近代化和思想文化近代化三个重要阶段。据此回答16～18题。

16．冯桂芬在《校　庐抗议》中提出：“以中国之伦常为原本，辅以诸国富强之术。”对此言论最恰当的提炼是　（　）
A．反抗侵略　B．中体西用　C．政治改良　D．全盘西化

17．孙中山指导辛亥革命的思想核心是　（　）
A．推翻帝国主义在中国的殖民统治
B．核定全国地价，解决土地问题
C．推翻清政府，建立以汉族为主体的民族国家
D．推翻封建帝制，建立资产阶级共和国

16～18世纪是资本主义的手工工场时期，欧美一些国家兴起早期资产阶级革命。据此回答18～19题。

18．新航路开辟后加速了欧洲资本主义的发展，这集中体现在　（　）
A．资产阶级人数增加　B．雇佣劳动力增加
C．资本原始积累速度加快　D．形成区域性资本主义市场

19．英、法两国的早期资产阶级革命是一种完全意义上的反封建革命，其客观使命是
①推翻封建制度　②使资产阶级掌握政权　③通过立法确立立国基本原则　④全面建立起资本主义社会　（　）
A．①②　B．①②③　C．①②④　D．①②③④

新兴工业化国家和地区，又称中等收入国家和地区，是二战后新崛起的一支不可忽视的重要经济力量。据此回答20、21题。

20．这些新兴国家在二战前的共同特点不包括　（　）
A．多数是帝国主义的殖民地或附属国
B．经济上受帝国主义控制，资源遭掠夺
C．绝大多数国家位于赤道以南
D．一些国家已建立起出口主导型的产业结构

21．二战后，促使韩国、日本经济快速发展的相同因素是　（　）
A．采用了外向型经济发展战略
B．利用本国丰富的资源吸引外国投资
C．利用了西方国家经济转型的有利时机
D．接受国外大量军事订货

22．有人说：“我们应当以资本供给全世界，而谁以资本供给全世界，谁就应当……管理全世界。”依据所学知识判断，这句话应出自　（　）
A．林肯　B．克里孟梭
C．威尔逊　D．劳合·乔治

23．20世纪的下列事件中，具有超越社会制度界限特点的是　（　）
A．第一次世界大战　B．第二次世界大战
C．北大西洋公约组织建立　D．冷战局面的形成

就业是民生之本，安国之策。我国新一届中央领导集体非常重视解决就业问题，相继出台了一系列促进就业的政策。据此回答24～26小题。

24．就业之所以是民生之本，从经济学上来说是因为
①就业是劳动者的基本权利　②就业能扩大消费，拉动经济增长　③就业能维护社会政治稳定　④只要解决了就业问题，经济就能发展　（　）
A．①②　B．①③　C．②③　D．②④

25．现在城市中有许多被视为“脏、累”的岗位，有些城里人不屑一顾，宁可歇着也不愿就业，这就制约了就业问题的解决。从中可以看出　（　）
A．就业需要社会改善就业条件　B．解决就业问题要有一定的强制措施
C．就业要从客观实际出发　D．人的价值观引导着人们的行为

26．全国就业和再就业工作会议后，各地有关政府部门贯彻会议精神，纷纷出台了一系列促进和鼓励就业的政策，有力地推动了就业问题的解决。这说明了
①国家宏观调控是解决就业的根本途径　②出台促进就业政策是国家的经济职能　③解决就业是国家的社会公共服务职能　④政府部门坚持对人民负责原则　（　）
A．①②③　B．①②④　C．①③④　D．②③④

2003年12月中央农村工作会议提出今年要转移农村一亿剩余劳动力，这表明在建设全面小康社会的今天，农民的就业问题已经凸现，它事关农民的增收，事关城乡的统筹发展。据此回答27、28小题。

27．农村剩余劳动力的转移，很大一部分要进城务工。为此，有关城市出台了一系列的法律法规，给予农民工与市民同等待遇，保护农民工的合法权益。这样做
①体现了法律面前人人平等　②坚持了依法治国　③说明了农民工的权益是政府赋予的　④坚持了“三个代表”重要思想　（　）
A．①②④　B．①②　C．②③④　D．①③

28．为了帮助越来越多的农村剩余劳动力更好地进城务工，劳动力输出和输入地的双方政府联手，组织农民工有序流动，解决了农民找工作难的问题。农民工的有序流动。从哲学上看，说明　（　）
A．事物间的联系是具有主观性的　B．人们对事物的联系是可以改变的
C．事物间的联系是无条件　D．事物的联系只存在于事物之间

生产安全是我国社会经济发展中必须高度关注的问题，也是坚持新的科学发展观的重要组成部分。据此回答29、30小题。

29．近一段时期，生产安全问题突出，有些企业只顾追求经济效益，而忽视劳动者的生产安全，人员伤亡事故频频发生。这种做法违背的哲学道理是　（　）
A．一切从实际出发　B．两点论
C．两点论和重点论相统一　D．适度原则

30．对忽视生产安全，造成人员伤亡的事故责任人，政府有关部门要严肃查

处，违背法律、法规的要追究法律责任。这样做是依据

①市场经济的法制性　②我国劳动者依法享有的基本权利

③市场经济的平等性　④我国企业的社会主义性质　（　）

A．①②　B．①②③　C．①②④　D．②③

我国在去年成功抗击“非典”后，今年又经历了抗击“禽流感”的斗争。人类的生存面临着越来越多的挑战。据此回答31、32小题。

31．在抗击“非典”和“禽流感”的过程中，国家拔专款为“非典”患者提供免费治疗，为因扑杀家禽而受损的农户提供补贴，对相关受损企业进行扶持，从而为战胜“非典”和“禽流感”提供了物质保证。这些做法直接体现了　（　）

A．法律手段在经济生活中的作用　B．财政在社会生活中的作用

C．国家宏观调控在市场中的作用　D．国家对消费者权益的维护

32．“非典”、“禽流感”的相继发生，由此造成了重大损失。它说明　（　）

A．人类活动只能适应自然　B．人不可能认识和把握事物

C．人类只能认识事物的现象　D．人类活动要尊重客观规律

2003年5月26日，国家主席胡锦涛出席了在俄罗斯首都莫斯科举行的上海合作组织峰会，并在莫斯科国际关系学院作了精彩的演讲。据此回答33、34题。

33．胡锦涛在演讲中提出了“树立互信、互利、平等和协作的新安全观”。这种“新安全观”体现了我国对外政策的　（　）

A．基本立场　B．基本目标

C．基本准则　D．基本国策

34．上海合作组织成员国将根据宪章的原则，加强成员国间的相互信任和睦邻友好，加强多领域合作，促进成员国间经济、社会和文化发展。由此可见，国际组织是

①发展国家之间各方面交流和合作的纽带　②协调国际政治、经济、文化关系的主要力量　③争取世界和平和促进经济发展的组织形式　④进行区域经济合作的基本形式　（　）

A．①④　B．②④　C．①②③　D．②③④

35．2003年8月3日，第29届奥运会会徽“中国印·舞动的北京”正式发布。会徽诞生后，许多企业的产品都争相采用该标识作广告，这些企业之所以要这样做，是因为

①购买者容易受广告促销活动的影响　②企业发展需要名牌　③这样做有利于企业产品的市场开拓　④这样做有利于市场经济的健康发展　（　）

A．①②③　B．②③④　C．①③　D．②④

第Ⅱ卷（非选择题，共160分）

二、本卷共5小题，共160分。

36．读某区域7月等温线分布图（图1）及A、B、C三地气温曲线和降水柱状图，分析回答。（26分）

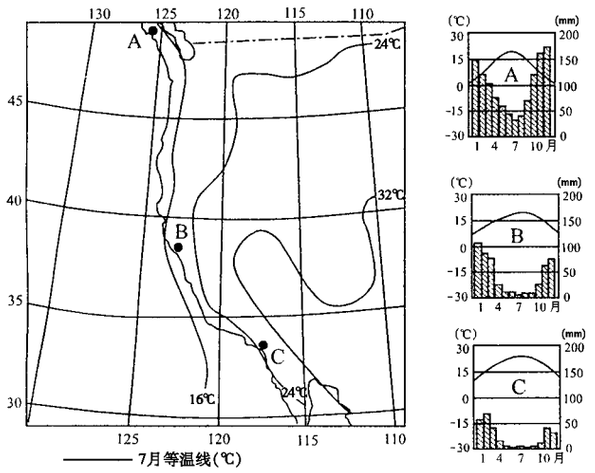

图1

图2

（1）归纳图1所示区域大陆西岸降水的季节分配规律。并分析A、B两地年降水量差异较大的原因。（12分）

（2）说明图1中24℃等温线的分布特点并分析原因。（8分）

（3）B地附近为世界著名的高技术工业区，分析此工业区崛起的主要因素。（6分）

37．（38分）海疆，即主权国家的领海，沿海国家的海洋国境。近代以来，中国海疆和海防历史的兴衰，从一个侧面反映了中华民族的衰败与复兴。阅读下列材料，并结合所学历史知识回答问题。

材料一：沿海水师，率皆老弱无用，军器率多残缺，并不修整。又战船率用薄板旧钉，遇击即破，并不计及夷器之凶利坚固，作何抵御？似此废弛，何以肃边威远？

——摘自《鸿胪寺卿黄爵滋敬陈六事疏》（1835年）

材料二：御外之道，莫切于海防；海防之要，莫重于水师。

——摘自《江苏巡抚吴元炳奏》（1874年）

材料三：“甲午一役，……水陆之防，既毁于日本……”“东三省海防，奉天尤重。自日占旅、大，辽东半岛藩篱尽撤。”

材料四：2002年9月23日，由青岛号导弹驱逐舰和太仓号综合补给舰组成的中国海军首次环球航行访问舰艇编队，满载五大洲十国人民和军队的友谊回到青岛。至此，在世界环球航行的史册上将首次并永远地刻下“中国”的名字，506名官兵用实际行动实现了中华民族的千年梦想。

——摘自人民网（2002年9月27日）

（1）结合材料一，概括指出当时中国海防存在哪些问题。（6分）结合19世纪上半期欧美资本主义的发展情况，简述这些问题给当时的中国带来了什么影响？（9分）

（2）根据材料二吴元炳的奏议，清政府为加强海防采取了哪些具体举措？（6分）

（3）举例说明甲午海战中，中国的新式海军惨败于日军的重要战役。试结合史实概括说明中国海军失败的根本原因。（9分）

（4）分析材料四，中国海军舰艇编队首次环球航行圆满成功说明了什么？（4分）

（5）综合上述材料概括说明近代以来中国海防发展的基本线索。（4分）

38．（16分）2004年3月，十届全国人大二次会议对现行宪法进行了第四次修改，会议经过认真审议，通过了《中华人民共和国宪法修正案》。此次修改宪法是根据中共十六届三中全会通过的《中共中央关于修改宪法部分内容的建议》进行的。

在本次《宪法修正案》中增加了“公民的合法的私有财产不受侵犯”，“国家依照法律规定保护公民的私有财产权和继承权”的内容。保护私有财产入宪，这在我国还是第一次。

阅读上述材料，回答下列问题：

（1）修宪过程体现了哪些政治学道理？（8分）

（2）用经济常识分析增加有关“国家尊重和保护私有财产”内容的原因。（8分）

39．（37分）阅读下列材料，完成：

材料一：西电东送和西气东输方向示意图

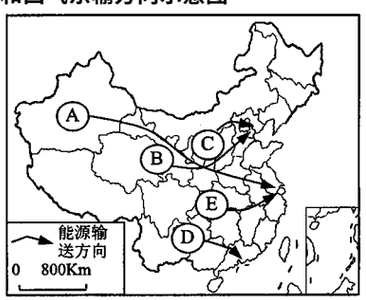

材料二：2003年，我国GDP取得了9.1%的高增长速度，但是付出的代价也相当大。资源被大量消耗，能源、运输等形成“瓶颈”，生态环境状况堪忧。因此，专家呼吁应以绿色GDP（扣除了资源和环境成本的GDP）作为经济和社会发展的评价标准。

材料三：温家宝总理在十届全国人大二次会议上所作的政府工作报告中提出，今年经济增长的预期目标为7%左右。这个数字比去年9.1%的增长速度低了两个多百分点，但它传递出一个新的发展信号，就是要把经济发展的着力点放在经济和社会协调发展上来，放在促进人和自然的和谐发展上来。7%体现了科学的发展观，这对全面建设小康社会的宏伟目标具有极其重要的指导意义。

（1）分析图中D、E两处水能资源丰富的共同原因。（6分）

（2）建设这些能源工程的重要意义在于_____（选择填空）。（4分）

A．缓解东部地区能源消费紧张状况　B．改善西部地区的能源供应状况

C．减少西部地区的环境污染　D．调整东部地区的能源消费结构

（3）此图反映出我国能源生产与消费的分布特点是什么？从可持续发展角度出发，你认为还可以采取哪些措施缓解我国能源供应紧张问题？（至少答出三点）（10分）

（4）“绿色GDP”评价标准的提出对发展我国工业有何启示？（9分）

（5）结合上述材料，运用唯物论的知识说明我国为什么提出科学的发展观？（8分）

40．（43分）

材料一：有着9亿农民的中国，“三农”问题是政府绕不开的难题。20世纪90年代以来，由于市场和劳动力等因素制约，广大农村发展相对停滞，城乡差距加大。这已影响到当前整个国民经济的发展。

材料二：千方百计促进农民增收，事关国民经济建康发展和全面实现小康社会这个大局，意义重大。针对近年来我国农民收入增长趋缓的实际，中央下发关于增加农民收入的一号文件，出台了一系列增加农民收入的具体措施，这必将促进农村经济的全面繁荣。

材料三：中共中央党校“三农问题”研究中心秘书长曾业松说，在以农立国的中国，重农思想古已有之。但不同之处：历史上的重农以重税、夺农为前提，以轻工商为代价；而现在以维护农民利益为前提，以城乡统筹协调发展为目的。

阅读材料回答下列问题：

（1）党和国家高度重视“农民增收”工作，体现了政治学的哪些道理？（11分）

（2）哲学上的联系观点在材料二中是如何体现的？（8分）

（3）材料三反映了中国古代怎样的经济指导思想？（4分）其产生的根本原因及得以长期推行的政治保障分别是什么？（4分）

（4）建国后，党和政府在对农村政策的调整中出现了哪一次重大失误？带来了怎样的危害？它留给我们在经济建设上最深刻的教训是什么？（6分）

（5）分析劳动力因素制约经济发展的具体表现，并就如何增加农民收入，防止城乡差距进一步扩大提出合理化建议。（10分）

需要全本请访问 www.ertongbook.com

文 科 综 合

本试卷分第Ⅰ卷（选择题）和第Ⅱ卷（非选择题）两部分，共300分。考试时间150分钟。

第Ⅰ卷（选择题，共140分）

一、本卷共35小题，每小题4分，共140分。在每小题列出的四个选项中，只有一项是最符合题目要求的

读下面各类物资运输方向略图，回答1～3题。

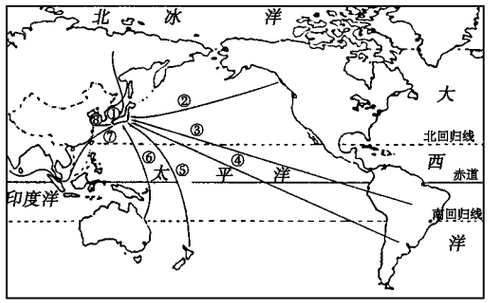

1．如果图中①③表示大宗木材运输方向，其运输的林木分别产自 （ ）
A．①亚寒带针叶林 ③热带雨林
B．①亚寒带针叶林 ③常绿阔叶林
C．①温带落叶阔叶林 ③热带雨林
D．①温带落叶阔叶林 ③亚热带常绿硬叶林

2．⑥⑦⑧表示能源运输方向，则它们运输的能源分别是 （ ）
A．煤、石油、石油 B．煤、石油、煤
C．石油、煤、石油 D．石油、石油、煤

3．若②④⑤⑥表示大宗农产品的运输方向，则这些农产品输出地的农业地域类型分别有 （ ）
A．商品谷物农业、大牧场放牧业、大牧场放牧业、混和农业
B．水稻种植业、大牧场放牧业、大牧场放牧业、混和农业
C．商品谷物农业、水稻种植业、大牧场放牧业、混和农业
D．商品谷物农业、大牧场放牧业、大牧场放牧业、水稻种植业

读右边塔里木盆地边缘山麓冲积扇示意图，据此回答4、5题。

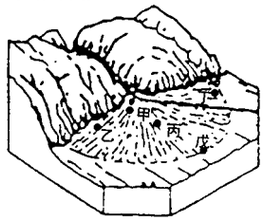

4．图中冲积扇上有甲～戊5个地点，绿洲多发生于哪个地点？ （ ）
A．甲 B．乙
C．丙、丁 D．戊

5．这里的绿洲农业，一年仅能一获的主要原因是 （ ）
A．日照时数不足 B．土地盐渍化
C．水资源不足 D．生长季节太短

某黄金旅游周，我国100个直报旅游（区）点共接待游客804万多人，门票收入累计逾2.59亿元。①杭州 ②银川 ③平遥 ④五台山 ⑤普陀山 ⑥华山 ⑦武夷山 ⑧井冈山 ⑨九寨沟 ⑩丽江 ⑪敦煌 ⑫乌镇等12个热点地区的日接待量均超过最佳日接待量20%左右。据此回答6、7小题。

6．下列4个热点旅游地中与其他3个明显不同类的是 （ ）
A．③ B．⑩ C．⑫ D．⑪

7．最佳日接待量制定的主要依据是 （ ）
A．交通通达性 B．环境承载量
C．旅游点知名度 D．地区接待能力

读右边我国某地等高线图，回答8、9题。

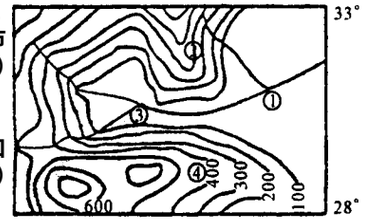

8．从聚落发展看，最有可能发育成城市的是 （ ）
A．① B．②
C．③ D．④

9．根据上题答案，判断下列货物、人口流动方向正确的是 （ ）
A．人口：①→③ B．茶叶：④→①
C．甜菜：④→① D．化肥：②→④

某宇航员观测地球时，草绘出某一时刻地球运动及两个日期分布情况示意图如下。图中阴影部分为前一天，两圆表示纬线圈。读图完成10、11题。

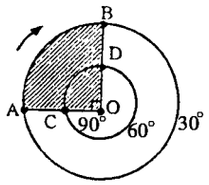

10．关于C点的叙述，正确的是 （ ）
A．此日C点雨雪不停，正处于冬季
B．此日C点正午太阳高度为30°
C．此时C地正值昼夜交替之时
D．C处于茫茫大海之中且受西风控制

11．关于图中的一些说法，正确的是 （ ）
A．此时正值北京时间6点整
B．在地球表面从C往D最短的距离应是先朝东南方再朝东北方
C．此时B点能看到日出
D．地表A、C两地的线速度之比为$1:\sqrt{3}$

中国历史上向有盛唐隆宋之誉。回答12～15题。

12．唐诗名句“北风卷地百草折，胡天八月即飞雪。忽如一夜春风来，千树万树梨花开。”应出自 （ ）
A．浪漫主义诗人李白 B．现实主义诗人杜甫
C．边塞诗人岑参 D．山水田园诗人王维

13．右图所示书法以气势雄浑著称，其作者是 （ ）

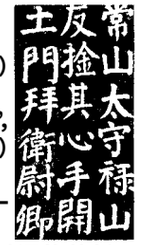

A．王羲之 B．欧阳询 C．颜真卿 D．柳公权

14．曾预言中国石油“生于地中无穷”，“此物后必大行于世”，并被英国学者李约瑟誉为“中国科学史中最卓越的人物”的是 （ ）
A．孙思邈 B．僧一行 C．毕升 D．沈括

15．在宋代，词用来反映广阔的社会生活，达到空前繁荣。这一文化现象的出现是由于
①封建经济的进一步发展 ②市民队伍的扩大 ③苏轼等人对词的革新 ④程朱理学的兴起 （ ）
A．①②③④ B．①②③ C．②③④ D．①②

历史学家汤因比指出“一个人如果能身处历史的感悟之中，他就一定是获得真知的人，因为历史的经验是最为丰富的一座智慧之库。”回答16～20题。

16．韩非子主张治国“以法为本”，“法不阿贵”。他的这种思想
①仍有一定的现实意义 ②与当今“以法治国”有本质区别 ③符合当时社会发展的潮流 ④强调法律的至高无上地位 （ ）
A．①②③④ B．②③④ C．①②③ D．①③④

17．15～16世纪新航路开辟对世界发展的积极作用不包括 （ ）
A．引起了商业上的革命
B．引起了价格革命
C．使玉米、甘薯、烟草、马铃薯等农作物传入中国
D．使活字印刷术、指南针、火药等传入欧洲

18．《马关条约》签订后，台湾人民表示“愿人人战死而失台，决不愿拱手而让台”。这句话反映了台湾人民 （ ）
A．坚决反对割地议和 B．斥责清政府投降卖国
C．誓死维护祖国领土完整 D．对击败日寇充满信心

19．下列史实，不能说明抗日战争时期中国国际地位提高的是 （ ）
A．《开罗宣言》的发布
B．英美宣布废除在华治外法权
C．参与联合国的筹建
D．民主革命力量大大加强

20．观察下列纸币的图案。图案表达的重要信息有



①中国的民族多样化 ②新中国政权的人民性 ③民族关系的平等原则 ④民族管理的区域自治政策 （ ）
A．①②③④ B．①②③
C．①④ D．②③④

近代现代历史上曾多次出现思想解放运动，有力地推动了社会的进步和发展。回答21～23题。

21．与中国明末清初产生的早期反封建色彩的民主启蒙思想相比，欧洲启蒙运动时期思想的突出特征包括
①代表早期资产阶级利益和要求 ②从法律角度证明社会变革的合理性 ③反对君主专制 ④强调“公民意识” （ ）
A．①②③④ B．②③④ C．①③④ D．①②④

22．19世纪末在中国出现的思想解放运动的实质是 （ ）
A．资本主义思想和封建主义思想的交锋
B．资产阶级改良主义和民主革命思想的交锋
C．殖民主义道路和资本主义道路的交锋
D．资产阶级改良和无产阶级革命的交锋

23．关于真理标准问题的讨论是中国共产党的历史上一次重要的思想解放运动，这里的“思想解放”主要指 （ ）
A．思想上清算“左”倾和右倾的错误
B．为社会主义建设奠定思想基础
C．打破教条主义的思想束缚
D．重新确立马克思主义实事求是思想路线

中美两国在国际社会中都发挥着重要作用，中美关系对地区乃至全球的稳定都有重要影响。据此回答24、25题。

24．2003年1月10日，朝鲜宣布退出《不扩散核武器条约》，引发“朝核危机”。在中国政府积极斡旋下，先后在北京举行了朝美中三方会谈和由朝美中韩俄日参加的六方会谈，将朝核问题由对抗引向对话。这主要表明 （ ）
A．独立自主是我国外交政策的基本立场
B．中国是安理会常任理事国，应该承担更多的国际义务
C．我国政府致力于促进世界的和平与发展
D．和平共处五项原则是我国处理对外关系的基本准则

25．台湾问题是影响中美关系的关键性因素。针对台湾当局鼓吹“公投制宪”，美国国务卿鲍威尔指出，美国依然完全支持并致力于“一个中国”政策，“对任何一个公投议题都不表示支持”，“不愿看到这些行动以任何方式导致现状的改变”。美国采取这一政策 （ ）
A．表明我国综合国力大大增强 B．是为了维护中美双方的共同利益
C．有利于我国实现完全统一 D．符合美国的国家利益

近来，一些地方因城建部门在拆迁中野蛮执法，导致损害拆迁户合法财产的事件时有发生，引起了政府的高度重视。2003年12月，建设部先后下发了《城市房屋拆迁估价指导意见》和《城市房屋拆迁行政裁决工作规程》，建立了拆迁听证制度，规范了强制拆迁行为。据此回答26～28题。

26．建设部下发《城市房屋拆迁估价指导意见》和《城市房屋拆迁行政裁决工作规程》 （ ）
A．表明政府依法行使立法权
B．表明依法行政是依法治国的重要环节
C．为城建部门依法行政提供了法规和政策依据
D．表明城建执法队伍的素质亟待提高

27．《城市房屋拆迁行政裁决工作规程》中规定，拆迁人未按裁决意见向被拆迁人提供拆迁补偿资金或者符合国家质量安全标准的安置用房、周转用房，不得实施强制拆迁。不少拆迁户依据这一规定，抢在拆迁前将自己的房屋扩建加层，以便在拆迁时向国家索取更多的拆迁补偿资金。上述拆迁户的做法
①没有看清权利与义务的辩证关系 ②没有正确处理好改造主观世界与改造客观世界的关系 ③是个人主义的表现 ④没有看到个人利益与国家利益的统一性 （ ）
A．①③ B．②④ C．①③④ D．②③

28．2004年3月14日，十届全国人大二次会议通过了宪法修订案，修订后的宪法规定：“公民的合法的私有财产不受侵犯”。《宪法》保护公民的合法的私有财产
①有利于保护和增加社会公众的创业、创新的动力 ②有利于完善社会主义市场经济体制，促进国民经济发展 ③表明市场经济具有自发性 ④表明私有财产神圣不可侵犯 （ ）
A．①④ B．②③ C．①③ D．①②

2003年，我国经济持续快速发展，GDP总值已突破一万亿美元。GDP作为综合反映一国经济活动的重要指标，能把三大产业的水平和劳务成果反映出来，有利于促进产业结构的合理化，也便于进行国际经济的横向比较。据此回答29、30题。

29．美联储主席格林斯潘在谈到美国经济增长时说，美国 GDP 的物质重量变轻了。美国的 GDP 比 50 年前增加了 5 倍，主要贡献来自于第三产业，特别是以信息产业为代表的高新技术产业的增长，因而 GDP 的物质重量较 50 年前没有增加多少。美国的 GDP“变轻”对我国经济发展的启示是（　　）

A．要合理调整产业结构
B．要大力发展加工制造业
C．必须用高新技术产业取代传统产业
D．要加大基础设施投资

30．《瞭望》周刊载文指出，GDP 并不是一个衡量社会经济福利状况的完美指标，GDP 只代表经济增长，反映不出经济发展与社会进步、城市与农村是否协调，也反映不出一个经济体内的贫富差距。有专家呼吁要建立绿色 GDP 评估体系。这表明（　　）

A．意识总是超前于客观现实
B．要实现主观与客观具体的历史的统一
C．全面的发展观就是既要按经济规律办事，又要按自然规律办事
D．价值观具有导向作用

坚持以人为本，凸现人文关怀，是近年来我国法治建设的一大亮点。2003 年，我国相继出台了一系列关注弱势群体的法律法规，如《城市生活无着的流浪乞讨人员救助管理办法》、《法律援助条例》等。2003 年年底，针对拖欠民工工资现象，各地纷纷出台地方行政法规，加大执法力度，开展了一场声势浩大的“工资清欠”行动。据此回答 31、32 题。

31．我国法治精神与人文关怀相统一的政治基础是（　　）

A．我国市场经济是与社会主义制度结合在一起的
B．人民群众是社会变革的主体，是历史的创造者
C．我国是人民民主专政的社会主义国家
D．中国共产党始终代表先进文化的发展方向

32．有关部门在实施“工资清欠”时发现，一些民工由于没有与用工单位签订劳动合同，在合法权益受到侵害后，往往拿不出有效证据，致使“清欠”工作异常艰难。要维护农民工的合法权益

①用工单位必须诚实经营，重诺守信　②相关职能部门必须加强监管，搞好服务工作　③农民工必须增强合同意识，依法维护自身权益　④企业经营者要转变追求利润最大化的观念（　　）

A．①②④　　B．①③④　　C．①②③　　D．①②③④

“无为而治”是我国古老的政治智慧，在发展社会主义市场经济的今天，依然具有借鉴意义。据此回答 33～35 题。

33．浙江某市领导班子常用“无为而治”来概括他们发展民营经济的思路。20 世纪 80 年代，该市采用“放任自流”的方式，创造宽松环境，推动了民营经济的繁荣。该市这一思路的经济学依据是（　　）

A．市场经济是有效的资源配置方式
B．市场经济具有自发性
C．市场经济具有竞争性
D．市场经济条件下，政府管得越少越好

34．从 20 世纪 90 年代开始，该市民营经济发展过程中出现了一些问题，政府开始更多地考虑“有为”，如出台保护民营经济的法规和政策、大力打击假冒伪劣产品维护该市商誉、通过总体规划引导民营产业合理布局等。这表明（　　）

A．社会主义经济必须以国家宏观调控为基础
B．民营经济的健康发展离不开国家的扶持、规范与引导
C．整顿和规范市场经济秩序是政府主要的经济职能
D．必须毫不动摇地巩固公有制主体地位

35．目前，该市政府职能的定位主要是多引导少干预，以服务为主，严格遵守《行政许可法》，将很多管理职能放给了行业协会，坚持有所为有所不为。专家总结指出，“无为”并不是无所作为，“有为”也不是轻动妄为。正确处理“无为”与“有为”的关系，关键在于（　　）

A．坚持内因和外因相结合
B．在运动变化中把握客观规律
C．把尊重客观规律与充分发挥主观能动性统一起来
D．坚持理论与实践的统一

第Ⅱ卷（非选择题，共 160 分）

二、本卷共 6 小题，共计 160 分

36．（27 分）右图为 1 月份 60°N 附近近地面气温、气压变化曲线图，读图回答下列问题：

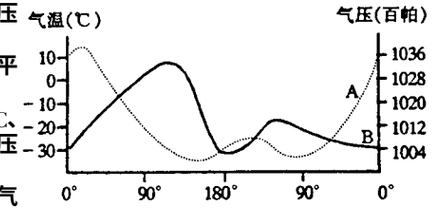

（1）图中 A、B 两条曲线中表示气压变化的是_____。（3 分）

（2）从气温曲线可见 1 月气温水平分布规律是_____。（3 分）

（3）在图中气压变化曲线上，用 C、D 标出切割副极地低气压带的两个气压中心。（4 分）

（4）从图中可见，大陆上气温、气压的关系是_____。（4 分）

（5）图中可见，150°E 的气温_____（高或低）于 150°W 的气温，其原因是①_____，②_____。（请从大气环流和洋流两方面回答）（13 分）

37．（26 分）发源于英国的第一次工业革命催动着新事物的诞生，激发了人们的创造热情，自此之后的一个世纪中，技术创新、思想创新、制度创新层出不穷，蔚然成风。

材料一：　　第一次工业革命中的发明

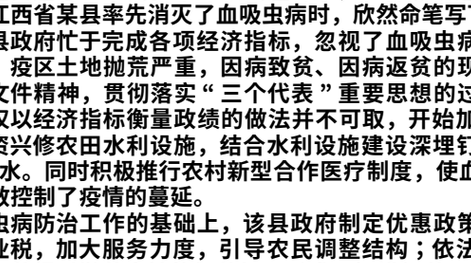

材料二：　　李嘉图的比较优势原理和国际贸易理论

如果两人都能制造鞋和帽，其中一个人在两种职业上都比另一个人强一些，不过制帽时只强五分之一或百分之二十，而制鞋时则强三分之一或百分之三十三，那么这个较强的人专门制鞋，而那个较差的人专门制帽，岂不是对于双方都有利么？

由此看来，一个在机器和技术方面占有极大优势因而能够用远少于邻国的劳动来制造商品的国家，即使土地较为肥沃，种植谷物所需的劳动也比输出国更少，也仍然可以输出这些商品以输入本国消费所需的一部分谷物。

在商业完全自由的制度下，各国都必然把它的资本和劳动用在最有利于本国的用途上。这种个体利益的追求很好地和整体的普遍的幸福结合在一起。由于鼓励勤勉，奖励智巧、并最有效地利用自然所赋与的各种特殊力量，它使劳动得到最有效和最经济的分配；同时，由于增加生产总额，它使人们都得到好处，并以利害关系和互相交往的共同纽带把文明世界各民族结合成一个统一的社会。

——《李嘉图著作和通信集》

回答：

（1）从材料一中，可以汲取哪些历史信息？（12 分）

（2）结合所学工业革命前后的相关知识，谈谈你对材料二中关于“这种个体（英国）利益的追求很好地和整体（世界）的普遍的幸福结合在一起”这种观点的认识。（14 分）

38．（25 分）阅读材料，回答问题。

“绿水青山枉自多，华佗无奈小虫何！千村薜荔人遗矢，万户萧疏鬼唱歌。坐地日行八万里，巡天遥看一千河。牛郎欲问瘟神事，一样悲欢逐逝波。”45 年前，毛泽东主席得知江西省某县率先消灭了血吸虫病时，欣然命笔写下了这首诗。

近年来，该县政府忙于完成各项经济指标，忽视了血吸虫病防治，致使该县血吸虫病人增加，疫区土地抛荒严重，因病致贫、因病返贫的现象开始出现。在深入学习十六大文件精神，贯彻落实“三个代表”重要思想的过程中，该县领导班子认识到过去仅以经济指标衡量政绩的做法并不可取，开始加大血吸虫病防治工作的力度，投资兴修农田水利设施，结合水利设施建设深埋钉螺（血吸虫幼虫寄居体）、净化疫水。同时积极推行农村新型合作医疗制度，使血吸虫病患者得到了及时治疗，有效控制了疫情的蔓延。

在加强血吸虫病防治工作的基础上，该县政府制定优惠政策，扶持农产品加工企业；减免农业税，加大服务力度，引导农民调整结构；依法推动土地的合理流转，使种粮大户获得对抛荒土地的经营权，形成了规模经营，增加了粮食产量，取得了明显的经济效益。该县政府成功探索出一条以人为本、经济社会协调发展的新路。

（1）该县发展农村经济的成功经验是什么？（8 分）

（2）该县领导班子政绩观的变化体现了哪些哲学道理？（9 分）

（3）结合所学政治常识，分析说明该县政府是怎样做到执政为民的。（8 分）

39．（37 分）淮河是我国的一条重要河流。根据材料，回答下列各题。

淮河流域面积为 27 万 km^2，有京杭大运河、淮沐新河和徐洪河贯通其间。淮河下游的洪泽湖由于泥沙淤积，已成为地上湖，是淮河防洪的重要地段之一。2003 年 6 月 20 日～7 月 21 日，淮河水系先后出现六次大范围降雨过程。流域最大 30 天降水总量约为 898 亿 m^3，比 1991 年相应偏多约 20%，仅比 1954 年相应偏少约 10%。降雨量之大、持续时间之长、洪水水位之高都是罕见的，为新中国成立以来淮河流域发生的第二大流域性洪水，给防汛抗洪工作带来了巨大的压力和挑战。

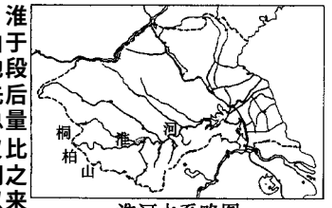

淮河水系略图

（1）淮河是我国重要的地理分界线，下列关于淮河的说法正确的有（4 分）（　　）

①与我国一月平均气温 0℃等温线大体一致　②是我国湿润区与半湿润区的分界线　③淮河以北以种植春小麦为主，以南以种植水稻为主　④淮河以北的水果有苹果，以南的有柑橘

A．①②③　　B．①②④　　C．①③④　　D．②③④

（2）读图描述淮河的水系特征。（6 分）

（3）自古淮河多水患，试从气候、地形二方面分析其自然原因。（6 分）

（4）①1140 年，岳飞率军在淮河以北与金军主力作战，取得了____大捷。（2 分）

②1141 年，南宋与金订立和议，规定东起淮水、西至大散关以北的土地归金朝统治等。史称（4 分）（　　）

A．澶渊之盟　　B．靖康之变　　C．绍兴和议　　D．靖难之役

淮河中下游 2003 年夏发生的特大水灾，造成了巨大损失。淮河流域“人水之争”再次证明了这样一个道理：人不给水出路，水不给人生路。

灾情发生后，民政部及时拨付救济补助款，用于灾民安置、中小学复课和疫病防治等。洪灾过后，国家在已投入 70 多亿元治淮资金的基础上，再投入 22 亿元用于加强防洪设施建设，并逐步把行蓄洪区的居民迁出去，给洪水让路。国家治淮思路由“人定胜天”变为“天人合一”，寻求人与洪水协调共处。

（5）结合上述材料谈谈财政的作用。（6 分）

（6）试分析国家治淮思路调整的哲学依据。（9 分）

40．（45 分）2003 年 10 月至 2004 年 7 月，在中法建交 40 周年之际，法国巴黎举办“中国文化年”大型活动。地道的中国展览会、歌剧、传统音乐舞蹈、现代造型艺术、商场物品摆放艺术、园林艺术，深受法国人民欢迎，引起欧洲各国的广泛关注。读图回答（1）～（3）小题：

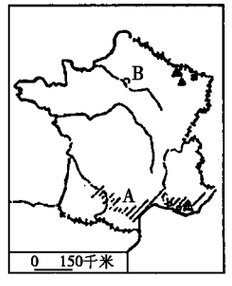



（1）A 农作物带的主要农作物是_____，法国以这种作物为原料的_____工业发达。（4 分）

（2）从影响工业布局因素分析，B 处成为法国最主要工业区的有利条件是（6 分）

①_____

②_____

③_____

（3）在图中恰当位置填注被称为欧洲“火药桶”的半岛名称。（3 分）

中法两国联系由来已久，进入近代以来，两国发展呈现不同的道路，法国对中国历史产生了相当大的影响，法国很早就意识到中国这个东方大国的潜在力量。拿破仑曾说，中国是一头睡狮，不要吵醒它。据此回答：

（4）拿破仑时期（18 世纪末至 19 世纪初），中国与法国在政治、经济、社会思潮和对外政策方面主要有何差别？（8 分）

（5）拿破仑时期以后的 100 年间，法国对中国历史进程有何突出影响？试举例加以说明。（12 分）

近年来，随着我国加入 WTO 和欧元升值，我国对欧盟出口增加，贸易顺差有所扩大。欧盟不断要求我国增加从欧盟进口，并对我国出口设置很多限制（如对我国产品实施贸易保护措施、提起反倾销诉讼，设置技术壁垒等），中欧贸易摩擦进一步扩大。欧盟还和日本、美国一起要求我国改变汇率管理体制，促使人民币升值。

（6）汇率变化会影响进出口商品和服务的价格水平。简述人民币升值对我国进出口贸易会产生的影响。（6 分）

（7）结合材料，谈谈我国应如何进一步扩大对欧盟的出口。（6 分）

湖北省黄冈市重点中学高三交流试卷

7A

文 科 综 合

本试卷分第Ⅰ卷（选择题）和第Ⅱ卷（非选择题）两部分。满分300分。考试时间150分钟。

第Ⅰ卷（选择题，共140分）

一、本卷共35小题，每小题4分，共140分。在每小题列出的四个选项中，只有一项是最符合题目要求的

如果地球是一个半径为R的正球体，读下图（部分经纬网，阴影部分代表黑夜），回答1～4题。

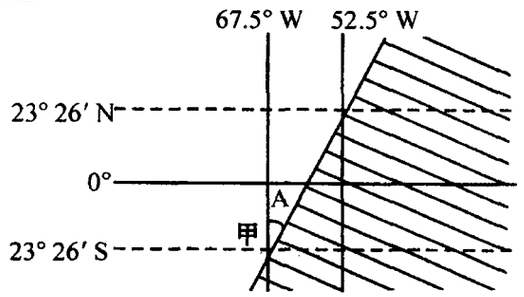

1．此日，图中甲地的白昼时间长为 （ ）
A．10时 B．11时 C．13时 D．14时

2．图中角度A的度数在一年内的最大值是 （ ）
A．66°34′ B．46°52′ C．23°26′ D．43°08′

3．图示时刻，北京时间为 （ ）
A．6时 B．18时 C．5时 D．19时

4．在甲地b千米的上空，若有一航天器沿甲地所在纬度方向飞行，且航天器上的工作人员此日始终见到的是日落景象，那么，航天器的飞行方向和速度是 （ ）
A．向东 每小时$\pi(b+R\cos23°26')/24$千米
B．向东 每小时$\pi(b+R\cos23°26')/12$千米
C．向西 每小时$\pi(b+R\cos23°26')/24$千米
D．向西 每小时$\pi(b+R\cos23°26')/12$千米

读右图，回答5～7题。

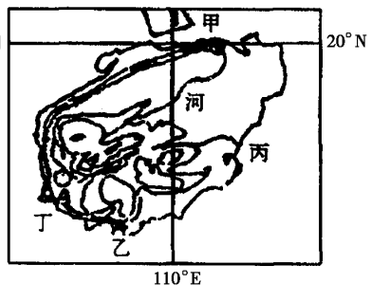

5．关于该岛气候及其特征的叙述，正确的是 （ ）
A．光照充足，夏长冬暖
B．该岛受台风活动影响，西部破坏力比东部地区大
C．地处低纬，该岛不受寒潮影响
D．该岛气候类型为热带雨林气候

6．丙地不利于建盐场的因素是 （ ）
A．气温高 B．地势平坦
C．地处迎风坡 D．临海地区

7．该岛扩大红树林防护带的目的是为了减少哪种危害 （ ）
A．风暴潮 B．水土流失 C．大气污染 D．滑坡、泥石流

图甲、图乙分别是某大洲大陆的地形剖面图，读图判断8、9题。



图甲



图乙

8．图中表示海岸山脉的字母是 （ ）
A．① B．② C．③ D．④

9．流经山脉③西侧的洋流是 （ ）
A．加利福尼亚寒流 B．北太平洋暖流
C．秘鲁寒流 D．本格拉寒流

据统计，2002年1～9月中国新设立外商投资企业24771家，比上年增长33.4%；合同外资额683.8亿美元，增长38.4%；实际利用外资额395.6亿美元，增长22.6%，实现了主要规模指标增长均在二成以上、实际投资额再创历史同期新高的记录。完成10、11题。

10．近两年来，在新的一轮外商投资高潮中跨国公司进入中国的速度明显加快，全球500强已经有400多家进入中国，其最终目的是 （ ）
A．实现经营的全球化 B．降低成本，提高利润
C．充分利用自然资源 D．使产品快速进入市场

11．自从中国加入世界贸易组织后，许多跨国公司把中国纳入全球化生产和采购链，并将本土或其他地方的生产部门转移到中国来，同时这些企业还将企业文化传到我国。这种文化传播属于 （ ）
A．传染扩散 B．等级扩散
C．刺激扩散 D．迁移扩散

儒家学说是中国传统思想和文化的主体部分，它在两千多年的漫长岁月中几经变迁，充实着和改变着自己的内容和形态，影响着历史发展的进程。回答12～15题。

12．春秋战国儒家思想的核心内容是 （ ）
A．主张“兼爱”“非攻”，和平共处
B．主张实行“仁政”，强调以德治民
C．主张以法治民，强调适时改革
D．主张生活节俭，力戒奢侈浪费

13．汉朝时期儒家思想成为中国封建社会的统治思想，从根本上讲是由于 （ ）
A．儒生董仲舒的建议和汉武帝的决策
B．儒家思想代表了广大人民的根本利益
C．儒家思想顺应了封建专制统治的需要
D．儒家思想成为封建教育的主要内容

14．中国古代儒家思想的内涵在不断地丰富与发展着，下列说法不正确的是 （ ）
A．汉朝的儒家思想吸收了法家的“大一统”思想
B．宋朝新儒学中已经吸收了佛教等外国文化的成分
C．董仲舒和朱熹对儒家思想的发展做出了重要贡献
D．明末清初儒家思想的正统地位被西方文化取而代之

15．新文化运动中激进的民主主义者提出了“打倒孔家店”的口号，下列评论正确的是
①与尊孔复古逆流针锋相对 ②冲击了封建思想的统治地位 ③促进了人们思想的空前解放 ④对待传统文化具有偏激情绪 （ ）
A．①③④ B．①②③④ C．①②③ D．②③④

税费制度改革涉及到国家财政收入、经济发展和社会稳定等方面的问题。回答16～19题。

16．唐朝的赋役制度经历了由实行租庸调制到实行两税法的演变，以下结论正确的是
①反映了封建经济不断发展的趋势 ②征税标准发生了显著的变化 ③承认了严重土地兼并现象的存在 ④相对减轻了农民的赋税负担 （ ）
A．②③④ B．②④ C．①②③ D．①②③④

17．以下对于明朝一条鞭法中规定改用银两收税的评论，正确的是
①反映了明朝商品经济的发展 ②客观上促进了农民与市场的联系 ③导致长期以来存在的人头税被废除 ④有利于资本主义萌芽的成长 （ ）
A．①② B．①②③ C．①②④ D．①②③④

18．1843年，中英双方在香港议定新税则并予以公布，新税则使中国的关税税率降低了许多。这次税率调整的主要依据是 （ ）
A．《南京条约》的有关规定 B．中国在当时的消费水平
C．进出口贸易平等互利原则 D．片面最惠国待遇的规定

19．在目前形势下，我国政府一再降低关税总水平，不断下调关税税率，其根本目的是 （ ）
A．适应加入世贸组织的需要 B．促进中外经济的相互交流
C．发展我国的社会主义经济 D．推进世界经济的一体化进程

民族解放运动和社会主义运动是世界近代现代史上的两股进步潮流，影响着人类历史的进程。回答20～23题。

20．与19世纪中期亚洲革命风暴中的斗争相比，19世纪末20世纪初亚洲觉醒中的斗争呈现出的显著特点是 （ ）
A．形成了亚非拉联合斗争的局面 B．民族资产阶级成为领导力量
C．大多数斗争取得了成功的结果 D．具有反侵略反封建的性质

21．20世纪30年代亚非拉民族解放运动呈现出的突出特点是 （ ）
A．被压迫民族开展大规模的武装斗争
B．无产阶级成为斗争的领导力量
C．民族解放斗争与反法西斯斗争相结合
D．民族解放斗争与社会主义革命相结合

22．19世纪中期以后，促使马克思、恩格斯对科学社会主义理论不断进行修正的客观原因是 （ ）
A．因为最初的基本原理是错误的 B．马、恩自身的理论水平也在不断提高
C．各种社会主义流派的竞争 D．资本主义发展不断走向成熟

23．20世纪50年代以来，东、西欧的社会主义国家和资本主义国家都进行了社会经济改革，改革中分别加强了市场的作用和一定的计划性，它表明 （ ）
A．资本主义国家抛弃了市场经济理论转而实行计划经济体制
B．社会主义国家已经完全抛弃了苏联高度集中的经济政治体制
C．资本主义国家和社会主义国家之间已经不存在矛盾斗争
D．东西方两种社会经济制度都需要在改革中不断地走向完善

读右图（第29届奥运会会徽——“中国印·舞动的北京”），回答24、25题。



24．会徽是奥运的“图腾”，它向全世界展示了主办国家及城市对于奥林匹克精神的理解。我国用“中国印·舞动的北京”来理解奥林匹克精神，这体现了
①中华优秀传统文化与现代文明的结合 ②中华文化是中华民族的精神纽带 ③中华民族强大的凝聚力和向心力 ④中华民族具有共同的心理素质和经济生活 （ ）
A．①② B．①③
C．②③ D．③④

25．印章是中国传统文化艺术的一种形式，同时也是诚信的一种表现形式。在完善我国市场经济体制的过程中，尤其需要大力呼唤诚信原则。诚信是
①现代市场交易活动的基本精神 ②市场经济的一般特征 ③企业的一种重要无形资产 ④正常交易秩序的保障 （ ）
A．①②③ B．②③④ C．①③④

京剧是我国的“国粹”。回答26、27题。

26．在演员脸上涂上某种颜色以象征角色的性格和品质是京剧的特色，如红脸表示赤胆忠心，禀性耿直。这一特色 （ ）
A．是高于现实的科学预测 B．是源于艺术家的主观想象
C．是源于客观存在的艺术抽象 D．是对人类性格和品质的真实反应

27．京剧是通过不断吸收地方戏曲的精粹和其他艺术形式的特长，丰富发展起来的。这给我们的启示是，要维持艺术的长盛不衰，关键在于能否 （ ）
A．全面吸收各种艺术的精粹 B．全面挖掘和抢救古代优秀剧目
C．不断迎合市场需求和观众口味 D．不断推陈出新，博采其他艺术精华

2003年7月28日，胡锦涛在全国防治非典工作会议上强调，当前，要按照中央的要求，继续抓好防治非典工作，全面促进经济持续快速健康发展。胡锦涛从8个方面对抗击非典斗争积累的经验、获得的启示进行了总结，并对今后的防治非典工作提出79个方面的要求。回答28～30题。

28．非典爆发初期，少数商家囤积居奇，人为制造恐慌，从中渔利。这一现象告诉我们
①市场经济离不开国家宏观调控 ②规范市场秩序要依法治国和以德治国相结合 ③市场经济发展不利于社会稳定 ④经营者失信会造成市场秩序的混乱 （ ）
A．①② B．②③④ C．③④ D．①②④

29．一场非典灾难，使我们认识到“用政府信息公开，打造政府公信力”的

迫切性。广州、北京、上海等地政府作出决定，将建立市政府新闻发言人制度，公开政府信息。这一举措是

①我国人民当家作主的最基本要求　②建立“阳光政府”的一项基本要求　③社会主义政治文明的必然要求　④信息传播国际化的内在要求　（　）

A．①②③　　B．②③④　　C．①③④　　D．①②④

30．非典在给我们的生命构成重大威胁，给我国经济发展造成重大影响而付出昂贵代价的同时，也使我们获得深刻的启示和教益，加快自己成熟，实现自我超越。这说明　（　）

A．任何事物都有两个方面　　B．事物是普遍联系的

C．看问题要分清主流和支流　　D．事物是变化发展的

最近一段时间来，部分西方国家要求人民币升值的调门越来越高。为此，我国领导人在不同场合强调指出：保持人民币在合理、均衡水平上基本稳定，既有利于中国经济的稳定发展，也有利于地区和世界经济的发展。回答 31～33 题。

31．部分西方国家要求人民币升值意味着

①100 单位的外币可以兑换的人民币有所下降　②100 单位的外币可以比以前兑换更多的人民币　③外汇汇率跌落，人民币汇率升高　④外汇汇率升高，人民币汇率跌落　（　）

A．①③　　B．②④　　C．①④　　D．②③

32．人民币升值将会　（　）

A．有利于出口，不利于进口　　B．不利于出口，有利于进口

C．增加我国的外汇储备　　D．促进我国经济的发展

33．我国政府坚持人民币汇率基本稳定的政策，有利于中国经济的发展，有利于地区和世界经济的发展。这体现了　（　）

A．意识对物质有反作用，正确的意识会促进事物的发展

B．物质决定意识，意识是物质的反映

C．任何两个事物之间都存在着必然的联系

D．在事物发展的过程中内因是根据，外因是条件

由于近几年频繁发生自然灾害和农民调整种植结构等原因，从 2003 年 10 月份开始，我国粮食价格大幅上涨。与此同时，世界市场农产品价格也出现上涨。回答 34、35 题。

34．2003 年我国粮食价格上涨表明　（　）

A．价值决定价格　　B．商品价格与供求关系相互制约

C．价格规律的作用受到了削弱　　D．等价交换原则不适用于农村市场

35．中国的粮食价格上涨，导致国内人士忧心、国际人士担心，这进一步说明　（　）

A．农业是我国国民经济的基础，粮食是基础的基础

B．中国加入 WTO 后，已与世界经济融为一体

C．发展高产、优质、高效的农业是实现农业现代化的必由之路

D．要增加对农业的科技投入

第Ⅱ卷（非选择题，共 160 分）

二、本卷共 5 小题，共计 160 分

36．（23 分）读图（某区域图），完成下列要求。

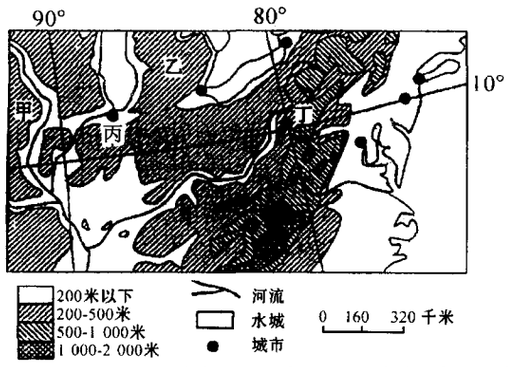

（1）甲地气候的_____（填写大陆性或海洋性）特征显著，其主要原因是_____。（6 分）

（2）图中海拔 500 米以上的区域所表示的地形区是_____（名称），该地区最重要的矿产资源是_____。（4 分）

（3）乙地的主要农产品是_____，影响其布局的主导因素是_____。（5 分）

（4）丙、丁两城是该国的重要钢铁工业中心，其中丙城钢铁工业发展的主要条件是_____；世界上与丁城钢铁工业兴起条件相似的著名工业区是_____（国家）的_____工业区。（8 分）

37．（35 分）16 世纪以来，人类社会逐渐由分散隔绝状态进入整体发展的一体化进程，其发展主线是现代化（或工业化），但是在这个过程中，不同地区表现出很大的差异性和多样性。

据此回答下列问题。

（1）一般认为真正意义上的现代化的第一步完成于 17 世纪 40 年代到 18 世纪晚期，试以欧美地区这一时期在政治、经济和文化等方面发展的新变化加以概括说明。（9 分）

（2）试以英、法、美、俄四国在走上资本主义道路过程中解决工业发展所需的国内市场问题的方法，说明世界各国在现代化进程中表现出的差异性和多样性。（10 分）

（3）新中国成立后，中国经济现代化的整体水平曾经长期处于滞后状态；自 1978 年以后的 20 多年来，我国社会主义现代化建设取得了辉煌成就。试分析造成这两种不同现象的主要原因。（16 分）

38．（34 分）阅读下列材料，回答问题。

材料一　权威数据表明，东北地区的市场化进程总指数远远低于东部沿海地区，2000 年辽宁省在内地 31 个省份中排名第 10 位，吉林省第 18 位，黑龙江省第 21 位。而在政府与市场关系的市场化指数方面，辽宁省排在第 15 位，吉林省第 20 位，黑龙江省第 27 位。在东北地区，企业的计划经济色彩太浓，对国家的依赖性太强；同时，也存在政府的缺位、错位和越位现象；国有经济比例太大，民营经济不成气候；传统产业过多，高新技术产业少，第一产业、第二产业比例太重，第三产业比例太小。

材料二　温家宝总理在振兴东北老工业基地座谈会上指出，要把老工业基地调整、改造和振兴摆到更加突出的位置，用新思路、新体制、新机制、新方式，走出加快老工业基地振兴的新路子。

（1）材料一说明了什么？从经济常识角度说明怎样才能“用新体制、新机制”振兴东北老工业基地？（14 分）

（2）从政治常识的角度，说明政府在振兴老工业基地的过程中，该如何更好地发挥作用？（10 分）

（3）结合上述材料，说明“用新思路、新机制、新方式，走出加快老工业基地振兴的新路子”的哲学意义。（10 分）

39．（32 分）阅读下列材料，回答问题。

材料一　浙江省坚持以公有制为主体，充分发挥国有经济的主导作用。让市场经济与省情相结合，充分发挥市场的基础性作用；以非公有制为基础的多种经济共同发展的区域性所有制结构与相应的企业组织结构比较完善，走出了一条利用“民资、民力、民智”发展经济的路子；政府出台了保护民营经济的法规、政策，通过总体规划和引导民营产业合理布局，提供技改贴息贷款，打击假冒伪劣产品，使民营企业从“小打小闹”到“买卖全国”，现又进入“跨国时代”。

材料二　长江三角洲地区近几十年来创造了举世瞩目的发展奇迹，在这个仅占我国国土面积 1% 比重的土地上，汇聚了中国 6% 的人口和近 22% 的国内生产总值。作为长江三角洲龙头的上海，GDP 从 1978 年的 272 亿元增加到 2001 年的 4950.8 亿元，人均 GDP 超过 4600 美元，基本上达到了国际中心城市的经济规模和经济实力，上海已从工业中心城市转变成经济中心城市。

材料三　右图为上海市 21 世纪产业沿轴线发展模式图，从市中心向外圈依次为中心商务区，第三产业为主的综合功能区，第二、三产业为主的综合功能区，第一、三产业为主的综合功能区。

（1）据统计，1992 年底，仅占全市土地面积 4.4% 的上海市原市区的工业企业、职工人数和工业总产值分别占全市工业的 41.57%、54.79%、56.63%。这表明上海的产业布局最突出的特点是工业过分集中在_____，占据了_____产业的最佳区位。这种布局，可能给社会经济发展带来的问题有：（10 分）

①_____；

②_____；

③_____；

④_____。

（2）上海市的道路交通网应为_____式布局。上海市外围发展第一产业，主要应建成_____基地。（4 分）

（3）上海市成为我国最大的商业中心的最主要原因是_____。除此以外的因素还包括_____。（8 分）

（4）从经济常识或哲学常识角度（两个角度任选其一），谈谈浙江省民营企业从“小打小闹”到“买卖全国”，现又进入“跨国时代”给我国经济发展的启示。（10 分）

40．（36 分）读下图，回答问题。

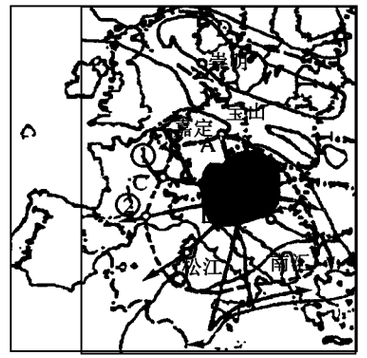

（1）A 国随气流输送出大气污染物到波兰、捷克多的原因是_____（6 分）

（2）C 国的葡萄酒公司要建设一个大型的葡萄生产基地，选择②地而不选①地的理由是_____。（8 分）

（3）D 地所处的西海岸崖壁陡峭、幽深曲折的峡湾的成因是_____。（2 分）

（4）E 国多火山地震的原因是_____（2 分）

（5）近代史上 A、C 两国哲学思想成果丰富、影响巨大，简要指出近代史上前述国家对中国民主革命产生过重要影响的两种思想理论的名称。（4 分）

（6）C 国在早期资产阶级革命时代采取的对该国历史进程影响深远的重要土地政策是什么？

简要归纳指出这一土地政策对该国近代历史进程的作用和影响。（14 分）

文 科 综 合

本试卷分第Ⅰ卷（选择题）和第Ⅱ卷（非选择题）两部分。共300分。考试时间150分钟。

第Ⅰ卷（选择题，共140分）

一、在每小题列出的四个选项中，只有一项是最符合题目要求的

读图1判断回答1～3题。

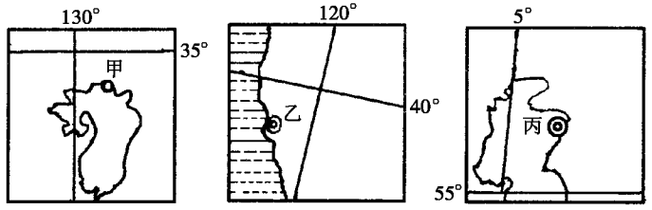

图1

1．乙地一位企业家欲考察甲、丙两地工业，于4月7日上午11点（当地区时）从乙地机场起飞，经过9小时到达甲地，经过4小时逗留考察后乘飞机飞行11小时到达丙地。则此时丙地的时间（区时）为 （ ）

A．4月8日23时　　B．4月8日19时
C．4月8日16时　　D．4月8日12时

2．一艘货轮从乙地驶向甲地，航行中既考虑缩短时间又考虑借助洋流动力，该船会经过下列洋流中的 （ ）

A．北赤道暖流　B．阿拉斯加暖流　C．北太平洋暖流　D．北大西洋暖流

3．上述三图所示地区在发展工业过程中共同的主导区位因素是 （ ）

A．原料指向型　B．动力指向型　C．市场指向型　D．技术指向型

读气压年变化图2，回答4、5题。

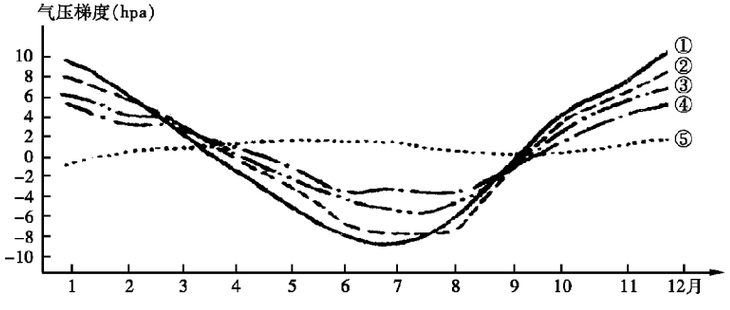

图2

4．北京、上海、广州、火奴鲁鲁四地点，若分别与图中曲线相对应，表示北京的曲线是 （ ）

A．①　　B．②　　C．③　　D．④

5．图中①和⑤地由于气压年变化会形成盛行风向的变化，也会引起风力的变化，两者之间风力最大的季节是 （ ）

A．春季　　B．夏季
C．秋季　　D．冬季

读图3判断回答6～9题。

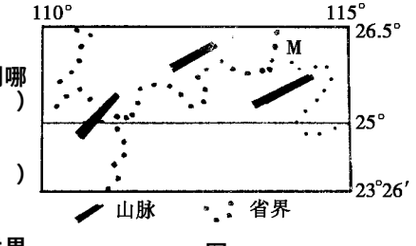

图3

6．该区域中的一条著名山脉是下列哪两大水系的分水岭？ （ ）

A．长江、黄河　B．长江、珠江
C．黄河、淮河　D．珠江、淮河

7．该区域内需要改良的土壤为（ ）

A．黑土　　B．黑钙土
C．红壤　　D．黄土

8．图中M点附近有我国储量居世界首位的矿产，其产地及名称是 （ ）

A．江西大余的钨矿　　B．云南个旧的锡矿
C．江西德兴的铜矿　　D．湖南水口山的锑矿

9．该区域内水土流失的主要原因是

①土质疏松、土层浅薄　②水系发育、冲蚀强烈　③毁林开荒、强取耕地　④砍林取薪、过度樵采 （ ）

A．①②　　B．②③　　C．③④　　D．①④

现代城市应具有两个属性；生态化和特色化。生态化的中心是人与自然的协调融合。特色化的中心是人与文化的协调融合。城市特色是城市本质的表现，是城市景观艺术和居民精神气质的统一，城市特色主要受自然背景、社会文化传统、科学技术三个要素制约。

据此完成10、11题。

10．海口成为生态特色城市是因为

①地势平坦，土壤肥沃　②地处临海，水源充足　③起步晚，规划较好　④热带季风气候，水热条件优越　⑤经济基础好 （ ）

A．①④　　B．②③　　C．④⑤　　D．③④

11．苏州成为旅游特色城市是因为 （ ）

A．交通发达，利于旅游业的发展　B．工业发达，促进了旅游业的发展
C．特色农业发展迅速　　D．自然山水与园林建筑独具特色

一定时期的文化是一定时期政治、经济的集中反映，宗教是一种文化载体，反映了一定历史时期的社会面貌。回答12～15题。

12．历史上曾有北魏太武帝、北周武帝、唐武宗“三武灭佛”的故事，造成佛教与世俗政权严重对立的主要原因是 （ ）

A．佛教传播危及儒学正统地位　B．佛教教义不符合中国传统习俗
C．佛教与世俗政权争夺经济利益　D．佛教成为农民阶级斗争的思想武器

13．受佛教传播的影响

①魏晋萧梁时，丰富了道教教义，建立起道教的神仙体系　②董仲舒提出“天命观”　③回族形成　④宋代的理学形成 （ ）

A．①④　　B．①②　　C．②③　　D．③④

14．基督教直到近代才在中国迅速传播开来，主要是因为 （ ）

A．这一时期中国传统文化衰落　B．西学东渐成为一股社会潮流
C．西方资本主义侵略不断加深　D．基督教给深重灾难的群众以精神安慰

15．在近代历史上，文艺复兴运动、启蒙运动等都把天主教会作为斗争对象，这主要是因为 （ ）

A．教会是欧洲封建势力的主要代表
B．教会势力发展严重损害世俗政权利益
C．罗马教会势力扩张损害各国民族利益
D．当时多数西方国家实行政教合一

由于各自的历史传统、具体国情不同，十九世纪以来，世界近代化的发展道路呈现多样化的趋势。回答16～19题。

16．中国近代史上，在追求经济近代化的同时，也经历了一个政治近代化的过程。下列各项中，最早提出“以法治国”主张的是 （ ）

A．魏源的《海国图志》　　B．太平天国的《资政新篇》
C．戊戌变法中的《定国是诏》　　D．同盟会的革命纲领

17．十一届三中全会后，我国在探索农村经济发展道路过程中的一项重要改革措施是发展乡镇企业和非农产业。其长远意义在于 （ ）

A．改变农村生产资料所有制　　B．吸纳农村的剩余劳动力
C．保持国民经济的综合平衡　　D．促进农村产业结构变化和现代化

18．列宁认为新经济政策是他找到的一条落后的俄国向社会主义过程过渡的正确途径。这一政策的主要特点是 （ ）

A．走私有化的道路　　B．利用货币和市场关系来扩大生产
C．加强国家对经济的干预　　D．实行高度集中的经济体制

19．二十世纪六七十年代，新加坡和韩国在发展经济方面探索出一条新的道路主要是指 （ ）

A．吸收外国资本和技术
B．优先发展劳动密集型产业
C．发展出口主导型经济
D．制定适合国情的发展战略并适时调整

20．右图是秦与隋唐时期的中央官制示意图，比较两图最能说明的是 （ ）

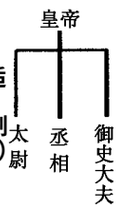

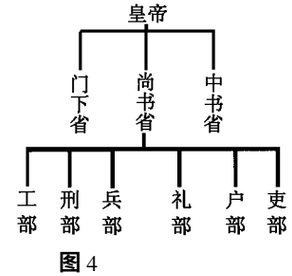

图4

A．唐代中央官吏日渐增多
B．唐代通过分权得以集权
C．唐代尚书省权力最大
D．太尉与御史大夫的权力分别下放到兵部与吏部

在中国古代，东北为我国统一多民族国家的形成作出了贡献；近代东北人民为民族的独立和解放作出了巨大牺牲；新中国成立后，东北为共和国工业的诞生和发展作出过巨大贡献；当前，重振东北的战略方针又开始启动。据所学知识，回答21～23题。

21．下列各项对东北地区的发展起到促进作用的有

①唐玄宗加授大祚荣为忽汗州都督　②猛安谋克制　③八旗制度　④改土归流　⑤奴儿干都司的设置　⑥日本对东北三省的殖民统治 （ ）

A．①②③　　B．②③④⑤　　C．①③⑤⑥　　D．①②③⑤

22．“宁做中华断头尸，不做倭奴屈膝人”，怒斥日军，最后被杀，表现了崇高的“民族气节”的东北人是 （ ）

A．左宝贵　　B．阎世开　　C．徐骧　　D．马占山

23．建国后，东北成为我国的老工业基地，其建设成就主要集中于

①一五计划期间　②全面建设社会主义时期　③文革十年期间　④社会主义现代化建设新时期 （ ）

A．①②　　B．①③　　C．①④　　D．①②④

党的十六届三中全会《决定》强调，要“使股份制成为公有制的主要实现形式”，“放宽市场准入，允许非公有资本进入法律法规未禁入的基础设施、公用事业及其他行业和领域。”回答24、25题。

24．股份制成为公有制的主要实现形式：

①将完善公有制为主体、多种所有制经济共同发展的基本经济制度　②体现了“三个有利于”的标准　③将使股份制经济控制国民经济命脉，对经济发展起主导作用　④能够扩大公有资本支配范围，增强国有经济的控制力 （ ）

A．①②③　　B．①②④　　C．①③④　　D．②③④

25．之所以要“放宽市场准入，允许非公有资本进入法律法规未禁入的基础设施、公用事业及其他行业和领域”，是因为非公有经济能够

①增强经济活力，促进经济发展　②扩大就业，增加城乡居民收入　③使公有制的实现形式多样化　④推进我国经济结构的调整 （ ）

A．①②③　　B．②③④　　C．①③④　　D．①②④

今年年初，我党相继公布了《中国共产党党内监督条例（试行）》、《中国共产党纪律处分条例》，进一步从源头上防治腐败。安徽省原副省长王怀中因犯受贿罪、巨额财产来源不明罪，于2003年12月29日被山东省济南市中级人民法院一审判处死刑，剥夺政治权利终身。回答26、27题。

26．党中央之所以高度重视反腐败斗争，是因为

①反腐败是无产阶级政党的首要任务和奋斗目标　②腐败与党的性质和宗旨相背离　③加强党同人民群众的血肉联系是当前的中心工作　④反腐败是关系到党和国家生死存亡的严重政治斗争　⑤中国共产党是全心全意为人民谋利益的 （ ）

A．①②⑤　　B．②③④　　C．①③⑤　　D．②④⑤

27．材料中的事实给我们的启示是 （ ）

A．必须树立正确的价值观，发挥正确价值观的导向作用
B．发挥主观能动性必须正视客观条件
C．看问题必须分清主流和支流
D．做工作要善于抓住主要矛盾

2003年12月25日，胡锦涛在会见各地台资企业协会会长时强调，我们将坚持“和平统一、一国两制”的基本方针，以最大的诚意、尽最大的努力实现祖国的和平统一。但我们坚决反对任何形式的“台独”分裂活动。绝不允许任何人以任何方式把台湾从中国分割出去。回答28、29题。

28．我们将坚持“和平统一、一国两制”的基本方针，以最大的诚意、尽最大的努力实现祖国的和平统一，是因为

①完成祖国的统一大业是中华民族的根本利益所在　②“一国两制”是两岸统一的最佳方式　③国家的主权和领土完整只能依靠和平方式来解决　④“一国两制”既保证了国家主权和领土的完整，又有利于台湾地区的稳定、繁荣和发展 （ ）

A．①②③　　B．②③④　　C．①②④　　D．①③④

29．我们之所以坚决反对任何形式的“台独”分裂活动，绝不允许任何人以任何方式把台湾从中国分割出去，是因为

①世界上只有一个中国，中国的主权和领土完整不容分割　②任何形式的分裂、独立都违背了中华民族的根本利益　③坚持一个中国原则，是发展两岸关系和实现和平统一的基础　④社会主义制度能够充分保证台湾同胞当家作主的政治权利 （ ）

A．①②③　　B．②③④　　C．①③④　　D．①②④

2003年12月20日，胡锦涛在全国人才工作会议上强调：“要牢固树立以人为本的观念，把促进人才健康成长和充分发挥人才作用放在首要位置，努力营造鼓励人才干事业、支持人才干成事业、帮助人才干好事业的社会环境，放手让一切劳动、知识、技术、管理和资本的活力竞相迸发，让一切创造社会财富的源泉充分涌流，以造福于人民。”回答30、31题。

30．牢固树立以人为本的观念的哲学根据是 （ ）

A．价值观随着社会存在的变化而变化
B．科学的社会意识对社会存在的发展具有促进作用
C．意识能够正确地反映客观事物
D．矛盾双方的依存是有条件的

31．之所以要努力营造鼓励人才干事业、支持人才干成事业、帮助人才干好事业的社会环境，是因为 （ ）

A．精神贡献在一定条件下可以转化为物质贡献
B．客观规律制约着人们的主观能动性发挥

C．实现人生价值需要社会提供一定的客观条件
D．外因对事物的发展具有促进作用

中共中央向全国人大常委会提出了修改宪法部分内容的建议。全国人大常委会接受中共中央的建议后，广泛听取社会各个层面的声音，讨论并制定了宪法修正案草案，于2004年3月提交第十届全国人大第二次会议审议，由全体全国人大代表讨论通过。

32．中共中央提出“建议”交全国人大常委会并由全国人大审议通过是因为
①全国人民代表大会是我国的最高权力机关　②全国人大必须听取各党派的意见　③执政党的意志要经过法定程序上升为国家意志　④中共中央作为国家最高行政机关必须对全国人大负责并报告工作　（　）
A．①③　　B．②③　　C．①②④　　D．①③④

33．修改后的宪法明确规定：“公民的合法的私有财产不受侵犯”。宪法这一修改是因为　（　）
A．公有财产与私有财产是不可分割的
B．公民在法律上是权利的主体
C．法律保护一切公民的合法权利
D．公民的权利要通过法律来予以保证

近年来，人民币是否升值的问题成为国际社会关注的一大焦点。2003年10月国家主席胡锦涛在亚太经合组织领导人峰会上指出，保持人民币汇率基本稳定，有利于中国经济的正常运行，也符合亚太地区和全球经济的发展要求。结合下图，回答34、35题。

34．右图显示我国的人民币币值　（　）
A．自1994年以来，适度贬值后，趋于稳定
B．始终处于不断地波动之中
C．自1994年以来，适度升值后，趋于稳定
D．是由美元决定，并随美元币值的波动而波动

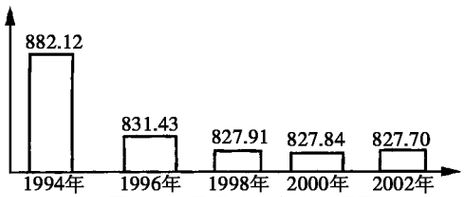

美国兑换人民币的汇率变化图示
图5

35．人民币升值对中国和世界经济产生的不利影响是
①直接打击中国的出口贸易，使中国对世界经济的带动作用难以发挥　②加剧中国的就业压力，不利于中国社会的稳定　③直接导致物价全面上涨，诱发通货膨胀　④提高外国在华投资成本，影响我国对外资的吸引力　（　）
A．①②③　　B．②③④　　C．①②④　　D．①③④

第Ⅱ卷（非选择题，共160分）

二、非选择题

36．（28分）读图6，回答下列问题

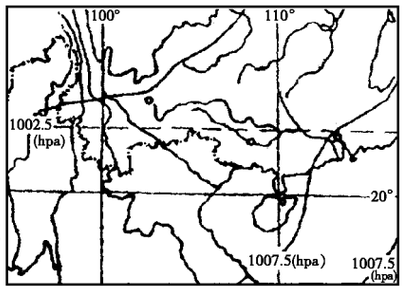

图6

（1）图示区域内，开发潜力巨大、蕴藏量居我国首位的资源是什么？其资源丰富的原因是什么？（6分）
（2）此时本区气候特点是什么？主要受什么气流的影响？（8分）
（3）从自然条件分析该地区交通线建设必须克服哪些困难？（6分）
（4）本区与“东盟”国家加强了区域经济合作，在双边贸易中现有的有利的交通运输条件有哪些？（8分）

37．（32分）阅读下列材料

材料一　在杜鲁门决定让美国再次干预中国内战之后的十年里，反华态度及反华政策进一步发展及强硬化。国务卿杜勒斯……许诺，要结束对远东的忽视，并努力孤立、包围中国。使北京政府崩溃。他强调中国只有一个，就是台湾的蒋介石政权……除了经济上、政治上采取行动反对中国以外，艾森豪威尔政府还通过迅速发展美国在东亚的军事基地和与亚洲的反共国家签订共同防御条约，继续并加强了对中国的军事包围。

——［美国］孔华润《美国对中国的反应》

材料二　［基辛格］在给尼克松的备忘录中表示：“我们对中国采取主动行动的最大好处也许就是对苏联的影响”“他们必须考虑美国同中华人民共和国合作的可能性。”由此可见，美国政府当时调整对华政策的首要目的就是利用中苏分歧，借助中国，抗衡苏联。……尼克松在就任美国总统后明确表示，美国在越南战场上全面的军事胜利是不可能的，“我得尽快并尽可能体面地结束战争”。基辛格也说：“向中国开门可能帮助我们结束那场战争的苦难”，因为中国当时是越南的主要支持者。……自新中国建立以来，美国坚持扶蒋反共、敌视中国的政策已有20余年，而今中国不仅没被遏制和削弱，反而成为世界五大力量中心之一，美国对华政策已告失败。

——王泰平主编《中华人民共和国外交史》

材料三　在《尼克松回忆录》中，尼克松回顾道：“我知道，1954年日内瓦会议时福斯特·杜勒斯拒绝同周恩来握手，使他深受侮辱……（1972年访华时）我走完阶梯时决心伸出我的手，一边向他走去。当我们的手相握时，一个时代结束了，另一个时代开始了。”

根据材料和所学知识回答
（1）1954年，杜勒斯在日内瓦会议上“拒绝同周恩来握手”反应了当时中美关系的什么状况？（3分）。试结合材料一分析其原因。（9分）
（2）而尼克松“决心伸出我的手，一边向他走去”，这反映中美关系发生了什么变化？（2分）结合材料二和所学知识，分析变化的原因。（8分）
（3）这次握手对中国的外交和国际关系产生了哪些重大影响？（6分）
（4）在中美关系正常化以后，影响中美关系正常发展的主要问题是什么？（4分）

38．（20分）材料一　党的十六届三中全会审议通过了《中共中央关于完善社会主义市场经济体制若干问题的决定》。决定提出要按照统筹城乡发展、统筹区域发展、统筹经济社会发展、统筹人与自然和谐发展、统筹国内发展和对外开放的要求，更大程度地发挥市场在资源配置中的基础性作用。

材料二　绿色壁垒是一个国家（或地区）为保护环境和保障人类与动植物安全，通过立法制定的严格的强制性技术标准，以限制不符合其生态环保标准的国外（地区外）产品进口。据统计，我国每年约有七十多亿美元的出口商品受到“绿色壁垒”的不利影响。业内人士认为，应对“绿色壁垒”的挑战，要把着眼点放在练好“内功”上。只有尽快实现农产品生产质量、卫生标准与国际接轨，抓好农产品的质量建设，才能使劳动密集型产品的价格优势真正变为竞争优势和市场优势。

材料三　三峡工程不仅是世界上最大的水利工程，也是世界上最大的移民工程。重庆万州区政府借移民搬迁之机，破产关闭了规模小、设备陈旧、污染环境、竞争力差的企业65户，同时扶大扶强了一批名优企业；云阳县借库区城镇迁建的机遇，建设了一座功能齐全、结构优化、布局合理的现代化新城，大大改善了投资环境；移民工程建设也带动了库区通信、公路等基础设施建设，解除了制约库区经济发展的“瓶颈”。

（1）材料一中的“统筹”与市场的基础性作用是什么关系？（6分）
（2）根据“统筹国内发展和对外开放的要求”，材料二是如何体现内外因相结合原理的？（8分）
（3）按照“统筹”的要求，材料三中重庆万州区和云阳县政府的做法履行了哪些国家职能？（6分）

39．（38分）　德国受第一次工业革命的影响，使其进入工业生产国。尤其是第二次工业革命极大地促进了德国工业的发展，在十九世纪末使其经济实力超过英国而成为仅次于美国的经济大国。受两次世界大战的影响，经济地位有所下降。但二战后经济发展速度较快。现在综合国力居世界前列。图9和图10分别反映了德国第一次、第二次工业革命的情况，在第一次和第二次工业革命中，优先得到发展的都是鲁尔区，因为这里有优越的区位条件（图7中阴影），使其成为德国工业的心脏。第三次工业革命过程中其他地区的发展速度超过了鲁尔区，而鲁尔区的工业逐渐衰退，为此德国对这里进行了大规模的综合整治（图8）。

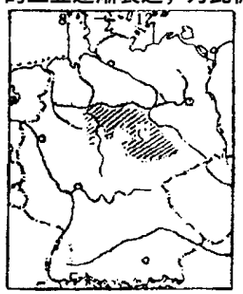
图7

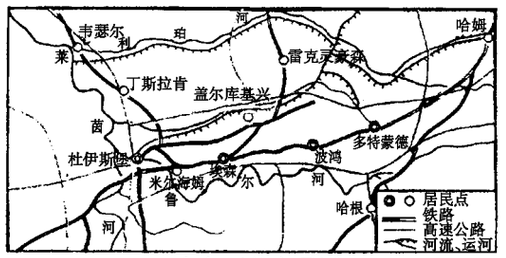

鲁尔区的交通网
图8


19世纪中期德意志的纺织厂
图9


德国最大的军工厂克虏伯工厂
图10

（1）结合图9和图10分析说明德国第一、二两次工业革命的不同特点（4分）。结合上述材料和所学知识分析形成德国第二次工业革命特点的原因。（6分）
（2）鲁尔区曾被称为“德国工业的心脏”，是在丰富的煤炭资源基础上发展起来的，钢铁工业一直是其主导企业。早期钢铁工业所需的铁矿石来自_____（国家）（2分），后来由于来源地的变化，将一部分生铁冶炼厂建在荷兰沿海，这是因为_____（6分）。
（3）鲁尔区经历一个世纪的繁荣后于二十世纪50年代经济开始衰落，60年代实施综合整治。鲁尔工业区综合整治的核心是什么？在综合整治的措施中可供我国东北老工业基地改造借鉴的措施有哪些？（8分）

2003年8月3日，温家宝在振兴东北老工业基地座谈会上指出，东北地区等老工业基地具有重要的战略地位，要把老工业基地调整、改造和振兴摆在更加突出的位置，用新思路、新体制、新机制、新方式，走出加快老工业基地振兴的新路子。

（4）我国政府提出“振兴东北”策略，体现了哪些哲学道理？（6分）
（5）运用市场经济的相关知识，简要回答：对东北老工业基地进行调整和改造，政府、企业和市场三者各起怎样的作用？（6分）

40．（42分）材料一　长江中下游平原地区地势平坦、土壤肥沃、河湖密布、水源充足、气候温暖湿润，夏季高温多雨，雨热同期，加上历史上不断开发利用，使这里成为我国最重要的农业生产区之一，历史上有“苏湖熟，天下足”和“湖广熟，天下足”的说法。

材料二　长江中下游平原和四川盆地是我国人口最稠密的地区之一，平均密度在200人/km²以上，个别地区在600人/km²以上，因此这里人均耕地较少，农村富余劳动力较多。1990年4月18日，我国政府宣布开发开放上海浦东地区。随着浦东开放开发的实施，以上海为龙头的长江沿岸工业带进入一个新的发展时期，经济保持快速，健康发展，综合经济实力不断增强。与此同时，城市也获得了较快的发展，以沪宁杭为中心的城市群是我国四大城市群（带）之一，以武汉为中心的城市群也初具规模。

材料三　　我国长江流域部分商品粮基地分布图

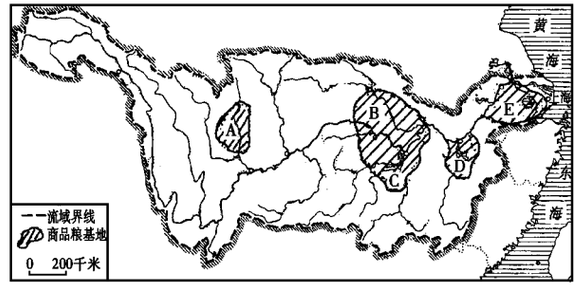

图11

（1）图中既是商品粮基地又是商品棉基地的是_____，既是商品粮基地又是出口农产品基地的是_____。（填代号）（6分）
（2）本区发展农业生产过程中主要的气象灾害是_____。可采取的主要措施是_____，在社会经济因素中耕地减少太快是本区也是全国的一大问题，在长江中下游地区耕地减少最快的地区是_____。（6分）
（3）隋唐时期，长江中下游地区农业有了较快发展，试分析其主要原因，并作简要评价。（12分）
（4）明清时期，促进这一地区人口增长、农业生产商品化加快的主要因素有哪些？（4分）
（5）由于这一区域人口密度大，造成农村富余劳动力转移就业的任务非常艰巨，请运用经济常识有关知识分析，如何转移这一区域的农村富余劳动力？（8分）
（6）针对目前这一区域有大量农村富裕劳动力进城务工就业的现象，有三种不同观点：
观点一：农民进城务工就业极大地拉动城市消费市场，加快城镇化进程。因此，国家应该鼓励。
观点二：大量农民进城务工就业，会对城市的基础设施和教育带来压力，对城市的就业带来冲击。因此，国家应该限制。
观点三：目前，城市的一些部门、单位对进城务工就业的农民工实行歧视政策，拖欠农民工工资，向农民工乱收费，农民工子女入学难，其合法权益得不到保障。因此，农民不宜进城务工就业。
请运用辩证法知识，谈谈你对这一问题的看法。（6分）

需要全本请访问：www.ertongbook.com