宁波市十校联考

第Ⅰ卷(共 140 分)

一、本卷共 35 小题，每小题 4 分，共计 140 分。在每小题的四个选项中，只有一项是符合题目要求的。

图 1 是我国某地等高线地形图(等高距单位来)读图 1 判断 1～3 题。

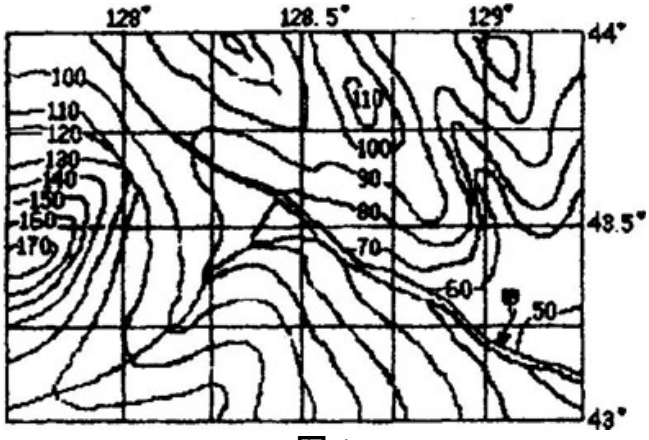

图 1

1. **图中无河流表示的山谷(干谷)，谷底和谷顶的高差至少是(　　)**

A. 40 米　　B. 30 米　　C. 20 米　　D. 10 米

需要全本请访问 www.ertongbook.com

2. 图中支流汇入干流处与甲点处的纬度和经度差分别约为(　　)

A. 0.5°和 1.5°　　B. 0.25°和 0.5°

C. 0.5°和 0.25°　　D. 1.5°和 0.5°

3. 下列说法正确的是(　　)

①该地区河流一年可能会出现两次汛期

②该地区农作物一年可以两熟

③水稻和甘蔗是该地区最主要的粮食作物和经济作物

④该地区属于我国的中温带半干旱地区

A. ①　　B. ①②　　C. ②③　　D. ①③④

4. 根据图 2 的人口分布示意图判断(　　)

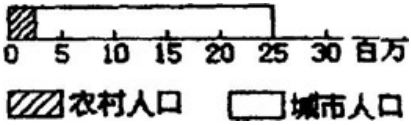

图 2

A. 该地区大约 12%左右的人口在郊外居住

B. 该地区城市人口为 2500 万

C. 这种城乡人口比例比较符合英国

D. 美国城市人口比重与图示状况相似

5. “牧童经济”是著名经济学家 K·E·博尔丁提

出的一种对自然界进行掠夺、破坏的经济模式，它使人们想起牧童在放牧时，只顾放牧而不顾草原破坏的情景。根据你的理解判断(　　)

A. 它是发展中国家经济发展的产物，也是一种低投入，高效益的模式

B. 它将导致破坏性地震、火山喷发和厄尔尼诺现象的发生

C. 土地沙化、温室效应和环境污染是“牧童经济”、带来的恶果

D. 斩伐养长、盛世滋丁和焚薮而田符合可持续发展的原则

长江是我国的第一大河，长江流域是我国工农业发达、人口众多、矿产和水力资源丰富的地区。据此回答 6～7 题。

6. 长江三峡工程经过近半个世纪的研究和论证，于 1992 年 4 月 3 日下午在七届全国人大五次全体会议上通过表决拍板定案的。这说明(　　)

①人民代表大会是我国最高国家权力机关

②全国人民代表大会具有最高立法权和决定权

③全国人民代表大会实行民主集中制的原则

④我国重大决策的制定和实施体现了民主化和科学化

A. ①② B. ②③ C. ②④ D. ③④

7. 长江流域的西部省(市)的优势资源有(　　)

A. 太阳能、石油　　B. 水力、有色金属

C. 温带草原、野生动植物　D. 耕地、岩盐

图 3 为世界某一区域地图。读图 3 判断 8～10 题。

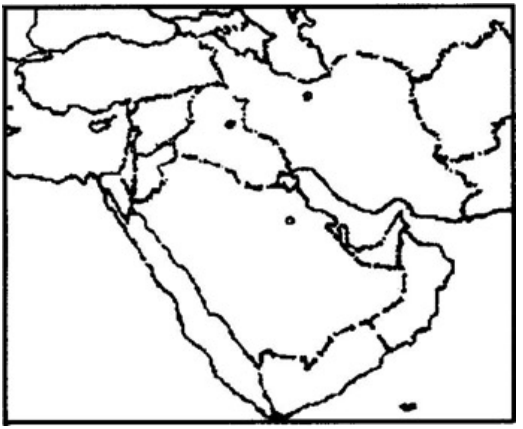

图 3

8. 下述内容与图示地区实际情况相符的有(　　)

①某种丰富的常规能源和新能源

②某种丰富的金属矿产和森林资源

③历史悠久的文明古国

④较密集的黑人分布

⑤重要的交通和战略位置

⑥较高的经济和科技水平

A. ①②③　B. ④⑤⑥　C. ①③⑤　D. ①⑤⑥

9. 下述因素对图示地区气候有影响是(　　)

①中纬西风　②东北信风　③东南信风

④副热带高压　⑤亚洲高压　⑥副极地低压

A. ②④⑤　B. ①②④　C. ①③④　D. ②⑤⑥

10. 12 月份，图示区域的物资经好望角运到北美洲，下列洋流可能起助航作用的是(　　)

①索马里暖流　②索马里寒流

③厄加勒斯暖流　④北大西洋暖流

⑤加那利寒流　⑥本格拉寒流

⑦南赤道暖流　⑧拉布拉多寒流

A. ①③④⑤　B. ②③⑤⑧

C. ③④⑤⑥　D. ①③⑥⑦

中国古代外交以友好交往为主，到了近代步入屈辱的外交之路，新中国成立以来，我国奉行和平的外交政策，取得了重大成就。据此回答 11～14 题。

11. 下列能说明西汉时期中外交往情况的有(　　)

需要全本请访问 www.ertongbook.com

①与西亚的通商关系发展起来

②佛教开始传人中原地区

③政府与欧洲国家直接友好往来

④中国的造纸技术传人日本

A. ①② B. ①②③ C. ②③④ D. ①②③④

12. 对 1919 年中国外交代表最终没有在巴黎和约上签字的原因表述不正确的是(　　)

A. 五四运动的声援

B. 北洋政府代表不畏权

C. 日本提出了无理要求

D. 英美支持中国，不愿日本独占中国

13. 20 世纪 70 年代，中国外交形势发生重大转变的关键在于(　　)

A. 毛泽东提出“三个世界”划分的重要思想

B. 中美关系逐步缓和

C. 恢复中华人民共和国在联合国的合法席位

D. 中日邦交正常化

14. 邓小平说:“中国的事情要按中国的情况来办，要依靠中国人自己的力量来办。”这主要说明(　　)

A. 独立自主是我国外交政策的基本立场

B. 和平共处五项原则是我国对外关系的基本准则

C. 加强同第三世界国家的团结与合作，是我国对外关系的基本立足点

D. 坚持对外开放，加强国际交往，是我国的基本国策

社会生活的变化反映了人类历史的变迁。据此回答 15～17 题。

15. 以下四种作物传入我国中原地区的时间先后顺序是(　　)

①胡椒　　②占城稻　　③葡萄　　④玉米

A. ①②③④　B. ③①②④

C. ①③②④　D. ③②①④

16. 鸦片战争导致中国社会经济生活发生重大变化，下列表述不正确的是(　　)

A. 中国丝、茶生产的商品化程度提高

B. 外国棉纺织品进入中国市场，但未能大量倾销

C. 江苏松江、太仓一带布市大减

D. 鸦片贸易开禁

17. 20 世纪 20 年代，中国社会不可能出现的现象

是(　　)

A. 乘火车出游到北京，看京剧艺术表演

B. 白话文和新式标点符号已经在一些刊物中使用

C. 男子着装时兴中山装和西装

D. 尊孔古活动到处盛行

20 世纪初期，以孙中山为首的资产阶级革命派领导了辛亥革命，这是中国人民在前进道路上经历的第一次历史性的巨大变化。据此回答 18～20 题。

18. 促使民主革命思想成为 20 世纪初中国社会新思潮主流的主要因素是(　　)

A. 资产阶级和小资产阶级革命知识分子队伍扩大

B. 留洋学生增多

C. 资产阶级改良方案破产

D. 清政府已成为洋人的朝廷

19. 民国初年，以孙中山为首的革命党人为争取和维护民主共和制度而采取过的斗争方式有(　　)

①举行双边谈判　　②利用政党政治

③运用法律手段　　④进行武装斗争

A. ①②③　B. ①②④　C. ②③④　D. ①②③④

20. 辛亥革命后不久，资产阶级革命派的心态是

(　　)

A. 革命失败了，因为革命果实落入了袁世凯手中

B. 革命失败了，但对袁世凯抱有幻想

C. 革命胜利了，因为建立了资产阶级共和国

D. 革命胜利了，但对袁世凯不信任

国务院总理朱镕基在九届人大五次会议上指出："在世界经济增长明显减速的情况下，我们坚持扩大内需的方针，坚定地实施积极的财政政策和稳健的货币政策实现了经济快速增长。"据此回答 21～23 题。

21. 我国当前要坚持扩大内需的方针，其依据在于(　　)

①生产力水平较低，商品经济不发达

②有效需求不足，市场供过于求

③生产决定消费，消费对生产具有反作用

④生产资料所有制和分配制度还不够完善

A. ①②　　B. ③④　　C. ②③　　D. ②④

22. "坚定地实施积极的财政政策和稳健的货币政策，实现了经济快速增长。"这体现了以下哲理(　　)

①正确的意识对客观事物起促进作用

②事物之间是相互联系的

③内因是事物发展的根据，外国是事物发展的条件

④实践是认识发展的动力和根本目的

A. ①② B. ②③ C. ①④ D. ②④

23. 上述朱镕基在九届人大五次会议上的讲话体现了以下政治学理论( )

A. 经济决定政治，经济是政治的基础

B. 政治对经济具有反作用

C. 政治是经济的集中表现

D. 政治关系随着社会经济的发展而变动

受世界经贸形势影响，2001 年我国外贸形势并不乐观，与上年 27.8%的出口增幅相比，出口增长至少回落 20 个百分点。据此回答 24～26 题。

24. 外贸出口增幅的回落表明( )

①我国经济发展的速度已经减缓

②部分产品的国际竞争能力相对降低

③出口贸易不能不受到全球经济形势的影响

④我国进出口贸易中显示了逆差迹象

A. ①② B. ②③ C. ①③ D. ②④

25. 一个国家的货币汇率往往是影响一个国家对外贸易的重要因素。这表明(　　)

A. 外汇汇率升高，本国货币相对贬值，有利于提高出口产品的竞争能力

B. 外汇汇率降低，本国货币相对升值，有利于降低企业的生产成本

C. 国家必须经常调整外汇的汇率来鼓励出口

D. 世界价格的形成受到各国汇率波动的影响

26. 为了鼓励企业出口生产，提高国际竞争能力，国家必定要采取一些相关的措施。这主要体现了以下国家职能的实施(　　)

A. 组织和领导社会主义经济建设

B. 正确处理人民内部矛盾，维护社会的稳定

C. 组织和领导社会主义精神文明建设

D. 搞好社会公共服务，提高人民的生活质量

经党中央、国务院批准，我国现行宪法实施日即12月4日被确定为每年一次的全国法制宣传日。运用相关知识回答27～29题。

27. 从经济常识来看，我国之所以要加强法制建

需要全本请访问 www.ertongbook.com

设，是因为(　　)

①市场经济是法制经济，加强法制建设是规范市场秩序的保障

②健全的法律制度有利于我国更好地参与世界竞争

③加强法制建设能促进企业经营者提高自身素质，杜绝违法行为的出现

④法制建设是国家加强宏观调控的主要手段之一

A. ①②　　B. ②③　　C. ①③　　D. ②④

28. 任何权利都是在宪法和法律许可的范围内存在的，否则权利就会被剥夺。这蕴含了以下哲理(　　)

A. 矛盾存在于一切事物中并贯穿于每一事物发展过程的始终

B. 矛盾双方的对立和统一始终是不可分离的

C. 每一事物所包含的矛盾各不相同，要具体问题具体分析

D. 要分清矛盾的主次方面，把握事物的性质和方向

29. 1954 年我国第一部社会主义类型宪法——

《中华人民共和国宪法》的颁布表明(　　)

①《中国人民政治协商会议共同纲领》代替国家宪法的状态结束

②新中国政治体制基本形成

③第一届全国人民代表大会完成了它的首要任务

④社会主义改造和建设取得新的成果

A. ①②③　B. ②③④　C. ①③④　D. ①②③④

在党中央、国务院直接领导下，全体办案人员经过近两年的努力，新中国成立以来查处的最大的一起经济犯罪案件——厦门特大走私案的查处工作终于划上了一个句号。运用相关知识回答 30～32 题。

30. 走私活动对国民经济的发展带来的严重危害表现在(　　)

①导致税款的大量流失，严重影响国家的财政收入

②影响社会劳动生产率的提高，不利于商品价值总量的降低

③冲击正常的市场秩序，不利于企业在市场中开展平等的竞争

④影响民族经济的正常发展和国家综合国力的提

高

A. ①②③　B. ②③④　C. ①②④　D. ①③④

31. 作为国家领导干部必须正确处理好国家利益和个人利益之间的关系，树立正确的世界观、人生观和价值观。从哲学上来看，这体现了(　　)

①价值观是一种社会意识，是社会存在的反映，并随着社会存在的变化而变化

②人生价值是自我价值和社会价值的统一

③在改造客观世界的同时必须不断改造自己的主观世界

④无论是改造客观世界还是改造主观世界都离不开社会实践

A. ①②　　B. ②③　　C. ①③　　D. ②④

32. 新中国成立以来，党和政府非常重视对经济违法犯罪活动的打击，1951 年—1952 年开展的“三反”运动(“反贪污”、“反浪费”、“反官僚主义”)和“五反”运动(“反行贿”、“反偷税漏税”、“反偷工减料”、“反盗骗国家财产”、“反盗窃国家经济情报”)旨在打击(　　)

A. 私营企业中的不法资本家

B. 国营企业中的腐化堕落分子

C. 国家机关和企业中的腐化堕落分子与私营企业中的不法资本家

D. 国家机关和国营企业中的腐化堕落分子

北京时间 2001 年 7 月 13 日 21 时，在莫斯科举行的国际奥委会第 112 次全体会议投票表决，北京获得了 2008 年第 29 届奥达会举办权。据此回答 33～35 题。

33. 此时一位海外华人在阳光下正好发现自己的人影不见了，此人位于(　　)

A. 北半球、西半球　B. 北半球、东半球

C. 南半球、西半球　D. 南半球、东半球

34. 中华人民共和国政府最早派体育代表团参加的国际奥林匹克运动会是(　　)

A. 汉城奥运会　　B. 洛杉矶奥运会

C. 巴塞罗那奥运会　D. 亚特兰大奥运会

35. 北京从开始申奥到最后获得 29 届奥运会举办权，这一过程说明(　　)

①事物的变化发展是前进性和曲折性的统一

②主观努力程度是取得成功的决定性因素

③感性认识上升到理性认识是一切认识发展的基本途径

④人民群众是社会实践的主体

A. ①② B. ②③ C. ①④ D. ②④

第II卷(共160分)

二、本卷共6小题，共160分

36. 读下面三幅示意图，回答问题: (10分)

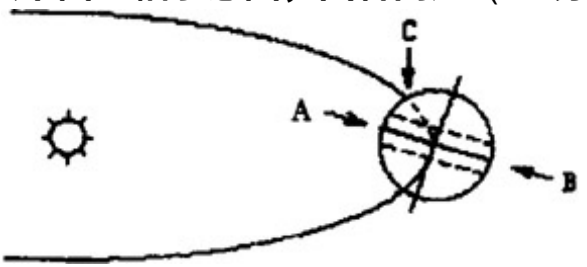

图4

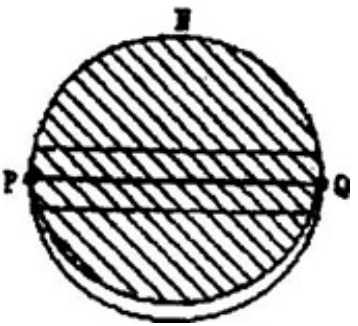

图5

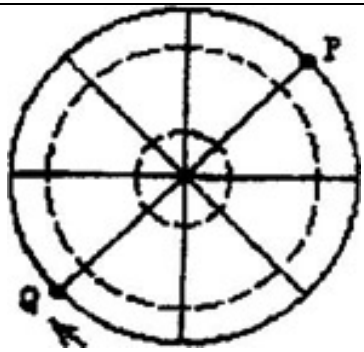

图 6

(1) 图 5 所示的情况，是观测者从图 4 中 A、B、C 三个空间位置中的_____处所观测(拍摄) 到的情况。(2 分)

(2) 此季节影响我国大陆天气和气候的重要大气活动中心是____经常出现的灾害性天气是。(4 分)

(3) 把图 5 所示的晨昏线转绘到图 6 上，并用斜线标出夜半球。(4 分)

37. 阅读下列材料回答有关问题: (15 分)

材料一　农村城市化是指以从事农业为主、居住较为分散的农村，向以从事手工业和第三产业为主的农民相对集中的城镇或城市转变的过程，它是中国城市化道路中的重要组成部分。长江三角洲地区农村城市化启动最早，表现最为强烈。

需要全本请访问 www.ertongbook.com