文科综合

■ 按新高考说明设计编写
■ 答案详尽 图表清晰
■ 编校准确 数学文理合卷
■ 全国高考教辅书排行榜第一

天利38套

2004
全国各省市
QUANGUOGESHENGSHI

GAOKAO MONI SHITI HUIBIAN

高考模拟试题汇编

全国高考命题研究组
北京天利考试信息网 编

38+10套
语文 英语 数学 理综

读天利品牌书
圆名牌学校梦

文科综合

西藏人民出版社

图书在版编目(CIP)数据

高考模拟试题汇编．文科/《高考模拟试题汇编》编写组编．
—拉萨:西藏人民出版社,2003.7
ISBN 7-223-01589-6

Ⅰ.高… Ⅱ.高… Ⅲ.文科(教育)—课程—高中—习题—升学参考资料 Ⅳ.G634

中国版本图书馆 CIP 数据核字(2003)第 041031 号

38已在国家工商行政管理总局商标局注册
经调查发现不少盗版书商和众多学校大量盗印"天利38套"系列图书。读者购买时请认准38和"天时地利，考无不胜"标志。
欢迎举报盗版 电话:010-64684153

高考模拟试题汇编(文科)

——天利 38 套高考模拟试题(文科综合)

作　　者　本书编写组
责任编辑　李海平
封面设计　谭仲秋
出　　版　西藏人民出版社
社　　址　拉萨市林廓北路 20 号　　邮政编码　850000
北京发行部:100027　北京 4717 信箱
电　　话:010-64684153,64680026,64651171
印　　刷　北京市后沙峪印刷厂
经　　销　全国新华书店
开　　本　8 开(787×1092 毫米)　　字　　数　1140 千
印　　张　45.25
版　　次　2003 年 7 月第 3 版第 1 次印刷
标准书号　ISBN 7-223-01589-6/G·682
定　　价　47.20 元(共 4 册)

编写使用说明

本从书是"天利 38 套"系列中的一套,丛书含语文、英语、数学、理综、文综、文理综合、物理、化学、生物、政治、历史、地理共 12 册,各科试题均从全国各省市的近 200 套试题中精选而来,其中语文、英语、数学、理综每册均含 48 套(38 套+10 套)试题,其它各科基本上选用了 38 套(大综合除外)试题。本书适合全国各地考生。

"天利 38 套"自 2000 年出版以来,年年 100%更新,年年受到全国各地考生的青睐,2003 年版已进入全国教辅书畅销书排行榜前 5 名。

"天利 38 套"备受好评,除了价廉、可撕可拆、使用方便外,更重要的原因是根据高考变化和读者需要不断地修改和完善。2004 年版"天利 38 套"克服了以前版本和其它同类书的缺点,具有一些明显的特点:

1. 组织一批专家对试题进行评估,试题质量不过关,本书决不选用;

2. 根据读者要求,加大了字号(英语册还改成了大开本),图表更清晰、答案更详尽,大大提高了试题的有效使用率;

3. 英语听力由美国专家朗读,发音、语速完全符合考试要求,听力基本上按考试要求朗读一遍或两遍(高考试题个别题未录音);

4. 因为 2004 年高考大部分省市改用新课程卷,本书充分考虑了这一情况,选用试题尽量与 2004 年考试要求一致;

5. 需要读者注意的是,2003 年各省市采用高考形式和要求不尽相同,模拟试题也有差别。如上海市单独命题,北京市语文、英语、数学科单独命题(理综、文综同全国),这两市试题略容易些,广东、广西、河南、辽宁采用"3+大综合+1"模式,江苏采用"3+2"模式,综合科目下的单科试题与纯粹的单科试题训练难度是有区别的。另外,本书选用的河南、天津、江西、山西、黑龙江、山东、安徽、青海、江苏、辽宁十个省市的模拟试题属新课程卷试题,而其它省市则属旧课程卷,但语文、英语、物理、化学、政治、历史等科的新旧课程卷没有或只有很少的差别。这些是教师和考生选用试题时要稍加注意的。不过,好在本书编辑时已充分考虑了这些情况,加上本书试题之间的这些区别并不大,考生尽可放心选用练习;

6. 编者建议读者应根据自身的水平、复习进度选用试题。比如复习初期、中期、冲刺阶段可以选做不同的试题以了解自己的水平;基础较差的读者可少选一些、选容易些的试题。

读者如对本书有意见、建议、感想或对试题的评价(如试题水平排名),请来信寄至:100027　北京 4717 信箱　天利 38 套编委会或登陆"天利考试信息网"(www.TL100.com)留言。在本书的编写过程中得到了北京大学、清华大学、中国人民大学专家和各地教研室的大力支持,在此一并致谢。未取得联系的部分教师、编者、专家请与编委会联系。本书不足之处,敬请批评指正。

编　者
2003 年 7 月于北京

西藏人民出版社新书介绍

天利 38 套精选(16-20 套试题)　每科册定价:6.80 元
天利 38 套专题训练　每科册定价:10.00 元
天利 38 套活页试题(名校联考,配套 38 套)
第 1 期　9 月出版,摸底卷　每科册定价:6.80 元
第 2 期　2 月出版,断说明卷　每科册定价:6.80 元
第 3 期　3 月出版,冲刺卷　每科册定价:6.80 元
第 4 期　4 月出版,关门卷　每科册定价:6.80 元

订书到各新华书店,也可向西藏人民出版社北京发行部邮购,邮购需另加 10%邮费。

北京天利考试信息网加入办法

"北京天利考试信息网"(www.TL100.com)包括:网上的网和网下的网。

——向网员提供最新考试信息动态(如最新考试说明变化、政策变动等)、试题下载、志愿填报咨询、高校及专业查询、分数线查询、各类考试要求与动态等。

——向网员邮寄考试动态刊物、寄送推荐新书、寄送新试题(如北京三区试题),组织研讨会、寄赠手册,为网员提供优惠和其它各项服务。网员订书 7 折优惠,网员考上北大、清华可获 500~800 元贺礼礼品。

加入"天利考试信息网",也许你一生的命运从此改转

北京天利考试信息网加入办法

(1)订阅西藏人民出版社"天利 38 套"等图书 10 册以上(收集齐 10 张订书回执,填好后交寄信息网);

(2)汇寄 20 元入网费;

(3)教师填表可直接申请加入或交流有用试题或信息。

北京天利考试信息网联系办法

通讯:100027　北京 4717 信箱天利考试信息网

电话:010-64635854,84483652,84480193

传真:010-64633822　　E-mail:info@TL100.com

西藏人民出版社"天利 38 套"回执及网员申请表

姓名		性别	年龄	电话	
地址				邮编	
身份	教师:科目:		任教年级:	职务:	
	学生:学校:	年级:			
购书名称及科目				售书书店	

文科综合目录

1. 北京市东城区高三年级综合练习(二)
2. 北京市东城区高三年级综合练习(三)
3. 北京市西城区 4 月高三抽样测试
4. 北京市西城区 5 月高三抽样测试
5. 北京市海淀区高三第二学期期中练习
6. 北京市海淀区高三第二学期期末练习
7. 湖北省黄冈中学等八校高三第二次联考
8. 武汉市部分重点中学高三年级调研考试
9. 湖北省黄冈市 4 月份高三质量检测
10. 湖北省八市高三联考
11. 福建省达标中学高中毕业班质量检查
12. 福州市高中毕业班质量检查
13. 重庆市高三第一次联合诊断性考试
14. 重庆市高三第二次联合诊断性考试
15. 天津市高三质量调查
16. 天津市十二所重点中学高三联合测试
17. 成都市高三第一次诊断性检测
18. 成都市高三第二次诊断性检测
19. 四川省高考适应性考试
20. 长春、沈阳、大连、哈尔滨四市高中毕业班第一次联合考试
21. 长春市高三调研考试
22. 南昌市高三调研测试
23. 西安市高考分卷考试
24. 陕西省渭南市高三质量检测
25. 陕西省高三教学质量检测考试(三)
26. 陕西省高三年级联考
27. 济南市 4 月高三统一考试
28. 杭州市第二次高考科目教学质量检测
29. 浙江省宁波市十校高三联考
30. 太原市高三年级模拟考试
31. 贵阳市高三调研考试
32. 安徽省部分重点中学高三素质测试
33. 皖中地区省示范高中高三联考
34. 昆明市普通高中高三年级统一考试
35. 哈六中暨哈工大实验中学高三阶段性验收
36. 湖北省黄冈市 5 月份高三质量检测

参考答案及解题提示

附Ⅰ　2003 年普通高校招生统一考试(全国卷)

附Ⅱ　2003 年普通高校招生统一考试(新课程卷)

普通高校招生考试参考答案

天利38套

38套　全国各省市

高考模拟试题汇编

全国高考命题研究组
北京天利考试信息网　编

文科综合

西藏人民出版社

北京市东城区高三年级综合练习（二）

1 A

文 科 综 合

第Ⅰ卷（选择题，共140分）

一、本卷共35题，每小题4分，共计140分。在每小题列出的四个选项中，只有一项是最符合题目要求的。

图1－1是“沿40纬线某大陆1月、7月温度变化曲线及各地年降水量分布图”，读图回答1—3题。

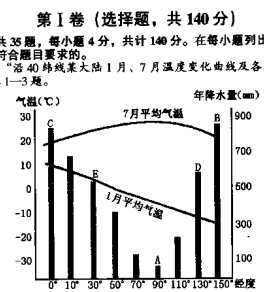

图1－1

1. 图中A地降水量比B地少的原因是（　　）
A. 受副热带高压控制，盛行下沉气流
B. 位于山地背风坡的雨影区
C. 深居大陆内部，远离海洋
D. 终年受热带大陆气团控制，干燥少雨

2. 图中B、C两地相比，下列叙述正确的是（　　）
A. B地气温年较差比C地小
B. B地1月平均气温比C地低15℃左右
C. B地降水集中在冬季，C地降水集中在夏季
D. B地降水量的季节变化比C地大

3. E地所在国家是（　　）
A. 埃及　　B. 土耳其　　C. 意大利　　D. 德国

下表为中国、印度、美国、澳大利亚1997—1999年耕地利用情况，分析表中数据回答4—6题。

国家	耕地总面积（千公顷）	人均耕地面积（公顷/人）
①	176950	0.67
②	51885	2.68
③	95467	0.08
④	297319	0.30
世界	13379680	0.24

4. 表中①②③④代表的国家依次是（　　）
A. 澳大利亚、美国、中国、印度　B. 美国、澳大利亚、中国、印度
C. 美国、澳大利亚、印度、中国　D. 印度、澳大利亚、中国、美国

5. ①国的国土面积比③国小，但耕地面积却比③国大得多，原因是（　　）
A. ①国河流众多，有广阔的冲积平原
B. ①国受季风气候影响，干旱区面积小
C. ③国山区面积广大，耕地比重小
D. ③国人口众多，人均耕地面积小

6. ③④两个国家发展农业生产的不利条件，相同的是（　　）
A. 热带沙漠广布　　B. 水旱灾害频繁
C. 人均耕地面积低于世界平均水平　D. 人口稀少，劳动力不足

西太平洋航线简称西太航线，既是连接东北亚和东南亚的海上长廊，也是连接太平洋、沟通印度洋的交通要冲。西太航线主要有两条：一条是东北亚——东南亚航线，另一条是中东——关岛——日本航线。据此回答7—8题。

7. 中东——关岛——日本航线又称“石油航线”，该航线从中东运输石油到日本，依次经过（　　）
A. 波斯湾—曼德海峡—印度洋—马六甲海峡—日本
B. 波斯湾—霍尔木兹海峡—太平洋—马六甲海峡—日本
C. 波斯湾—霍尔木兹海峡—印度洋—马六甲海峡—日本
D. 波斯湾—直布罗陀海峡—太平洋—曼德海峡—日本

8. 20世纪40年代初，对日本实行贸易禁运、禁止向日本出口石油的国家是（　　）
A. 英国和法国　B. 中东和荷兰　C. 美国和英国　D. 法国和美国

读图1－2，回答9—11题。

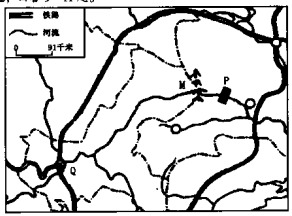

图1－2

9. 图中山脉M为（　　）
A. 雪峰山　　B. 武夷山　　C. 巫山　　D. 贺兰山

10. 图中P处水能资源丰富，主要原因是
①地处我国地势的第一、二级阶梯的过渡地带，河流落差大　②地处我国地势的第二、三级阶梯的过渡地带，河流落差大　③地处我国季风区，降水丰沛，河流径流量大　④地处山地迎风坡，降水丰沛，河流径流量大（　　）
A. ①②　　B. ①③　　C. ②③　　D. ②④

11. 图中Q为我国重要的钢铁工业城市，该城市兴起的主要原因是（　　）
A. 邻近大冶铁矿，原料丰富
B. 位于嘉陵江与长江交汇处，水运便利
C. 位于京广线与陇海线交汇处，是重要的铁路枢纽
D. 地处成都平原商品粮基地，农业经济基础好

2001年9月，我国首次由20万人历时5年进行的大规模全面勘界工作完成。勘定了全国68条、长约62000多千米的陆地省界（不含港、澳、台）以及2800多个县级行政单位界线，从而中国彻底结束了两千多年来行政区域界线不清的历史。回答12—15题。

12. 秦朝的郡县制开辟了中国行政区划的先河，下列关于郡守县令的不正确表述是（　　）
A. 是地方行政长官
B. 由皇帝直接任免
C. 可以在辖区内铸造钱币
D. 是皇帝加强对全国各地权力控制的工具

13. 下列关于清朝行政区域的划分和管理的表述，正确的是
①清朝把全国划分为25个省级行政区域和内蒙古盟旗等　②伊犁将军管辖西部青海、新疆地区　③两个办事大臣辖区是西藏、西宁　④管理各省区的地方官吏设总督、巡抚、将军、办事大臣（　　）
A. ①②③④　　B. ①②④　　C. ②③④　　D. ①③④

14. 关于目前我国行政区划的叙述，正确的是（　　）
A. 我国的行政区域，基本分为省、直辖市、县三级
B. 新疆是我国面积最大的自治区
C. 上海是我国人口最多的直辖市
D. 北回归线穿过的省自东向西依次为滇、桂、粤、台

15. “厘正疆界乃国家之要政”，中国省、县两级陆地行政区域界线全部划定，并用法律形式将其确定下来的意义在于（　　）
①有利于民族团结和社会稳定　②有利于资源的合理开发和利用　③有利于行政区域界线的法制化管理　④有利于国家统一和领土完整
A. ①②③④　　B. ①②③　　C. ①②　　D. ①③

根据图1－3，结合所学知识，回答16—17题。



图1－3

16. 两部著作的共同点不包括（　　）
A. 是世界文化发展史上的重要文献
B. 是科学家勤奋钻研实地考察的成果
C. 是中国近代科技走在世界前列的象征
D. 是封建制度走向衰落时出现的总结性科学巨著

17. 下列著作与上述两部书内容类别较为接近的一组是（　　）
A. 《伤寒杂病论》、《周髀算经》　B. 《甘石星经》、《齐民要术》
C. 《唐本草》、《缀术》　D. 《千金方》、《梦溪笔谈》

孙中山讨伐袁世凯说：“既总共和，即举民贼”。回答18—19题。

18. 1914年，袁世凯修改《大总统选举法》，这一事件表明（　　）
A. 在此之前总统缺乏行政权力　B. 内阁制已不适应时代需要
C. 袁世凯已动摇了民主共和政体　D. 总统可以连任

19. 下列关于护国运动的评述，正确的有
①起因于袁世凯对外变国对内镇压　②为了恢复民主共和制度　③为了推翻倒行逆施的统治者　④体现了民主共和观念深入人心（　　）
A. ①②③　　B. ②③④　　C. ①②④　　D. ①②③④

英国资本主义的发展状况，对世界近代历史产生了重大的影响。回答20—21题。

20. 英国资产阶级革命前夕，新贵族不反对工业生产的发展，后与资产阶级结盟，这表明英国新贵族（　　）
A. 与资产阶级的社会地位相同　B. 同资产阶级有共同的经济利益
C. 同资产阶级思想观念一致　D. 要求彻底改变封建生产关系

21. 19世纪晚期英国逐渐丧失世界工业垄断地位的最主要原因是（　　）
A. 美国、德国经济的飞速发展
B. 英国资本家不愿更新技术和设备
C. 英国资本家可从殖民地获取巨额利润
D. 英国的垄断垄断相对较低

在美国200多年的历史进程中，其经济和政治的发展有其自身的特点。回答22—23题。

22. 在第一次工业革命中，美国涌现出许多新发明，对其影响最大的是（　　）
A. 轮船　　B. 标准化生产方法
C. 轧棉机　　D. 拖拉机

23. 在美国独立战争和美国内战中均没有解决的问题是（　　）
A. 土地问题　B. 黑人奴隶制　C. 种族歧视　D. 国家统一

党的十六大要求以资本社会主义市场经济体制为目标，进一步改革分配制度，调整和规范国家、企业和个人的分配关系。据此回答24—26题。

24. 十六大提出，要确立劳动、资本、技术和管理等生产要素按贡献参与分配的原则，完善按劳分配为主体、多种分配方式并存的分配制度。确立生产要素参与分配的依据是
①社会主义市场经济的要求　②存在着多种所有制经济　③各种生产要素都具有价值　④各种生产要素在生产中都发挥了作用（　　）
A. ①②　　B. ①③　　C. ①②④　　D. ①②③④

25. 为了最广泛、最充分地调动一切积极因素，一切合法的劳动收入和合法的非劳动收入，都应该得到保护。这里所说的合法的非劳动收入包括
①企业职工所获得的奖金收入　②私营企业主、个体工商户的混合收入　③企业经营者的财产收入和风险收入　④银行存款、购买债券、投资股市获得的收入（　　）
A. ①②　　B. ②④　　C. ②③④　　D. ③④

26. 在分配中，要坚持效率优先，兼顾公平，初次分配注重效率，发挥市场的作用；再分配注重公平，加强政府对收入分配的调节职能。这里体现的哲学道理是（　　）
A. 要处理好主次矛盾的关系，既要抓重点，又要统筹兼顾
B. 事物发展的不同阶段矛盾有不同特点
C. 要处理好矛盾主次方面的关系，既要全面，又分清主流支流

D. 看问题要坚持一分为二的观点

这令已有着352年历史的著名老字号企业王麻子剪刀厂，截止2002年5月31日，负债总额已达到了2779余万元，资产负债率为216.6%，近日向法院申请破产。据此回答27—28题。

27. 对企业破产的正确认识是

①可以强化企业的风险意识 ②可以形成优胜劣汰的竞争机制，及时淘汰落后企业 ③会使失业工人增多，就业压力增大，不宜采用 ④可以达到资源的合理配置，实现产业结构的合理调整 ( )

A. ①②③④ B. ①② C. ②④ D. ①②④

28. 该厂衰败的原因之一，在于它的主要产品一直延续传统的铁夹铜工艺，工艺复杂，成本高，外观不如不锈钢漂亮，产品难以被市场接受。由此我们得到的哲学启示是

①要用发展的观点看问题，不断提出新问题，解决新问题 ②要用联系的观点看问题，看到事物之间存在的联系 ③要学会在复杂的事物中解决主要矛盾 ④内因是事物变化发展的根据，外因是事物变化发展的条件 ( )

A. ①②③④ B. ①②③ C. ①③ D. ①②

十六大刚刚开过，胡锦涛总书记一行来到西柏坡学习考察，重温毛泽东同志当年提出的“两个务必”，告诫全党要大力发扬艰苦奋斗的作风。据此回答29—30题。

29. 之所以要大力发扬艰苦奋斗的作风，是因为

①社会主义初级阶段的国情决定的 ②我国社会的主要矛盾决定的 ③价值观对人们的行动具有正确的导向作用 ④我们面临复杂多变的国际形势 ( )

A. ①②③ B. ①② C. ①②④ D. ①④

30. 毛泽东同志当年讲：夺取全国胜利，这只是万里长征走完了第一步。中国的革命是伟大的，但革命以后的路程更长，工作更伟大，更艰苦。务必使同志们继续保持谦虚、谨慎、不骄、不躁的作风，务必使同志们继续保持艰苦奋斗的作风。“两个务必”提出的哲学依据是 ( )

A. 量变质变是事物发展的两种状态

B. 事物发展是前进性与曲折性的统一

C. 注重事物量的积累，坚持适度原则

D. 正确的意识可以促进事物的发展

加强民族团结，维护祖国统一，是中华民族的最高利益，也是各民族的共同愿望。据此回答31—33题。

31. 在十六大报告中我们党以争取和平统一的最大诚意提出：两岸尽早恢复对话，进行和平统一谈判，暂时搁置某些政治争议，在坚持一个原则的基础上，什么都可以谈。这里的原则是指 ( )

A. 坚持台湾保持原有的社会制度不变，高度自治的原则

B. 坚持台湾回到不能太限期地拖延下去的原则

C. 坚持和平统一的原则，但决不承诺放弃使用武力

D. 坚持一个中国的原则，中国的主权和领土完整不容分割

32. 2002年海峡两岸经贸交流又有新发展，当年两岸贸易总额首次突破400亿美元大关，达446.7亿美元，同比增长38%。目前台湾成为祖国大陆第四大贸易伙伴，祖国大陆成为台湾最大出口市场。这是因为

①两岸实现了直接“三通”，交通便利 ②两岸民族文化相同，必然带来两岸贸易的发展 ③大陆积极推进政治、经济体制改革，社会稳定 ④两岸经济具有互补性，大陆市场广阔 ( )

A. ①②③④ B. ②③④ C. ③④ D. ②④

33. 2002年，海峡两岸人士聚集福建纪念郑成功收复台湾340周年，主要因为郑成功 ( )

A. 是台湾的第一任行政长官 B. 维护了国家主权和领土完整

C. 为巩固东南海防做出贡献 D. 使台湾的工业得到迅速开发

十届全国人大一次会议于2003年3月5日在北京召开，作为新的一届全国人大的首次会议，引起了社会各界广泛关注。据此回答34—35题。

34. 在每年的全国人民代表大会上，一府两院要向大会作工作报告，今年也不例外。这是因为

A. 全国人民代表大会是人民行使国家权力的机关

B. 一府两院实行对人民负责原则

C. 一府两院由人民代表大会产生，对它负责，受它监督

D. 人民代表大会制度是我国根本的政治制度

35. 今年是全国人民代表大会实行议案制度的第21年，十届全国人大一次会议秘书处议案组收到代表的提案再创历史新高。这些提案不但议题广泛，而且议案质量不断提高。这表明

①人民代表的履职意识不断增强 ②人民代表代表人民行使国家权力 ③人民代表的权利正在不断扩大 ④人民代表认真履行宪法所规定的义务 ( )

A. ①② B. ①④ C. ①②③④ D. ①②④

第Ⅱ卷（非选择题，共160分）

二、本卷共5小题，共160分。

36. 2002年12月4日，莫斯科市长卢日科夫建议俄罗斯联邦政府重新启动“北水南调”工程：修建一条大运河，将俄罗斯的鄂毕河河水南引，直抵中亚的阿姆河与锡尔河，与之共同汇入咸海。读图1－4，回答下列问题：(25分)

图1－4

(1) 图中_____（填代号）为鄂毕河。该河流量丰富，但航运价值不大，原因是_____。(5分)

(2) 图中_____（填代号）为咸海。俄罗斯将鄂毕河河水引入咸海的原因之一是咸海面积在不断缩小。试分析咸海面积缩小的主要原因。(10分)

(3) 我国的“南水北调”工程，是从长江引水。与长江相比，鄂毕河_____（选择填空）。(4分)

A. 径流量更小 B. 水能资源更丰富

C. 河流含沙量更小 D. 流经地区人口密度更大

(4) 图中A为_____港。该港口地处北极圈以内，但终年不冻，原因是_____。(6分)

37. 阅读材料，结合所学知识，回答问题。(40分)

材料一：就整个来说，没有一个独立、自由、民主和统一的中国，不可能发展工业。……没有独立、自由、民主和统一，不可能建设真正大规模的工业。没有工业，使没有祖国的国防，使没有人民的福利，使没有国家的富强。一八四〇年鸦片战争以来的一百零五年的历史，特别是国民党当政以来的十八年的历史，清楚地把这个真理告诉了中国人民。一个不是贫弱的而是富强的中国，是和一个不是殖民地半殖民地的而是独立的，不是半封建的而是自由的、民主的，不是分裂的而是统一的中国，相联接的。在一个半殖民地的、半封建的、分裂的中国里，要想发展工业，建设国防，福利人民，求得国家的富强，多少年来多少人做过这种梦，但是一概幻灭了。

毛泽东《论联合政府》

材料二：在新民主主义的政治条件获得之后，中国人民及其政府必须采取切实的步骤，在若干年内逐步地建立重工业和轻工业，使中国由农业国变为工业国。新民主主义的国家，如无巩固的经济作它的基础，如无进步的社会主义得多的农业，如无大规模的在全国经济比重上占极大优势的工业以及与此相适应的交通、贸易、金融等事业作它的基础，是不能巩固的。

毛泽东《论联合政府》

材料三：“周恩来同志曾经说过，西柏坡是我们党进入北京、解放全中国的最后一个农村指挥所，党中央和毛泽东同志在这里指挥了辽沈、平津、淮海三大战役。1949年3月5日到13日，我们党在西柏坡召开了七届二中全会。这是我们党在中国革命的重大历史关头召开的一次极其重要的会议。”

胡锦涛同志2002年12月6日在西柏坡发表讲话

回答：

(1) 材料一中，揭示了中国近代社会需要解决的问题及它们之间的联系，概括起来是哪两个方面？请以史实说明为什么“多少年来多少人做过这种梦，但是一概幻灭了”？(14分)

(2) 材料三中，辽沈、平津、淮海三大战役，是为了完成材料一和材料二中的什么目标？完成得怎样？西柏坡之前，我们党的“农村指挥所”还有哪里？是怎样建立的？(12分)

(3) 材料二阐述的主要问题是什么？材料三中，为什么说“七届二中全会是我们党在中国革命的重大历史关头召开的一次极其重要的会议”？(14分)

38. **材料** 经过全党和全国各族人民的共同努力，人民生活总体上达到了小康水平。但这个小康水平，是一个低水平、不全面、发展不平衡的小康，与全面的小康社会之间，还存在着相当大的差距。我们的人均水平还不高，还有相当比重的人口没有进入小康。我们总体上达到的小康水平还是从经济方面，侧重于物质文明，对精神文明、政治文明、生态环境和可持续发展方面关注不够。而且发展也是不平衡的，城市与农村之间、东部与西部之间、不同收入群体之间都还存在很大差距。

党的十六大提出：我们要在本世纪头二十年，集中力量，全面建设惠及十几亿人口的更高水平的小康社会，在我们的努力下，这一宏伟蓝图一定会实现。(35分)

(1) 材料中对我们所达到的小康水平的分析体现了什么哲学道理？(12分)

(2) 从经济常识角度，说明如何解决“发展不平衡的小康”问题？(12分)

(3) 党的十六大提出“全面建设惠及十几亿人口的更高水平的小康社会的目标”体现了政治常识的什么道理？(11分)

39. 阅读有关材料，回答下列问题：(30分)

材料一：2002年12月13日，欧盟15国领导人在丹麦首都哥本哈根结束了为期两天的首脑会议，就欧盟扩大问题与波兰、匈牙利、捷克等10个候选国达成了全面协议，正式向10个候选国发出了2004年5月1日入盟的邀请。

欧盟扩大后，总面积将达400万平方千米，总人口将达到4.45亿。扩大后的欧盟将超过北美自由贸易区成为世界上最大的自由市场，形成世界上最大的区域一体化组织，欧洲将向“大欧洲”跨进一大步。

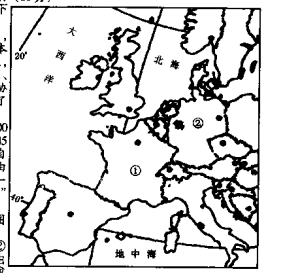

图1－5

材料二：欧洲部分地区图（图1－5）

(1) 推动一体化，图中①②两个国家起了重要作用，正是由于他们相互做出让步，使欧盟成员国在扩大后的财政预算问题上达成一致，为东扩扫除了一大障碍。近代史上两国关系错综复杂，并对欧洲产生很大影响。请结合19世纪中后期和20世纪中期的重大历史事件，分析两国关系给欧洲造成的影响。(10分)

(2) 图中②国纺线所示区域是著名的_____工业区，其布局类型是_____。简述该工业区与我国沪宁杭工业基地发展工业的共同优势。(10分)

(3) 运用所学经济、政治常识的知识解释欧盟东扩这一政治现象。(10分)

40. 阅读有关材料，回答下列问题：(30分)

材料一：2003年1月7日，我国第一条跨海铁路——粤海铁路开通。“独上江亭望帝城，鸟飞犹用半年程”。这是中国古代海南岛的真实写照。如今粤海铁路将遥远的海角天涯永远封存在历史的记忆里，海南从此结束了与大陆不通火车的历史。粤海铁路包括“两线一渡”，由广东省境内的湛江至海安铁路、琼州海峡铁路轮渡、海南省境内的西环线三部分组成，全长345千米。

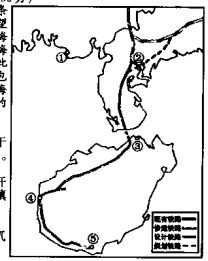

图1－6

材料二：粤海铁路示意图（图1－6）

(1) 图中①②③④⑤五个城市中，属于沿海开放城市的是_____。(4分)

(2) 粤海铁路将大大促进海南资源的开发。海南省的优势资源有_____（选择填空）。(6分)

A. 丰富的热带生物资源

B. 较丰富的矿产和沿海大陆架的油气资源

C. 全国最为丰富的光照和热量资源

D. 独特的热带旅游资源

E. 丰富的水资源和水能资源

(3) 粤海铁路的开通对海南经济的发展有什么作用？(6分)

(4) 跨海轮渡的建成体现了什么哲学道理？(4分)

(5) 铁路的修建，在一定程度上反映了一个国家的发展状况。建国前，我国西南、西北没有铁路。建国后，这种状况发生了什么变化？请以三个不同时期我国铁路建设取得的成就加以说明，并指出其取得成就的共同原因。(10分)

北京市东城区高三年级综合练习（三）

2 A

文 科 综 合

第Ⅰ卷（选择题，共140分）

一、本卷共35题，每小题4分，共计140分。在每小题列出的四个选项中，只有一项是最符合题目要求的。

2003年3月4日起至3月12日，北京、杭州等地受到“日凌”的袭击，广播电视、通信信号受到不同程度的影响。据北京天文台介绍，每年的春分、秋分前后，太阳、地球和同步通信卫星将会呈一线排列。这时，通信卫星处于太阳和地球之间，太阳极强的电磁波辐射就会进入接收系统，干扰通信业务信号，产生所谓的“日凌”现象。读图2－1回答1～3题。

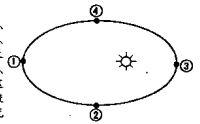

图2－1

1. 下列有关“日凌”的叙述，正确的是（　　）
A. “日凌”产生时，地球位于太阳和通信卫星之间
B. “日凌”是太阳本身的一种异常活动
C. “日凌”是太阳对卫星通信的干扰现象
D. “日凌”是太阳黑子爆发的结果

2. 2003年3月发生“日凌”现象时，地球位于图中的（　　）
A. ①处附近　B. ②处附近　C. ③处附近　D. ④处附近

3. 当地球运行至①处附近时（　　）
A. 北京正午太阳高度达一年中的最低值
B. 北京的白天时间比杭州的白天时间长
C. 中南半岛盛行东北季风
D. 亚平宁半岛受西风带控制

读洋流模式图（图2－2），回答4～6题。

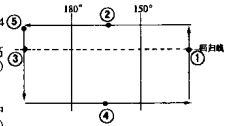

图2－2

4. 图中①②③④⑤四处，盐度最高的是（　　）
A. ①　B. ②
C. ③　D. ④

5. 图中①③④⑤四处所在海域中有世界著名渔场的是（　　）
A. ①　B. ③
C. ④　D. ⑤

6. 关于洋流③流经国家的叙述，正确的是（　　）
A. 工业发达，但矿产资源贫乏，需大量进口
B. 热量充足，降水充沛，是世界著名的水稻生产国
C. 有热带企业化种植园，咖啡、蔗糖的产量居世界首位
D. 农牧业发达，是世界上重要的羊毛、小麦出口国

读某地等高线图（图2－3），回答7～9题。

图2－3

7. 在图中①②③三地可依次见到（　　）
A. 牧场、雪山、盐湖　B. 葡萄园、牧场、青稞
C. 葡萄园、牧场、油井　D. 坎儿井、草原、地热田

8. 图中③所在地区人口密度小，主要原因是（　　）
A. 地形崎岖，交通不便　B. 地势高，气候严寒
C. 资源贫乏，人口承载量小　D. 深居内陆，气候干旱

9. 图中③所在地区发展农业生产的有利条件是
a. 太阳辐射强烈，昼夜温差大　b. 受西南季风影响，降水量丰富　c. 邻近河流，有灌溉水源　d. 地形平坦，土壤肥沃
A. ab　B. ac　C. bd　D. cd

10. 2003年1月，27件精美绝伦的青铜器在陕西宝鸡出土，青铜器上的铭文数量创造了考古史上的新纪录。铭文将西周王朝诸王一一列出，与司马迁《史记》所表述的完全一致。下列相关叙述不正确的是（　　）
A. 夏、商、西周是我国古代文明的勃兴时期
B. 西周建立后将王族、功臣分封到各地做诸侯
C. 青铜文化是奴隶制文明的重要特征
D.《史记》创立的纪传体通史体例成为后代王朝编写史书的典范

中国古代思想家辈出，其思想精华为后人留积了宝贵的财富。回答11～12题。

11. 春秋时期，孔子周游列国，宣扬“仁政”的主张，其进步意义在于（　　）
A. 满足新兴地主阶级的政治需要　B. 抑制统治者的暴政
C. 成为各国变法的理论基础　D. 奠定“非攻”主张的思想基础

12. 荀况、王充、范缜思想主张的共同之处是（　　）
A. 人的精神随肉体消亡而消亡　B. 批判迷信鬼神的思想
C. 雷雨风是正常的自然现象　D. 揭露佛教对人民的麻痹作用

中国古代的唐朝和明清时期，都曾出现过封建经济繁荣的盛世局面。回答13～14题。

13. 下列对唐都长安城商业活动的评价，叙述正确的是
①频繁对外商业活动提高了长安的国际地位　②长安是当时闻名于欧、亚、非的世界商业大都市　③“市”中的商业活动是长安城商业繁荣的标志　④“坊”、“市”分置限制了长安城商业活动的发展（　　）
A. ①②③　B. ①②④
C. ①②③④　D. ①③④

14. 下列明清时期经济现象中，符合当时世界历史发展趋势的应是（　　）
A. 玉米、甘薯等作物传入我国并得以推广　B. 制瓷、矿冶等手工业技术均有较大进步
C. 苏州丝织业“小户”“听大户呼织”，“计日受值”　D. 废除了汉唐以来长期实行的人头税

长征是中国革命一段可歌可泣的辉煌史实。两名英国青年于2002年10月16日从江西于都出发，重走长征路。他们长途跋涉，经过了江西、广东、湖南、贵州4个省和广西壮族自治区，三个月后到达遵义。回答15～17题。

15. 下列关于长征和遵义会议的评述，符合史实的是（　　）
①长征是宣言书、宣传队和播种机　②遵义会议彻底批判了“左”倾错误
③遵义会议从实际出发解决了党内分歧　④长征的胜利使中国革命转危为安
A. ①②③　B. ①②④　C. ①③④　D. ①②③④

16. 两名英国青年途经的赣、粤、湘、黔四省，对应的自然保护区或矿产地分别是（　　）
A. 大余、梵净山、马鞍山、六盘水
B. 卧龙、鼎湖山、神农架、梵净山
C. 武夷山、梵净山、锡矿山、鼎湖山
D. 大余、鼎湖山、水口山、梵净山

17. 两名英国青年途经贵州、广西时，见到喀斯特地貌，该地貌的成因主要是（　　）
A. 流水的机械冲刷作用　B. 流水的化学溶蚀和沉积作用
C. 地下水的搬运作用　D. 酸雨对石灰岩的风化作用

在探索社会主义道路的过程中，中国经历了曲折，也赢得了经验。回答18～19题。

18. 在中国要避免“文化大革命”那样的悲剧重演，主要在于（　　）
A. 实现国民经济的现代化　B. 防止教条主义和个人崇拜
C. 不断批判封建思想　D. 完善社会主义民主和法制

19. 我国政府先后建立的民族自治区、经济特区和特别行政区，其共同点不包括（　　）
A. 有利于本区域社会经济的发展　B. 具有完全自治权
C. 享有某些特殊优惠政策　D. 它们与中央是从属关系

主张法治，依法治国，在中外历史发展的不同阶段有着不同的内涵。回答20～24题。

20. 古代韩非子主张法律应向全国公布，臣民必须遵守，其“法治”思想的实质是（　　）
A. 把法律作为至高无上的准则　B. 用法律约束每个人的行动
C. 将法律作为君主治理天下的工具　D. 用法制代替君主个人意志

21.《中华民国临时约法》规定参议院有弹劾总统的权力，这主要表明（　　）
A. 中华民国有真正的民主　B. 行政权受到制约
C. 临时大总统没有权力　D. 参议院行使司法权

22. 1954年，第一届全国人民代表大会制定了《中华人民共和国宪法》，下列内容正确的是
①规定了国家的性质和根本政治制度　②规定了人民的基本权利和义务
③体现了人民民主原则和社会主义原则　④是新中国第一部社会主义类型的宪法（　　）
A. ①②③　B. ①②④
C. ①②③④　D. ①③④

23. “自由”、“平等”之所以被资产阶级视为天赋人权并写入《人权宣言》，不是因为（　　）
A. 反对外国武装干涉的需要　B. 反对君主专制的需要
C. 反对封建等级制度的需要　D. 保护私有财产的需要

24. 我国社会主义民主政治的最根本特点是：“党的领导、人民当家作主和依法治国的统一。”依法治国的本质是（　　）
A. 坚持党的领导和人民当家作主的法律保证
B. 保证人民行使当家作主的权利，维护人民当家作主的地位
C. 崇尚宪法和法律在国家政治、经济和社会生活中的权威
D. 党领导人民治理国家的基本方略

早在19世纪中叶，马克思在批生产力看作是推动社会历史最终决定性力量的基础上，认为科学技术是“一般生产力”。随着日新月异的科学技术对生产力发展的推动作用和对人类生活的影响，达到了前人无法想象的地步，20世纪80年代，邓小平深刻提出，“科学技术是第一生产力”。据此回答25～27题。

25. 从“一般生产力”到“第一生产力”，这里蕴涵的哲学道理是（　　）
A. 实践是认识的来源　B. 认识对实践有能动作用
C. 实践是认识发展的动力　D. 实践是检验认识的惟一标准

26.“科学技术是第一生产力”，这是因为
①科学技术作为生产力的内在要素是最具决定性的因素　②科学技术直接影响生产力的其他要素　③科学技术的水平制约着生产力的发展水平　④科学技术决定着生产力发展的速度和规模
A. ①②③④　B. ②③④　C. ③④　D. ①②

27. 2003年2月28日，国家隆重举行第三届国家科技奖励大会，把2002年度国家最高科学技术奖颁给了中国工程院院士金怡濂。这说明（　　）
A. 我国尊重知识、尊重人才、尊重创造
B. 我国把科教兴国放在最重要的位置
C. 我国建立了人才培养与使用的机制
D. 我国把发展科学技术作为经济发展的出发点

北京市全面启动刷卡消费无障碍工程。到2004年底，力争使全市40%以上的人成为银行卡的持卡人。到2008年，全市90%的商户能够受理银行卡，持卡消费额占社会消费品零售总额的25%左右。据此回答28～29题。

28. 对北京推动持卡消费的认识正确的是
①持卡消费是便捷的支付手段，安全的支付行为　②持卡消费使货币发展进入信用货币时代　③持卡消费成为拉动营业额上升的最主要因素　④持卡有利于促进消费，带动经济发展
A. ①②③④　B. ①②④　C. ③④　D. ①④

29. 在我国，银行卡的发行量已逾4亿多张，但大多数银行卡处于“睡眠卡”状态。问题出在银行卡的某些消费环节不够完善，“卡”住了银行卡在更大范围的使用。这说明（　　）
A. 整体影响部分　B. 部分制约整体
C. 想问题办事情要从实际出发　D. 任何事物之间存在着必然的联系

20世纪70年代，联合国教科文组织提出，人类要向着学习化社会前进。最近，我们国家也强调：要形成全民学习、终身学习的学习型社会。据此回答30～

31题。

30. 之所以要强调终身学习，是因为

①经济的发展越来越取决于科技进步和劳动者素质的提高 ②世界范围的竞争越来越表现为人才和人力资源的竞争 ③世界飞速发展，人类的认识能力有限 ④认识要不断扩展向前推移 ( )

A. ①②③④ B. ②③ C. ①② D. ①②④

31. 学习型社会对人才的要求是全面的，综合素质高、知识面广、文理贯通的学生才是国家所需要的人才。而我们学生中间仍不同程度地存在着重理轻文或重文轻理的现象。这就要求我们 ( )

①要坚持理论和实践的统一 ②要坚持主观和客观具体历史的统一 ③要发挥意识的能动作用 ④要用发展、全面的观点看问题

A. ①②③ B. ①③④ C. ②③④ D. ②④

看漫画（图2－4），回答32～33题。

32. 针对这种不诚信行为，国家应

①加强诚信教育 ②制定新的市场交易原则 ③加强精神文明、政治文明建设 ④把依法治国和以德治国结合起来 ( )

A. ①②③ B. ①③④

C. ②③ D. ①④

33. 面对税务局，谎报企业亏损，是一种 ( )

A. 骗税行为 B. 欠税行为

C. 抗税行为 D. 逃税行为

图2－4

十届人大一次会议的《政府工作报告》提出：继续把发展农业和农村经济、增加农民收入，作为经济工作的重中之重。要统筹城乡经济社会发展，切实做好“三农”工作。据此回答34～35题。

34. 当前，我国农业和农村自身难以从根本上解决农民收入问题，必须从统筹城乡经济社会发展，站在国民经济发展全局的角度解决农民收入问题。这里蕴涵的哲学道理是 ( )

A. 内因是事物变化发展的根本原因

B. 办事情要从整体着眼，寻求最优目标

C. 集中力量解决主要矛盾

D. 重视量的积累，积极促成质变

35. 目前在我国农村是“食之者众，生之者寡”，影响了农民收入的增加。这说明，要想增加农民收入，就必须 ( )

A. 进行农村产业结构的调整

B. 加快农村剩余劳动力的转移

C. 精简机构加大财政对农村的支持力度

D. 提高农业劳动生产率和农产品价格

第Ⅱ卷（非选择题，共160分）

二、本卷共5小题，共40分。

36. 读图2－5并阅读材料，回答有关问题：(25分)

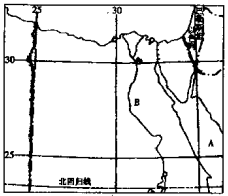

图2－5

材料 以色列面积1.49万平方千米，50%以上为沙漠，盐碱地面积广。农业以特植业尤为发达。该国有一种智能的节水压力灌溉系统。这种系统不但可以通过塑料管直接把水送到植物的根部，而且在灌溉前可先将化肥溶入水中，使水、肥灌溉同时完成，用少量的水肥就可达到最佳效果，整个过程由计算机控制。

(1) 图中A为_____海，该海区在不断_____（扩张或缩小），原因是_____。(7分)

(2) 20世纪70年代，在B河兴建了一座著名的大坝，并形成一个巨大的人工水库。大坝建成后，带来的影响可能有_____（选择填空）。(6分)

A. 得到发电、灌溉、航运、旅游等综合效益

B. 有效防止河流下游的洪水泛滥

C. 人海泥沙增多，河口三角洲不断扩大

D. 由于泥沙淤积，水库的储水量下降

(3) 以色列所在的西亚地区沙漠广布，与我国西北地区的沙漠相比，成因有何不同？(6分)

(4) 从自然条件考虑，以色列发展农业生产首先要解决的问题是_____。该国发展农业的经验对我国西北地区有什么借鉴意义？(6分)

37. 阅读下列经济发展状况图表，结合所学知识，回答问题。(40分)

材料一 1929年至1933年，整个资本主义世界的工业生产下降了1/3以上，贸易额减少了2/3。1929～1933年资本主义国家工业生产下降情况：

美国	德国	英国	法国	日本
46.2%	40.6%	28.4%	16.5%	8.4%

材料二 从1928年起，苏联开始有计划地进行经济建设。在前两个五年计划完成的1937年，苏联工业总产值超过德、英、法，跃居欧洲第一位，世界第二位。与1913年对比：

项目	增长幅度%
工业产量	500
生产资料生产	900
机器制造业和金属加工业	1900
机床、汽车、拖拉机、航空、化学工业	建立起崭新的工业部门

(1) 阅读材料一、二，从两段材料之间的联系，说明材料呈现出的经济发展状况及原因。(8分)

(2) 材料一中受打击最大的是哪两国？在相同的打击面前，两国试图摆脱危机的道路为何不同？(10分)

(3) 材料一中的内容显示，日本下降幅度相对较小，但仍对其全国经济造成重大打击的原因是什么？导致了什么结果？结合史实说明其影响有哪些？(14分)

(4) 结合材料二和所学知识，说明当时苏联已发生的重大变化，并指出苏联在建设过程中出现的问题是什么？(8分)

38. **材料** 为解决贫困大学生就学问题，1999年教育部、财政部等部委出台了国家助学贷款。国家助学贷款属于信用贷款，享受50%的财政贴息，由国家指定的商业银行负责发放，对象是高校中经济困难的本、专科学生和研究生。截至2002年6月底，全国累计申请贷款的学生人数为112.5万，占全部在校学生的12.5%。但银行已审批贷款人数累计35.1万，只占申请贷款人数的31.2%。

国家助学贷款为何叫好难办好？相关人士分析认为：学生贷款金额一般数目不大，而银行方面的工作量不小，贷款利息低，手续复杂，成本高；助学贷款存在相当大的风险，商业银行普遍对学生能否如期还贷感到担心，贷款积极性不高。如何将这一顺民心、得民意的工程顺利开展下去，还需要多方面的努力。(32分)

(1) 用经济常识有关知识，说明如何使国家助学贷款更好地开展起来？(12分)

(2) 有人认为：“有了助学贷款就能完成学业，”请用所学哲学知识对此进行分析。(12分)

(3) 国家设立助学贷款体现了政治常识的哪些道理？(8分)

39. 阅读有关材料，回答下列问题：(30分)

材料一 部分发达国家产业结构统计表

	第一产业（%）		第二产业（%）		第三产业（%）	
	1975年	2000年	1975年	2000年	1975年	2000年
联邦德国	3		48		49	
美国	2	1	36	29	62	70
日本	5	2	44	34	51	64

材料二 50～70年代中国产业结构变化统计表

年代	第一产业（%）	第二产业（%）	第三产业（%）
1952～1957年	53.6	18.5	27.9
1972～1977年	33.0	39.0	28.0

材料三 我国部分城市国内生产总值、三大产业产值统计表（2000年）

城市	国内生产总值（亿元）	第一产业（亿元）	第二产业（亿元）	第三产业（亿元）	人均国内生产总值（元）
甲	2332.30	62.46	879.48	1390.36	24077.39
乙	1392.88	35.59	697.98	659.31	20443.24
丙	4098.64	41.68	1941.27	2115.69	36204.43
丁	786.20	66.06	384.17	335.97	9038.24
克拉玛依	138.59	0.52	116.59	21.48	50857.54
兰州	270.64	7.35	143.56	119.73	15051.39

(1) 形成材料一中产业结构发展趋势的直接原因是什么？据材料二，结合所学历史知识概括说明50年代中国社会主义工业化是如何起步的？结果如何？(10分)

(2) 材料三中的各城市中，第二产业比重最大的是_____，该城市是由于开发_____资源而兴起的；第三产业比重最大的是_____，该城市的主要职能是_____。(6分)

(3) 材料三中的甲、乙、丙、丁为我国四个直辖市。分析表中数据，写出甲、乙、丙、丁对应的直辖市名称（写简称）：(4分)

甲_____ 乙_____

丙_____ 丁_____

(4) 我国与发达国家在产业结构方面还存在着差距。请运用所学经济常识的知识，说明我国应如何调整产业结构？(10分)

40. 读图2－6和部分国家人口统计表，回答下列问题：(30分)

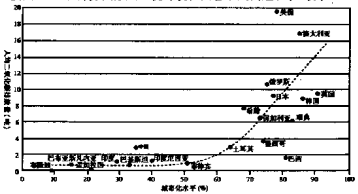

图2－6

图2－6中人口超过1亿的国家的人口统计表（2000年）

国家	美国	巴西	俄罗斯	日本	中国	印度	印度尼西亚	巴基斯坦	孟加拉国
人口（亿）	2.78	1.70	1.46	1.26	12.95	10.13	2.12	1.56	1.29

(1) 读图分析城市化水平与人均二氧化碳排放量的关系，并说明原因。(6分)

关系_____。

原因_____。

(2) 图中所示国家中，二氧化碳总排放量居前两位的依次是_____、_____。减少二氧化碳排放量的主要措施有_____。(4分)

(3) 从世界历史看，城市化趋势是如何出现的？在我国经济体制改革进程中，促进农村城市化发展的重要途径是什么？(10分)

(4) 图2－6给我们什么哲学启示？(4分)

(5) 运用所学经济、政治常识的有关知识说明，为避免我国在加快城市化进程中出现环境问题，国家和企业应该怎样做？(9分)

北京市西城区4月高三抽样测试

3 A

文科综合

满分300分，时间150分钟

第Ⅰ卷（共140分）

一、本卷共35小题，每小题4分，共计140分。在每小题列出的四个选项中，只有一项是符合题目要求的。

维护联合国的权威是建立国际政治经济新秩序的重要内容。回答1～2题。

1. 这是因为联合国 （ ）
A. 以和平方式解决了各国之间的争端
B. 是政府和非政府间的世界性国际组织
C. 在当代国际社会中起着多方面的重大作用
D. 是争取世界和平和促进经济发展的唯一国际组织

2. 联合国常任理事国中，能源能够自给、而积最大、经济最发达的国家分别是 （ ）
A. 加拿大、俄罗斯、日本　B. 法国、美国、日本
C. 英国、中国、澳大利亚　D. 英国、俄罗斯、美国

3. 有人而对北方时，看见北极星出现在地平线上，他的左侧是东半球，右侧是西半球，该地位于 （ ）
A. 太平洋中的赤道上　B. 太平洋中的回归线上
C. 印度洋中的赤道上　D. 大西洋中的北回归线上

读图3－1“我国部分地区春季某时天气系统图”，完成4～6题。

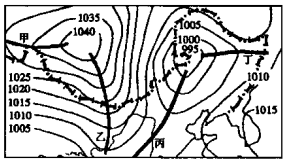

图3－1

4. 图中甲乙丙丁四条线中，能形成暖锋的是 （ ）
A. 甲、丙　B. 乙、丁　C. 丙　D. 丁

5. 图中甲乙丙丁四线所在地区，反映晴朗天气的是 （ ）
A. 丙、丁　B. 甲、乙　C. 甲、丙　D. 乙、丁

6. 一股来自内蒙古地区的冷空气由西北向东南推进，给华北地区带来沙尘暴天气，该天气系统是 （ ）
A. 甲线　B. 乙线
C. 丙线　D. 丁线

7. 甲地（0°，90°E）、乙地（60°N，90°E）、丙地（0°，40°E）、丁地（60°S，40°W）距本初子午线的距离由小到大的排列是 （ ）
A. 甲乙丙丁　B. 丁丙乙甲
C. 甲丙丁乙　D. 丙丁甲乙

读图3－2，完成8～12题。

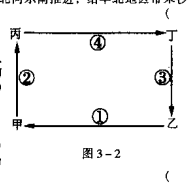

图3－2

8. 若此图为热力环流侧视图，甲乙为相距不远的陆地，②③为垂直气流，①④为水平气流，则甲乙两处气压的关系为 （ ）
A. 甲＞乙＞丙＞丁　B. 乙＞甲＞丙＞丁
C. 乙＞丙＞丁＞甲　D. 乙＞甲＞丁＞丙

9. 若甲为某城市，乙为其郊区，从环境效益的角度考虑，不宜在乙地建立的企业是 （ ）
A. 玩具厂　B. 家具厂　C. 造纸厂　D. 水泥厂

10. 若此图为三圈环流的低纬环流侧视图，则①处为 （ ）
A. 副热带高气压带　B. 西风带
C. 赤道低气压带　D. 信风带

11. 若此图为海陆间水循环侧视图，则 （ ）
A. 乙为海洋，甲为陆地　B. 我国的夏季风属环节②
C. 环节④能给陆地补充淡水　D. 环节①均能造成黄土高原的千沟万壑

12. 若此图表示水平大洋环流示意图，且甲、乙两地全年昼夜基本上平分，则该环流中易形成规模型渔场的是 （ ）
A. 甲地　B. 乙地　C. 丙地　D. 丁地

“创新是一个民族进步的灵魂，是一个国家兴旺发达的不竭动力。”回答13—17题。

13. 春秋战国时期，社会生产方式发生重大变革，突出表现在
①分封制的大力推行　②铁工具的使用和牛耕的逐步推广　③井田制的逐步瓦解　④新兴地主阶级和农民阶级的产生 （ ）
A. ①　B. ②③　C. ②③④　D. ①②③④

14. 从对时代发展的认识看，太平天国运动与以往农民运动的最大不同在于 （ ）
A. 斗争矛头直接指向地主阶段　B. 主张建立“均贫富”的理想社会
C. 进行了反封建反侵略的斗争　D. 提出了发展资本主义的思想主张

15. 下列世界近代科技成就中，其中对牛顿引力理论进行创新，并引发物理学思想一场革命的是 （ ）
A. 电磁感应现象的发现　B. 相对论的提出
C. 放射性元素镭的发现　D. 进化论的创立

16. 从世界历史看，社会主义第一次实现了从理论到实践、从理想到现实巨大飞跃的重大事件是 （ ）
A. 第一国际成立　B. 法国巴黎公社起义
C. 俄国十月革命　D. 中国共产党的诞生

17. 美国罗斯福新政，“新”主要体现在
①国家对经济全面加强干预　②重视稳定社会秩序和缓和社会矛盾　③政府全力推行国有化政策　④发端了国家垄断资本主义经济制度 （ ）
A. ①　B. ②③　C. ①④　D. ③④

世界近代以来的国际关系错综复杂，在不同阶段呈现出不同的特点。回答18～21题。

18. 克里米亚战争爆发后，英国加入对俄国作战并发表声明：“如果不在多瑙河挡住俄国人，我们将不得不在印度河阻挡他们。”结合史实对英国这段声明的分析，正确的是
①俄国入侵土耳其，企图把势力扩张到地中海地区　②英国加入对俄作战，是为了帮助土耳其抵御俄国的侵略　③俄国入侵土耳其，严重威胁了英国在中东等地的殖民利益　④英俄在争夺土耳其问题上诉诸战争，是两国长期争霸矛盾激化的结果 （ ）
A. ①②③　B. ①③④　C. ②③④　D. ①②③④

19. 下列各事件，和华盛顿体系解体无关的是 （ ）
A. 中国国民革命运动兴起
B. 1929—1933年资本主义世界发生空前的经济危机
C. 日本发动全面侵华战争
D. 一战后，德国的太平洋岛屿殖民地多被日本占有

20. 下列第二次世界大战中的重大战役，其中最具全局影响的是 （ ）
A. 中途岛海战　B. 诺曼底登陆战役
C. 阿拉曼战役　D. 斯大林格勒战役

21. 20世纪70年代国际关系的特点是 （ ）
A. “柏林危机”成为美苏对抗的矛盾焦点
B. 美苏争霸的战略态势处于“美守苏攻”
C. “欧洲共同体”成立，开始发挥重要作用
D. 苏联从对外扩张转向全面收缩

世界近现代史上，第三世界国家大都经历了遭受西方侵略和摆脱奴役、获得独立与发展的斗争历程。回答22－24题。

22. 从世界范围看，近代最早掀起民族独立运动的地区是 （ ）
A. 亚洲地区　B. 拉丁美洲　C. 非洲地区　D. 美洲地区

23. 二战后，巴基斯坦、印尼和埃及相继获得独立或成为共和国。三国民族解放运动的共同点是 （ ）
A. 摆脱英国殖民统治而独立　B. 以武装起义为主要斗争方式
C. 争取民族解放的过程顺利　D. 民族资产阶级起了领导作用

24. 20世纪70年代，促使新加坡和韩国的经济快速发展的共同因素是 （ ）
A. 积极发展转口贸易　B. 利用本国丰富资源
C. 大力发展外向型经济　D. 重点扶植汽车工业

2002年12月，中共中央总书记胡锦涛同志在西柏坡学习考察时发表重要讲话，向全党同志发出号召，要求大家牢记七届二中全会的“两个务必”。要求各级领导干部做到权为民所用，情为民所系，利为民所谋。回答25－26题。

25. 这“两个务必”是指：务必继续地保持
①同人民群众紧密联系的作风　②谦虚、谨慎、不骄、不躁的作风　③清正廉洁的作风　④艰苦奋斗的作风 （ ）
A. ①③　B. ②④　C. ①②　D. ③④

26. 上述要求体现出
①保持党的优良传统　②对人民负责的原则　③加强党的作风建设　④全心全意为人民服务的宗旨 （ ）
A. ①②　B. ③④　C. ①②③　D. ①②③④

读图3－3漫画“名副其实”，回答27～28题。

名副其实

图3－3

27. 这幅漫画说明 （ ）
A. 制造假冒产品应该受到谴责
B. 商品生产要遵循市场规则
C. 市场经济是等价交换的经济
D. 原材料与产品必须具有一致性

28. 对此，政府部门应进一步 （ ）
A. 树立诚信为本的观念
B. 健全产品质量安全体系
C. 打击制假售假活动
D. 完善宏观调控职能

29. 13年前，中关村科技园区的私营企业总收入是17亿元，去年达到2014.2亿元，年均递增了46.5%；企业利润从13年前的9千万元增长到去年的113亿元，年均递增49.5%；企业上交给政府的各种税费，从13年前的7千万元增长到去年的89.4亿元，年均递增49%。上述事实表明 （ ）
①非公有制经济已成为纳税主体　②多种所有制经济都为国家作出贡献　③北京市非公有制经济发展迅速　④非公有制经济加快了生产力发展 （ ）
A. ①③　B. ②④　C. ③④　D. ①③④

春节期间的一项调查显示：发短信已成为2003年手机用户最主要的拜年方式，从初一到初七，全国短信的发送量高达70多亿条。在被调查者中采用手机短信拜年的占35.1%，选择电话拜年的占31.2%，而电报、书信和贺卡拜年已经逐渐降到非常次要的地位。回答30～31题。

30. 上述材料表明 （ ）
A. 信息化是我国加快工业化的必然选择
B. 高新技术产业在我国有突破性发展
C. 科学技术作为第一生产力的作用巨大
D. 信息服务业在社会生活中的作用增大

31. 这一事实主要说明 （ ）
A. 事物是不断变化发展的
B. 事物是普遍联系的
C. 人们的思想观念发生了根本变化
D. 一切从实际出发是人们想问题办事情的出发点

32. 有人认为“纳税是企业和成人的事，中小学生不属于纳税人。”这种认识 （ ）
A. 正确，这种认识明确了中小学生的经济地位
B. 不正确，这种认识缩小了纳税人的外延
C. 正确，纳税人是指负有纳税义务的单位
D. 不正确，只要是自然人就要纳税

33. 2002年12月14日，呼和浩特市发生英雄群体勇救落水儿童事件，有三名学生献出了他们花蕾般的生命。其中的一名大学生郝龙彪同学在《我的自画像》中用平实的语言写道：“我最大的理想是作一名出色的现代农民，老家乡亲们的日子还很苦。每当我想到这些，我就告诫自己，一定要学好专业知识，将来为家乡的富裕尽自己的一份力量。”他为新时代大学生树立了人生的楷模。他的

事迹说明

①人生的真正价值在于对社会的贡献　②实现人生价值需要优越的环境和条件　③个人对社会的贡献是先进人物的主要特色　④任何理想的实现都离不开正确的价值观和一定的社会条件　（　）

A. ①②　B. ③④　C. ①③　D. ①②③④

台商春节包机返乡是在两岸直接"三通"尚未实现、两岸无法进行空中直航的情况下，台湾各界人士积极推动，祖国大陆考虑到广大台商的切身利益、从方便台商往来海峡两岸出发，作为个案处理、特事特办而促成的。回答34～35题。

34. 从唯物辩证法角度看，这种作法符合　（　）

A. 具体问题具体分析
B. 一切从实际出发
C. 要善于抓重点，集中力量解决主要矛盾
D. 事物都是一分为二的，要全面地把握客观实际

35. 上述材料体现出，解决台湾问题、实现祖国的完全统一，我们　（　）

A. 坚持"一国两制"方针　B. 反对台湾分裂势力
C. 寄希望于台湾人民　D. 坚持直接通邮、通航、通商

第Ⅱ卷（共160分）

二、本卷共5小题，共计160分。

36. 读图3－4，D地此时是一年中太阳高度最小的正午，此时一艘轮船从A地出发，航行6小时后到达B地，然后又继续航行10天，到达目的地C地（32°N）。分析回答以下各小题：（15分）

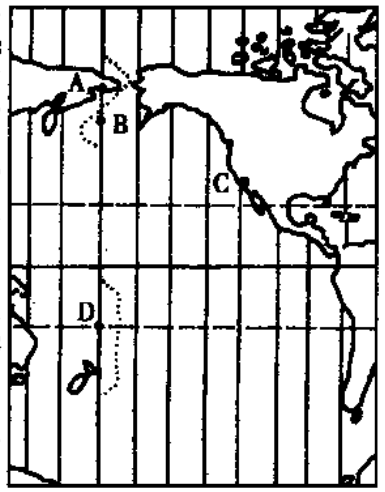

图3－4

（1）轮船出发的当天，A、D两地先看到日出的是________。（3分）

（2）轮船到达C地时，该地的时间为________，（4分），此时该地区河流正值________期。（2分）

（3）轮船在航行过程中，吃水深度的总体变化趋势为________。（2分）

（4）图中有________个人口超过1亿的国家，有关这些国家人口和城市的叙述中正确的是（4分）　（　）

A. 人口都集中分布于东南沿海
B. 东西部经济发展差异较大，皆面临着西部开发的战略问题
C. 第二次世界大战前后，人口均以迁人为主的国家只有一个
D. 目前，这些国家的城市化水平在显著地提高

37. 阅读表格回答：（12分）

		一月	七月
甲地	气温（℃）	13.5	26.2
	降水（mm）	113.0	0.8
乙地	气温（℃）	25.4	13.2
	降水（mm）	6.3	182.5

（1）甲地一月受________控制，乙地属于________气候类型。（4分）

（2）甲地所属气候类型在亚洲分布于________地区，该地及其以东广大地区，发展农业生产的有利自然条件是________，限制性因素是________。基于上述限制性因素，该地区农业生产持续发展的出路有（至少二项）________，我国________地区的农业可以借鉴这种经验。（8分）

38. 阅读下列材料，并结合所学知识回答问题：（40分）

材料一：张謇是晚清状元，立宪派的领袖人物。但他并没有热心官场；而是以极大的爱国热忱创办实业。他认为"富国强民之本实在于工"，明确主张应"尽速讲求商务、工艺，以谋抵制洋货倾销"。19世纪末20世纪初期，他创办了18个企业。第一次世界大战期间，他的南通大生纱厂等企业发展很快，仅大生一、二厂，到1921年，就获利白银1600多万两。这样丰厚的利润，在旧中国民族工业发展史上是空前的。然而，好景不长，1922年，仅大生一厂就亏损39万多两，二厂亏损29万多两。昔日的"黄金时代"一去不复返了。

——摘编自《中国近代现代史》（人教版高中课本）、《近代中国工商人物志》

材料二：毛泽东在党的"七大"政治报告中强调指出："在新民主主义的政治条件获得之后，中国人民及其政府必须采取切实的步骤，在若干年内逐步地建立重工业和轻工业，使中国由农业国变为工业国。"

——摘自毛泽东《论联合政府》

材料三：要在一个相当长的时期内，逐步实现国家的社会主义工业化，并逐步实现国家对农业、对手工业和对资本主义工商业的社会主义改造。

——中国共产党过渡时期总路线

材料四：党的十一届三中全会以后，我们集中力量搞四个现代化，着眼于振兴中华民族。没有四个现代化，中国在世界上就没有应有的地位。

——摘自邓小平《振兴中华民族》

（1）结合所学知识分析材料一，张謇创办实业，提出了什么主张？在近代中国，张謇企业等民族实业发展艰难，其根本原因何在？（10分）

（2）分析材料二，中国共产党明确提出了什么主张？（4分）

（3）分析材料三，实现社会主义工业化和对农业、手工业、资本主义工商业进行社会主义改造，应如何理解二者之间的关系？联系材料二并结合有关史实简要说明，从"七大"到过渡时期总路线的提出，这一期间，中国共产党在政治、经济上采取了哪些重大举措，领导人民扫清了中国工业化前进道路上的主要障碍？过渡时期总路线提出后，中国共产党采取了什么重大决策，开始了中国社会主义工业化的起步？（18分）

（4）分析材料四，指出四个"现代化"的基本内容。改革开放以来，在中国工业化前进道路上，所取得的最大成就是什么？（6分）

（5）综合上述四则材料，中国近现代工业化的曲折发展历程，说明了什么？（2分）

39. 阅读下列材料，并结合所学知识回答问题：（33分）

材料一：我国计算机集成制造（CIMS）应用示范工程，将先进理念、技术和方法与我国企业的实际紧密结合，促进了信息技术、现代管理技术和制造技术的综合集成及应用，实施计算机集成制造的企业平均产品开发周期缩短1/3、平均节约成本1/4、平均减少库存20%～30%，加快了产品结构调整，提高了企业的市场竞争能力和应变能力。

材料二：遵循党的十六大目标，第十届全国人民代表大会第一次会议强调：信息化是我国加快实现工业化和现代化的必然选择。坚持以信息化带动工业化，以工业化促进信息化，走出一条新型工业化路子。

（1）材料一蕴涵了辩证唯物主义认识论的哪些道理？
（2）材料二体现出中国共产党怎样领导国家和社会生活？
（3）说明大力发展工业的原因及我国新型工业化路子的特点。

40. 根据所给资料，结合所学知识回答下列问题：（30分）

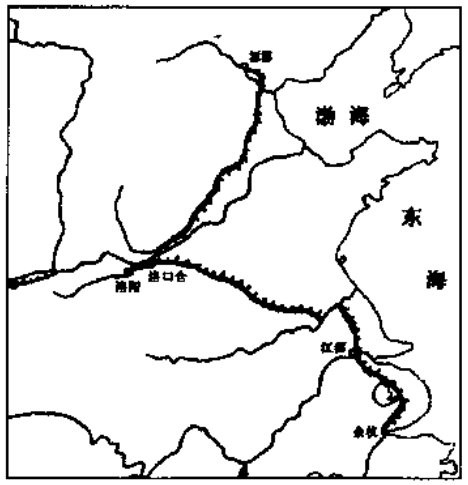

图3－5　隋唐大运河

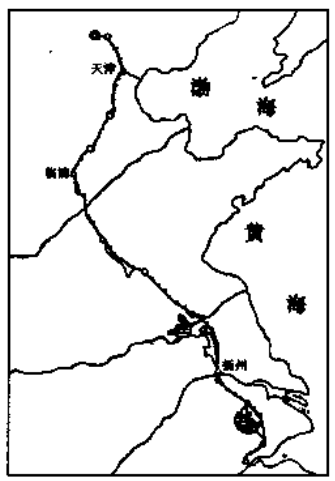

图3－6　京杭大运河

（1）观察图3－5，对于隋炀帝开凿大运河，历代均有不同的看法。例如，晚唐诗人杜牧诗曰："龙舟东下事成空，蔓草萋萋满故宫。亡国亡家为颜色，露桃犹自恨东风。"另一位晚唐诗人皮日休则认为："尽道隋亡是此河，至今千里赖通波。若无水殿龙舟事，共禹论功不较多。"两位诗人的评论是否有道理？试就上述两诗并结合所学历史知识，简要说明自己对隋炀帝开凿大运河的看法。（4分）

（2）比较图3－5和图3－6，从隋运河到今天的京杭大运河，运河的哪些河段有显著的变化？结合有关史实简要说明隋唐以后运河水道变化的主要政治、经济原因，及其对后世王朝带来的深远影响。（6分）

（3）观察图3－7，"南水北调"东线方案，基本沿今京杭大运河路线北上，调水沿途要建梯级抽水站，主要是因为沿线要经过________（地形区）的西侧。根据资料及所学知识分析，"南水北调"东线方案的优缺点有：（6分）



图3－7　南水北调东线逐级提水示意图

优点________。
缺点________。

（4）由图3－7可知，"南水北调"东线方案经过今天的省级行政区有（按自南向北依次写简称）________；该方案能够实现________、________、________、________四大流域水资源的合理配置（按自南向北的顺序依次写出）。（4分）

（5）分析南水北调东线调水工程的经济、政治意义。（10分）

41. 郑和下西洋，体现了我国古代社会晚期对外交往的盛况。然而，随着世界大势的剧变，明朝中期以后，我国外交发生了沧桑变化。结合图3－8和所学知识，回答下列问题：（30分）

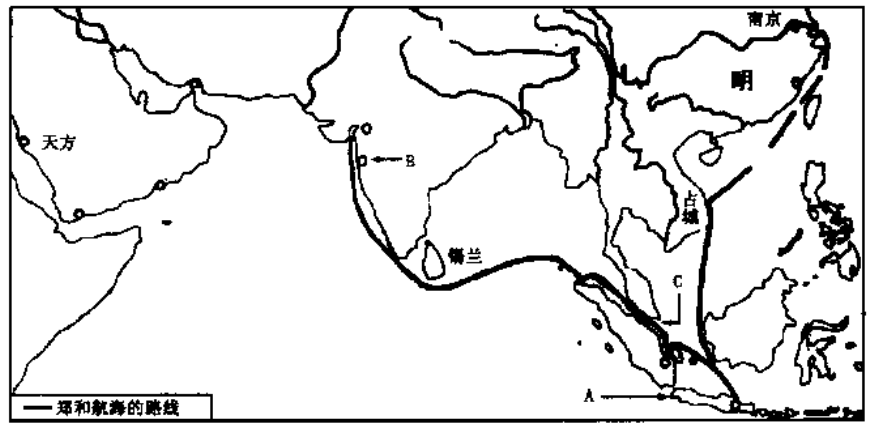

图3－8　郑和下西洋第一次远航路线

（1）从对外交往的角度看，郑和下西洋具有什么重大的历史意义？（2分）

（2）继明朝之后，清朝的外交政策先后发生了什么重大变化？其根本原因何在？（5分）

（3）与晚清外交相比，新中国的外交具有哪些崭新的变化？（3分）

（4）从利于航行的角度考虑，郑和下西洋的最佳季节应是________季，该季节A岛的气候特征为________，可能出现的地质灾害是________；B城市今天的职能是________；简述C海峡地理位置的重要性：________。（10分）

（5）党的十六大强调：我们主张建立公正合理的国际政治经济新秩序。请从政治、经济、文化、安全上，说明其内容。（10分）

北京市西城区5月高三抽样测试

4 A

文科综合

满分300分，考试时间150分钟。

第Ⅰ卷（选择题，共140分）

一、本卷共35小题，每小题4分，共计140分。在每小题列出的四个选项中，只有一项是最符合题目要求的。

读图4－1，阴影部分表示黑夜，判断1～2题。

1. 图示日期前后，下列地理现象的叙述中，正确的是（　　）

A. 地球公转速度最快
B. 2008年奥运会主办城市昼长夜短
C. 底格里斯河流域温和多雨
D. 南极中山站科考队员正在烈日下紧张工作

2. 图示时刻，北京时间为（　　）

A. 13时20分　B. 10时40分
C. 13时40分　D. 20时20分

图4－1

读图4－2，回答3～5题。

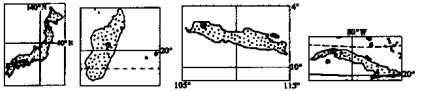

图4－2

3. 当北京地区座北朝南的房屋内，正午阳光照射面积最大时，图中各岛正午太阳高度由大到小排列正确的是（　　）

A. ②③④①　B. ①②③④　C. ③④①②　D. ④③②①

4. 图中各岛位于大西洋的是（　　）

A. ①　B. ②　C. ③　D. ④

5. 图中各岛华人、华侨最多且曾召开过著名的“万隆会议”的是（　　）

A. ①　B. ②　C. ③　D. ④

6. 读图4－3“黄河流域剖面图”，判断下列说法正确的是（　　）

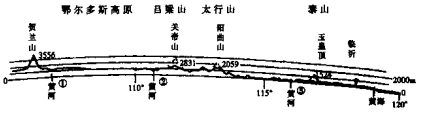

图4－3

A. ①、②两处所在河段均有可能形成凌汛
B. ②处所在河段为“地上河”
C. 治黄的关键是②处所在河段的水土保持工作
D. ③处所在河段水流最为滑激

7. 读图4－4，“地球南北半球的极地俯视图”，左图阴影部分表示东半球，右图箭头为极地东风带的位置示意图，那么甲地在乙地的（　　）

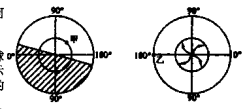

图4－4

A. 东南方向　B. 西南方向　C. 西北方向　D. 东北方向

读图4－5，回答8～9题。

8. 从城区环保角度考虑，四个工厂布局比较合理的是（　　）

A. 砖瓦厂
B. 有色金属冶炼厂
C. 纸浆厂
D. 电镀厂

9. 从哲学角度看，这种布局说明想问题办事情要处理好（　　）

A. 特殊和一般的关系
B. 局部和全局的关系
C. 量变和质变的关系
D. 现象和本质的关系

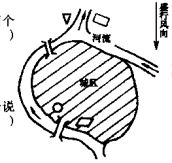

图4－5

读图4－6，回答10～12题。

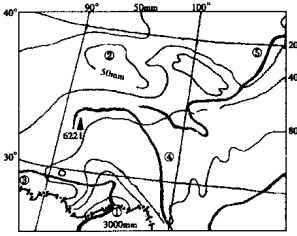

图4－6

10. 图中①地降水大于②地，其主要原因是（　　）

A. ①地位于沿海、②地位于内陆
B. ①地位于山地迎风坡、②地位于内陆盆地
C. ①地受准静止锋控制、②地受副高控制
D. ①地有暖流经过、②地有寒流经过

11. ②地降水量（　　）

A. ＜100mm　B. ＜200mm　C. ＜50mm　D. ＞50mm

12. 有关③④⑤所代表的三条河流的叙述正确的是（　　）

A. ③河为东南亚流经国家最多的河流　B. ④⑤两河注入印度洋
C. ④河是我国径流量最大的河流　D. ⑤河为内流河

“发展社会主义民主政治，建设社会主义政治文明”，是我国深化改革的重要内容。在这方面，中外历史上有许多经验教训值得借鉴。回答13～17题。

13. 下列历史事件或历史现象，具有一定因果关系的是（　　）

A. 夏桀无道——国人暴动　B. 焚书坑儒——独尊儒术
C. “炮烙之刑”——“前徒倒戈”　D. “人祭”“人殉”——“族诛”“连坐”

14. 和“房谋杜断”有关的我国古代“治世”是（　　）

A. 文景之治　B. 开元盛世　C. 贞观之治　D. 康乾盛世

15. 下列近代中国政治思想家中，鲜明提出建立共和政体的是（　　）

A. 林则徐　B. 洪仁玕　C. 康有为　D. 孙中山

16. 中国共产党在抗日战争时期和新中国成立初期实行的“精兵简政”，其政治意义在于（　　）

A. 减轻了人民负担　B. 节约了财政支出
C. 进一步密切了党群关系　D. 提高了人民军队的战斗力

17. 美国《独立宣言》和法国《人权宣言》具有历史进步意义，二者鲜明体现了

①天赋人权学说　②社会契约理论　③“三权分立”学说　④反对种族歧视的主张（　　）

A. ①　B. ①②　C. ①②③　D. ①②③④

领土主权和领土完整，是国家主权的重要内容和表现，也是国家独立的重要标志。回答18～22题。

18. 元朝创设的行省制度，对后世产生了深远影响。这主要是指这一制度

①继承和推广了秦汉的郡县制度　②加强了中央对边疆地区的管辖　③巩固和发展了多民族国家的统一　④奠定了今天中国行政区划的基础（　　）

A. ①②③④　B. ①②③　C. ②③　D. ②③④

19. 下列中国历史上的重大事件，旨在捍卫国家统一和领土完整的有

①雅克萨之战　②大泽乡起义　③“五四”运动　④和平解放西藏（　　）

A. ①③④　B. ①②　C. ①③　D. ①④

20. 下列世界历史上的重大事件，其性质不属于捍卫国家统一和领土完整的是（　　）

A. 美国葛底斯堡战役　B.《凡尔赛和约》签订
C. 苏丹“马赫迪”起义　D. 苏联斯大林格勒战役

21. 与近代德意志统一相比、近代意大利统一的突出特点是（　　）

A. 杰出领导人对统一大业作出重要贡献
B. 由力量最强的邦国主持完成统一大业
C. 民间武装在统一进程中起了重大作用
D. 通过战争和灵活的外交排除外国干涉

22. 主权国家在国际社会中享有的基本权利有

①独立权　②平等权　③自卫权　④管辖权（　　）

A. ①③　B. ②④　C. ①②③④　D. ①②③

“世界反法西斯战争是人类历史上最伟大的正义战争，它给全人类留下的历史启迪也最为珍贵。”回答23～25题。

23. 从世界范围看，最先开辟大规模的反法西斯战场的国家是（　　）

A. 苏联　B. 美国　C. 英国　D. 中国

24. “我三大盟国此次进行战争之目的，在于制止及惩罚日本之侵略。……在使日本所窃取于中国之领土，例如满州、台湾、澎湖群岛等，归还中华民国。”这一庄严宣告出自“二战”中的（　　）

A. 开罗会议　B. 德黑兰会议　C. 雅尔塔会议　D. 波茨坦会议

25. 美苏两国社会制度不同，但在“二战”中却结成盟国，其根本原因是（　　）

A. 英法绥靖政策的破产　B. 国际联盟的大力推动
C. 战略上相互配合的需要　D. 面临法西斯的全球扩张

宁夏自治区五月一日全面禁牧，变牧畜放养为舍饲圈养。舍饲圈养是解决林牧矛盾、改善草原生态环境的最佳途径，可以将增草、增效、增收有机结合，使生态资源永续利用。回答26～27题。

26. “舍饲圈养”对我们的经济学启示是（　　）

A. 产业结构调整是经济快速发展的主线
B. 西部大开发必须进行经济结构调整
C. 改善生态环境将带动第三产业发展
D. 发展经济必须与环境保护相协调

27. 上述材料说明

①必须坚持正确的生态价值观　②社会价值和自我价值总是统一的　③要坚持正确处理国家、集体和个人利益的原则　④价值观对人们认识世界、改造世界具有导向作用（　　）

A. ①③　B. ②④　C. ①③④　D. ①②③④

28. 伊拉克是世界第二石油大国，已探明石油储量为1120亿桶，仅次于沙特阿拉伯。美国等国的国际问题专家分析，美国发动对伊拉克的战争，其目的之一在于控制伊拉克石油资源，解决美国国内日益增长的能源需求。这表明（　　）

A. 经济活动决定其他一切社会活动　B. 生产力是社会发展的最终决定因素
C. 政治是阶级之间的关系和斗争　D. 国际竞争的实质是综合国力的较量

29. 目前，我国各金融机构已发行银行卡4.38亿张、安装自动柜员机（ATM）4.3万台、销售终端机（POS）26.9万台。“中国银联”的成立，迫速推动了银行卡的联网通用。这表明（　　）

A. 银行的作用已显著发挥
B. 金融业务创新加大力度
C. 信息化带动我国工业化
D. 金融监管工作不断加强

图4－7

读漫画“补”（图4－7），回答30～31题。

30. 漫画中的学生过分强调（　　）

A. 外因是事物变化发展的条件
B. 内因是事物变化发展的根据
C. 在发展中外因通过内因起作用
D. 内外因同时存在，缺一不可

31. 这幅漫画是批评该学生 ( )
A. 静止地看问题　B. 不从实际出发
C. 片面地看问题　D. 没抓主要矛盾

全国劳动模范、山西省长治市平顺县西沟村农民申纪兰是惟一的一至十届全国人大代表。她说："人民代表，就是要理直气壮，代表人民利益，代表人民说话，代表人民办事——这就是中国的民主。"回答32－33题。

32. 申纪兰这段话表明 ( )
A. 社会主义民主的本质　B. 人民代表直接行使国家权力
C. 人民代表对人民负责　D. 我国实行人民代表大会制度

33. 从认识论角度看，申纪兰的认识体现出 ( )
A. 人民群众是实践的主体　B. 事物之间的联系是普遍的
C. 认识的第二阶段更重要　D. 群众是社会变革的决定力量

民族精神是一个民族赖以生存和发展的精神支柱。一个民族，没有推奋的精神和高尚的品格，不可能自立于世界民族之林。回答34～35题。

34. 在五千多年的发展中，中华民族形成了以爱国主义为核心的_____的伟大民族精神 ( )
①团结统一　②爱好和平　③勤劳勇敢　④自强不息
A. ③　B. ③④　C. ①②③　D. ①②③④

35. 要坚持弘扬和培育民族精神，是因为 ( )
A. 主观能动性是人所特有的能力　B. 社会意识对社会存在有反作用
C. 青年学生要树立正确的人生观　D. 整体功能小于各部分功能之和

第Ⅱ卷（非选择题，共160分）

二、本卷共5小题，共计160分。

36. 读图4－8，完成下列要求：(28分)

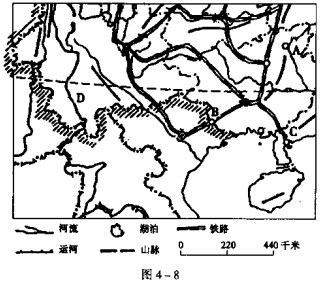

图4－8

(1) 图中A处著名的古代水利工程名称为_____，它穿越了_____(地形区)，沟通了_____和_____水系。(8分)

(2) 在图中适当位置填注南昆铁路的起止站城市名称。南昆铁路是我国科技含量最高的铁路之一，该铁路经过了著名的_____地貌区和_____等地质灾害多发区。(8分)

(3) 该地区发展经济的优势条件有（至少两项）：

_____、_____；制约本区经济发展的"瓶颈"是_____。(6分)

(4) 图中B外贸口岸所邻的国家是_____，我国对外开放港口C濒临_____海。D河下游为_____河，我国与东盟国家签署了合作开发该流域的协定。(6分)

37. 阅读下列材料，并结合所学知识回答问题：(39分)

材料一　宋代国大湖平原盛产粮食，故民间有"苏湖熟，天下足"的说法。明清时期，江汉平原已经成为全国重要的粮食输出地，民间俗称"湖广熟，天下足"。

——摘自邹逸麟主编《中国历史人文地理》

材料二　鄱阳湖东部，至清末已有21圩①。长江中游湖区环回②集中分布于洞庭湖区、长江荆州段和汉水下游沿岸。康熙年间，两湖垸田有较大发展。清廷特旨鼓励垦荒，无力之家由官府捐给牛种。清末，湖北荆州府各县垸田数量也明显增多。

——摘编自孟昭华编著《中国灾荒史记》

注：①圩：即圩田，在江湖岸边浅水处，筑堤排水，形成田地。②垸田，与圩田相似。

材料三　1931年，长江全流域发生大水，从6月下旬到9月中旬，连续的大雨下了将近3个月。川、鄂、湘、赣、皖、苏、浙、豫等8省290余县遭受洪水破坏，损失惨重。仅长江中、下游就淹没农田5000多万亩，灾民达2800多万人。湖北、湖南灾情最重。

——摘编自孟昭华编著《中国灾荒史记》、《海关十年报告（1922—1931）》

材料四　1952年4月5日至6月20日，经30万人日夜奋战，荆江分洪工程提前15天胜利完工，并顺利完成了20万人的迁移工作。1954年夏，长江连续3次出现空前的洪峰。荆江大堤3次开闸分洪，确保了两岸人民的安全。

——摘编自郎维亚主编《中国共产党80年大事聚焦》

材料五　在长江流域实行平坑行洪、退田还湖、移民建镇等政策，……其中鄱阳湖、洞庭湖还湖面积分别达到880平方公里和600平方公里，实现了千百年来从围湖造田、与湖争地到大规模退田还湖的历史性转变。

——摘自朱镕基总理在第十届全国人大第一次会议上的政府工作报告

(1) 分析材料一，从宋代的"苏湖熟，天下足"到明清的"湖广熟，天下足"，中国的粮食生产及输出中心发生了什么重大变化？试从经济的角度，指出明清时期太湖平原的农业生产结构发生变化的主要原因。(6分)

(2) 结合所学历史知识分析材料一、二，指出明清时期江汉平原形成"湖广熟，天下足"的主要原因。(6分)

(3) 分析材料二、三，试从历史因素和当时国内外形势两方面，简要说明1931年长江大水导致8省灾情严重以至于"湖北、湖南灾情最重"的主要原因。这场长江大水，暴露出当时的中国政府什么问题？(12分)

(4) 对比材料三、四，结合所学历史知识说明修建荆江分洪工程的重大社会意义和作用。(5分)

(5) 结合材料四分析材料五，从发展的角度看，如今，人民政府在防治长江水患和农田水利建设上，采取的最重要的决策是什么？具有什么深远的历史意义？(4分)

(6) 从上述材料中，我们能得到什么认识？(6分)

38. 我国城乡居民收入情况表

年份	城镇居民人均可支配收入（元）	农村居民人均纯收入（元）	农村居民收入相当于城镇居民收入（%）
1997	5160	2090	40.50
2001	6860	2366	34.49
2002	7703	2476	32.14

注：城镇居民家庭人均可支配收入平均每年实际增长8.6%；农村居民家庭人均纯收入平均每年实际增长3.8%。

材料一　2003年3月18日，温家宝总理答中外记者问时指出：现在在农村"'食之者众，生之者寡。'有一个县十二三万人口，吃财政饭的多达五千七百人。"

材料二　2003年，农村税费改革试点在总结经验、完善政策的基础上，在全国范围内推开。历史上每搞一次"并税"改制，就会催生出一次杂派高潮，后人把这种现象称为"黄宗羲定律"。(黄宗羲，明末清初思想家、史学家，研究农村税赋最深入、最系统的学者之一。)温家宝总理说：我们一定会走出历史上"黄宗羲定律"这个"怪圈"。

根据材料和所学知识回答：(33分)

(1) 上述表格和材料一分别反映了哪些经济现象？它们之间有什么联系？(12分)

(2) 在农村税费改革中，我们如何走出"黄宗羲定律"这个"怪圈"？

(3) 从辩证唯物主义认识论角度，说明农村税费改革从试点到全国范围内推开，给我们的启示。

39. 黄淮海平原开发历史悠久，是我国主要的农业区域之一。阅读下列材料及图4－9，并结合所学知识回答问题：(30分)

材料一　说凤阳、道凤阳，凤阳本是好地方。自从出了朱皇帝，十年倒有九年荒。

——旧凤阳花鼓词

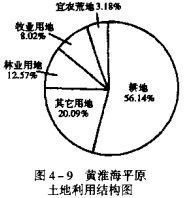

图4－9　黄淮海平原土地利用结构图

材料二　说凤阳、道凤阳，凤阳本是好地方。自从土地还家后，幸福生活万年长。

——1950年凤阳花鼓词

材料三　说凤阳、道凤阳，凤阳本是好地方。自从包地包产后，家家生活变大样。

——1979年凤阳花鼓词

(1) 分析材料一，地处黄淮海平原的安徽凤阳，"本是好地方"，但为什么鼓词中说"自从出了朱皇帝，十年倒有九年荒"？试结合所学历史知识，判断该鼓词最初流行的时间及所揭示的历史问题。(3分)

(2) 分析材料二、三，鼓词中说的"土地还家"和"包地包产"，各揭示了什么重大运动？试结合相关历史背景，分别指出上述重大运动的深远历史意义和作用。(7分)

(3) 黄淮海平原所属气候类型为_____，(3分)该地区突出的环境问题有(至少两项)_____。(4分)

(4) 从图中可以看出，本区要发展农业生产，能否依靠开垦荒地扩大耕地面积来解决？为什么？(3分)

(5) 用唯物辩证法的有关知识，分析第二、四同所得出的结论。(10分)

40. 据国家统计局提供的数据，2000年，按各国GDP计算，美国居世界第1位，德、法、英分别居世界第3、4、5位。这表明，以德、法、英为代表的西欧国家整体经济实力已经赶上美国。结合所学知识回答问题：(30分)

读图4－10，完成下列要求：

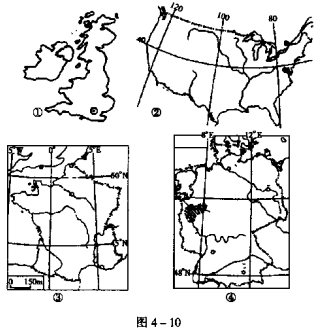

图4－10

(1) 美、英、德、法四国的海陆位置均临_____洋。(2分)

(2) 第一次科技革命时期，世界的工业重心在图_____；第二次科技革命时期图②形成了_____工业区，图④形成了_____工业区。上述两个工业区形成的有利自然条件中，相同点有_____。当今②所示国家工业布局的新趋向是_____。第二次世界大战后，以下四个城市，在世界工业分布由集中转向分散过程中，发展起来的工业城市为(　　)，请将其代表字母标注在图中相应位置上。(8分)

A. 布宜诺斯艾利斯　B. 名古屋　C. 斯图加特　D. 伯明翰

(3) 20世纪60年代，美国经济以及德(联邦德国)、法、英等西欧国家的经济稳定快速发展。试指出上述国家经济快速发展的主要的共同原因。(4分)

(4) 20世纪六七十年代以来，德(联邦德国)、法、英等西欧国家经济的发展变化，对资本主义世界和世界格局，产生了什么重大影响？(6分)

(5) 分别阐述当今我国如何顺应历史潮流、改善和发展同发达国家的关系？(10分)

此为试读，需要完整PDF请访问：www.ertongbook.com

北京市海淀区高三第二学期期中练习

5 A

文 科 综 合

本试卷分第Ⅰ卷（选择题）和第Ⅱ卷（非选择题）两部分，满分300分，考试时间150分钟

第Ⅰ卷（选择题，共140分）

一、选择题：本大题共35小题，每小题4分，共计140分。在每小题所列出的四个选项中，只有一项是最符合题目要求的。

图5－1为我国某地区地下潜水位年变化示意图，读图5－1回答1—3题。

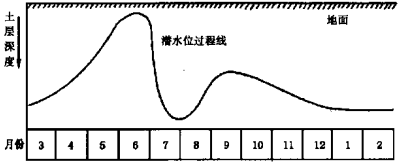

图5－1

1．该地区最有可能是 （ ）

A．云贵高原　　B．松嫩平原

C．长江中下游平原　　D．黄淮海平原

2．当该地区地下潜水位达到一年中最低时，下列叙述正确的是 （ ）

A．黄河河套地区出现凌汛现象

B．我国绝大部分地区开始进入雨季

C．江淮准静止锋的影响基本结束

D．太平洋热带气旋频繁影响该地区

3．该地区地下潜水得到补给最多时，下列叙述正确的是 （ ）

A．北印度洋季风洋流呈逆时针方向流动

B．地球在公转轨道上的远日点附近

C．巴西热带草原一片葱绿，生机勃勃

D．我国北方地区常出现沙尘暴天气

图5－2是我国某城市及其郊区土地利用图，该城市位于东经116°，6月22日的正午太阳高度为75°26′。据此回答4—5题。

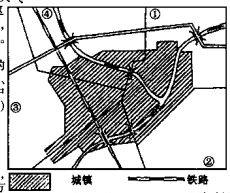

图5－2

4．该城市计划在①②③④处的空地上新建一些工厂。从经济效益、环境效益和社会效益方面考虑，其中布局合理的工厂是 （ ）

A．①处建机修厂

B．②处建水泥厂

C．③处建电视机厂

D．④处建化工厂

5．从农业产业结构方面分析，该城市的郊区，农业产业结构发展方向合理的是 （ ）

①利用当地气候优势条件，大力种植热带经济作物，并发展相关的加工工业　②实现农林牧渔各业均衡发展　③在城市近郊重点发展蔬菜、乳肉禽蛋生产基地，在远郊发展粮棉生产基地　④在稳定农业的基础上，积极发展以当地农产品为原料的加工工业

A．①③　　B．③④　　C．①④　　D．②③

读图5－3回答6—7题。

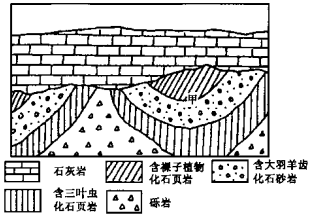

图5－3

6．图中甲处的地质构造是 （ ）

A．背斜　　B．向斜　　C．地垒　　D．地堑

7．甲处构造的形成及其上部缺失的地质过程是

①水平挤压　②水平拉伸　③地壳上升　④地壳下降　⑤外力侵蚀　⑥外力沉积 （ ）

A．①④⑤　　B．②④⑥　　C．①④⑤　　D．③④⑤

8．2002年12月9日开始的数日内，大雾弥漫河北、河南、山东等地，这种天气现象出现的原因是

①地面水汽蒸发强而形成雾　②冷空气活动弱，风速小易形成雾　③暖天多，大气中尘埃少，易形成雾　④地面温度低，偶有东南风带来海上水汽而形成雾 （ ）

A．①②　　B．③④　　C．①③　　D．②④

读图5－4回答9—10题。

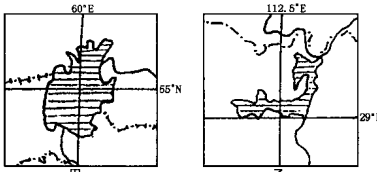

图5－4

9．甲、乙两湖所处的自然带分别是

①温带荒漠带　②亚热带常绿阔叶林带　③热带荒漠带　④亚热带常绿硬叶林带 （ ）

A．①②　　B．②③　　C．①④　　D．③④

10．造成两湖面积都在缩小的主要原因分别是 （ ）

A．跨流域调水造成甲湖面积缩小

B．周围大面积引水灌溉造成乙湖面积缩小

C．沙漠侵吞造成甲湖面积缩小

D．围湖造田造成乙湖面积缩小

我国是一个统一的多民族国家，自秦朝以来，统一和中央集权是历史发展的主流。回答11—14题。

11．战国的诸子百家中，对中央集权制度的建立有重要影响的思想家是 （ ）

A．孟轲　　B．墨翟　　C．荀况　　D．韩非

12．北宋初年，宋太祖改革的作用是 （ ）

A．有效地抑制了地方割据势力　　B．促进了国内各民族的融合

C．加强中央政权对边疆的管辖　　D．加深了中原文化对边疆的影响

13．顾炎武提出了“亡国”与“亡天下”的说法。对这种说法认识正确的是 （ ）

A．强调了“亡国”与“亡天下”的一致性

B．认为君主专制和中央集权是等同的

C．要维护中央集权必须强化君主权力

D．区分了“忠君”与“爱国”的不同

14．统一的国家政权对于边疆问题和民族问题的重要意义在于

①促进各民族经济文化的进步　②促进边防巩固和边疆开发　③促进边疆各少数民族的汉化　④促进中华民族形成和发展 （ ）

A．①②③　　B．①②④　　C．②③④　　D．①③④

近代历史上，青木主义列强对中国的侵略，严重地破坏了我国的领土和主权完整。回答15—17题。

15．晚清时期，曾割占过我国领土的国家有 （ ）

A．英国　日本　俄国　　B．英国　法国　日本

C．日本　德国　英国　　D．英国　法国　俄国

16．清朝的海关管理权长期被外国人把持。英国人赫德在1861年取得清朝海关的管理权，此后近半个世纪里他长期控制中国海关，直到 （ ）

A．戊戌变法期间　　B．义和团运动期间

C．辛亥革命前夕　　D．北洋政府统治时期

17．列强取得在北京至山海关铁路沿线的驻兵权是通过 （ ）

A．《南京条约》　B．《天津条约》　C．《马关条约》　D．《辛丑条约》

在两极格局解体以后，暂时形成了“一超多强”的局面，美国成为唯一的超级大国。依据有关历史知识，回答18—22题。

18．美国在18世纪后期建国，在不到一个半世纪的时间里，迅速发展成为首屈一指的强国。以下对其原因的认识，不正确的是 （ ）

A．领土面积的迅速扩展　　B．比较完善的法律制度

C．对种植园奴隶的剥削　　D．大量引进人才和技术

19．在第一次世界大战以后，美国首先提出建立国际联盟的倡议，但结果是国际联盟为英法所控制，美国没有加入国际联盟。以下各项解释，正确的是 （ ）

A．美国的经济实力不如英法　　B．西欧仍具有与美国抗衡的实力

C．英日同盟在远东牵制了美国　　D．国内的种族矛盾削弱了美国的实力

20．1945年日本投降，美国出于其全球战略，对中国的政策是 （ ）

A．直接出兵参与中国内战　　B．对中国实行封锁、禁运

C．扶持亲美反共政府　　D．出兵占领中国台湾

21．1948年底，美国陆军部长罗亚尔说：“最初是日本广泛非军事化的旧方针与要把日本建设成为自立国家的新方针产生了矛盾。”因此，新的“对日占领政策是扶植强有力的日本政府”。美国对日政策改变的原因和影响是 （ ）

①中国内战中蒋介石败局已定　②促进了战后日本经济的发展　③美国发动了侵略朝鲜的战争　④不利于根除日本军国主义势力 （ ）

A．①②③　　B．①②④　　C．①③④　　D．②③④

22．20世纪70年代，在美苏争霸中，美国处于战略防御的态势。下列各项，与形成这种态势有关系的是 （ ）

A．资本主义世界的经济“滞胀”

B．“马歇尔计划”成为美国经济的负担

C．西欧、日本加紧与美国的经济竞争

D．世界经济全球化和区域集团化的影响

党的十六大提出了要在本世纪头二十年全面建设小康社会的奋斗目标，这是实现现代化建设第三步战略目标必经的承上启下的发展阶段，也是完善社会主义市场经济体制和扩大对外开放的关键阶段，经过这个阶段的建设，再继续奋斗几十年，到本世纪中叶基本实现现代化。据此回答23—25题。

23．全面建设小康社会，最根本的是 （ ）

A．坚持以经济建设为中心，不断解放、发展生产力

B．走新型工业化的道路，坚持科教兴国和可持续发展战略

C．大力发展社会主义文化，建设社会主义精神文明

D．全面繁荣农村经济，加快城镇化进程

24．要实现全面建设小康社会的奋斗目标，从哲学上看就必须 （ ）

A．坚持独立自主与对外开放相结合

B．坚持在矛盾特殊性的指导下研究矛盾的普遍性

C．坚持理论对实践的指导作用

D．重视量的积累，不失时机促成飞跃

25．发展社会主义民主政治，建设社会主义政治文明，是全面建设小康社会的重要目标。发展社会主义民主政治，最根本的是把党的领导、人民当家做主与依法治国有机结合。对三者关系理解正确的是

①党的领导是人民当家做主和依法治国的根本保证　②健全社会主义民主，使其制度化、规范化、程序化　③人民当家做主是社会主义民主政治的本质要求　④依法治国是党领导人民治理国家的基本方略　⑤用“三个代表”的重要思想加强和改进党的建设 （ ）

A．①②③　　B．①③④　　C．②④⑤　　D．③④⑤

26．在拉动经济增长的消费、投资和出口中，消费的作用较为突出，一般国家为70%，美国高达80%，我国却不到60%，为此，从国家财政政策看，我国必须 （ ）

A. 进一步扩大开放，以外需拉动内需
B. 通过国债投入，带动社会投资，拉动消费增长
C. 开发西部，以结构调整刺激消费
D. 发展农村经济，增加农民收入，刺激农村消费

27. 2003年初，北京东方科技以3.8亿美元收购韩国现代显示 TFT—LCD 业务（韩国现代显示在 TFT—LCD 业务上排名全球第九），收购后，北京东方科技的 TFT—LCD 年生产能力将达到300万片以上，这将使其在市场竞争中处于有利地位。这说明 （　）
A. 只有资产重组，才能提高企业的市场竞争力
B. 重组可以使企业扩大规模，提高经济效益
C. 资产重组是增强企业竞争力的一种有效方式
D. 国有经济的主导作用是通过资产重组体现出来的

28. 2002年12月27日，举世瞩目的南水北调工程开工。其经济意义在于
①提高资源配置的效率，促进经济结构的战略性调整　②协调各方面利益关系，维护社会稳定　③可以协调地区发展，实现共同富裕　④可以扩大国内需求，促进就业增长 （　）
A. ①②③　B. ②④　C. ①③④　D. ①②③④

29. 十届全国人大决定在国家药品监督管理局的基础上，组建国家食品药品监督管理局。这是因为
①政府机构改革要适应市场经济发展的需要　②食品与药品直接关系到人民群众的健康和生命安全　③整顿市场经济秩序要标本兼治，加强法制和信用体系建设　④要建立有群众参与的行政监督和社会监督体系 （　）
A. ①　B. ①②　C. ①②④　D. ②③④

30. 胡锦涛同志在西柏坡发表的重要讲话中指出：权为民所用，情为民所系，利为民所谋。这
①表明党的宗旨是全心全意为人民服务　②表明共产党人应树立正确的权力观、地位观、利益观　③阐明了党坚持先进性和增强创造性的决定性因素　④体现了贯彻"三个代表"重要思想的本质是坚持执政为民 （　）
A. ①②③　B. ①②④　C. ③④　D. ①②③④

31. 莎士比亚说："你是独一无二的"。这就是说，每一个人都有自己的个性特征。因此，当人们选择职业时，应尽量选择适合自己性格特点的工作。以上材料说明看问题、办事情要 （　）
A. 坚持一分为二的观点　B. 善于分清主流和支流
C. 坚持具体问题具体分析　D. 善于抓中心，抓关键

32. 苦难是天才的营养，一生苦难，造就了梵高这样天才的画家；失败是成功的营养，爱迪生从一千次失败中得到了一千种"不能成功的方法"，为最终取得成功奠定了坚实的基础；屈辱是发奋的营养，吴王的羞辱促使越王勾践卧薪尝胆，成就霸业。这一材料主要揭示了 （　）
A. 事物的联系具有普遍性　B. 事物处于变化发展中
C. 矛盾双方在一定条件下相互转化　D. 外因是事物发展的必要条件

浩瀚星空，群星闪烁，吸引着人类好奇的眼睛，激发了人类探索的欲望。据此回答33—35题。

33. 我国自行研制的"神舟四号"无人飞船发射成功，并按预定时间返回。这使我国在空间环境综合监测、微波遥感对地观测和空间新技术实验等领域，又取得了一批有重要价值的研究成果，为我国"神舟五号"载人航天奠定了坚实基础。这表明 （　）
A. 人类的认识能力是无限与有限的统一
B. 实践是认识发展的根本动力
C. 科学理论是实践成功的根本原因
D. 科学实验对人类社会的存在与发展起决定作用

34. 2003年2月1日，美国有关部门于美国东部时间（西五区）9点30分宣布：原计划于当日9点16分降落的美国"哥伦比亚"号航天飞机，在降落前16分钟时，在高空解体，机上七名宇航员全部遇难。北京收到此消息的时间是 （　）
A. 1月31日12点30分　B. 2月2日22点30分
C. 2月1日12点30分　D. 2月1日22点30分

35. 江泽民主席就此事致电美国总统，对美国宇航员不幸遇难表示沉痛悼念，同时，相信人类探索宇宙科学的努力不会因此而受影响，一定会继续取得进展。上述材料给我们的哲学启示是
①要坚信前途是光明的，但要准备走曲折的路　②看问题要坚持发展的观点　③要坚持两点论与重点论的统一　④人类在探索太空的实践中，要发扬艰苦奋斗的精神 （　）
A. ①②③　B. ②③④　C. ①③④　D. ①②④

第Ⅱ卷（非选择题，共160分）

二、非选择题：本大题共5小题，共160分。

36. 读图5－5回答下列问题。(共24分)

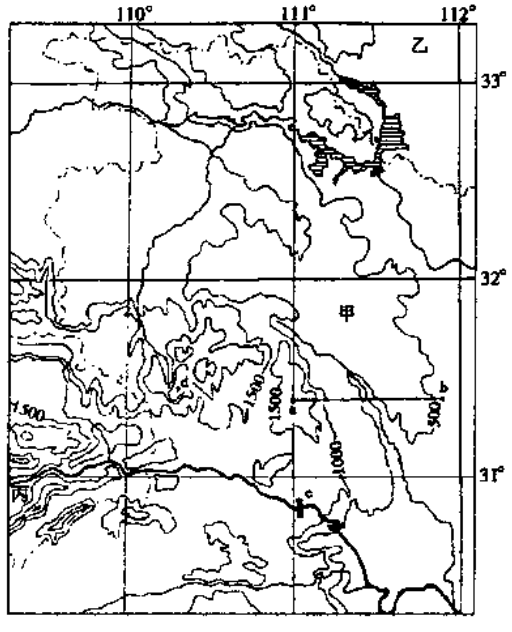

图5－5

(1) 在图5－6内画出图5－5中a—b之间的地形剖面图。(4分)

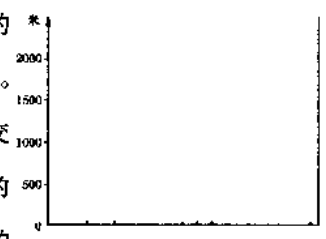

图5－6

(2) 图中c代表的是＿＿＿＿＿＿工程。建设该工程的主要原因是(　　)(7分)
A. 该工程位于我国地势第一、二级阶梯的交界处，水流急，落差大，水能资源丰富
B. 该工程以西是盆地，能够形成容量巨大的水库库区
C. 该工程可以减缓上游洪水对中下游地区的威胁
D. 该工程所在地区地质基础好，无火山、地震、泥石流、滑坡等地质灾害的威胁

(3) 读下表回答问题：(6分)

	水资源总量（亿 m^3）	人均水量（m^3）
地　区1	407	471
地　区2	982	1804

根据资料判断，符合图5－5中甲省水资源状况的是地区＿＿＿。为了缓解我国水资源空间分布不均的现状，修建的水利工程其起点是图中的＿＿＿水库。

(4) 图中d处表示＿＿＿＿自然保护区，其主要保护金丝猴、珙桐等珍贵的生物资源。(3分)

(5) 丙地区盛产柑橘的主要自然原因是＿＿＿＿＿＿＿＿。(从气候、地形两方面分析)(4分)

37. 中共八大提出要进一步扩大国家的民主生活，进一步加强人民民主和法制，使政府的活动做到"有法可依"、"有法必依"。国家必须逐步地、系统地制定完备法律。

江泽民在纪念十一届三中全会20周年的大会上总结20年民主法制建设成就，人民代表大会制度和共产党领导的多党合作、政治协商制度进一步健全和完善；民主不断扩大，农村普遍实行村民自治；法制建设取得显著成就，以宪法为基础，中国特色社会主义法律体系逐步完备。

回答下列问题：(37分)
(1) 以苏联为例，分析国际社会主义运动在民主法制建设方面的教训。(8分)
(2) 中共八大关于民主法制的决议是否得到了贯彻？结合史实分析其后果。(14分)
(3) "文化大革命"结束以后，中国共产党如何从思想观念和方针政策上扫除社会民主法制建设的障碍？依据上述材料，说明改革开放以来，在民主法制建设方面做了哪些成就？(15分)

38. (共35分)

材料一：目前，我国失业率呈上升趋势，去年失业率约为4.5%。十五期间年均新增劳动力800多万人。目前，下岗职工人数约1000万人，农村剩余劳动力1.5亿人以上。

材料二：据统计，国民经济每增长一个百分点，可以提供70万个就业岗位；第三产业是我国吸纳劳动者就业的主体产业；我国私营个体就业人员从1996年的7400多万人增加到2001年的1.2亿多人；2002年，党和国家出台了一系列扶持就业、再就业的政策，这一系列优惠政策将在3年内创造1300万个就业岗位。

材料三：党的十六大报告指出："就业是民生之本。各级党委和政府必须把改善创业环境和增加就业岗位作为重要职责。引导全社会转变就业观念，推行灵活多样的就业形式，鼓励自谋职业和自主创业，完善就业培训和服务体系，提高劳动者就业技能。"

(1) 材料一反映了什么问题？运用经济常识，结合材料二谈谈如何解决这一问题？(14分)
(2) 联系材料二、三，谈谈解决这一问题体现了哪些哲理？(13分)
(3) 上述材料是如何体现党的"三个代表"重要思想的？(8分)

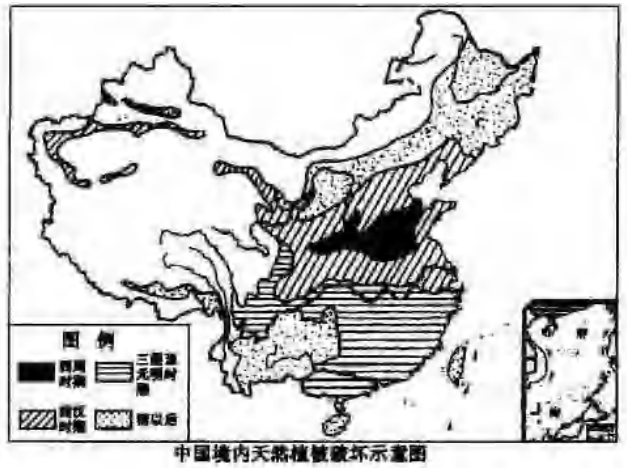

图5－7

39. 读图5－7，回答下列问题。(共29分)
(1) 依据图中提供的信息，运用所学历史知识说明，江南地区的天然植被是在什么时期遭到破坏的？并简要叙述其过程。(10分)
(2) 从人地关系角度分析，图中反映的现象产生的原因是什么？(3分)
＿＿＿＿＿＿＿＿＿＿＿＿＿＿＿＿。
(3) 中国现有的天然林区主要分布在＿＿＿＿＿＿＿＿＿＿＿。(3分)
(4) 大面积天然植被破坏带来的环境问题有＿＿＿＿＿＿＿＿＿＿＿。(3分)
(5) 请用矛盾的观点分析如图所示的问题。(6分)
(6) 在今天的西部大开发中，如何解决好这一问题？(4分)

40. (共35分)

2002年11月，国务院总理朱镕基参加第六次中国与东盟（10＋1）领导人会议。签署了《中国与东盟全面经济合作框架协议》，启动了我国与东盟建立自由贸易区的进程，为自由贸易区奠定了法律基础。

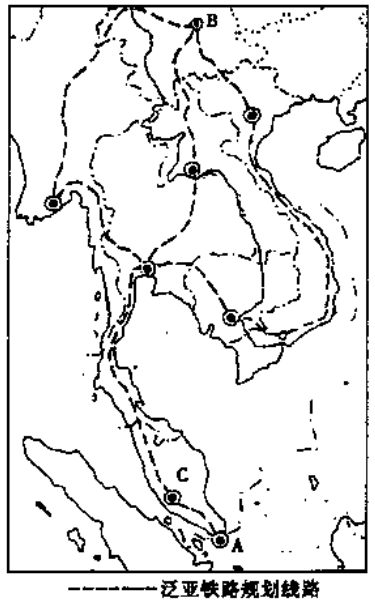

图5－8

(1) 运用政治、经济知识分析中国为什么重视与东盟的合作关系？(12分)

读图5－8东南亚地区图，回答下列问题。
(2) 在第三届东盟湄公河流域开发合作部长级会议上，各国代表原则上通过了泛亚铁路的修建计划。该铁路的起止点A国是＿＿＿，B市是＿＿＿。(4分)
(3) 由于自然环境的复杂性，建设该铁路困难多、投资大，其中在地形、地质方面可能遇到的问题有＿＿＿＿＿＿＿＿＿＿＿＿＿＿。(2分)
(4) 泛亚铁路沿线地区物产丰富，C国农业生产地域类型以＿＿＿＿＿＿为主，代表性的热带经济作物有＿＿＿＿＿＿等。(4分)
(5) 简答该铁路的修建对我国西南地区，特别是云南的对外贸易的意义。(3分)
(6) 东盟所包含的主要地区在我国古代称为"南洋"。简要说明我国古代劳动人民对开发南洋做出的贡献。(4分)
(7) 运用历史知识回答，第二次世界大战以后，A国经济发展有什么可资借鉴的经验？(6分)

北京市海淀区高三第二学期期末练习 6 A

文科综合

本试卷分第Ⅰ卷（选择题）和第Ⅱ卷（非选择题）两部分，满分300分，考试时间150分钟。

第Ⅰ卷（选择题，共140分）

一、选择题。本大题共35小题，每小题4分，共计140分。在每小题所列出的四个选项中，只有一项最符合题目要求。

1. 下列关于地球和地球运动的叙述中不正确的是（　）
A. 只有当太阳直射0°经线时，全球属同一个日期
B. 在极地投影图上，若经线度数顺时针增加，并且为东经度，则中心点为北极
C. 春秋分时晨昏线与经线重合
D. 北半球水平运动的物体向北运动时向东偏，向西运动时向北偏

2. 读图6-1“正午太阳高度随纬度变化示意图”，判断下列叙述正确的是（　）

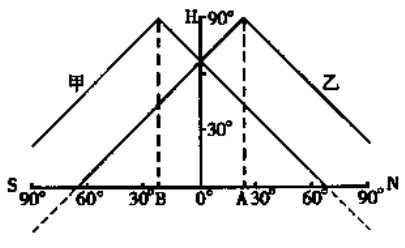

图6-1

A. 折线乙表示阳光直射B点时正午太阳高度随纬度变化的规律
B. 当太阳直射A纬度时，AB之间地区的正午太阳高度达一年中最大值
C. 太阳直射点由赤道向B点移动过程中，北半球正午太阳高度逐渐降低
D. 太阳直射点由A点向B点移动的过程中，北纬10°的正午太阳高度逐渐变小

3. 下列地理现象与洋流关系密切的是（　）
A. 一月西欧沿海地区等温线分布大致呈南北走向
B. 马达加斯加岛东西两侧气候类型不同
C. 智利南部的年降水量远大于西欧平原
D. 红海盐度高达4%

4. 有关世界主要国家的叙述正确的是（　）
A. 印度的国土面积及耕地面积均居亚洲第二位
B. 俄罗斯的经济重心和自然资源主要分布区均在乌拉尔山以西
C. 美国农业专业化地带的形成是以自然条件和市场为基础的
D. 巴西的人口密集区随巴西利亚的建立而转移到内陆高原

2003年2月，首钢集团宣布在大规模压缩减少北京厂区钢产量的同时，将在河北迁安投资建设一座年产量200万吨的炼钢厂。据此回答5～6题。

5. 首钢集团大规模压缩减少北京厂区的钢产量，对北京环境的好处是（　）
A. 压缩企业用地规模，平抑北京土地价格不断上涨的趋势
B. 降低生产性耗水，彻底解决北京地区水资源紧张的矛盾
C. 减少大气污染物的排放，推动北京地区环境质量的进一步改善
D. 减少生产中的运输成本，提高企业的经济效益，增加地方财政税收

6. 首钢集团将新厂建在河北迁安的主要原因是（　）
A. 更加方便钢材出口　　B. 进一步降低劳动力费用
C. 新厂区的环境优美洁净　　D. 接近原料产地

表6-1为我国某地区气候统计资料，结合此表回答7～8题。

年日照时数（小时）	1700—2000
年平均气温（℃）	14.5—22
年降水量（毫米）	1000—2000

表6-1

7. 与该表气候特征相符的地区是（　）
A. 东北平原　　B. 华北平原　　C. 江南丘陵　　D. 四川盆地

8. 关于该区农业资源优势的叙述正确的是（　）
A. 季风活动使其水、热配合较好，是我国热带经济作物的主要产区
B. 水热资源丰富，适宜种植亚热带水果、茶树等经济林木
C. 水热资源丰富，适宜大面积种植水稻
D. 土壤肥沃，富含矿物质，为高产土壤之一

9. 据研究，5000年前撒哈拉地区主要为草原环境，现在则成为世界最大的沙漠。近50多年来撒哈拉沙漠扩大了1.0×10^6平方千米，目前沙漠面积每年仍以6千米的速度向南部草原扩展，其直接原因是
①人口问题　②对植被的破坏　③政治动荡　④旱灾频繁（　）
A. ①②　　B. ③④　　C. ①③　　D. ②④

读图6-2“我国西南部分地区7月等温线分布图”，回答10～11题。

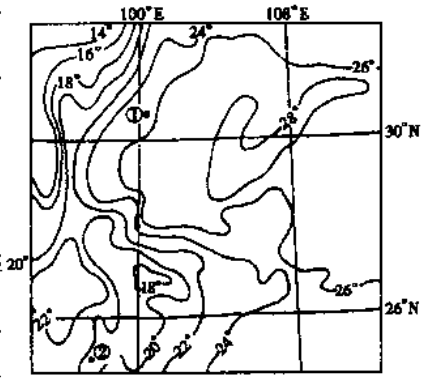

图6-2

10. 造成①地和②地气温差异的主要原因是（　）
A. 纬度差异
B. 海陆分布
C. 地势高低
D. 环流形势

11. 有关该地区社会经济发展的叙述正确的是（　）
A. 应充分发挥该区沿江、沿边的区位优势，加强交通建设
B. 目前本区已初步形成以钢铁、煤炭、石化等重工业为主体的工业体系
C. 该地区跨越我国地势的第二、三级阶梯，水能资源丰富
D. 该地区将成为我国重要的高科技工业区

文化传播是一个双向过程，我国古代与亚洲各国有着频繁的联系，对于各自的文化都有深刻的影响。结合中国古代历史，回答12～14题。

12. 见于历史记载的我国官方与波斯湾地区最早的直接往来发生于（　）
A. 东汉　　B. 西晋　　C. 唐朝　　D. 南宋

13. 与西亚地区的交流对于我国古代经济文化的影响主要表现在
①丰富了古代人民文化艺术生活　②促进了我国四大发明的形成　③发展了对外贸易，丰富了物产　④在我国形成了一个新的民族（　）
A. ①②③　　B. ①②④　　C. ①③④　　D. ②③④

14. 以下关于中国古代历史上与印度交往的叙述，不正确的是（　）
A. 佛教在唐朝时开始由天竺传入中国
B. 唐朝时印度的制糖技术传入中国
C. 玄奘翻译佛经保存了印度的古代文化资料
D. 郑和下西洋曾经到达过印度半岛

近现代资本主义政治制度的发展，对于世界历史有重要影响。结合有关史实，回答15～19题。

15. 在启蒙运动中，卢梭主张建立资产阶级的共和制度。与其他启蒙思想家不同，卢梭进一步提出了（　）
A. 天赋人权和权利平等　　B. 权力的制约与平衡
C. 政治民主和个人自由　　D. 国家主权属于人民

16. 在资本主义国家中，内阁行使行政权力。最先提出和建立内阁制度是在（　）
A. 文艺复兴运动期间　　B. 英国资产阶级革命后
C. 美国独立战争期间　　D. 法国资产阶级革命后

17. 17～18世纪，欧美的主要资本主义国家先后进行了资产阶级革命。各国资产阶级革命过程中普遍具有的本质特征是（　）
A. 推翻了君主制度　　B. 彻底解决土地问题
C. 向法治化国家过渡　　D. 建立民主共和制度

18. 中国近代历史上，在追求经济现代化的同时，也经历了一个政治现代化的过程。要求政治现代化的主张最早出现于（　）
A. 鸦片战争之后的新思潮　　B. 早期维新思想的主张
C. 戊戌变法中的《定国是诏》　　D. 同盟会的革命纲领

19. 法西斯主义产生于资本主义制度中，它与正统的资本主义政治制度的不同主要体现在
①实行“一党专政”　②抛弃了议会民主制　③对外争夺殖民地　④强化思想文化控制（　）
A. ①②③　　B. ①③④　　C. ①②④　　D. ②③④

殖民体系的兴衰和资本主义世界体系的形成发展，是世界近现代历史的重要内容。结合有关史实，回答20～23题。

20. 新航路开辟后，早期殖民活动出现。以下各项正确说明了殖民活动对于资本主义发展促进作用的是
①推动了西方资本原始积累的过程　②加速了西欧封建主阶级的衰落　③造成了商路和贸易中心的变化　④为手工工场提供大量的劳动力（　）
A. ①②③　　B. ①②④　　C. ①③④　　D. ②③④

21. 工业革命促进了资本主义世界体系的形成，其主要表现是
①密切了世界各地的联系　②将先进的生产方式传播到世界各地　③冲击了旧思想和旧制度　④使殖民地半殖民地国家成为西方的附庸（　）
A. ①②　　B. ③④　　C. ①②④　　D. ①②③④

22. 第二次世界大战以后，民族解放运动成为不可抗拒的历史潮流。但是西方殖民国家的一些做法却给部分地区的矛盾冲突埋下了种子。下列地区典型地反映了这种情况的是（　）
A. 拉丁美洲地区　　B. 巴勒斯坦地区
C. 印度尼西亚　　D. 阿尔及利亚

23. 联合国开发计划署1999年度《人类发展报告》指出：“迄今为止的全球化是不平衡的，它加深了穷国和富国、穷人和富人的鸿沟。”我国学者认为：“西方是经济全球化最大的赢家，第三世界却可悲地扮演着输家的角色。”发展中国家在参与经济全球化的过程中受到主要按西方国家意志制定的国际规则和国际惯例的影响和制约。但是，发展中国家无法选择逃避，毕竟全球化能够提供发展的机遇。以下各项对于上述材料认识不正确的是（　）
A. 经济全球化的过程是西方主导的　B. 发展中国家面临日益严重的挑战
C. 旧的国家秩序不利于发展中国家　D. 发展中国家应该回避全球化过程

2003年3月15日，中国消费者协会公布，五年来，消费者对商品房广告的投诉不断上升，2002年陡然上升了177.5%。突出表现为三个方面：第一是在语言表述和图标上缩短房产项目与市中心的实际距离；第二以“低起价”做诱饵；第三配套设施宣传严重失实，实际上有的所需资金尚未落实，有的规划根本未获批准。据此回答24～26题。

24. 房地产商这种做法显然违反了市场交易中______原则。
①消费者的知情　②自愿　③诚实守信　④公平（　）
A. ①③④　　B. ②③④　　C. ③④　　D. ①②

25. 房地产商这样做，直接侵害了消费者的（　）
A. 安全权　　B. 平等权　　C. 自主选择权　　D. 公平交易权

26. 中国消费者协会公布这一调查结果表明（　）
A. 必须整顿规范市场经济秩序，反对不正当竞争
B. 消费者协会是维护消费者合法权益的国家机关
C. 在市场经济中，市场的调节具有盲目性、滞后性
D. 消协运用行政手段对此行为曝光，目的在于保护消费者的合法权益

为了适应经济全球化和加入世界贸易组织的新形势，我国国有企业开展跨国生产和经营，逐步形成了一批如“中国石油”等中国式的跨国公司。据此回答27～29题。

27. 从经济常识分析，国有企业开展跨国生产和经营，是______的具体体现。（　）
A. 建立外部监督机制，防止国有资产的流失
B. 实现股份制改造
C. 建立现代企业制度
D. 实施“走出去”战略

28. 从哲学角度分析，中国式跨国公司的出现体现了（　）
A. 必须打破常规，进行逆向思维　　B. 前进性与曲折性相统一
C. 两点论与重点论相统一　　D. 抓住机遇，促进发展

29. 从政治常识分析，国有企业开展跨国生产和经营（　）
A. 是适应多极化趋势，维护世界和平与发展的具体措施
B. 是增强综合国力，巩固我国社会主义制度的战略措施

C. 是增强自力更生能力，发展民族经济的重要措施

D. 有利于完善社会主义市场经济体制

加强和改进党的建设，坚决反对和防止腐败，是全党一项重大的政治任务。每个共产党员都要严格要求自己。据此回答30～31题。

30. 优秀的共产党员北京积水潭医院手外科的韦加宁医生，从医40多年，实施各种手术5万多例，为数万患者送去健康。他把医术当艺术，把工作当乐趣，视病人如亲人，拒收红包，在身患绝症的情况下，仍坚持画完一本手外科图谱，留给后人使用。他获得了全国卫生系统最高奖——白求恩奖章。他的先进事迹说明

①人生真正的价值在于对社会的奉献　②人生价值是在个人与他人、个人与社会的关系中体现出来的　③人生价值是自我价值与社会价值的统一　④在个人对社会的贡献中，精神贡献比物质贡献更重要　（　　）

A. ①　　B. ①②　　C. ①②③　　D. ①②③④

31. 相反，党内个别领导干部放松对自我的要求，从而走向犯罪道路。一个腐败分子在他的忏悔录中说："我犯罪的最根本的问题，是放松主观世界的改造。"他的话给我们的哲学启示是　（　　）

A. 放松主观世界的改造就会导致犯罪

B. 要在实践的基础上自觉地改造主观世界

C. 要防微杜渐，把坏思想、坏习气、坏作风消灭在萌芽状态

D. 世界观、价值观、人生观对人生有正确的导向作用

32. 台湾作家林清玄写了一首神诗：白鹭立雪，愚人看鹭，聪明见雪，智者观白。这首诗蕴涵的哲理是

①不同的人对同一事物有不同的看法　②人的意识具有能动性　③认识有正确和错误之分　④不同意识对事物所起的作用不同　（　　）

A. ①②③　　B. ②③④　　C. ①③④　　D. ①②

33. 中国人民大学法学院学生某教授说：当人大代表，首先是职责，从法律上讲，他们是国家权力机关的组成人员。这表明人大代表　（　　）

A. 代表人民的利益和意志，行使提案权、质询权、决定权等

B. 是享有宪法赋予的特有的权利和义务的特殊公民

C. 是国家权力的直接执行者，依法行使国家权力

D. 是由直接选举或间接选举产生的

市第一中级人民法院率先在"前瞻之窗"网站上公布了"举报市第一中级法院违法、违纪民事审判人员须知"，将该院的法官和审判人员置于更加透明的公众监督之下，当事人可以用电子邮件、电话等各种方式进行举报。据此回答34～35题。

34. 市第一中级人民法院公布"须知"，将该院的法官和审判人员置于更加透明的公众监督之下，这说明　（　　）

A. 党和国家认真进行党风廉政建设　B. 依法治国需要人民群众监督

C. 依法治国的主体是国家机关　D. 监督权是我国公民的基本政治权利

35. 市第一中级人民法院的这一举措，从根本上讲，是由　（　　）

A. 依法治国的基本方略决定的　B. 我国的国家职能决定的

C. 社会主义民主的本质决定的　D. 反腐倡廉的斗争决定的

第Ⅱ卷（非选择题，共160分）

二、非选择题。本大题共5小题，共160分。

36. 读图6～3，分析回答有关问题（25分）

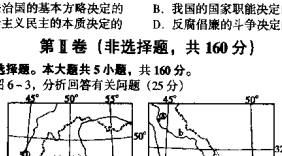

图6－3

（1）甲、乙两地的气候类型分别是：甲_____气候，乙_____气候。两地气候形成的原因分别是：甲地_____。乙地_____。（8分）

（2）图中a、b、c、d四条河流中，a河流属于_____（外、内）流河。c河流的名称是_____。（4分）

（3）两地农业发展中，共同的优势自然条件是：（从地形、气候、水源、土壤等方面分析）

_____。（6分）

（4）城市①——②与城市③——④相比，实际直线距离较远的是_____。（2分）

（5）乙地向北美地区输出石油的主要运输方式应当是_____。有关该地区由于石油泄漏引发的环境问题，叙述正确的是_____（选择填空）。（5分）

A. 造成水体富营养化　B. 引起水体放射性污染

C. 引起水体盐度异常增高　D. 造成附近水域水生生物大量死亡

37. 儒家思想长期以来作为我国正统的意识形态，对于我国历史的发展产生了巨大的影响。另外，在历史发展的不同时期，儒家思想也历经沧桑。

阅读以下材料，结合所学的知识回答问题。（35分）

材料一　［双武帝］和他的近臣将所谓"儒术"扩展之后又延长，以至包括了有利于中央集权官僚政治所必需的种种理论与实践的步骤。孔子所提倡的自身之约束，持人之宽厚，人本主义之精神，家人亲族的因袭和礼仪上之周到等等全部构成官僚集团行动上的规范。孟子所倡导的人民生计与国本攸关地看无疑问地被尊重。

——黄仁宇《中国大历史》

材料二　至于三纲五常，为中国之大教，足下谓西夷无之矣，然考之则不然。东西律例，以法为宗。今按法国律例，民律第三百七十一条云："凡一切子女，无论其人何等年岁，须于其父母有恭敬孝顺之心。"……第二百一十三条云："凡为妇者，应为其夫者所管属。"

——康有为《与朱一新论学书》

材料三　新文化运动的倡导者们认为，中国所以危亡，民主和科学所以不能实现，是由于封建伦理道德的严重束缚所致。陈独秀史钦地指出：以孔子学说为代表的封建伦理道德，阻碍了中国人民觉醒和社会进步。李大钊发表文章指出，孔子是"数千年前之残骸枯骨"、"历代帝王专制之护符"、"保护君主政治之偶像"。……对于不合时宜的旧道德，"甚置毁圣非法之名，亦所不惜矣"。

——马商政等编《中国近代史教程》

材料四　放眼将来，具有儒家特色的现代性，在东亚出现的可能性极大。其实，"东亚现代性"莫然深受西欧和美国的影响，但却不只是西方发展模式的翻版而已。［东亚各国］都和传统有血肉相连的关系。在塑造东亚传统起过决定性作用长达数世纪的儒家可发挥积极的作用。

——杜维明《儒学创新的契机》

（1）依据材料一，分析儒家思想对于封建统治的作用。结合所学历史知识，说明儒家思想在封建社会中的地位。（12分）

（2）依据材料二和所学知识，分析资产阶级维新派对于儒家思想的态度。（6分）

（3）依据材料三，说明随着资产阶级革命和共和运动的深入，新文化运动倡导者是如何认识和评价儒家思想的。（9分）

（4）材料四如何认识儒家传统在东亚现代化进程中的作用？你如何看待这种观点？（8分）

38. **材料一**　党的十六大报告指出：经过全党和全国各族人民的共同努力，人民生活总体上达到小康水平。我们要在本世纪头二十年，集中力量，全面建设惠及十几亿人口的更高水平的小康社会。在谈到如何全面建设小康社会时又指出：统筹城乡经济社会发展，建设现代农业，发展农村经济，是全面建设小康社会的重中之重。

材料二　"吃饱了何处挣钱花，一亩地怎么养小康？"这曾是农村人口占80%的河南信阳人温饱之后的难题。然而，信阳人大胆实践，围绕"非农化"大做文章，一靠劳务输出，二靠围农兴工，发展小城镇，走出一条全面建设小康的新路。据统计，信阳外出务工人员167万，每年汇回大量资金；在政府的支持下，他们依托优势资源发展农产品加工业，使产业结构调整步伐加快，当地纷纷建起了"老板街"、"创业园"，小城镇居民增加，到2001年，信阳县城以下的小城镇达198个，吸纳农村劳动力10.2万人，信阳市政府加快了小城镇发展步伐，带动了农村非农化，促进了全市的经济社会发展。

阅读上述材料，结合所学知识回答问题。（35分）

（1）结合材料一，运用政治常识，分析"人民生活总体达到小康水平"的主要原因及提出"全面建设小康社会"奋斗目标的意义。（10分）

（2）从唯物辩证法的角度，谈谈你对"统筹城乡经济社会发展，建设现代农业，发展农村经济，增加农民收入，是全面建设小康社会的重中之重"的理解。（15分）

（3）结合材料二，运用经济常识，谈谈应如何发展农村经济，增加农民收入？（10分）

39. 我国东北地区幅员辽阔，风光秀美，土壤肥沃，蕴藏着丰富的资源。保卫、开发和利用好这块宝地，历来为我国政府所重视。结合所学文科知识，回答下列问题。（32分）

（1）在古代历史上，我国中央政府对黑龙江流域的管辖开始于何时？清朝前期，我国是如何抗击俄国对东北的侵略，维护国家统一的？（10分）

（2）三江平原主要是由_____江、_____江、_____江冲积而成。（3分）该平原是我国沼泽分布率最高的地区之一。沼泽分布率达20%。试分析其形成的自然原因。（6分）

（3）解放以来当地长期进行大规模的农业开垦，但2000年国务院却下令停止围垦，并逐步实行退耕还垦，其主要目的是_____（选择填空）。

①保护湿地的生态系统和生物多样性　②恢复湿地具有的蓄水和调节气候、河川径流的功能　③利于收集沼气建立能源基地　④抬高地下水位，防止土壤次生盐碱化

A. ①④　　B. ①②　　C. ②③　　D. ②④

（4）五十年代，为了共和国的生存，我国决定开发北大荒，北大荒变为北大仓，为国民经济发展做出了贡献。与此同时，由于长期的排水、开垦和猎、北大荒环境与生态问题凸现，影响了人民的生产和生活。现在，已下令停止围垦。

结合上述材料，分析其中体现的哲学道理。（10分）

40. 世界近现代经济发展史表明，没有大工业做支撑，就难以实现国家的富强，工业化是现代化的必由之路。结合所学文科知识，回答下列问题。（33分）

（1）新中国建立以后，我国工业化走过了曲折的发展道路。运用所学历史知识，简要说明其失误与成就。（12分）

建国后，我国的工业布局在立足于沿海发展的基础上，大力发展内地工业。由于各种因素造成我国东部和西部工业发展还存在巨大差异。回答下列问题：

（2）西部地区发展的工业多为_____（选择填空）。（3分）

①原料指向型工业　②技术指向型工业　③市场指向型工业　④动力指向型工业　⑤廉价劳动力指向型工业

A. ①②③　　B. ①④⑤　　C. ③④⑤　　D. ②③④

（3）从地理学科角度简述东部沿海地区发展高新技术产业的优势。（6分）

（4）入世后，我国传统行业面临日趋激烈的市场竞争。某市率先改造纺织行业，投资建起了纺织制版中心，引进国际上先进的电脑模拟仿真系统用于新产品开发，新产品上市从过去需要20多天缩短为3天，降低了成本，提高了产品竞争力。在高污染的造纸、钢铁、化工等行业引进先进的治污设备，治理污染的技术和能力大大提高。同时，对传统行业的改造促进了以电子信息技术为代表的高新技术产业的发展。

结合材料，运用经济常识，谈谈该市是如何走新型工业化道路的？（12分）

湖北省黄冈中学等八校高三第二次联考

7 A

文 科 综 合

第Ⅰ卷（选择题，共140分）

一、本卷共35小题，每小题4分，共140分。在每小题给出的四个选项中，只有一项是符合题目要求的。

1. 图7－1反映了哪一种物资的世界贸易状况（　　）

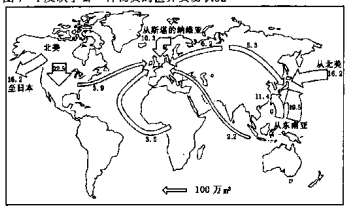

图7－1

A. 铁矿石　　B. 石油　　C. 粮食　　D. 木材

读图7－2，回答2～4题。

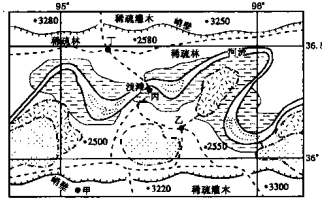

图7－2

2. 根据图上反映的信息，判断该地区位于（　　）

A. 东北平原　　B. 云贵高原　　C. 内蒙古高原　　D. 青藏高原

3. 计划在图中甲、乙、丙、丁四地进行不同类型的人类活动，其中正确的是（　　）

A. 甲处种水稻　　B. 乙处建农牧加工厂

C. 丙处种植咖啡　　D. 丁处栽种棉花

4. 图中河流历史上曾经水量丰富，近三年来经常出现断流，其形成原因是

①全球气温升高，蒸发旺盛　②地球自转速度加快，白昼时间变长　③黄赤交角缩小，太阳直射点北移　④西太平洋副热带高压西进北移，年降水量减少　⑤人类不合理的开发利用导致土地沙漠化面积扩大（　　）

A. ①⑤　　B. ①②④

C. ②③⑤　　D. ①④⑤

图7－3

图7－3是西半球太阳光照图，阴影部分表示夜晚，据此回答5～6题。

5. 如果这一天是夏至日，此时“北京时间”是（　　）

A. 6月21日12时　　B. 6月22日12时

C. 6月21日8时　　D. 6月22日21时

6. 当图中A点的昼长大于夜长的一段时间内

①松花江出现春汛和夏汛　②长江中下游平原出现梅雨和伏旱天气　③开普敦出现炎热干燥天气　④云贵高原同时受到西南季风和东南季风的影响（　　）

A. ①②④　　B. ②③④　　C. ①②④　　D. ①③④

图7－4是日本东北地区东西横切的地形剖面图，回答7～8题。



图7－4

7. 图中关于日本海沟成因分析正确的一项是（　　）

A. 海流侵蚀

B. 海底滑坡

C. 海洋板块俯冲斜插人大陆板块之下而形成海沟

D. 河流侵蚀形成的山谷沉入海底而形成海沟

8. 日本大部分的工厂，集结于东京到九州一带的沿海地区。这种现象与其何种地理特征的关系最为密切？（　　）

A. 地形破碎　　B. 资源贫乏　　C. 寒暖流交汇　　D. 地震频繁

城市化的建程和特点受多种因素制约，据此回答9～10题。

9. 欧美发达国家都市人口密度的最高点，常出现在市中心的边缘地带；而印度、墨西哥等发展中国家都市人口密度的最高点，则常出现在市中心。造成这种差异的主要原因是印度、墨西哥等国家都市常具有何种特性？（　　）

①都市规模较小　②轻工业较不发达　③都市人口生育率较高　④住商混合的情形较普遍（　　）

A. ①②　　B. ①④　　C. ①③　　D. ③④

10. 发达国家跨国企业总公司在我国设立分公司通常都要求设在沿海中心城市，主要原因是沿海中心城市具有的优势是

①社会协作条件好　②市场区域广大　③气候温暖湿润　④水源供应充足　⑤货物运输便利（　　）

A. ①②③　　B. ②③④　　C. ③④⑤　　D. ①②⑤

中国古代以农立国，历代统治者都比较重视农作物的种植、推广和引进。回答11～15题。

11. 稻麦开始成为我国古代主要粮食作物的时期是在（　　）

A. 两汉　　B. 隋唐　　C. 宋元　　D. 明清

12. “闽田两收，北人陀以为异，至岭南则二收矣”记载的是（　　）

A. 南朝的小麦　　B. 南宋的棉花

C. 明朝的水稻　　D. 清朝的甘薯

13. 如图7－5所示，明朝中后期箭头B方向传入我国的外来文明，与下列哪一历史事件有联系？（　　）

A. “丝绸之路”的开辟

B. 郑和下西洋

C. 欧洲“商业革命”

D. 英国工业革命

图7－5

14. 自元朝至清朝前期，我国古代著名的棉纺织业中心是（　　）

A. 苏州　　B. 松江

C. 成都　　D. 广州

15.《棉花图·收获》（图7－6）反映明朝中后期农业生产的发展趋势是（　　）

A. 引进的高产作物逐渐取代传统农作物

B. 棉花的种植区域在明朝中后期进一步扩大

C. 国内市场扩大，农产品日益商品化

D. 农业的进步促进了具有专门职能城市的发展

棉花图·收获

图7－6

1876年，美国为纪念建国100周年，在费城举办了世界博览会，当时中国宁波海关税务司李圣作为中国工商业代表参加了此次盛会，这也是中国人首次参加世博会。回答16～19题。

16. 美国选择费城为1876年世博会的举办地，是由于（　　）

A. 费城是当时美国的制造业中心　　B. 费城是当时美国的政治中心

C. 费城是《独立宣言》的发表地　　D. 费城是美国1787年宪法的诞生地

17. 李圣参观1876年世博会机器院时，发现美国展品“约居十之八”，而中国“竟无一物”，造成这一现象的历史根源是（　　）

A. 美国第二次工业革命成就突出

B. 中国的洋务运动受到顽固派阻挠

C. 中国民族资本主义才刚刚起步

D. 中国腐朽的生产关系阻碍了生产力的发展

18. 在1876年世博会上，日本馆大于中国馆，且展品较为丰富，但日本仍从世博会上定购了大量机器产品，其直接目的是（　　）

A. 满足本国封建统治者的生活需要

B. 适应明治维新后工业革命的进行

C. 促进本国资本主义向帝国主义阶段过渡

D. 发展军事工业，加快对外扩张步伐

19. 李圣在参加了此次世博会后，大声疾呼“机器正当讲求”，其思想主张属于（　　）

A. 封建顽固派　　B. 地主阶级洋务派

C. 早期维新派　　D. 资产阶级革命派

中国共产党的建设事关中国民主革命和社会主义建设的成败。回答20～23题。

20. 中国共产党在“八七”会议上纠正了陈独秀的右倾机会主义错误，在遵义会议上结束了王明“左”倾错误在中央的统治。右倾机会主义和左倾错误反映在党的作风问题上，主要是缺乏（　　）

A. 批评与自我批评的工作态度　　B. 民主与法制的思想观念

C. 理论联系实际的思想意识　　D. 密切联系群众的工作作风

21. 1942年的整风运动和1945年中共“七大”确立毛泽东思想为党的指导思想，这两者的共同作用是

①彻底消除了官僚主义、主观主义、宗派主义的错误倾向　②奠定了抗战胜利和新民主主义革命胜利的思想基础　③完成了由新民主主义革命向社会主义革命的思想转变　④统一了全党的思想和认识，促进了中国共产党的团结（　　）

A. ①②　　B. ②③　　C. ①④　　D. ②④

22. 中共八大的路线对我国建设有中国特色的社会主义事业具有深远的意义，这主要是因为中共八大

①正确认识了中国社会的主要矛盾　②强调正确处理人民内部矛盾　③明确提出集中力量发展生产力　④规定了综合平衡稳步前进的经济建设方针（　　）

A. ①②③　　B. ①③④　　C. ②③④　　D. ①②③④

23. 中共十三大提出了社会主义初级阶段的理论，制定了党在社会主义初级阶段的基本路线，这是对十一届三中全会思想路线的肯定和发展。这里的“发展”主要体现在（　　）

A. 坚持经济建设为中心，坚持改革开放

B. 坚持四项基本原则不动摇

C. 分三步走实现现代化的战略部署

D. 提出建立社会主义市场经济体制的目标

近年来，国有企业实现了扭亏增盈，个体、私营经济也得到了迅速发展。回答24～26题。

24. 科技创新对国有企业经济效益的提高至关重要。表现在

①采用现代科技武装企业，以信息化带动工业化，走上新型工业化道路　②科技创新是实现经济增长由粗放型向集约型转变的根本力量　③采用现代科学管理方法，能提高企业经营管理水平　④能保证国有资产管理体制改革，完善国家宏观调控（　　）

A. ②③　　B. ③④　　C. ②③④　　D. ①②③

25. 与20世纪90年代初相比，私营企业产值增长了1.7倍，私营企业总户数增长了1915倍，注册资金增长了154倍，就业人员增加了5400万人。现在，全国私营企业的队伍正以平均每天诞生809家的速度不断壮大。这表明（　　）

A. 我国要保护一切合法的劳动收入和一切合法的非劳动收入

B. 适度限制私营经济的发展有利于巩固我国公有制的主体地位

C. 公有制为主体，多种所有制经济共同发展是我国的基本经济制度

D. 非公有制经济已成为推动国民经济发展的重要力量

26. 如今，一些年满18岁的私营企业家只要承认党的章程和纲领，愿意参加党的一个组织并在其中积极工作，执行党的决议和按期交纳党费的，可以申请加入中国共产党。这说明

①我党坚持理论创新，与时俱进　②我党只要充分发挥主观能动性，就能促进自身的发展　③我党的性质随着客观国情的变化而变化　④我党保持了解放思想，实事求是的优良传统（　　）

A. ①④　　B. ②③　　C. ①③④　　D. ①②③④

2002年12月27日，南水北调工程正式开工建设，这标志着南水北调工程进入实施阶段。回答27～29题。

27. 解决缺水的关键不是开源，而是节流。根据经济学原理，建立节水型社会的关键在于（　　）

A. 加强节水宣传，提高节水意识
B. 限量供应用水，确保用水安全
C. 合理调整水价，建立节水机制
D. 科学回收废水，实现循环用水

28. “无边落木萧萧下，不尽长江滚滚来”，千百年来，我国长江水就这样白白流失，有时还带来洪涝灾害。南水北调工程将在很大程度上解决北方缺水问题，并发挥着防洪、发电、航运等多种作用，使长江水趋利弊害，造福人类。可见（　　）

A. 联系是具体的，有条件的，随着人们意志为转移
B. 矛盾双方在一定条件下可以相互转化
C. 认识是变化发展的
D. 科学的价值观要符合人类的根本利益

29. 朱镕基同志在听取国务院有关领导和各方面专家对南水北调的意见时，明确提出了南水北调“三先三后”原则：先节水后调水、先治污后通水、先环保后用水。这体现了（　　）

A. 我国人民民主专政的国家性质
B. 我国国家机关实行民主集中制原则
C. 我国实行共产党领导的多党合作与政治协商制度
D. 我国努力实施可持续发展战略

十六大报告指出：发展社会主义民主政治，建设社会主义政治文明，是全面建设小康社会的重要目标。回答30～32题。

30. 某县人民代表大会上，一位副县长候选人在没有达到法定赞成票的情况下，仍然被该县党委书记兼县长予以任命。这给我们的政治警示是
①要实行党政分离原则　②要贯彻民主集中制原则　③要坚持依法执政原则　④要尊重和维护人民代表的法律地位和权利（　　）

A. ①②③　B. ②③④　C. ①③④　D. ①②④

31. “政治文明”不是新概念，马克思早在《《政治经济学批判》序言》中就有过经典论述；但“社会主义政治文明”却是江泽民同志第一次明确提出并被写进党的十六大报告。可见（　　）

A. 人们在改造客观世界的同时，主观世界也得到了改造
B. 发展就是新事物代替旧事物
C. 主观与客观是具体的历史的统一
D. 矛盾的普遍性与特殊性是辩证统一的

32. 目前，全国农村村民自治发展良好，城市居民自治发展迅速。实践证明，凡是村民自治、居民自治搞得好的，当地的经济发展往往就好；凡是村民自治、居民自治搞得不好的，当地的经济发展往往不好。这表明（　　）

A. 发展社会主义民主政治，建设社会主义政治文明，是发展社会主义市场经济的客观要求
B. 市场经济具有法制性的特点
C. 发展社会主义市场经济，离不开国家的宏观调控
D. 村民自治和居民自治能实现人才资源的优化配置

实现祖国的完全统一，是海内外中华儿女的共同心愿。回答33～35题。

33. 多年来，两岸经济联系日趋密切，2001年两岸间接贸易额高达323亿美元，台商投资大陆保持发展势头，大陆成为台商投资最具吸引力的地方。尽快实现“三通”符合台湾人民利益，它

①有利于资源的优化配置，给台湾经济发展提供更多的机遇　②可以降低生产成本，有利于台湾企业提高经济效益　③有利于两岸加深联系和了解，维护台湾的繁荣与稳定　④可以挽化台湾本土意识，融入到建设中国特色社会主义伟大复兴事业之中（　　）

A. ①　B. ①②　C. ①②③　D. ①②③④

34. 台湾著名诗人余光中的《乡愁》是一首令两岸人们感动至深的诗句。他写道：小时候/乡愁是一枚小小的邮票/我在这头/母亲在那头/长大后/乡愁是一张窄窄的船票/我在这头/新娘在那头/后来呢/乡愁是一方矮矮的坟墓/我在外头/母亲在里头/而现在/乡愁是一湾浅浅的海峡/我在这头/大陆在那头。这首诗鲜明地表现了（　　）

A. 求和平、求安定、求发展是台湾民众的主流
B. 两岸台则两利，分则两害，已经被越来越多台湾同胞所认同
C. “和平统一，一国两制”是我们完成祖国统一大业的基本方针
D. 实现中华民族的完全统一是两岸人们的共同心愿

35. “和平统一，一国两制”是我们完成祖国统一大业的基本方针，解决台湾问题，我们可以充分考虑台湾的历史和现状，采取比香港、澳门更加灵活的策略，在“一个中国”的前提下给台湾更加高度的自治权。这充分体现了我们在解决台湾问题上坚持了

①解放思想与实事求是的统一　②具体问题具体分析　③科学理论的指导作用　④两点论与重点论的统一（　　）

A. ①②③④　B. ①②　C. ①②③　D. ②④

第Ⅱ卷（非选择题，共160分）

二、本大题共5道题，共160分。

36.（20分）读我国东部沿海地区水系示意图（图7－7）。

图7－7

（1）海南岛比长江三角洲年降水量丰富，为什么长江三角洲河网密度大？（6分）

（2）渤海沿岸河流较多，为什么水资源缺乏？（10分）

（3）我国目前正在进行南水北调东线调水，应突出注意哪些工程环境问题？（4分）

37.（23分）认真学习江泽民同志“三个代表”重要思想后，某市提出了“三个加快，两个提高”的发展战略。“三个加快”，即加快发展，加快开放，加快改革。“两个提高”，即提高城市综合竞争力，提高城市现代化水平。近年来，市委市政府每年都抓住人民群众关心的一些热点、难点问题，如就业和再就业工作；为百姓营造安居乐业的生态环境；医疗卫生事业的改革等，并积极采取措施加以解决。此外，还广泛开展人民评议活动，广泛接受群众监督，建立了“群众采访接待日”、“市长电子信箱”等。今年，市级机关有30多个局级单位上门到1000多家企业走访；50多个部门深入基层倾听群众呼声；17个部门开展了形式多样的评议活动，发放各种评议表3万多份。

（1）结合材料说明，该市是怎样贯彻“三个代表”重要思想的？（15分）

（2）十六大修改后的党章指出：我们党最大优势是密切联系群众，党执政后最大的危险是脱离群众。分析这句话蕴涵的哲学道理。（8分）

38.（40分）阅读下列材料

材料一：（1919年美国总统威尔逊带着“十四点原则”，参加了巴黎和会。）西方一神论家说：威尔逊的原则征服了欧洲，（《国联盟约》无疑是他努力的一座纪念碑。但是新大陆的政治是否与旧世界一样尚不可知。威尔逊的理想征服了欧洲，他是否能征服美国呢？

——《国际关系史》

材料二：在美国的策动下，联合国主持召开了国际货币金融会议，通过了有利于美国的“布雷顿森林协定”，成立了“国际货币基金组织”，美元的地位大大加强，并大大有利于美国的商品输出和资本输出。英国提为不满，拒绝批准这个协定，但美国突然宣布“狠猪法案”（二战期间美国对反法西斯国家的援助法案）停止实行，英国立即发生财政危机。1945年12月美国被迫批准了“布雷顿森林协定”。……在战后美苏对峙的形势下，西欧诸国被迫依附于美国，又屈从地接受了马歇尔计划……。

——《世界史》

材料三：1970年美国和英、西德、法国、日本在工业生产总值、出口贸易和黄金外汇储备方面占资本主义世界的比重（%）

1970年	美国	英国	西德	法国	日本
工业总产值	37.8	6.5	10.1	6.5	9.45
出口贸易	15.2	6.8	12.2	6.4	9.6
黄金外汇储备	15.5	4.7	14.6	5.3	5.2

——《世界史》

材料四：1971年8月15日，美国宣布了“新的经济政策”，其中包括增加10%的进口附加税。这项措施将共同市场（欧共体）对美国出口的货物交付的平均关税增加了一倍。对此，西欧共同市场六国达成了一致协议，要求美国取消10%的进口附加税等措施，否则将“采取一切必要措施”和“直接反击行动”。美国财政大臣立即通知美国，美国完全同意共同市场六国的建议。

——西北大学等编《世界现代史》

根据材料与所学知识回答：

（1）威尔逊的理想是否征服了美国？为什么？（6分）

（2）二战后初期，美国与西欧国家之间的政治和经济地位发生了怎样的变化？（10分）

（3）与材料二相比，材料四反映西欧与美国之间的关系有何重大变化？在政治和经济方面有何表现？（10分）

（4）上述美国与西欧关系的变化对世界格局分别产生了什么影响？（8分）

（5）美国与西欧关系的变化体现了什么政治学道理？（6分）

39.（32分）图7－8是华北某地1976年（甲）和2002年（乙）同一比例尺土地资源利用示意图，据图回答：

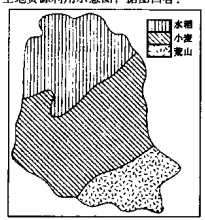

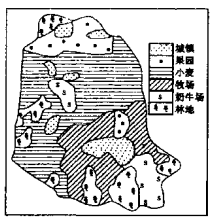

图7－8

（1）从地理角度分析该地区居民从哪些方面显示合理利用土地资源。（16分）

（2）该地居民从1976年到2002年对同一土地的使用变化可以看农村经济发展的启发。（8分）

（3）为保证该地经济的持续发展，该地政府还应怎样开拓创新，与时俱进，发挥组织和领导经济建设的职能？（8分）

40.（45分）阅读下列材料

材料一：20世纪中期以后，以航天技术、原子能技术、电子计算机的应用为代表的世界性的第三次科技革命到来，科学技术飞速发展，超过了以往任何历史时期。适应第三次科技革命的浪潮，我国广大科技工作者在极端困难的条件下，自力更生，取得“两弹一星”研制的重大成就。尤其是改革开放以来，我国科学技术事业有了更进一步的发展，中国在航天技术和运载火箭技术方面，都已达到了世界先进水平。

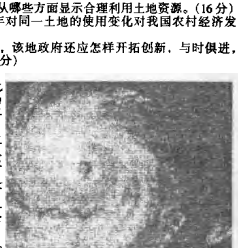

图7－9

材料二：我国航天事业蓬勃发展。截至到2002年9月18日，我国已有两颗风云一号太阳同步轨道气象卫星和两颗风云二号地球同步轨道卫星在太空运行，成为世界上第三个有两种气象卫星同时在轨运行的国家。2002年10月17日，“中国资源二号”卫星发射成功。2002年12月30日，“神舟”四号无人飞船在酒泉卫星发射中心由长征二号F运载火箭发射升空。

材料三：“神舟”四号飞船发射成功后，江泽民发表重要讲话指出，实施载人航天工程，是党中央根据世界科技发展大形势、着眼我国科技事业和现代化建设的发展大局作出的战略决策。这个决策是正确的，已取得了巨大成功，并将取得更大的成功。

根据材料与所学知识回答：

（1）20世纪60至70年代，我国广大科技工作者是在怎样“极端困难的条件”下，取得了“两弹一星”的重大科技成就？（8分）

（2）“两弹一星”成就的取得对改善我国社会主义建设环境有何重大影响？（6分）

（3）试分析改革开放以后，我国在航天技术方面取得巨大进步的历史原因。（4分）

（4）图7－9是我国“风云一号”气象卫星在我国南海附近观测的台风云图，根据台风云图分析这次台风发生时，台风眼附近东部吹_____风，西部吹_____风。（4分）

（5）西昌和酒泉都是我国卫星发射中心，两地相比，酒泉发射卫星的有利条件是_____。（6分）

（6）结合材料三说明我国作出实施载人航天工程决策的政治意义。（9分）

（7）人类航天事业的发展充满了艰辛、挫折甚至牺牲。无论是中国“神舟”四号的功勋们，还是美国“哥伦比亚”号失事的7名宇航员，都必将载人人类的航天史，人类航天事业也必将因为他们的贡献而继续前进。据此说明实现人生价值的意义。（8分）