2006 中考必备

东师 40套

# 2005 全国中考试题

QUANGUO ZHONGKAO SHITI JINGXUAN YU JINGXI

## 【精选与精析】

综合（政治 历史 地理 生物）

全国各地区中考命题研究组编

东北师范大学出版社
Northeast Normal University Press

# 阅卷归来话中考

2005年中考阅卷结束以后，我们从全国各地收集了100余套试卷进行分析研究，找出特点和规律，这将有助于我们更好地了解中考改革的趋势，调整我们的教学方向、更好地培养学生的创新和实践能力。

## 一、今年试题特点

**1. 课改卷** 今年实行课改的地区比去年有大幅度的增加。命题思路体现了素质教育的导向作用，命题设计、思路成熟、开阔，从以往侧重技能技巧的考查，变化为目标的考查，从立意、情景、设问三方面努力，选择适当的内容，设置恰当的情景，改变问题的呈现方式。对能力的考查，也从单纯的学科能力的考查拓展为一般能力、基础文化素养和创新能力的考查。

下面分科来说明这些特点。

语文：除了填空题、默写题、阅读题、作文题等传统题型，课改卷涉及了一些开放性试题，这有利于学生做出具有个性的答案。

数学：问题情景贴近日常生活，强调数学在实际生活中的运用。很多题目，考生能够想象出题目的“场景”，为解决问题扫清了障碍；题目表述清晰，符合考生的认知水平，关注考生对所学知识的个性化理解。

政治：试题形式更新颖，更注重考查学生的探究社会问题的能力和创新能力，其命题着眼于引导学生树立强烈的社会责任感，形成正确的人生观，选择题几乎全部是材料选择题。

历史：对中国史的考查体系全面，知识跨度较大，几乎所有试题都体现和强化了“统一是祖国发展主流”的思想。同时，试题对学生阅读，分析和表述的能力要求较高。

英语：主观题有所增加，更具开放性和灵活性，侧重考生对知识的综合运用，在听、说、读、写的四项能力要求上高于往年。

物理：与实际结合更密切，几乎所有试卷都增加了和生活有关、涉及面广的题目，试题更生动活泼，开放程度高，注重考查学生的实验、动手能力。

化学：更加重视学生的实际动手能力，引导学生学以致用，形式活泼，开放性强，实际量大，试题信息较多，淡化基础知识的考查。

综观课改卷，我们认为，课改区的命题将会有这样的趋势：①注重考查基础，着眼于能力发展；②突出联系生活实际，加强运用能力；③增大了探索开放的力度，培养创新能力。

**2. 非课改卷** 非课改卷在多年的成功经验上，今年的各地试题更趋于平稳和合理，大部分试卷结构简约，题量适中，覆盖面较宽，考查内容分布合理，难易度适当，区分度明显，贴近学生生活，表达形式规范，既注重了试卷的稳定性和命题的连续性，又带有鲜明的以“知识立意型”为主的考查转变为以“能力立意型”为主的考查的时代特征。

综合分析2005年各地非课改卷，有一点是共同的：试题侧重于考查学生对知识的灵活运用，不拘泥于课本，贴近生活实际，要求学生能跳出传统的固定的思维模式，放开思路去解答问题。

**3. 综合解读** 通过对课改卷和非课改卷的分析，我们认为，2005年中考试卷有以下特点：

①试题体现了当前基础教育课改革的精神，既注意了初中学段教育的时代性、基础性和发展性，又注意了改变课程内容“繁、难、偏、旧”和课程实施中的死记硬背、机械重复等状况，倡导学生主动参与，乐于探索，勤于动手；生动活泼地学习和应考。②试题具有探索性和开放性，有的试题让学生观察，合理推理，归纳猜想；有的试题抒发不同见解，通过合作交流，分析判断，这样有利于对各学科规律的揭示和结论的探索。③文理科试题均注意对未成年人的教育的价值；努力体现试题的思想性，融入了国情、省情、社会热点、民族利益和环保意识等，既丰富了试题的背景，又使考生在解题中接受教育。④理科试题根据义务教育阶段应培养学生具有从纷繁复杂的情况中收集、处理数据的能力，并作出适当的选择和判断能力的需要；很好地设计了大量的图表、信息、图案、应用题型；文科试题则在社会问题、文章阅读等方面展示了风采。

## 二、明年中考预测

1. 仍将重视对基本运算能力、思维能力、阅读能力、分析能力、写作能力等基础知识和基本技能的考查；与此同时，将着重考查学生运用知识解决简单的实际问题的能力，将会克服脱离生活实际，人为设置障碍，一味强调知识点大集中和形式上大拼盘的现象。

2. 在重视培养各种能力，发展情感、态度和价值观的同时，重视“双基”教学是永恒的主题，试题难度将会适中和合理，有利于学生全面发展。

3. 随着课程改革的深入，思考性、开放性的试题将会增多；技巧性、程式化、过程繁冗等题型会减少；试卷的整体容量不会偏大、偏难；考查学生创新意识和实践能力的题目仍将继续得到关注。

4. 突出知识在实际生活中的应用既是教育发展的趋势，也是中考命题的趋势，要关注生活中的现象，在今后的中考试题中，必然会有太量联系实际的，贴近生活的，从生活经验和现实情境出发的问题出现。

总之，随着命题的科学化、规范化，2006年中考试题的走向将更趋于稳定。在稳定中，虽然命题会随着时代变化和基础教育改革课程的进程而有所变化，但中考命题决不会出现大起大落的局面。

针对新的中考命题趋势，我们应在今后的复习中注意下列问题：

**掌握考点 落实基础** 在总复习中，首要环节就是依据教学大纲和各省市制定的《考试说明》，确定中考必须掌握的知识点是什么，基体题型是什么；然后，结合教材进行系统复习。

**题型分析 训练思维** 研究中考题型，探求中考命题规律，把握命题的动向，这对于初中各科教学以及考生应试，都有着重要的指导作用。有必要对理科中目前已出现的概念型试题、技巧型试题、隐含型试题、多解型试题、简答题、作图题、应用题、说理型试题、开放（探索）型试题作一归类、分析，以展开各种题型所表现出的不同思考策略和解题方法，从而达到开拓学生的解题思路，提高学生分析问题、解决问题能力的目的。文科要重视对能力的培养，例如语文中对文章的整体感受领悟能力、联想表达能力，内容的理解分析能力、外语中的“听、说、读、写”能力、政治中的案例分析能力、画面的鉴赏观察能力等。作为文科教学核心内容的阅读教学的理论基础不应只有文章学、还应有信息论。阅读不仅为了弄懂中心，还有为了吸收信息，处理信息的实用能力。

**综合模拟 培养能力** 一方面要注重学生解题能力的实际检验与强化提高。一般来说，科目不同，考查方式各有千秋。正因为如此，要针对不同科目、不同题型的特点展开解题方法指导，如各种题型如何审题，分析题意，如何作答。在这一点上，教师的主导作用尤其重要，“授之以鱼，不如授之以渔。”例如选择题的解法有观察法、直接法、赋值法、筛选排除法等。做题时就必须视题而定了。因此，考前的训练与考后的讲评极为重要。由于它的针对性和综合性，往往能给学生一个从内容到方法，到观点的深层次的提高的过程。另一方面要引导考生注重考试经验的实际积累和不断丰富。考前的综合训练，既要把知识、能力二者相结合，按考试规律办事，又是一次心理训练，要注意培养稳定的心理素质，这样才能发挥出最佳状态，取得优异成绩。

以上就是我们阅卷归来后对中考的点滴感悟，由于水平所致，难免有贻笑大方之嫌。但若能给你带来少许帮助，我们就深感欣慰了。

全国各地区中考命题研究组

2005年7月

版权所有　翻印必究

举报电话(0431)5687025(总编办)

图书在版编目(CIP)数据

2005年全国中考试题精选与精析.综合/东北师范大学出版社编.—长春:东北师范大学出版社,2005.8
ISBN 7-5602-3486-0

Ⅰ.2… Ⅱ.东… Ⅲ.综合课—初中—试题—升学参考资料 Ⅳ.G632.479

中国版本图书馆CIP数据核字(2005)第065624号

□总　策　划:三编室
□责任编辑:张志文　□封面设计:宋　超
□责任校对:屈　宏　□责任印刷:张允豪

东北师范大学出版社出版发行
长春市人民大街5268号(130024)
电话:0431—5695744　5688470
传真:0431—5695744　5695743
网址:http://www.nenup.com
电子函件:sdcbs@mail.jl.cn
东北师范大学出版社激光照排中心制版
磐石印刷有限责任公司印装
磐石市磐石大街204号(132300)
2005年8月第1版　2005年8月第1次印刷
幅面尺寸:260 mm×368 mm　印张:13　字数:403千
印数:00 001 — 80 000册

定价:13.50元

# 目　录

| | 试题 | 答案 |
|---|---|---|
| 1. 辽宁省沈阳市(课改实验区) | 1 | 88 |
| 2. 吉林省(课改实验区) | 3 | 88 |
| 3. 吉林省长春市(课改实验区) | 6 | 88 |
| 4. 黑龙江省(课改实验区) | 9 | 89 |
| 5. 浙江省(课改实验区) | 11 | 90 |
| 6. 安徽省(课改实验区) | 13 | 90 |
| 7. 江西省(课改实验区) | 17 | 91 |
| 8. 山东省济南市(课改实验区) | 19 | 91 |
| 9. 山东省青岛市(课改实验区) | 22 | 91 |
| 10. 山东省潍坊市(课改实验区) | 25 | 92 |
| 11. 山东省临沂市(课改实验区) | 27 | 93 |
| 12. 河南省(课改实验区) | 31 | 94 |
| 13. 湖北省黄冈市(课改实验区) | 33 | 94 |
| 14. 湖北省宜昌市(课改实验区) | 36 | 95 |
| 15. 湖南省长沙市(课改实验区) | 38 | 95 |
| 16. 广东省广州市(课改实验区) | 41 | 95 |
| 17. 广东省深圳市(课改实验区) | 43 | 95 |
| 18. 四川省(课改实验区) | 46 | 96 |
| 19. 贵州省贵阳市(课改实验区) | 49 | 96 |
| 20. 北京市 | 未考 | |
| 21. 北京市海淀区 | 未考 | |
| 22. 上海市 | 未考 | |
| 23. 重庆市 | 51 | 97 |
| 24. 河北省 | 53 | 97 |
| 25. 山西省 | 56 | 97 |
| 26. 辽宁省大连市 | 58 | 98 |
| 27. 黑龙江省哈尔滨市 | 60 | 98 |
| 28. 江苏省南京市 | 61 | 98 |
| 29. 江苏省南通市 | 63 | 99 |
| 30. 江苏省常州市 | 65 | 99 |
| 31. 江苏省苏州市 | 68 | 100 |
| 32. 江苏省盐城市 | 70 | 100 |
| 33. 浙江省杭州市 | 72 | 100 |
| 34. 浙江省宁波市 | 74 | 100 |
| 35. 福建省福州市 | 76 | 101 |
| 36. 福建省厦门市 | 78 | 101 |
| 37. 湖北省武汉市 | 80 | 102 |
| 38. 湖南省常德市 | 未考 | |
| 39. 四川省(含成都市) | 82 | 102 |
| 40. 新疆维吾尔自治区乌鲁木齐市 | 85 | 102 |

# 1 辽宁省沈阳市2005年(课改实验区)中等学校招生统一考试

## ●试题精析

一，试题精析

本卷作为课改实验区的试卷，面向全体学生，严格控制难度，注重夯实基础，体现基础性的要求。1—18小题，回归教材，突出“双基”，注重基础知识和基本技能的考查

本卷的14小题是本卷的一大亮点，它立足教材，又高于教材，三个问题由易到难，层次清晰，有梯度，它力可以把不同水平的学生区分开来，可以充分发挥学生的个性特长，特别是第三问，联系了沈阳市的实际情况，要求学生以主人翁的姿态，为家乡的发展献计献策，增强了学生的参与意识和发展意识。该题深刻地贯彻了理论联系实际的原则，是对知识，能力，觉悟的一次综合考查。

二，明年中考预测

随着课改的进一步推进，沈阳市中考将进一步知大对“能力立意”要求的试题的考查。试题将会“基础更基础，灵活更灵活”，体现水平考试与选拔考试的两大功能。“祖国统一”，“人口资源环境”，“可持续发展战略”，“精神文明建设”，“科技兴国战略”，“人才强国战略”，“依法治国”等知识将会在明年中考中占有较大分量，应加以重视。

### 政　治

**一、单项选择题**（下列各题的备选答案中，只有一个是最符合题意的，请将其前面的字母填在题后括号内。本题共4小题，每小题1分，共4分）

1. 我国的根本政治制度是（　　）
   A. 民族区域自治制度　　B. 人民代表大会制度
   C. 按劳分配制度　　D. 社会主义制度
2. 在我国，国民经济的主导力量是（　　）
   A. 集体经济　　B. 外资经济　　C. 私营经济　　D. 国有经济
3. 中华民族伟大民族精神的核心是（　　）
   A. 艰苦奋斗　　B. 勤劳勇敢　　C. 爱国主义　　D. 自强不息
4. 当今时代的主题是（　　）
   A. 和平与发展　　B. 科技与进步　　C. 合作与交流　　D. 改革与稳定

**二、多项选择题**（下列各题的备选答案中，均有两个或两个以上符合题意。请将它们前面的字母填在题后括号内。多选、错选，漏选均不得分。本题共1小题，每小题2分，共8分）

5. 社会主义精神文明建设包括两个方面，它们是（　　）
   A. 思想道德建设　　B. 经济建设
   C. 教育、科学、文化建设　　D. 法制建设
6. 我国是一个统一的多民族国家，在我国，处理民族关系的原则是（　　）
   A. 民族融合　　B. 民族平等　　C. 民族团结　　D. 共同繁荣
7. 现阶段，我国人民生活总体上达到了小康水平，但我国现在达到的小康还是（　　）
   A. 低水平的　　B. 不全面的
   C. 发展很不平衡的　　D. 高水平的
8. 我国是一个法治国家，实行依法治国，建设法治国家就要（　　）
   A. 有法可依　　B. 有法必依　　C. 执法必严　　D. 违法必究

**三、材料分析题**（阅读材料并结合所学知识回答问题。本题共6小题，共28分）

9. 2005年1月9日，新华社受权发布《中共中央关于在全党开展以实践“三个代表”重要思想为主要内容的保持共产党员先进性教育活动的意见》。中共中央决定从2005年1月开始，用一年半左右的时间，在全党开展以实践“三个代表”重要思想为主要内容的保持共产党员先进性教育活动。（共4分）
   (1) 中国共产党具有什么样的特点？（1分）

   (2) “三个代表”重要思想的内容是什么？（3分）

10. 材料一：2005年3月4日，国家主席胡锦涛就新形势下发展两岸关系发表意见时指出，坚持一个中国的原则决不动摇。坚持一个中国的原则，是发展两岸关系和实现祖国和平统一的基石。

    材料二：2005年3月14日，中华人民共和国第十届全国人民代表大会三次会议以高票表决通过了《反分裂国家法》。（共5分）
    (1) 材料一中提到的“一个中国原则”的具体内容是什么？（2分）

    (2) 实现祖国统一的基本方针是什么？（2分）

    (3) 材料二体现了全国人民代表大会的哪一项主要职权？（1分）

11. 材料一：《2004年辽宁省环境质量通报》显示，辽宁省6条主要河流中，已有5条污染严重。此外，辽宁省47条支流中33条已经严重污染。“水污染”已不再是一个遥远的话题。

    材料二：2004年12月30日，沈阳、克拉玛依等五个市（区）被国家环保总局命名为国家环保模范城市（区）。沈阳等城市为中国城市的经济和环境协调发展，走可持续发展道路树立了典范。（共4分）
    (1) 从总体上看，我国生态环境的现状如何？（2分）

    (2) 沈阳等城市创模的成功为中国城市走可持续发展道路树立了典范。那么，可持续发展的含义是什么？（2分）

12. 2005年3月28日，中共中央，国务院在北京隆重举行国家科学技术奖励大会。国务院总理温家宝指出：当今世界，科学技术是综合国力竞争的决定性因素。科技的灵魂在创新，科技的活力在改革，科技的根本在人才。（共4分）
    (1) 科学技术是第一生产力，在生产力中最具决定性的因素是什么？（1分）

    (2) 我国为什么要高度重视人才问题？（2分）

    (3) 为加速科技进步和提高劳动者素质，我国实施了什么战略？（1分）

13. 2005年1月6日凌晨，中国内地第13亿小公民在北京妇产医院降生，这标志着中国内地人口已达13亿，中国是世界上人口最多的国家，这是我国社会主义初级阶段的重要国情之一。（共5分）
    (1) 我国人口现状的基本特点有哪些？（3分）

    (2) 我国实行计划生育的目的是什么？（2分）

14. 建设部有关负责人表示，城镇房屋拆迁中要建立健全拆迁公示和听证制度，加强拆迁补偿资金的监管，对一些地区存在的滥用强制手段，损害被拆迁居民合法权益的现象，各级建设部门要依法，及时，合理地处理群众反映的问题。坚决纠正损害群众利益的行为。（共6分）
    (1) 通过以上材料可以看出，政府能否依法行政与百姓生活有着怎样的关系？（1分）

    (2) 建设法治国家，离不开人民的参与、支持和监督。那么，我们如何依法行使监督权？（3分）

    (3) 请你就沈阳市的城市建设，如老城区改造，城市绿化，公共设施建设等方面，提出一条合理化建议。（2分）

### 历　史

**一、单项选择题**（本题10小题，每小题2分，共20分）在每小题列出的四个选项中，只有一项是符合题目要求的。请将其前面的字母填在题后括号内。

1. 萨克森伯爵每周日都去教堂作礼拜或祈祷，聆听牧师讲解《圣经》，向上帝忏悔。他所信仰的宗教是（　　）
   A. 佛教　　B. 伊斯兰教　　C. 基督教　　D. 道教
2. 意大利诗人彼特拉克说：“我不想变成上帝，或者周围在永恒中，属于人的那种光荣对于我就足够了。我自己是凡人，我只要求凡人的幸福。”请你根据以上信息判断，这位诗人生活于（　　）
   A. 14世纪　　B. 18世纪　　C. 19世纪　　D. 20世纪
3. 右图是一幅漫画，画的是一位英国殖民者骑在一匹名为“美利坚”的烈马上。这匹烈马要将骑在它身上的英国殖民者掀翻在地，与漫画反映的主题相关的历史事件是（　　）



   A. 美国南北战争　　B. 美国独立战争
   C. 英国革命　　D. 美国黑人民权运动
4. 使日本摆脱殖民地命运，走上独立发展资本主义道路的事件是（　　）
   A. 明治维新　　B. “西进运动”　　C. 启蒙运动　　D. 十月革命
5. 他是美国历史上最伟大的总统之一，20世纪30年代，他采取各种措施，缓解经济危机，并取得显著效果。这位总统是（　　）

A. 杰佛逊　　B. 罗斯福　　C. 肯尼迪　　D. 杜鲁门

6. 20世纪初，爱因斯坦开创物理学新纪元的理论是（　　）

A. 量子力学理论　B. 电磁学理论　C. 能量守恒定律　D. 相对论

7. 右图所反映的内容可以说明（　　）

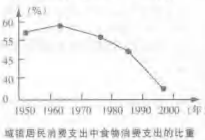


城镇居民消费支出中食物消费支出的比重

A. 城镇居民消费结构不变

B. 城镇居民生活水平不变

C. 城镇居民生活水平提高

D. 城镇居民生活水平下降

8. 在北京打工的阿玲发现几乎所有的饭店都流行红扁羊肉这道菜，但其辅料油炸面筋却供应紧张。她马上创办了一家小型面筋加工厂，获利丰厚。从这一事例中可以看出，阿玲创业成功的因素是充分考虑了（　　）

A. 市场需求　B. 生活环境　C. 环保意识　D. 兴趣爱好

9. 小敏学业优异，但因家庭贫困而辍学。在得到社会各界资助后，她重返课堂。小敏享有的权利是（　　）

A. 人身自由　B. 文化教育权　C. 社会经济权利　D. 监督权

10. 小宇年满16周岁了，她准备去办理居民身份证。她应去的部门是（　　）

A. 工商局　B. 民政局　C. 公安局　D. 税务局

## 二、连线题（本题2小题，每小题6分，共12分）

11. 历史不仅仅是靠文字来记载的，一块石头，一根圆柱，一尊残破的雕像，一帧绘画都是历史沉默的言说者。请将下列文物古迹与相关的古文明连线。

庞贝城遗址
A

楔形文字
B

库斯科城遗址
C

①古巴比伦文明　②印加文明　③古印度文明

12. 下列人物在17~19世纪的欧洲资产阶级革命和改革中发挥了重要作用，推动了历史发展进程。请将他们与相关的史实连线。

Cromwell
A

Alexander II
B

Napoleon
C

①制定法典，巩固法国大革命成果　②领导"新模范军"，推翻专制王权　③1861年废除农奴制

13. 1914年6月的萨拉热窝事件点燃了第一次世界大战的战火，大战分三个战场：西线、东线、巴尔干。主要战役发生在西线，其中的凡尔登战役是战争的转折点，史称"凡尔登绞肉机"。这场战争历时四年多，1918年以同盟国失败告终。第一次世界大战是一场帝国主义之间的掠夺战争，这场战争将飞机、坦克、潜艇等新式武器投入战场，波及30多个国家，是人类历史上的空前浩劫。

学习提纲：

第一次世界大战的起止时间：

第一次世界大战的导火线：

第一次世界大战中的转折性战役：

第一次世界大战的性质：

14. 同学们，学习和了解一些经济、政治常识可以使我们更好地适应社会生活。现在就请你们结合所学知识和所积累的生活实践经验，为下面的生活情境选择恰当内容。（将下列选项前的字母符号填在相应的括号内）

A. 读书　B. 组合投资　C. 选择适当的购买时机

①"五一"期间，商场举行羽绒服反季特卖。张女士以低廉的价格购买了一件羽绒服。这种消费行为是（　　）

②小明家里有2.5万元闲置资金，他的爸爸、妈妈想利用这笔钱获得一定的收益。小明根据在学校学到的知识，向父母提出了"不要将鸡蛋放在同一个篮子里"的理财建议。最后全家一致决定：1万元存定期储蓄，1万元买国库券，5000元买保险。这些做法属于（　　）

③1980年春天，广西宜山县三岔公社和寨大队的固作等6个生产队的85户农民，以无记名投票的方式产生了固作村民委员会。固作村农民这种民主参与政治生活的形式是（　　）

## 四、材料解析题（本题2小题，第15题5分，第16题8分，共11分）

15. 阅读下列材料，按要求答题。

材料一：15世纪以来，地圆学说日益流行，西欧的地图绘制技术已经很先进，较易按样的进行远洋航行的海船已经出现，罗盘已在海船上普遍使用，而且由于海船装上了火炮，军事威力大大增强，使海洋探险家信心增加。

材料二：当欧洲人来到美洲时，印第安人创造的玛雅文明已经衰落，但另外的两种印第安文明——印加文明和阿兹特克文明都还很辉煌。随着殖民主义者的到来，古老的印第安文明遭到毁灭。1519年西班牙殖民者入侵墨西哥后，以铜枪铁炮征服了阿兹特克人。印加帝国则在1533年被西班牙殖民者灭亡。

材料三：随着新航路的开辟，美洲的农产品传播到世界各地。玉米传播到中国西南部，番薯和东南亚；马铃薯传播到亚洲，欧洲和非洲。美洲的农产品增加了人类的食物供应，促进了世界人口的增长。

下列结论，如果是与上述材料意思相符合的，请在括号内打"√"；如果是上述材料没有涉及的，请在括号内打"×"。

（　）①开辟新航路的主因是对黄金的渴求。

（　）②马可·波罗使欧洲人相信，到东方去是实现黄金梦的最佳选择。

（　）③15世纪以来，科学技术的发展使西欧人具备了海上远航的能力。

（　）④新航路的开辟加强了美洲和世界各地的联系。

（　）⑤新航路开辟后，欧洲贸易中心由地中海转移到大西洋沿岸。

（　）⑥新航路开辟后，随着殖民主义者的到来，古老的印第安文明遭到毁灭。

16. 阅读下列材料，按要求答题。

材料一：工业革命是从发明和使用机器开始的。下面图表反映了工人技师不断进行技术革新，发明机器的情况。这些机器的发明揭开了工业革命的序幕。

英国棉纺织业的革新

| 时　间 | 发明人 | 机器名称 |
|---|---|---|
| 1769年 | 哈格里夫斯 | 珍妮纺纱机 |
| 1769年 | 阿克莱特 | 水利纺纱机 |
| 1779年 | 克隆普顿 | 骡机 |
| 1785年 | 卡特莱特 | 水利织布机 |

材料二：工业革命之初，大部分机器由水力推动，工厂只能建在河流旁边，给交通运输带来不便的局限。工业的发展急需一种在任何地方都能发挥效用的动力机械。1785年瓦特制成改良的蒸汽机投入使用，提供了更加便利的动力，并得到迅速推广，大大推动了机器的普及和发展。人类社会由此进入"蒸汽时代"。

材料三：工业革命前，人们的时间观念不强，即使换里的手工工匠，干活也懒散拖拉。工业革命后，情况发生变化。时间被度量出来，世界社会变成一个隐动的钟表，绝大多数人都像工蜂般辛勤劳动，人身上的懒散理到最大程度的发挥，勤勉刻苦前所未有地涌流出来。

材料四：在工业革命后的欧美国家，华而不实的上层社会显贵逐渐被抛弃，简朴实用的服装流行。许多年以前，专供上层社会享用的食品，如巧克力、果酱、茶叶等，也逐渐成为大众化的食品。

①结合材料一和材料二完成下列内容：

英国工业革命首先发生于_____部门。最初的机器大部分是由_____推动的。后来，_____制成改良的蒸汽机，为机器提供了更加便利的动力。

②材料三反映工业革命带来了什么变化？

③材料四反映工业革命后，人们日常生活在哪两个方面发生变化？



此为试读，需要完整PDF请访问：www.ertongbook.com

# 2 吉林省2005年(课改实验区)高级中等学校招生考试

## ●试题精析

### 政　治

本试卷有以下特点：

1. 注重基础知识和基本原理。试卷中的5题、9题、17题都是基础知识的考查。尤其是17题，考查的是教材中的基本原理，用大家比较熟悉的日常用语作为题干，既不失灵活性，又完成了考查的目的。

2. 题型上有所创新。"案例分析题"是吉林省近几年中考中没有涉及的一个题型，19题的出现给人耳目一新的感觉，而且题的设计有一定难度，需要考生认真分析才能正确解答。如果再增加一个更接近中学生的实际生活的案例就更好了。

3. 紧跟时代，联系实际。例如：10题、13题、18题都是以社会热点问题作为背景材料来设计题目的。尤其是18题，不但是社会热点，而且是中学生普遍讨论和关注的问题。这些题开阔了学生的视野，有助于所学知识的学以致用，同时也提高了学生解决实际问题的能力。

4. 注重学生的主体地位，引导学生进行自我评价和自我教育。如第20题，以校园文化作为切入点，以调查报告为形式，通过"调查反思"来激励学生主动思考，促使学生分析问题并寻求解决问题的途径，使学生在考试中自觉地进行了一次自我教育。

5. 本套试卷在题型的设计和内容安排上都较为合理。既突出基础知识，又提出了新问题，比较全面地考查了学生的知识运用能力、创新能力和实践能力。

### 历　史

每题结构发生很大改变，这反映了中考改革的既定方向，在取消了延续多年的连线题后，新增加了组合列举题，历史诊断题。其中前者以一个共同的信息为主干，延伸出与之相关的若干信息，并以此确定试题考查内容。加大了对历史知识纵横联系的考核。由于题目前有界定性的提示信息，又在某种程度上加强了历史试题的灵活性，就降低了历史试题的难度。历史诊断题的设置加强了对学生审题能力的考查，要求学生要有很强的是非观念，对历史知识记忆准确的考核不再像传统题目那样死板，而是更趋近于生活。英然，情境说明题在结构上趋近于传统的材料分析题，分析探究题与传统的简答题相似，但从内容的设计上，前者创设出一个具有情境（如：16题的台湾问题），而后者则强调探究某一主题（如：19题的"近代化的探索"），这些又与以往试题有很大不同，所以，也属全新的题型。从整套试卷看，试题在知识与能力的结合上，历史与现实生活的联系上都较之以前有很大改变，从而体现出课程改革的全新方向。

### 政　治

**一、单项选择题**（1～10小题每题1分，11～15小题每题2分，共20分）

1. 在第28届奥运会上，中国体育健儿夺得_____枚金牌，成绩高居奥运会金牌榜第_____位。（　）
A. 32　一　　B. 28　三
C. 15　四　　D. 32　二

2. 2005年1月29日上午，台商春节包机成功地实现了56年来两岸的_____。这在一定程度上对缓和与改善两岸关系起到了促进和帮助作用。（　）
A. 首次通航　　B. 首次通商　　C. 首次对飞　　D. 首次通邮

3. 2005年2月28日，来自社会各界的5 000名代表在通化市隆重集会，纪念_____将军诞辰100周年。（　）
A. 方志敏　　B. 杨靖宇　　C. 吉鸿昌　　D. 赵尚志

4. 为反对和遏制"台独"势力分裂国家的活动，十届人大三次会议高票通过了（　）
A. 《中华人民共和国刑法》　　B. 《中华人民共和国反分裂国家法》
C. 《中华人民共和国民法》　　D. 《中华人民共和国安全法》

5. （承上题）该法颁布后，政治老师引导同学们探究该法与宪法的关系。你的观点是（　）
A. 宪法是国家的根本大法，所以依据宪法制定该法
B. 宪法规定国家生活中最根本的问题，所以宪法包含该法
C. 该法与宪法具有同等的法律效力
D. 该法的制定和修改程序与宪法相同

6. 下列行为属于侵犯初二学生小峰受教育权的有（　）
A. 期末考试后，小峰所在的学校取消了张榜排名的做法
B. 父亲要求小峰每天上午在家帮他干农活，下午去上学
C. 学校开设了多种多样的活动课，小峰从中得到了锻炼
D. 某企业为家庭贫困的小峰等数名学生提供助学金

7. 张帆在路上捡到一个新款手机，在下列想法中，正确的是（　）
A. 手机是我捡的，就应该属于我
B. 失主来要就给他，没人要就留下
C. 反正也没人看见，偷偷留下吧
D. 捡到别人遗失的物品不还，是侵犯他人合法财产的行为

8. 科学技术一旦运用于生产过程，就能够促进劳动生产率的极大提高。这说明（　）
A. 科学技术是经济增长的唯一因素
B. 科学技术的应用改变了资本主义国家的性质
C. 科学技术是第一生产力
D. 科学技术的发展消除了资本主义社会的基本矛盾

9. 建设中国特色的社会主义，必须从中国的实际出发。中国最大的实际是（　）
A. 我国正处于并将长期处于社会主义初级阶段
B. 我国面临严峻的资源和环境形势
C. 人口基数大，新增人口多
D. 坚持公有制为主体，多种所有制经济共同发展

10. 为创建节水型城市，某市倡导居民使用节水器，这一提议引起了大家的争论。对于是否有必要使用节水器，正确的观点是（　）
A. 没必要用，因为我国水资源丰富
B. 我国是世界上缺水国家之一，应该使用
C. 在工农业生产方面应该提倡节水，家里就算了
D. 如果交得起水费，就没必要用

11. "看力建设和谐社会"是我国政府要抓好的三大任务之一，我国将要构建的和谐社会，可以表述为（　）
①民主法治，公平正义　②诚信友爱，充满活力　③安定有序、人与自然和谐相处　④资源和环境协调发展
A. ①②③　　B. ②③④
C. ①③④　　D. ①②③④

12. 初中生小军经常出入网吧、游戏厅等场所，有时还旷课，与人打架。班主任老师多次对他进行耐心教育，他反而指责老师干涉其自由。对此事你的看法是（　）
① 老师的做法符合未成年人保护法中学校保护的有关规定　② 小军的行为是预防未成年人犯罪法所禁止的　③ 老师的做法侵犯了小军的人身自由权　④ 小军应该接受老师的教育，改正缺点，努力学习
A. ①②③　　B. ②③④
C. ①②④　　D. ①③④

13. 我国政府宣布2006年将在全国全部免征农业税。从而彻底改变了中国农民两千多年来缴纳"皇粮国税"的历史。这一做法（　）
①有利于人民群众同步富裕　②有利于减轻农民的负担　③符合"三个代表"的重要思想　④体现了我党的根本宗旨
A. ①②③　　B. ②③④
C. ①③④　　D. ①②④

14. 某校学生发现该校附近的一家化工厂还在偷偷超标排放污水，于是决定向有关部门举报。同学们这样做是（　）
①依据《环境保护法》和《水污染防治法》　②正确行使批评权，建议权的行为　③环境保护意识强的表现　④多管闲事，会影响该厂的发展
A. ①②④　　B. ②③④
C. ①③④　　D. ①②③

15. 要和平、求合作、促发展已经成为时代的主流，下面的文章标题符合这一主流的有（　）
①中国大力推动亚非合作　②乌兹别克斯坦发生骚乱　③秦响中国与拉美合作主旋律　④友谊筑和平，合作促发展
A. ①③④　　B. ②③④
C. ①②④　　D. ①②③

**二、简答题**（每小题6分，共18分）

16. 看漫画，结合初二所学的法律知识回答问题。

（1）父母将要采取的做法是否正确？为什么？（3分）

（2）漫画中的孩子应该采取哪些正确的途径维护自己的合法权益？（写出一种即可）（3分）

17. 用最简练的语言，分别概括出下列语句所体现的教材中的道理。

（1）“无规矩不成方圆。”（2 分）

（2）坚持“走出去，引进来”。（2 分）

（3）“人民选我当代表，我当代表为人民。”（2 分）

18. 徐本禹，一位普通的大学生。毅然推迟了读研的时间，来到贫困的山区支教。用柳根的肩膀扛起了本不属于他的责任。他的奉献与爱心感动着我们每一个人……

（1）结合徐本禹的事迹和教材内容，简要说出你对当代青年责任感的认识。（4 分）

（2）为将来更好地承担责任和使命，你现在应该怎样做？（2 分）

## 三、案例分析题（共 10 分）

19. 运用所学法律知识，分析下列案例。

（1）某市一无聊男子连续多次拨打 119 火警电话谎报险情，致使一条火警专线长时间受阻。该男子最终被警方带走。

这名男子违反了哪部法律或法规？将会受到怎样的处罚？（3 分）

（2）王某潜入邻居郭某家寻找其丢失的自行车，被郭某当场抓住。郭某没有将王某送到派出所，而是将他关押起来进行审问。

请分别对王某和郭某的行为进行评析。（4 分）

（3）某记者在报道人才交流会的大厅场面时，把其中正在咨询求职的刘某拍摄下来并在报纸上登出。刘某认为记者侵犯了他的肖像权并向法院提起诉讼。

记者是否侵犯了刘某的肖像权？请答出判断依据。（3 分）

## 四、实践与探究题（共 12 分）

20. 初三（四）班学生利用活动课时间，对校园文化环境的现状进行了调查，请根据下表中他们的调查内容及结果，完成调查报告的其他部分。（所有问题都在表中回答，请别漏题）

| 调查题目 | 校园文化环境现状调查 | | |
|---|---|---|---|
| 调查方法 | （至少写出两种方法）（2 分） | | |
| 调查内容 | （1）你对学校开展校园文化建设活动的认识。 | （2）同学中存在的与校园文化建设不相符的现象。 | （3）校园中需要青少年成长的“文化垃圾”。 |
| 调查结果 | （1）个别同学认为影响学习，没有必要参加，大部分同学认为很有意义，应该积极参加。 | （2）（现象之一）有些同学对传统文化知之甚少，对日韩明星却如数家珍，盲目崇拜。 | （3）一些充斥着凶杀、暴力、色情的书籍和网站及音像制品等。 |
| 调查反思（请简要回答） | （1）学校加强校园文化建设有何意义？（2 分） | （2）人们看到和服会想到日本，看到金字塔会想到埃及。请你也列举出代表中国优秀传统文化的两个例子。（2 分）<br>（3）对待外来文化我们应该坚持什么原则？（2 分） | （4）青少年应该怎样自觉抵制这些“文化垃圾”？（3 分） |
| 提出建议 | （两条即可）（2 分） | | |



# 历　史

## 一、单项选择题（每小题 1 分，共 10 分）

1. 要考证近代英法联军在中国犯下的罪行，下列地方应选择（　　）

A. 卢沟桥　　B. 圆明园

C. 大观园　　D. 伪满皇宫

2. 坐落在山东威海的中日甲午战争纪念馆所纪念的民族英雄是（　　）

A. 林则徐　　B. 李秀成

C. 左宗棠　　D. 邓世昌

3. 如果以“勿忘国耻，以史为鉴”为主题出一期板报，下列素材应选择（　　）

A. 南昌起义　　B. 九一八事变

C. 西安事变　　D. 重庆谈判

4. 提出“以经济建设为中心，坚持四项基本原则，坚持改革开放”的会议是（　　）

A. 中共八大　　B. 中共十二大

C. 中共十三大　　D. 中共十五大

5. 周恩来总理是新中国外交的创始人，下列外交成就或活动与周恩来有关的是（　　）

①出席 APEC 会议　②出席万隆会议　③与美国总统尼克松会谈　④提出和平共处五项原则

A. ①②③④　　B. ①②③　　C. ①②④　　D. ②③④

6. 恩格斯所说的“中世纪最后一位诗人，同时又是新时代的最初一位诗人”是（　　）

A. 但丁　　B. 达·芬奇　　C. 莎士比亚　　D. 贝多芬

7. 俄国，日本在 19 世纪 60 年代都进行了改革。下面关于两国改革正确的叙述是（　　）

A. 改革前都面临民族危机　　B. 都是资产阶级性质的改革

C. 都提倡文明开化，向欧美学习　　D. 都废除了农奴制度

8. 有人说“罗斯福在一定程度上挽救了现代资本主义国家”，这样说的依据是（　　）

A. 实行新政，使美国渡过了经济危机

B. 建立北大西洋公约组织

C. 实施新经济政策

D. 采取冷战政策

9. 世界经济全球化发展的一个重要表现是（　　）

A. 欧洲联盟的成立　　B. 联合国的成立

C. 华沙条约组织的成立　　D. 世界贸易组织的成立

10. 地区冲突是威胁世界安全的重要因素之一。冷战结束后，霸权主义利用干预介入地区冲突的典型事例是（　　）

A. 古巴导弹危机　　B. 美国侵略越南

C. 科索沃战争　　D. 苏联占领阿富汗

## 二、组织列举题（共 10 分）

11. 请根据下列提示信息列出与南京有关的条约或历史事件名称。（3 分）

（1）中国近代第一个丧权辱国的条约——

（2）日本在侵华战争中犯下的罪行——

（3）国民党政权垮台的标志——

12. 请根据下列提示信息列出相对应的历史人物。（7 分）

(1) 领导独立战争取得胜利，当选为美国第一任总统——

(2) 颁布《法典》，巩固了资产阶级统治——

(3) 为维护国家统一和解放黑人奴隶作出重大贡献——

(4) 领导革命取得胜利，宣告新中国成立——

**13.** 请根据下列提示信息列出在交通或信息工具方面的发明。(3 分)

(1) 第一次科技革命——

(2) 第二次科技革命——

(3) 第三次科技革命——

**三、历史诊断题**（共 10 分）

**14.** 下面是关于中国现代历史的一段表述，其中有三处错误。请找出并加以改正。(6 分)

1949 年西藏和平解放，开辟了中国历史新纪元。1956 年底，土地改革基本完成，我国进入社会主义初级阶段。1978 年底，召开中共十二大，从此，中国历史进入社会主义现代化建设的新时期。

错误_____ 改正_____

错误_____ 改正_____

错误_____ 改正_____

**15.** 下面是关于英国资产阶级革命的一段表述，其中有两处错误。请找出并加以改正。(4 分)

英国资产阶级革命期间，罗伯斯庇尔率领的议会军队打败了国王军队，取得了最后胜利。1689 年，英国议会通过了《权力法案》，以法律形式对国王的权力进行了明确的制约，这样英和制的资产阶级政治开始确立起来。

错误_____ 改正_____

错误_____ 改正_____

**四、情境说明题**（共 15 分）

**16.** 阅读下列材料，回答问题。

材料一：我们一贯主张在一个中国的原则下，通过两岸政治谈判解决两岸间的政治分歧，实现台湾和祖国大陆的统一。

——江泽民

材料二：我们多次表示，欢迎认同“九二共识”，反对“台独”、主张发展两岸关系的台湾各党派、团体和代表性人士同我们开展交流和对话，共同推动两岸关系的改善和发展。

——胡锦涛

(1) 为“实现台湾和祖国大陆的统一”，邓小平提出了什么伟大构想？根据这一构想我国恢复行使主权的是哪两个地区？(3 分)

(2) 材料二中“九二共识”的具体含义是什么？请写出一个促进两岸关系发展的民间团体。(2 分)

(3) 假设海峡两岸中学生在暑假期间举办一次联谊活动，请为其写一条宣传语。(1 分)

**17.** 阅读下面材料，回答问题。

材料一：在权利方面，人们生来是而且始终是自由平等的。

——《人权宣言》

材料二：让统治阶级在共产主义革命面前发抖吧。无产者在这个革命中失去的只是锁链。他们获得的将是整个世界。

——《共产党宣言》

(1) 根据上述材料的内容分析其进步性。(2 分)

(2) 请写出一位宣传“自由平等”的法国启蒙思想家和一首响彻全球的无产者战歌。(2 分)

**18.** 阅读下面材料，回答问题。

材料一：《凡尔赛和约》规定：“德国的全部海外殖民地由英、法、日等国瓜分。”

材料二：毛泽东指出：华盛顿会议使中国“回复到几个帝国主义国家共同支配的局面。”

(1) 材料一中《凡尔赛和约》出自哪次会议？写出操纵这次会议的三巨头之一。(2 分)

(2) 材料二中的“局面”是哪个条约造成的？华盛顿会议受益最大的是哪个国家？(2 分)

(3) 通过两次国际会议，帝国主义列强建立了什么体系？(1 分)

**五、分析探究题**（共 15 分）

**19.** 中国在饱受列强欺凌、被迫开放的环境中不断进行着经济、政治和思想文化的变革，开始了近代化的艰难起步。请以“近代化的探索”为主题再现近代化的历程。(9 分)

要求：包括四次重大探索活动名称及其相对应的代表人物各一位；对近代化探索历程的感悟。

**20.** 今年是世界人民反法西斯战争胜利 60 周年。回顾 60 年前，那场战争浩劫影响了世界历史的发展进程。请写出那场战争中你最熟悉的三件大事及反对法西斯侵略的两个主要国家。为了纪念反法西斯战争的胜利，假如你所在的班级组织一次演讲活动，请自选角度拟一个演讲题目。(6 分)

# 3 吉林省长春市2005年(课改实验区)初中毕业生学业考试政治历史合卷

## ●试题精析

### 政　治

本试卷有以下特点：

本套试卷的总体特点是灵活性和开放性比较强，比较贴近社会实际和学生生活。注重对学生理论联系实际能力的考查。

**1.** 贴近社会实际。例如：第7题、第15题和实践与探究题，这几道题既考查了学生的基础知识，又紧密联系社会实际，使学生通过所学的知识认识到身边的现象，对学生认识问题，分析问题的能力是一种提高。

**2.** 贴近学生生活。例如：6题、13题、16题和19题，这几道题是根据中学生日常生活中经常发生的一些现象而设定的。很有生活气息，学生对这样的事不陌生。有亲切感。尤其是第16题和19题，只要学生注意日常生活中的一些类似现象，就比较容易解答。这些题很好地考查了学生运用所学知识解决实际问题的能力。

**3.** 理论联系实际。体现在10题、11题、17题，这几道题分别结合了一些社会热点问题，把考中的一些理论通过实际的例子展现出来。这样的题不易核，不枯燥，不仅开拓了学生的视野，也有助于考查学生处理信息材料的能力。和理论结论实际的教学原则是一致的。

**4.** 具有一定的灵活性和开放性。例如：3题、14题，18题和20题，这几道题体现了科学性和启发性的教学原则。18题不仅体现了教材内的知识综合，还有一个开放性的设问，有一定的灵活性；20题的最后两问强化了学生的主动参与意识。有效地发挥了学生的主体作用。

### 历　史

试题的命制在继续了原有中考历史命题的基础上，具有来新图变的突出特征。

**1.** 试题结构：今年的中考历史学科命题在题型和试题结题上都有很大改变。在删除了传统的连线题后，取而代之的是归纳列举题。这一题型一方面降低了原有列举题的难度，增加了知识的灵活性；另一方面削弱出考查了学生的历史空间感和对历史知识的脉络掌握。此外，史实辨析题也是今年中考一大新变化。它突出考核了历史知识的是非辨析和判断。由于这一题型多与学生生活实践相联系，所以无形中增加了试题的趣味性。第五大题由传统的“简答题”变为“走伸探究题”，突出体现了历史学科对思维培养的关注，同时也加大了对学生文字表述准确性，完整性，逻贯性的要求，在知识与能力的综合上下了很大的气力。

**2.** 知识层面：继续突出重大历史事件，重要历史人物，有重大影响的政策，法规等内容的考查。但今年在知识的覆盖上更广，更宽。尤其强调将事件或人物归类，并找出其中的联系及线索，进而总体把握。知识与现实生活的联系更加紧密。尤其体现在选择题和材料解析题中。

**3.** 能力层面：突出知识的迁移和联系能力。强调不同历史时间段、相关知识的比较。由于今年试题中大量增加了图片，所以对学生的识图能力的要求也相应提高。

**4.** 情感态度价值观。今年的试题在学生主观性表述试题上增加了很大的分量，如：第16、17、18三道材料解析题的最后一问都为此类型，给学生更多的表达主观见解的空间。同时，除旨地引导学生在题目由浅及深、由此及彼的内容中把握科学的分析问题和客观、理性的判断问题的方法，培养其正确的价值观。

**5.** 变化：首次增加世界近现代史内容，并在中外历史结合上有所涉及。

### 政　治

**一、单项选择题**（1～10小题每题1分，11～15小题每题2分，共20分）

1. 第28届奥运会上，分别在10米气步枪和110米栏两个项目上夺得金牌的选手是　（　）
A. 王义夫　刘翔　　B. 杜丽　刘翔
C. 王旭　杜丽　　D. 王义夫　张怡宁

2. 2005年2月28日，社会各界代表在吉林省通化市集会，纪念杨靖宇将军诞辰100周年。杨靖宇和战友们共同创造的_____是中国共产党乃至中华民族为之自豪的精神财富。　（　）
A. “井冈山精神”　　B. “延安精神”
C. “抗联精神”　　D. “长征精神”

3. 右图反映了2005年我国政府工作报告中指出的解决好“三农”问题的方针是　（　）

以工促农，以城带乡

A. 工业反哺农业、城市支持农村
B. 东部支持西部、沿海支持内陆
C. 先富带后富、共奔小康路
D. 振兴东北、农业先行

4. 2005年3月14日，十届全国人大三次会议通过了《反分裂国家法》。该法紧紧围绕的主题是　（　）
A. 台商春节包机问题
B. 以武力方式解决台湾问题
C. 本世纪中叶之前实现祖国统一
D. 反对和遏制“台独”分裂势力分裂国家的活动、促进祖国和平统一

5. 我国规定国家生活中最根本问题的法律是　（　）
A. 刑法　　B. 宪法
C. 教育法　　D. 民法通则

6. 下列行为属于对未成年人实施社会保护的是　（　）
A. 家长制止孩子吸烟
B. 法院不公开审理未成年人的案件
C. 博物馆对未成年人优惠开放
D. 老师对学习有困难的学生进行耐心帮助

7. 《长春市市民旁听市政府会议制度》规定，凡是涉及群众关心的热点问题，都可以邀请市民旁听会议，并可以提出意见和建议。这体现了我国公民依法享有　（　）
A. 批评权和建议权　　B. 结社自由和示威自由
C. 言论自由和出版自由　　D. 集会自由和游行自由

8. 依法治国是　（　）
① 当今时代的主题
② 我国现阶段的基本经济制度
C. 我国的根本政治制度
D. 党领导人民治理国家的基本方略

9. 我国在本世纪头20年的奋斗目标是　（　）
A. 完全超过发达国家
B. 解决人民的温饱问题
C. 全面建设惠及十几亿人口的更高水平的小康社会
D. 把我国建设成为富强、民主、文明的社会主义现代化国家

温家宝总理在2005年国家科学技术奖励大会上强调，当今世界，科学技术是综合国力竞争的决定性因素，自主创新是支撑一个国家崛起的脊梁，我们要引进和学习世界上先进的科技成果，但更重要的是立足自主创新，真正的核心技术是买不来的。据此回答10～11题。

10. “自主创新是支撑一个国家崛起的脊梁”，所以我们必须把_____提高到关系中华民族兴衰存亡的高度来认识。　（　）
A. 以德治国　　B. 增强民族创新能力
C. 诚实守信　　D. 反对霸权主义

11. “真正的核心技术是买不来的”，所以我们必须　（　）
①实施科教兴国战略　②发扬艰苦创业精神　③积极“走出去”，不必“引进来”　④重视人才培养
A. ①②④　　B. ①②③
C. ①③④　　D. ②③④

12. 中国共产党十六届四中全会审议通过的《中共中央关于加强党的执政能力建设的决定》，第一次把和谐社会建设放到同_____、_____、_____并列的突出位置。　（　）
①经济建设　②政治建设　③文化建设　④环境建设
A. ①②③　　B. ①②④
C. ①③④　　D. ②③④

13. 2005年6月5日世界环境日我国确定的主题是“人人参与，创建绿色家园”。下列做法符合这一主题的有　（　）
①回收废旧电池　②积极参加植树活动　③在城市中心建化工厂　④垃圾分类投放　⑤直接向河流排放污水
A. ①②④　　B. ②③⑤
C. ①④⑤　　D. ②③④

14. 右图说明了我国　（　）




①人口基数大
②农村人口多
③人口分布不平衡
④计划生育取得明显成效
A. ①②　　B. ①③
C. ②③　　D. ①④

15. 如今很多国家都掀起了学习汉语的热潮，“汉语热”源自中国文化散发出的独特魅力。为了满足海外学习者需求，也为了推广和发展中国文化，我国将陆续在世界各地开办100所中外合作孔子学院。这体现了　（　）
① 中国文化已经取代世界各国文化
② 中国文化的发展不能与外界隔绝
③ 中国特色社会主义文化面向世界，具有进步性
④ 中国特色社会主义文化正以深厚的东方底蕴、醇厚的民族风格展现在世界舞台
A. ①②③　　B. ①②④
C. ②③④　　D. ①③④

二、简答题（共18分）

16. 运用所学法律知识填写相关权利。（每小题填写一项即可，每题1分，共3分）

（1）李刚被评为优秀学生，享有了_____。

（2）18周岁的张辉参加人大代表的选举活动，享有了_____。

（3）孙某偷了周祥的自行车，侵犯了周祥的_____。

（4）某不法商贩出售假铅笔，侵犯了消费者的_____。

（5）某照相馆未经赵丽同意用其照片招揽生意，侵犯了赵丽的_____。

17. "姐子，她是我妹妹！"这是维吾尔族青年艾尼·塔斯尔三兄弟面对歹徒抢劫汉族女大学生时脱口而出的大喊……女大学生获救，艾尼身负重伤。艾尼三兄弟的事迹感动了全国各族人民，为社会主义精神文明建设又谱新歌。

（1）社会主义精神文明建设的根本任务是什么？（2分）艾尼三兄弟的行为反映出他们具备社会主义精神文明中哪方面的良好素质？（1分）

（2）艾尼三兄弟用自己的行动印证了我国各族人民的大团结。请回答我国民族团结的重要性。（4分）

18. 近年来，我国税收收入保持持续快速增长的势头，2001年达到25 718亿元，为社会各项事业的发展提供了有力保证，其中教育方面的投入增加121.09亿元，相当一部分用于了改善基础教育办学条件。

（1）我国税收取之于民，其主要来源于两个方面，即_____。（2分）

（2）我国税收用之于民，随着税收收入的增长，国家加大了对教育经费的投入，这为公民更好地享有受教育权提供了_____保障。（2分）

（3）教育经费投入的增加，使我们的学习条件不断改善，你准备怎样更好地珍惜受教育的权利，履行受教育的义务？（2分）

三、漫画点评题（共10分）

19. 观察漫画，回答问题。

只为一个座位

（1）车上厮打的三人主要违反了我国哪部法规？（2分）该法规中规定这种行为属于什么行为？（2分）

（2）请指出二人行为的危害。（至少从两个角度回答，4分）

（3）为避免这种现象发生，公民应该增强哪些意识？（2分）

四、实践与探究题（共12分）

20. 材料一：长春市市长祝业精宣布，将2005年确定为长春"工业提速年"，并指出"要举全市之力，支持工业提速，重振长春工业雄风"。在以"振兴长春老工业基地"为主题的媒体见面会上，祝市长又强调，要树立科学的发展观，正确的政绩观，努力构建和谐社会。

材料二：以"振兴东北，名车驰骋"为主题的第四届中国长春国际汽车博览会定于2005年8月5日～14日在长春国际会展中心举行，届时将有来自27个国家及地区的1 000余家汽车整车及配套生产企业参展。

（1）知识链接："工业提速"和"振兴长春老工业基地"表明我们必须坚持的"一个中心"是什么？（2分）

（2）政策回地："中国长春国际汽车博览会"的举办突出体现了我国的哪一项基本国策？（2分）请用最简练的语言概括实施这一基本国策的必要性。（2分）

（3）各抒己见：振兴长春老工业基地，离不开构建和谐文明城，请你为长春的和谐发展献计献策。（可以参考和谐社会的表述"民主法治，公平正义，诚信友爱，充满活力，安定有序，人与自然和谐相处"。至少两条，4分）

（4）风采展示：长春工业，汽车领跑。在"汽博会"到来之际，请你为长春汽车设计一条宣传语。（2分）

# 历　史

一、单项选择题（每小题1分，共10分）

1. 1843年英国殖民者在香港岛堂而皇之地建立起港英政府，开始了殖民统治，其所依据的不平等条约是（　）

A.《南京条约》　B.《北京条约》

C.《瑷珲条约》　D.《九国公约》

2. 在"重走长征路"的活动课上，学生再现历史场景时不应该出现的是（　）

A. 强渡大渡河　B. 四渡赤水河

C. 翻越大雪山　D. 会师井冈山

3. 当人们看到矗立在长春市南湖公园的解放纪念碑时，都不禁会想到1948年使长春获得解放的那场战役，它是（　）

A. 辽沈战役　B. 淮海战役

C. 平津战役　D. 渡江战役

4. 曾有报刊不切实际地宣传某人民公社小麦亩产10万公斤、一棵白菜250公斤，甚至提出"人有多大胆，地有多大产"的口号。这种宣传应出现于（　）

A. 土地改革时期　B. 抗美援朝时期

C. 三大改造时期　D. "大跃进"时期

5. "中国代表团是来求团结的，而不是来吵架的……是来求同，而不是来立异的。"这段50年前万隆会议上的经典之词出自于（　）

A. 毛泽东　B. 周恩来　C. 刘少奇　D. 陈毅

6. 500多年前的一大壮举打破了美洲大陆与世隔绝的状态，这一壮举是（　）

A. 哥伦布的远航　B. 拿破仑的远征

C. 美国的建立　D. 工业革命的兴起

7. 号召全世界无产者联合起来，为获得自己的解放而斗争的文献是（　）

A.《权利法案》　B.《人权宣言》

C.《独立宣言》　D.《共产党宣言》

8. 右图反映的是一段时期内欧洲的政治形势，对其描述准确的是（　）

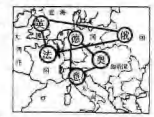


A. 同盟国与协约国的对抗

B. 华盛顿会议上的勾结

C. "一超多强"局面的形成

D. 世界格局的多级化趋势

9. 美苏之间冷战开始的标志是（　）

A"杜鲁门主义"的出台　B."马歇尔计划"的推行

C. 北大西洋公约组织的成立　D. 华沙条约组织的成立

10. 2002年欧洲有3亿多人民正式告别了他们相军多年使用的本国货币，开始共同使用唯一合法货币——欧元，这体现了（　）

A. 国际联盟的成立　B. 联合国的建立

C. 欧洲的联合　D. 亚太经合组织的建立

二、归纳列举题（共12分）

11. 请根据下列提示举出中国共产党召开的会议。（4分）

① 探索建设社会主义道路的良好开端——

② 明确提出建设有中国特色的社会主义——

③ 提出党在社会主义初级阶段的基本路线——

④ 把邓小平理论确立为党的指导思想——

12. 请举出“一国两制”伟大构想得以成功实践的两个地区。(2分)

13. 请举出文艺复兴时期优秀的文学艺术作品三例。(3分)

14. 请举出操纵巴黎和会的三个国家。(3分)

三、史实辨析题（共8分）

15. 19世纪末20世纪初的中国，社会动荡，民怨沸腾。下面是1901年北京百姓对这一时局的议论，其中有四处错误，请指出并改正。

去年英法联军进北京，烧杀抢掠，无恶不作，那慈禧太后和光绪帝却逃之夭夭。到看朝廷对付洋人这本事，想当年对付主张变法的洋务派却够凶狠，把康有为等六人全杀了……听说，今年又基了个《马关条约》，连东交民巷都不让咱中国人居住了！我看这大清国的末日快要到了……

错误：_____ 改正：_____

错误：_____ 改正：_____

错误：_____ 改正：_____

错误：_____ 改正：_____

四、材料解析题（共15分）

16. 阅读下列材料：

材料一：《建国初期》毛泽东感慨地说：“现在我们能造什么？能造桌子椅子，能造茶碗茶壶……但是，一辆汽车、一架飞机，一辆坦克、一辆拖拉机都不能制造。”

材料二：（1992年的深圳）仙湖植物园里植物千姿百态。有一种树叫“发财树”……小平同志（现贵后）深情地说：“让全国人民都种，让全国人民都发财。”

——均摘自《中国历史》（人教版·八年级下册）

请回答：

① 为了改变材料一中的状况，我国政府编制了哪一经济发展计划？请举出我们家乡长春在这一计划实施过程中所取得的一项建设成就。(2分)

② 为了实现材料二中小平同志的愿望，我们必须依靠党在新时期的哪一伟大决策？这一决策是在哪次会议上作出的？(2分)

③ 材料中两代领导人对国家富强的期望给了你什么启示？(1分)

17. 读图后请回答：

图1

图2

第17题图

① 图1纪念币中的人物被誉为“发明大王”，请写出他的名字及币中反映出的伟大发明。(2分)

② 联合国将2005年定为“国际物理年”是为了纪念图2中这位20世纪伟大的犹太科学家，他的理论推动了整个物理学革命。请写出他的名字及其一生中最重要的贡献。(2分)

③ 在21世纪的今天，我们更应该去学习他们身上的哪些精神？(1分)

18. 读图后请回答：

图1 哈释集中营里的尸骨

图2 南京大屠杀的一幕

图3 德国总理向集中营遇害者鞠躬

图4 日本首相参拜战犯亡灵

第18题图

① 看过图1、图2中的场面后，你有什么感触？其制造者共同发动了哪场世界性战争？今年是这一战争结束多少周年？(3分)

② 看过图3、图4后，你认为今天德、日两国领导人在对待战争的态度上谁是明智的？请写出你最想对他们说的一句话。(2分)

五、延伸探究题（共15分）

19. 右图是1936年12月13日《西北文化日报》上的特大新闻，报道了两位国民党将领在民族危亡时刻的惊人之举，请写出这是哪一历史事件？今天，再来回顾这段历史，你将如何进行表述？(7分)

表述要求：①文中必须包括这一事件的目的，发动者（两位）、结果及历史意义；②表述必须成文，语言清晰流畅，字数不少于80字。

第19题图

20. 19世纪60年代和20世纪30年代，为了解决国家分裂和经济危机的困扰，美国在哪两位总统的领导下分别进行了什么革命或改革？请谈谈其中的改革在美国历史上的作用。(8分)



此为试读，需要完整PDF请访问：www.ertongbook.com

# 4 黑龙江省2005年(课改实验区)初中毕业、升学学业考试

## ●试题精析

本试卷有以下特点：

这套试卷内容较多，容量较大，试卷题型新颖，图文并茂，命题材料鲜活，并以亲切的语言、生动的卷面形象来感染考生，体现了以学生为本的教育理念。

**1.** 注重社会热点，结合时事政治。本套试卷以"苏丹红一号"、"构建和谐社会"、"感动中国"、"连战出访大陆"等一系列热点问题为背景材料，设计了25题、27题、28题、30题等一系列新颖活泼的题目，并把教材中的知识与社会热点巧妙结合，较好地体现了政治学科的时政性特点。

**2.** 全卷注重对学生探究能力和实践能力的考查。26题、28题、29题、30题都比较注重对学生的能力测试，设问均在鼓励学生去探究，去思考，去"自圆其说"，较好地体现了实践性的原则。

**3.** 针对学生实际，贴近学生生活。整套试卷的设计都比较贴近学生的实际生活，比如20题，24题，25题，29题，31题。以29题为例，本题的切入点是中学生的行为评价，评价的方法，步骤，要点等都是学生在生活中比较关心的，把"自我评价"作为考点，既能引起学生的共鸣，又有利于学生的自我认识。

**4.** 既注重基础知识，又注重能力考查。在本套试卷中得到了充分的体现。试卷中有初了学以致用，理论联系实际等教育的基本原则，既灵活、开放，考查了学生的知识，又培养了学生的能力。

**一、单项选择题**（下列各题的四个选项中，有一个是最符合题意的，请选出，并将字母填入题后的括号内。第1～10小题每题1分；第11～15小题每题2分，共20分）相信你一定能选对！

1. 2004年8月1日～31日，为纪念_____诞辰100周年，全国各地纷纷举行纪念活动，以缅怀这位中国社会主义改革开放和现代化建设的总设计师。（　）

A. 周恩来　B. 毛泽东　C. 邓小平　D. 任弼时

2. 2004年9月16日～19日，中共十六届四中全会在北京举行，会议通过关于加强党的_____建设的决定。（　）

A. 作风　B. 廉政

C. 执政能力　D. 党内监督制度

3. 2005年1月10日，《黑龙江日报》黄斯布鲁克电：中国黑龙江省哈尔滨市获得2009年第24届世界大学生冬季运动会承办权。中办此次运动会的标志是（　）

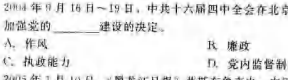


A　B　C　D

4. 2004年9月12日，中国纳税百强排行榜揭晓，_____居榜首。（　）

A. 长春一汽　B. 大庆油田

C. 海尔集团　D. 北京首钢

5. 2004年8月13日～29日，第28届奥运会在_____举行，中国首次荣获金牌总数的第_____位。（　）

A. 悉尼　三　B. 巴黎　四

C. 洛杉矶　二　D. 雅典　二

6. 2005年3月22日，是第13个_____，今年的主题是"生命之水"。（　）

A. 世界地球日　B. 世界水日

C. 世界计量日　D. 世界电信日

7. 2005年3月23日，国家公布了30条红色旅游精品线和100个红色旅游经典景区。我省红色旅游路线"哈尔滨—阿城—尚志—海林—牡丹江"线榜上有名。请结合右图选出我省红色旅游景点侵华日军七三一部队罪证陈列馆和八女投江革命烈士陵园所在地。（　）

A. ①⑤　B. ①④　C. ④⑤　D. ②④

8. 2005年2月9日，我国外交部亚洲司官员就钓鱼岛问题指出，钓鱼岛及其附属岛屿是_____的固有领土。（　）

A. 朝鲜　B. 中国　C. 日本　D. 美国

9. 2005年2月16日，关系地球和人类社会命运与前途，旨在遏制全球气候变暖的_____正式生效。（　）

A.《京都议定书》　B.《圣地亚哥宣言》

C.《联合声明》　D.《下午宣言》

10. 法律是靠国家强制力保证实施的。下列选项体现这一观点的是（　）

A. 在校中学生要遵守《中学生日常行为规范》

B. 小李见义勇为

C. 贵州省原省委书记刘方仁犯受贿罪被依法判刑

D. 12月4日被定为全国"法制宣传日"

11. 下列行为中，属于扰乱公共秩序行为的是（　）

A. 明知赃物而购买

B. 贩卖毒品

C. 非法制造、贩卖、携带匕首，三棱刀

D. 谎报险情，制造混乱

12. 在我国刑法规定的各类犯罪中，性质最严重，对国家和人民危害最大的是（　）

A. 抢劫、盗窃罪　B. 赌博罪

C. 毒品犯罪　D. 危害国家安全罪

13. 世界反法西斯战争胜利60周年之际，以史为鉴，温故知新，我们应该清楚当今时代的主题是（　）

A. 竞争　B. 和平与发展

C. 合作　D. 和平与进步

14. 社会主义的根本任务是（　）

A. 消除两极分化　B. 消灭剥削

C. 实现小康社会　D. 解放生产力，发展生产力

15. 我国的根本制度是（　）

A. 民主评议制度　B. 民主集中制

C. 社会主义制度　D. 多党合作制度

**二、不定项选择题**（下列各题的四个选项中，至少有一个是符合题意的答案。请选出正确的答案，将字母填入题后的括号内，错选的该题不得分，漏选一项扣1分。16～22题每小题2分，23、24题每小题3分，共20分）——积极思考，希望选的好！

16. 过去的一年，我国在各方面取得了骄人成绩。下列选项能体现这一说法的有（　）

A. 2004年我国国内生产总值为136 515亿元，同比增长9.5%

B. 2004年4月18日，全国铁路实行第五次提速

C. 2004年7月28日，中国第一个北极科学考察站黄河站建成并投入使用

D. 2004年12月30日，西气东输工程全线投产并正式运行

17. 董丹看到上学路过的和平路两侧挤满了蔬菜、水果摊位，她找到区人大代表反映了情况，提出的建议得到了区政府的采纳。董丹行使了公民所享有的（　）

A. 选举权　B. 劳动的权利

C. 批评、建议权　D. 人身权利

18. 为了确保公民行使上题中所涉及的这项权利，我国建立的保障制度有（　）

A. 民族区域自治制度　B. 代表联系群众制度

C. 信访举报制度　D. 新闻监督制度

19. 为了维护未成年人的合法权益，有效地制止侵犯未成年人合法权益的行为，保障未成年人的健康成长，我国先后颁布了（　）

A.《未成年人保护法》　B.《治安管理处罚条例》

C.《预防未成年人犯罪法》　D.《教育法》

20. 青少年同违法犯罪作斗争，既要勇敢，又要机智，行之有效的方法是（　）

A. 设法稳住歹徒

B. 记住歹徒相貌特征，了解其去向

C. 及时拨打"110"报警电话

D. 溜之大吉

2005年1月6日，中国人口（不包括香港、澳门特别行政区和台湾省）达到13亿。据此回答21～22题。

21. 由于我国实行了_____的基本国策，使中国13亿人口日的到来推迟了几年。（　）

A. 计划生育　B. 保护环境

C. 对外开放　D. 科教兴国

22. 我国实行这一基本国策的目的是（　）

A. 控制人口数量　B. 节约资源

C. 提高人口素质　D. 完善社会主义制度

23. 马克思说："没有无义务的权利，也没有无权利的义务。"这表明在我们社会主义国家，公民的权利和义务的关系是（　）

A. 相互分离的　B. 密不可分的

C. 相互依存的　D. 统一的

24. 下列古诗词中体现我们中华民族传统美德的是（　）

A. 人生自古谁无死，留取丹心照汗青

B. 谁言寸草心，报得三春晖

C. 历览前贤国与家，成由勤俭败由奢

D. 天行健，君子以自强不息

三、**简要回答下列各题**（共25分）——深思考，你能行！

25. 赏析漫画，简要回答下列问题。（6分）

图一　　图二　　图三　　图四

（1）请你指出上面四幅漫画分别反映了什么问题。（4分）

（2）请任选其中两幅漫画说一说，如果你遇到这些情况应该怎么办。（2分）

26. 据《人民日报》报道，国家工商总局、质检总局查出了广东“亨氏美味源（广州）食品有限公司”生产的美味源牌金咲桂林辣椒酱、辣椒油等含有苏丹红（一号）致癌物。质检总局要求严查苏丹红流向。请结合材料回答下列问题。（7分）

（1）材料中的生产者违反了哪几部法律？（2分）

（2）侵犯了消费者的哪些权利？（3分）

（3）假如你不慎购买了含有苏丹红的食品，你会怎样依法维护自己的合法权益？（2分）

27. 在十届全国人大三次会议上，温家宝总理在《政府工作报告》中指出，要着力建设社会主义和谐社会。据此，我省许多学校开展了构建和谐校园的活动。（6分）

（1）请用连线的方式把符合和谐社会六大特征的内容补充完整。

| | | |
|---|---|---|
| 安定有序 | 和谐社会特征 | 诚信友爱 |
| 公平正义 | | 充满活力 |
| 对外开放 | | 把保护环境作为一切工作的中心 |
| 民主法治 | | 人与自然和谐相处 |

（2）请描绘一下你心目中和谐校园的景象。（2分）

（3）你将以怎样的实际行动为构建和谐校园作出自己的贡献？（2分）

28. CCTV“2004年度感动中国十大人物”评选揭晓后，某班以“感动别人也是一种幸福”为主题上了一节活动课，下面是这节活动课中的几个环节，请你也来积极参与。（6分）

（1）**真情告白**：写出十大人物中最让你感动的人物：_____（1分）

感动的原因：_____（1分）。

（2）**行动计划**：感动别人其实很简单，只要我们用心！

我要做一件让身边人感动的事：_____（2分）

（3）**幸福传递**：为了把“感动”复制千万份，传递给他人，请设计一句公益广告词。（2分）

四、**探究与实践**（共16分）——不动一番，焉得才早！

29. **评价助成行**：下面是对冬冬综合素质评价的几个方面，请结合下表探究几个问题。

| 评价内容 | 老师的评价 | 家长的评价 | 冬冬的自我评价 |
|---|---|---|---|
| 主动学习、敢于挑战疑难问题 | ☆☆ | ☆ | ☆☆☆ |
| 不盲从别人，有独立的见解和主张 | ☆☆☆ | ☆☆☆ | ☆☆☆☆ |
| 尊重、理解和宽容他人 | ☆ | ☆ | ☆☆☆ |
| 爱护环境，珍惜资源 | ☆☆☆☆ | ☆☆☆ | ☆☆☆☆ |
| …… | …… | …… | …… |
| 说明：被四项优秀奖励四颗☆；做的良好奖励三颗☆；做的一般奖励二颗☆。通过努力有进步的奖励一颗☆。 | | | |

（1）你认为对中学生的评价，还应该补充哪些方面的内容？（1分）

（2）请你帮冬冬分析一下，他在哪些方面需要继续发扬，并简要说明理由。（3分）

（3）你认为冬冬应如何改进自己的不足？（2分）

（4）在“尊重、理解和宽容他人”等方面，老师和家长的评价与冬冬的自我评价出现了偏差，请你想一想其中的原因。（1分）

（5）请从综合素质评价所涉及的内容中任选一项，举出真实事例说明你是如何做的，并对此做出客观评价（用☆的颗数来表示）。（3分）

五、**分析说明题**（共10分）——别松劲儿，继续努力呀！

30. 材料一：2005年3月14日，第十届全国人民代表大会三次会议通过了一部法律，这部法律的内容体现了对台政策的连续性和一贯性，是祖国内地20多年来对台湾问题的一系列政策方针的法律化。

材料二：2005年的春天，国民党主席连战率团访问了大陆，胡锦涛总书记与其会晤，实现了两党最高领导人相隔50年的第一次握手。在访问期间，他到_____市（1分）拜谒了伟大的民主革命先行者_____（1分）的陵墓。

**写一写**：请将材料二的内容补充完整。

**填一填**：请结合材料一，写出这部法律的名称：_____（1分），制定此法的依据是_____（1分），其立法机关是_____（1分）。

**想一想**：请结合所给材料，联系所学知识，说明制定此法的意义。（2分）

**列一列**：请列举出“台独”分子分裂祖国的主要观点和无耻行径。（1分）

**说一说**：作为内地中学生，请你深刻“为完成祖国统一大业我们能做些什么”向台湾中学生说几句心里话。（2分）

六、**政治小论文**（15分）——拓展思维，放飞创新！

31. 请你从下面两个材料中任选其一，仔细分析材料，运用所学知识，结合实际，写一篇400字左右的小论文。题目自拟。

材料一：在活动课《新闻题最鲜明的时尚是政革开放》的课堂交流中，小青展示了她的家庭访谈片断：

材料二：随着科学技术的发展，网络走进了我们的生活。

利用网络查询信息

妈妈和网吧争女儿

为了上网……

# 5 浙江省2005年(课改实验区)初中毕业生学业考试

## ●试题精析

一、试题精析

本卷是毕业试卷，从水平测试的角度出发，一方面，本卷整体上注重对基础知识和基本能力的考查，如选择题5、6、7、8、9、10，非选择题21题(2)、(3)问，24、25、26小题等。另一方面，通过不同难度试题的设置，体现出比较合理的区分度。

在注重基础性的前提下，试卷广泛采用情景式命题，考查形式灵活多样，非选择题中有答案实例，判图表、填表格、举成就等多种答题形式，使整个试卷多姿但不单调，平实而不呆板。

非选择题强调学生的主体参与意识，考查学生运用所学知识理解和分析问题的能力，如21小题第(3)问“针对你身边存在的一个实际问题，提出解决问题的建议”，25小题的续写结局，26小题的“作为中学生应如何发扬浙江精神”等，在引导学生关注社会和现实，理论联系实际等方面起到了正确的导向作用。

二、明年中考预测

2006年毕业试卷，将继续体现四个特点：(1)基础性，即注重对基础知识和基本能力的考查。(2)情景式命题，将广泛运用现实生活中的时政热点、社会现象和学生学习生活中的实例作为材料或选项，引导学生判断，理解，分析，选择。(3)注重学生的主体参与，考查运用所学知识分析问题和解决问题的能力。(4)“重点知识重点考”，如本卷4，5小题的科技英国，6小题的保障消费者合法权益，10小题的未成年人保护，21小题的可持续发展，25小题的依法维权，26小题的基本经济制度和民族精神等，都属于教材的重点知识。

## 社会政治

### 试卷Ⅰ

一、选择题(本题有20小题，每小题2分，共40分。请选出各题中一个符合题意的正确选项，不选、多选、错选、均不给分)

1. 2004年12月，中央经济工作会议强调要以_____统领经济发展全局，并周实贯穿于经济社会发展的各个方面。( )
A. 科学发展观　B. 循环发展观
C. 协调发展观　D. 区域发展观

2. 2005年2月16日，旨在遏止全球气候变暖的《京都议定书》正式生效。这是人类历史上首次以法规的形式限制_____。( )
A. 工业废水排放　B. 白色污染蔓延
C. 温室气体排放　D. 固体废物转移

3. 2005年1月8日，我国迎来了_____人口日。由于实行了控制人口增长的政策，使我国这一“人口日”的到来推迟了四年。( )
A. 12亿　B. 13亿　C. 14亿　D. 15亿

科教兴国是我国全面建设小康社会的一项重要战略，请光回答4～5题。

4. 2005年4月，国务院新闻办公室发表的《中国_____保护的新进展》白皮书，全面介绍了中国政府在这方面所作出的艰苦努力以及所取得的重大进展。( )
A. 土地产权　B. 房屋产权　C. 商标产权　D. 知识产权

5. 实施科教兴国战略，要求我们( )
①尊重知识，尊重人才　②坚持教育为本，大力发展教育事业　③把科技教育作为国家一切工作的中心　④落实“科学技术是第一生产力”的思想
A. ①②③　B. ①③④　C. ①②④　D. ②③④

6. 社会主义和谐社会是民主法治、公平主义、诚信友爱、充满活力、安定有序、人与自然和谐相处的社会。下列做法与建设和谐社会目标相一致的是( )
①围湖造田，伐林造地发展粮食生产　②协调和促进东西部经济的共同发展
③解决进城务工农民子女的就学问题　④完善农村村务公开，民主决策制度
A. ①②③　B. ①②④　C. ①③④　D. ②③④

7. “瘦而不合，金石可镂”的精神主要体现了( )
A. 处事果断的意志品质　B. 明辨是非的意志品质
C. 善于约束自己的意志品质　D. 勇于克服困难的意志品质

8. 小冬每到考试都会因情绪过度紧张影响水平正常发挥。又要考试了，以下小冬调节情绪的做法合理的是( )
①适当听听音乐，放松自己　②进行一些感兴趣的户外活动　③通过自我暗示，松弛紧张情绪　④熬夜看书做作业，打“疲劳战”
A. ①②③　B. ①③④　C. ②③④　D. ①②④

9. 2005年春，浙江省工商局全力追查含有“苏丹红1号”(一种有致癌物质的添加剂)的食品。这一举措主要是为了保障消费者的( )
A. 人身安全权　B. 自主选择权
C. 正当防卫权　D. 人格尊严权

10. 对右边漫画理解正确的是( )
①在全社会加强思想道德建设十分必要　②学校对未成年人的道德教育缺乏实效　③部分社会成员思想道德素质还不够高　④父母应该以良好的思想品行教育孩子
A. ①②③　B. ①③④
C. ②③④　D. ①②④

家长：像小子，大人不让座，你让干吗！

11. 生活在浙江，你能感受到浙江的气候特点是( )
A. 冬季温暖夏季凉爽，四季如春
B. 冬季低温少雨，夏季高温多雨
C. 冬季寒冷夏季炎热，降水稀少
D. 全年高温炎热，降水十分稀少

12. 中国的大江大河大多由西向东流，这主要是因为我国( )
A. 降水东多西少　B. 地形复杂多样
C. 季风气候显著　D. 地势西高东低

13. 中国古代采取一系列汉化政策，促进鲜卑族同汉族融合的改革是( )
A. 商鞅变法　B. 孝文帝改革
C. 王安石变法　D. 张居正改革

今年是郑和下西洋500周年。郑和下西洋和新联路的开辟都是世界航海史上的壮举。据此回答11～16题。

14. 郑和下西洋发生在( )
A. 唐朝　B. 元朝　C. 明朝　D. 清朝

15. 欧洲人开辟新航路的主要原因是( )
A. 印证地圆学说　B. 渴求得到黄金
C. 宣扬本国国威　D. 追求海外冒险

16. 郑和下西洋和新航路开辟的共同作用是( )
A. 加强了各地间的联系　B. 扩大了中国的影响
C. 促成了新的民族产生　D. 加速了美洲的开发

17. 今天我们的服饰丰富多样，其中深受少数民族影响的服装是( )
A. 旗袍　B. 西服　C. 中山装　D. 丁恒衫

18. 十七、十八世纪，英、美、法三国资产阶级革命的共同意义有( )
①都推翻了外国殖民统治　②都建立了资本主义制度　③都确立了君主立宪政体　④都促进了资本主义发展
A. ①②　B. ②④　C. ②④　D. ①④

19. 1945年世界反法西斯战争的胜利，给人类留下的历史启迪有( )
①加强国际合作，有利于战胜共同的敌人　②不同社会制度的国家不能相互合作　③世界各国应互不侵犯、和平共处　④和平来之不易，战争悲剧不能重演
A. ①③④　B. ②③④　C. ①②④　D. ①②③

20. 暑假小明准备到杭州游玩，他最需要的地图是( )
A. 杭州市人口分布图　B. 杭州市交通图
C. 杭州市水系示意图　D. 杭州市地形图

### 试卷Ⅱ

二、非选择题(本题有6小题，共50分)

21. 人口、资源、环境三者是相互联系、相互影响、相互制约的。
(1)请举实例，或者用图表说明三者之间的关系。(3分)

(2)协调这三者之间的关系，体现了什么发展战略？(2分)

(3)针对你身边存在的一个实际问题(可以是人口方面的，也可以是资源或环境方面的)，提出解决这一问题的建议。(3分)

22. 2005年4月29日中共中央总书记胡锦涛与中国国民党主席连战的亲切会见，是国共两党最近代史上两次合作后最高层的又一次亲密接触。
运用所示知识回答：
(1)近代史上国共两次合作建立的统一战线是革命统一战线和_____统一战线。(2分)
(2)这两次国共合作对当时的中国革命起了怎样的推动作用？(4分)

(3) 2005年4月国共两党最高层的亲密接触，对发展两岸关系有何积极影响？(3分)

23. 运用所学知识回答：

(1) 下图中的A国是_____，现在属于_____（发展中国家或发达国家）。根据下图分析，该国发展经济的有利条件是_____。(4分)

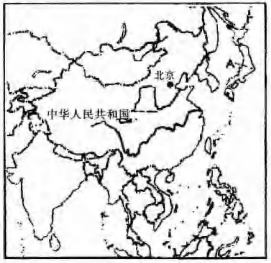


十九世纪，A国和中国都遭到了列强侵略，为挽救民族危亡，两国都进行了改革。

(2) 两国政府进行了哪些改革？(2分) 这些改革对两国分别产生了什么影响？(4分)

改革后的A国，曾先后对中国发动过两次大规模的侵略战争，给中国带来了深重灾难。但是，当前A国有某势力却否认、歪曲、美化过去的侵略历史，把侵略中国说成是"进入"中国，甚至把其制造的骇人听闻的大屠杀说成是"资料上的存疑点"……

(3) 请根据材料拟定一个小论文的题目。(3分)

24. 2005年3月，第十届全国人民代表大会第三次会议审议并通过了《反分裂国家法》。这一法律是根据《中华人民共和国宪法》制定的，旨在反对和遏制台独势力分裂国家。

运用所学知识回答：

(1) 材料表明全国人民代表大会行使了什么职权？(2分)

(2) 制定《反分裂国家法》为什么必须根据宪法？(6分)

(3) 贯彻落实《反分裂国家法》，公民应自觉履行哪一基本义务？(2分)

25. 初三学生小甲在放学回家路上，向初一学生小乙索要了10元钱并进了营业性网吧。恰遇派出所检查，小甲便谎称自己是小乙。事情反映到小乙家长那里，父亲一气之下，不分青红皂白便将小乙打了一顿……

运用所学知识回答：

(1) 小甲侵犯了小乙的哪些权利？(2分)

(2) 我国未成年人保护法对未成年人的保护体现在四个方面，上述事例反映了哪两方面还存在问题？(2分)

(3) 事后小乙会怎么做呢？以下是事态发展的三种情形。请你仿照A的结局，用简洁的语言续写B和C的结局，并从法律的角度概括出它们共同的经验和教训。(6分)

| 情形 | 做法 | 结局 | 共同的经验和教训 |
|---|---|---|---|
| A | 反正斗不过他，于是只好忍气吞声了。 | 在放学回家路上，小甲又向他要钱，小乙无奈，只好将自己的零花钱再一次交了出来。 | |
| B | 找了两个朋友去"教训"小甲，相打起来。 | | |
| C | 去找懂法律的高老师反映情况。 | | |

26. 浙江是中国经济最活跃的省份之一。在充分发挥国有经济主导作用的前提下，以民营经济的发展带动经济的起飞，形成了具有鲜明特色的"浙江经济"。我省经济的快速发展，重要的一点是得益于改革开放以来形成的"浙江精神"，如"千山万水、千难万险、千方百计、千辛万苦、千言万语"的"五千精神"和"既能做老板、又能睡地板"的"两板精神"。

运用所学知识回答：

(1) "浙江经济"反映了我国实行什么基本经济制度？这一基本经济制度是由什么决定的？(4分)

(2) 列举我省改革开放以来的一项重大经济建设成就。(2分)

友情提示：经济成就可以是本省、市、县（区）的著名企业、重要市场、名牌产品、重大建设工程、经济发展重要数据等。

(3) "浙江精神"体现了怎样的民族精神？作为中学生应如何发扬"浙江精神"？(4分)

# 6 安徽省2005年(课改实验区)初中毕业学业考试

## ●试题精析

一、试题精析

作为全开卷的政治试题，该卷共有以下几个特点：

1. 科学性。本卷难易度比例处理得当。区分度较为合理，形成了逐渐的"梯度"。实现社试题部分以考查基础知识为主。所考查的内容均源于教材中最基本的概念，避免了学生一开始作答就大面积失分的现象。全卷无偏题、怪题，不有意难倒学生。

2. 开放性。作为开卷考试，主观性试题在开放方面作了很到的尝试，首先设置型新颖独到，如标题"感动中国、感动你我"、"生活中的法律"、"校园话题"、"修权在行动"等。其次，试题要求上有理论层面的分析，有实际行动上的落实。有正反方的辩论，有对同类现象统计数据的分析，有漫画，有连环画，可谓五花八门，令人耳目一新。如16小题，以甲乙两同学关于购买纯考商品的对话为背景材料，引出在家校内的问题。要求考生对调查反映的结果进行分析，从表中主要反映出的维权方面"想"和"做"的巨大反差、自然而然延续来学生在日常生活中要"依法维护自身的消费权益"，理论与实际联系紧密。思想政治课的教育功能实现无疑。

二、明年中考预测

1. 开卷型的试题从题型、题型、分值，区分度不会有太大的变化。基础题仍将占有相当大的比例。考生仍应从基础题抓起，注重基础知识的掌握。

2. 主观试题开放度大、难度较高，要求学生有较好的分析、综合能力，社会热点、重点内容仍是中考试卷关注的话题。考生在平常的学习中需要多留心，多看多思。

## 思想政治

### 第Ⅰ部分 选择题（共24分）

下列各题4个备选答案中，只有1个是最符合题意的。请选出正确答案并将其序号填入题后的括号内。（每12题，每题2分）

1. 十届全国人大二次会议的《政府工作报告》指出，要努力构建民主法治、公平正义、诚信友爱、充满活力、安定有序、人与自然和谐相处的（　　）

A. 社会主义和谐社会　　B. 全民学习型社会

C. 社会主义公信用社会　　D. 资源节约型社会

一个人，一个国家，一个民族都是有一种精神。长征精神，雷锋精神，航天精神等都是我们整个国家和民族的精神财富。据此回答2～3题。

2. 弘扬民族精神（　　）

①是社会主义先进文化建设的重要内容　②是经济发展的决定因素　③有利于增强民族凝聚力和综合国力　④有利于实现我国现阶段的共同思想

A. ①②③　　B. ②③④　　C. ①②④　　D. ①③④

3. 为了弘扬民族精神，中宣部、教育部决定：从2004年开始，把每年_____确定为"中小学弘扬和培育民族精神月"。（　　）

A. 2月　　B. 5月　　C. 9月　　D. 10月

4. 近年来，在我国年轻人中，端午节、中秋节，重阳节等传统节日被日渐淡忘；相反，过愚人节、情人节、圣诞节等"洋节日"却越来越流行，这种状况引起了社会的关注。在对待诸如"洋节日"等外来文化问题上，我们应当（　　）

①全盘否定　②全部吸收　③以我为主，为我所用　④去其糟粕，取其精华

A. ①③　　B. ①④　　C. ②③　　D. ①④

5. "谁赢得了青年，谁就赢得了明天；谁赢得了少年，谁就赢得了后天。"这是因为，青少年（　　）

①朝气蓬勃，思维敏捷　②富有创新精神和活力　③是社会的未来和希望　④缺乏社会实践经验

A. ①②③　　B. ①②④　　C. ②③④　　D. ①③④

我国区域协调发展的"联结南北、启动东西"战略格局全面形成。据此回答6～7题。

6. 继"沿海率先改革开放战略"、"西部大开发战略"、"振兴东北等老工业基地战略"之后，十届全国人大三次会议又明确提出"_____战略"。（　　）

A. 中部崛起　　B. 东部崛起

C. 长江三角洲发展　　D. 珠江三角洲发展

7. 实施"联结南北、启动东西"的战略格局，目的是为了实现（　　）

A. 同步富裕　　B. 共同富裕　　C. 依法治国　　D. 对外开放

观察右图漫画，回答8～9题。

无畏的"蒋士"

8. 漫画抨击的是台湾少数分裂势力（　　）

①顽固坚持"台独"立场，企图把台湾从中国分裂出去　②力图改变台湾现行的社会制度　③是对一个中国原则的公然挑衅　④损害中国的主权和领土完整

A. ①②③　　B. ②③④

C. ①②④　　D. ①③④

9. 为了遏制"台独"分裂势力的分裂活动，_____。（　　）

2005年3月14日，十届全国人大三次会议，高票表决通过了

A. 《国家安全法》　　B. 《反分裂国家法》

C. 《保守国家秘密法》　　D. 《国防法》

10. 2005年1月6日是"中国13亿人口日"。我国由11亿人口到12亿人口用了6年时间，而由12亿人口到13亿人口则用了10年时间。使"13亿人口日"推迟了4年的主要原因是（　　）

A. 我国人口基数的增加　　B. 我国人口素质的提高

C. 实行了计划生育基本国策　　D. 农村劳动力转移到城市

11. 从2005年到2007年，国家财政将安排227亿元落实"两免一补"政策，即免除国家扶贫开发工作重点县农村义务教育阶段农困家庭学生的书本费和杂费，补助寄宿学生生活费。这体现了在实施义务教育中的（　　）

A. 国家责任　　B. 社会责任　　C. 学校责任　　D. 家庭责任

12. 出租车司机童某拒不归还乘客丢失在车上价值300元的手表，童某这一行为（　　）

A. 不道德但不违法　　B. 是民事违法行为

C. 是犯罪行为　　D. 是无可厚非的

### 第Ⅱ部分 非选择题（共56分）

**【感动中国 感动你我】**

13. 2005年2月17日，中央电视台揭晓了"感动中国·2004年度人物评选"最终结果。最冠冠军则得，水稻之父袁隆平。女公务员兰任长官，为弱势群的田桂周。青年志愿者徐本高等10人和中国女排入选。（11分）

(1) 请根据下列评委会"颁奖词"，将材料中的入选者填入相应括号内。（3分）

●"不断超越，永不言败，代表着一个正在加速的民族。"【　　】

●"打黑扫恶，除暴安良，她铁面无私；嘘寒问暖，扶危济困。她柔肠百转。"【　　】

●"他毕生的梦想，就是让所有人远离饥饿。"【　　】

徐本高，一个山寺贫苦农村家庭，靠着困生补贴，奖学金和勤工俭学完成学业的大学生，放弃了读研究生的机会，来到中国最偏僻的山区执教，正如"颁奖词"中所说，"他用一个潮湿毕业大学生的根换房舒，扛住了简陋的教室，背穷和孤独。"他心中牢记一份信念：人要学会感恩。当你接受了别人的帮助，你要去帮助需要你帮助的人。

(2) 徐本高身上有哪些令你感动的品质？（4分）

"谁言寸草心，报得三春晖"。2004年9月，39岁的田世国得知母亲患尿毒症后，瞒着母亲到上海中山医院作了血样检查，配型成功后，就然把自己的一个肾脏移植给了母亲。

(3) 每个人孝敬父母（长辈）的方式各不相同。在今后的日常生活中你怎样以实际行动表达对父母（长辈）的一片孝心？（4分）

**【生活中的法律】**

14. 阅读表格中的材料，运用法律知识对小林的行为是否正确作出判断并说明理由。（9分）

| 行　为 | 在上学途中的十字路口遇到了红灯，等待人处交警不在就闯了过去，小林刚等绿灯要起时才推车过去。 | 第假里，小林和父亲一道游览名城，一时兴起，到小刀在城墙上刻下自己的名字以作纪念。 | 小林过生日那天，邀请一些同学在家里开生日Party，唱卡拉OK直到深夜，使邻居无法休息。 |
|---|---|---|---|
| 判　断 | | | |
| 理　由 | | | |

**【校园话题】**

15. 手机已成为目前中学生的新宠，成为中学校园里一道流行色，同时，由手机引发的种种问题也引起了人们的关注和思考。某校就"中学生在校能不能使用手机"举行了一场辩论会。

甲方观点：中学生在校能使用手机

乙方观点：中学生在校不能使用手机

你赞成哪方观点？请陈述你的理由。（8分）

【维权在行动】

16. 下面是两位同学的一段对话：

同学甲："怎么回事？刚买的扇珠是没写一会儿就不出油了！"

同学乙："我也一样，刚买的书包还没用一星期，背带就脱线了。后来，我找商店要求更换，但由于买时没有索要发票，人家不予理睬。"

这是不是同学们常遇到的现象呢？某班综合实践活动小组就此问题在校内组织了一次问卷调查。调查后的统计数据如下：

| 问题 \ 百分比 \ 类别 | 是 | 否 |
|---|---|---|
| ①你是否买到过伪劣产品？ | 86% | 14% |
| ②买了伪劣产品后，你是否想过要维护自己的合法权益？ | 95% | 5% |
| ③买了伪劣产品后，你是否采取过行动来维护自己的合法权益？ | 25% | 75% |
| ④你购买商品时是否索要发票？ | 27% | 73% |

分析上述统计结果，回答：（14 分）

（1）根据①的统计结果，你会得到什么结论？（2 分）

（2）比较②、③的统计结果，你认为同学们在"想"和"做"方面为什么会出现如此大的反差？（4 分）

（3）你认为购物时索要发票有什么好处？（3 分）

（4）在今后的生活中，你将怎样依法维护自身的消费权益？（5 分）

【珍惜资源　关爱环保】

17. 统筹人与自然的和谐发展是落实科学发展观的重要内容。（14 分）

（1）读右图，将下列符合循环经济发展模式的选出。（在□内打"√"）（2 分）

● 资源 → 产品 → 废弃物 □

● 资源 → 产品 → 再生资源 □

循环经济　前途无量

（2）说一说资源循环利用对我国经济和社会发展有哪些好处。（4 分）

"人之居，火自然，茅地栋。我家国……"《中华环保三字经》利用三字经这种传统形式，赋予环保知识和行为规范崭新的内容，为人们提供了一种琅琅上口，喜闻乐见的环保教育科普读物。2005 年 4 月 28 日，"关爱环保，从我做起"暨《中华环保三字经》全国社区活动正式启动。

（3）下列内容选自《中华环保三字经》，请完成前后相关句的连线。（5 分）

垃圾多　　可利用

废弃物　　冲厕所

洗衣水　　随手关

水龙头　　分类装

（4）废纸、废塑料袋、废饮料瓶（罐）随手丢弃是校园内普遍存在的问题。针对这一问题，你如何组织全班同学开展一场"关爱环保，从我做起"的活动？（5 分）

## 历　史

温馨提示：

亲爱的同学，下面的历史问题是为展示你的学习成果而设计的。一共五大题，全部做对可得 70 分。历史与思想政治考试时间共 120 分钟。你可以参考历史教科书和其他资料，需要你认真审题、独立思考，涉及中国史的人名和专用名词须准确作答，遇到困难时也不要轻易放弃，相信你一定会取得好成绩。

一、单项选择题（本题共 10 小题，每小题 2 分，共 20 分。每小题所列出的四个选项中，只有一项是符合题意的。）

1. 某台湾旅行团要来内地拜祭中华民族的人文始祖，他们应该去（　　）

A. 黄帝陵　　B. 大禹陵　　C. 秦始皇陵　　D. 轩辕陵

2. 右图人物所处的时代是雅典民主政治的全盛时期，那时雅典城邦的最高权力机构是（　　）

第 2 题图

A. 元老院　　B. 公民大会

C. 陪审法庭　　D. 五百人会议

3. 电视连续剧《汉武大帝》热播后，很多人对汉武帝的文韬武略有了基本了解。汉武帝的治国核心思想来源于（　　）

A. 法家学说　　B. 道家学说　　C. 儒家学说　　D. 墨家学说

4. 隋朝末年，家住涿郡的一位商人要沿着新开通的大运河乘船去洛阳，他必须经过（　　）

A. 通济渠　　B. 永济渠

C. 邗沟　　D. 江南河

第 5 题图

5. 某历史兴趣小组的同学准备到嘉峪关去考察明长城，右图中表示甚目的地的英文字母是（　　）

6. 右表反映的粮食产量变化发生于（　　）

A. 土地改革时期

B. 三大改造时期

C. 大跃进时期

D. 改革开放时期

凤阳县粮食产量三大步

1980 年产粮 5.02 亿公斤

1981 年产粮 6.70 亿公斤

1982 年产粮 7.15 亿公斤

第 6 题图

7. 小明同学设计了四个历史小论文题目，其中出错的是（　　）

A. 瓦特与蒸汽机　　B. 英国与"三角贸易"

C. 戚家军与《明家产业复兴法》　　D. 亚历山大二世与 1861 年改革

8. 右图中人物是美国著名的"发明大王"，若请你为他配音，可以选择的台词是（　　）

第 8 题图

A. "天才不过是百分之一的灵感，加上百分之九十九的汗水"

B. "我要抱住命运的咽喉，它决不能使我完全屈服"

C. "如果我看得远，那是因为我站在巨人们的肩上"

D. "如果我们选择了最能为人类福利而劳动的职业，我们就不会为它的重负所压倒"

9. 提出"自由平等是天赋人权"的法国大革命时期的文献是（　　）

A.《独立宣言》　　B.《人权宣言》

C.《权利法案》　　D.《拿破仑法典》

10. 下列现实生活中涉及的科学发明，不属于第三次科技革命的是（　　）

A. 访问互联网　　B. 用手机打电话

C. 用数码相机拍照　　D. 在电灯下看书

二、组合列举题（本题共 3 小题，其中第 11、12 题各 3 分，第 13 题 4 分，共 10 分）

11. 安徽历史悠久且具有光荣的革命传统，回答下列有关安徽历史的问题。（3 分）

（1）隋唐时期，伐晋全国的文房四宝有："宣纸"，"_____"，"宣笔"，"歙砚"。

（2）明清时期"蜚飞中国商界"，成为全国最大商帮之一的是_____。

（3）位于今肥东县瑞岗村的_____战役是全国爱国主义教育基地。

12. 写出下列历史事件距今多少周年。（4 分）

（1）郑和第一次出使西洋_____周年。

（2）遵义会议召开_____周年。

（3）联合国成立_____周年。

（4）万隆会议召开_____周年。

13. 写出下列三段文字所描述的"他"分别是谁。（3 分）

（1）他是 18 世纪意大利著名作家，曾在中国的元朝做过官。他被称在中国的见闻，口述成的一本书，在欧洲广为流传，激起了欧洲人对东方的憧憬和向往。（　　）

（2）他是一位人民音乐家，他和田汉创作的《义勇军进行曲》极大地鼓舞了中国人民的救战斗志；成为不朽的民族战歌，后被定为《中华人民共和国国歌》。（　　）

（3）他曾领三考人民观看各斗，使点考黄官落后的由脱开始往变；他廉洁奉公、勤政为民，在刑生命的最后一息，被称为"基委者记的好榜样"。（　　）

三、判断辨析题（本题 5 分，每空 2 分）

14. 18 世纪下半叶到 20 世纪初，伴随着近代历程，从经济、政治到思想文化，中国进行了一场深刻的社会变革。是班同学准备编排一出反映上述主题的历史课本剧。为了增强演员的感性认识，学校资料室提供了：

此为试读，需要完整PDF请访问：www.ertongbook.com