四川省高考自主命题研究组 编

天府

新高考

四川省高考自主命题研究组
特别推荐

2006年四川省高考将首次自主命题。面对这一巨大变化，全省老师和学生都期盼相应的复习资料及有关信息。基于此，全国中小学教辅"航空母舰"——龙门书局组织四川部分知名教师分析四川命题走向和课改趋势，为四川"量身定做"了《天府新高考》系列复习资料。

该丛书由总复习和诊断卷两个系列组成。先期推出的诊断卷是严格按四川省高考复习方式、进程（零诊、一诊、二诊、三诊、猜题、押题）和考试要求编写，分期滚动推出，使考生能通过分期训练检测，逐渐贴近新高考，进入较好的临考状态。所附《高考信息快递》为考生及时传递最新高考信息、复习方法、应试策略、心理调适、解题技巧等方面的内容。希望《天府新高考》的出版能为广大考生提供一套及时、高效的好书好卷。

点拨解题技巧·传递高考信息

诊断测试·准确·及时·有效

ISBN 7-5088-0980-7
9 787508 809809 >

ISBN 7-5088-0980-7
总定价：40.00元

四川省高考自主命题研究组 编 2006

赠送高考信息快递

四川名校联盟押题卷

天府（专用）新高考

6号卷

把握高考自主命题方向

权威的阶段性复习检测

★ 权威经典

展现四川高考状元辅导教师最新教研成果

★ 命题研究

凝聚四川100多位专家的命题思路

★ 实战演练

根据高考阶段性复习要求和检测需要精心编题

文科综合

龍門書局
www.Longmenbooks.com

版权所有　翻印必究

举报电话:(010)64034160,13501151303(打假办)
邮购电话:(010)64034160

图书在版编目(CIP)数据

天府新高考(6号卷).四川名校联盟押题卷.文科综合/四川省高考自主命题研究组编;丁永华,程文亮,吴胜华,陈胸怀本册主编.—北京:龙门书局,2006
ISBN 7-5088-0980-7

Ⅰ.天…　Ⅱ.四…　Ⅲ.①丁…②程…③吴…④陈…　Ⅳ.文科(教育)-课程-高中-习题-升学参考资料　Ⅴ.G634

中国版本图书馆 CIP 数据核字(2006)第 032789 号

责任编辑:王　敏　徐正芬
封面设计:郭　建

龙门书局 出版
北京东黄城根北街16号
邮政编码:100717
http://www.longmenbooks.com.cn
双青印刷厂 印刷
科学出版社总发行　各地书店经销

2006年4月第一版　开本:1/8(787×1092)
2006年4月第一次印刷　总印张:26
印数:1—10 000　总字数:832 000

总定价:40.00元
(如有印装质量问题,我社负责调换)

目　录

2006 高考文科综合押题卷一 …… (1)
2006 高考文科综合押题卷二 …… (5)
2006 高考文科综合押题卷三 …… (9)
2006 高考文科综合押题卷四 …… (13)
2006 高考文科综合押题卷五 …… (17)
2006 高考文科综合押题卷六 …… (21)
2006 高考文科综合押题卷七 …… (25)
2006 高考文科综合押题卷八 …… (29)
参考答案与解析 …… (33)

本册主编　丁永华　程文亮　吴胜华　陈胸怀
本册编委　万国平　徐　艳　祝玲英　罗华荣　彭西骏
黄建平　彭或涛　范劲松　杨行彪　崔焰军

2006高考文科综合押题卷一

（满分300分，考试时间150分钟）

姓名：__________ 班级：__________ 学号：__________ 分数：__________

第Ⅰ卷（选择题 共140分）

本卷共35小题，每小题4分，共计140分。在每小题列出的四个选项中，只有一项是最符合题目要求的。

国家海洋预报台2006年2月8日的海冰警报显示：受寒潮影响，渤海辽东湾海冰增长迅速，未来几天，受大范围降雪和大风降温的共同影响，渤海辽东湾海冰范围将达到80～90海里（注：1海里＝1.852公里），一般平整冰厚15厘米～25厘米，最大冰厚45厘米。海冰将对港口航运、海上交通运输和生产作业产生严重影响。据此回答1～2题。

1. 我国下列港口，受海冰影响较小的是 （ ）
A. 大连 B. 天津 C. 秦皇岛 D. 连云港

2. 近年来我国的科学工作者大胆提出了将海冰作为淡水资源开发利用的设想，关于该设想的说法，错误的是 （ ）
A. 可以缓解环渤海地区水资源紧缺的压力 B. 比海水淡化的成本低
C. 可以减轻海冰带来的危害 D. 海冰直接融化就可以使用，技术难度较小

读"我国某山地等高线图"（图1-1），回答3～5题。

3. 下列现象可信的是 （ ）
A. b、c的相对高度为500米 B. b点能看到m点 C. mn为空中索道 D. a地可能形成瀑布

4. 此地区植被类型属于 （ ）
A. 常绿硬叶林 B. 落叶阔叶林
C. 针、阔混交林 D. 常绿阔叶林

5. 从地理环境的整体性分析，下列地理现象中与图示区域自然景观相符的是 （ ）
A. 气候干旱、风沙危害严重 B. 流水作用微弱、物理风化剧烈
C. 气候湿润、流水侵蚀显著 D. 植物茂盛、土壤有机质含量高

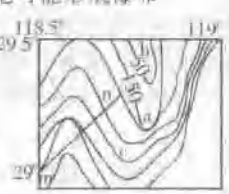

图1-1

下面是内蒙古赤峰地区某村土地利用类型与民族构成变化表。据此回答6～7题。

年份	草地	耕地	林地	荒地	蒙古族	汉族
1820	60%	5%	10%	25%	90%	10%
1950	40%	45%	5%	10%	50%	50%

6. 从文化景观顺应自然发展的规律看，该村最理想的文化景观应是 （ ）
A. 草原牧场 B. 丘陵梯田 C. 旱作耕地 D. 水田耕地

7. 从表中可以看出，该区域文化景观形态的改变，其影响因素主要是 （ ）
A. 耕作技术 B. 生产、生活方式 C. 自然环境 D. 军事因素

当副高西伸北移，其高压脊延伸到我国大陆时，读图1-2回答8～9题。

8. 下列叙述正确的是 （ ）
A. 韩国济州岛和日本东京出现梅雨天气
B. 北京进入雨季
C. 长江中下游地区进入梅雨季节
D. 高压脊线附近有冷暖气流汇合，经常出现降雨天气

9. 此时我国北方地区易出现的天气现象是 （ ）
A. 干旱 B. 台风
C. 暴雨 D. 沙尘暴

图1-2

2005年11月7日，缅甸新闻部长觉山准将表示，缅甸正将首都从仰光迁往位于内地的彬马那，彬马那位于仰光以北320千米丛林中。读材料和缅甸略图（图1-3），回答10～11题。

图1-3

10. 关于缅甸的叙述，正确的是 （ ）
A. 是我国的陆上邻国，与我国云南和西藏接壤
B. 流经境内的萨尔温江上游在我国称澜沧江
C. 所在半岛的地形以平原为主
D. 原来的首都仰光位于湄公河三角洲上

11. 缅甸迁都彬马那的原因是 （ ）
①原首都仰光地处沿海，会因海平面的上升而被淹没
②仰光是港口城市，迁都彬马那将使首都更安全
③彬马那位于热带雨林区，水资源丰富
④彬马那位于缅甸中部，迁都到此有利于和其他地区的联系
⑤彬马那地处落后地区，迁都到此可以加快该地区经济发展
A. ①②③ B. ①④⑤
C. ②③④ D. ②④⑤

行政制度事关国家统一，历代统治者都非常重视行政制度的建设。据此回答12～13题。

12. 以下有关地方行政制从分封制→郡县制→行省制的演变的说法，正确的是 （ ）
①都发生了行政方式的变化 ②都是一种制度创新 ③都发生了管理原则的改变 ④都对中国历史产生了深远影响
A. ①②③ B. ②③④ C. ①②④ D. ②④

13. 以下有关古代中央机构的说法，正确的是 （ ）
①秦御史大夫的主要职能是秘书，监察只是兼职 ②元中书省职权与秦丞相相同 ③清军机大臣与宋参知政事的职权有相同之处 ④元宣政院与清理藩院行使相同职权
A. ① B. ①② C. ①②③ D. ①②③④

民谣与谚语往往是对社会现实的某种反映。据此回答14～16题。

14. 中国古代谚语曰："千年田，八百主。"造成这种现象的根本因素是 （ ）
A. 土地兼并现象严重 B. 土地买卖频繁
C. 商品经济发展 D. 土地私有合法化

15. "开封城，城摞城，地下埋有几座城。"对应这首开封民谣的古代城市有 （ ）
A. 长安 临安 B. 大梁 东京 C. 中都 应天 D. 逻些 兴庆

16. "苏湖熟，天下足"的谚语最能反映的是 （ ）
A. 北宋商品经济的发达 B. 南宋时期全国经济重心的南移
C. 明朝资本主义的萌芽 D. 清朝农产品的商品化程度提高

实现或维护统一，是一个国家或民族的头等大事。据此回答17～19题。

17. 1662年，郑成功收复台湾；1683年，施琅进军台湾。下列评述正确的有 （ ）
①都有利于巩固清朝海防 ②都有利于维护中华民族的利益 ③都具有反侵略的性质 ④都促进了台湾的开发
A. ①② B. ①③ C. ③④ D. ②④

18. 1858年林肯说："分裂之家不能持久，我相信我们的政府不能永远忍受一半奴役一半自由的状况。我不期望联邦解散。它或者将全部变成一种东西，或者全部变成另一种东西。"这充分说明 （ ）
A. 林肯认为国家统一是最高利益
B. 林肯为了实现统一准备向南方妥协
C. 林肯认为统一不必讲究形式
D. 林肯为了实现统一准备向奴隶制发起进攻

19. 推动德意志、意大利实现统一的根本动力是 （ ）
A. "铁血政策" B. 人民起义
C. 民族民主意识觉醒 D. 工业革命和资本主义经济的发展

古代文明的传承有着多种多样的载体。据此回答20～21题。

20. 古人将写有公文和信件的竹简或木牍用绳索捆扎起来，在绳索结束处用胶泥包裹并在封泥上打上印章，图1-4是打上"齐宫司函"字样的封泥。下列说法错误的是（　　）

图1-4

A. 这一封泥有利于公文信件内容的保密，这是先人们智慧的结晶

B. 这种印章与封泥的并用，乃我国古代印刷术发明的前奏

C. 从其用途内容和字样来看，很有可能是汉代的文物

D. 汉代不会有"齐宫"，这很有可能是战国时期的文物

21. 以下诗句能反映出外来文化对我国古代建筑有重要影响的是（　　）

A. 武帝祠前云欲散，仙人掌上雨初晴　　B. 汉文皇帝有高台，此日登临曙色开

C. 请易大名匾宇宙，宗臣遗像肃清高　　D. 南朝四百八十寺，多少楼台烟雨中

国际组织是国际关系发展的结果，同时又对国际关系的发展起着重要的作用。据此回答22～23题。

22. 联合国自成立以来，在防止大规模战争冲突方面发挥了一定的作用，但在解决一些重大危机时却又往往不被重视，起不到应有的维护世界和平的作用，如2003年美英绕过联合国发动对伊拉克的战争。这说明（　　）

A. 国际法没有普遍的约束力

B. 霸权主义是破坏国际秩序、危害世界和平的主要因素

C. 联合国在霸权主义和地区冲突面软弱无力

D. 建立国际政治经济新秩序是解决和平与发展问题的惟一途径

23. 欧盟、北美自由贸易区、亚太经合组织等国际组织的建立表明（　　）

A. 世界经济全球一体化已经完成　　B. 世界政治格局多极化已经实现

C. 世界经济多极化格局已经形成　　D. 不结盟运动得到进一步加强

从2005年1月1日起，实行了40年的全球纺织品配额体制宣告结束，全球纺织品贸易真正步入一体化。我国政府将主动采取征收出口关税等措施。据此回答24～26题。

24. 2005年纺织品出口关税征税方案中，政府按照量能负担的原则设置税率，既要达到规收对出口产品的调节作用，又要考虑企业的承受能力。这要求（　　）

①一切从实际出发　②重视量的积累　③坚持适度原则　④不失时机地促成事物的飞跃

A. ①②　　B. ③④　　C. ②④　　D. ①③

25. 我国政府主动采取征收出口关税的措施，这表明（　　）

A. 我国一贯坚持和平共处五项原则　　B. 我国对外开放的程度还在大大地加快

C. 我国在国际社会中一向是负责任守信用的　　D. 我国坚持独立自主的和平外交政策

26. 我国对部分纺织品加征出口关税（　　）

①有利于优化我国纺织品出口结构　②不利于提高我国纺织品国际竞争力　③有利于增加财政收入　④不利于提高我国纺织品的质量

A. ①②　　B. ①③　　C. ②④　　D. ②④

由于缺乏内在动力机制、缺乏外在载体和社会投资机制不健3个"瓶颈"的制约，我国高校虽然每年取得的科技成果在6000到8000项之间，但真正实现成果转化的还不到10%。据此回答27～29题。

27. 提高科技自主创新能力，重要的是要注重创新绩效，注重将科技创新成果转化为现实生产力。从哲学上看，这是因为（　　）

A. 认识的根本任务是获得理性认识　　B. 感性认识必须上升到理性认识

C. 实践是认识的最终目的　　D. 实践是检验认识正确与否的唯一标准

28. 由于受三个"瓶颈"的制约，我国高校科技成果转化率很低。从经济学来看，你认为造成这一事实的原因在于（　　）

①科技成果自身与市场脱节严重、缺乏成果转化时效性观念　②科技成果转化投入资金不足　③缺乏有效的技术市场中介和一批高素质的技术经纪人队伍　④缺乏合理的科学的科技成果评估标准和利益分配机制　⑤科技成果拥有者的观念没有转变

A. ①③④　　B. ①②③④　　C. ①②④⑤　　D. ①②③⑤

29. 从政治常识角度看，要推动科技成果向现实生产力转化率的提高，必须（　　）

A. 提高企业经营者的素质　　B. 加强市场意识、提高科技成果的自身质量

C. 加强政府的政策引导和扶持　　D. 建立风险投资机制、解决转化资金不足问题

党的十六届五中全会审议通过了《中共中央关于制定国民经济和社会发展第十一个五年规划的建议》。《建议》指出，要转变政府职能，加强政府的社会管理和公共服务职能，构建服务型政府。据此回答30～32题。

30. 要构建服务型政府的根本原因是（　　）

A. 政府自身建设的需要　　B. 适应我国社会主义市场经济发展的需要

C. 中国共产党的执政地位决定的　　D. 适应经济全球化发展的需要

31. 从政治学角度看，构建服务型政府必须（　　）

①对国家机构进行改革和调整　②行使国家直接管理经济的职能　③坚持依法行政　④深化行政管理体制改革，坚持依法执政

A. ①②　　B. ③④　　C. ①④　　D. ②④

32. 构建服务型政府必须推进政府管理方式和理念的创新。政府管理方式创新的哲学依据是（　　）

①世界是不断运动变化发展的　②要充分发挥人的主观能动性　③社会存在与社会意识总是同步发展的　④内外因辩证关系原理

A. ①②　　B. ③④　　C. ①③　　D. ②④

"十一五"时期，民主法制建设和精神文明建设要取得新进展，社会治安和安全生产状况进一步好转，城镇就业岗位持续增加，社会保障体系比较健全，构建和谐社会取得新进步。据此回答33～35题。

33. 构建社会主义和谐社会、同建设社会主义物质文明、政治文明、精神文明是有机统一的。具体表现在（　　）

①通过发展社会主义社会的生产力来不断增强和谐社会建设的物质基础　②通过发展社会主义民主政治来不断加强和谐社会建设的政治保障　③通过发展社会主义先进文化来不断巩固和谐社会建设的精神支撑　④通过和谐社会建设来为三个文明建设创造有利的社会条件

A. ①②③④　　B. ①②④　　C. ①②　　D. ①

34. 社会保障体系是测节个人收入差距的重要手段。要健全失业保障制度和城市居民最低生活保障制度，确保国有企业下岗职工基本生活费和离退休人员养老金按时足额发放。调节收入差距的目的在于（　　）

A. 实现社会公平、维护社会稳定　　B. 使人民群众同时富裕起来

C. 提高就业率和劳动效率　　D. 使一部分人、一部分地区先富起来

35. 陶潜在《咏贫士》里说："贫富常交战"，贫与富是一对古老的矛盾。在我们建设社会主义和谐社会的今天，我们应该谋求共富。贫与富的矛盾处理得好，国泰民安，欣欣向荣；处理得不好，危机四伏，民怨四起。这一认识蕴涵的哲理是（　　）

A. 事物矛盾的双方各有其特点　　B. 事物的发展是前进性与曲折性的统一

C. 意识能够正确地反映客观事物　　D. 矛盾双方依据一定的条件相互转化

第Ⅱ卷(非选择题　共160分)

本卷共4小题，共160分。认真阅读图文材料，按要求回答相关问题。

36.（35分）阅读下列材料，回答问题。

北京、南京和上海都是我国著名的城市。南京是我国第十届运动会的主会场；2008年北京将要承办第29届奥运会；2010年上海将要承办"世博会"。如何促进城市的进一步发展成为它们面临的共同课题。下面表格中的数据分别是三个城市各月的气温和降水资料。

城市		1月	2月	3月	4月	5月	6月	7月	8月	9月	10月	11月	12月
A	气温	1.8	4.5	6.8	13.5	17.8	22.4	27.9	28.2	22.8	18.1	12.5	5.8
	降水	42	65	78	108	116	154	142	107	152	45	57	38
B	气温	−3.8	−1.3	3.2	14.2	19.4	24.8	27.1	24.9	19.2	13.1	3.5	−2.1
	降水	2.3	3.3	3.7	12.4	21.2	68.5	196	345	65.2	11.8	3.2	2.6
C	气温	4.2	3.6	7.3	14.7	18.2	23.5	29.1	23.6	21.3	16.8	10.7	3.9
	降水	28	38	83	89	101	147	82	73	125	81	42	31

(1) 表中与北京、上海所对应的气候资料分别是_____、_____（填字母代号）。(6分)

(2) 北京和南京都是千年古城，上海的历史虽然只有百余年却一跃成为中国第一大城市。促使北京、南京经久不衰的有利因素是_____，促进上海后来居上的因素很多，最有利的是_____。(8分)

(3) 当前北京和南京的城建工作主要是加强老城区的改造，这就产生了文物保护与城市现代化之间的矛盾。例如，对北京的胡同，应该拆还是留？请谈谈你对这一问题的认识。(8 分)

(4) 上海市的主要目标在于浦东新区的开发，1990 年开始启动。请问开发浦东有何意义？(8 分)

(5) 冬天来了，滑雪成为许多人喜爱的一项户外运动。据报道，北京有 17 家利用人造雪而运营的滑雪场，请从资源利用的角度分析这种做法的利与弊。(6 分)

37.(32 分)阅读下列材料回答问题。

材料一 有人认为，《联合国成立之初》《联合国宪章》是一部美国的文献。……实际上美国有"隐蔽"的否决权，华盛顿运用它的多数席位可使控制票数不足的美新科屡次行使的否决权归于无效。

材料二 早在 20 世纪 60 年代，非洲和亚洲的成员国已经占有联合国大会过半数的席位。美国失去了原先能够组成的对付苏联的多数。第三世界国家尽管奉行不结盟政策，但却百般挑剔美国，他们大多数一贯在所有的问题上投票反对美国。

——R. 帕尔默《现代世界的历史》

材料三 由于美国等的百般扭挽，中国在联合国的代表权问题一直到 1971 年第 26 届联合国大会时才解决。中国恢复在联合国的合法席位后，美国驻联合国大使不得不承认，这是联合国历史上的转折点。

材料四 图 1-5 为《八国角逐安理会常任席位》

图 1-5

请回答：

(1) 材料一的说法正确吗？结合史实说明其原因。(8 分)

(2) 根据材料二分析 20 世纪 60 年代联合国的作用有何变化？(2 分)这一变化的原因是什么？(4 分)

(3) 材料三中，如何理解中国恢复在联合国的合法席位，被认为是联合国"历史上的转折点"？(6 分)

(4) 你怎样看待今后联合国的作用？(4 分)当前八国角逐安理会常任理事国席位反映了联合国在发展中的什么问题？(4 分)

(5) 你同意日本成为安理会常任理事国吗？(2 分)并简单阐述理由。(4 分)

38.(32 分)阅读下列材料回答问题。

材料一

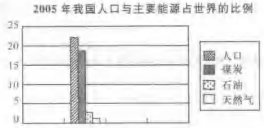

图 1-6

注：近 20 年来，我国能源消耗增长率是世界平均增长的近 3 倍。2005 年单位能耗(每公斤标准煤消耗)产生的 GDP 世界平均值是 1.86 美元，我国是 0.87 美元。

(1) 材料一(含注)反映了什么经济现象？(5 分)

材料二 随着我国能源压力日益加大，将变性燃料乙醇和汽油按比例调配成的车用燃料，正在全国试点推广。转化乙醇不但可以解决我国大量的陈化粮，而且可以提高综合效益。据测算，平均每 3.3 吨玉米可生产 1 吨燃料乙醇，0.95 吨蛋白饲料，0.95 吨二氧化碳和 87 公斤玉米油……同时可使汽车尾气中一氧化碳等污染物的排放减少 40%。但生产成本较高是主要困扰因素之一，随着试点期结束后，国家政策补贴力度的减弱，以及粮食价格上涨等影响，燃料乙醇生产企业必将承受更大的压力。

(2) 结合材料二简要分析我国推广使用乙醇汽油的经济意义。(9 分)

(3) 运用哲学常识有关知识，结合材料二说明提高企业经济效益与保护资源环境的关系。(9 分)

试读结束，需要全本PDF请购买 www.ertongbook.com

材料三 十届全国人大四次会议通过的《十一五规划纲要》指出，"十一五"时期经济社会发展的主要目标之一是资源利用效率显著提高。单位国内生产总值能源消耗降低20%左右，单位工业增加值用水量降低30%，农业灌溉用水有效利用系数提高到0.5，工业固体废物综合利用率提高到60%。2006年3月5日，国务院总理温家宝在十届全国人大四次会议上作的《政府工作报告》中指出，2006年国民经济和社会发展的主要预期目标之一是国内生产总值增长8%左右，单位国内生产总值能耗降低4%左右。

(4) 结合上述材料，分析政府在降低能耗中应发挥怎样的作用？（9分）

39.（60分）阅读下列材料回答问题。

材料一 农业、农村和农民问题是关系现代化建设全局的根本性问题。建设社会主义新农村就是把农业和农村工作放在现代化建设全局的更加突出的位置。

(1) A地区是我国重要的商品粮基地，试评价该地农业的发展条件。（8分）

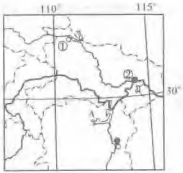

图1-7

(2) 威胁A地区农业生产的主要自然灾害是什么？试分析A地区多此灾害的原因。（8分）

(3) ①城市的主导工业已有一部分转移至②城市，试分析影响其转移的原因。（4分）

材料二 元朝时期，有民谚曰"湖广熟，天下足"。

材料三 据历史资料统计，明以前、洞庭湖区水灾平均83年一次，明代后期平均20年一次。……长江在晚清时期（1840年到1912年），总共浸没30次左右。考究以闻庭湖地区、江汉平原、长湖地区等为最巨，一般年份受涝田亩均在千万亩以上。

——黄书铎《中国社会通史》

材料四 洞庭一湖为川黔楚赣水之总汇……滨湖居民狃于目前之利，围垸圩田，侵占湖地，而地方官又贪吝钱息，不行禁止。若湖地渐就湮塞，则夏秋水发之时势必漫衍中决，为泽国四萨之患，便成跨州通邑所在海漫……

——《清高宗圣训》卷131

材料五 岁费五六百万金，然实用工程者什不及一，余悉以供官吏之挥霍、河帅宴客，一席所费，有能三四筵，五十余豚，鹅掌猩脑无数，……骄奢淫逸，一至于此，而于工程方略，无讲求之者。

——《清史纪事本末》卷45

(4) 根据材料二，洞庭湖流域在元朝时期成为重要的产粮区，试分析其历史原因。（6分）

(5) 根据材料三，概括明清时期我国洞庭湖地区水灾所呈现的趋势。（2分）

(6) 根据材料四、五，简析洞庭湖地区水灾发生的人为因素。（6分）

(7) 根据你对水灾成因的分析，提出治理水患的建议。（6分）

材料六 "生产发展、生活宽裕、乡风文明、村容整洁、管理民主"，朝鲜溥用这短短20个字概括出"建设社会主义新农村"的内涵。国内外观察家对此评论说，这不仅勾勒出一幅令人向往的现代化的美丽图景，也契合中国传统文化对于乡村社会的想像。2006年3月14日，国务院总理温家宝在回答中外记者提问时说，建设社会主义新农村的着眼点是发展现代农业，提高农业的综合生产能力。我们之所以提出要加强农村基础设施建设和农村各项社会事业的发展，就是为了改善农民的生产和生活条件。

(8) 运用所学知识分析如何实现"农业生产发展和农民生活富裕"？（10分）

材料七 湖北的"武汉城市圈"，湖南的"长株潭一体化"，河南的"中原城市群"，山西的"太字形经济带"，安徽的"带状都市圈"，江西的"对接长珠闽"，这些是中部六省立足省情发挥区位优势的发展思路。发挥中心城市功能，以中心城市的现代化力增长极，形成辐射功能强的城市经济圈，带动区域经济发展，是各国经济发展的普遍趋势。

(9) 从唯物论、辩证法角度，说明上述材料给我们的哲学启示。（10分）

2006 高考文科综合押题卷二

（满分 300 分，考试时间 150 分钟）

姓名：_____　班级：_____　学号：_____　分数：_____

第Ⅰ卷（选择题　共 140 分）

本卷共 35 小题，每小题 4 分，共计 140 分。在每小题列出的四个选项中，只有一项是最符合题目要求的。

图 2-1 为一次岛屿。读图完成 1～4 题。

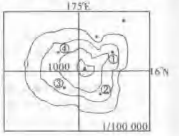

图 2-1

1. 组成该岛的岩石主要是　（　）

A. 花岗岩　　B. 玄武岩

C. 石灰岩　　D. 大理岩

2. 图中年降水量最多的地点是　（　）

A. ①　　B. ②　　C. ③　　D. ④

3. 图示范围内，海水盐度由海岛近岸向外围海域递增，原因是　（　）

A. 降水影响　　B. 气温影响

C. 洋流影响　　D. 径流影响

4. 该岛宜建成　（　）

A. 瓜果蔬菜生产基地　　B. 热带作物种植基地

C. 海上航运给养基地　　D. 海底石油开采基地

下表为部分地区工业用水比较表。读表回答 5～7 题。

	水价（元/吨）	有效利用率（%）
广州地区	0.3	33
京津地区	1.6	52
日本东京	14	87

5. 该表说明　（　）

A. 东京的水资源最紧缺　　B. 我国水资源污染程度低于日本

C. 低水价是水资源浪费的重要原因　　D. 我国的节水技术与意识强于日本

6. 我国南方地区水价低于北方地区的主要原因是　（　）

A. 北方地区经济发展速度快，需水量太大　　B. 北方地区降水量较小，水资源短缺

C. 北方地区水污染比南方地区更严重　　D. 北方地区人口数量大于南方地区

7. 构建节约型社会成为"十一五"规划的重要任务。下列做法与此相违背的是　（　）

A. 完善再生资源回收利用体系

B. 努力发展循环经济，实行清洁生产

C. 应用现代科技改善生产条件，提高资源利用率

D. 大力发展传统工业和粗放农业

全球最大的信息产业制造商之一——美国微软公司投资中国北京。读图 2-2 回答 8～11 题。

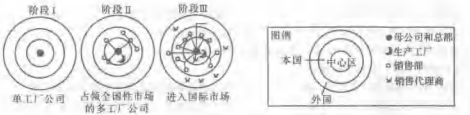

图 2-2

8. 微软公司投资中国建子公司，其主要因素是　（　）

A. 知识与技术　　B. 市场　　C. 交通　　D. 生产协作

9. 微软仅用了 20 年时间完成了汽车行业、钢铁工业近百年的财富积累，其主要原因是　（　）

A. 管理优势　　B. 经营优势　　C. 知识和技术　　D. 市场优势

10. 该该公司企业扩张示意图（图 2-2），其企业不断发展的主要原因是　（　）

A. 市场占有率不断扩大　　B. 生产规模不断扩大

C. 生产技术不断提高　　D. 运输成本不断降低

11. 该公司生产的产品在占领全国市场的过程中，先占领大城市后占领中小城市和乡村，这种销售策略属于　（　）

A. 传染扩散　　B. 等级扩散　　C. 刺激扩散　　D. 迁移扩散

改革促进历史的发展，历代改革虽不完全相同，但都给人们留下了丰富的遗产，成或功的经验，或失败的教训。据此回答 12～15 题。

12. 商鞅遭车裂而其法不废，王安石不遭刑但其法废而永不再用。出现这种局面的根本原因是　（　）

A. 商鞅变法为时较长百姓认同，而王安石变法为时短暂百姓不认同

B. 秦处于上升阶段而宋处于下降时期

C. 商鞅变法彻底而王安石变法不彻底

D. 商鞅变法适合当时历史发展需要而王安石变法不完全合于当时实际

13. 历史上许多改革，往往因专注救治前期制度之弊，忽视新创制度存在的潜在危害而给后世带来严重社会问题。以下各项改革能突出说明这一点的是　（　）

①宋军事改革　②宋财政改革　③王安石募役法　④商鞅按军功授爵　⑤唐实行募兵制改革

A. ①②③　　B. ①②④　　C. ①②⑤　　D. ③④⑤

14. 制度创新与改革往往促进社会发展，国家强盛，以下曾一度发挥过这种作用的制度创新与改革是　（　）

①西周分封制　②三省六部制　③宋太祖军制　④猛安谋克制　⑤八旗制

A. ①②③④　　B. ①②③⑤　　C. ②③④⑤　　D. ①②④⑤

15. 中国古代和世界近现代都很注意用权力制约权力，以下关于隋唐三省制中的三省职权牵制与监督和孟德斯鸠三权分立中的三权制约最根本的不同是　（　）

A. 三权内容不同　　B. 制约方式不同

C. 本质目的不同　　D. 对社会影响不同

武装干涉中国革命和扶植代理人是列强对华进行政治控制的惯用技俩。据此回答 16～18 题。

16. 武昌起义后，列强的政策很快由武装干涉转变为"严守中立"，导致这一变化的决定性因素是　（　）

A. 列强之间步调不能形成一致　　B. 袁世凯已经控制中国政局

C. 革命形势发展超出列强意料　　D. 革命派承认不平等条约继续有效

17. 国民大革命时期，帝国主义干涉中国革命的方式有　（　）

①支持北洋军阀进攻革命政权　②制造惨案，阻止革命发展　③趁中国内战，派兵占领中国大片领土　④扶植新代理人，分化革命阵营

A. ①②④　　B. ②③　　C. ①③④　　D. ①②

18. 九一八事变后，有一幅"穿和服的巨人，抱着一个戴眼镜的小孩"的漫画。这幅漫画所表示的内容是　（　）

A. 美蒋亲密关系　　B. 日本与汪伪政权的亲密关系

C. 日蒋亲密关系　　D. 日本帝国主义与伪满洲国的关系

中国的农民阶级是中国近代政治发展的重要力量。据此回答 19～20 题。

19. 有人说太平天国运动开启了近代中国民主革命的序幕，得出这一结论的依据是　（　）

A.《天朝田亩制度》的颁布　　B.《资政新篇》的提出

C. 要求推翻清朝的封建专制统治　　D. 同时进行了反封建反侵略的斗争

20. 毛泽东在《湖南农民运动考察报告》中说："孙中山先生致力国民革命凡四十年，所要做而未做的事，农民在几个月内

做到了。"这里所说的"事"指的是 （　　）

A. 基本上推翻了北洋军阀的统治　　B. 废除封建剥削的土地制度

C. 乡村的民主势力打倒了封建势力　　D."打土豪，分田地"

当今世界格局的发展呈现出全球化、多元化的发展方向。据此回答 21～23 题。

21. 两极格局瓦解对中国最有利的影响是 （　　）

A. 给中国经济的发展提供了宽松的环境　　B. 中国对国际战略平衡的影响比过去增强

C. 有利于中国走社会主义道路　　D. 西方国家放弃了对中国的"和平演变"战略

22. 20 世纪 80 年代以来，亚太经合组织、北美自由贸易区、欧洲联盟等相继成立，这一现象主要表明 （　　）

A. 世界经济全球化加强　　B. 世界经济区域集团化趋势加强

C. 世界经济集团相互依赖程度加深　　D. 世界形势的总趋势走向缓和

23. 美国前总统克林顿说："毕竟我们是世界上惟一的超级大国，我们必须领导革命……建立一个按美国价值标准建立的世界新秩序。"原国务卿克里斯托夫说："冷战的结束正在使美国的领导作用比以往任何时候都重要。"以上材料说明 （　　）

A. 世界呈现多极化趋势

B. 苏联的解体使美国步入全盛时期

C. 反对霸权主义强权政治，仍是当前世界面临的十分艰巨的任务

D. 世界需要建立一个符合美国利益的新秩序

有"百里画廊"美誉的广西漓江是桂林山水的精华所在，更是桂林旅游的"黄金水道"。据此回答 24～26 题。

24. 漓江每年都要吸引数以百万计的中外游客，这说明 （　　）

A. 旅游资源的开发利用有利于促进经济增长

B. 第三产业的发展应作为国民经济的重中之重

C. 消费对生产具有反作用

D. 旅游业可以有效地吸引国内外资金

25. 然而过度地开发导致了漓江严重缺水，要改善这种状况，根本的办法就是"以自然之道，还自然之身"。这体现了 （　　）

A. 实践决定认识　　B. 规律具有客观性，应按规律办事

C. 自然界的存在和发展是客观的　　D. 人的认识是变化发展的

26. 面对景区被人为破坏的状况，有的游客提出旅游应该："带走的只有照片，留下的只有脚印。"这说明了 （　　）

A. 国家的社会公共服务职能　　B. 依法治国应该与以德治国相结合

C. 公民应该树立可持续发展的生态价值观　　D. 公民的道德素质比其他素质更重要

阅读右边漫画（图 2-3）。据此回答 27～28 题。

27. 漫画反映的现象，从哲学上看 （　　）

A. 体现了错误的意识对事物发展的阻碍作用

B. 重视了意识能动作用的发挥

C. 违背了从实际出发、实事求是的根本要求

D. 侵犯了国家和集体的利益

图 2-3

28. 解决上述现象，从哲学角度看，关键是要 （　　）

A. 克服错误的思想意识，树立正确的政绩观

B. 坚持一切从实际出发，做到主观与客观相符合

C. 完善政绩考核办法，严肃查处弄虚作假行为

D. 正确地发挥意识的能动作用必须要尊重客观规律

时下，不少农民在种植品种的选择上，有两种选择，要么今年市场上什么价钱高明年就种什么，类似"刻舟求剑"；要么不管市场如何变化就抱定一个品种，好比"守株待兔"，因为没有人能告诉他们种什么赚钱。据此回答 29～30 题。

29. 农产品种植中的"刻舟求剑""守株待兔"两种选择，从哲学角度看，所犯的共同错误是 （　　）

A. 不承认相对静止的存在，认为事物的运动是没有规律的

B. 夸大了意识的能动作用，陷入了唯心主义的泥潭

C. 忽视了科学理论的指导作用，实践活动缺乏目的性

D. 违背了从实际出发，主观与客观具体的历史的统一的要求

30. 从经济学角度看，解决材料中农民遇到的困难，最重要的是 （　　）

A. 要提高农业劳动者的素质，树立市场意识

B. 发挥政府宏观调控的作用，制定科学具体的农业种植计划

C. 政府要加强对农民的信息服务，引导农业生产

D. 建立农产品最低收购价保护制度

"葬我于高山之上兮，望我大陆。大陆不可见兮，只有痛哭。葬我于高山之上兮，望我故乡。故乡不可见兮，永不能忘。"分析国民党元老于右任在临终前写的这首哀歌。据此回答 31～33 题。

31. 维护国家统一和民族团结是每个公民应尽的义务。这是因为 （　　）

①国家统一和民族团结是全国各族人民的共同愿望和最高利益　②国家统一是实现公民的政治权利和其他权利的重要保证　③民族团结和民族凝聚力的强弱是衡量一个国家综合国力的标志之一　④在我国，公民的权利和义务是统一的

A. ①②③　　B. ①②④　　C. ①③④　　D. ②③④

32. 2005 年春节以来，台湾农产品在上海等地俏销，台农收益颇丰。两岸经济存在很强的互补性，但由于没有实现"三通"，两岸贸易成本加大，在一定程度上削弱了产品在对方市场上的竞争力，限制了两岸经贸的进一步发展。这表明 （　　）

A. 台湾农产品更有市场竞争力　　B. 两岸实现"三通"有利于资源的优化配置

C. 农业生产必须坚持以市场为导向　　D. 市场经济具有开放性、竞争性

33. "度尽劫波兄弟在，相逢一笑泯恩仇。"中国共产党总书记胡锦涛在北京人民大会堂会见了中国国民党主席连战一行时指出：虽然我们两党目前还存在一些分歧，但只要我们双方都能够以中华民族的根本利益为重，以两岸同胞的福祉为重，就一定能够求同存异，共同开创美好的未来。材料中的"求同存异"体现的哲理有 （　　）

①对立统一的观点　②整体和部分的关系　③普遍性和特殊性的关系　④内因和外因的关系

A. ②③　　B. ①②③　　C. ①③　　D. ①③④

国家主席胡锦涛在发表题为"努力建设持久和平、共同繁荣的和谐世界"的重要讲话时，阐述了"和谐世界"的新理念。据此回答 34～35 题。

34. 对胡主席提出的"和谐世界"的理解，正确的是 （　　）

①它是和平共处五项原则在新时期的发扬光大　②它体现了我们始终不渝地奉行独立自主的和平外交政策　③它倡导建立更加公正合理的国际新秩序　④它有利于世界的和平、稳定、发展和国际关系的民主化

A. ①③④　　B. ①②④　　C. ②③④　　D. ①②③④

35. "和谐世界"体现的辩证法道理是 （　　）

①事物是普遍联系的　②事物是变化发展的　③物质和意识的辩证关系　④事物都是一分为二的

A. ①②④　　B. ②③④　　C. ①③④　　D. ①②③

第Ⅱ卷（非选择题　共 160 分）

本卷共 4 小题，共 160 分。认真阅读图文材料，按要求回答相关问题。

36. （36 分）读图 2-4，回答问题。

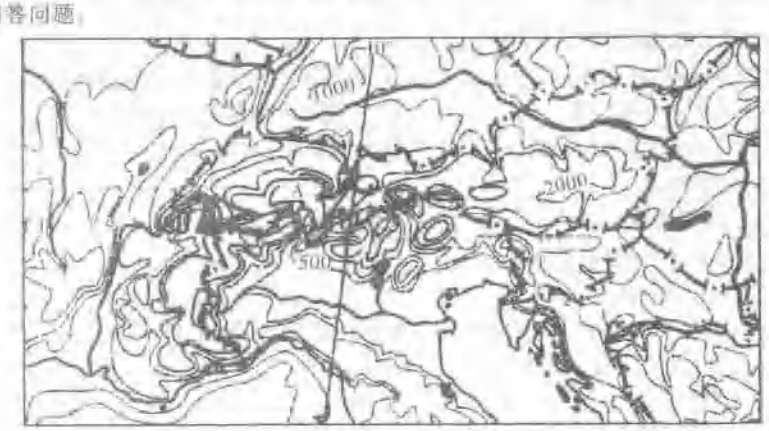

图 2-4

(1) 图示A山脉呈_____走向，该山脉对当地西风气流有何影响？(6分)

(2) A山脉南北坡相比，目然带较复杂的是_____坡，主要原因是_____。(6分)

(3) 图中南部海域是_____，试预测该海域面积将不断_____，原因是_____。(8分)

(4) 图示南部沿海地区的植被类型是_____，其树皮厚，叶质硬的原因是_____。(6分)

(5) 该区域旅游业发达，试分析其旅游业发展的有利条件。(10分)

37. (32分)阅读下列材料回答问题。

材料一 1998年发达国家跨国公司的对外直接投资达5947亿美元，在世界对外直接投资中的比重是82%，同期，发达国家吸引对外直接投资达到4804亿美元，占全球引进外资的比重是72%。……美国《商业周刊》根据上市公司股票的市值排列出1999年全球1000家市场价值最高的公司，其中美国为494家，比1998年增加19家，比1990年增加170家。1998年世界盈利最多的10家大跨国公司中，美国占了8家。

材料二 花旗银行1990年资产总额为2306亿美元，在同旅行者集团合并后，1999年达到6686亿美元。波音公司和麦道公司合并前，1990年波音公司的资产只有120亿美元，合并后1999年达到366亿美元。波音公司兼并麦道公司后在美国飞机制造行业已无竞争对手。人们认为美国正在出现"新垄断经济"。据统计，在1985年到1995年间在美国正式登记注册的联合研究机构有575家，大公司如通用汽车公司，IBM和AT&T公司是多个研究项目的参与者，由于它们的业务是多元化的，并参与许多产品的联合研究与开发，这就为它们在许多领导垄断市场提供了机会。

材料三 "全球化是发达国家用来打开发展中国家市场的'敲门砖'，是新殖民主义的一种形式，因此发展中国家应该团结起来，抵制全球化。"

——摘自江学时《发展中国家怎么办——拉美国家的实践》

请回答：

(1) 根据材料一，归纳指出当前跨国公司投资的特点是什么？(6分)世界经济全球化的实质是什么？(2分)

(2) 分析材料二，概括当今跨国公司为加强垄断和国际竞争力而采取的两种形式是什么？(6分)

(3) 通过以上材料，分析指出跨国公司建立战略伙伴关系的目标是什么？(8分)

(4) 材料三的观点对吗？(2分)作为发展中国家，我国要如何应对？(8分)

38. (32分)阅读下列材料回答问题。

材料一 "十五"时期中国进出口贸易总额(单位：亿美元)

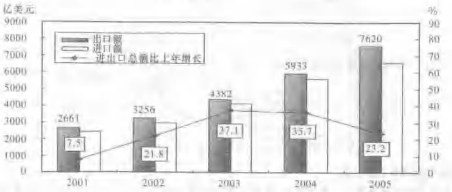

图2-5

注：我国2005年全年进出口总额14221亿美元，从2004年起，就成为仅次于美国、德国的世界第三贸易大国。

材料二 近年来不同技术含量的产品在我国出口总额中所占比重(%)

图2-6

注：2005年，我国高新技术产品贸易实现了三个"首次"突破：一是全年进出口额首次突破四千亿美元，达到4159.6亿美元；二是全年出口首次迈上两千亿美元台阶，达到2182.5亿美元；三是全年出口占全国外贸出口的比重首次跨越28%的门槛，创38.6%的历年新高。

材料三 不同国家和地区高新技术产品出口占出口总值的比重(《科学决策》2006年02月05日)

国家	新加坡	马来西亚	美国	英国	韩国	日本	中国
比重	69%	66%	45%	41%	39%	37%	28%

注：我国对外贸易面临问题：一是出口产品技术创新能力弱，出口产品多属于层次较低、缺少知识产权的低端产品；二是一些国家动用知识产权，动植物检查检疫，质量技术标准，反倾销等多种手段抵制中国产品的进入。

(1) 材料一、二、三分别表明了什么经济现象？(9分)

(2) 用经济常识有关知识说明材料一、二经济现象的原因。(6分)

(3) 结合材料一、二、三用有关哲学知识说明怎样实现从贸易大国到贸易强国的飞跃。(8分)

(4) 结合材料三运用政治常识说明我国为什么必须拥有自主知识产权的高新技术产品？(6 分)

(5) 材料一、二、三是怎样体现矛盾分析法的？(5 分)

39. (60 分)阅读下列材料回答问题。

材料一 长江三角洲城市圈以上海为核心，联合周边江、浙两省的苏州、无锡、常州、扬州、南京、南通、镇江、杭州、宁波、绍兴、舟山、湖州等城市组成，面积 10 万平方千米，人口超过 7240 万，经济总量约为 12000 多亿元。长三角城市圈的形成，除其区位优势外，更有着历史的因素。

(1) 中国古代这一地区就出现了众多的工商业发达的城市。试以唐、南宋、元、明清时期有关城市发展的史实加以说明。(8 分)

(2) 近代史上，长江三角洲有许多城市很早就被辟为通商口岸。两次鸦片战争期间，这一城市圈中被迫对外开放的城市有哪些？(2 分)

(3) 随着对外通商兴起，长江三角洲地区成为中国近代企业和民族工商业发展最早的地区之一。试举出近代前期在上海创办的著名官办和商办企业。(2 分)

(4) 一战期间，长江三角洲地区成为民族工业发展的中心之一。这一时期民族工业发展最快的行业是什么？(2 分)在这一地区创办企业的著名企业家有哪些？(2 分)

(5) 改革开放以来，党和国家采取了哪些有针对性的，有利于长江三角洲城市圈形成的重大举措？(4 分)

材料二 被列为世界第六大城市群的“长三角”城市群是以上海为龙头，加上浙江北部、江苏中南部 15 个城市所组成的城市带。

图 2-7

(6) 图 2-7 中 A 城市是我国历史上著名的“米市”，试分析其形成条件。(6 分)

(7) 图 2-7 中 B 城市近年来吸引外资增长十分迅速，试分析其地理因素。(6 分)

(8) 影响正在建造的杭州湾跨海大桥建设的不利自然因素有哪些？杭州湾跨海大桥的规划建设表明影响交通区位的决定性因素是什么？(8 分)

材料三 2005 年 10 月 22 日，国家统计局公布了全国百强县(市)社会经济综合发展指数最新测算结果：从地区分布来看，百强县中有 46 个县属于长三角地区，15 个县属于珠三角地区。充分的市场竞争极大地促进了“长三角”“珠三角”经济的发展。

(9) 为什么充分的市场竞争极大地促进了“长三角”“珠三角”经济的发展？(8 分)

材料四 “长三角”“珠三角”经济领先的奥秘在于：第一，充分的市场竞争。“长三角”“珠三角”人善于抓住市场机制这只“看不见的手”，努力挖掘其源源不绝的能量。第二，文化支持经济发展。通过文化搭台，经济唱戏，文化撑起了经济的“半边天”。第三，政府的推动。通过制定法规、政策和合理规划，增强了经济活力和发展后劲；通过基础设施建设的投入，为经济发展创造了良好的环境；通过政策引导和扶持，调动起了民间资本的投资热情。

(10) 分析“文化支持经济发展”的哲学道理。(6 分)

(11) 运用政治常识说明，政府是怎样推动经济发展的。(6 分)

2006 高考文科综合押题卷三

（满分 300 分，考试时间 150 分钟）

姓名：_____　班级：_____　学号：_____　分数：_____

第Ⅰ卷（选择题　共 140 分）

本卷共 35 小题，每小题 4 分，共计 140 分。在每小题列出的四个选项中，只有一项是最符合题目要求的。

图 3-1 是我国某地区等高线图（图Ⅰ）及该地区气温曲线、降水柱状及径流补绘图（图Ⅱ）。读图完成 1～3 题。

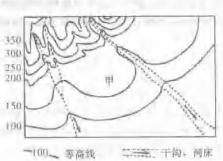

图Ⅰ

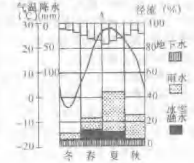

图Ⅱ

图 3-1

1. 图Ⅰ中甲处地貌类型是　（　）

A. 喀斯特地貌　B. 冲积扇　C. 新月形沙丘　D. 火山口地貌

2. 该地区可能位于　（　）

A. 塔里木盆地边缘　B. 黄淮海平原　C. 四川盆地　D. 河西走廊

3. 甲处农业发展主要的障碍是　（　）

①冬春降水少　②冬季气温低　③红壤分布　④夏季汛期短，易产生洪涝　⑤海拔高，气温低，热量不足

A. ①③④　B. ②③④　C. ③④⑤　D. ①②③

2005 年 11 月 13 日，吉林省中石油吉林石化分公司发生爆炸起火事故。由于措施不力，爆炸化合物及其次物质流入松花江中，导致松花江段出现特大污染，并不断向下游蔓延。读图 3-2，回答 4～6 题。

图 3-2

4. 下列关于松花江流域内容的说法，正确的是　（　）

A. 流域地跨黑龙江与辽宁两省

B. 干流流经两个全国性的商品粮基地

C. 其上游段是鸭绿江

D. 流域内全部是肥沃的黑土

5. 此次污染事故将带来的不利影响是　（　）

A. 使东北石油工业发展的步伐放慢　B. 使凌汛情况进一步加剧

C. 沿岸著名的"雾凇"景观不再出现　D. 造成沿岸湿地生态环境严重破坏

6. 此次污染事故后俄国政府主动向国际环保组织通报并引起其高度的重视，原因主要是　（　）

A. 污染程度较大，影响范围较广，治理需要国际环保组织的指导和帮助

B. 污染物将随西北风进入俄罗斯、日本等国，需要国际环保组织的监督

C. 松花江流域内有许多国际环保组织的项目分布，污染将对这些项目产生严重影响

D. 因为愈向下游俄罗斯境内的污染将愈重，可能引起国际纠纷，需要国际环保组织协调

图 3-3 是 2005 年夏季袭击美国的飓风"卡特里娜"活动路径图。读图 3-3 回答 7～8 题。

图 3-3

7. 飓风　（　）

A. 中心最大风力在 6 级或以上

B. 会诱发地震和海啸

C. 形成在太平洋附近洋面上，中心气压极低

D. "卡特里娜"为逆时针向中心辐合的大旋涡气流

8. 从"卡特里娜"活动路径分析，"卡特里娜"对中国经济的最大冲击可能是　（　）

A. 海上运输中断　B. 能源价格上涨　C. 海水污染加重　D. 保险赔偿巨大

中国既是能源生产大国，又是消费大国，但每吨标准煤的产出效率仅相当于日本的 10.5 %，欧盟的 16.8 %，美国的 28.6 %。读中国和世界能源消费结构（煤、石油、天然气和其他能源，见图 3-4），回答 9～11 题。

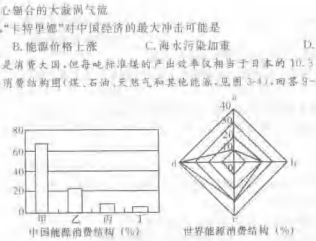

图 3-4

9. 在甲、乙、丙、丁各种能源使用过程中，其产生的气体对矮牵牛叶片伤害最严重的是　（　）

A. 甲　B. 乙　C. 丙　D. 丁

10. 中国能源消费中，目前需要大量进口的能源在两图中是指　（　）

A. 乙、b　B. 丁、c　C. 乙、d　D. 丙、d

11. 我国能源产出效率低的主要原因是　（　）

A. 能源消费结构不合理　B. 多高能耗、低产出的工业

C. 管理不善、浪费现象严重　D. 工业布局不合理

历代都重视法制建设，但不同的时代又各有侧重。据此回答 12～14 题。

12. 朱元璋说："治治乱世，用不得不重，治治平世，刑自当轻，所谓刑罚世轻世重也。"这句话传达出的信息有　（　）

①法律可以随意轻重　②法律是维护统治的手段　③政治的主体是君主　④法律轻重受社会形势制约

A. ①②③　B. ②③④　C. ①②④　D. ③④

13. 对"除国君外，无论贵贱，一律要受法的约束，'法不阿贵'"这句话的理解最为准确的是　（　）

A. 在法律面前人人平等　B. 为了维护人民的权利合法贵族特权

C. 为了维护君主专制否定贵族特权　D. 以法行政，建立法治国家

14. 以下关于《大明律》的有关规定，属于法制建设进步表现的是　（　）

①最则"重其重罪，轻其轻罪"　②增加经济立法　③设置大逆罪　④规定贵族大臣的封建特权　⑤对贪污贿赂罪

试读结束，需要全本PDF请购买 www.ertongbook.com

严惩不贷

A. ①②　　B. ①②③④　　C. ①②④⑤　　D. ①②③④⑤

我国历代中央政府重视与边疆地区的联系。据此回答15～17题。

15. 中国古代设置管理机构，对新疆地区进行有效管理的朝代有　（　）

①西汉　②东汉　③唐朝　④清朝

A. ①②③　　B. ①③④　　C. ①②④　　D. ①②③④

16. 明清两代加强对西藏地区管辖的突出特点是　（　）

A. 封赐成册封宗教领袖　　B. 实行郡司制度

C. 设置官政院，管理宗教事物　　D. 大量移民，开发西藏

17. 元朝疆域空前辽阔，最南端到达了南海诸岛。南海诸岛在当时称为　（　）

A. 千里长沙　　B. 万里长沙　　C. 千里石塘　　D. 万里石塘

与西方国家相比，中国的政治现代化进程有其独特的路径和个性化的特征。据此回答18～20题。

18. 与西方国家民主政治的发展趋势相比，中国的政治现代化历史表现出　（　）

A. 得到充分的实践和发展　　B. 确立了成熟的资产阶级民主政治

C. 民主革命完成的时间长　　D. 跳跃式的政治发展趋势

19. 1912年《申报》载："就大多数国民之心理观之，则共和政体之发生，乃仍据于事实，而非根本之原理。"这反映出辛亥革命后　（　）

A. 民主共和的观念深入人心　　B. 民主共和的意识淡薄

C. 对共和政体的肯定　　D. 对共和政体的否定

20. 影响20世纪上半期中国政治现代化道路的政治因素有　（　）

①民族工业短暂春天的到来　②帝国主义对代的到来　③苏俄十月革命的影响　④民主共和的思潮

A. ①②③　　B. ②③④　　C. ①③④　　D. ①②③④

世界许多国家在经济发展中适时调整政策，取得成效。据此回答21～23题。

21. 在英国工业革命进程中，亚当·斯密发表《国富论》，主张实行　（　）

A. 国家垄断资本主义　　B. 重商主义

C. 国家干预经济　　D. 自由经营，自由竞争和自由贸易

22. 资本主义发展在早期是放任自由，国家极少干预经济，资本主义发展到"一战"后，特别是"二战"后，国家对经济的干预越来越多。对此理解正确的是　（　）

A. 早期自由放任政策不适应生产发展，国家干预经济是必然

B. 资本主义经济自由放任政策是必然的，国家干预经济是暂时的

C. 自由放任和国家干预经济是资本主义发展不同时期的需要

D. 经济政策需遵循经济规律，是统治阶级利益的集中表现

23. 资本主义经济结构在19世纪中期、19世纪末20世纪初经历过两次大调整，这两次调整的共同影响是　（　）

A. 促进资本主义制度的完善　　B. 引发工业革命的兴起

C. 推动民族解放运动高涨　　D. 推动世界大战爆发

随着我国现代化建设的发展，城市建设的不断加快，新的城市如雨后春笋般出现在神州大地上，于是在新城与旧城的关系上引起了许多的争论。据此回答24～25题。

24. 一些历史文化名城折旧建新，结果却失去了老城原有的特色和韵致；而新兴的城市又以大广场和"火柴盒式"的塔楼为基本格局，单调雷同，缺乏文化意蕴。以下理解正确的是　（　）

A. 新兴城市代替老城市说明了新事物战胜旧事物

B. 新兴城市取代老城是现代化的标志

C. 改造老城市是一种破坏，所以不应该改建

D. 老城改建应遵循继承与发展相协调的原则

25. 中国的许多老城在当初选址上是很讲究的，一般都依山傍水；城市布局也是依势随形，追求人工与自然的协调。如泉城济南的老城，南依千佛山，市内泉群广布，汇入大明湖，形成"四面荷花三面柳，一城山色半城湖"的独特景观。材料中追求人与自然的协调体现于　（　）

①发挥主观能动性与尊重客观规律的关系　②事物是普遍联系的　③物质决定意识，一切要从实际出发　④其实旧事物当中有不少还是属于新事物

A. ②③④　　B. ①②③　　C. ④　　D. ②③

一位哲学家曾做过这样的比喻：政治是骨骼，经济是血肉，文化是灵魂。当前我国各地都将发展文化产业作为先进文化建设的一项重要举措。据此回答26～28题。

26. 日趋激烈的市场竞争越来越突出文化的重要性，文化建设的发展也有利于促进商品和各种要素的充分竞争。充分的市场竞争能够　（　）

①促进商品生产者竞相提高劳动生产率　②有利于形成优胜劣汰的市场环境　③使商品的价格不断低于价值

④确保企业经济效益的提高

A. ①　　B. ①②　　C. ①②③　　D. ①②③④

27. 文化产品作为特殊属性的商品，区别于一般商品，其价值取向必须符合先进文化的前进方向，给人以知识与智慧、纯洁与高尚，鼓舞与激励。这种商品的特殊属性是指　（　）

A. 商品的交换价值属性　　B. 商品的价值属性

C. 商品的使用价值属性　　D. 具有文明的品格和意识形态的属性

28. 文化的多样性为人类文明的发展提供了资源保证和文化创新的原动力。经济全球化对各民族文化产生了巨大冲击，但不可能消灭它们之间的差异，地球不会因为成为"地球村"而拥有完全一致的价值观。这说明　（　）

A. 文化作为民族共同心理素质的载体具有稳定性

B. 文化是识别和划分民族的基本依据

C. 民族文化是民族共同经济生活的精神面貌上的反映

D. 民族是历史上形成的稳定的人们共同体

关税和非关税壁垒是衡量一个国家市场开放度的主要标志。加入世贸组织以来，中国已先后4次对关税进行大幅度削减。目前，关税总水平已经从加入世贸组织前的15.3%降到9.9%，预期达到10%以下水平的目标。其中，中国工业品关税为9.3%，农产品平均税率降至15.3%，远远低于世界平均水平。据此回答29～30题。

29. 上述材料表明　（　）

①我国积极履行入世承诺　②我国是负责任的国家　③我国市场经济体制逐渐完善　④世贸组织自由贸易原则适合于每个国家

A. ①②　　B. ②④　　C. ①③④　　D. ②③④

30. 征收关税　（　）

A. 能实现限制进口，保护国内市场的目的　　B. 会减少国家财政收入

C. 能有效调节我国进出口贸易　　D. 能确保我国民族工业不再受损害

我国海洋面积广阔，是一个海洋资源十分丰富的国家，如何科学利用海洋资源是一个意义十分重要的课题。据此回答31～33题。

31. 利用海洋资源，必须把海洋资源的开发与保护结合起来。这蕴含的哲学道理是　（　）

A. 矛盾是对立统一的　　B. 人与自然总是和谐统一的

C. 意识对物质具有促进作用　　D. 任何事物之间都存在客观联系

32. 为保护海洋资源，避免海洋环境污染和生态破坏，近年来我国政府开展了一系列行动。这主要表明　（　）

A. 依法治国是我国人民治理国家的基本方略　　B. 国家在履行保卫职能

C. 国家是人民利益的捍卫者、执行者　　D. 国家在履行社会公共服务职能

33. 保护和节约海洋资源，我们必须　（　）

①实行有利于能源资源节约的财税制度　②实现经济增长方式由粗放型到集约型转变　③加强国家对海洋资源的宏观调控　④认真落实科学发展观

A. ①②③④　　B. ①②③　　C. ②③④　　D. ①②③④

阅读漫画（图3-5），据此回答34～35题。

34. 漫画中的卖房者　（　）

A. 坚持了一切从实际出发的原则

B. 在错误价值观指导下作出了错误的行为选择

C. 是唯心主义的典型代表

D. 应加强爱国主义思想教育

图3-5

35. 几年来，我国有上亿亩耕地被占用，其直接后果是造成了数千万徘徊在城市边缘的"失地大军"。确保国家粮食安全刻不容缓。确保国家粮食安全实现的关键性因素是（　　）

A. 走城镇化道路，从农村中分离出更多的人进入城市

B. 依靠科技，提高粮食的综合生产能力

C. 大力增加粮食的种植面积

D. 依靠国家大量的投入

第Ⅱ卷(非选择题　共160分)

本卷共4小题，共160分。认真阅读图文材料，按要求回答相关问题。

36.（36分）读图3-6完成下列问题。

图3-6

(1) A地区是世界上荒漠化最严重的地区之一，其主要原因是_____。（4分）

(2) B洋流的名称是_____，按成因类型分类，属于_____。（6分）

(3) C国城市主要分布在_____（地形区），其原因是_____。（6分）

(4) D所在区域农业地域类型是_____，影响其分布的区位因素是_____。（6分）

(5) D所在国家二战后人口迁移的主要方向是_____，其原因是_____。（6分）

(6) E海域大约每隔3至5年便发生一次厄尔尼诺现象，它对该海域沿岸国家的气候和渔业生产有何影响？_____。（4分）

(7) 近几年，F地附近居民深受太阳紫外线辐射的危害，皮肤癌、白内障等疾病患者增多，其主要原因是_____。（4分）

37.（22分）阅读下列材料回答问题。

材料一　1913年7月1日，上海《时报》发表的《考师范之是话》一文中，刊载了这样一条消息：江苏第一师范学校举行一次有300多名中小学生（应考者）参加的问卷调查，要求学生列举出自己崇拜的人物。调查统计结果如下：

被崇拜者	孔子	孟子	孙中山	颜渊	诸葛亮　范仲淹	岳飞
崇拜人数	157	61	19	11	8	7

被崇拜者	王守仁	太祖、朱熹、李盛柳等	程穆堂	苏轼、康有为、袁世凯等	司马迁、蔡伯喈、梁启超等	无崇拜者
崇拜人数	6	4	3	2	1	23

材料二　1923年12月17日北京大学25周年纪念集会上民意测验的部分结果（被调查者1000人）

调查问题	调查结果
1. 下列各种方法，你以为哪种可以救国？（军阀割据、外国共管、国民革命）	国民革命723票，外国共管10票，军阀割据10票
2. 俄国与美国，谁是中国之友？	俄国407票，美国107票
3. 你心目中，国内或世界大人物，是哪几位？	世界大人物：列宁229票，威尔逊37票 国内大人物：孙中山473票，陈独秀175票，梁元培159票

——摘自张静如等《中国现代社会史》

(1) 在1913年革命风气强盛的江苏，为什么中小学生中对孔子和孟子的崇拜远远大于对孙中山的崇拜？试结合所学知识加以说明。（8分）

(2) 有人说，材料一的某些调查结果显示了新旧社会交替的现象，请举两例加以说明。（4分）

(3) 材料二的统计结果反映了20世纪20年代人们对中国时局的基本看法。请任选二个问题，根据调查的基本结论，对其进行原因分析。（12分）

(4) 结合上述材料概括民国初期我国主流民意的发展趋势及其原因。（8分）

38.（32分）阅读下列材料回答问题。

2003年我国GDP总量与世界全员劳动生产率、产业结构、单位GDP资源消耗情况

GDP总量	全员劳动生产率情况(美元/人)	三大产业结构	单位GDP资源消耗	投资率	消费率
117 252亿元(人均GDP首次突破1000美元)	中国:1427 美国:45234	中国(22.3∶50.1∶27.7)发达国家平均(3.8∶27.2∶69)	我国万元GDP总能耗是发达国家的3～6倍	中国为42.7% 世界平均不超过30%	中国为37% 世界平均约80%

(1) 简要回答图表反映的经济现象及对我国经济发展产生的影响。（10分）

(2) 2006年3月14日，十届全国人大四次会议审议通过了《国民经济和社会发展第十一个五年规划纲要》。《纲要》指出，建设资源节约型、环境友好型社会是"十一五"期间的重大战略目标，到"十一五"末，单位GDP能耗要下降20%左右。根据图表所显示的信息，联系我国经济发展的实际，提出建设资源节约型、环境友好型社会的主要经济措施。（15分）

(3) 运用国家履行经济职能知识，谈谈政府应如何建设资源节约型、环境友好型社会？（7分）

39.（60分）阅读下列材料回答问题。

材料一 1973年10月，中东战争爆发，阿拉伯石油输出国组织决定立即把对美国等支持以色列进行侵略的国家的石油供应量逐月减少5%，还决定率方面把原油标价提高70%，不久，又相继宣布对美国等国家实现禁运。

材料二 1973年中东石油革命爆发后，美国政府不得不宣布处于"紧急状态"，并采取一系列节油和限电的紧急措施。如实行石油配给，限制航班和车速，限制户外灯光广告，甚至连白宫和联合国大厦周围的电灯也限时关掉。美国国防部正常石油供应几乎有一半中断，美国在欧洲的驻军和地中海的第六舰队不得不动用战时石油储备。

材料三 1973年，中东国家实行石油"禁运政策"，使得90%以上的石油靠中东进口的日本遭受重大打击，日本派遣三木副总理访问阿拉伯各国，表示要"靠近阿拉伯"，日本还发表公开声明，表明了与美国支持以色列政策不同的立场。

（1）根据材料一，概括中东石油国家利用石油作为武器的手段有哪些？（4分）

（2）分析1973年石油危机发生的原因和实质？（8分）

（3）中东石油国家同西方国家的石油斗争给世界政治经济带来了什么影响？（8分）

材料四

西亚局部地区略图

图3-7

（4）甲地的气候类型是_____，乙地的自然带类型是_____。（6分）

（5）丙海峡处海水主要是由_____（海域）流向_____（海域）。从该海峡经过的船只运输的物资主要是_____。（9分）

（6）该地区经济发展面临的最大问题是什么？可以采取哪些措施？（5分）

材料五 通常情况下，商品的价格是由价值决定并受供求关系的影响。但是，石油作为一种特殊商品，其价格波动受多种因素影响，其中包括：一是全球经济强劲增长引起的心理因素影响。随着全球经济强劲增长，对石油的需求量也在增加。二是主要产油区局势动荡的影响。中东地区特别是沙特和伊拉克政治形势恶化，成为油价攀升的主要原因。三是投机炒作的影响。在国际石油期货交易中，约70%的交易属于投机炒作，这是导致油价大涨大落的重要原因之一。四是政策因素的影响。20世纪70年代至80年代初，遭受两次"石油冲击"后，发达国家采取了一系列对策和措施，导致油价大幅度回落。近两年，美元贬值损害了石油输出国利益，因此欧佩克调整油价及产量甚至某种暗示，都能引起油价的大幅度波动。油价的上涨对世界经济影响是显而易见的。国际货币基金组织分析，每桶油价在一年内上涨15美元，将使世界经济增长率减少1个百分点。但是各国各地区经济受油价上涨的影响是大不相同的。如果每桶油价维持在40美元与维持在28美元相比，2005年美国经济增长率将减少0.2个百分点，欧元区将减少0.3个百分点，日本将减少0.5个百分点。

（7）上述材料包含了哪些哲学道理？（8分）

（8）运用经济常识的有关知识，请你为我国提高对油价波动的承受和应变能力提出几条合理化建议。（12分）

2006 高考文科综合押题卷四

（满分 300 分，考试时间 150 分钟）

姓名：_____ 班级：_____ 学号：_____ 分数：_____

第Ⅰ卷（选择题　共 140 分）

本卷共 35 小题，每小题 4 分，共计 140 分。在每小题列出的四个选项中，只有一项是最符合题目要求的。

1. 图 4-1 是庐山 1997 年旅游客源地的空间分布示意图。图中数字为各客源地人数占总游客数的百分比，t_1 为庐山所在位置。对庐山旅游消费市场空间分布特点的分析，正确的是（　　）

①长江中下游地区的客源数量多，约占来庐山旅游总人数的 50%

②从 $t_0 \to t_1 \to t_2$，来庐山旅游的人数总体上随距离增加而减少

③庐山以东地区的旅游消费市场大于庐山以西地区

④庐山旅游消费市场均匀地分布在以 1000 千米为最优吸引半径的范围内

A. ①②　　B. ①③

C. ②④　　D. ③④

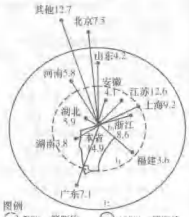

图 4-1

2. 咸潮发生时，长江口以东海区海水的实际盐度最可能是图 4-2 中的哪条曲线（　　）

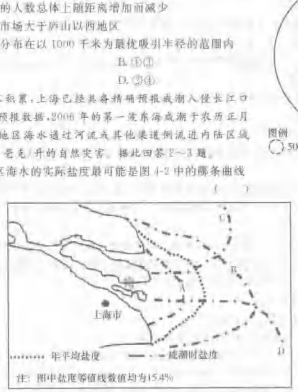

图 4-2

3. 2006 年 1 月 20 日，某报以"珠三角咸潮敲响警钟　水资源大省竟然也叫'渴'"为题，报道了珠江受严重咸潮威胁。以下描述中，可成为珠江咸潮成因的是（　　）

①南粤大地的干旱　②珠江流域内水库下泄流量增加　③全球工业生产排放出大量的温室气体以及森林植被的逐渐恢复　④天文潮水的顶托作用　⑤禁止开采地下水，多用河水作为城市水源　⑥离岸风的吹拂

A. ②③⑤　　B. ②③⑥　　C. ①④⑤　　D. ①③④

2005 年 11 月，我国某石油公司与沙特（张三区）签订 30 万吨原油订购合同，合同要求原油在当地时间 2005 年内从波斯湾沙特港口运出。如果运输船队从上海港口出发往返时间共为 26 天 12 小时，分析后完成 4～5 题。

4. 如果船队往返时间相同，且不计装油时间，那么船队从上海港出发的时间最迟为（　　）

A. 12 月 5 日 17 时　　B. 12 月 5 日 11 时　　C. 12 月 18 日 17 时　　D. 12 月 18 日 23 时

5. 对船队往返途中的叙述恰当的是（　　）

A. 沿途经过香港、新加坡、科伦坡附近海域　　B. 返回途中长时间顺洋流航行

C. 经过了台湾海峡、马六甲海峡、曼德海峡　　D. 经南海时可能遇台风

图 4-3 为 a、b、c、d 四种地理要素百分比的坐标示意图。读图回答 6～8 题。

6. 如果线一中 a、b、c、d 分别代表我国某自然村的四种主要农产品（依次为乳产品、玉米、蔬菜、棉子）占该村农业总产值的比重，那么影响该村农业地域类型的主要因素是（　　）

A. 政策　　B. 市场

C. 交通　　D. 气候

7. 2005 年 1 月 7 日温家宝总理在视察深圳时指出，深圳应注重加快产业结构优化升级，大力发展高新技术产业、现代服务业。如果 a、b、c、d 分别代表资金密集型、知识密集型、资源密集型、劳动力密集型工业产值占深圳市工业总产值的百分比，那么符合深圳市以后发展方向的产业结构应是（　　）

A. 线一代表的产业结构　　B. 线二代表的产业结构

C. 线三代表的产业结构　　D. 以上都不是

8. 如果 a、b、c、d 分别代表资金、知识、资源、劳动力四要素对工业区位的影响程度，则线一代表的工业部门最可能是（　　）

A. 纺织工业　　B. 电子工业

C. 钢铁工业　　D. 飞机制造业

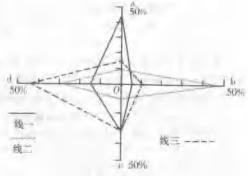

图 4-3

读下列四幅经纬网图（图 4-4），据此回答 9～11 题。

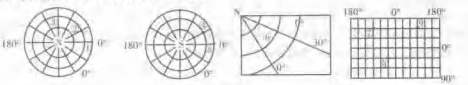

图 4-4

9. ①～⑩各地，地理坐标相同的是（　　）

A. ①③⑤　　B. ②④⑦　　C. ④⑥　　D. ③⑨

10. 关于图中各地的比较，正确的是（　　）

A. ①地地球自转角速度比②地大　　B. ⑦地日出总比⑧地早

C. ④地地方时总比⑤地晚　　D. ④地所在海区盐度比⑤地所在海区低

11. 关于图中各地的判断，正确的是（　　）

A. ①地所在海区盛行季风洋流　　B. ⑥地附近是世界最长河流入海处

C. ⑤地附近分布着世界著名的大堡礁　　D. ⑩地位于我国最大平原上

中国古代思想家通过著书立说来阐述自己的观点，留下了丰富的精神财富。据此回答 12～15 题。

12. 战国时期，孟子发展了孔子的学说，政治上主张实行"仁政"。孟子"仁政"学说产生的社会基础是（　　）

A. 战国时期地主阶级势力还比较强大　　B. 大一统是当时历史发展的趋势

C. 战国时期生产力发展　　D. 民心向背在战国争雄中的反映

13. 明末清初，批判君主专制制度，反对"人治"、提倡"法治"的进步思想家是（　　）

A. 李贽　　B. 黄宗羲　　C. 顾炎武　　D. 王夫之

14. 以下有关魏源所著的《海国图志》说法不正确的是（　　）

A. 介绍了西方国家的一些历史地理知识　　B. 主张以法治国

C. 其"师夷"思想为后人继承并发扬光大　　D. "大大开阔了人们的眼界

15. 在维新变法期间，梁启超提出："变法之本，在育人才；人才之兴，在开学校；学校之立，在变科举；而一切要其大成，在变官制。"它的思想核心是（　　）

A. "能变则全，不变则亡"　　B. "兴民权"

C. "废科举"　　D. 求"西学"

2005年是中国人民抗日战争和世界反法西斯战争胜利60周年。中国人民的抗日战争对世界反法西斯战争的胜利做出了巨大贡献。据此回答16～17题。

16. 从抗战爆发到1938年10月前，国民政府在正面战场组织了一系列会战，对这一时期国民政府抗战的正确认识是（　　）

①奋力抗战保住了西部国土　②推动了敌后战场的开辟　③打破了日本"三月亡华"的梦魇，迟滞了日军的侵略进程　④片面抗战导致丧师失地，一蹶千里

A. ①②③　B. ①②　C. ②③④　D. ①②④

17. 中国人民抗日战争的胜利，对于中华民族发展和世界文明进步都具有重大而深远的意义。具体表现在（　　）

①得卫了中国的国家主权和领土完整，使中华民族避免了遭受殖民奴役的厄运　②促进了中华民族的觉醒　③促进了中华民族的大团结，弘扬了中华民族的伟大精神　④鼓舞了被压迫、遭侵略的民族进行解放战争的信心和勇气

A. ①②③④　B. ②③　C. ①②④　D. ②③④

在社会主义阵营动荡、国际环境日趋复杂、国内发展困难重重的形势下，中国的社会主义制度经受住了严峻的考验，显示了强大的生命力。据此回答18～20题。

18. 苏联解体给我们提供了许多经验教训，其中包括（　　）

①必须正确处理经济体制与政治体制的关系　②必须实行高度集中的政治经济体制　③必须加强共产党的领导地位　④必须高度警惕西方的"和平演变"战略

A. ①②③④　B. ①④　C. ①③④　D. ③④

19. 我国在城市经济体制改革后实行以公有制为主，多种所有制经济并存的新体制，其根本原因是（　　）

A. 我国仍处于社会主义初级阶段，生产力水平不高且发展不平衡

B. 多种经济成分并存，相互竞争、优胜劣汰，才能使社会主义保持旺盛的生命力

C. 对外开放，引进外资的结果

D. 企业自主权的扩大

20. 下列各项中，属于十一届三中全会我乱反正措施的是（　　）

①果断地停止"以阶级斗争为纲"的错误方针　②把党和国家的工作中心转移到经济建设上来　③审查和解决党内一大批重大冤假错案　④总结和评定一些重要领导人的功过是非

A. ①②③　B. ②③④　C. ①③④　D. ①②④

中国古代许多科技成果透透超过欧洲，为世界文明的发展作出了杰出贡献。据此回答21～23题。

21. "如果以为选择原理是近代的发现，那就未免和事实相差太远。早在1300多年前，在一部中国古代《农业》百科全书中，就已有关于选择原理的明确记述"。英国生物学家达尔文所赞誉的这部中国古代的著名农书是（　　）

A.《梦溪笔谈》　B.《齐民要术》　C.《天工开物》　D.《农政全书》

22. 被称为"为资本主义世界的到来吹响了号角"和"水手之友"的发明分别是我国四大发明中的（　　）

A. 印刷术、造纸术　B. 指南针、造纸术

C. 火药、指南针　D. 火药、印刷术

23. 江泽民总书记在哈佛大学演讲时说："中国的历史文化始终处于发展进步之中。……也是通过同世界各国的相互学习而进步的。"可以证明这一论断的明确史实是（　　）

①伊斯兰教、基督教开始传入中国　②郑和下西洋与各国友好贸易　③玉米、甘薯等传入中国　④欧洲传教士带来了西方科学著作

A. ①②③　B. ①③④　C. ①②④　D. ②③④

近年来，一些地方和行业发生的多起重大特大安全事故，给人民生命财产造成严重损失。为遏制事故多发势头，我国政府采取了一系列严厉的措施。据此回答24～26题。

24. 要有效避免安全事故的频繁发生，就必须（　　）

①提高企业经营者的职业道德　②提高劳动者安全意识和责任意识　③加强对企业的技术改造和设备更新　④加快国家的立法步伐

A. ①②③④　B. ①②③　C. ②③④　D. ①②④

25. 针对有的企业"重生产，轻安全"的现象，某地政府提出了"安全生产是最大的经济效益"的口号，这一口号（　　）

①认为安全生产是提高企业经济效益的根本途径　②符合科学发展观的要求　③体现了以人为本的执政理念　④强调企业要以追求利润为目标

A. ①②④　B. ①②③　C. ①③　D. ②③

26. 2005年9月3日，国务院颁布《关于预防煤矿生产安全事故的特别规定》，对预防煤矿生产安全事故的发生实行更加严格的制度和更加严厉的措施。这体现了（　　）

A. 国务院是依法治国的主体　B. 国家机构是人民利益的捍卫者和执行者

C. 司法公正是公民合法权益的有效保证　D. 国务院是最高国家权力机关

GDP是世界通用的重要宏观经济指标。随着中国政府提出坚持以人为本，树立和落实全面、协调、可持续发展的科学发展观，片面追求GDP增长的发展模式开始从中国全面谢幕。据此回答27～28题。

27. 人均GDP不断攀升、就业目标超额完成、经济结构日益优化……经过5年的长足发展，"十五"计划中的五大预期目标均已基本或超额完成。宏观调控各项预期目标的顺利完成，表明（　　）

A. 宏观调控是社会主义市场经济的本质特征

B. 国家采取强有力的行政手段管理经济

C. 市场机制和宏观调控都是资源配置的手段

D. 党和政府驾驭市场的能力不断增强

28. 最近，东北三省提出了拒绝"黑色GDP"的响亮口号，浙江也开始从"成长的烦恼"中觉醒，探索出一条低耗、高效的发展路径。这体现了（　　）

①矛盾双方的转化是无条件的　②事物的发展变化都是从量变开始的　③创新就是要解放思想，实事求是，与时俱进　④认识在实践的基础上不断深化和向前推移

A. ①②④　B. ③④　C. ①③　D. ①③④

2006年3月5日，温家宝总理在十届全国人大四次会议作的《政府工作报告》中指出，建设社会主义新农村，是党的十六届五中全会提出的重大历史任务，事关全面建设小康社会和现代化建设全局。据此回答29～32题。

29. 建设社会主义新农村，必须摘好总体规划和具体部署，坚持规划先行，抓好试点示范，有步骤、有计划、有重点地逐步推进。从哲学上讲，这是因为（　　）

①矛盾的特殊性和普遍性是相互联系的　②实践是检验认识正确与否的唯一标准　③量变是质变的必要准备　④既要重视内因又要重视外因

A. ①②③④　B. ②③④　C. ①②③　D. ①③④

30.《政府工作报告》强调，要继续调整农业结构，多渠道增加农民收入。推进农业结构调整，转移农村富余劳动力，主要措施有（　　）

①将劳动力从种植业向林、牧、渔业转移　②积极发展农副产品加工、运输和销售等第二、第三产业　③推进农村劳动力向非农产业和城镇有序转移，多渠道增加农民收入　④将东部大批农村富余劳动力向西部农区迁移

A. ①②③　B. ①②④　C. ②③　D. ①②③

31.《政府工作报告》强调，建设社会主义新农村，必须加强农村基础设施建设。要加快农村道路、饮水、电网、通信等基础设施建设，水、路、电、信将逐步通到农民家。而这些都需要加大政府对农村的投入，这是因为（　　）

A. 提高农业占GDP的比重是我国当前经济工作的主要任务

B. 农业对国民经济的主导作用不容忽视

C. 增加对农村的财政支出能够缩小城乡差距

D. 发展农业、吸纳劳动力是解决我国就业问题的主要渠道

32. 2005年12月23日，温家宝主持召开国务院常务会议，决定从2006年开始，全部免除西部地区农村义务教育阶段学生学杂费，2007年扩大到中部和东部地区。2006年3月5日，温家宝总理在十届全国人大四次会议作的《政府工作报告》中宣布，我国将在两年内全部免除农村义务教育阶段学生学杂费。这一举措在于（　　）

A. 国务院是我国最高权力机关

B. 义务教育学杂费的免除是提高国民素质的根本途径

C. 国家机构在行使自身的职责和功能

D. 抓好农村义务教育已成为社会主义新农村建设的中心工作

在实施"中部崛起战略"的进程中，中部各省要根据自己的特点和优势来制定发展战略。据此回答33～35题。

33. 实施"中部崛起战略"是（　　）

①由我国社会主义的本质决定的　②搞好社会保障制度的客观条件　③统筹区域经济协调发展的需要　④由社会主义共同富裕的目标决定的

A. ①②③　B. ②③④　C. ①②④　D. ①③④

34. 中部各省要根据自己的特点和优势来制定发展战略。这样做的哲学依据主要是 ( )

①事物是普遍联系和变化发展的 ②量变到一定程度才能发生质变 ③要从实际出发，实事求是 ④矛盾具有特殊性，要具体问题具体分析

A. ①② B. ①③ C. ③④ D. ①②③④

35. 中部崛起要与西部大开发及振兴东北老工业基地结合起来，实行东中西互动，形成地区协调发展的新格局。这体现了 ( )

A. 事物之间相互影响，相互制约的关系 B. 联系构成运动、变化、发展

C. 矛盾双方在一定条件下相互转化 D. 两点论与重点论的统一

第Ⅱ卷(非选择题 共160分)

本卷共4小题，共160分。认真阅读图文材料，按要求回答相关问题。

36.(36分)读图4-5，回答有关问题。

(1) 图中甲山脉北坡生长着繁茂的森林，而南坡却很少，其主要原因是什么？(6分)

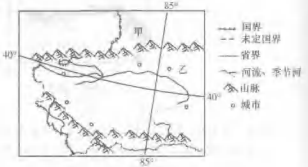

图4-5

(2) 图中乙河流的源头分别发源于哪里？该河的中、下游为什么没有支流汇入？(8分)

(3) 图示省区是我国重要的棉花生产基地，试分析该地区生产棉花的有利条件和主要制约因素。(8分)

(4) 图示省区也是我国重要的畜牧业基地，它与我国其他几个畜牧业基地相比较，最主要的特点是什么？(6分)

(5) 图示地区城市的分布有什么特点？主要区位因素是什么？为什么？(8分)

37.(32分)阅读下列材料回答问题。

材料一 1916年各省派遣留学欧美的留学生定额表

省份	定额	省份	定额	省份	定额	省份	定额
奉天	38	直隶	12	江西	21	广西	3
广东	30	山西	12	浙江	20	甘肃	1
江苏	25	安徽	12	四川	17	贵州	0
湖南	25	福建	10	云南	17	黑龙江	0
湖北	22	吉林	8	山东	15		
河南	21	陕西	8				

材料二 从1909年至1929年，清华留美生生源情况为：江苏274人，高居榜首，占21年派遣留学生总人数的21.53%。以下依次为广东185人、浙江157人、福建92人、河北81人。而甘肃、新疆、辽宁、吉林等省份，则寥寥无几。

——《清华大学史料选编》第1卷

材料三 胡适，这样热心倡导西化的人，在1914年的《留美学生年报》中居然发表了一篇《非留学篇》，发出这样的惊人之语："留学生，吾国之大贼也！留学者，过渡之舟楫而非敲门之砖也；留学者，费时伤财事倍功半也；留学者，救急之计而非远久之图也。"

材料四 "文革"结束以后，邓小平提出："中国要赶上世界先进水平，要从科学和教育着手，要扩大派遣留学人员"，"要成千成万地派，不是只派十个八个"，"教育部要研究一下，花多少钱都值得"。

材料五 1978年底，中国政府派出了首批赴美的50名留学生，赴在中美建交之前前往美国。从此，中国出现了历史上前所未有的留学大潮。一些媒体称："越来越多留学人员的回国，将成为中国改革开放的新动力。"

(1) 材料一、二反映了什么现象？(4分)试结合所学知识分析其原因。(12分)

(2) 结合背景，概括指出胡适和邓小平对留学问题产生不同认识的原因。(6分)

(3) 20世纪70年代以后"中国出现了历史上前所未有的留学大潮"的基本原因有哪些？(6分)有何意义？(4分)

38.(32分)阅读下列材料回答问题。

2006年3月3日，中共中央总书记、国家主席、中央军委主席胡锦涛在政协民盟民进联组会上关于树立社会主义荣辱观的讲话，在两会代表委员中产生热烈反响，纷纷表示：胡锦涛讲话中提出的"八个为荣，八个为耻"(以热爱祖国为荣、以危害祖国为耻，以服务人民为荣、以背离人民为耻，以崇尚科学为荣、以愚昧无知为耻，以辛勤劳动为荣、以好逸恶劳为耻，以团结互助为荣、以损人利己为耻，以诚实守信为荣、以见利忘义为耻，以遵纪守法为荣、以违法乱纪为耻，以艰苦奋斗为荣、以骄奢淫逸为耻)，全面阐述了树立正确价值观的具体要求，对明确是非、善恶、美丑界限，推动形成良好社会风气，具有重要的现实指导意义。

(1) 运用价值观、人生观的有关知识，谈谈你对社会主义荣辱观的认识。(12分)

试读结束，需要全本PDF请购买 www.ertongbook.com