编写及使用说明

作为新一轮高考改革的重要组成部分，新课标高考已进行了4年。新课标高考试题形式各有不同、风格各异，然而，不管新课标高考形式和内容如何变化，高考依然立足于考查考生对知识、技能及方法的掌握，考核的内容依然源自课程标准中所规定的各个知识模块。因此，全国各省市及名校命制的高质量模拟试题，对于备考的学生在复习前期复习知识模块、提升应考能力仍然具有很高的借鉴及使用价值。基于此，本书编写组特聘请各地命题研究专家及特、高级教师，以课程标准为依据，参考高考命题指导思想及考核要求，科学地划分知识模块，从各省市及名校模拟试题中精心挑选试题进行优化组合，编成本书。

本书分语文、数学（文科）、数学（理科）、英语、政治、历史、地理、物理、化学、生物10科册，每册图书中包含若干套模块测试题和名校实战题。作为“天利38套”高考模拟试题系列之一，本书具有以下优点：

1. 荟萃全国各省市名校试题，并经专家科学组合成模块练习。书中大量试题选自全国多所名校的高三模拟试题，名校实战更是从各名校月考卷中挑选。使用本书，学生便可通览全国名校优秀试题。

2. 涵盖公共必考点，规避试卷结构及题型不同。虽然有多个省市高考实行自主命题，但各套高考试题中绝大部分考点是相互交叉、要求相近的，而且，在高考复习前期，学生应以复习知识模块考点为主。因此，本书试题覆盖了全国各省市高考公共必考点，不拘泥于试卷结构及某些特殊题型，适合在高考复习前期做阶段性检测。

3. 循环复习设计。艾宾浩斯记忆遗忘曲线显示：知识在学习后不及时复习会很快遗忘，且遗忘速度呈先快后慢的趋势。因此，本书设计各测试题时有意对重难点进行适当重复，旨在帮助考生彻底掌握知识，增强复习效果。

4. 状元审校。在常规编审校对之外，本书编写组还特别邀请一些各省（市）高考状元从考生和读者角度对本书内容进行全面、细致的审校，并根据他们的建议对内容进行修改调整，进一步提升图书使用价值和品质。

5. 答案详尽，便于学生自测时参考。

6. 活页设计，使用方便。

关于英语科听力部分的录音，读者可以登录北京天利考试信息网（WWW.TL100.COM）免费下载。

参与本书编写的有高星云（语文）、王建宏（数学）、殷福鑫（英语）、刘翠芝（物理）、杨坤（化学）、于泗勇（生物）、褚福省（政治）、高超（历史）、陈安伟（地理）等教师。

本书编写组

2010年6月

天利38套 图书推介



3月上市

一轮复习必备
合理划分专题
精选名校试题
答案详析准确



7月上市

名家点评
答案详析
试题准确可靠
高考真题大全
（可持续使用至次年4月）



5月上市

高考易错分类
易错典例分析
活页专项测练



5月上市

高考复习大纲
全程复习指导
科学制定计划
按部就班学习

天利38套 专题

2011 全国各省市 新课标 高考模拟试题汇编

模块专题

北京天利考试信息网 编

政治

西藏人民出版社

需要全本请访问 www.ertongbook.com

目录

1. 模块一　经济生活(一)
2. 模块一　经济生活(二)
3. 模块一　经济生活(三)
4. 模块一　经济生活(四)
5. 模块二　政治生活(一)
6. 模块二　政治生活(二)
7. 模块二　政治生活(三)
8. 模块二　政治生活(四)
9. 名校实战(一)
10. 模块三　文化生活(一)
11. 模块三　文化生活(二)
12. 模块三　文化生活(三)
13. 模块四　生活与哲学(一)
14. 模块四　生活与哲学(二)
15. 模块四　生活与哲学(三)
16. 模块四　生活与哲学(四)
17. 模块五　经济学常识
18. 模块六　国家和国际组织常识
19. 模块七　公民道德与伦理常识
20. 名校实战(二)

参考答案及解题提示

高考状元给“天利38套”读者的学习建议

专题知识点有遗漏时，一定要抽出时间复习这个专题，即这一类的问题。个人觉得平时学习的每个专题应该分得细些，不要放过任何细节。

——安徽理科高考状元　张凤逸

对于数学、英语、物理、化学和生物，每一科我都有一本“错题集”，记录自己练习和考试中做错的题目和典型例题，并从自己的出错点出发找出不扎实的知识点，在错题下面进行针对性总结。

——内蒙古理科高考状元　石　悦

在学完每一部分后都要做一次全面的小结，体会知识点之间的联系，将其串联成线。例如，在学完物理的电磁学部分后就要小结，理解电生磁、磁生电，电与磁之间的关系。

——宁夏理科高考状元　李小龙

学习政治关键在于理解。学习时要注意知识的逻辑性，建立知识网络。通过做题深刻地理解原理。在考试中，选择题往往是失分点，平时要多加练习，掌握一定的分析方法。

——北京文科高考状元　张　玥

历史是知识点最多的科目，看课文时一定要尽量详细，尤其是图片、注释，还有小框里的资料，因为我们易忽视的地方就是考试最容易出题的地方。总复习时，在详细看完教科书两遍以上的基础上，应该背第一页的目录，然后看每篇课文的小标题，这样整个教科书的框架就有了。再按照框架试着复述一遍知识点，记忆就会更加牢固，在考场上就能应用自如。

——吉林文科高考状元　许美善

[模式答题法]经过高中三年的学习，我发现政治答题是有规律可寻的，总结出了几种答题模式，如“理解认识”类题目的答题模式为“是什么”“为什么”“怎么做”；经济生活类的题目一般从国家、企业和个人三方面考虑；哲学类的题目答题模式为“世界观＋方法论＋材料”，分析原因的问题从“原因、内容、意义”三方面作答。

——山东文科高考状元　荣秋艳

图书在版编目(CIP)数据

专题.2/北京天利考试信息网编.
—拉萨:西藏人民出版社,2010.6
ISBN 978-7-223-02843-1

Ⅰ.①专…　Ⅱ.①北…　Ⅲ.①文科(教育)—课程—高中—教学参考资料　Ⅳ.①G634

中国版本图书馆 CIP 数据核字(2010)第 054582 号

天利38套是图书及教育界的知名教辅品牌,订书请认准“西藏人民出版社”和“天利 38 套”标志。

专题
——新课标 2011 高考模拟试题汇编·模块专题(政治)

作　　者　北京天利考试信息网
责任编辑　李海平　赵　明
装帧设计　陈玉丽
出　　版　西藏人民出版社
社　　址　拉萨市林廓北路 20 号　　**邮政编码**　850000
北京发行部:100013　北京市东土城路 8 号林达大厦 A 座 13 层
电话:010－64466399(邮购)、64466473(批销)
打 击 盗 版:13651009426
印　　刷
经　　销　全国新华书店
开　　本　8 开(787×1 092)　　**字　　数**　1 460 千
印　　张　36.5
版　　次　2010 年 6 月第 1 版第 1 次印刷
标准书号　ISBN 978-7-223-02843-1
定　　价　60.00 元(全 5 册)

天利38套 模块专题 模块一　经济生活(一)　1A

考查范围：货币的基本职能，汇率，价格的决定与变动，价格变动对需求量的影响，影响消费的因素，消费结构，正确的消费观，消费对生产的反作用，多种所有制共同发展，公司经营与公司发展，树立正确的择业观，维护劳动者权益，投资收益与投资风险，分配制度，财政的作用，税收的特征，宏观调控，科学发展观，国际经济组织，经济全球化的影响。

（考试时间：90 分钟　　分值：100 分）

一、选择题（本大题共 25 小题，每小题 2 分，共 50 分。在每小题给出的四个选项中，只有一项是最符合题目要求的）

1.（安徽安庆质检）某单位职工小王购买房子，价格为 20 万，首付 5 万，在 15 年内付清银行贷款 15 万及利息 3 万。其中的 20 万房价、5 万首付现金及 3 万利息分别执行货币的_____职能。（　　）

A. 流通手段、价值尺度、支付手段　　B. 价值尺度、流通手段、支付手段

C. 价值尺度、支付手段、流通手段　　D. 支付手段、流通手段、贮藏手段

经济数学主张运用数学思维和数学模型解决经济问题。回答 2，3 题。

2.（浙江五校联考）在下列经济数量关系中，一般情况下，能够通过下面的图象表示的有（　　）

①价格与供给

②劳动生产率与商品的使用价值量

③流通中所需的货币量与货币流通速度

④股票价格与银行利息率

⑤公平与效率

⑥收益与风险

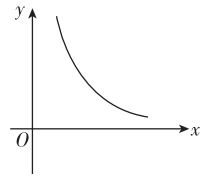

A. ①　　B. ③④　　C. ②④⑥　　D. ③④⑤⑥

3.（浙江五校联考）右图是近年来我国汽车的市场价格波动图。B 点比 A 点价格低的根本原因是（　　）

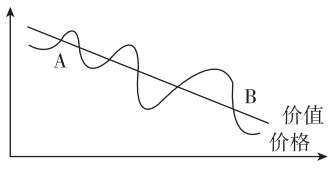

A. 供不应求　　B. 价格政策

C. 劳动生产率提高　　D. 商品质量下降

4.（合肥教学质检）近几个月来，纽约黄金价格在千元大关之上屡创新高，最高达到每盎司 1 218.25 美元。以美元计价的国际黄金市场上，黄金价格的不断上涨，可能受到下列哪些因素的影响（　　）

①人民币升值　　②黄金现货需求的增加

③美元贬值　　④市场调节的自发性

A. ①②③　　B. ②③④　　C. ①②④　　D. ①③④

5.（吉林省吉林市质检）读图表：一批定价 1 万美元的货物，选择在图表中显示的某一天用人民币购买，最合算的时候比最不合算的时候要少支出（　　）

银行间外汇市场交易货币对人民币汇率的中间价				
日期	2009－03－26	2009－04－27	2009－05－26	2009－06－26
1 美元兑人民币	6.832 1	6.825 3	6.828 5	6.832 8

A. 68 元　　B. 32 元　　C. 57 元　　D. 75 元

（山东潍坊模拟）“问题奶粉”事件发生后，人们谈“奶”色变，许多居民改变了饮食奶制品的习惯，国产奶粉的销量骤减。回答 6，7 题。

6. 现在，不少居民改喝牛奶为喝豆浆，表明牛奶和豆浆（　　）

①是互补商品　　②需求量会发生变化

③价值量相等　　④互为替代品

A. ①②　　B. ③④　　C. ①③　　D. ②④

7. 假若你是一家奶粉生产企业的经理，吸取“问题奶粉”事件的教训，你准备采取的措施是（　　）

①通过广告树立企业良好信誉和形象

②努力提高产品质量和服务水平

③更换产品名称和包装，重新开拓市场

④依法诚信经营，培育消费者对本企业产品的信赖

A. ①②　　B. ②③　　C. ③④　　D. ②④

8.（天津六校联考）党的十七届三中全会指出，要赋予农民更加充分而有保障的土地承包经营权，允许土地承包经营权的流转。从所有权与使用权的关系角度上看，土地承包经营权的流转与下列的消费类型体现的两权关系一致的是（　　）

A. 钱货两清的消费　　B. 贷款消费

C. 物物交换的消费　　D. 租赁消费

9.（济南高三模拟）山东《生活日报》主办的换物节活动日益受到人们的欢迎。居民进行闲物置换，以物易物，使闲物发挥出更多的作用。这种以物换物活动（　　）

①是人为地抑制消费的表现　　②较大限度地搞活了商品流通

③促进了资源的循环利用　　④符合节约消费和绿色消费的理念

A. ①②　　B. ③④　　C. ②③　　D. ②③④

10.（福建厦门质检）消费对生产具有巨大的反作用。下列能直接提高消费对经济增长的贡献率的措施是（　　）

①对农民实行粮食最低保护价　　②提高居民最低生活保障标准

③提高房地产和证券交易税率　　④某地政府向居民发放消费券

A. ①②　　B. ①③　　C. ②③　　D. ②④

11.（江苏徐州调研）在应对金融危机的过程中，民营经济发挥了重要作用，企业利润和企业增加值等多项指标明显高于全国平均水平，缓解了经济下行的压力。这表明（　　）

A. 民营经济已控制国民经济的命脉

B. 民营经济的发展符合社会主义的本质要求

C. 发展民营经济是国家宏观调控的重要手段

D. 民营经济是促进生产力发展的决定力量

（福建单科质检）国家决定自 2008 年 12 月 1 日起推行新的“家电下乡”试点，公布了“家电下乡”中标企业名单。农户购买“家电下乡”产品可享受 13％的财政补贴。回答 12～14 题。

12. 柳某是一家中标的家电企业老总，他要从这项惠农政策中提高收益，你认为他应该采取的措施是（　　）

A. 提高社会劳动生产率　　B. 减少个别劳动时间

C. 增加商品的价值量　　D. 提高商品的使用价值

13. 材料中，财政补贴发挥的作用主要有（　　）

①保证城乡居民收入同步增长　　②改善农民的生活质量

③保障农村经济的平稳运行　　④促进资源的合理配置

A. ①③　　B. ①④　　C. ②③　　D. ②④

14. 农民消费不足一直是制约我国内需扩大的瓶颈之一。在未来的四年里，这项政策的实施大约可以撬动农民消费 9 000 多亿元。这表明（　　）

A. 消费对生产具有巨大的反作用

B. 拉动内需离不开国家的宏观调控

C. 行政手段是最直接最有效的调控办法

D. 提高农民消费水平主要依靠政府补贴

15.（北京海淀区期中）为了鼓励居民和单位采用节能灯，国家财政对居民购买节能灯补助 50％，对单位大宗采购节能灯补助 30％，这是国家运用_____调节经济，这种手段之所以能发挥作用是因为它_____。（　　）

A. 经济手段　直接关系市场主体的经济利益

B. 市场手段　在资源配置中发挥基础性作用

C. 行政手段　以政府的强制力为坚实后盾

D. 财政手段　能够弥补市场调节的盲目性

16.（江苏南通模拟）当前在社会上，存在等饭碗、找饭碗、造饭碗等各种不同的就业理念。劳动者应树立的择业观念是（　　）

①根据个人的兴趣、专长和条件，自主择业

②社会主义国家，择业要靠政府

③工作一定要体面，不要让人看不起

④不断提高职业技能和素质，积极主动适应劳动力市场的需要

A. ①②　　B. ②③　　C. ①④　　D. ③④

17.（江苏南通模拟）实现和维护劳动者权益是社会主义制度的本质要求。维护劳动者合法权益的重要依据是（　　）

A. 依法签订劳动合同　　B. 自觉履行劳动者义务

C. 保障劳动者主人翁地位　　D. 增强劳动者权利意识

18.（天津十二区县联考）人人都知道股市波涛汹涌、风云变幻，但有些人还是幻想能赚到股市中的最后一分钱。股海淘金，需要仔细权衡投资的（　　）

A. 保障功能、互助功能、收益性　　B. 价值尺度、流通手段、贮藏手段

C. 安全性、收益率、流通性　　D. 信用度、保障范围、赔付标准

19.（南京第二次调研）党的十七届三中全会指出：加强土地承包经营权流转管理和服务，建立健全土地承包经营权流转市场；按照依法自愿有偿原则，允许农民以转包、出租、互换、转让、股份合作等形式流转土地承包经营权；发展多种形式的适度规模经营。农民转让土地承包经营权所获得的收益，属于（　　）

A. 按劳分配　　B. 按生产要素分配

C. 按土地所有权分配　　D. 福利性分配

20.（上海十三校联考）财政部、国家税务总局联合发文：从 2009 年 1 月 20 日至 12 月 31 日，1.6 升及以下排量乘用车将按 5％征收车辆购置税（原车辆购置税统一税率为 10％）。这表明税收具有（　　）

A. 强制性　　B. 无偿性

C. 相对固定性　　D. 法制性

（湖南耒阳联考）面对金融危机的冲击，有关企业倒闭，大量农民工纷纷返乡。近年来，农民工返乡创业成为农村劳动力转移的新气象。调查显示，全国约有 500 万农民下回到农村发展现代农业、创办村工商企业。据此回答 21，22 题。

21. 从发展社会主义市场经济的意义上看，农村劳动力转移（　　）

A. 是从农村向城市转移　　B. 有利于实现劳动力资源的优化配置

C. 是发展现代农业的根本途径　　D. 有利于农民实现增产增收

22. 要实现农村劳动力有序转移，除了要发挥市场在资源配置中的基础性作用外，还应（　　）

①利用农民工返乡创业，吸纳农村劳动力就近就地转移就业

②让农民在市竞争中自由发展

③把农民工纳入职业培训范围，在加强对农民工技能培训的同时，广泛开展创业培训

④通过评选、表彰和宣传返乡创业典型，使更多劳动者树立自强自立、敢于创新的理念，营造创业氛围

A. ①②③　　B. ②③④

C. ①③④　　D. ①②④

1B

23.(安徽皖北协作区联考)金融危机爆发后,全球贸易保护主义有所抬头,美国提出的"购买美国货"条款使贸易保护主义进一步呈蔓延趋势。经济学家称:贸易保护主义逆转不了经济全球化趋势,但会给世界贸易带来不利的影响。贸易保护主义违背了世贸组织的原则有 (　　)

①非歧视原则　　②市场准入原则

③公平竞争和公平贸易原则　　④透明度原则

A. ①②④　　B. ①③④　　C. ①②③　　D. ②③④

24.(广东深圳调研)发源于美国的金融危机已从局部发展到全球,从发达国家传导到新兴市场国家,从金融领域扩散到实体经济领域,给世界各国经济发展和人民生活带来严重影响。这表明,经济全球化在促进全球经济合作的同时,也使得(　　)

A. 发达资本主义国家的财富积累不断加剧

B. 发展中国家获得了发展经济的良好机遇

C. 一国经济波动必然导致全球各国经济波动

D. 一国经济波动可能波及他国,加剧全球经济的不稳定

25.(辽宁大连双基测试)为扭转能源需求过快增长的局面,增强经济的可持续发展能力,我国政府在"十一五"规划中提出,2010年我国单位国内生产总值能源消耗要比"十五"期末降低20%左右,这个目标意味着在"十一五"时期,万元国内生产总值能耗由2005年的1.22吨标准煤下降到2010年0.98吨标准煤,单位GDP能源消耗年均下降4.4%,能源消费弹性系数保持在0.5以内。为此我们必须 (　　)

①落实科学发展观　　②走新型工业化道路

③高度重视经济的发展速度　　④重视区域经济的协调发展

A. ①②　　B. ②③　　C. ①③　　D. ①④

二、非选择题(本大题共4小题,共50分)

26.(浙江金华十校期末)**材料一**



材料二　提高"劳动所得"势在必行:在我国初次分配领域,劳动者工资增长赶不上企业利润增长是一个普遍现象,企业财富明显向资本倾斜。

材料三　"二代现象"引起广泛关注:"富二代""贫二代"是先富道路上遇到的"二代"问题,体现了一代对二代的影响和二代对一代的复制,带来了"二代"朋辈之间的分隔,拷问着社会公平与共同富裕的目标。

(1)材料一、二共同反映了什么样的经济现象?(2分)

(2)请运用《经济生活》的有关知识,谈谈你对"二代现象"的认识。(7分)

27.(山东潍坊质量监测)2009年12月5日至7日召开的中央经济工作会议指出,2010年继续实施积极的财政政策和适度宽松的货币政策,保持宏观经济政策的连续性和稳定性;更加主动地坚持扩大内需特别是消费需求的方针,既保增长,又防止经济过热;财政和货币政策重点关注民生问题,把就业、社会保障、教育、文化事业作为工作重点。

分析说明上述要求蕴含的《经济生活》道理。(13分)

28.(山东临沂质检)**图1**　2008年我国外贸出口增速走势图(按月统计)

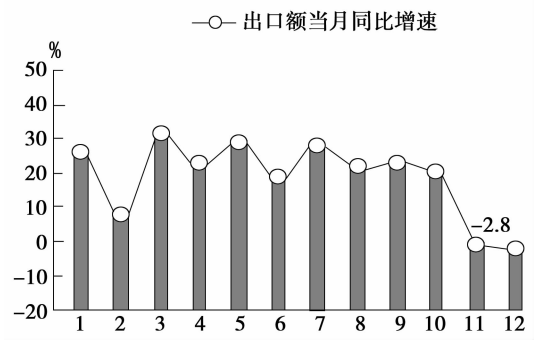

注:2008年我国外贸出口增长17.2%。

图2　2008年我国国内生产总值同比增速(按季度统计)

一季度	二季度	三季度	四季度
10.6%	10.1%	9.0%	6.8%

注:2007年我国GDP增速为11.4%。2008年我国GDP增速为9%,世界经济增速平均为3.7%。

(1)指出图1和图2(含注)反映的经济信息。针对图表反映的问题,国家做出了怎样的重大决策?(7分)

(2)由于受全球金融危机的冲击,部分企业订单减少、效益下滑,生产经营困难,一些企业把裁员作为应对困境的手段。但我省济南、青岛、济宁、临沂等地的许多企业,不把责任推给社会,做出"不裁员"甚至"不减薪"承诺,充分挖掘内部潜力,劳资齐心协力抵御金融危机,赢得职工和社会的赞誉。我省相关部门也出台措施,减轻企业税费负担,帮助企业克服困难,稳定就业形势。

企业是以营利为目的的,部分企业面对危机坚持"不裁员"。对此应如何认识?在"不裁员"的情况下,企业如何才能渡过危机,请你提出几点建议(至少三条)。(8分)

29.(江苏镇江调研)**材料一**

图1　江苏省企业景气指数走势图

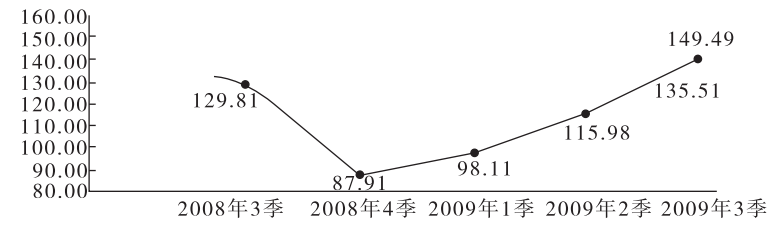

图2　江苏省城乡居民收入及社会消费品增长图

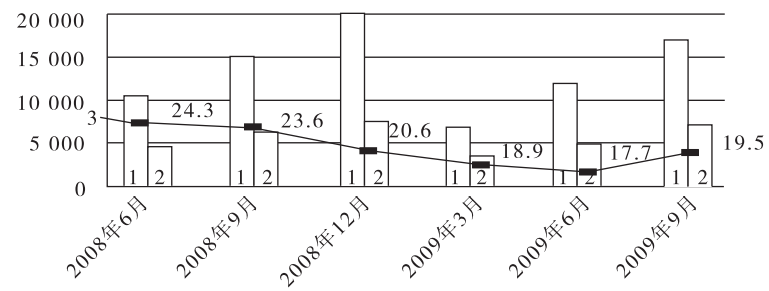

注:图2中柱1表示江苏省城镇居民人均收入累计(元)　　柱2表示江苏省农村居民人均收入累计(元)

曲线3表示江苏社会消费品零售总额与去年同比增长(%)

材料二　2009年,在国际金融危机的刺激下,江苏省6大新兴产业异军突起、沿海开发高歌猛进、苏南产业北移带来巨大商机、大力开拓农村市场、发展旅游休闲等热点消费,这都成为提振江苏企业景气指数的"重要增长极",全省可望实现GDP3.3万亿元,同比增长12%,显示出旺盛活力。

(1)请分别指出图1、图2所反映的经济信息。(4分)

(2)结合以上材料,从《经济生活》角度分析为什么江苏企业景气指数不断攀升?(9分)

天利38套 模块专题

模块一　经济生活(二)　2A

考查范围：货币的基本职能，通货紧缩，结算与信用工具，外汇和汇率，价值规律，价格变动对需求量的影响，影响消费的因素，消费类型，消费结构，树立正确的消费观，生产决定消费，我国的基本经济制度，公司经营与公司发展，就业，维护劳动者权益，商业银行的业务，投资，分配制度，效率与公平，财政收入与支出，财政的作用，依法纳税，市场调节，宏观调控的目标，科学发展观，经济持续协调发展，经济全球化。

（考试时间：90 分钟　　分值：100 分）

一、选择题(本大题共 25 小题，每小题 2 分，共 50 分。在每小题给出的四个选项中，只有一项是最符合题目要求的)

1.（江苏泰州联考）第十一届全运会开幕式 2009 年 10 月 16 日惊艳亮相。某班同学花了 4 000 元购得 20 张团体普通票。这里的 4 000 元体现了货币的　　（　　）

①价值尺度职能　②是观念中的货币　③流通手段职能　④是现实的货币

A. ①④　　B. ③④　　C. ①②　　D. ②③

2.（广东深圳调研）在社会经济生活中，有时会出现通货紧缩现象，表现为物价全面持续下跌，通常伴随着经济衰退出现。以下能作为应对通货紧缩的措施的是　　（　　）

①政府采取紧缩性财政政策　②央行降低存贷款利息率

③发行国债，增加政府投资　④扩大消费尤其是居民消费

A. ①②③　　B. ①②④　　C. ①③④　　D. ②③④

3.（上海十三校联考）2009 年 8 月 7 日，中国银联卡公司和台湾联合信用卡中心联合宣布，大陆旅客持银联卡可在台湾刷卡消费。银联卡在台湾使用　　（　　）

①能减少现金使用，简化收款手续，方便银行和商家

②可增加业务量，推动两岸金融交流合作

③可增强消费安全，方便大陆旅客在台湾消费购物

④能借助银行的电子计算系统自动完成交易，不存在风险

A. ②③④　　B. ①③④　　C. ①②④　　D. ①②③

（北京海淀区期末）汇率是两种货币之间的兑换比率。回答 4，5 题。

4. 去年年初，100 美元大约可以兑换 730 元人民币；年底，100 美元大约可以兑换 680 元人民币。这表明　　（　　）

A. 外汇汇率下降，人民币升值　　B. 外汇汇率上升，美元贬值

C. 外汇汇率上升，人民币升值　　D. 外汇汇率下降，美元升值

5. 从上题得出的结论，有可能出现下述情况　　（　　）

①外国货币购买力相对提高　②不利于出口，有利于进口

③外商在我国投资成本降低　④国内就业压力增大

A. ①②　　B. ②③　　C. ②④　　D. ①③

（江苏镇江调研）经过两年的萧条后，2009 年底，中国市场上的大蒜价格贵得惊人。回答 6 题。

6. 大蒜之所以价格疯涨原因有三：减产，2008 年蒜农生产积极性降低；出口，2009 年出口份额有所增加；库存，2008 年的价格极低，库存陈蒜减少。这说明商品的价格　　（　　）

A. 受供求关系影响　　B. 由价值量决定

C. 围绕价值上下波动　　D. 由纸币发行规律决定

7.（北京海淀区期中）实行塑料袋有偿使用后，某班同学对一超市塑料袋的使用情况进行了调查，发现塑料袋的使用量有较大幅度的下降，人们都改用布袋子来购物。这一现象可以得出的结论有　　（　　）

①商品的需求量受该商品价格的影响

②一商品的价格上升，该商品互补品的需求量上升

③一商品的价格上升，该商品替代品的需求量下降

④一商品的价格上升，该商品替代品的需求量上升

A. ①②　　B. ①③　　C. ①④　　D. ②③

8.（山东临沂质检）经济学家发现，工作不稳定的人比有着稳定工作的人有更高的储蓄愿望。这表明　　（　　）

A. 当前收入直接影响当前的消费水平

B. 未来收入预期影响当前的消费水平

C. 居民收入差距大小影响总体消费水平

D. 人们应转变消费观念，做理智的消费者

9.（江苏南通模拟）2010 年 1 月 4 日，国务院出台《关于推进海南国际旅游岛建设发展的若干意见》，海南建设国际旅游岛正式升格为国家战略。从消费目的上看，旅游消费属于　　（　　）

A. 物质生活消费　　B. 精神生活消费

C. 钱货两清的消费　　D. 享受资料消费

10.（北京海淀区期中）我国目前为三大运营商发放第三代移动通信(3G)牌照，各运营商表示要做好相关投资和建设工作，我国正式进入 3G 时代。由此，人们可以感受到 3G 带来的精彩生活，更高质量的通话，更快速度的上网，激发了居民的消费热情。这表明　　（　　）

①消费是社会再生产的重要环节

②消费对生产的调整和升级起导向作用

③消费的质量和方式是由生产决定的

④生产为消费提供对象并创造动力

A. ①②　　B. ①③　　C. ②④　　D. ③④

（辽宁 4 月高考模拟）目前，我国的农村集体经济实行以家庭承包经营为基础、统分结合的双层经营体制。十七届三中全会指出，要以多种形式实现土地经营权的流转。回答 11，12 题。

11. 农村集体经济实行家庭承包经营前提是　　（　　）

A. 宜统则统，宜分则分，统分结合

B. 促进集体经济的发展

C. 包产到户，责任明确

D. 坚持土地等基本生产资料集体所有制

12. 采取多种形式实现土地经营权的流转。近年来部分城郊农民通过转让土地经营权入股经营，跨入了先富者的行列。转让土地经营权入股经营体现的分配方式是　　（　　）

A. 按劳分配　　B. 按土地所有权分配

C. 按土地要素分配　　D. 按劳动力要素分配

（安徽安庆质检）2008 年 9 月，因奶粉中添加三聚氰胺导致国内知名奶粉企业如三鹿、蒙牛、伊利等公司信誉“落水”，引发国产奶粉信用危机。同时，也反映了政府日常监管工作中存在的突出问题和漏洞，政府必须进一步解决公共服务方面的缺位问题，以有效弥补“市场失灵”。回答 13，14 题。

13. 奶粉行业爆发信用危机，表明　　（　　）

①科技进步是企业提高经济效益的唯一出路

②企业只有树立良好的信誉和形象，才能在竞争中取得优势

③诚实信用是企业生存和发展的必要条件

④企业的规模越大，抵御市场风险的能力越强

A. ①④　　B. ②③

C. ①②③　　D. ②③④

14. 政府必须进一步解决公共服务方面的缺位问题，以有效弥补“市场失灵”。这说明　　（　　）

A. 政府应该直接参与企业的管理

B. 市场经济条件下，国家宏观调控应该起基础性的作用

C. 发展市场经济，离不开国家的宏观调控

D. 在市场经济条件下，国家调节经济应以行政手段为主

15.（济南高三模拟）美国高通公司不生产手机，但拥有 CDMA 核心技术标准。现在中国的手机厂商每生产一部 CDMA 手机，都得先向高通公司交一笔专利费用。这给我国企业的启示是　　（　　）

A. 加大高科技研发，创立知识产权

B. 提高质量和科学管理是影响企业成功的重要因素

C. 企业的无形资产比有形资产更重要

D. 把引进核心技术标准作为企业发展的根本立足点

16.（沈阳质量监测）就业是民生之本。目前我国继续实施扩大就业的发展战略，提倡以创业带动就业，对此理解正确的是　　（　　）

A. 解决创业问题就能解决就业问题

B. 转变就业观念，树立职业平等观

C. 要支持自主创业、自谋职业的政策

D. 积极的就业政策是社会主义的根本经济特征

17.（江苏泰州期末联考）2009 年 7 月，河南省新密市 28 岁的年轻工人张海超“开胸验肺”，用事实向郑州振东耐磨材料有限公司证明了自己是因恶劣的工作环境造成的尘肺病。该企业侵犯了张海超的　　（　　）

A. 享受社会保险和福利的权利　　B. 接受职业技能培训

C. 休息休假的权利　　D. 获得劳动安全卫生保护的权利

18.（北京石景山区期末）2008 年 12 月 16 日，国家开发银行股份有限公司挂牌成立，成为我国第一家由政策性银行转型而来的商业银行。转型后的国家开发银行的基础业务是　　（　　）

A. 存款业务　　B. 贷款业务

C. 结算业务　　D. 股票买卖业务

19.（辽宁大连双基测试）在 2008 年中国股市大幅度调整的情况下，对于投资者来说，2009 年不仅要注意“把鸡蛋放到不同的篮子里”，而且更要注重对投资风险的把握。投资理财的品种按风险从低到高的排列次序应为　　（　　）

A. 银行存款、国债、股票　　B. 国债、银行存款、股票

C. 股票、银行存款、国债　　D. 银行存款、股票、国债

20.（海口 4 月调研）甲乙两人分一块蛋糕，由于担心谁来切都会给自己多切一些，因而两人为如何公平分配争执不下。有人给他们出了一个主意：让一个人切，另一个人挑选。这样分蛋糕的公平问题就解决了。故事启示我们　　（　　）

A. 在经济领域要坚持公平竞争、优胜劣汰的原则

B. 效率是公平的物质前提和基础

C. 促进分配中的社会公平必须依靠合理的机制和政策

D. 分配公平主要指收入分配的相等

21.（吉林省吉林市质检）2009 年 6 月温家宝在湖南考察时强调，我们要坚定不移地实施积极的财政政策和适度宽松的货币政策。下列举措属于积极财政政策的是　　（　　）

①中央银行下调存贷款基准利率和存款准备金率

②运用财政补贴支持“家电下乡”，拉动农村消费

③财政部、国家税务总局提高劳动密集型产品出口退税率

④铁道部决定 2009 年春运旅客列车票价不上浮

A. ①②　　B. ②③

C. ①④　　D. ③④

.com

2 B

22.(北京西城区测试)某公司2006年8月至12月发出217.43万元的货物,未记销售收入,少申报缴纳增值税36.96万元。该行为属于 ( )

A.偷税 B.欠税 C.骗税 D.抗税

23.(湖南邵阳联考)2010年我国要继续实施积极的财政政策和适度宽松的货币政策,把握好政策实施的力度、节奏、重点。要突出财政政策实施重点,加大对民生领域和社会事业支持保障力度,增加对“三农”、科技、教育、卫生、文化、社会保障、保障性住房、节能环保等方面和中小企业、居民消费、欠发达地区的支持力度,支持重点领域改革。这一系列举措的最主要任务和目标是 ( )

A.增加就业 B.稳定物价

C.促进经济增长 D.保持国际收支平衡

24.(杭州教学质检)目前,发展低碳经济正逐渐成为一种新的国际潮流,发展低碳经济是我国实现未来发展的必然选择。在我国,大力提倡“低碳经济”有助于 ( )

①引导人们树立正确的消费观,践行绿色消费

②切实转变经济发展方式,促进国民经济又好又快地发展

③贯彻落实科学发展观,提高可持续发展能力

④降低企业生产成本,提高经济效益

A.①②③ B.①②④ C.①③④ D.②③④

25.(福建厦门质检)丢块石头到水里,水波是逐步递减的,越向外冲击力越小,这就是“涟漪效应”。现代国际社会中,一般来说,市场开放程度小、处于全球化边缘的国家,受到危机的影响也小。“涟漪效应”揭示的经济学道理是 ( )

A.经济全球化表现为生产和贸易的国际化

B.经济全球化对不同开放程度国家的影响不同

C.主权国家要努力提高开放型经济水平

D.经济落后的国家不宜走对外开放之路

二、非选择题(本大题共4小题,共50分)

26.(北京宣武区期末)阅读材料,回答问题。

材料一 2005年以前,多晶硅的市场价格仅仅在30美元/公斤左右,到2008年,其价格接近500美元/公斤。自2006年以来,我国各地纷纷上马多晶硅建设项目。但是多晶硅核心技术——三氯氢硅还原法,掌握在国外制造商手中。截止到2009年上半年,国内有20多个省市近50家公司正建设、扩建和筹建多晶硅生产线,总投资超过1 000亿。如果这些产能全部实现,相当于全球多晶硅年需求量的两倍。

(1)当多晶硅产量超过全球年需求量时,我国企业将会面临何种困境?从企业的角度分析多晶硅生产企业如何走出困境?(6分)

材料二 2009年10月国务院批转《发展改革委等部门关于抑制部分行业产能过剩和重复建设引导产业健康发展若干意见的通知》,将钢铁、水泥、平板玻璃、煤化工、多晶硅、风电设备六个行业确定为调控和引导的重点。

(2)试运用《经济生活》知识,分析国家出台该政策的理由。(5分)

27.(北京海淀区期中)我国的改革开放取得了重大的成就,但是我国社会仍有些现实问题亟待解决。如贫富差距不断扩大;城乡居民收入从1998年的2.52∶1扩大到2008年的3.31∶1;中西部居民收入差距也不断扩大;电力、石油、金融等行业收入远远高于全国平均水平,差距高达10倍。党和国家正在积极采取措施解决这一问题。

(1)运用《经济生活》相关知识,分析上述材料反映的问题对我国经济发展的不利影响。(4分)

(2)运用《经济生活》相关知识,简述应如何解决上述材料反映的问题。(9分)

28.(辽宁大连双基测试)**材料** 国务院总理温家宝2009年6月24日主持召开国务院常务会议,研究部署开展新型农村社会养老保险试点。会议指出,建立新型农村社会养老保险制度,是加快建立覆盖城乡居民的社会保障体系的重要组成部分,对确保农村居民基本生活,推动农村减贫和逐步缩小城乡差距,维护农村社会稳定意义重大。同时对改善心理预期,促进消费,拉动内需,促进国民经济又好又快发展也具有重要意义。

结合材料,说明财政的作用。(13分)

29.(山东威海统考)顺应农民消费升级的新趋势,2007年12月,财政部、商务部在山东、河南、四川、青岛三省一市开展家电下乡试点工作,即农民在指定的销售网点购买指定规格和型号的家电产品,国家财政对农民消费者给予销售价格13%的直接资金补贴。在总结试点经验的基础上,我国政府决定从2009年2月1日起,将家电下乡推广到全国。

(1)简要分析家电下乡的经济意义。(9分)

(2)根据对下乡家电品种需求的调查,农民对电脑、洗衣机的需求大幅度上升,而对彩电、冰箱的需求增幅相对较小。这一变化说明了什么?(4分)

天利38套 模块专题 模块一　经济生活(三)　3A

考查范围：商品的基本属性，货币的职能，金属货币与纸币，汇率变动的影响，价值决定价格，影响消费的因素，消费结构，树立正确的消费观，生产与消费的关系，多种所有制共同发展，公司经营与公司发展，维护劳动者权益，投资，公司股票，商业保险，效率与公平，财政的作用，税收的基本特征，税收的作用，市场调节，宏观调控，科学发展观，经济全球化的影响，对外开放，“引进来”与“走出去”相结合的战略。

（考试时间：90分钟　　分值：100分）

一、选择题（本大题共25小题，每小题2分，共50分。在每小题给出的四个选项中，只有一项是最符合题目要求的）

（天津河西区摸底）2008年9月22日，四川广元旺苍县出现柑橘大实蝇虫害，疫情发生后，当地政府立即摘除了所有发生虫害的柑橘果实，进行挖坑深埋和消杀处理。回答1，2题。

1. 我国部分地区对发生疫情的柑橘进行摘除，并挖坑深埋和消杀处理。这是因为这些柑橘　　（　）
A. 是用于交换的劳动产品　　B. 没有合格的使用价值
C. 是使用价值和价值的统一体　　D. 是果农生产的产品

2. 近日，北京市场上柑橘每公斤最低售价仅有1.6元。下列对1.6元的标价理解正确的是　　（　）
①是柑橘的价格　　②货币充当商品交换媒介的职能
③货币执行价值尺度职能　　④必须是实实在在的货币
A. ①②④　　B. ①③④　　C. ①④　　D. ①③

3.（广州毕业班综合Ⅱ）有学者认为，在严重金融风暴中，风眼是已经超级泡沫化的金融衍生品市场和美元体系，黄金和白银将是世界财富最安全的“诺亚方舟”。这是因为　　（　）
A. 国际市场只能由美元作为结算的工具
B. 作为财富的金银不存在任何市场风险
C. 金银作为特殊商品本身具有价值
D. 金银天然是货币，货币天然是金银

4.（南京第二次调研）人民币汇率中间价（人民币元/1美元）情况：2008年12月8日为人民币6.850 9元/1美元；2009年3月16日为人民币6.834 9元/1美元。人民币汇率的这种变动　　（　）
A. 有利于我国扩大出口　　B. 有利于我国扩大进口
C. 有利于解决贸易纠纷　　D. 有利于吸引更多外资

5.（天津六校联考）假定某件商品的价格是60元，现在生产该商品的社会必要劳动时间降低一半（假定生产它的原材料价格不变），下列说法正确的是　　（　）
①如果供求关系不变，纸币发行量也不变化，则该件商品的价格为30元
②如果供求关系不变，纸币发行量减少一半，则该件商品的价格为30元
③如果供求关系变化，纸币发行量增加一倍，则该件商品的价格为30元
④如果某企业生产该商品的劳动生产率提高一倍，则该件商品的价格为30元
A. ①④　　B. ①②　　C. ②④　　D. ③④

（北京宣武区期末）恩格尔系数的高低，可以大致反映家庭生活水平的高低。回答6，7题。

6. 改革开放以后，我国城乡居民家庭的恩格尔系数呈现不断降低的趋势。其中，城镇、农村居民家庭的恩格尔系数分别从1978年的57.5%、67.7%，下降为2008年的37.9%、43.7%。这一变化趋势表明，城乡居民　　（　）
A. 食品支出占家庭总支出的比重增加
B. 消费水平的差距逐渐拉大
C. 消费结构不断改善，生活水平提高
D. 以发展资料和享受资料的消费为主

7. 城乡居民家庭的恩格尔系数不断下降，其主要原因是　　（　）
A. 经济发展，居民收入不断增加
B. 经济发展，人民生活水平显著提高
C. 城乡居民消费观念日趋合理
D. 城乡人民生活水平差距逐步缩小

8.（海口4月调研）1993年，海南在全国第一个实行机动车辆燃油附加费改革。2009年1月1日，《成品油价税费改革方案》正式实施。燃油税实行从量征收，消费者多用油多交税、多用油多负担，以促进对燃油的节约。这与原来统一定额交纳养路费相比，更加公平合理。这项改革　　（　）
①能杜绝对燃油的不合理消费　　②有利于人们树立正确的消费观
③是运用经济手段调节经济运行　　④有利于经济发展方式的转变
A. ①②③　　B. ②③④
C. ①③　　D. ②④

9.（安徽安庆质检）在奥运会举办期间，旅游、商贸、交通、通信、传媒、住宿、餐饮等是受益行业，旅游、商贸等活动拉动了国民经济的持续增长。这是因为　　（　）
A. 生产决定消费的方式　　B. 消费是生产的最终目的
C. 消费热点会带动相关产业的发展　　D. 生产是消费的目的

10.（北京西城区抽测）

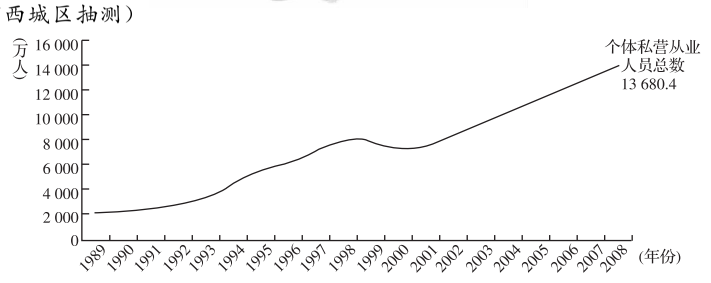

1989—2008年个体、私营企业从业人员数量变化

上图反映了我国的个体经济和私营经济　　（　）
A. 在国民经济中起主导作用
B. 与其他所有制经济相互促进
C. 是促进经济发展的重要力量
D. 在所有制结构中处于主体地位

11.（山东潍坊质量监测）成功研制出甲流疫苗的华兰生物工程股份有限公司，成立之初注册资金只有500万元。现在，该公司发展成为拥有20多个子公司，市值过200亿的上市公司。下列属于该公司特点的是　　（　）
①公司的组织机构有决策机构、执行机构和监督机构
②公司的资本划分为等额股份，并以股票形式表现
③公司股东按出资比例行使表决权
④公司财务必须向全社会公开
A. ①②③　　B. ①②④
C. ①③④　　D. ②③④

12.（广东深圳调研）“商场如战场”，李家祥在《大道相通——中国国航八大制胜方略》中总结自己的经营管理经验，认为企业领导者一定要有思路，思路决定出路。这句话表明，企业需要　　（　）
A. 制定正确的经营战略　　B. 提高自主创新的能力
C. 树立良好的企业形象　　D. 遵循市场经济的规律

13.（福建厦门质检）进入2009年7月以来，“民工荒”在东部沿海地区蔓延。8月份深圳用工缺口达到12万，11月份厦门用工缺口2万。要解决“民工荒”现象，最关键的是要　　（　）
A. 切实保护劳动者的政治权利　　B. 加强劳动者的技能培训
C. 提高劳动者的工作待遇　　D. 增强劳动者维权意识

14.（合肥教学质检）2009年7月河南省农民工张海超“开胸验肺”事件一经媒体披露就引起了广大网友的热议。（“开胸验肺”事件：农民工张海超为证明自己得了尘肺病，更为冲破企业阻挠和权威鉴定机构的荒唐诊断，他不惜以近乎自残的开胸验肺方式维权。）为预防此类事件的发生　　（　）
①企业应积极承担社会责任
②要健全社会保障制度
③劳动者应采取恰当的维权方式
④政府应运用各种手段维护劳动者的合法权益
A. ①②③　　B. ②③④
C. ①③④　　D. ①②④

15.（济南高三模拟）家庭的投资理财应根据不同的经济态势，采取不同的选择。当银行储蓄利率下降、企业经济效益大幅下滑时，下列图示（▨为储蓄，▦为股票，▥为国债，▤为保险）最适宜的家庭投资理财方式是　　（　）

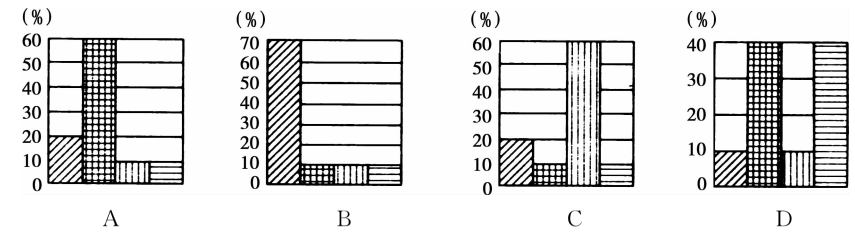

16.（海口高考调研）2010年1月1日起，我国将进一步调整进出口关税税率，调整后，我国加入世贸组织的降税承诺将全部履行完毕。加入世贸以来，我国关税总水平已由15.3%调整至目前的9.8%。我国履行加入世贸组织的降税承诺　　（　）
①表明我国坚持贯彻对外开放的基本国策
②体现了我国积极融入经济全球化的大潮
③有利于增加我国的财政收入
④有利于切实维护我国的经济安全
A. ①②　　B. ①③
C. ②③　　D. ③④

17.（上海十三校联考）改革开放30年来，我国保险业保持30%以上的年平均增长速度，是国民经济中发展最快也是最具活力的朝阳行业之一。以下对保险认识正确的一项是　　（　）
A. 参加保险的目的是为了实现财产的增值
B. 保险的基本职能是分散风险，防灾减灾
C. 保险在我国是新兴的第二产业
D. 投资理财首先要注意借助保险业提供的保险服务

（江苏镇江调研）国务院决定，自2010年1月1日，我国事业单位将全面实施绩效工资改革。回答18题。

18. 有专家提出，在这一轮工资改革中，要防止过度拉大管理层与普通员工的工资收入差距，造成新的不公。这启示我们，事业单位在绩效工资的实施中　　（　）
A. 必须大幅提高管理层中个人所得税的税率标准
B. 要形成道德为支撑、法律为保障的社会信用制度
C. 要保证劳动报酬在初次分配中占合理比重
D. 必须注重公平，注意协调人们之间的经济利益关系

3 B

19.（北京海淀区期中）为了应对金融危机，提高能源、资源利用率，国家出台了鼓励汽车、家电“以旧换新”政策，居民看到“以旧换新”，既能享受国家补贴，还能让老式家电、汽车来个升级换代，纷纷购买。这说明 （ ）

①积极的货币政策有利于促进经济发展
②财政可以拉动内需，促进消费结构升级
③国家通过行政手段调控经济
④财政可以带动工业生产、促进节能减排

A. ①② B. ②④ C. ②③ D. ③④

（江苏苏、锡、常、镇四市调查）从2009年1月1日起，我国开征燃油税，形成“多用油多负担，少用油少负担”的机制，同时取消公路养路费等六项收费。据此回答20，21题。

20. 税收区别于收费的主要标志是 （ ）

A. 税收具有强制性、无偿性和固定性的特征
B. 税收是公平社会负担的重要手段
C. 税收是为公共目的向政府支付的货币
D. 税收的开征要依照法律规定执行

21. 据测，我国大城市80%以上的一氧化碳、40%以上的氮氧化物，来自机动车尾气排放，燃油污染也日益严重。开征燃油税 （ ）

①是实现资源优化配置的唯一选择 ②不利于汽车工业和公共交通的发展
③是形成节约型生产方式的有效措施 ④有利于树立生态文明观念

A. ①②③④ B. ①②③ C. ①② D. ③④

（山东临沂质检）目前，我国部分地区楼市交易低迷，房价下跌。回答22，23题。

22. 楼市低迷直接影响到钢铁、建材、银行保险、装饰装潢等行业的发展。针对这种情况，各地政府出台了一系列针对房地产市场的调控措施，如放宽第二套房贷款、减免购房相关税费等。政府采取措施稳定房地产市场的依据是 （ ）

①我国政府具有组织经济建设的职能
②以市场调节为基础不利于资源的优化配置
③市场机制要与国家的宏观调控结合起来
④加强直接干预是现代市场经济的要求

A. ①③ B. ①②③ C. ③④ D. ①②

23. 下列各项中与上题材料所体现的宏观调控手段相一致的是 （ ）

A. 国务院审议并通过《乳品质量安全监督管理条例》
B. 国家发改委将超薄塑料袋列入淘汰类产品目录
C. 国务院出台钢铁、汽车、船舶等十大产业振兴规划
D. 国家加强新上项目市场准入审核，提高市场准入门槛

24.（江苏泰州期末联考）2009年11月25日，迪拜财政部突然宣布，由政府持有的迪拜世界公司及旗下的房地产分支棕榈岛集团将推迟偿付数十亿美元的债务最少六个月，以便进行债务重组。迪拜危机就此爆发，它导致一系列的金融机构和投资者巨大财富蒸发和破产。迪拜危机表明 （ ）

A. 经济全球化导致了风险全球化 B. 是发达资本主义国家主导的
C. 导致全球经济发展两极分化 D. 应顺势而为，积极参与经济全球化

25.（浙江金华十校期末）据浙江省外经贸厅统计，截至去年底，浙江省经核准的境外企业和机构达2 980家，继续位居全国首位；从2002年到2007年，浙江企业境外投资额由0.6亿美元提高到6.6亿美元，“走出去”的步伐明显加快。加快“走出去”步伐 （ ）

①主要目的在于利用外资，促进经济又好又快发展
②是全面提高对外开放水平的必然要求
③有利于更好地发挥我省企业的比较优势
④意味着我省的对外开放发展到了一个新层次

A. ①②③ B. ②③④ C. ①②④ D. ①③④

二、非选择题（本大题共4小题，共50分）

26.（南京第二次调研）**图示**

江苏农村居民家电购买计划（百户）

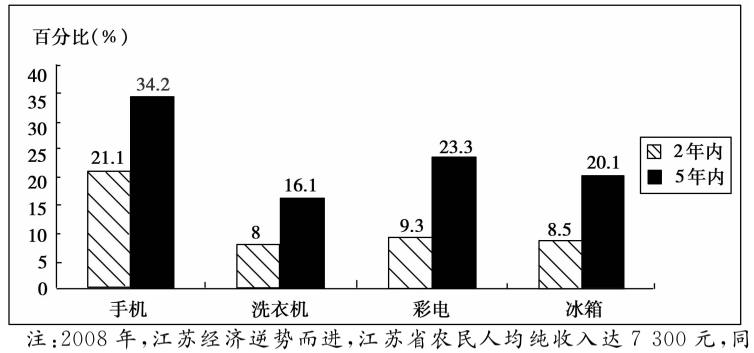

注：2008年，江苏经济逆势而进，江苏省农民人均纯收入达7 300元，同比增长11.3%。

材料 在当前国际金融危机背景下，2009年2月，江苏省政府下发《江苏省家电下乡工作实施意见》，明确指出江苏省家电下乡产品品种、节能要求及单价最高限价等；并强调，凡我省农村居民，在规定时间、指定销售网点购买家电下乡指定产品，可享受13%的财政补贴。

（1）综合上述信息，阐释家电产品下乡的经济意义。（6分）

（2）某家电下乡中标企业为更好地拓展农村市场，向社会广泛征求意见。

请你贡献智慧，运用《经济生活》知识，为该企业设计家电下乡行动方案。（6分）

27.（山东潍坊模拟）**材料一** 表1 2005年至2008年我国政府财政收入、企业盈余、劳动者报酬占GDP比重变化情况

指标 \ 年份	政府财政收入(%)	企业盈余(%)	劳动者报酬(%)
2005	17.3	29.6	41.4
2006	18.4	30.6	41.0
2007	20.6	31.3	39.7
2008	24.3	约31.6	约39.2

注：美国劳动者报酬占GDP的比重接近70%，其他国家和地区普遍在54%至65%之间。

表2 我国的基尼系数变化情况

20世纪80年代	2000年	2005年	2008年
0.21～0.27	0.4	0.463	0.469

注：基尼系数是反映居民之间收入差异程度的指标。0.2～0.3表示比较平均，0.3～0.4表示收入差距较大，0.5以上表示收入差距悬殊。

材料二 2010年3月5日，温家宝总理在向十一届全国人大三次会议所作的《政府工作报告》中指出，2010年要改革收入分配制度，我们不仅要通过发展经济，把社会财富这个“蛋糕”做大，也要通过合理的收入分配制度把“蛋糕”分好。

（1）材料一中表1和表2分别反映了什么经济问题？（4分）

（2）运用《经济生活》知识，请你为如何分好“蛋糕”提出合理化建议。（8分）

28.（北京石景山区期末）2009年12月5日中央经济工作会议在北京召开，会议提出做好明年经济工作，重点要在促进发展方式转变上下工夫，真正把保持经济平稳较快发展和加快经济发展方式转变有机统一起来，在发展中促转变，在转变中谋发展。转变发展的方式就是经济增长要和城乡居民生活改善的幅度同步，使人们真正能够分享到高速增长带来的生活的改善。

上述材料是如何体现科学发展观的？（13分）

29.（福建厦门质检）在学习经济生活第四单元“经济全球化与中国”综合探究时，某校高三组织同学以厦门为载体开展研究性学习。下面是他们在小组活动中搜集到的两则材料。

材料一 厦门GDP增长与对外贸易情况表

指标	1985	2000	2007	2008	2009(预计)
国内生产总值(亿元)	18.36	501.9	1 375.3	1 560	1 616
外贸进出口总值(亿美元)	4.4	100.5	397.8	453.9	426

注：1980年厦门成为经济特区后，积极发展外向型经济。

2008—2009年厦门进出口同比增长率情况

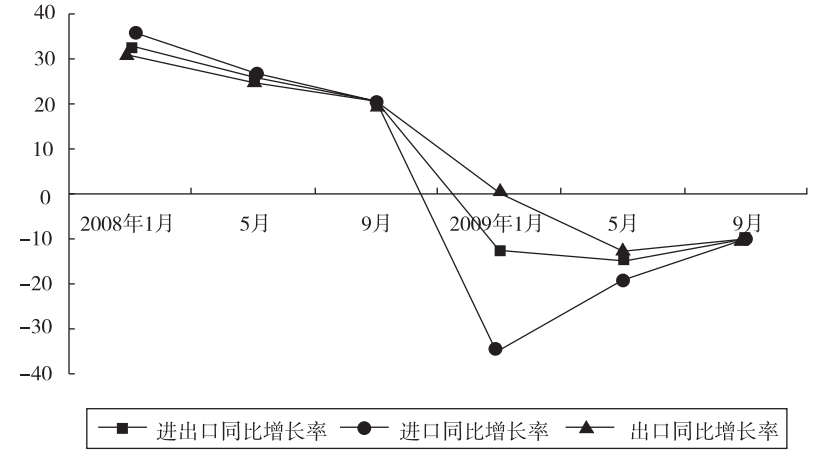

材料二 据不完全统计，仅2009年1—9月份，福建省100多家企业遭遇了涉及多个国家和地区的数十起反倾销、反补贴和特殊保障措施的调查，产品包括鞋类、钢丝层板、节能灯、轮胎等，涉案金额高达上亿美元。厦门不少企业也在其中。

（1）材料一和材料二反映了什么经济现象？（5分）

（2）小组成员根据上述反映的问题进行讨论，主要有以下两个观点：

◆应诉反倾销、反补贴之路艰辛而漫长，既然“走出去”困难重重，干脆就“引进来”好了。

◆我国在对外贸易中主要发挥资源和劳动密集型产业的优势，我们可以把这种优势做足做大。

请你运用经济全球化与对外开放的有关知识，对上述两个观点加以评析。（8分）

天利38套 模块专题 模块一　经济生活(四)　4A

考查范围：货币的基本职能，结算与信用工具，外汇和汇率，价格的决定与变动，影响消费的因素，消费结构，消费心理，树立正确的消费观，生产与消费的关系，我国的基本经济制度，公司经营与公司发展，企业破产，就业，维护劳动者权益，股票投资，按劳分配，税收的作用，市场秩序，市场调节及其弊端，宏观调控，科学发展观，经济持续协调发展，经济全球化，国际经济竞争与合作。

（考试时间：90分钟　　分值：100分）

一、选择题（本大题共25小题，每小题2分，共50分。在每小题给出的四个选项中，只有一项是最符合题目要求的）

1.（辽宁大连双基测试）在2009牛年的北京春节庙会上，几款寓意“牛年奋斗”的“牛粪”造型玩具十分畅销，有的“牛粪”上还画了可爱的笑脸。据了解，这些小玩意售价从十几元到两千多元不等，价格虽然不便宜，但因富有创意，大受年轻人喜爱，成为今年北京庙会上一个亮点。“牛粪”造型玩具从十几元到两千多元的售价是货币在执行_____职能。（　　）

A. 流通手段　　B. 支付手段

C. 价值尺度　　D. 世界货币

2.（湖南高三联考）某同学从网上成功预订了一张北京奥运会开幕式门票，确认购买资格之后，即从该同学提供的VISA卡（全球通用的信用卡）中扣除门票费用。这种结算方式（　　）

A. 属于现金支付　　B. 使用支票支付

C. 提高了货币的购买力　　D. 简化了收款手续，方便、安全

（北京宣武区期末）保持人民币币值基本稳定的一个重要方面是保持人民币汇率稳定，这对经济的发展有重要意义。回答3，4题。

3. 右图为美元对人民币汇率走势（2005.7—2009.12），我们可以看出在此期间（　　）

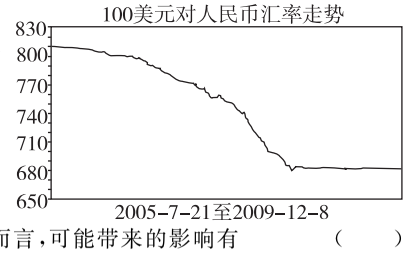

①外汇汇率跌落　　②人民币币值下降

③外汇汇率升高　　④人民币币值升高

A. ①③　　B. ①④

C. ②③　　D. ②④

4. 如果外汇汇率持续如此走势，对我国企业而言，可能带来的影响有（　　）

①利于企业产品出口　　②产品出口压力增大

③利于企业“走出去”　　④利于企业进口原材料

A. ①③　　B. ②④　　C. ①③④　　D. ②③④

5.（江苏徐州调研）国务院决定，2010年小麦各品种最低收购价每市斤平均提高3分钱，同时适当提高稻谷特别是优质稻最低收购价格。国家这样做的经济学依据是（　　）

A. 粮食价格是由国家规定的　　B. 价格变动能调节生产规模

C. 我国的粮食生产供不应求　　D. 价格是实现资源配置的唯一手段

6.（浙江五校联考）手头宽裕的一些人用现金购车，“爱车族”中的一些人贷款购车，还有一些人在持币观望，期待着汽车价格大幅度下跌，而占人口大多数的普通老百姓则是“望车兴叹”。下列对这一现象认识正确的是（　　）

①从消费方式上看，购车的人可分为钱货两清的消费和贷款消费

②人们的消费水平决定物价水平

③价格是影响人们购买能力和消费选择的重要因素

④居民的收入水平会直接影响其消费水平

A. ①②③　　B. ①③④　　C. ②③④　　D. ①②④

7.（南京第二次调研）从2008年9月1日起，我国大幅提高3.0升以上大排量、高油耗乘用车的消费税税率，同时降低1.0升以下小排量乘用车消费税税率。从2009年1月20日至12月31日起，对1.6升及以下排量乘用车车辆购置税降至5%。据此（　　）

①轿车企业要及时调整产品结构　　②消费者要树立绿色消费理念

③轿车企业要迅速扩大生产规模　　④消费者要抓住时机，超前消费

A. ①②　　B. ①③　　C. ②③　　D. ②④

8.（北京海淀区期中）一位石油大亨到天堂去参加会议，一进会议室发现已经座无虚席，没有地方落座，就灵机一动喊道：“地狱里发现石油了！”喊声刚落，人们纷纷向地狱跑去，天堂里只剩下自己。大亨看到大家都跑了过去，突然想到莫非地狱里真的发现石油了？于是，他也急匆匆地向地狱跑去。这就是著名的“羊群效应”。这一效应在消费行为中可表现为人们的_____，在投资理财中它可能会影响到_____。（　　）

A. 求实心理　国债的价格　　B. 攀比心理　银行的利率

C. 从众心理　保险的价格　　D. 从众心理　股票的价格

（陕西中测考试）近年来，我国汽车市场每年平均以25%的速度快速增长，我国的汽车消费占全球汽车消费的7.5%，已成为世界第三汽车消费国。据此回答9，10题。

9. 我国“私家车”快速增长的最主要原因是（　　）

A. 汽车价格大幅跌落　　B. 生产汽车的劳动生产率不断提高

C. 汽车已成为我国居民的消费必需品　　D. 我国经济发展，居民收入不断增长

10. 我国已成为全球第二大石油消费国，到2020年我国原油对外依存度将达到60%，而汽车所消耗的燃油将占到石油消耗总量的1/3。因此，我国应该（　　）

①发展循环经济，建设资源节约型社会

②依靠科技提高能源的利用率

③鼓励发展低油耗、环保的经济型轿车

④停止开采本国能源，维护国家能源安全

A. ①②③④　　B. ①②③　　C. ①②④　　D. ①③④

11.（山东潍坊模拟）2008年某市各类经济成分在本地GDP增长中的贡献率如下图：

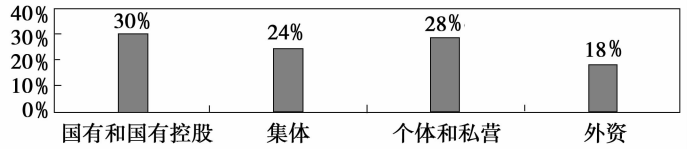

分析上图，可以看出（　　）

A. 非公有制经济在当地经济发展中居于主体地位

B. 该市GDP的增长是以资源浪费、生态破坏为代价的

C. 该市形成了公有制为主体、多种所有制经济共同发展的格局

D. 混合所有制经济在解决当地就业问题上发挥着主导作用

12.（福州单科质检）三鹿集团因三聚氰胺奶粉事件陷入困境直致最终破产，使国内奶业几乎遭遇毁灭性打击，甚至引发对“中国制造”的信任危机。这给企业的警示是（　　）

A. 国家要规范市场经济秩序　　B. 要加强企业管理，打造企业形象

C. 政府要加强对企业的监管　　D. 要依法诚信经营，遵守职业道德

13.（海口4月调研）市场经济中的企业犹如社会中的人，有生必有死，有死方知生。《破产法》就是关于“死”的法律，解决的是市场退出的问题。“有死方知生”说明，企业破产（　　）

A. 可以强化企业的风险意识

B. 导致的失业必然会引发社会的不稳定

C. 有利于减轻国家的财政负担

D. 会侵犯破产企业职工的正当权益

14.（福建厦门质检）当前，我国大学生就业形势十分严峻。国务院2009年1月7日召开常务会议，研究确定了加强高校毕业生就业工作的七项措施。关于大学生就业选择，下列行为值得提倡的是（　　）

①到城市和乡村的基层就业　　②到中小企业和非公有制企业就业

③自主择业和自主创业　　④靠政策引导就业或竞争公务员考试

A. ①②③　　B. ②③④　　C. ①③④　　D. ①②④

15.（天津十二区县联考）2009年2月22日，山西省焦煤集团屯兰煤矿发生了特大瓦斯爆炸事故，造成众多人员伤亡。事故暴露出该采区存在四个问题：通风管理不到位，瓦斯治理不彻底，现场管理不严格，安全措施不落实。此次发生的矿难再次警示我们（　　）

A. 必须强化宏观调控在资源配置中的基础性作用

B. 必须重视和加强劳动安全保护

C. 必须加快制定《劳动法》，依法维护劳动者的合法权益

D. 履行义务必须以享受权利为基础

16.（江苏南通调研）被奉为“股神”的投资大师巴菲特由于投资失误，去年损失高达数十亿美元。“股神”也栽了的事实说明（　　）

A. 股票市场只有高风险，没有高收益

B. 要摒弃股票这种投资方式

C. 股票的风险就在于价格波动的不确定性

D. 投资理财既要考虑收益也要防范风险

（江苏期末联考）为应对国际金融危机，国家采取了一系列促进房地产市场健康发展的政策。但是，随着房地产市场的回升，一些城市出现了房价上涨过快等问题，应引起高度重视。要在保持政策连续性和稳定性的同时，加快保障性住房建设，加强市场监管，稳定市场预期，遏制部分城市房价过快上涨的势头。回答17，18题。

17.“遏制说”一出，证券市场地产股股价大跌。这说明了股票投资具有_____的特点。（　　）

A. 便捷　　B. 高风险　　C. 稳健　　D. 规避风险

18. 2009年7月中旬的一场大雨后，四川成都“校园春天”小区原来距离就很近的两栋楼房居然微微倾斜，靠在了一起，网友们给了这两栋本不该亲密接触的大楼一个响亮的名字：“楼歪歪”。“楼歪歪”现象的存在表明（　　）

A. 市场能优化资源配置　　B. 市场调节是万能的

C. 市场调节具有自发性　　D. 政府应在资源配置中起基础性作用

19.（上海十三校联考）今年“两会”上，“收入分配，以民为先”再度成为代表委员讨论的社会经济十大热点之一。我国现阶段实行按劳分配为主体、多种分配方式并存的分配制度，下列分配方式属于按劳分配的是（　　）

A. 专利技术所得　　B. 国有企业职工的奖金

C. 个体劳动者的劳动所得　　D. 外资企业职工的工资收入

20.（江苏镇江调研）截至2010年1月7日，我国已累计完成接种甲型H1N1流感疫苗5 351万人。此次疫苗的生产、接种费用将由政府埋单，此项财政支出主要来源于税收收入。这说明（　　）

①我国税收取之于民，用之于民

②税收是国家职能实现的物质基础

③在我国，国家利益和个人利益在根本上是一致的

④财政有利于实现经济平稳运行

A. ①②③　　B. ①②④　　C. ①③④　　D. ②③④

4 B

（天津河西区摸底）2009 年 2 月 28 日，十一届全国人大常委会第七次会议表决通过了《中华人民共和国食品安全法》。该法规定："食品、食品添加剂和食品相关产品的生产者，应当依照食品安全标准对所生产的食品、食品添加剂和食品相关产品进行检验，检验合格后方可出厂销售。"回答 21，22 题。

21. 这一规定要求食品、食品添加剂和食品相关产品的生产者必须（　　）

A. 严格遵守市场规则　　B. 转变企业经营方式

C. 明确企业经营战略　　D. 提高自主创新能力

22. 食品、食品添加剂和食品相关产品的生产者加强自律，树立起良好的信誉和形象，对企业来说（　　）

A. 能够不断提高商品的价值量和使用价值量

B. 能通过正当竞争提高其经济效益

C. 是一种无形资产决定着经济效益的高低

D. 能提供优质产品满足消费者各种需要

23.（安徽皖北协作区联考）菲利普斯曲线（如右图）是表示通货膨胀与失业率之间关系的曲线。即就短期而言，失业率高，则通货膨胀率低；失业率低，则通货膨胀率就高。据此，我们可以得出的结论正确的是（　　）

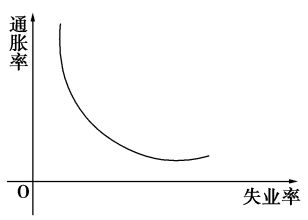

①在失业率高而通货膨胀率低时，可以采用积极的货币政策与财政政策

②在失业率低而通货膨胀率高时，可以采用积极的货币政策与财政政策

③国家宏观调控的"增加就业"和"稳定物价"的目标在短时期内是不可兼得的

④抑制通货膨胀可能会带来失业率的上升

A. ①②③　　B. ①③④　　C. ②③④　　D. ①②④

24.（济南高三模拟）右图漫画"因小失大"给我们政府的启迪是（　　）

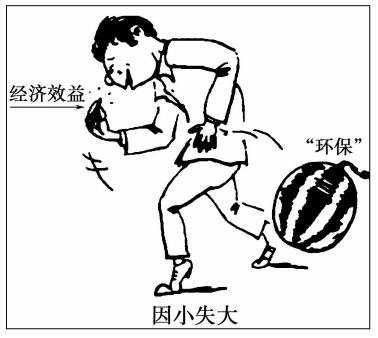

①将建设环境友好型社会放在发展战略的突出位置

②推动企业转变发展方式，促进产业结构优化升级

③统筹人与自然和谐发展，统筹当前利益与长远利益

④顺应时代潮流，为企业经营制定正确的具体策略

A. ①　　B. ①②　　C. ①②③　　D. . ①②③④

25.（山东烟台检测）下列对经济全球化的认识，正确的是（　　）

①主要表现是生产、贸易和资本的全球化

②必然缩小世界各国的经济差距，实现均衡发展

③实质是以发达国家为主导的

④跨国公司的迅速发展为其提供了强有力的载体

A. ①②③　　B. ①②④　　C. ①③④　　D. ②③④

二、非选择题（本大题共 4 小题，共 50 分）

26.（浙江五校联考）"中国蒜都"——山东省济宁市金乡县的大蒜价格，已经从 2 月份最低的每公斤 8 毛钱涨到了每公斤 8 块钱。而在杭州，普通大蒜的零售价已经达到了 12 元/公斤，个别大型超市甚至达到了 14 元/公斤，一路飙升的价格直逼猪肉，以涨幅论，今年大蒜价格的上涨幅度远超同期的房价和股市涨幅。其中，蔓延全球的甲流疫情、游资的炒作和出口大增对蒜价起了推波助澜的作用。包括钟南山院士在内的多位医学权威均表示，"大蒜确实有杀菌的作用，但目前还没有足够的证据表明，大蒜有预防甲流的功效。"

从《经济生活》角度谈谈你对"疯狂的大蒜"的认识。（12 分）

27.（天津河西区摸底）今年以来，受美国金融危机导致国际经济增长趋缓、人民币升值、生产要素成本上涨等宏观因素和中小企业发展方式粗放、创新能力不足、信用不强、融资困难等自身因素影响，我国中小企业特别是劳动密集型企业发展出现了一些新的变化和问题，主要表现为经济效益下滑，亏损增加，出口增速明显回落。

针对材料中的问题，请从《经济生活》角度，为我国中小企业的发展提出合理化建议。（12 分）

28.（吉林省吉林市质检）**材料一**　在全球变暖的严峻形势下，"低碳经济"这一新概念应运而生。低碳经济是以低能耗、低污染、低排放为基础的经济模式。其实质是能源高效利用、清洁能源开发、追求绿色 GDP 的问题。其核心是能源节约和减排技术的创新，产业结构和制度创新以及人类生存发展观念的根本性转变。

材料二　低碳经济时代下，中国面临巨大挑战。一方面，发达国家向发展中国家转移高污染产业，国内一些企业为片面追求经济效益而一味削减治污成本。中国经济在高速发展的同时，环境问题日益严峻。另一方面，能源需求快速增长，富煤少气缺油的资源条件决定了中国能源结构在一定时期还是以煤为主。工业生产技术落后加剧了经济发展的高碳特征。

材料三　本世纪以来，中国应对气候变化，采取了一系列相应措施。2009 年 9 月 22 日，国家主席胡锦涛在联合国气候变化峰会上表示，中国将在 2020 年达到几个目标，包括大力发展可再生能源及核能，提高工业科技水平等等。转变经济增长方式，调整产业结构也被置于重要位置。胡锦涛也表示，作为发展中国家，中国将根据本国国情，在发达国家资金技术支持的条件下，努力适应气候变化，尽可能减少温室气体的排放。

材料一、二、三反映了《经济生活》哪些道理？（14 分）

29.（上海十三校联考）阅读材料，回答下列问题。

材料一　中国大陆遭受的反倾销调查数及占世界比重（2004—2008）

年度	世界反倾销调查数	中国遭受到的反倾销调查数	中国遭受到的反倾销调查数占世界的比重（%）
2004	214	49	22.9
2005	200	55	27.5
2006	202	71	35.1
2007	164	61	37.2
2008	85	37	43.5

2008 年数据只到上半年 6 月 30 日。

注：加入世界贸易组织后，我国已成为世界上遭受反倾销调查最多的国家。

材料二　美国总统奥巴马于 2009 年 9 月 11 日决定启用"特保"（"特定产品过渡性保障机制"和"特殊保障措施"的简称）机制对从中国进口的所有小轿车和轻型卡车轮胎实施为期三年的惩罚性关税。对从中国进口轮胎实施的惩罚性关税税率第一年为 35%，第二年为 30%，第三年为 25%。中国政府随后表示，这是典型的贸易保护主义，不利于中美双边贸易的发展，也不利于世界贸易的发展。

注：我轮胎企业出口目的国主要为美国和欧盟地区，出口轮胎中大部分为中低端产品，技术含量低。

（1）阅读材料一，分析 2004 年以来数据反映的经济现象，并指出材料一和材料二反映出我国对外贸易中共同存在的问题。（4 分）

（2）阅读材料二，运用《经济生活》知识分析：面对"特保"措施，我国轮胎生产企业应寻求怎样的发展出路。（8 分）

天利38套 模块专题 模块二　政治生活(一)　5A

考查范围：我国的国家性质，人民民主的广泛性和真实性，我国政府关于人权问题的观点，我国公民参与政治生活的基本原则，公民有序政治参与，我国的选举方式，我国公民参与民主决策，我国公民的民主监督权和实行民主监督的渠道，我国政府的主要职能，我国政府的作用，我国政府的宗旨和政府工作的基本原则，政府依法行政的要求，对政府权力进行制约和监督，人大代表的权利，人民代表大会与其他国家机关的关系，党的领导地位，科学发展观的内容，中国共产党的宗旨，中国共产党的领导方式和执政方式，中国特色的政党制度，我国处理民族关系的基本原则，我国的民族区域自治制度，我国的宗教政策，联合国的宗旨，时代的主题，国际关系的决定因素，我国的外交政策。

（考试时间：90分钟　　分值：100分）

一、选择题（本大题共25小题，每小题2分，共50分。在每小题给出的四个选项中，只有一项是最符合题目要求的）

1.（福建单科质检）十一届全国人大代表“亮相”时有三喜：一喜工人农民代表多了，政府官员代表少了；二喜首次有了农民工代表；三喜各少数民族都有本民族代表。“三喜”主要体现了我国的人民民主具有　　（　　）

A. 广泛性　　B. 真实性　　C. 全民性　　D. 绝对性

2.（山东潍坊监测）2009年4月13日，经国务院批准，授权国务院新闻办公室发布了《国家人权行动计划（2009－2010年）》。这是我国第一个以人权为主题的国家规划，它明确了未来两年政府在促进和保护人权方面的工作目标和具体措施。由此可见　　（　　）

①我国尊重和保障人权　　②我国人民民主具有真实性

③国务院是我国的立法机关　　④我国社会主义民主政治不断发展

A. ①②③　　B. ①②④　　C. ②③④　　D. ①③④

3.（山东烟台检测）依法有序扩大公民的政治参与，是实现全面建设小康社会奋斗目标的新要求。公民参与政治生活，必须坚持以下原则　　（　　）

①法律面前一律平等　　②权利与义务统一

③个人利益和国家利益相结合　　④民主决策和依法行政相结合

A. ①②③　　B. ①③④　　C. ①②④　　D. ②③④

4.（广东深圳调研）竞选，是现代民主政治的理念之一，是差额选举的一种方式。深圳将探索试行区级人大代表直接竞选，以增强人大代表的民意基础。这种选举方式　　（　　）

A. 为选民行使选举权提供了选择的余地

B. 有助于选民直接行使管理国家的权利

C. 可以比较充分地考虑人大代表当选者结构的合理性

D. 能够扩大人民的民主权利，体现我国民主的真实性

（北京海淀区期末）2009年，重庆市掀起振奋民心的“打黑行动”高潮，回答5，6题。

5. 这次“打黑行动”中，信访举报制度发挥了重要作用，群众寄来1万多封举报信，这是一场人民战争。除了信访举报制度以外，下列_____还是公民行使监督权的合法渠道。　　（　　）

①社情民意反映制度　　②舆论监督制度

③人大代表联系群众制度　　④重大事项社会公示制度

A. ①④　　B. ②③

C. ①②③　　D. ②③④

6. 民主政治建设有赖于公民有序的政治参与，在重庆市民有序参与政治生活的同时，我国也出现了一些无序参与政治生活的事件。能否有序地政治参与　　（　　）

A. 决定着公民能否在法律面前一律平等

B. 决定着我国能否实现依法治国的基本方略

C. 决定着公民能否真正地享受民主生活

D. 决定着公民能否提高参与政治生活的能力

7.（江苏期末联考）2009年6月26日，广东省韶关市一家玩具厂部分新疆籍员工与该厂其他员工发生冲突。事件发生后，境外“三股势力”大肆炒作，借机对中国进行攻击，煽动不明真相的各族群众上街进行示威，境内敌对势力与其遥相呼应，并于7月5日在新疆乌鲁木齐市制造打砸抢烧严重暴力犯罪事件。这给我国公民的启示是　　（　　）

A. 公民要提高辨别是非的能力，有序地参与政治

B. 国家要加强对社会事务的管理，引导公民有序地参与政治

C. 国家必须积极履行好各项职能，维护社会稳定

D. 公民要采取一切手段来维护自己的权益

8.（福建厦门质检）2009年12月15日，为了在全国构建绿色、健康与和谐的网络环境，创造一个纯净的网络世界，国家发布了《关于打击手机网站传播淫秽色情信息专项行动的实施方案》。这表明政府　　（　　）

①履行公共管理职能，加强对手机网络文化市场的管理和引导

②依法行政，制约手机网络文化市场的发展

③履行文化职能，保持手机互联网内容的健康安全

④加强立法，保护未成年人利益

A. ①②　　B. ①③　　C. ②④　　D. ③④

9.（济南高三模拟）为应对当前世界金融危机的影响，缓解中小企业的融资难问题，山东省政府积极向金融机构推荐业绩优、成长好的小企业，解决了金融机构向小企业贷款过程中的信息不对称问题，实现了银行与小企业的互利双赢。这说明政府　　（　　）

①为企业筹集资金、参与经营管理　　②进行经济调节和公共服务

③树立了求真务实的工作作风　　④便民利民、执政为民

A. ①②　　B. ①③④　　C. ②③　　D. ①②③

（海口4月调研）今年以来，海口市开展了市委、市政府领导和政府直属部门负责人接访活动，受到了民众的普遍欢迎。据此回答10，11题。

10. 我市政府和市直属部门主要领导共接待群众302人次，解决了人民群众反映强烈的热点、难点问题。政府这一做法　　（　　）

①坚持了从群众中来到群众中去的工作方法

②树立了求真务实的工作作风

③是推进公民参与基层民主管理的尝试

④为公民直接行使监督权提供了更有效的渠道

A. ①②③　　B. ②③④

C. ①②④　　D. ①③④

11. 在本次活动中，海口市政府直属部门改变原来“高高在上”的形象，开门接访，直接“沉”到基层，倾听民意，改善民生，这有利于　　（　　）

①了解社情民意，提高政府决策的科学性

②维护国家利益和公民的合法利益

③改进国家机关及其工作人员的工作作风

④保障公民完全自由的行使自己的监督权力

A. ②③　　B. ①③

C. ①②　　D. ③④

（天津河西区质检）正确处理公民与国家的关系，各级政府必须严格依法行政，公民应依法维护自己的权益。回答12，13题。

12. 某市城管执法人员从环境保护角度对露天烧烤摊主讲明道理，劝其离开。对那些劝说不听、屡教不改者则依据有关规定给予行政处罚。这一做法坚持了　　（　　）

A. 文明执法、合理行政　　B. 诚实守信、高效便民

C. 公正透明、廉洁高效　　D. 权力行使有轨、监督有效

13. 居民老张对城管部门没收其经营的部分货物不服，他可以　　（　　）

①向新闻媒体提出行政申诉　　②向其上级主管部门申请行政复议

③向人民法院提起行政诉讼　　④到城管部门申请行政复议

A. ①②　　B. ②④　　C. ②③　　D. ③④

14.（山东青岛质检）2009年9月8日，上海白领张军（化名）因好心帮载自称胃痛要去医院的路人，结果却被城市交通执法大队认定为载客黑车，遭扣车与罚款1万元。原来那名路人是执法大队的“钩子”，专门诱人入瓮的，而执法部门这样做原因主要是执法经济的利益诱惑。事件引发强烈反响，网络舆论几乎一边倒地批评这样的“钓鱼执法”手段。“钓鱼执法”事件给我们的启示是　　（　　）

①政府有必要采取一切手段维护社会秩序

②政府要改变形象，努力打造服务型政府

③只要政府行为的出发点是好的，适当采取不正当程序是可以理解的

④政府要做守法的楷模，坚持依法行政。

A. ①②　　B. ②③　　C. ③④　　D. ②④

15.（福建厦门质检）某市政府出台了加强自律的若干措施：公布领导干部办公电话和职务分工；“一把手”要通过媒体公开作出服务承诺；精简行政审批事项。对此有人说：“软环境软了官员的身段，硬了百姓的腰杆儿。”这说明　　（　　）

A. 政务公开就能提高行政工作效率

B. 保障人民知情权就能实现政府的服务承诺

C. 自觉接受人民监督有利于树立政府权威

D. 政府只要加强自律就可以转变政府职能

16.（江苏徐州调研）第十一届全国人民代表大会第二次会议期间，人大代表围绕民生等问题积极建言献策。这表明　　（　　）

A. 人大代表享有提案权、质询权、决定权

B. 人大代表代表人民行使国家权力

C. 人大代表要受人民监督

D. 人大代表是通过间接选举产生的

17.（广东四校期末联考）在我国，全国人民代表大会是最高国家权力机关，它有权组织建立并监督其他国家机关，由它组织建立并监督的国家机关有　　（　　）

A. 人民政协、最高人民法院、最高人民检察院、人大常委会

B. 国务院、最高人民法院、最高人民检察院、国家主席

C. 国务院、最高人民法院、最高人民检察院、全国总工会

D. 中共中央、国务院、最高人民法院、最高人民检察院

（北京宣武区质检）伟大的事业需要伟大的党，伟大的党才能担当起伟大的使命。回答18，19题。

18. 中国共产党十七届四中全会2009年9月在京举行，全会审议通过了《中共中央关于加强和改进新形势下党的建设若干重大问题的决定》。全会提出，办好中国的事情，关键在党。这是因为　　（　　）

A. 中国共产党开辟了中国特色社会主义道路

B. 中国共产党是国家法律和大政方针的制定者

C. 中国共产党是中国特色社会主义事业的领导核心

D. 中国共产党坚持科学执政、民主执政、依法执政

19. 科学发展观，是立足社会主义初级阶段的基本国情，总结我国实践发展，借鉴外国发展经验，适应新的发展需求提出来的。它科学地回答了_____的重大理论和实际问题。　　（　　）

A. 什么是社会主义、怎样建设社会主义

.com



B. 建设什么样的党、怎样建设党
C. 中国走什么道路、中国的发展依靠谁
D. 实现什么样的发展、怎样发展

20.（江苏苏、锡、常、镇四市调查）进入新世纪，中共中央建议将“国家建立健全同经济发展水平相适应的社会保障制度”和“公民的合法私有财产不受侵犯”等内容写入宪法。这表明，中国共产党（　　）

①坚持科学执政、民主执政、依法执政
②履行社会管理与公共服务的基本职能
③以全心全意为人民服务作为自己的宗旨
④具有与时俱进的执政能力

A. ①②　　B. ②③
C. ①③④　　D. ①②④

21.（江苏南通调研）江苏拓宽视野择优选才，来自民主党派和无党派人士的干部任正职已成常态。这表明（　　）

A. 我国的政治体制发生了根本变化
B. 共产党和民主党派、无党派人士共同执政
C. 我国民主政治制度不断健全
D. 多党制具有强大的生命力

22.（济南高三模拟）2009年8月，中宣部、教育部、国家民委联合发布《关于深入开展民族团结宣传教育活动的意见》，要求各级各类学校都要深入开展“民族团结教育”主题活动。要求加强民族团结教育（　　）

①符合我国处理民族关系的基本原则
②有利于维护国家统一、社会稳定和各民族共同繁荣
③抓住了民族区域自治制度的核心内容
④能打牢社会主义核心价值体系的基础

A. ①②　　B. ②③　　C. ①③④　　D. ①③

23.（浙江宁波期末）目前西藏各类成规模的藏传佛教寺庙1 700多处，僧尼有4.6万多人，还有4座清真寺、1座天主教堂，各种宗教活动和生活正常进行。这表明（　　）

A. 我国实行宗教信仰自由政策
B. 国家鼓励和支持人们信仰宗教
C. 国家依法加强对宗教事务的管理
D. 各种宗教活动都受法律的保护

24.（江苏泰州联考）2009年12月9日，美国总统奥巴马在挪威首都奥斯陆接受诺贝尔和平奖，他在发表获奖感言时指出：对我个人而言，获得这样一个奖项，我希望能够促进世界的和平，能够促进世界的核裁军，使核武器尽快消失，能让人们在和平的环境下生活。奥巴马的感言符合（　　）

①联合国维护国际和平与安全的宗旨之一
②经济和科技实力是当代国际竞争的实质
③世界人民的共同愿望和根本利益
④符合和平与发展的时代主题

A. ①②④　　B. ①②③
C. ②③④　　D. ①③④

25.（广州毕业班综合Ⅰ）在第七届亚欧首脑会议上，欧盟委员会主席巴罗佐针对当前的世界金融危机指出：“我们同在一条船上，要么一起畅游，要么一起淹死。”这一形象的比喻说明（　　）

A. 和平与发展已成为当今时代的主题
B. 构建和谐世界是世界各国的共同愿望
C. 亚欧各国存在着共同的国家利益
D. 各国的对外政策是由共同利益决定的

二、非选择题（本大题共4小题，共50分）

26.（山东青岛质检）2009年10月28日，记者从全国人大常委会报告中获悉，在中央预算安排的重大公共投资项目中，保障性住房建设进度缓慢。对此，报告强调，政府在保障性住房建设中要把解决最困难群众的住房问题放在优先位置，多做“雪中送炭”、少做“锦上添花”的事。除重点改善城市特困群体住房，煤矿、林区、垦区的棚户区改造和农村危房改造外，还应把其他工矿的棚户区改造逐步纳入中央投资补助范围。要正确把握保障性住房建设的目标和要求，结合实际，因地制宜地制订建设规划。政府有能力提供廉租房实物配租的，应加快建设；没有能力的地方，应保证租赁补贴发放，维护、修缮、利用现有旧房，改善困难居民的住房条件。

“政府要多做‘雪中送炭’、少做‘锦上添花’的事。”请结合政治常识，阐述这一说法的理论依据。（12分）

27.（沈阳质量监测Ⅰ）**材料一**　美国金融危机发生之后，各国政府都十分关注。2008年10月24日至25日在北京举行了第七届亚欧首脑会议，国务院总理温家宝在记者招待会上说，金融危机会延缓世界经济的发展，对中国的经济也必将造成影响。“只要我们政策对头，我们一定能够保持经济平稳较快发展，对于这一点我们抱有充分的信心。”

材料二　为妥善应对金融危机带来的挑战，我国调整了经济政策：加大中央政府投资，主要用于各项基础设施建设，为经济发展增强后劲；从2009年1月1日起全面实施增值税转型，促进企业投资和扩大内需；调整出口退税政策，鼓励外贸发展，促进外贸出口保持稳定增长；央行下调人民币贷款基准利率和中小金融机构人民币存款准备金率，以解决中小企业流动资金短缺问题……

运用《政治生活》的知识说明我国为什么能够妥善地应对金融危机的挑战？（14分）

28.（北京海淀区期末）新中国建立之前，曾有民主人士问毛泽东，政权如何跳出“其兴也勃焉，其亡也忽焉”的历史周期率。毛泽东回答：“要靠民主。”

改革开放后，邓小平指出，跳出“周期率”的根本途径，要靠民主，更要靠法治。

中国共产党坚持科学执政，民主执政，依法执政，不断完善党的领导方式和执政方式。

阅读上述材料，运用《政治生活》的有关知识，谈谈怎样理解党的依法执政？（12分）

29.（北京石景山区期末）近年来，中国与非洲的关系迅速发展，对非洲投资增多，这引起了某些西方人士的非议，他们甚至荒唐地认为中国在非洲推行新的“殖民政策”，其内涵主要包括：第一，掠夺非洲能源；第二，以廉价商品占领非洲市场；第三，向非洲国家推销中国经济发展模式。

请从我国的外交政策角度，驳斥所谓“中国在非洲推行新的‘殖民政策’”的观点。（12分）

天利38套 模块专题

模块二　政治生活(二)　6A

考查范围：我国的国家性质，人民民主专政的本质，我国公民必须履行的政治义务，我国公民参与政治生活的基本原则，我国公民参与民主决策，基层群众自治，我国公民的民主监督权和实行民主监督的渠道，我国政府的主要职能，我国政府的宗旨和政府工作的基本原则，对政府权力进行制约和监督，我国行政监督体系，政府的权威，人民代表大会及常设机关的法律地位，人民代表大会的职权，人大代表的权利，党的领导地位，中国共产党的宗旨，中国共产党的执政方式，中国特色的政党制度，人民政协，我国处理民族关系的基本原则，我国的民族区域自治制度，我国的宗教政策，主权国家，联合国，时代的主题，国际关系的决定因素，我国的外交政策。

（考试时间：90分钟　　分值：100分）

一、选择题(本大题共25小题，每小题2分，共50分。在每小题给出的四个选项中，只有一项是最符合题目要求的)

1.（山东威海统考）“以前，感觉国家很抽象、离我很遥远；但现在，感觉国家很具体、很真实”，这是四川灾区百姓发自内心的感言。在灾难中，国家“不抛弃、不放弃”任何一个生命。这彰显了　　（　　）

①我国坚持“以人为本”的理念　　②我国尊重和保障人权的真实性

③我国的国家性质　　④我国新型民主的全民性

A. ①②③④　　B. ①②③　　C. ①②④　　D. ②③

2.（江苏南通模拟）坚持人民民主专政是社会主义现代化建设的政治保证。从人民民主的角度，其政治保证作用主要体现在　　（　　）

①确保人民当家作主的地位

②保证人民依法享有绝对的权利和自由

③尊重和保障人权

④打击敌对分子和敌对势力

A. ①②　　B. ①③　　C. ②③　　D. ①③④

3.（江苏南通模拟）依法有序扩大公民的政治参与，是实现全面建设小康社会奋斗目标的新要求。公民参与政治生活，必须坚持以下原则　　（　　）

①公民在法律面前一律平等　　②权利与义务统一

③个人利益与国家利益相结合　　④以德治国与依法治国相结合

A. ①②④　　B. ①③④　　C. ①②③　　D. ②③④

（天津河西区摸底）为适当缓解供热企业因煤价上涨而导致的经营困难，国家计划要适度调整供热价格。然而，供热价格的调整事关广大群众的切身利益。为此，新华社开辟专栏讨论此事，老百姓纷纷上网发表自己的意见。回答4，5题。

4. 老百姓上网发表自己对供热价格调整的看法，这是公民通过以下哪种制度反映自己的意见和建议　　（　　）

A. 社情民意反映制度　　B. 舆论监督制度

C. 信访举报制度　　D. 社会听证制度

5. 公民依法参与决策过程　　（　　）

①有利于集中民意反映民智，使决策民主科学

②有利于公民对决策的理解，推动决策的实施

③充分表明我国公民是国家的主人

④体现了我国公民能够直接行使国家权力

A. ①②　　B. ①②③　　C. ①②④　　D. ①②③④

（北京石景山区期末）《焦点访谈》是中央电视台具有代表性的舆论监督栏目。这一栏目每一次都强调“用事实说话”，栏目播出后，许多问题都得到及时有效的解决。回答6，7题。

6.《焦点访谈》属于民主监督的　　（　　）

A. 网上评议政府　　B. 信访举报制度

C. 新闻舆论监督　　D. 人大代表联系群众制度

7. 实行民主监督的意义在于　　（　　）

①可以根除腐败现象，改进国家机关及工作人员的工作

②有助于激发广大人民关心国家大事，为现代化建设出谋划策的主人翁精神

③有利于维护国家利益和公民的合法权益

④有利于克服官僚主义和不正之风

A. ①②③　　B. ①②④　　C. ①③④　　D. ②③④

8.（江苏南通调研）目前，涉及34 600多个乡镇的新一轮乡镇机构改革全面启动，到2012年基本完成。下列对乡镇职能的表述，不正确的是　　（　　）

A. 促进经济发展，增加农民收入　　B. 强化公共服务，打造全能政府

C. 加强社会管理，维护农村稳定　　D. 推进基层民主，促进农村和谐

9.（天津六校联考）

建幢小楼分阴阳，一面土来一面光。
正面堂堂新农舍，背阴却是土坯房。
想来领导实在忙，下车视察是奢望。
体察民情走过场，于是总出遮羞墙。



漫画给我们的启示是　　（　　）

A. 政府是国家权力机关的执行机关，是人民利益的执行者和捍卫者

B. 政府应树立求真务实的工作作风

C. 政府应坚持从群众中来到群众中去的工作方法

D. 政府应坚持为人民服务的工作态度

10.（北京海淀区期末）近日，我国第一例环境公益行政诉讼案——“中华环保联合会诉贵州某市国土资源局行政不作为”案在法院开庭。被告当庭表示将撤回某项目土地使用权的决定，因为该项目对环境有潜在危险。这说明　　（　　）

①政府接受监督是坚持依法行政的必要保证

②政府应依法行政，审慎行使权力

③行政机关行使行政职权受人民法院监督

④有效制约和监督政府权力的关键在于司法监督

A. ①②③　　B. ②③④　　C. ①②④　　D. ①③④

11.（北京海淀区期末）发生在新疆维吾尔自治区乌鲁木齐的“7.5”事件是境内外“三股势力”精心策划和组织的一起打砸抢烧严重暴力犯罪事件，其目的是破坏民族团结，策动民族分裂。自治区党委、政府及时调集警力依法拘捕打砸抢烧的犯罪分子。这一事件启示我们　　（　　）

①公民必须自觉履行维护国家统一和民族团结的义务

②公民要履行维护国家安全、荣誉和利益的义务

③政府要坚持履行好惩治犯罪分子、维护社会治安的职能

④在构成主权国家的要素之中，最重要的是政权

A. ①②③　　B. ②③④　　C. ①③④　　D. ①②④

12.（广东四校期末联考）从监督体系上看，对国务院具有外部监督职能的中央国家机关有　　（　　）

①全国人民代表大会　　②国家监察部和国家审计署

③最高人民法院和最高人民检察院　　④中国人民政治协商会议

A. ①③　　B. ①②③　　C. ①④　　D. ①②③④

13.（合肥教学质检）合肥市政府在大发展、大跨越中，始终把民众诉求作为社会发展的首要考虑。2009年把农村低保、农村五保供养、计划生育奖励扶助、城市低收入家庭住房困难保障、免费婚前检查等多个项目纳入提标扩面范围，提标扩面的支出预计将超过2008年。政府这样做　　（　　）

①表明政府注意统筹经济社会发展　　②表明政府高度关注民生

③有利于树立政府权威　　④体现了公民与国家的和谐关系

A. ①②③　　B. ①②④　　C. ②③④　　D. ①②③④

14.（江苏苏州调研）人民代表大会制度是适合我国国情的根本政治制度，这一制度　　（　　）

①是社会主义民主政治的本质和核心

②是中国共产党带领全国人民长期奋斗的重要成果

③决定了人民民主专政的国家性质

④体现了我国社会主义民主政治的特色

A. ①③　　B. ②④　　C. ①②③　　D. ①②④

15.（广州毕业班综合Ⅱ）近年来，人大代表在百姓心中的分量越来越重。每年一次的人民代表大会，老百姓都能触摸到代表履职的“脉搏”：心系人民群众，热议国计民生，力推重要问题的解决。这说明　　（　　）

A. 人大代表的权利和作用越来越大

B. 人民代表大会制度保证了国家机关协调高效运转

C. 人大代表是国家权力的所有者和行使者

D. 人大代表的服务能力和履职意识不断提高

（浙江五校联考）2008年10月12日，中共十七届三中全会通过了《中共中央关于推进农村改革发展若干重大问题的决定》。《决定》指出，按照依法自愿有偿原则，允许农民以转包、出租、互换、转让等形式流转土地承包经营权，发展多种形式的适度规模经营。据此回答16，17题。

16. 上述材料体现了　　（　　）

①中国共产党是中国特色社会主义事业的领导核心

②中国共产党积极履行经济职能

③中国共产党坚持民主执政

④中国共产党坚持依法行政

A. ①②③　　B. ①③　　C. ①④　　D. ①③④

17. 十七届三中全会召开之前，中共中央召开党外人士座谈会，邀请各民主党派中央、全国工商联领导人和无党派人士出席，听取他们对《中共中央关于推进农村改革发展若干重大问题的决定》的意见和建议。这表明　　（　　）

①多党合作有利于推动国家政治生活的民主化

②中国共产党和各民主党派共同执掌国家政权

③各民主党派是参政党，参与国家重大方针政策的决策和制定

④我国的政党制度是共产党领导的多党合作和政治协商制度

A. ①③　　B. ①④　　C. ①③④　　D. ①②④

18.（南京第二次调研）党的十七大报告把“基层群众自治制度”首次纳入中国特色政治制度范畴。实行基层群众自治，是　　（　　）

①保证人民群众依法直接行使民主权利的必然要求

②发展社会主义民主政治的重要内容

③加强基层政权建设的重大举措

④人民当家作主的最有效途径

A. ①②③　　B. ②③④　　C. ①②④　　D. ①③④

19.（山东潍坊质量监测）2009年9月20日，中国人民政治协商会议成立60周年庆祝大会在全国政协礼堂隆重举行。下面关于人民政协的说法正确的是　　（　　）

A. 人民政协是中国共产党领导的多党合作和政治协商的国家机关



B. 人民政协履行政治协商、民主监督、参政议政的政府职能
C. 人民政协是发扬社会主义民主的重要形式
D. 人民政协围绕团结和平等两大主题发挥作用

20.（山东潍坊质量监测）南京市率先在城市社区党委班子换届中，运用公推直选这一竞争性的选举制度产生了363个新的社区党委班子。公推直选的成功实践表明（　　）

A. 我国的选举制度发生了重大变化　　B. 党内民主政治建设不断推进
C. 人民的民主权利不断扩大　　D. 我国公民的政治参与能力不断提高

（辽宁五校期末考试）2008年是宁夏回族自治区成立50周年。50年来，宁夏回族自治区发生了翻天覆地的变化，充分体现出民族区域自治制度的优越性。据此回答21，22题。

21. 民族区域自治的前提和基础是（　　）

A. 领土完整和国家统一　　B. 保障民族自治权
C. 少数民族人民当家作主　　D. 坚持民族平等原则

22. 根据我国民族区域自治制度，我国民族自治地方设立的自治机关是指自治地方的（　　）

①人民法院　　②人民政府
③人民检察院　　④人民代表大会
A. ①②　　B. ②③　　C. ②④　　D. ③④

23.（福建厦门质检）美国总统奥巴马对中国进行国事访问期间，双方发表的《中美联合声明》指出，互相尊重主权和领土完整这一根本原则是指导中美关系的中美三个联合公报的核心。这说明（　　）

①主权是一个国家的生命和灵魂
②国际竞争的实质是主权和领土的竞争
③国家利益对立是中美冲突的根源
④国家利益是国际关系的决定性因素
A. ①②　　B. ③④　　C. ②③　　D. ①④

24.（上海十四次联考）右边这幅图是联合国总部的一个标志性建筑，这支枪管处打结的手枪反映出联合国的宗旨是（　　）



A. 打击国际恐怖主义，维护各国人民的根本利益
B. 维护各会员国的共同利益
C. 维护国际和平与安全，促进国际合作与发展
D. 建立国际政治经济新秩序

25.（济南高三模拟）因欧盟轮值主席法国总统萨科齐执意会见达赖，2008年11月26日，中国政府作出了推迟中欧峰会的决定，并暂停中法部分经贸合作项目。这是因为（　　）

①国家利益是国际关系的决定因素
②国家主权关系到中华民族核心利益
③中法两国的政体是根本对立的
④西藏问题是关系世界和平与安全的国际问题
A. ①②　　B. ①②③　　C. ③④　　D. ①②③④

二、非选择题（本大题共4小题，共50分）

26.（广州毕业班综合Ⅰ）辨析：实行基层群众自治制度就能保证人民当家作主。（12分）

27.（合肥教学质检）结合上述材料回答下列问题。

材料一　《经济发展与环境质量关系示意图》

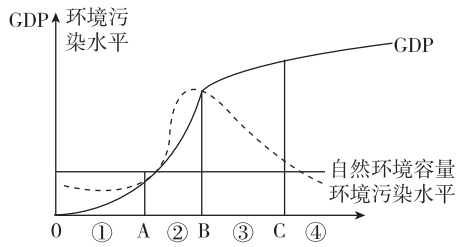

材料二　2009年11月25日，国务院总理温家宝主持召开国务院常务会议，研究部署应对气候变化工作，决定到2020年实现我国控制温室气体排放的行动目标。会议认为，妥善应对气候变化，事关我国经济社会发展全局和人民群众根本利益，事关各国人民的福祉和长远发展。中国作为负责任的发展中国家，主张通过切实有效的国际合作，共同应对气候变化。

从《政治生活》角度谈谈我国政府在实现控制温室气体排放行动目标中的作为。（14分）

28.（江苏泰州联考）**材料一**　五大自治区GDP增长情况

		内蒙古	宁夏	西藏	新疆	广西
成立初	时间	1947年	1958年	1965年	1955年	1958年
	GDP（亿元）	5.3	3.29	3.27	12	146
2008年GDP（亿元）		7 761.8	1 070	395.91	4 203	7 171

备注：内蒙古经济发展增长速度7年位居全国第一；西藏连续8年保持12%以上的增速。

材料二　2009年9月27日国务院新闻办公室发表《中国的民族政策与各民族共同繁荣发展》白皮书。白皮书说，新中国60年的实践充分证明，中国的民族政策适合中国国情，符合各族人民的根本利益，得到各族人民的拥护，是正确和行之有效的。民族平等是中国民族政策的基石；民族团结是中国处理民族问题的根本原则，也是中国民族政策的核心内容；坚持各民族共同繁荣发展，是中国民族政策的根本立场。

（1）作为我国民族政策基本内容的民族区域自治制度为什么适合中国国情，符合各族人民的根本利益？（6分）

（2）如何理解民族团结是我国处理民族问题的根本原则，民族政策的核心内容？（6分）

29.（浙江嘉兴测试）在G20第三次金融峰会上，中国国家主席胡锦涛发表了题为《全力促进增长，推动平衡发展》的讲话，强调要完善促进平衡发展的国际机制，推动世界银行增加发展资源、增强减贫和发展职能，敦促国际货币基金组织优先向最不发达国家提供融资支持；呼吁发达国家要切实增加对发展中国家的援助规模，坚定不移推动世界经济平衡发展；主要储备货币发行国要平衡和兼顾货币政策对国内经济和国际经济的影响。

结合材料，运用《政治生活》知识，说明我国主张“推动平衡发展”的理由。（12分）

天利38套 模块专题 模块二　政治生活(三)　7A

考查范围:我国的国家性质,我国公民必须履行的政治义务,我国的选举方式,我国公民参与民主决策的方式,我国公民直接参与民主决策的意义,我国公民的民主监督权和实行民主监督的渠道,我国政府的性质和主要职能,我国政府工作的基本原则,政府依法行政,对政府权力进行制约和监督,人大代表大会制度,人大常委会的法律地位,人民代表大会与其他国家机关的关系,中国共产党的性质、宗旨,中国特色社会主义理论体系,中国共产党的执政方式,中国特色的政党制度,我国处理民族关系的基本原则,我国的民族区域自治制度,我国的宗教政策,时代的主题,国际关系的决定因素,我国的外交政策。

(考试时间:90分钟　　分值:100分)

一、选择题(本大题共25小题,每小题2分,共50分。在每小题给出的四个选项中,只有一项是最符合题目要求的)

1.(上海十三校联考)2009年11月6日,全国政协主席贾庆林在第三届全国非公有制经济人士优秀中国特色社会主义事业建设者表彰大会上指出:大力弘扬"优秀建设者"精神,努力做合格的中国特色社会主义事业建设者。中国特色社会主义事业建设者体现了我国人民民主专政国家政权的　　(　　)

A. 社会基础　　B. 阶级基础

C. 领导阶级　　D. 最基本的依靠力量

2.(江苏徐州调研)《中华人民共和国侵权责任法》将于2010年7月1日起施行,该法规定因同一侵权行为造成多人死亡的,可以以相同数额确定死亡赔偿金,即"同命同价"。这反映出　　(　　)

A. 公民平等地享有权利　　B. 公民平等地履行义务

C. 任何公民的权利都受到保护　　D. 享有权利是履行义务的前提

3.(安徽安庆质检)"让世界了解真相"。达赖集团操纵的西藏暴乱发生后,针对部分西方媒体的歪曲报道,许多网民奋起反击,通过各种途径予以揭露,这样做是　　(　　)

①公民自觉参与政治生活的重要表现

②公民自觉维护国家利益的重要体现

③公民依法行使监督权的重要表现

④公民依法管理宗教事务的重要体现

A. ①②　　B. ②③　　C. ①④　　D. ③④

4.(浙江五校联考)2009年10月27日,十一届全国人大常委会第十一次会议审议选举法修正案草案等。据此选举法修正案草案规定,全国和地方各级人民代表大会代表实行差额选举。"差额选举"与"直接选举"共同的特性是　　(　　)

A. 充分考虑当选者结构的合理性　　B. 为选民提供了一定的选择余地

C. 能更充分地体现选民的意志　　D. 容易发生虚假宣传、贿赂选民的情况

(北京宣武区期末)2009年下半年北京市开展"2010年北京市拟办实事征集"活动,市政府向市民征集建议。回答5,6题。

5.征集活动结束后,市政府将汇总意见建议形成材料,提交给有关部门参考,研究提出拟办实事项目。年底,形成2010年办实事征求意见稿后,市政府还将再次听取市民意见。上述做法有助于　　(　　)

①充分反映民意,体现决策的民主性　　②公民直接行使管理国家事务的权利

③集中群众智慧,增强决策的科学性　　④提高公民参与公共事务的热情和信心

A. ①②③　　B. ①②④　　C. ①③④　　D. ②③④

6.在征集建议活动中,市民可以打电话,发送邮件,也可寄发信函到北京市政府人民建议征集办公室。这是公民　　(　　)

①直接进入决策机关进行决策　　②积极参与民主决策活动的体现

③通过社会听证制度参与决策　　④通过社情民意反映制度参与决策

A. ①②　　B. ①③　　C. ②③　　D. ②④

7.(辽宁五校期末考试)北京市积极推进电子政务,在各区县政府网站上相继开设了行业服务咨询、举报投诉信箱、网上评议等专栏,有效地推进了政务的公开、公平、公正。推行电子政务　　(　　)

A. 加强了政府的行政干预　　B. 方便了公民的政治参与

C. 扩大了政府的管理权限　　D. 改变了公民的基本权利

8.(江苏苏、锡、常、镇四市调查)"幸福指数"已作为一项重要内容,列入每年进行的和谐社会指标体系调查。为提升老百姓的幸福指数,我国政府应该　　(　　)

A. 认真履行国家权力机关的职能　　B. 转变职能,建设服务型政府

C. 逐步淡化政府的监管职能　　D. 依法行政,扩大政府的职权范围

9.(广州毕业班综合Ⅰ)据报道,《某市政府投资项目审计监督条例》先后四次提交该市人大审议表决,均未获通过,这在该市还是第一次。该事例表明该市人大　　(　　)

①通过地方立法规范政府行为　　②通过行使质询权对政府进行监督

③依法对政府进行行政系统外部监督　　④依法对政府进行行政系统内部监督

A. ①③　　B. ②④　　C. ①④　　D. ②③

10.(济南高三模拟)2009年,我国的人民代表大会制度走过了55年的历程,日益显示出强大的生命力和无比的优越性。这一制度　　(　　)

①以人民代表大会为基石

②决定了我国人民民主专政的国家性质

③保证了国家机关协调高效运转

④保障了人民在国家机关直接行使管理国家的权力

A. ①②③　　B. ①③　　C. ②③④　　D. ③④

(浙江金丽衢十二校联考)"5·12"汶川大地震,举国哀痛,追思死者,祝福生者。国家多难,人生多艰,惟民族精神永存!回答11,12题。

11.在抗震救灾中,党员干部总是到灾情最严重、最危险的地方去。在关键时刻做抗震救灾的先锋队、做人民的主心骨、做受灾群众的贴心人。党员干部以自己的实际行动　　(　　)

①诠释中国共产党的性质和宗旨

②践行我党的立党为公、执政为民的执政理念

③发挥共产党员的先锋模范作用

④表明党的一切工作的出发点和落脚点

A. ①②③④　　B. ①②④　　C. ①③④　　D. ②③④

12.2008年7月26日,四川省十一届人大常委会举行第四次会议审议通过了省长代表省政府所作《关于汶川特大地震抗震救灾及灾后恢复重建工作情况报告》。这主要说明四川省人大常委会　　(　　)

A. 是地方国家权力机关,是四川省行政区域内人民行使国家权力的机关

B. 行使决定权和监督权,决定四川省区域内救灾和恢复重建工作安排并监督实施

C. 行使立法权,省长代表省政府提出的工作报告经省人大常委会同意后成为法律

D. 行使任免权,肯定了省长和省政府的工作成绩,省长可以继续任职

13.(北京海淀区期末)"人民群众最讲实际。你干好事,他就鼓掌;你干得不好,他就有意见。我们党员干部一定要眼睛向下,多为老百姓办些实事,当好人民的勤务员。"这段话表明中国共产党　　(　　)

①要坚持全心全意为人民服务的宗旨

②要把民主执政作为执政的基本方式

③执政地位的确立是由党的执政方式决定的

④要切实维护最广大人民的根本利益

A. ①④　　B. ②③

C. ①②④　　D. ①③④

14.(广东四校期末联考)每年3月份全国人大会议召开期间,全国政协会议也几乎同时召开,俗称"两会"。两会的共同点是　　(　　)

A. 都对国家事务拥有最高决策权

B. 都是爱国统一战线组织,具有民主监督、政治协商和参政议政三大职能

C. 都是中国共产党领导的我国人民实行民主的重要组织形式

D. 都是由人民选举产生的代表所组成的国家机关

15.(山东临沂质检)胡锦涛总书记在纪念党的十一届三中全会召开30周年大会上的讲话中指出,改革开放以来我们取得一切成绩和进步的根本原因,归结起来就是:开辟了中国特色社会主义道路,形成了中国特色社会主义理论体系。中国特色社会主义理论体系是　　(　　)

①包括毛泽东思想、邓小平理论、"三个代表"重要思想和科学发展观等重大战略思想在内的科学理论体系

②关于中国革命和建设的正确的理论原则和经验总结

③马克思主义中国化的最新成果

④不断发展的、开放的理论体系

A. ①②③　　B. ③④　　C. ①③④　　D. ②④

16.(北京海淀区期末)全国政协十一届二次会议期间,与会委员围绕保持经济平稳较快发展、维护社会和谐稳定积极讨论,提出了许多真知灼见,为党和政府决策提供了重要参考。这表明了　　(　　)

A. 人民政协具有国家事务决定权

B. 人民政协是我国基本的政治制度

C. 人民政协履行参政议政、政治协商的职能

D. 政治协商制度保证了政府决策的科学化、民主化

17.(湖南邵阳联考)2009年是我国建国60周年,也是中国共产党领导的多党合作和政治协商制度确立60周年。我国政党制度的显著特征表现在　　(　　)

A. 中国共产党领导,多党派合作

B. 中国共产党与民主党派是领导与被领导、监督与被监督的关系

C. 中国共产党与各民主党派共同执掌政权,共同致力于社会主义事业

D. 政治协商是多党履行国家职能的重要形式

18.(浙江宁波期末)2009年7月16日,国家民委举办了中国少数民族人权事业发展新闻发布会。国家民委负责人指出:依法打击新疆"7.5"暴力恐怖活动,得到全国各族人民的支持,有利于全国各族人民和维护国家的统一。在我国,依法打击暴力恐怖活动,维护民族团结,是因为　　(　　)

①我国各民族绝无高低优劣之分,都是国家和社会的主人

②民族的团结和凝聚力是衡量一国综合国力的重要标志之一

③民族团结是实现民族平等、各民族共同繁荣的政治基础

④民族团结是经济发展和社会进步的保证,是国家统一的基础

A. ①③　　B. ②③　　C. ②④　　D. ①④

19.(江苏南通模拟)2009年我国外交工作以应对金融危机为主线,以多边峰会为重要平台,积极参与应对金融危机、气候变化等国际合作,各项外交工作取得新的重要进展。我国的外交实践说明　　(　　)

A. 国际关系的决定性因素是国家力量

B. 中国是维护世界和平与发展的积极因素

C. 和平共处五项原则是我国对外关系的基本立场

D. 中国对国际事务发挥着重要的主导作用



（北京西城区检测）促进新疆地区民族关系、宗教关系和谐，是新疆社会主义现代化建设的重要内容。回答20，21题。

20. 2009年11月，新疆维吾尔自治区人大常委会首次发行维吾尔文《新疆维吾尔自治区地方性法规汇编》(1998—2008年)。新疆维吾尔自治区制定地方性法规，体现了（　　）

A. 自治机关的自治权　　B. 自治机关的立法自治权

C. 人民政府的国家立法权　　D. 司法机关的审判权或检察权

21. 新疆维吾尔自治区党委多次强调，在多数群众不信教的地方要注意尊重和保护少数信教群众的合法权利，在多数群众信教的地方要注意尊重和保护少数不信教群众的合法权利。这有利于信教群众和不信教群众（　　）

①依法管理宗教事务　　②实现宗教信仰自由

③以科学的态度对待宗教　　④共同致力于建设社会主义事业

A. ①②　　B. ①④　　C. ②④　　D. ③④

22. (南京第二次调研)某市人民代表大会上，该市政府2009年财政预算报告草案接连被代表们打回，修改了两次才获通过。这表明，在我国（　　）

A. 人民代表大会是根本政治制度　　B. 政府要接受人民代表大会监督

C. 人民代表大会具有立法权、决定权　　D. 人民代表领导社会、经济生活

23. (广东惠州调研)2008年10月11日美国国务院发言人宣布，由于美朝在朝鲜核设施验证问题上达成协议，美国决定将朝鲜从所谓“支持恐怖主义国家”的名单中除名。这表明（　　）

A. 美国与朝鲜之间已经不存在根本利益上的对立

B. 美国与朝鲜存在着共同利益

C. 反对恐怖主义是当今世界的主题

D. 恐怖主义是世界和平与发展的主要障碍

（湖南邵阳联考）2009年7月5日晚，乌鲁木齐发生打砸抢烧严重暴力犯罪事件，这次事件伤亡人数多、财产损失大，严重危害我国的民族团结和世界和平。回答24题。

24. 铁的事实证明，“7.5”事件是由境外反动势力一手策划，在境内采取行动，有预谋、有组织的打砸抢烧事件，境外“三股势力”穿着华丽的“民族利益”马甲，干着打砸抢烧杀的残暴勾当，破坏社会稳定，干扰社会发展。这说明（　　）

A. 恐怖主义已经成为当今时代的主题

B. 恐怖主义是解决世界和平与发展的主要障碍

C. 世界人民争取和维护世界持久和平的任务依然艰巨

D. 和平问题是当今时代最大的主题

25. (山东临沂质检)近年来，亚丁湾、索马里海域频繁发生海盗袭击、劫持过往船舶事件，对国际航运、海上贸易和海上安全构成严重威胁。2008年12月26日，中国政府根据国际法和联合国安理会有关决议，派遣海军舰艇赴该海域打击海盗，保护中国船舶、人员安全，保护世界粮食计划署等国际组织运送人道主义物资船舶的安全。中国政府此举表明（　　）

①我国支持和参与联合国的各项活动

②我国外交政策的基本立场发生变化

③我国积极履行国际义务，展示了我国负责任的大国形象

④维护国家利益是国家对外活动的出发点和落脚点

A. ①②　　B. ②③　　C. ③④　　D. ①④

二、非选择题(本大题共4小题，共50分)

26. (天津十二区县联考)2009年新春伊始，北京迎来了新年后的第一场春雨，传送着万物复苏、大地回春的气息。在中南海国务院第一会议室，温家宝总理等国务院领导与13位邀请来的基层群众代表围坐在椭圆形桌旁，听取他们对政府工作的意见。

在13位代表中有种粮农民、养猪大户、技术工人、失岗返乡农民工、应届大学毕业生、社区民警、乡镇卫生院医生、小学教师、汽车司机等。他们都是第一次走进中南海，更是第一次与国家领导人如此近距离接触，心情既紧张又激动。

“你们应该是中南海的主人，来到这里就像到家一样。”温总理一句家常式的招呼，让代表们紧张的心情开始放松。他们真的像家里人一样，与总理叙家常、谈国事。

普通百姓踏入中南海与总理叙家常、谈国事，体现了《政治生活》的哪些道理？(12分)

27. (北京丰台区期末)下表是2009年中央政府出台的扶持“三农”的相关政策和措施：

政策措施1	中央政府进一步加大对“三农”的投入，其中，用于粮食直补、农资综合补贴、良种补贴、农机具购置补贴、“家电下乡”补贴的财政资金将达到1 330亿元
政策措施2	提高农村义务教育公用经费标准，逐步解决农民工子女在输入地免费接受义务教育问题，增加农村义务教育阶段家庭经济困难寄宿生的生活补助
政策措施3	在农村全面推行新型农村合作医疗制度和医疗救助制度，健全基层医疗卫生服务体系，支持乡镇卫生院建设，着手实施农民60岁以后即享受国家普惠式养老金的政策

运用《政治生活》的相关知识，从解决农民消费问题的角度，分析上述措施。(12分)

28. (广东四校期末联考)胡锦涛总书记在纪念改革开放三十周年大会上指出：我们把人民拥护不拥护、赞成不赞成、高兴不高兴、答应不答应作为制定各项方针政策的出发点和落脚点……坚持问政于民、问需于民、问计于民。

请运用《政治生活》的知识回答：党为什么要“坚持问政于民、问需于民、问计于民”？(12分)

29. (北京东城区期末)全球气候变化深刻影响着人类生存和发展，是各国共同面临的重大挑战。哥本哈根世界气候大会于2009年12月7日如期召开，119个国家的领导人和联合国及其专门机构和组织的负责人出席了会议。会议的规模及各方对会议的关注，足以体现出国际社会对气候变化问题的高度重视，以及加强气候变化国际合作，共同应对挑战的强烈政治意愿。但会议期间，各方在一系列问题上发生矛盾，其中夹杂了责备、争吵、抗议甚至哭泣。在经历了曲折后，最终，以大会决定的形式发表了《哥本哈根协议》。

中国政府承诺，到2020年我国单位国内生产总值二氧化碳排放比2005年下降40%～45%，这是中国根据国情采取的自主行动，是对中国人民和全人类负责的，不附加任何条件，不与任何国家的减排目标挂钩。

请你运用《政治生活》中的“当代国际社会”的相关知识对上述材料加以分析说明。(14分)

天利38套 模块专题

模块二　政治生活(四)　8A

考查范围:我国的国家性质,人民民主的广泛性和真实性,我国公民参与政治生活的基本原则,我国的选举制度,我国公民参与民主决策,我国政府的主要职能,我国政府的宗旨和政府工作的基本原则,政府依法行政,对政府权力进行制约和监督,人大代表的权利,人民代表大会及其常设机关的法律地位,中国共产党和人大的关系,党的领导地位,中国共产党的宗旨,中国共产党的领导方式和执政方式,中国特色的政党制度,人民政协的主题,我国处理民族关系的基本原则,我国的民族区域自治制度,我国的宗教政策,中国特色社会主义政治制度,主权国家,时代的主题,国际关系的决定因素,多极化趋势,我国的外交政策。

(考试时间:90分钟　　分值:100分)

一、本大题共25小题,每小题2分,共50分。在每小题给出的四个选项中,只有一项是最符合题目要求的)

1.(江苏南通模拟)温家宝总理2010年2月27日与网民在线交流时说:"如果说把做大社会财富这个'蛋糕'看作是政府的责任,那么,分好社会财富这个'蛋糕',那就是政府的良知。"这番话生动地体现了我国政府　(　)

①是人民的政府　②要履行经济、社会公共服务职能
③是社会和谐的积极促进者　④是集中民智的透明政府

A. ①②③　B. ②③④　C. ①③④　D. ①②④

2.(浙江五校联考)博客作为网民表达思想感情的平台,逐渐发展为互联网信息传播的新趋向,但也有一部分人利用博客发布不良信息,其行为严重扰乱社会秩序,污染网络环境。这要求　(　)

A. 国家保护公民的合法权益
B. 必须坚持公民在法律面前一律平等的原则
C. 公民自觉维护国家统一和民族团结
D. 公民应自觉履行法定义务

3.(广州毕业班综合Ⅰ)下列属于公民参与民主决策行为的有　(　)

①针对区政府治理当地河流的方案建言献策
②打市长热线电话举报企业偷税漏税行为
③用电子邮件发表对市政府关于城区规划的意见
④向消费者协会投诉产品质量问题

A. ②③　B. ①④　C. ①③　D. ②④

(杭州教学检测)2009年上海"钓鱼执法",司机断指鸣冤事件引起社会广泛关注。回答4,5题。

4. 孙某驾驶的公司车辆被上海市浦东新区城市管理行政执法局以涉嫌黑车营运为由暂扣,为证清白,血气方刚的他断指鸣冤。对此,你认为　(　)

①这种方式可取,有利于维护自己的合法权益
②这种方式损害了自己的合法权益,也不利于问题的解决
③公民既要增强维权意识,又要了解维权途径
④公民可以选择行政复议,或者其他法律手段维权

A. ①②③　B. ①②④
C. ②③④　D. ①③④

5. 该事件引起了上海市政府高度重视,责令相关部门彻查,并将调查结果及时公之于众。政府部门从该事件中得到的警示是　(　)

①政府必须增强依法行政、文明执法意识
②政府应增强服务意识,维护公民的合法权益
③权力是把双刃剑,要自觉接受各方面的监督
④政府应适当放宽对非法营运车辆的限制

A. ①②③　B. ②③④　C. ①②④　D. ①③④

(山东威海统考)阅读右边漫画,回答6,7题。



6. 行政不作为现象其实是权力与责任严重脱节的一种表征,是以消极的不作为姿态滥用权力和规避责任。这　(　)

①严重背离了全心全意为人民服务的宗旨
②导致政府效率低下
③影响干群关系,降低了政府威信
④影响政府职能有效实施

A. ①②③　B. ②③④
C. ①②④　D. ①②③④

7. "责任行政"是现代行政法的基本理念,也是现代法治政府应当恪守的基本原则。实行问责制的关键是　(　)

A. 发展基层民主,实行村民自治和城市居民自治
B. 不断提高政府依法行政水平
C. 建立健全制约和监督机制
D. 不断完善中国共产党领导的多党合作和政治协商制度

8.(上海十四次联考)右边这幅漫画告诫我们　(　)



A. 提高政府机关工作人员的道德意识刻不容缓
B. 政府机关工作人员必须依法行政
C. 政府机关工作人员行使专政职能
D. 树立政府的权威要依靠自身的权力

9.(北京海淀区期末)下列属于政府履行职能的是　(　)

A. 中共海淀区委发出学习好中共十七大精神的号召
B. 清华园街道某居民委员会修建老年人文化娱乐活动中心
C. 海淀区区长召开创建食品安全区工作会议
D. 海淀区人大通过批准《2009年海淀区财政收支预算调整方案》

(江苏泰州联考)泰州政府网站围绕"政务公开,在线办事,网上交流"的基本功能定位,借鉴先进网站的做法,结合本市的实际,于2009年6月18日全新改版,给政府网站注入了新的活力。10月22日,一位网民给市长信箱发帖称赞泰州政府网站"交流互动广泛便捷,畅通民意构筑和谐"。据此回答10,11题。

10. 泰州政府网站的基本功能定位表明　(　)

A. 政府更加开放和负责的心态
B. 政府高超的执政水平
C. 政府坚持从群众中来到群众中去的工作方法
D. 政府具有强大的公信力

11. 泰州市民通过政府网积极参与交流,为泰州的发展出谋划策说明　(　)

①政府拓宽民主渠道,鼓励公民直接参与民主决策
②社会主义民主政治的不断发展和完善
③社会主义民主具有真实性
④有利于政府部门听民意,聚民智,科学决策

A. ①②③　B. ①②④
C. ②③④　D. ①②③④

(天津河西区摸底)近年来,各地纷纷探索行之有效地推进社会主义民主政治建设的措施。回答12,13题。

12. 某市创立了人民代表接待站和专职的人民代表联络员制度,每天至少有一位人大代表到现场听取民众反映情况。某县坚持开展人大代表述职活动,通过人大代表的述职,人民群众对人大代表的履职情况进行量化考核。这些制度创新　(　)

①有利于人大代表更好地对人民负责,受人民监督
②有利于人大代表代表人民意志,依法参加行使国家权力
③使公民的政治表达和民主监督渠道不断拓宽
④是人大代表密切联系群众和公民对人大代表行使质询权的体现

A. ①②　B. ③④　C. ①②③　D. ①②③④

13. 某省采取了在国家机关中聘请民主党派和无党派人士担任特邀监察员、廉政监察员、教育督导员的做法。这一措施　(　)

A. 强化了社会公共服务的职能　B. 扩大了公民依法行政的权利
C. 加强了民主监督力度　D. 提高了政协政治协商的能力

14.(江苏盐城调研)在我国的国家机关中,对政府机关及其工作人员违法行为有权进行监督的有　(　)

①人民代表大会　②中国共产党
③人民政协　④公民

A. ①　B. ②③　C. ①②③　D. ①②③④

15.(广东深圳调研)建国近60年来,中国共产党领导全国各族人民在经济建设和社会发展各方面取得了举世瞩目的成就。这一事实证明中国共产党　(　)

A. 能够全面履行政府的各项职能
B. 是我国社会主义事业的领导核心
C. 始终坚持中国特色社会主义理论体系为指导
D. 领导和执政地位的确立是由历史条件决定的

(沈阳质量监测)三鹿奶粉事件引发了中国乳品行业的信用危机,众多知名品牌均存在不同程度的问题。问题奶粉事件发生后,引起了党和国家的高度重视。据此回答16题。

16. 三鹿奶粉事件发生后,党中央国务院迅速启动国家重大食品安全事故一级响应机制,对地方政府以及负有监管职责的主要部门领导依法实行严肃的责任追究。这一事实告诉我们　(　)

①政府要加强市场监管的力度
②政府是有限政府,不能越位和错位
③党要坚持立党为公、执政为民
④党要切实履行好社会公共服务职能

A. ①②　B. ③④　C. ②④　D. ①③

17.(广东四校期末联考)中国共产党和人民代表大会的关系是　(　)

①党和人大都是人民利益的代表,都代替人民行使国家权力
②党集中人民的意志形成党的主张和政策,然后通过人代会上升为国家意志
③党在全国人民代表大会制定的宪法和法律范围内活动
④党的领导和人民代表大会共同保障人民当家作主

A. ①②③④　B. ②③④　C. ①③④　D. ①②④

(浙江五校联考)2009年是新中国成立60周年,也是人民政协成立60周年。回答18,19题。

18. 60年来,适合我国国情的中国特色社会主义政治制度,日益显示其强大的生命力。下列属于保障人民当家作主的中国特色社会主义政治制度有　(　)

①人民代表大会制度
②中国共产党领导的多党合作和政治协商制度
③民族区域自治制度
④基层群众自治制度

A. ①②③　B. ②③④　C. ①③④　D. ①②③④

.com