编写及使用说明

作为新一轮高考改革的重要组成部分，新课标高考已进行了4年。新课标高考试题形式各有不同、风格各异，然而，不管新课标高考形式和内容如何变化，高考依然立足于考查考生对知识、技能及方法的掌握，考核的内容依然源自课程标准中所规定的各个知识模块。因此，全国各省市及名校命制的高质量模拟试题，对于备考的学生在复习前期复习知识模块、提升应考能力仍然具有很高的借鉴及使用价值。基于此，本书编写组特聘请各地命题研究专家及特、高级教师，以课程标准为依据，参考高考命题指导思想及考核要求，科学地划分知识模块，从各省市及名校模拟试题中精心挑选试题进行优化组合，编成本书。

本书分语文、数学（文科）、数学（理科）、英语、政治、历史、地理、物理、化学、生物10科册，每册图书中包含若干套模块测试题和名校实战题。作为“天利38套”高考模拟试题系列之一，本书具有以下优点：

1. 荟萃全国各省市名校试题，并经专家科学组合成模块练习。书中大量试题选自全国多所名校的高三模拟试题，名校实战更是从各名校月考卷中挑选。使用本书，学生便可通览全国名校优秀试题。

2. 涵盖公共必考点，规避试卷结构及题型不同。虽然有多个省市高考实行自主命题，但各套高考试题中绝大部分考点是相互交叉、要求相近的，而且，在高考复习前期，学生应以复习知识模块考点为主。因此，本书试题覆盖了全国各省市高考公共必考点，不拘泥于试卷结构及某些特殊题型，适合在高考复习前期做阶段性检测。

3. 循环复习设计。艾宾浩斯记忆遗忘曲线显示：知识在学习后不及时复习会很快遗忘，且遗忘速度呈先快后慢的趋势。因此，本书设计各测试题时有意对重难点进行适当重复，旨在帮助考生彻底掌握知识，增强复习效果。

4. 状元审校。在常规编审校对之外，本书编写组还特别邀请一些各省（市）高考状元从考生和读者角度对本书内容进行全面、细致的审校，并根据他们的建议对内容进行修改调整，进一步提升图书使用价值和品质。

5. 答案详尽，便于学生自测时参考。

6. 活页设计，使用方便。

关于英语科听力部分的录音，读者可以登录北京天利考试信息网（WWW.TL100.COM）免费下载。

参与本书编写的有高星云（语文）、王建宏（数学）、殷福鑫（英语）、刘翠芝（物理）、杨坤（化学）、于泗勇（生物）、褚福省（政治）、高超（历史）、陈安伟（地理）等教师。

本书编写组

2010年6月

天利38套 图书推介



3月上市

一轮复习必备
合理划分专题
精选名校试题
答案详析准确



7月上市

名家点评
答案详析
试题准确可靠
高考真题大全
（可持续使用至次年4月）



5月上市

高考易错分类
易错典例分析
活页专项测练



5月上市

高考复习大纲
全程复习指导
科学制定计划
按部就班学习

天利38套 专题

2011 全国各省市 新课标 高考模拟试题汇编

模块专题

北京天利考试信息网 编

历史

西藏人民出版社

需要全本请访问 www.ertongbook.com

目录

1. 模块一　政治文明发展史(一)
2. 模块一　政治文明发展史(二)
3. 模块一　政治文明发展史(三)
4. 模块一　政治文明发展史(四)
5. 模块二　经济文明发展史(一)
6. 模块二　经济文明发展史(二)
7. 模块二　经济文明发展史(三)
8. 模块二　经济文明发展史(四)
9. 模块三　思想、科技、文化发展史(一)
10. 模块三　思想、科技、文化发展史(二)
11. 模块三　思想、科技、文化发展史(三)
12. 名校实战(一)
13. 名校实战(二)
14. 名校实战(三)
15. 模块四　历史上的重大变革
16. 模块五　近代社会的民主思想与实践
17. 模块六　20世纪的战争与和平
18. 模块七　中外历史人物评说
19. 模块八　探索历史的奥秘
20. 模块九　世界文化遗产荟萃

参考答案及解题提示

高考状元给“天利38套”读者的学习建议

专题知识点有遗漏时，一定要抽出时间复习这个专题，即这一类的问题。个人觉得平时学习的每个专题应该分得细些，不要放过任何细节。

——安徽理科高考状元　张凤逸

对于数学、英语、物理、化学和生物，每一科我都有一本“错题集”，记录自己练习和考试中做错的题目和典型例题，并从自己的出错点出发找出不扎实的知识点，在错题下面进行针对性总结。

——内蒙古理科高考状元　石　悦

在学完每一部分后都要做一次全面的小结，体会知识点之间的联系，将其串联成线。例如，在学完物理的电磁学部分后就要小结，理解电生磁、磁生电，电与磁之间的关系。

——宁夏理科高考状元　李小龙

学习政治关键在于理解。学习时要注意知识的逻辑性，建立知识网络。通过做题深刻地理解原理。在考试中，选择题往往是失分点，平时要多加练习，掌握一定的分析方法。

——北京文科高考状元　张　玥

历史是知识点最多的科目，看课文时一定要尽量详细，尤其是图片、注释，还有小框里的资料，因为我们易忽视的地方就是考试最容易出题的地方。总复习时，在详细看完教科书两遍以上的基础上，应该背第一页的目录，然后看每篇课文的小标题，这样整个教科书的框架就有了。再按照框架试着复述一遍知识点，记忆就会更加牢固，在考场上就能应用自如。

——吉林文科高考状元　许美善

[模式答题法]经过高中三年的学习，我发现政治答题是有规律可寻的，总结出了几种答题模式，如“理解认识”类题目的答题模式为“是什么”“为什么”“怎么做”；经济生活类的题目一般从国家、企业和个人三方面考虑；哲学类的题目答题模式为“世界观＋方法论＋材料”，分析原因的问题从“原因、内容、意义”三方面作答。

——山东文科高考状元　荣秋艳

图书在版编目(CIP)数据

专题.2/北京天利考试信息网编.
—拉萨:西藏人民出版社,2010.6
ISBN 978-7-223-02843-1

Ⅰ.①专…　Ⅱ.①北…　Ⅲ.①文科(教育)—课程—高中—教学参考资料　Ⅳ.①G634

中国版本图书馆CIP数据核字(2010)第054582号

天利38套是图书及教育界的知名教辅品牌,订书请认准“西藏人民出版社”和“天利38套”标志。

专题
——新课标2011高考模拟试题汇编·模块专题(历史)

作　　者　北京天利考试信息网
责任编辑　李海平　杨青兰
装帧设计　陈玉丽
出　　版　西藏人民出版社
社　　址　拉萨市林廓北路20号　　**邮政编码**　850000
北京发行部:100013　北京市东土城路8号林达大厦A座13层
电话:010－64466399(邮购)、64466473(批销)
打击盗版:13651009426
印　　刷
经　　销　全国新华书店
开　　本　8开(787×1 092)　　**字　　数**　1 460千
印　　张　36.5
版　　次　2010年6月第1版第1次印刷
标准书号　ISBN 978-7-223-02843-1
定　　价　60.00元(全5册)

天利38套 模块专题

模块一　政治文明发展史(一)

1A

考查范围：古代中国的政治制度　近代中国的民主革命　现代中国的政治建设与祖国统一　现代中国的对外关系　古代希腊、罗马的政治制度　欧美代议制的确立与发展　科学社会主义理论的诞生到社会主义制度的建立　第二次世界大战后世界政治格局的演变

本试卷分第Ⅰ卷(选择题)和第Ⅱ卷(非选择题)两部分。满分120分，考试时间90分钟。

第Ⅰ卷(选择题　共50分)

一、选择题(本题共25小题，每小题2分，共50分。在每小题给出的四个选项中，只有一项最符合题目要求)

1.(天津六校联考)有学者在论述“国体”时，把中国历史划分为“部落时代”“封建时代”“郡县时代”三个时代。其中“封建时代”对应的是　(　)
A. 黄帝时期　B. 西周　C. 秦朝　D. 西汉

2.(东北三校联考)关于秦朝设郡的数目，学术界有不同的看法。如王国维《秦郡考》考证共有48郡，谭其骧《秦郡新考》推定为46郡。某学者在考证秦朝设郡的具体数目时，收集到以下几个方面的资料，其中最可信的应是　(　)
A.《史记》的记载　B. 史家的研究论文
C. 秦简的记载　D. 民间的传说

3.(福建厦门质检)郡县制、刺史制和行省制的相似之处是　(　)
A. 最初都是地方行政区划制度　B. 其相应机构都直属中央六部管辖
C. 都为加强中央集权而设立　D. 都被其后的历代王朝沿用

4.(北京宣武期末)《南京条约》《天津条约》《北京条约》内容的共同之处是　(　)
A. 开放通商口岸，便利列强向中国商品输出
B. 割地、赔款，使中国丧失了自主权
C. 外国人可以在中国内地游历、经商、传教
D. 外国军舰和商船可以在长江各口岸自由航行

5.(湖南耒阳联考)在江苏吴县，太平天国“监军提各乡卒长给田凭，每亩钱360文，领凭后租田概作自产，农民窍喜，陆续完纳。”这段材料表明太平天国在一些占领区内　(　)
A. 承认耕者有其田，保护农民劳动果实
B. 认可封建剥削，巩固地主土地所有制
C. 根除私有制，实现土地完全公有
D. 消灭地主，实现“耕者有其田”

6.(北京海淀期中)1900年义和团运动期间，有留学生劝说义和团改“扶清灭洋”为“革命排满”，结果被义和团斥责为“二毛子”(假洋鬼子)而加以拒绝。这说明　(　)
①义和团纪律严明、组织严密　②义和团对清朝统治者抱有幻想
③义和团英勇反帝而盲目排外　④义和团对当时形势有清醒认识
A. ①②　B. ①④　C. ②③　D. ③④

7.(湖南耒阳联考)中华民国成立后，列宁高度评价了孙中山及其革命的卓越贡献，并认为孙中山领导的这场革命“正在破坏欧洲资产阶级的统治”。列宁的这一看法肯定了　(　)
A. 革命派从此登上中国政治舞台　B. 孙中山防止了社会的贫富分化
C. 孙中山为救国救民而努力　D. 辛亥革命打击了列强在华势力

8.(福建厦门质检)学习历史，须分清哪些是事实，哪些是观点。下列关于国共关系的表述，属于观点的是　(　)
A. 国共第一次合作期间国民革命军出师北伐
B. 1934年中共中央和中央红军开始长征
C. 国共合作宣言的发表标志抗日民族统一战线正式成立
D. 2005年胡锦涛总书记和国民党主席连战在北京会面

9.(北京石景山期末)1925年部分省份国民党党员构成表

地区	党员数	学生	工人	农民
绥远	3 200	8%	3%	80%
湖北	1 877	63.1%	2.3%	8.9%
广东	15 000	21.2%	20.1%	39.1%

上表表明，1925年的国民党　(　)
A. 发展重心由北向南转移　B. 实行了土地革命政策
C. 多阶层组成的革命联盟　D. 性质发生了根本变化

10.(合肥质检)从下图中，你能获取的历史信息是　(　)

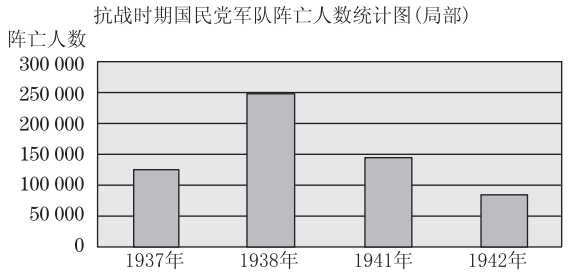

A. 正面战场始终是抗日战争的主战场
B. 国共合作是抗战胜利的根本保证
C. 国民党军队成为抗战的中流砥柱
D. 抗战前期国民党军队比较积极抗战

11.(江苏泰州期末)清末以来，美国形象在中国教科书中所发生的变化和教科书对美国历史的解释，反映了近百年中国的美国研究及中国人认识美国的历程，以下哪一项反映的是民国初年中国人心中的美国形象　(　)
A. 火车时代，堪比道家所言“乘风而行”　B. 战略盟友，民主国家
C. 纸老虎，一天天坏下去　D. 政治典范，民权楷模

12.(杭州质检)“多党合作制就好比一支交响乐队，各民主党派都是演奏师。大家公认：谱曲的就是共产党，并且是吸收了交响乐队各位乐师的意见才把乐章谱好的。”这段话表明了　(　)
①中国共产党和民主党派是亲密的友党关系　②在多党合作制中，中国共产党和各民主党派是领导与被领导、监督与被监督的关系　③各民主党派在思想上、政治上、组织上都服从中国共产党的领导　④中国共产党和各民主党派政治纲领虽然不同，却有着共同的利益和合作的政治基础
A. ①③　B. ②③　C. ①④　D. ③④

13.(湖南耒阳联考)“一国两制”是我国解决港、澳、台的基本方针，但是，在驻军问题上，国家在对台方针中为什么指出台湾可以有别港、澳　(　)
A. 为尽快实现两岸统一，中国可以不在台湾驻军
B. 因为台湾问题是中国内政问题，台湾军队也是中国军队
C. 因为美国实力远远超过英、葡
D. 台湾军队有能力保护台湾安全

14.(合肥质检)《共同纲领》规定：“对于国民政府与外国所订立的各项条款和协定，中华人民共和国中央人民政府加以审查，按其内容分别予以承认，或废除，或修改，或重订。”这一规定体现的外交政策是　(　)
A. “打扫干净屋子再请客”　B. “另起炉灶”
C. “一边倒”　D. “求同存异”

15.(浙江五校联考)从“和平使命—2005”“和平使命—2007”，一直到“和平使命—2009”，和平使命系列军演已经成为世界著名的反恐军演品牌，这也是上海合作组织向全世界展示自己的一种姿态。以下对上海合作组织认识正确的有　(　)
①由中国领导创立的全球性国际组织，2001年在上海正式成立
②它的成立标志着一个以互信求安全、以互利求合作的新型区域合作组织的诞生
③联合打击恐怖主义是该组织重要的目标之一
④该组织各国合作目前仅限于军事、政治领域，尚未涉及经济等其他领域
A. ①③　B. ②③　C. ②④　D. ①④

16.(浙江金华期末)亚里士多德说，“在希腊，不能认为每一位公民属于自己，而要认为所有的公民都属于城邦”。他所要表达的意思主要是希腊　(　)
A. 公民珍视个人自由，不屈从权威
B. 公民是“城邦的动物”
C. 公民善于从事政治和文化艺术活动
D. 有健全的民主制度

17.(江苏南通模拟)在罗马法的发展过程中，公民法演进为万民法的主要原因是　(　)
A. 社会政治、经济发展的需要　B. 平民争取权利的斗争
C. 人文主义精神的推动　D. 法律体系的完善

18.(湖南邵阳联考)《世界文明史》指出，英国革命的最大成果，也是它在现代民主政治创制试验方面的最大成就，就是创造了一种全新的政体……美国革命的首创性在于……孟德斯鸠“以权力制约权力”的学说在政府体制的设计方面得到较好的贯彻。下列对该材料的理解，不正确的是　(　)
A. 英国“全新的政体”指的是君主立宪制政体
B. 美国的“首创性”指的是建立三权分立的联邦制共和政体
C. 英美两国“革命”后所确立的政治体制具有相同的本质
D. 英美两国的“革命”都是反封建的革命斗争

19.(北京崇文期末)一位英国的宪法权威人士曾说：“上下两院如果作出决定，就是把女王本人的死刑判决书送到她面前，她也不得不签字。”这段话反映了英国的政治制度是　(　)
A. 君主专制　B. 君主立宪制　C. 民主共和制　D. 军事独裁统治

20.(合肥质检)右图是1804年拿破仑加冕仪式，当时他说：“我只能做一个加冕的华盛顿。”下面对这句话的理解正确的是，拿破仑　(　)
A. 肯定了罗马教皇的地位
B. 维护了法国资产阶级利益
C. 恢复了法国的封建君主制度
D. 表明了与华盛顿一样都是共和主义者



21.(天津六校联考)恩格斯说：“我们一直想把新的科学成就写成厚厚的书，只向‘学术界’吐露。正相反，我们两人已经深入到运动中去。”对此的正确理解是　(　)
A. 对创立科学理论尚未引起重视　B. 其成就仅局限于学术界
C. 用科学理论去武装无产阶级　D. 创立科学理论赢得学术专利

22.(杭州质检)“里程碑”是我们经常用到的一个词语。《现代汉语词典》中对“里程碑”的定义是：第一是设于道路旁边用以记载里数的标志；第二是比喻在历史发展过程中可以作为标志的大事。俄国十月革命对世界无产阶级革命来说具有“里程碑”意义。对此理解正确的是　(　)
A. 是建立无产阶级专政的第一次伟大尝试
B. 建立了世界上第一个无产阶级领导的社会主义国家
C. 标志着俄国成为社会主义强国
D. 改变了第一次世界大战中的力量对比，标志世界大战的结束

23.(江苏泰州期末)“当我发表就职演说的时候，我提到一个需要谈判时代，而不是对抗时代。……我们在世界上许多地区正在进行谈判而不是正在对抗，在这些地区，对抗可能导致爆炸性的局面……现在，当我们环顾我们所处的世界时，我们发现美国已经不再处于十分突出的地位或者完全支配的地位了。”(1971年7月6日《尼克松在堪萨斯城的讲话》)尼克松认为需要谈判而不是对抗的原因不包括　(　)
A. 美苏争霸，美国处于劣势　B. 欧日崛起，冲击美国地位
C. 改变策略，建立单极世界　D. 中国振兴，第三世界崛起

24.(济南模拟)1961年召开的一次国际会议的宣言指出：“……当前世界的特征是存在着不同的社会制度。与会国并不认为这种不同构成稳定和平的不可克服的障碍……与会国家认为，在这种情况下，和平共处原则是代替‘冷战’和可能发生的全面核灾祸的唯一办法。”这次国际会议是　(　)
A. 联合国成立大会　B. 日内瓦国际会议
C. 亚非万隆会议　D. 不结盟国家政府首脑会议

25.(江西十校模拟)有人这样评价当今世界：“当今世界，巨人林立，美国是萎缩的巨人，日本是独脚巨人，俄罗斯是生病的巨人，欧洲是缺乏凝聚力的巨人，中国是潜在的巨人。”如果这段评论具有一定的针对性和概括性，说明当今世界的政治格局的基本特点是　(　)
A. 美、日、欧、俄、中共同主导的多极世界
B. 世界多极化格局的最终形成
C. 两极格局结束后，世界开始呈现多极化趋势
D. 世界格局的多极化趋势正在发展之中，而且是一个漫长而复杂的过程

1B

第Ⅱ卷(非选择题　共7%分)

二、非选择题(本题共4小题,共70分)

26.(15分)(浙江余姚五校联考)阅读下列材料:

材料一　秦有天下,裂都会而为之郡邑,废侯卫而为守宰(宰:地方官),据天下之雄图,都六合之上游,报制四海,适于掌握之内,此其所以为得也。不数载而天下大坏,其有由矣:亟役万人,暴其威刑,竭其货贿。负锄梃谪戍之徒,圜视而合从,大呼而成群。时则有叛人而无叛吏……咎在人怨,非郡邑之制失也。

汉有天下,矫秦之枉,徇周之制,剖海内而立宗子、封功臣。数年之间,奔命扶伤之不暇……后乃谋臣献画(计策),而离削自守矣。然而封建之始,郡邑居半,时则有叛国而无叛郡,秦制之得,亦以明矣。

唐兴,制州邑,立守宰,此其所以为宜也。然犹桀滑(凶恶狡猾之人)时起,虐害方城,失不在州而在兵,时则有叛将而无叛州。州县之设,固不可革也。

——柳宗元《封建论》

材料二　知封建(指分封制)之以变而为郡县,则知郡县之弊而将复变。然则将复变而为封建乎?曰:不能。……封建之失,其专在下;郡县之失,其专在上。

——顾炎武《天下郡国利病书》

请回答:

(1)柳宗元指出唐的过失是兵制不当,地方军权过重。请根据材料一,回答柳宗元认为秦、汉的过失各是什么?(4分)纵观材料一的内容,可知柳宗元论证的主要观点是什么?(4分)

(2)顾炎武的观点与柳宗元的观点有何相同点?(4分)

(3)顾炎武的观点与柳宗元的观点有何差异?(2分)为什么会有这种差异?(1分)

27.(19分)(江苏南通调研)阅读下列材料:

材料一　"同是中国人"以及由此产生的相互信赖极大地促进了随后台湾与中国大陆的经济关系的迅速扩大。正如台湾的一位谈判代表所说,台湾人和大陆人有"血浓于水的亲情",并为彼此的成就而感到自豪。……据报道,1993年,大陆与台湾之间的贸易额达到了144亿美元,2万家台湾企业在大陆的投资约在150亿~300亿美元之间。台湾越来越把注意力集中于大陆,其成功也日益依赖于大陆。一位台湾官员于1993年说:"1980年以前,台湾最重要的市场是美国,但到90年代,我们认识到,台湾经济成功的最关键因素是大陆。"大陆的廉价劳动力对面临着岛内劳动力短缺的台湾投资者来说是一个主要的吸引力。

——(美)萨缪尔·亨廷顿《文明的冲突与世界秩序的重建》

材料二　香港中评社2009年1月17日发表署名文章指出:可以预料,奥巴马执政之初,将主要延续小布什第二任期的对台政策。这一政策的基本内涵是,以保持台海局势的相对和平为直接目标,以反对两岸"单方面改变台海现状"为措施,实现维护美国对两岸关系的介入和影响。

材料三　温家宝总理在十一届人大二次会议后举行的记者会上深情地说:台湾是祖国的宝岛,是我一直向往的地方。我真心希望能有机会到台湾去走一走,看一看。我想到阿里山,想到日月潭,想到台湾各地去走、去接触台湾同胞。虽然我今年已经67岁了,但是如果有这种可能,到那时即使走不动,就是爬我也愿意去。

请回答:

(1)据材料一,概括指出促使海峡两岸关系得以进一步发展的因素。(4分)

(2)据材料二,概括指出美国现阶段的对台政策。(3分)民主党人奥巴马当选总统后却延续了共和党人当政时期的政策,这说明了什么?(4分)

(3)你怎样理解材料三中温总理的一席话?(4分)1987年以来海峡两岸长期隔绝状态被打破,两岸关系的发展有哪些突出表现?(4分)

28.(20分)(辽宁锦州期末)在几千年的人类文明史上,社会政治制度经历了不断演变的过程。在世界上不同的地区,社会政治制度呈现多元化的特点。阅读下列图文材料,并结合所学知识,回答问题。

材料一　2007年3月16日,温家宝总理在回答记者提问时指出:"……民主、法制、自由、人权、平等、博爱,这不是资本主义所特有的,这是整个世界在漫长的历史过程中共同形成的文明成果,也是人类共同追求的价值观。我同时强调,世界上有2 000多个民族,200多个国家和地区,他们的社会历史发展不同,他们的发展水平不同,民主的形式和途径也是不相同的……民主制度同任何真理一样,都要接受实践的考验。"

材料二



刘少奇追悼大会



人大和政协召开会议时备受全国人民和媒体的关注


十一届三中全会以来制定的有关法律、法规文本


吉林梨树县四家大村的选举会场

(1)希腊是古代民主思想与实践的摇篮。试根据古代雅典民主政治建设的内容,概括其对后世的借鉴意义。(概括出两点即可)(6分)

(2)近代史上,西方各国逐步建立起了代议制民主制度。因国情差异,各国的政治制度呈现出多样化的特点。试指出法、德两国代议制民主的不同形式,并分析概括导致这种差异的主要历史原因。(4分)

(3)据材料二概括指出我国新时期民主政治建设的主要成就。(4分)

(4)某中学兴趣研究小组欲对近代西方人类文明创立的政治制度进行探索,请你为其提供下列帮助:

①拟定一个探究题目;

②提供三种获取相关探究资料的方法。(6分)

29.(16分)(广东中山六校联考)阅读下列材料:

材料一　《十二铜表法》包括债务法、继承法、婚姻法以及诉讼程序等各个方面,基本上是罗马人传统习惯法的汇编,表现出维护贵族和富裕平民利益的倾向。

材料二　美国的"1787年宪法":美国的国家职权分为立法、司法和行政三个部门,总统和议员由人民选举产生。

材料三　《中华民国临时约法》:中华民国之主权,属于国民全体。……总统颁布的命令须由内阁总理副署才能生效。……参议院对于临时大总统,认为有谋叛行为时,得以总员四分之三以上之出席,出席员三分之二以上之可决弹劾之。

材料四　《中华人民共和国宪法》:中华人民共和国是工人阶级为领导的、以工农联盟为基础的人民民主专政国家。

请回答:

(1)《十二铜表法》的历史地位如何?(4分)

(2)1787年宪法所体现的原则和美国共和政体,在我国被哪一政府效仿?(4分)

(3)材料二和材料三两部宪法在各自国家的民主政治建设上有何重要地位?(4分)

(4)材料四《中华人民共和国宪法》的颁布具有怎样的历史意义?到20世纪90年代,我国法制建设又有了怎样的发展?(4分)

天利38套 模块专题

模块一　政治文明发展史(二)

2A

考查范围：古代中国的政治制度　近代中国的民主革命　现代中国的政治建设与祖国统一　现代中国的对外关系　古代希腊、罗马的政治制度　欧美代议制的确立与发展　科学社会主义理论的诞生到社会主义制度的建立　第二次世界大战后世界政治格局的演变

本试卷分第Ⅰ卷(选择题)和第Ⅱ卷(非选择题)两部分。满分 120 分，考试时间 90 分钟。

第Ⅰ卷(选择题　共 50 分)

一、选择题(本题共 25 小题，每小题 2 分，共 50 分。在每小题给出的四个选项中，只有一项最符合题目要求)

1. (合肥质检)《太史公自序》载："春秋之中，弑君三十六，亡国五十二，诸侯奔走，不得保其社稷者，不可胜数。"从这段材料中所获得的最全面、最准确的信息应是　(　)
A. 争霸战争使诸侯国数目减少　　B. 诸侯国之间互相厮杀
C. 诸侯弃国逃跑，井田制瓦解　　D. 分封制遭到破坏

2. (山东潍坊抽样)汉武帝设十三州刺史，唐太宗划全国为十道，宋太祖设置通判。这些举措反映的统治理念是　(　)
A. 分割地方权力　　B. 监督监察地方
C. 发挥文官作用　　D. 掌控官吏任免

3. (北京丰台期末)观察下图并阅读简介，结合所学知识，指出下列对军机处的描述正确的一组是　(　)



清雍正七年（1729年），为及时处理西北军务，始设军机房，后来定名为军机处，成为常设机构。军机大臣将百官奏折送皇帝处请旨，将皇帝旨意拟成谕旨交皇帝预览改定后下发执行；军机处按要求每天必须处理完当天的奏折。宣统三年（1911年）责任内阁成立后，军机处撤销。

①军机处最初出于军事需要而设立　②军机处成为清朝最高决策机构
③军机处有严格的办事效率要求　④军机处在清朝灭亡前夕被撤销
A. ①②③　　B. ②③④　　C. ①②④　　D. ①③④

4. (福建厦门质检)1842 年 9 月 1 日，钦差大臣耆英等联名向英国发出照会，开列中方希望就《南京条约》未竟事宜继续善后交涉的 12 项内容，其中第八条为"此后英国商民如有与内地民人交涉事件，应即明定章程，英商由英国办理，内民由内地惩办"，结果英方代表借此机会将该条款发展为　(　)
A. 片面最惠国待遇　　B. 领事裁判权
C. 设立租界的特权　　D. 开设工厂的特权

5. (东北三校联考)资产阶级革命家章太炎(1869—1936 年)在所作的《逐满歌》中写道："地狱沉沉二百年，忽遇天王洪秀全；满人逃往热河边，曾国藩来做汉奸。洪家杀尽汉家亡，依旧猢狲作帝王；我今苦口劝兄弟，要把死仇心里记。"此作品的主要意图在于　(　)
A. 制造民族仇恨，提高太平天国的历史地位
B. 宣传人民革命，号召民众推翻清朝腐朽统治
C. 打击汉族反动官僚，组织反清朝的统一战线
D. 揭示太平天国政权后来完全封建化的本质

6. (浙江金华十校联考)近代浙江较早受到列强侵略，其中宁波、杭州等城市被迫开放，与之相关的不平等条约分别是　(　)
A.《南京条约》和《马关条约》　　B.《南京条约》和《北京条约》
C.《南京条约》和《辛丑条约》　　D.《马关条约》和《中美友好通商航海条约》

7. (北京海淀期中)西汉建国后，总结秦朝灭亡教训时认为："秦据势胜之地，骋狙诈之兵……姗笑三代，荡灭古法，窃自号为皇帝，而子弟为匹夫，内亡(无)骨肉本根之辅，外亡(无)尺土藩翼之卫。"基于这一认识，西汉政府实行的措施是　(　)
A. 实行"无为而治"　　B. 分封同姓王
C. 平定七国之乱　　D. 建立中朝制度

8. (长春调研)古代的雅典国家被称作"男性公民的俱乐部"，这意味着雅典国家的主人是　(　)
A. 全体奴隶主　　B. 奴隶之外的全体成年男性
C. 奴隶和外邦人之外的成年男性　　D. 从事工商业的成年男性

9. (吉林质检)凤凰网《救赎中国》专题中，在叙述某一历史事件时，分为四个部分：第一部分：动荡了；第二部分：传播了；第三部分：愤怒了；第四部分：爆发了。该历史事件可能是　(　)
A. 维新变法运动　　B. 辛亥革命
C. 五四运动　　D. 新文化运动

10. (江苏南通模拟)中国的抗日战争能够最终取得胜利的原因有　(　)
①得到世界反法西斯同盟各国的支持　②抗日民族统一战线的建立
③中国是大国、强国　④正面战场与敌后战场的相互配合
A. ②③④　　B. ①②③　　C. ①②④　　D. ①②③④

11. (北京海淀期末)1947 年的最后一天，蒋介石在日记中写到："本月忧患最深……各方告急与失败之报，几如雪片飞来，蓑食宵衣，兢兢业业，未敢或懈，自省俯仰无愧，信道益笃，成败利钝，一惟听天命而已。"造成蒋介石"忧患最深"的主要原因是　(　)
A. 人民解放军粉碎了国民党的重点进攻
B. 人民解放军的反攻作战取得节节胜利
C. 人民解放军在东北地区发动战略决战
D. 政治协商会议通过有利于人民的决议

12. (湖南耒阳联考)下面两幅图片反映的两种政治制度最主要的区别是　(　)





A. 社会制度不同　　B. 实施群体不同
C. 主要作用不同　　D. 享受权利不同

13. (北京西城抽样)"村里的事村民管，自己投票选'村官'。拆掉干群之间墙，架起沟通连心桥。"这种现象是下列哪部法律颁布后的直接结果　(　)
A.《中华人民共和国宪法》
B.《中华人民共和国民族区域自治法》
C.《中华人民共和国村民委员会组织法》
D.《中华人民共和国物权法》

14. (山东潍坊抽样)"如果这些原则能为一切国家所遵守，则侵略和干涉内政的威胁和对侵略干涉内政的恐惧将为安全感和互信所代替。"文中的"原则"应是　(　)
A. "一边倒"　　B. 和平共处五项原则
C. 不结盟原则　　D. "另起炉灶"

15. (天津河西期末)下表反映了中国政府奉行的外交政策是　(　)

1971 年	中国在联合国教育、科学及文化组织中的合法席位得到恢复
1978 年	中国成为联合国粮农组织成员国
1980 年	中国加入世界知识产权组织工作；中国参加联合国裁军工作会议
1981 年	中国在联合国经社理事会上当选为人权委员会成员
1984 年	中国成为国际原子能机构正式成员国
1988 年	中国成为联合国维和行动特别委员会成员，并于次年首次派员参加联合国维和

A. 推进区域性合作　　B. 积极开展多边外交
C. 全面参与联合国事务　　D. 真正实行不结盟政策

16. (山东潍坊抽样)直接民主是古代雅典民主政治的主要特色。与这一特色的形成直接相关的是　(　)
A. 小国寡民的城邦制度　　B. 擅长辩论的文化传统
C. 高度发达的商品经济　　D. 相对宽松的思想氛围

17. (上海十三校联考)"一种文明的历史，就是对古代材料中那些对今天仍然行之有效的东西的探索。它有待解决的问题不在于要告诉人们关于希腊文明或中世纪中国我们所知的一切，而是要告诉人们在西欧或现代中国以前的时代与今天仍旧相关的东西。"在这里，法国历史学家布罗代尔强调的是　(　)
A. 研究历史要有不断探索的精神　　B. 要从文明传承的角度阐释历史
C. 史学是要告诉人们过去的事情　　D. 史学就是当代人对过去的认识

18. (杭州质检)电影《鸦片战争》中有这样的镜头：英国议会上，外交大臣巴麦尊提出出兵进攻中国，议会以 271 票对 2 622 票的微弱多数通过了侵华战争拨款。英国维多利亚女王最终同意对华宣战。对上述材料理解不正确的是　(　)
A. 英王是虚位元首，议会掌握国家权力
B. 英王形式上有对外宣战的权力
C. 英王是国家元首，议会对英王负责
D. 议会主权至上，英王要遵从议会通过的决议

19. (江苏泰州联考)下列言论一语道破美国两党制实质的是　(　)
A. 杰斐逊说："如果非同一个政党一起就不能进天堂，我宁愿永不进天堂。"
B. 美国开国总统华盛顿认为党派精神是"政府的最危险的敌人"
C. 一个政客说："在一个共和党选区，我是民主党人；在一个民主党选区，我是共和党人……"
D. 菲迪南德·伦德伯格指出："两党只是同一个钱币的正反两面。"

20. (安徽十校联考)《法兰西第三共和国宪法》规定："总统有权召开两院的特别会议。在会议的闭会时期，如果两院有绝对多数要求开会，总统也必须召集两院。"这说明　(　)
A. 总统控制议会　　B. 总统权大，议会权小
C. 总统的权力受议会限制　　D. 行政权与立法权相制约

21. (辽宁大连质检)自 1998 年中国加入联合国维持和平行动特别委员会后，先后参加联合国十多项维和行动。北京时间 2010 年 1 月 30 日，在海地地震中遇难的八位中国维和警察，用生命诠释了中国热爱和平、积极履行国际法义务的大国形象。这反映出新时期我国外交政策的特点是　(　)
A. 奉行独立自主的和平外交政策
B. 重视同世界大国建立不同类型的"伙伴关系"
C. 重视经济外交和不结盟外交
D. 重视开展以联合国为中心的外交活动

22. (北京崇文期末)以下关于俄国二月革命和十月革命的说法，正确的是　(　)
①二月革命推翻了资产阶级临时政府
②十月革命是资产阶级民主革命
③二月革命推翻了罗曼诺夫王朝
④十月革命建立了世界上第一个社会主义国家
A. ①②　　B. ②③　　C. ①④　　D. ③④

23. (湖南耒阳联考)最近一个时期以来，美俄就伊朗问题和美在东欧部署导弹防御系统展开了新一轮较量，有人质疑俄美是否会重演"古巴导弹危机"。对此俄罗斯前总统普京说："现在的紧张局势比 1962 年低了许多……"你以为普京说此话的理由有　(　)
①全球化使各国经济互相依赖程度日益加深　②二战以来美国国际地位的变化
③俄罗斯的国力尚未达到可与美国对抗的程度　④广大发展中国家对世界的影响
A. ①②③④　　B. ①③④　　C. ①②③　　D. ①②④

24. (东北三校联考)美国总统杜鲁门在 1947 年 3 月 12 日致国会咨文中说："美国外交政策的主要目标之一，就是要造成一种局势，俾使我们和其他国家都能塑造出一种免于威胁的生活方式。在对德国和日本作战中，这是一个基本问题。我们的胜利乃是战胜那些想把其意志和生活方式强加在别国头上的国家。"这里，美国对"把其意志和生活方式强加在别国头上的国家"采取了什么政策　(　)
A. 罗斯福新政　　B. 新经济政策　　C. "冷战"政策　　D. "孤立主义"

需要全本请访问 www.ertongbook.com

2B

25.(天津河西期末)2007年3月23日,一名男子在西班牙首都马德里挥舞欧盟旗帜,庆祝欧洲联盟(欧盟)成立50周年。2007年欧盟驻华使团设计的一张题为"祝欧盟生日快乐"的贺卡,这一设计的寓意是用中国民俗表达对欧盟繁荣的期盼。欧盟的建立有利于构建 (　　)





A. 区域统一的世界　　B. 多元并存的世界
C. 欧美协作的世界　　D. 欧俄均衡的世界

第Ⅱ卷(非选择题　共70分)

二、非选择题(本题共4小题,共70分)

26.(20分)(湖南耒阳联考)阅读下列材料,回答问题。

材料一　"对于许多未经过帝王之治的青年,辛亥革命的政治意义是常被低估的,这并不足怪,因为他们没有看到推翻几千年来因袭下来的专制政体是多么不易的一件事。"

材料二　江泽民在"十五大"的报告中指出:辛亥革命开创了完全意义上的民族民主革命……为中国革命的进步打开了闸门,使反动统治秩序再也无法稳定下来。

材料三　皇帝,该算是至高无上、神圣不可侵犯的了。如今都可以被打倒,那么,还有什么陈腐的东西不可以怀疑,不可以打破?思想的闸门一经打开,这股思想解放的洪流就奔腾向前,不可阻挡了。尽管辛亥革命后,一时看来政治形势还十分险恶,但人们又大胆地寻求新的救中国的出路了,再加上十月革命炮声一响和中国工人阶级力量的发展,不久便迎来了五四运动,开始了中国历史的新纪元。从这个意义上可以说没有辛亥革命就没有五四运动。

材料四　胡绳在《中国共产党七十年》中指出:中华民国的成立并没有给人们带来预期的民族独立和社会进步。

(1)结合所学知识概述以孙中山为代表的资产阶级革命党人为推翻专制政体所进行的艰苦卓绝的斗争的事例。(4分)

(2)结合所学知识分析为什么材料二说"辛亥革命开创了完全意义上民族民主革命"?(4分)

(3)依据材料三分析说明,为什么说"没有辛亥革命就没有五四运动"?(4分)

(4)材料四与材料二的评价是否矛盾?(2分)你如何理解材料四对中华民国成立的评价?(6分)

27.(18分)(吉林质检)阅读下列材料,并结合所学知识回答问题。

材料一　1949年10月1日中华人民共和国成立,摆在美国面前一个很突出的问题就是要不要承认新成立的中华人民共和国,要不要跟蒋介石政权切断关系。……1950年1月毛泽东、周恩来访问苏联,缔结了《中苏友好同盟互助条约》,引发美国方面的反应。……1950年6月25日朝鲜战争爆发,美国马上发表声明表示要干预朝鲜的内战。27日杜鲁门发表声明中表示,台湾未来地位的确定要等待太平洋安全的恢复。杜鲁门这个声明被学术界普遍认为是美国政府提出"台湾地位未定论"的标志。

——陶文钊《美国需要中国吗》

(1)据材料回答,从1949年到20世纪50年代初,影响中美关系的内外因素是什么?(4分)"台湾地位未定论"的实质是什么?(2分)

材料二　1978年邓小平在规划改革开放,对美国关系的正常化是他的规划当中的重要一环。邓小平把意思表达得很清楚,中美关系正常化简单地说就三条,美国要从台湾撤军,要跟台湾废除共同防御条约,要与台湾断交。美国方面又反过来提出三条。第一条是关于废除《美台共同防御条约》的事,卡特政府说废除条约,必须得到国会参议院去讨论,我们可以根据共同防御条约的规定,在1979年1月1日美国与中国建交的那一天,告诉台湾终止这个条约,一年后失效,这样就可以顺利解决问题,这一点中方表示了理解,也同意这么做。第二条是中方要发表一个放弃对台湾使用武力的声明,这一点在中美大使级会谈里谈了十几年,美国一直在要求,中国方面一直不做承诺。在谈判的时候,邓小平也不做承诺。最严重的争议是美国坚持在两国关系正常化后还要向台湾卖武器。邓小平提出,建交以后,美国与台湾的《美台共同防御条约》也废除了,美国就不能再向台湾卖武器,你都跟中国建交了,你还有什么理由向台湾卖武器呢?卡特政府承诺,1979年起不再向台湾出售新的武器,以前出售的现在要交付。

——陶文钊《美国需要中国吗》

(2)中美建交过程中,双方围绕的核心问题是什么?(2分)从中美关系正常化到两国建交,经历了一个较为曲折的过程。根据材料,中美两国最终能够顺利建立外交关系,给我们的启示是什么?(4分)

材料三　今年(2009年)是中美建交30周年,今年1月份我们隆重纪念了两国建交30周年,卡特总统带了一个规格非常高的代表团过来,包括了布热津斯基、基辛格、前国务卿、国家安全事务助理和历任美国驻华大使,对外友协举行了盛大宴会纪念中美建交,习近平副主席出席宴会并发表了讲话。

——陶文钊《美国需要中国吗》

(3)结合所学知识和上述材料分析,中国和美国为什么要高调庆祝中美建交30周年?(6分)

28.(12分)(江苏盐城调研)阅读下列材料:

材料一　英国通过"光荣革命"克服了专制王权,议会成为最高权威。在君主立宪制的政治框架内,英国又用和平、渐进方式实现政治权力的转移,从而完成了政治民主化历程。

材料二　法国之所以采用暴力革命来克服专制王权,原因就在于法国专制主义过于强大,王权与贵族坚决捍卫旧制度,不愿做出任何妥协,对立双方只好兵戎相见。然而,大革命并没有解决根本问题,此后近百年中,法国一直处于革命与复辟的轮回中,社会持续动荡,经济发展速度受到影响,工业化进程缓慢。直到1870年后,法国模式突然发生转折,由对抗转为妥协。此后没再发生大规模的革命,法国人开始用协商手段逐步建立起民主制度。

材料三　长期的分裂局面使得德意志民族无法作为整体来追求国家现代化,因此远远落在英、法等国后面。1870年后,旧的容克地主贵族通过对外战争实现国家统一,并掌握了现代化领导权,在随后短短30年间,德国完成了经济起飞,在工业生产方面甚至超过英、法。不过,现代化领导力量的"错位"给德意志民族带来无穷灾难。

——以上材料均选自钱乘旦《各国现代化模式的比较》

请回答:

(1)结合史实概述"光荣革命"后至19世纪中期,英国是怎样用和平渐进方式实现政治权力转移、推动政治民主化进程的?(3分)

(2)1870年后,法国"用协商手段逐步建立起民主制度"的标志是什么?法国能够采取这种方式确立民主制度的根源何在?(4分)

(3)材料三中"现代化领导力量的"错位"指什么?这种"错位"给德国的社会发展带来怎样的影响?(3分)

(4)综合上述材料,谈谈你对现代化模式的看法。(2分)

29.(20分)(杭州七校联考)阅读下列材料:

材料一　我也希望向全世界说明,美国在这个新的极权主义的挑战面前所持的立场。我相信,这是美国外交政策的转折点,它现在宣布,不论什么地方,不论直接或间接侵略威胁了和平,都与美国的安全有关。

——《杜鲁门回忆录》

材料二　美国国务卿马歇尔:我们的任务是唤起合理经济的再生,促使政治社会的结构容纳自由制度存在……1949年4月,为实行集体"防御",美、加及欧洲十国成立军事组织。

——《试论冷战的爆发与两极格局的形成》

材料三　有学者指出:"两极格局具有相对的稳定性,但是它又因为国际力量的对比不断变化而受到撼动,并且已受到逐步扩大起来的其他力量中心的挑战。"

材料四　邓小平在1989年曾说过:"可能一个'冷战'结束了。另外两个'冷战'又已开始,一个是针对整个南方、第三世界的,另一个是针对社会主义的,这说明,西方国家正在打一场没有硝烟的战争。"

——转引自《中国还是能说不》

请回答:

(1)材料一中的"新的极权主义"指什么?"美国外交政策的转折点"又指什么?从材料中可看出美国确立了怎样的外交目标?(6分)

(2)据材料二,指出在杜鲁门主义的影响下,美国又实施了哪些相应的措施?根据所学知识回答苏联为此采取了哪些对抗性措施?结果如何?(4分)

(3)据材料三及所学知识,概括20世纪60、70年代"撼动"和"挑战"两极格局的力量有哪些?这对当时政治格局的演变产生了怎样的影响?(5分)

(4)材料四表明邓小平对"冷战"结束后的世界形势存在着怎样的担忧?(5分)

天利38套 模块专题

模块一　政治文明发展史(三)

3A

考查范围：古代中国的政治制度　近代中国的民主革命　现代中国的政治建设与祖国统一　现代中国的对外关系　古代希腊、罗马的政治制度　欧美代议制的确立与发展　科学社会主义理论的诞生到社会主义制度的建立　第二次世界大战后世界政治格局的演变

本试卷分第Ⅰ卷(选择题)和第Ⅱ卷(非选择题)两部分。满分120分，考试时间90分钟。

第Ⅰ卷(选择题　共50分)

一、选择题(本题共25小题，每小题2分，共50分。在每小题给出的四个选项中，只有一项最符合题目要求)

1.(江苏泰州期末)历史学家指出：西周王朝虽然显示出一定的统一性、集权性，但国家结构上的分散性、松散性仍是最本质的特点。造成上述"分散性、松散性"的原因是　(　)
A. 贵族拥有世袭特权　　B. 分散的自然经济
C. 贵族拥有土地所有权　　D. 王室日益腐败

2.(湖南邵阳联考)邵阳市，是一座具有两千五百多年的历史古城。春秋末期□大夫白善在此筑城，称白公城。□分全国为三十六郡，邵阳属长沙郡……东汉末属零陵郡。晋武帝太康元年(280年)，司马炎平定东吴，为避其父司马昭之讳，改昭陵为邵陵。赵昀做太子时，曾被封为邵州防御使。□宝庆元年(1225年)，赵昀登基，用其年号命名曾领防御使的封地，升邵州为宝庆府，宝庆之名始于此。文中空格部分应依次填写　(　)
A. 吴国　秦朝　北宋　　B. 楚国　秦朝　南宋
C. 楚国　秦朝　北宋　　D. 楚国　西汉　南宋

3.(安徽十校联考)状元是中国科举制度的特殊产物。唐皋(1457—1524)，字守之，号心庵，歙县(今安徽黄山市歙县)人，明武宗正德九年(1514年)甲戌科状元，授修撰，参与修撰《武宗实录》。他在考取状元之前有这样一个环节：在本人户籍所在地参加院试以取得更高级别考试资格，唐皋户籍当时隶属的行政区划应该是　(　)
A. 楚国　　B. 新安郡　　C. 徽州府　　D. 安徽行省

4.(山东潍坊抽样)1906年美国人安德鲁发表文章时说："文明国家在与清国签署条约时，表达了要保留对驻上海和清国其他城市的本国公民行使司法权的愿望"。西方列强这一愿望的实现是通过　(　)
A. 中英鸦片战争　　B. 第二次鸦片战争
C. 甲午中日战争　　D. 八国联军侵华战争

5.(福建厦门质检)洪秀全定都南京后，规定只有太平天国编纂和"旨准颁行"的"真道书"才能在世上流通，"当今真道书者三，无他也，《旧遗诏圣书》(《圣经旧约》)、《新遗诏圣书》(《圣经新约》)、《真天命诏书》也"，其他所有的书都在查禁之列。由此可见他　(　)
A. 彻底排斥中国的传统文化　　B. 赞赏西方的宗教和政治制度
C. 未能摆脱皇权思想的影响　　D. 在全中国范围内推行愚民政策

6.(北京海淀期中)地名的变迁往往记载着历史的变化。近代历史上，北京的东交民巷曾被改名为Legation Street(使馆大街)，兵部街改名为Rue Linevitch(李尼微支路)，台基厂街改名为Rue Marco Polo(马可·波罗路)……东长安街被改名为意大利街，崇文门内大街改名为克林德街等。这一现象出现于　(　)
A. 鸦片战争时期　　B. 第二次鸦片战争时期
C. 甲午战争时期　　D. 八国联军侵华战争时期

7.(杭州质检)《中华民国临时约法》是在"南北议和"的过程中制定的，于袁世凯在北京就任临时大总统次日公布。它规定"中华民国主权属于国民全体"。参议院为行使立法权的机关，选举产生临时大总统、副总统，弹劾临时大总统和国务委员；临时大总统和内阁为行政机关；法院是司法机关，行使审判权。对此材料理解错误的是　(　)
A. "中华民国主权属于国民全体"体现启蒙思想家康德"社会契约论与人民主权说"
B. 关于参议院、总统、国务委员、法院的规定体现孟德斯鸠"权力的制约与平衡原则"
C.《临时约法》的制定从一开始就是为限制袁世凯有可能的独裁专制甚至复辟行为
D.《临时约法》在一定程度上仿照了美国"三权分立""民主共和"政治体制

8.(北京丰台期末)近代中国在追求经济现代化的同时，也经历了一个政治现代化的过程。要求政治现代化的主张最早出现于　(　)
A. 林则徐、魏源等人的主张　　B. 早期维新派主张
C. 曾国藩、李鸿章等人的主张　　D. 同盟会的革命纲领

9.(江苏南通模拟)有学者提出"五四运动是第一次历史巨变的补课，又是第二次历史巨变的起点"的观点，实质指五四运动是　(　)
A. 旧民主主义革命完成和新民主主义革命开始的标志
B. 旧民主主义革命向新民主主义革命转变的开端
C. 资产阶级专政向无产阶级专政过渡的开始
D. 政治制度与思想文化由古代向近代转变的起点

10.(杭州质检)右图是电视剧《我的团长我的团》的剧照。剧中有这样一个场景：为鼓舞溃兵伤兵的士气，军方播报了关于不久前一个战役的一段报道："……倭军之三十三师团使用迂回穿插之战术，以两个联队兵力攻占拼墙河(河流名)南北，而我远征之军以寡击众，披肝沥胆，做浴血之战，解救同盟之英吉利军七千余众，夺回中外记者教士五百余众……"上述材料说明了　(　)



A. 中国远征军解放了缅甸
B. 世界反法西斯力量互相支援和配合
C. 日军在缅甸遭到毁灭性打击
D. 英军在缅甸都依靠中国远征军的救助

11.(天津六校联考)新华社迎接十七大特稿《在历史关节点上——中国共产党八十六年回眸》一文中用以下一些关键词概括了中国新民主主义革命的重要关节点，日出东方、星火燎原、力挽狂澜、灯塔指引、进京赶考，其中"力挽狂澜"的标志是　(　)
A. 八七会议　　B. 工农武装割据
C. 遵义会议　　D. 抗日战争的胜利

12.(天津河西期末)在第一届全国人民代表大会的开幕词中毛泽东说："我们这次会议具有伟大的历史意义。这次会议是标志着我国人民从1949年建国以来的新胜利和新发展的里程碑……"材料中的"里程碑"表现在　(　)
A. 社会主义制度的建立　　B. 新的国家领导人的选举
C. 共产党核心地位的确定　　D. 第一部社会主义宪法的制定

13.(山东潍坊抽样)1995年美国《财富》杂志代表西方社会发表了《香港已死》的预言文章。12年后，《财富》的姊妹杂志《时代》以25页的专辑否定了《财富》的预言。这从根本上说明　(　)
A. 西方社会反对"一国两制"　　B. 中美关系由对抗走向缓和
C. "一国两制"适合香港发展　　D. 西方对华态度发生根本变化

14.(浙江金华期末)尼克松对美国《时代》周刊杂志记者说："如果我在死以前有什么事情可做的话，那就是到中国去，如果我去不了，我要我的孩子们去。"这说明当时美国政府　(　)
A. 已经与中国建交　　B. 有意改善中美关系
C. 严厉制裁中国　　D. 准备彻底抛弃台湾

15.(北京崇文期末)近年来，索马里海盗活动猖獗，对每年近5万艘过往商船、油轮安全造成严重威胁。中国人民解放军海军舰艇于2008年12月26日从三亚启航前往亚丁湾、索马里海域实施护航。这是中国在远离本国沿海的区域展现海军力量的空前行动，也是中国在近现代史上首次派遣海军在中国水域以外执行任务。这一行动说明　(　)
A. 国际形势总体上趋于紧张和动荡不安
B. 非洲被迫卷入资本主义世界市场
C. 中国在维护世界和平中发挥越来越重要的作用
D. 多极化的国际格局完全确立

16.(福建厦门质检)亚里士多德在《雅典政制》中记载：公元前487年，"陶片放逐法"首次付诸实施。按该法规定，被放逐的对象是　(　)
A. 所有触犯法律的公民　　B. 对民主造成威胁的公民
C. 有盗窃行为的平民　　D. 伤害主人的奴隶

17.(合肥质检)《十二铜表法》规定："利息不得超过一分(年利息最高为8.33%)"；债务人对所欠债务的偿还"有30天的法定宽限期"。这一条款　(　)
A. 保留了习惯法的条文　　B. 维护了借贷双方的平等权利
C. 否认了高利贷的存在　　D. 体现了对平民利益一定的保护

18.(湖南耒阳联考)从美国1787年宪法的内容及其实践结果中，我们可以体会出(　)
①孟德斯鸠"三权分立"学说的进步性　②当时以华盛顿为代表的一批美国政客家们高超的政治智慧　③宪法虽然存在局限性，但它适应了美国实际，历史的进步性是主要的　④宪法首次证明了联邦制是普遍适合所有国家的进步的政治体制
A. ①②③④　　B. ①②③　　C. ②③④　　D. ①②④

19.(北京海淀期末)第二次世界大战期间，英国首相丘吉尔对美国总统罗斯福说：总统先生，人们关心的是你在何种程度上不经__①__批准而能采取行动，而你不必为__②__所困扰。而另外一方面，我从不为__③__所困扰，但我事事都得与我的内阁商量并获得它的支持。图中的①②③对应正确的应当是　(　)
A. ①国会　②内阁　③议会　　B. ①最高法院　②参议院　③下议院
C. ①内阁　②国会　③下议院　　D. ①国会　②最高法院　③内阁

20.(江苏南通模拟)如果德国的帝国议会准备通过一项不利于政府的法案，最有可能的结果是　(　)
A. 帝国议会通过后即可生效
B. 帝国议会通过后由联邦议会批准生效
C. 经宰相批准后立即生效
D. 联邦议会和皇帝根本不会批准，该法案无法获得通过

21.(浙江五校联考)右图是一张残缺的中国古代某时期的政治制度体系表，对这张体系表所反映的政治制度理解不正确的是　(　)

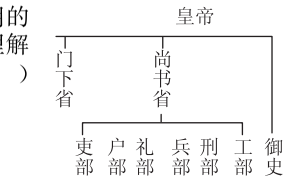

A. 各部门职责分工明确、相互协作和分权制衡
B. 相权被分化，君主专制权力得到进一步加强
C. 符合近代的"分权制衡"理论
D. 门下省官员和御史都有一定的监督权力

22.(合肥质检)《全球通史》中写道："列宁几乎是孤身一人号召立即进行第二次革命。然而时间证明他是正确的，因为战争持续得越久，公众的不满情绪就越大，他的要求也越得人心。那些在四月份似乎是稀奇古怪的口号，半年后听起来就完全合理了。"这里所说的"第二次革命"性质是　(　)
A. 资产阶级民主革命　　B. 社会主义革命
C. 无产阶级革命　　D. 农民革命

23.(山东潍坊抽样)《全球通史》叙述道："……欧洲不再是世界棋盘上的一个卒子——或两个卒子，东欧和西欧；中国也已不再是苏联的卫星国或地位较低的伙伴。"材料表明　(　)
A. 两极格局瓦解　　B. 世界新格局形成
C. 多极化趋势出现　　D. 区域集团化发展

24.(湖南邵阳联考)从探寻美苏对抗到苏联解体的历史过程中，可以得出　(　)
A. 美苏对抗是导致苏联解体的重要原因
B. 美苏对抗迫使美国放弃霸权主义政策
C. 苏联争霸与美国争霸有着本质的区别
D. 苏联解体标志着国际社会主义运动的全面失败

25.(吉林质检)欧洲一体化进程中表现出来的特点包括　(　)
①从单一经济领域向多种经济领域扩展
②成员国不断增加，规模不断扩大
③从经济一体化向政治一体化方向发展
④是不同社会制度国家合作的典范
A. ①②③　　B. ②③④　　C. ①③④　　D. ①②③④

第Ⅱ卷(非选择题　共70分)

二、非选择题(本题共4小题，共70分)

26.(12分)(江苏镇江调研)阅读下列材料，回答问题。

材料一　成祖即位，特简解缙、胡广、杨荣等直文渊阁，参预机务。阁臣之预务自此始。然其时，入内阁者皆编、检、讲读之官，不置官属，不得专制诸司……景泰中……诰敕房、制敕房(内阁中的两个机构)俱设中书舍人，六部承奉意旨，靡所不领，而阁权益重……嘉靖以后，朝位班次，俱列六部之上。

——《明史》卷七十二志第四十八

材料二　国家初制，章疏票拟主之内阁，军国机要主之议政处，其特颁诏旨，由南书房、翰林院视草。

清大学士，沿明旧名，例称政府，实则国初有议政处以掣其柄。雍正以后，承旨寄信有军机处，内阁宰辅，名存而已。

——《清史稿·大学士年表·序》

材料三　1911年5月，清政府裁撤旧内阁，军机处和政务处都被撤销，成立“责任内阁”。在13名国务大臣中，汉族官僚4名、蒙古旗人1名、满族8名，其中皇族又占5人，被讥为皇族内阁。这是中国历史上第一次出现的立宪制政府。

——据《晚清政府皇族责任内阁》材料整理

(1)根据材料一、二，概述内阁地位在明、清时期发生过哪些变化？这种变化所反映出的本质特征是什么？(4分)

(2)清政府在1911年成立“责任内阁”的主要政治背景是什么？从材料三中，可以看出清政府成立“责任内阁”的主观动机是什么？这客观上反映出清政府在改造国家政体方面做出了怎样的尝试？(5分)

(3)明朝中期以后的内阁制与近代英国的内阁制在实质上有何不同？我们考查这种不同的视角是什么？(3分)

27.(16分)(上海十三校联考)江泽民同志在中共十六大的报告中重点阐述了举什么旗，走什么路的问题。中国近现代史上，中国人民曾经为“举什么旗，走什么路”的问题进行了不断的探索。孙中山领导的辛亥革命“走西方的路”，中国共产党经历了从“走俄国人的路”到“走自己的路”的历程。请回答下列问题：

(1)辛亥革命时，中国民族资产阶级走西方什么路？结果如何？(4分)

(2)新民主主义革命时期，中国共产党的“走俄国人的路”和“走自己的路”分别是指什么？结果又是如何？(4分)

(3)新中国成立后，中国共产党又是如何“走自己的路”的？(4分)

(4)你对中国走什么路的探索历程有何认识？(4分)

28.(11分)(湖南耒阳联考)2008年3月14日，在阳光灿烂的拉萨，达赖分裂势力制造了骇人听闻的打、砸、抢、烧等严重暴力事件，严重影响到当地各族人民的生命财产安全。这一事件再次证明了达赖集团分裂国家的阴谋，使更多的人进一步认清了其罪恶的面目。阅读下列材料：

材料一　驱逐帝国主义势力出西藏，西藏人民回到中华人民共和国大家庭中来；西藏地方政府积极协助人民解放军进入西藏，巩固国防，西藏军队改编为人民解放军；中央人民政府统一处理西藏地区的一切涉外事务。

——1951年《关于和平解放西藏办法的协议》

材料二　为庆祝西藏和平解放50周年，中央代表团代表中央人民政府在拉萨向西藏自治区赠送“民族团结宝鼎”。宝鼎周围的浮雕分别为“签订十七条协议”“民主改革”“川藏，青藏公路通车”“毛主席派人来”“腾飞的西藏”“全国各族人民大团结”的历史性画面。

——《中国青年报》

材料三　50年，在西藏这片古老而神奇的土地上，发生了以往任何时候无法比拟的巨大变化，西藏实现了社会制度历史性跨越，走上了社会主义道路。今天的西藏，经济发展，社会进步，民族团结，局势稳定，边防巩固，人民安居乐业，呈现出一派生机勃勃、欣欣向荣的景象。50年的沧桑巨变揭示了一个伟大的真理。

——胡锦涛《在庆祝西藏和平解放50周年大会上的讲话》

请回答：

(1)概括材料一中，西藏自治区发生了哪些重大变化？(3分)

(2)从材料中可以看出，新中国成立后，党和政府处理民族问题的原则和重要制度是什么？(3分)

(3)结合你所掌握的知识，分析实行这一制度有哪些意义。(3分)

(4)依据材料二、三，如何理解西藏巨变所揭示的伟大真理？(2分)

29.(21分)(浙江五校联考)2010年是中华人民共和国成立61周年，这61年就是一部执政的中国共产党和人民政府不断提高自身执政能力的历史。阅读下列材料，结合所学知识回答问题。

材料一　毛泽东《在中国共产党第七届中央委员会第二次全体会议上的报告》：夺取全国胜利，这只是万里长征走完了第一步。……中国的革命是伟大的，但革命以后的路程更长，工作更伟大，更艰苦。这一点现在就必须向党内讲明白……我们能够学会我们原来不懂的东西。我们不但善于破坏一个旧世界，我们还将善于建设一个新世界。

(1)请结合所学知识，回答中共和人民政府为完成“更伟大”“更艰苦”的任务，1952年前在经济、对外政策两方面采取了哪些重大对策？(4分，要求：经济、对外政策方面各答出一项即可)

(2)1953年以后，中共和人民政府充分地展示了执政能力。试结合所学知识概括在1954、1955这两年新中国在民主政治制度和外交两方面探索上所取得的建设成就。(5分)

材料二　《中共中央关于加强党的执政能力建设的决定》：我们党是一个勇于追求真理、修正错误，善于总结经验、不断提高自己的党。在半个多世纪的执政实践中，党紧紧围绕什么是社会主义、怎样建设社会主义和建设什么样的党、怎样建设党这两个问题，进行了艰辛探索，积累了成功经验，也有过失败的教训。

(3)请指出中国共产党在61年的执政实践中最严重的失误是什么？(3分)

(4)自1978年以来中共和人民政府全面实行的改革开放改变了许许多多中国人一生的前途和命运，也改变了我们这个具有5 000年文明史的国家的前途和命运。请结合中共和人民政府在国家统一和经济体制两方面的革命性设想来评价改革开放所带来的巨大变化。(5分)

(5)从中共和人民政府的执政实践得失中分析这给我们提供怎样的启示？(4分，要求：答出一项即可)

天利38套 模块专题

模块一　政治文明发展史(四)

4A

考查范围：古代中国的政治制度　近代中国的民主革命　现代中国的政治建设与祖国统一　现代中国的对外关系　古代希腊、罗马的政治制度　欧美代议制的确立与发展　科学社会主义理论的诞生到社会主义制度的建立　第二次世界大战后世界政治格局的演变

本试卷分第Ⅰ卷(选择题)和第Ⅱ卷(非选择题)两部分。满分120分，考试时间90分钟。

第Ⅰ卷(选择题　共50分)

一、选择题(本题共25小题，每小题2分，共50分。在每小题给出的四个选项中，只有一项最符合题目要求)

1.(湖南耒阳联考)儒家经典把君子人格的修养和完成设计为“修身、齐家、治国、平天下”的历练，在此程序下，从个人到“家”，再到“天下”的一种层次扩展的关系，实质上体现了　(　　)
A. 王位世袭制　　B. 分封制　　C. 宗法制　　D. 郡县制

2.(江西十校模拟)隋唐时期确立和完善的三省六部制使中央机构分工明确，当时人们根据具体职能把“六部”分别概括为“富”“贵”“威”“严”“贫”“贱”六字。结合当时社会背景分析“贱”最有可能描述的是　(　　)
A. 工部　　B. 礼部　　C. 户部　　D. 兵部

3.(江苏南通模拟)“凡厥衣冠(冠族华胄)，莫非二品；自此以还，遂成卑庶”(《宋书·恩幸传序》)材料反映的选官制度　(　　)
A. 是汉朝选拔官吏的主要途径　　B. 扩大了官吏人才来源
C. 门第出身决定官品大小　　D. 有利于加强中央集权

4.(北京石景山期末)英国向中国走私鸦片的直接目的是　(　　)
A. 扭转贸易逆差　　B. 毒害中国人民
C. 打开中国市场　　D. 寻找战争借口

5.(合肥质检)1861年4月，曾国藩的幕僚赵烈文看到了一本书的新印本后，在日记中写道：“其中所言，颇有见识……法类，皆是效法西人所为，其钦折外洋，殆为心悦诚服，而于夷情最谙练……观此一书，则贼中不为无人。”该日记中所说的“书”应是　(　　)

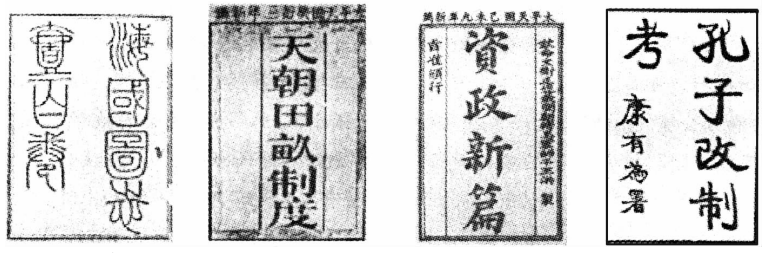

A　　B　　C　　D

6.(天津河西期末)美国公使田贝说：“事实上，外国公使已成为中国政府不可分割的一部分……”从此可以“任意斥责一切对待外国人不称职的中国官吏”。这种状况应出现于　(　　)
A.《南京条约》签订之后　　B.《北京条约》签订之后
C.《马关条约》签订之后　　D.《辛丑条约》签订之后

7.(武汉调研)中华民国临时大总统孙中山颁布法令：取消对广东、福建的“蛋户”，浙江的“惰民”，河南的“丐户”的称号。这一规定体现了　(　　)
A. 中华民国主权属于全体国民　　B. 国民在法律上一律平等
C. 国民享有财产、结社等自由　　D. 民主共和观念深入人心

8.(北京东城期末)从社会发展的角度看，太平天国运动、辛亥革命和共产党领导的新民主主义革命的相同点在于　(　　)
A. 推动民主化进程　　B. 关注解决民生问题
C. 明确提出反帝主张　　D. 宣布平均分配土地

9.(江苏南通模拟)中国国民党某大会宣言提出：“民族主义，一为中国民族自求解放；二为中国境内各民族一律平等。民权主义指民权为一般平民所共有，凡真正反对帝国主义之个人及团体，均得享有一切自由及权利……”在该理论的推动下　(　　)
A.《中华民国临时约法》颁布　　B. 结束了清王朝的统治
C. 国民革命运动取得胜利　　D. 国共合作有了政治基础

10.(浙江金华十校期末)1937年2月，中国共产党致电国民党，提出了“召集各党、各派、各界、各军的代表会议，集中全国人才，共同救国”“工农政府改名为中华民国特区政府，红军改名为国民革命军，直接受南京中央政府与军事委员会之指导”等主张。这表明　(　　)
A. 抗日民族统一战线正式形成
B. 中国共产党将革命的领导权交给了国民党
C. 中国共产党党内“右”倾主义错误不断滋长
D. 中国共产党积极推动国共第二次合作

11.(合肥质检)以下是一组各个时期留下的宣传标语，按先后出现的顺序排列正确的是　(　　)


①　　②　　③　　④

A. ②①④③　　B. ①②④③　　C. ④②①③　　D. ①②③④

12.(北京石景山期末)冯骥才在《关于文革博物馆》一文中写道“一代人经受的惨痛教训，是下一代人的精神财富”。这里所说的“教训”主要是指　(　　)
A. 要注重民主与法制建设　　B. 要根据客观经济规律办事
C. 要及时地调整生产关系　　D. 要建设社会主义市场经济

13.(2009·天津卷)下列史实符合西周确立的宗法制继承原则的是　(　　)
A. 唐太宗通过玄武门之变继位　　B. 宋太宗继承兄长宋太祖之位
C. 明太祖因太子亡指定嫡长孙继位　　D. 清康熙帝死后皇四子继位

14.(广东深圳调研)在国际外交舞台上，新中国第一代领导集体以超凡的气度、过人的智慧，维护了国家主权，赢得了国际社会的尊重。具体体现在　(　　)
①提出和平共处五项原则，成为解决国与国之间问题的基本准则
②倡导“求同存异”，促进了亚非国家的团结与合作
③“一国两制”的设想和实施，开创了国际先例
④“小球推动大球”的外交艺术，在国际社会传为佳话
A. ①②③　　B. ②③④　　C. ①③④　　D. ①②④

15.(杭州质检)握手，是人类文明发展到一定阶段的产物，握手已成为现代社交场合中一种常见礼节。国际舞台上“巨人”的握手，有时会引起国际社会的“震动”。下列三幅“握手”图片所反映的史实，解读正确的是　(　　)


图1　20世纪50年代初


图2　20世纪70年代初


图3　21世纪初

①图1 毛泽东和斯大林的握手，打破了帝国主义孤立、封锁中国的政策
②图2 毛泽东和尼克松的握手，标志着中美正式建交
③图3 联合国安理会五大常任理事国首脑的握手，表明中国积极开展以联合国为中心的多边外交
A. ①②③　　B. ①②　　C. ②③　　D. ①③

16.(湖南邵阳联考)古代雅典公民大会规定，下列人员不得在公民大会上发言：任何殴打父母的人；任何不赡养父母的人；任何未按指令服兵役和从战场逃脱的人；任何挥霍掉从其父母或从其他人那里继承下来的财产的人。这些规定有利于　(　　)
①促进雅典公民的个人道德修养　②增强雅典公民的社会责任意识　③雅典执政官控制公民大会而独揽大权　④雅典民主政治的发展
A. ①②③④　　B. ①②③　　C. ①②④　　D. ②③④

17.(浙江五校联考)根据下图所示，其中关于罗马法的说法错误的是　(　　)

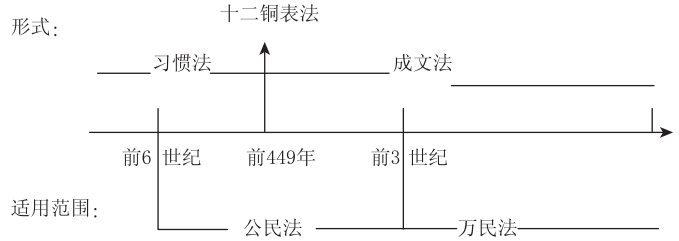

A.《十二铜表法》是成文法发展的起点
B.《十二铜表法》可以看作是公民法的典型代表
C. 从习惯法发展到成文法，是经济的发展推动平民与贵族长期斗争的结果
D. 随着自然法的形成，罗马法学走向高度成熟，所以自然法也基本上都是成文法

18.(山东潍坊抽样)“在一个有长期专制传统的国家找到一个摆脱革命与专制的循环、能有效控制‘控制者’的办法……这大概是改造专制制度、以制度创新(使国家)走向长治久安的最完美的例子。”这个国家是　(　　)
A. 英国　　B. 法国　　C. 美国　　D. 德国

19.(合肥质检)西方国家的“三权分立”并不是什么神秘的东西，它和中国儿童游戏中的“锤子、剪刀、布”同一原理，即一物降一物。你认为该说法　(　　)
A. 正确，说出了三权分立的实质
B. 贴切，讲出了三者之间的相互制约关系
C. 不妥，三者之间不是单向制约的关系
D. 不妥，三者之间是相互交错的关系

20.(天津六校联考)观察下面反映中西政治体制的图示，从本质上讲对其异同分析最为准确的是　(　　)

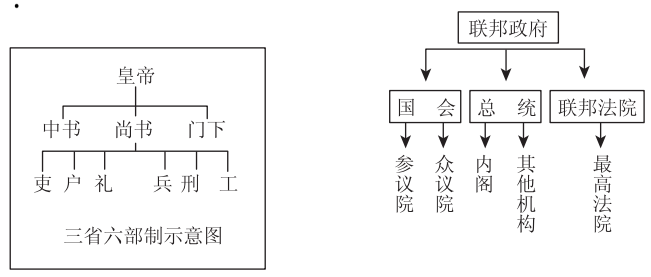

A. 相同的是都是民主政体，不同的是首脑称号
B. 相同的是都体现了分权，不同的是主权的归属
C. 相同的是都体现了集权，不同的是权力的分配
D. 相同的是都体现了制衡，不同的是元首的权力

21.(山东潍坊抽样)1917年，列宁在《四月提纲》中提出了一切土地收归国有，全部政权转归苏维埃的要求。这表明布尔什维克党确立了　(　　)
A. 资产阶级民主革命目标　　B. 社会主义革命目标
C. 进行武装起义的方针　　D. 农业集体化方针

22.(湖南邵阳联考)1917年10月25日(公历11月7日)清晨，当俄国人民醒来，惊讶地在街头读到了这样一则布告：“代表大会决定：全部地方政权一律转归当地的工兵农代表苏维埃……”这则布告的内容出自　(　　)
A.《四月提纲》　　B.《告工人、士兵和农民书》
C.《和平法令》　　D.《土地法令》

23.(北京崇文期末)20世纪50年代中期，欧洲政治格局的最大变化是　(　　)
A. 英、法、苏成为安理会常任理事国　　B. 两大军事政治集团对峙局面形成
C. 德国处于分裂状态　　D. 欧洲联盟成立

24.(山东威海质检)下列关于当前世界政治格局的表述，正确的是　(　　)
A. 苏联解体后两极世界变成了单极世界
B. 即便是最强大的美国也无法控制当今世界
C. 中国和美国的综合国力远远超过了其他国家
D. 第三世界的崛起促成了三足鼎立的局面

25.（吉林质检）1990年4月，美国国务卿詹姆斯·贝克说："在遏制之后等待着的是民主"。此话并不意味着（　　）

A. 美国强力推行"美式"民主

B. 美国长期对苏联、东欧实行"冷战"政策

C. 苏联、东欧实行政治多元化

D. 东欧剧变，苏联解体，冷战结束

第Ⅱ卷（非选择题　共70分）

二、非选择题（本题共4小题，共70分）

26.（12分）（浙江五校联考）与我们生活最为密切的是建筑，而建筑风格在一定程度上也反映了政治制度的特色。请阅读下列材料，并回答问题。

材料一　明清故宫建于北京城的中央，以南北为中轴线，坐北朝南，充分体现了皇权至上的封建统治思想，故宫城外是皇城，皇城外又有北京城，城城包围，显示了森严的等级制度。





明清故宫和皇帝的宝座

材料二　古希腊时期的雅典卫城，公民集会的场所被设计成半圆形的砖石建筑，并且是能够容纳几千人的剧院式结构，目的在于确保每一个参加者不仅能看到发言的人，也可以看见其他出席的人。

材料三　数百年前，爱尔兰议院模仿古希腊建筑构造了半圆形议事厅，而英国的威斯敏斯特宫内部则一直使用长方形的议事厅。后来这两种不同形状的议事厅在实践中取得了截然不同的效果。丘吉尔概括说："英国议会机构的全部特质建立在这样一个事实上，即议会下院是长方形而不是半圆形的结构。因为长方形的会议厅更适合政党体制。对个人来说，所谓'左''右'立场很容易改变，但穿过发言席的行为需要慎重地考虑。"

——（美）迪耶·萨迪奇·海伦·琼斯著《建筑与民主》



古希腊时期的剧院遗址



英国下议院开会照片

材料四　美国国会大厦俯瞰着华盛顿哥伦比亚特区，这座由美国第一任总统华盛顿亲自奠基的大厦，对历任美国总统来说都是一个需要小心应付的地方。

美国的开国者们因为长久的自治传统……使他们对一个坐拥大权的政治领袖患有极大的忧虑……因此他们想方设法地约束总统的权力。不仅是司法、立法制度上的约束，甚至在宪法中加上了弹劾权，对犯有"叛国罪、贿赂罪或其他重罪轻罪"的总统和其他行政官员进行弹劾，并予罢免。

——《大国崛起·美国》

（1）根据材料一的描述，能反映出中国古代政治制度的哪两大特点？（2分）

（2）材料二体现了古希腊的民主政治的特点，但也有人认为"就是这种民主政治才是灭亡古希腊的真正的罪魁祸首"，请分析持这种观点的最有力证据应该是什么。（1分）并谈谈这给我们提供了什么可以借鉴的教训。（1分）

（3）根据材料三所透露的历史信息并结合所学知识概括英国近代政治制度的特点（3分）。

（4）根据材料四并结合所学知识回答美国是怎样"约束总统的权力"的？（2分）

（5）上述四则材料所反映的政治制度在历史上都曾起到一定的积极作用，请综合评价这些政治制度的相同点。（3分，要求：不要分别叙述，要综合概括）

27.（28分）（广州调研）历史分期是通过划分历史时期研究史学的一种方法，旨在揭示不同历史时期或阶段之间的质的差别，从中发现历史发展的特点及规律。阅读材料，结合所学知识回答问题。

关于中国近代史和中国现代史的分期，是确定中国近代史学科对象的重要问题。新中国成立以后，胡绳发表文章将其限定在1840—1919年之间。此后，中国史学界出现了中国近代史和中国现代史的明确分界，分界线就是1919年发生的五四运动。但范文澜等学者提出，按照社会性质，中国近代史应该包含1840—1949年的整个时期。

——据张海鹏《中国近代史和中国现代史分期应以1949年为界》

（1）如果以"五四运动"为中国近代史和现代史的分界线，这两个历史时期的中国革命有何"质的差别"？简要说明五四运动的历史意义。（8分）

（2）如果以1949年新中国成立为中国近代史和现代史的分界线，这两个历史时期的中国社会性质有何"质的差别"？请从现代化的角度简要说明新中国成立的历史意义。（10分）

（3）台湾史学界多数人主张把1911年的辛亥革命作为中国近代史和现代史的分界线，简要分析其原因。（6分）

（4）根据材料并结合上面的问题，谈谈你对历史分期的认识。（4分）

28.（13分）（济南模拟）国歌是一个国家民族气质和精神面貌的综合体现。阅读材料，回答问题。

材料一　1911年清政府制定了大清帝国国歌——《巩金瓯》："巩金瓯，承天帱，民物欣鼋藻，喜同袍，清时幸遭。真熙皞，帝国苍穹保，天高高，海滔滔。"（注："金瓯"在中国古代比喻疆土之完固）

（1）结合时代背景，分析清政府为何采用《巩金瓯》作为国歌？（4分）

材料二　1912年元旦，以孙中山为首的南京临时政府颁布了《中华民国国歌》："东亚开化中华早，揖美追欧旧邦新造，飘扬五色旗国荣光，锦秀山河普照，我同胞鼓舞文明，世界和平永保。"

（2）依据材料二，分析中华民国国歌表达了怎样的政治愿望？（2分）为实现"揖美追欧"，民国政府在政治、经济、文化生活方面有何措施？（各举一例）（3分）

材料三　1949年9月，第一届中国人民政治协商会议在北平召开。在讨论新中国国歌时，徐悲鸿建议采用1935年田汉作词、聂耳作曲的《义勇军进行曲》，但有代表认为，这首歌中"中华民族到了最危险的时候"已不可行，主张修改歌词。

（3）结合所学知识说明《义勇军进行曲》创作的背景是什么？（2分）你是否同意有关代表主张修改歌词的建议？为什么？（2分）

29.（17分）（南京期末）美日关系是国际关系的重要组成部分。阅读下列材料：

材料一　对日本的占领不能重蹈德国的覆辙，我不想分割管制或分区占领。我不想给俄国人以任何机会，再让他们像在德和奥地利那样行动。

——《杜鲁门回忆录》第一卷

材料二　在和约和本条约生效之日，由日本授予、并由美利坚合众国接受在日本国内及周围驻扎美国陆、海、空军的权利。……未经美利坚合众国事先同意，日本不得将任何基地给予任何第三国，亦不得将基地上或与基地有关之任何权利、权力或权限，或陆、海、空军驻防、演习，或边境之权利给予任何第三国。

——《日美安全保障条约》（1951年）

材料三　在资本输出方面，日本一方面限制美国资本在本国的无限制发展，一方面大力推行自己的资本输出，其资本输出的增长速度比美国要快的多。它的资本也大规模地流向美国国内……日本在美国的直接投资在1960年时还微不足道，1970年也只有2.3亿美元，1980年时就达到了42.2亿美元。

——《20世纪世界史》

材料四　中曾根内阁（1982—1987年）是战后日本政治的重大转折时期，这一转折的重要标志是中曾根提出"战后政治总决算"的口号和日本要成为"政治大国"（或"国际国家"）的国家发展目标。

——《日本史》

材料五　我们在亚太地区的努力在很大程度上将植根于美日之间历久弥新的同盟关系。从我就职之初开始，我就努力加强紧密联系我们两国的纽带。……50年前的这一天，德怀特·艾森豪威尔总统与日本首相并肩而立，他说，我们两国正在建立基于"平等和相互理解"的"牢不可破的伙伴关系"。在此后半个世纪中，这一同盟作为两国安全与繁荣的基础持续至今……在我们的同盟不断发展并适应未来的过程中，我们始终不遗余力地维护艾森豪威尔总统很久以前阐明的那种精神，即一种平等且相互尊重的伙伴关系。

——奥巴马东京演讲（2009年11月）

请回答：

（1）据材料一、二并结合所学知识，概括二战结束到50年代初期美日关系的特征，分析其形成原因。（4分）

（2）据材料三、四，概述20世纪七八十年代美日关系出现的新变化，分析变化的原因。（4分）

（3）据材料五并结合所学知识，分析美国仍不遗余力地与日本发展一种"平等且相互尊重的伙伴关系"的原因。（2分）

（4）综合上述材料，归纳美国对日本关系发展的轨迹并谈谈你的认识。（7分）

天利38套 模块专题

模块二　经济文明发展史(一)

5A

考查范围：古代中国的经济　近现代中国经济结构的变化与资本主义的曲折发展　中国近现代社会生活的变迁　中国特色社会主义建设的道路　新航路的开辟、殖民扩张与资本主义世界市场的形成和发展　苏(俄)联的社会主义建设　罗斯福新政与当代资本主义的新变化　第二次世界大战后世界经济的全球化趋势

本试卷分第Ⅰ卷(选择题)和第Ⅱ卷(非选择题)两部分。满分120分，考试时间90分钟。

第Ⅰ卷(选择题　共50分)

一、选择题(本题共25小题，每小题2分，共50分。在每小题给出的四个选项中，只有一项最符合题目要求)

1.(北京宣武质检)传说上古的时候，神农氏“因天之时，分地之利，制耒耜，教民劳作”，这个传说反映了　(　)
A. 中国农耕经济进入精耕细作的时代　B. 中国由采集渔猎向农耕经济过渡
C. 中国已经进入生产型经济时代　D. 中国开始了精耕细作的农业时代

2.(江苏南通模拟)下列瓷器在唐代已经出现的是　(　)

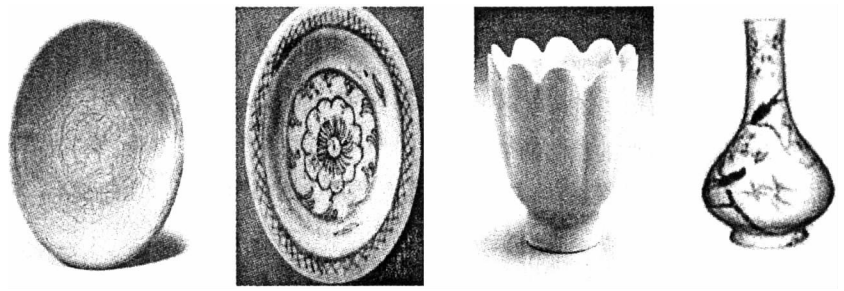

A　B　C　D

A. 越窑青瓷　B. 青花瓷　C. 汝窑白瓷　D. 粉彩瓷

3.(浙江五校联考)下列最能体现明清时期带有向近代文明演进趋向的经济现象是(　)
A. 农耕经济高度发展，经济作物广泛种植
B. 商业继续繁荣，白银成为普遍流通的货币
C. “机户出资经营，机匠计工受值”
D. 手工业分工日益细密，促进了地区或行业新的社会分工

4.(山东潍坊抽样)1656年，清廷“严禁商民船只私自出海”，并“不许片帆入口”，同时颁布了“迁海令”，在沿海制造无人区。该政策的最大影响是　(　)
A. 打击了中国航海业　B. 丧失了外贸主动权
C. 影响了商民的收入　D. 脱离了世界发展大势

5.(福建厦门质检)清代学者陶煦说：“金宝庐舍，转瞬灰烬，惟有田者，岿然而独无恙。故上至绅富，下至委巷工贾胥吏之俦，赢十百金，即莫不志在良田。”对此现象，理解错误的是　(　)
A. 农本思想及政策所导致　B. 促进了自然经济的解体
C. 使工商业发展缺乏资金　D. “以末致富，以本守之”已成社会风气

6.(天津河西期末)鸦片战争后不久，我国自然经济趋于解体的情况最为明显的地区是　(　)
A. 环渤海地区　B. 五口通商地区　C. 黄淮地区　D. 成渝地区

7.(山东潍坊抽样)1913年至1921年，全国华资纱厂的纱锭，由48.4万余枚增至128.4万余枚，增长了157.9%；织布机由2 016台增至5 825台，增长了188.9%。出现这种变化的原因有　(　)
①外来经济控制消除　②民国建立的推动
③实业救国的推动　④封建社会的终结
A. ①②　B. ②③　C. ①②③　D. ①②③④

8.(湖南耒阳联考)全面抗战爆发前后的短时期内，国民政府组织了极大的人力、物力将东部沿海的大部分高等学校和大量战略物资、工矿企业抢运到了云、贵、川等地。有史学家称其为“东方的敦刻尔克大撤退”，这次大撤退最重要的意义在于　(　)
A. 为迁都重庆奠定了基础
B. 粉碎了日本帝国主义掠夺中国资源的阴谋
C. 为持久抗战奠定了基础
D. 改变了中国的工业布局

9.(杭州质检)2010年世博会在中国上海举办，上海这个深受近代西方文明影响的城市再次成为世人瞩目的焦点。如果上海世博会举办以“民国初年的上海”为主题的展览，以下情景不可能列入展览内容的是　(　)
A. 看电视剧　B. 到徐园观看电影
C. 穿上中山装　D. 品尝西餐

10.(福建厦门质检)1913年章太炎在报上刊登征婚广告，条件如下：以湖北籍女子为限；须文理清顺；大家闺秀；要不沾染学堂中平等自由之恶习；有从夫之美德。以上材料反映出这一时期　(　)
A. 婚礼形式删繁就简　B. 依旧带有较浓厚的保守思想
C. 恋爱自由成为时尚　D. 民主共和观念深入人心

11.(上海十三校联考)从近代至今，上海始终处于中国发展的前沿。以下内容与上海有关的是　(　)
①近代中国最大的出版机构——商务印书馆的创办
②新文化运动的开端——《青年杂志》的创刊
③近代中国历时最长、影响最大的中文报刊——《民报》的创办
④江泽民第一次较全面阐述“三个代表”重要思想
A. ①③　B. ②③　C. ①②　D. ③④

12.(广东深圳调研)1957年7月31日，《浙南大众报》发文说：“‘包产到户’现在虽然已在许多地方被丢进了垃圾桶，但也还有一部分干部和农民眼睛未亮，‘抱着狐狸精当美女，恋恋不舍。”上述材料说明　(　)
A. 文章极力宣传“人民公社化”运动
B. “包产到户”不符合当时生产力发展要求
C. 当时在农业生产经营方式上存在意见分歧
D. 农业合作化运动符合生产力发展要求

13.(江西十校模拟)农村经济体制改革大体经历了三个阶段“分田单干”“离土不离乡”“离土又离乡”，其中“离土不离乡”为我国农民致富，实现工业化、现代化开辟一条新路，它是指　(　)
A. 实行家庭联产承包责任制　B. 撤销人民公社，建立乡、镇政府
C. 发展乡镇企业　D. 进城打工

14.(浙江金华十校期末)华国锋《在第二次全国农业学大寨会议上的讲话》中说：“粉碎‘四人帮’，正是遵照毛主席的部署，实现毛主席的遗愿……我们要坚定不移地贯彻执行毛主席的无产阶级革命路线和各项方针政策，谦虚、谨慎、不骄、不躁，在新的一年里，抓住阶级斗争这个纲，努力作战，去夺取更大的胜利。”这说明当时　(　)
A. “文化大革命”尚未结束　B. “左”倾错误仍在继续
C. 改革开放的号角已经吹响　D. 邓小平还没有复出

15.(天津六校联考)2006年美国《思想之林》杂志评选“十个人类有史以来最伟大的国家”，意大利以头名入选。根据所学的历史知识判断，其入选依据不应包括　(　)
A. 这里是西方资本主义萌芽诞生之地
B. 15世纪航海家们从这里出发，发现了新大陆
C. 起源于此的文艺复兴运动改变了世界
D. 在法律、文化、宗教等领域，古代罗马创造了现在的“西方社会”

16.(天津河西期末)中央电视台播出的大型电视纪录片《大国崛起》解说词写道：17世纪，英国“在历史性的转变中抢了先机，已经率先到达了现代文明的入口处……在下两个世纪里，它将傲视全球。”英国“抢占了先机”和“傲视全球”的典型表现分别是　(　)
A. 通过新航路的开辟，推动资本主义的迅速发展
B. 确立了君主立宪制，通过《航海条例》加强了海外贸易
C. 确立了君主立宪制，通过工业革命成为最发达的工业国
D. 率先完成工业革命，确立了海上霸主和世界殖民霸主的地位

17.(北京东城期末)有学者认为“18世纪末至19世纪中期，对欧洲大陆来说是一个大动荡的时代，同时也是历史性变革的时代。”引发“历史性变革”的经济因素是　(　)
A. 世界市场的形成　B. 工业革命的扩展
C. 资本主义制度的确立　D. 工人运动的发展

18.(浙江五校联考)英国曾是世界性的大帝国，不少史学家认为，英国在走向大国的过程中，制度的创新起了关键性的作用，下列哪一项不属于英国创立的制度　(　)
A. 创立君主立宪政体　B. 开创自由贸易制度
C. 建立现代工厂制度　D. 开创国家干预经济模式

19.(湖南耒阳联考)1992年，邓小平视察南方，发表了著名的“南方谈话”，指出：“计划不等于社会主义，资本主义也有计划；市场经济不等于资本主义，社会主义也有市场”。下列哪些史实能论证邓小平的这个观点　(　)
A. 美国的罗斯福新政；苏俄的战时共产主义政策
B. 美国的里根改革；苏俄的战时共产主义政策
C. 美国的罗斯福新政；苏俄的新经济政策
D. 美国的里根改革；苏俄的新经济政策

20.(天津河西期末)“新经济政策一执行，混乱和饥荒马上就开始平息下去了，城市恢复了生机，市场上的商店又开始有了产品的供应了，物价也随之下降。那时党的口号是‘学会做生意’”。这里的“学会做生意”主要指　(　)
A. 借助商品、市场的自由调节　B. 宏观调控与计划相结合
C. 恢复和发展私人企业　D. 实行粮食税制度

21.(江苏泰州联考)“小孩走路自然需要父母的帮扶，当他成年的时候，父母的帮扶已经成为他赛场夺冠的羁绊，因为他体格健壮，需要的是无拘无束的赛场驰骋。”这个比喻可用来形容　(　)
①英国工业革命对资本主义经济思想的重大影响　②自由主义经济思想兴起
③重商主义经济思想没落　④国家干预主义的兴起
A. ②③④　B. ①③④　C. ①②④　D. ①②③

22.(合肥质检)据统计，1970—1979年，美国从事农业人口从占人口总数的5%下降到3%，同期，从事制造业的人口从占人口总数30%下降到13%，而从事服务和信息行业的人口，从占人口总数的15%上升到72%。上述材料说明　(　)
A. 知识经济首先在美国出现　B. 经济全球化的作用加大
C. 美国进入信息化社会　D. 社会经济结构发生重大变化

23.(北京崇文期末)欧共体成立后，在许多领域进行了密切合作，主要包括　(　)
①建立关税同盟　②实行共同农业政策
③建立欧洲货币体系　④加强科技合作
A. ①②③　B. ①②　C. ③④　D. ①②③④

24.(江苏南通模拟)世博会关注人类面临的共同问题，通过完整展现事物发展的过程，探求解决问题的途径，给人民以深刻的启迪。据此判断，1958年在比利时布鲁塞尔举行的“二战”后第一个世博会的主题及用意应是　(　)
A. “城市，让生活更美好”；揭示人类已经进入城市化时代
B. “人类、自然、科技——蓬勃发展的全新世界”；倡导可持续发展和再利用理念
C. “交通与通信 ——人类的发展和未来”；提醒人类已经步入信息时代
D. “科学主导的文明与人道主义”；用科学进步促进人类的和平共处

25.(湖南邵阳联考)在世贸组织召开的西雅图会议期间，反对者进行了大规模的示威游行，参加者多是西方国家的中下层劳动人民。这主要反映了在经济全球化过程中　(　)
A. 西方国家也面临着就业压力
B. 发达国家与发展中国家间贫富差距进一步扩大
C. 发展中国家处于劣势地位
D. 环境污染、能源危机等日趋严重

需要全本请访问 www.ertongbook.com

5B

第Ⅱ卷(非选择题　共7%分)

二、非选择题(本题共4小题,共70分)

26.(20分)(广东中山六校联考)在封建社会中,自耕农(注:指自己耕种自己土地的农民)是社会的基础,他们的生存状况,事关社会的稳定和发展。阅读以下材料并结合所学知识回答问题。

材料一　为了保证赋税,徭役的供应,封建国家历来关注自耕农阶层的存在。"稳定小农"是封建王朝长治久安的良策,当一个新王朝建立时,对此尤为关注。历代统治者采取鼓励垦荒等政策,积极培植自耕农。诚然,自耕农这一阶层是很不稳定的,经常分化。

——摘自叶显恩《明清徽州农村社会与佃仆制》

材料二　民有幸不役于人而有田自耕者,皆以等出于籍而公(官府)役之……至不胜(不能承受),则贱卖其田,或逃而去。

——摘自欧阳修《欧阳文忠公全集》卷59

材料三　自田制坏而兼并之法行,贫民下户相多,而中产之家(相当于自耕农)赈贷之所不及,一遇水旱,狼狈无策,只有流离饿殍耳。

——《极荒活民书》

材料四　"凡分田,照人口,不论男妇……凡天下田,天下人同耕,此处不足,则迁彼处,彼处不足,则迁此处。"

——《天朝田亩制度》

材料五　"第十一条　分配土地,以乡或等于乡的行政村为单位,在原耕基础上,按土地数量、质量及其位置远近,用抽补调整方法按人口统一分配之。"

——《中华人民共和国土地改革法》

(1)自耕农阶层在中国最终形成于什么时期?它是谁直接剥削的对象?(2分)

(2)根据材料一分析封建国家为什么要关注自耕农的存在?(4分)

(3)根据材料一、二、三,分析古代社会中有利和不利于自耕农生存的因素。(4分)

(4)比较材料四和材料五在土地分配上的相同之处。(2分)

(5)随着社会经济的发展,自耕农经济的结束成为必然。结合所学知识,指出中国和世界近代史上的英国结束自耕农经济所采取的措施和影响。(8分)

27.(10分)(江苏镇江调研)2008年是中国改革开放30周年,2009年是新中国成立60周年,建国60年来尤其是改革开放30年来,中国由封闭走向开放,融入世界的脚步不断加快。阅读下列材料:

材料一　2000年至2006年中国GDP增长率为8.4%、8.3%、9.1%、10.0%、10.1%、10.4%、10.7%,另据统计,2007年GDP增速11.4%。初步核算,全年国内生产总值246 619亿元,比上年增长11.4%,加快0.3个百分点,连续五年增速达到或超过10%。

——网易财经

材料二　在CRT彩电时代曾位列全球第一阵营的中国企业,在平板电视时代因受制于上游核心技术等原因而逐渐跌出了领跑位置。……2007年,三星、索尼、飞利浦分列全球液晶电视(平板电视)出货金额及出货量前三名,夏普、LG、东芝与松下居第四至第七位,其中没有中国企业的影子。……中国电子商会副秘书长陆刃波说,中国彩电巨头在平板电视时代不掌控上游核心技术,难以发挥成本优势。2007年第四季度液晶电视……在全球市场已大大超越CRT彩电。液晶电视的市场占有率,日本为86%,西欧为84%,北美市场为78%,而中国市场CRT彩电销售仍占很大比例。

——段志敏(京华时报2008年2月27日)

请回答:

(1)根据材料一中我国2000—2007年GDP数据的变化,说明我国经济发展的趋势。结合所学知识分析该时期我国经济发展的有利因素。(4分)

(2)材料二主要反映了当前我国经济发展中的什么不利因素?(2分)说明了什么问题?(2分)

(3)一位外国评论家说,中国是"一个既富有又贫穷、既强盛又脆弱的大国"。试以上述中国经济状况为例,谈谈你对这句话的理解。(2分)

28.(20分)(广州调研)苏联解体十余年来,在俄罗斯社会和广大历史学家的意识中发生了许多重大变化,出现了一些对苏联重大历史事件和历史人物重新评价的新观点。阅读材料:

材料一　吴恩远在《俄罗斯最新历史教科书关于苏联历史评价的一些新观点》中指出:斯大林确实放弃了新经济政策,但判断这个"放弃"正确与否,不能仅仅看它是否符合列宁的教导,而要看它是否合乎当时的实践。

2003年3月4日,亚历山大·季诺维耶夫(俄罗斯哲学家、社会学家和作家)在《苏维埃俄罗斯报》发文说:"考虑到具体历史条件,考虑到人员等情况,斯大林为首的领导是按最佳方案行动的。环境本身迫使他们采取那样的行动。"他称斯大林为人类历史上最伟大的人物之一。

材料二　由俄罗斯教育部审定的《20世纪祖国史》中对赫鲁晓夫有这样的评价:赫鲁晓夫在苏联历史上的作用就像他的黑白两色大理石的墓碑,具有两面性。

材料三　历史学家尤·叶梅利亚诺夫撰文写道,"对斯大林作用的评价不应该脱离当时的时代。那时候主要注重实际成就,不太注重为了促进经济增长付出了多大代价这样的问题。当斯大林逝世之际,他给俄罗斯留下什么?俄罗斯当时是世界上数一数二的强国!那些指责斯大林的人(戈尔巴乔夫等)却用其双手毁灭了这个超级大国!"

请回答:

(1)材料一、三主张应主要从哪些角度评价斯大林时期的重大历史事件?结合所学知识,从上述角度分析斯大林"放弃"新经济政策的合理性。(10分)

(2)结合所学知识说明"赫鲁晓夫在苏联历史上的作用具有两面性"。(4分)

(3)简述"戈尔巴乔夫等"是如何"用其双手毁灭了这个超级大国"的。(3分)

(4)谈谈你对俄罗斯重新评价苏联重大历史事件和历史人物这一现象的认识。(3分)

29.(20分)(上海十三校联考)阅读下列反映不同时期的资本主义国家曾经实行过的经济政策,回答问题。

材料一　十六世纪的英国伊丽莎白和十八世纪的俄国彼得一世都实行过鼓励开办手工工场、鼓励出口、限制进口、保护本国工商业的重商主义政策,使两国的经济发展逐渐跻身于欧洲强国之列。

材料二　十九世纪英国古典经济学家亚当·斯密在《国富论》中鼓吹自由贸易政策,主张自由放任,让看不见的市场之手指挥经济。

材料三　渡过经济危机后,美国总统罗斯福说道:"作为一个国家,我们拒绝了任何彻底的革命计划。为了永远地纠正我们经济制度中的严重缺点,我们依靠的是旧民主秩序的新应用。"

材料四　20世纪70年代为了克服效益低下,竞争力下降等弊病,英国撒切尔夫人、美国里根总统都实施了大刀阔斧的改革:减少国家对经济的干预,重视发挥市场的作用。通过改革,经济都出现了迅速增长的势头。

(1)材料三中"经济危机"是指哪一次?(1分)

(2)材料三中"我们经济制度中的严重缺点"是什么?举例说明什么是"旧民主制度的新应用"。(4分)

(3)请你对上述材料进行评述。(15分)

天利38套 模块专题

模块二　经济文明发展史(二)

6A

考查范围：古代中国的经济　近现代中国经济结构的变化与资本主义的曲折发展　中国近现代社会生活的变迁　中国特色社会主义建设的道路　新航路的开辟、殖民扩张与资本主义世界市场的形成和发展　苏(俄)联的社会主义建设　罗斯福新政与当代资本主义的新变化　第二次世界大战后世界经济的全球化趋势

本试卷分第Ⅰ卷(选择题)和第Ⅱ卷(非选择题)两部分。满分120分，考试时间90分钟。

第Ⅰ卷(选择题　共50分)

一、选择题(本题共25小题，每小题2分，共50分。在每小题给出的四个选项中，只有一项最符合题目要求)

1. (福建厦门质检)2009年6月，海内外人士在湖南举行公祭炎帝大典。相传炎帝“因天之时，分地之利，制耒耜，教民农作”。这里的“耒耜”属于　(　)
A. 生产工具　B. 作战武器　C. 生活用具　D. 祭祀礼器

2. (广东深圳调研)右图描绘的是我国古代的劳动生产场景，图中题诗为康熙帝所作。与这一劳动生产场景相关的行业是　(　)



A. 棉纺织业
B. 麻纺织业
C. 造纸业
D. 丝织业

3. (杭州质检)据史书记载，江西景德镇制瓷业分工极细。明万历年间“镇(景德镇)上佣工，皆聚四方无籍游徒，每日不下数万人”。这一记载包含的历史信息主要有　(　)
①流动人口众多　②制瓷业发达　③佣工主要为地主做农活，打短工　④出现资本主义萌芽
A. ①②　B. ②③　C. ②③④　D. ①②④

4. (江苏泰州联考)下列不属于清王朝实行抑商与海禁政策的理由的是　(　)
A. “农为天下之本务，而工贾皆其末也”
B. “开矿必当聚众，聚众必当妨乱”
C. “处处皆关，则关关有税”
D. 防范“外夷”侵犯和沿海的反清斗争

5. (天津六校联考)下列表述所体现的经济思想不同于其他几个的是　(　)
A. 农，天下之大本也，民所恃以生也。而民或不务本而事末，故生不遂
B. 金宝庐舍，转瞬灰烬，惟有田者，岿然而独无恙。故上自富绅，下至委巷工贾胥吏之俦，赢十百金，即莫不志在良田
C. 舍本逐末，贤者所非。日富岁贫，饥寒之渐，故商贾之事，阙而不录
D. 世儒不察，以工商为末，妄议抑之。夫工固圣王之所欲来，商又使其愿出于途者，皆本也

6. (湖南耒阳联考)1882年商人何昆山在广州开办自来水公司，地方绅士以“有伤风水”为由极力阻扰，何昆山只好作罢。此事说明　(　)
A. 开办企业必须符合民间风俗　B. 民族工业产生的条件还不成熟
C. 洋务企业惧怕民族工业与之争利　D. 封建束缚是民族企业发展的巨大障碍

7. (天津河西期末)济南瑞蚨祥是全国知名的百年老字号……从1911年到1918年，瑞蚨祥在北京又开办了2处新店，几乎占了北京大栅栏半条街，同时在天津、青岛、烟台、上海等地的分号也相继设立。其迅速发展的原因不包括　(　)
A. 中华民国的建立　B. 群众性反帝爱国运动的推动
C. 欧洲列强暂时放松对华经济侵略　D. 清政府大力放宽对民间设厂的限制

8. (江苏南通模拟)1927年到1936年，民族资本主义得到较快发展产生的影响是　(　)
A. 民族资产阶级开始登上政治舞台　B. 逐渐成为国民经济的主体
C. 为抗日战争胜利奠定了一定的物质基础　D. 改变了中国贫穷落后的面貌

9. (上海十三校联考)清末的一道打油诗写道：“洋帽洋衣洋式鞋，短胡两撇口边开。平生第一伤心事，碧眼生成学不来。”该诗主要反映了当时　(　)
A. 洋货倾销中国　B. 学习西方的迫切愿望
C. 服饰追求西化　D. 社会上存在崇洋现象

10. (浙江五校联考)见下表新旧婚礼情况对照表，分析出现其变化的根本原因是　(　)

旧式婚礼情况	新式婚礼情况
1. 从父母之命、媒妁之言 2. 问名(互问庚贴卜之) 3. 会亲(订婚) 4. 请期(男家备糕点、请柬，说明迎娶日期及各种注意事项) 5. 纳采(男家备礼纳之女家，俗称“过大礼”“恭迎娶”) 6. 过妆(送嫁妆) 7. 娶亲 8. 回门	1. 自由恋爱 2. 订婚 3. 婚礼：证婚人、介绍人、主婚人依次入席；证婚人宣读婚书；证婚人、介绍人与新人各盖印章，新郎、新娘交换饰物；行三鞠躬礼；来宾贺词，各种答谢

A. 受西方近代文明和民主思想在中国传播的影响
B. 开明知识分子主张改革传统婚姻制并逐渐在社会中形成主流
C. 中国青年敢于身体力行，闯破旧传统牢笼
D. 政府政策的规定

11. 下图图例中白色框部分所代表的应是　(　)

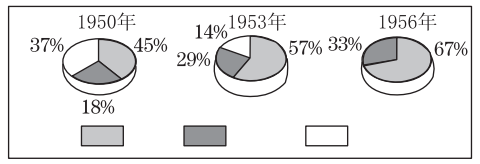

1950—1956年我国工业经济成分变化示意图

A. 社会主义国营企业　B. 集体所有制的乡镇企业
C. 国家资本主义工业　D. 私人资本主义工商业

12. (江苏泰州联考)建国六十周年庆典上，天安门广场以“复兴之路”为主题，举行了盛大的阅兵式和群众游行。打头的游行方阵分别命名为：开天辟地、艰苦创业、春天的故事、走进新时代。下列史实与“艰苦创业”相关的是　(　)
A. 新中国成立　B. 一五计划制定与实施
C. 开辟经济特区　D. 中国加入世界贸易组织

13. (北京宣武期末)右图是1957年到1960年中国的工农业生产情况，产生这种问题的原因有　(　)

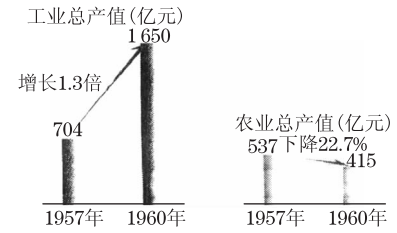

①“人民公社化”运动
②农田水利的兴修
③“大跃进”运动
④土地所有制的改革
A. ①②　B. ②④
C. ③④　D. ①③

14. (杭州质检)小明在探究性课题“中国特色的改革”学习中搜集到一些图片资料：

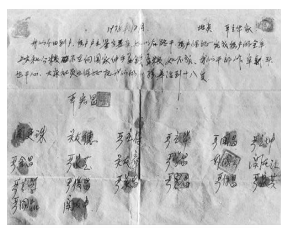

1978年小岗生产队签订的全国第一份承包合同书



1982年《中央一号文件》肯定“包产到户、包干到户”是社会主义农业经济的组成部分



1983年重庆开始城市经济体制综合改革试点



1987年《人民日报》关于政治制度改革的报道

根据上述这些图片资料，他得出这样一些结论，正确的是　(　)
①从群众自发到中央肯定、推动　②由试点到全国推广　③从农村到城市
④从经济体制改革到政治体制改革
A. ①②③　B. ②③④　C. ①②④　D. ①②③④

15. (合肥质检)迪亚士在谈到海上探险的目的时说：“是为了像所有的男子汉都欲做到的那样，为上帝和陛下服务，将光明带给那些尚处于黑暗中的人们。”该材料表明新航路开辟的一个重要目的是　(　)
A. 弘扬欧洲的科学精神　B. 推进近代的工业文明
C. 传播西方的天主教　D. 促进欧洲资本主义的发展

16. (江苏泰州期末)有学者称：商业革命为工业革命的发生提供了几个满足的因素。当时有评论家评论说“知道美洲对钉子的需要量的人，如果没见到过美洲极大量地用木头建造的房屋，是会感到惊异的……”从这段评论中我们判断商业革命为工业革命提供了哪个方面的支持　(　)
A. 技术支持　B. 劳动力支持　C. 市场支持　D. 资本支持

17. (北京宣武质检)“人类社会发展的历史，从本质上说就是人类文明演进的历史。”用这一观点分析新航路开辟的意义，不正确的结论是　(　)
A. 西欧终于走出了中世纪的黑暗　B. 树立了西欧工业文明的新形象
C. 开辟了大西洋连接各地的商路　D. 促进了各地区文明的进一步交流

18. (天津六校联考)以下为19世纪期间世界部分城市人口(以千为单位)的统计表，它反映出的历史信息不包括　(　)

城市	1800年	1850年	1880年	1900年
纽约	64	696	1 912	3 437
伦敦	956	2 618	4 767	6 581
东京	800	—	1 050	1 600
莫斯科	250	365	612	1 000
上海	300	250	300	600
孟买	200	500	773	776

A. 工业革命引起世界各国前所未有的城市化
B. 欧美国家已率先完成了工业化
C. 世界各地的城市化进程不均衡
D. 城市在国家经济中的地位日益重要

19. (福建厦门质检)苏俄农民彼得·伊里奇在日记里写道：“1922年春，阳光明媚，一股幸福感深深地拥抱着我……”让他产生“幸福感”的原因可能是　(　)
A. 政府实行实物配给制
B. 可以自由支配纳税后剩余的粮食
C. 加入集体农庄，走上合作化道路
D. 削减农业税，提高农副产品的收购价格

20. (吉林质检)列宁在1921年10月的一个重要报告中指出：我们“在经济战线上遭到了惨败”。后来，他又更明确地指出：“到1921年春天已经很清楚了，我们用……直接的办法来实行社会主义的生产和分配原则尝试已告失败。”为了扭转“失败”，苏维埃俄国实行了　(　)
A. 战时共产主义政策　B. 新经济政策
C. 斯大林模式　D. 粉碎武装干涉的政策

21. (浙江五校联考)20世纪30年代苏联和美国都进行了经济体制的改革，20世纪70年代末以来中国和美国也都进行了经济体制改革。对这两个不同时期的改革评述不正确的是　(　)
A. 20世纪30年代苏联和美国的经济体制改革都加强了国家对经济的控制或干预
B. 20世纪70年代末以来中国和美国的经济体制改革都强调市场与计划相结合
C. 两个不同时期的改革都体现了国家选择经济发展模式时必须依据时代和国情的需要
D. 美国不断地进行经济体制改革说明其民主政治使其政府决策出现多变性

22. (天津河西期末)有人以“从摇篮到坟墓的全面照顾”来形容1948年以来的英国国民。这主要是突出英国是一个福利国家。二战后，西方发达国家在生产力发展的基础上确立并完善了社会福利制度。以下对“福利国家”的认识，不正确的是　(　)
A. 缓解社会矛盾，改善了低收入阶层的生活
B. 扩大了社会消费，提高了人们工作积极性
C. 财政支出扩大，造成财政赤字
D. 其实质是国民收入的再分配

23. (江苏南通模拟)关于布雷顿森林体系建立的背景，表述正确的是　(　)
A. 贸易保护主义已被禁止　B. 英美苏中等大国的合作仍在维持
C. 美国的经济实力受到严重削弱　D. 资本主义各国经济出现繁荣局面

24.(浙江金华期末)随着经济全球化进程的加速,全球性和地区性的国际组织纷纷建立。下图标识所代表的国际性组织的成立表明(　　)



A. 世界贸易自由化的实现　　B. 全球知识经济时代的到来
C. 美国主导的世界贸易体系形成　　D. 经济全球化的进程取得了实质性的进展

25.(合肥质检)2008 年 9 月至 2009 年 10 月,在全球金融危机影响下,各国股市受到重创,巨幅下跌,冰岛、巴基斯坦濒临国家破产,金融海啸席卷全球。在此情况下又引发了人们对全球化的再思考,下列说法正确的是(　　)
A. 在本次金融危机中,发达国家受到的损失最大
B. 在全球化进程中,发展中国家处于完全不利地位
C. 不要对发达国家开放金融市场,以促进经济发展
D. 减少对发达国家的金融依赖程度,以防范金融风险

第Ⅱ卷(非选择题　共 7%分)

二、非选择题(本题共 4 小题,共 70 分)

26.(20 分)(山东泰安检测)阅读材料,结合所学知识回答问题。

材料一　福建产茶的文字记载,最早见诸于南安丰州莲花峰的摩崖石刻"莲花茶襟太元丙子"。唐,宁德贡产"蜡面茶",福州鼓山、闽侯贡产"方山露芽"(生芽、方山茶),武夷山产"香蜡片茶"等。宋,建州产"北苑贡茶"——龙凤团茶,政和县产贡茶——"银针"茶。元大德后,武夷山设"御茶园",武夷茶为贡茶。明、清,闽北、宁德天山产贡茶——"芽茶"。


莲花茶襟　太元丙子(公元376年)

材料二　中国茶叶在欧洲最初被视为药物放在药店出售,茶价相当昂贵。17 世纪,饮茶在欧洲逐步盛行并传至北美,饮茶成为一种高尚的消遣。查理二世的专职牧师奥文顿形容,"一日无茶则滞,三日无茶则病"。在英国的家庭中,"我把茶壶坐上了!"是一句对忙碌一天,疲倦归家的主人极好的关切话语。

1733 年,荷兰在广州购买价值 336 881 荷盾的茶叶,到荷兰后却卖得 988 510 荷盾,获利 651 629 荷盾。鸦片战争前的 140 年中,欧美贸易公司用来购买以茶叶为主的中国商品所花费的白银达 169 437 564 两白银。

英国东印度公司垄断了英国及其殖民地的茶叶交易,"从中国来的茶叶,提供了英国国库收入十分之一"。1773 年,东印度公司装载 342 箱中国茶叶的船只开进波士顿港,企图低价倾销,波士顿群众将船上的茶叶全部倒入大海。英国政府采取高压政策,激起殖民地人民的强烈反抗,终于导致北美独立战争。

材料三　近代前后中国植茶面积、茶产量、茶农数估算表

年代类别	万亩植茶面积	产量(万担)	内销(万担)	外销(万担)
1832—1837 平均	521	260.5	200	60.5
1861	625	312.5	202.5	110
1871	819	409.5	202.5	207
1886	934.9	567.46	205	362.46
1894	841.6	420.8	207.5	213.3
1901	674.6	337.3	210	127.3

材料四　据上海商会记载,1887 年上海工夫茶的平均价格就达每担 14.5 两,而印度茶每担 14 两银就可获利。1889 年,印度茶叶出口英国市场的总值第一次超过了中国,达 9 450 万磅,高出中国整整 1 472 万磅。而中国的茶叶种植处于自生自灭的状态,"由个体茶农采制小量茶叶,然后运往各处叫卖几天"。"中国种茶之法不用肥地物料,不去地下野草,亦不删除旁枝,又不换去老树,又不移种新地"。资本不足的茶农和茶商在苛捐重压下,为求生存,于是,将本应用于制茶工艺改进上的智慧,用在了茶叶的制假上。

(1)材料一反映古代福建茶叶生产的哪些特点?(6 分)

(2)依据材料二,概述中国茶叶对西方社会的影响。(6 分)

(3)据材料三,概述近代中国茶叶产销的变化趋势,(2 分)结合材料四及所学知识,分析变化的原因。(6 分)

27.(13 分)(河北张家口期末)在中国,名字不仅是一个"指代"符号,还承载了父辈的愿望,甚至社会意义、政治意义。阅读材料,回答下列问题。

材料一　中国古籍中唐朝以前出现的部分人名有:刘敬先、殷孝祖(《宋书》),蔡兴宗(《南史》),裴安祖(《北史》),张茂宗、杨延宗(《新唐书》)。

《宋史》中出现的部分人名有:焦守节(卷 261)、李克让(卷 270)、陈从信(卷 277)、赵安仁(卷 287)、钱端礼(卷 385)、张忠恕(卷 409)。

材料二　解放前,人们大多认为,名字越随意,孩子越好养,"阿猫""阿狗"之类的小名比比皆是,因此,"狗剩""铁蛋儿"之类的名字就大行其道。

材料三　解放后,很多人起名建设、援朝、跃进、文革、卫星等;20 世纪 80、90 年代,中国人起名讲究更动听、悦耳的声音和表达,勇、伟、娜、丽等极富男性或女性色彩的字眼被广泛采用;21 世纪,中国第二批独生子女开始为人父母,他们读着金庸、琼瑶的小说长大,他们希望给孩子一个并不大众的名字,彰显个性。有的孩子随母姓,四、五个字的名字也出现了。

材料四　在阅读历史文献时,常常会遇到这样一种现象,作者在文章中凡是涉及到本朝的皇帝、自己的长辈及尊崇的人名时,每每避而不用该字,而以改字、空格、缺笔等方法代替。这种现象就是"避讳",表示作者不敢、不能或不愿直呼其名。避讳制度大约起于周,成于秦,盛于唐宋,至清代更趋完密,民国成立后废除。

(1)据材料一分析,当时的人起名深受什么制度和思想的影响?(2 分)

(2)结合中国近代历史分析材料二所述现象出现的原因。(3 分)

(3)据材料三,指出中国人的起名变化说明了什么道理?(2 分)

(4)材料四中的"避讳"这一社会文化现象说明了什么?(2 分)这种社会文化现象对历史研究造成了什么影响?(4 分)

28.(23 分)(广东深圳调研)实现中华民族的伟大复兴,是近代以来中国历史发展的主旋律。阅读下列材料,结合所学知识回答问题。

材料一　从 1640 年到 1840 年,在 200 年中,西方已经进入了这样一个时期:"自然力的征服,机器的采用,化学在工业和农业中的应用,轮船的行驶,铁路的通行……"与此相比,同一时间里的中国却景物依旧:成千上万胼手胝足、转辗沟壑的小农背负着一代一代歌讴唐虞盛世、高谈名物考据或性心理义的士人。

——陈旭麓《近代中国社会的新陈代谢》

(1)这一时期,中、西方文明发展的本质差异是什么?(2 分)造成中国落后于西方的主要原因有哪些?(3 分)

材料二　有学者认为:中国近代史的发展呈现出由"沉沦"到"上升"的发展过程,中国社会走出了一条"U"字形路线。在近代中国历史的前期,其基本特征是"沉沦";近代中国历史的后期,其基本特征是"上升"。在"沉沦"与"上升"中间有一个过渡期,就是"沉沦"的谷底、"上升"的起始时期。

(2)试分别概述文中所说的"沉沦"和"上升"的含义。(4 分)

(3)20 世纪初期是中国由"沉沦"到"上升"的转折时期,推动这一转变的社会因素有哪些?(6 分)

材料三　新中国从 1949 年成立到现在,已经走过了 60 年。在评价改革开放前后两个 30 年历史及其相互关系的问题上,有这样两种观点:第一种,是在肯定改革开放 30 年以来历史性进步的时候,有意无意地贬低甚至否定改革开放以前 30 年的成就和经验。第二种,是在肯定新中国成立 60 年来成就的时候,有意无意地淡化改革开放具有的革命性意义,甚至认为改革开放以前 30 年比改革开放以后 30 年好。

(4)请选择上述两种观点中的一种,结合所学知识加以评论。(要求史论结合,推理严谨,表达准确)(8 分)

29.(14 分)(湖南师大附中月考)工业化进程是指从以农业占主导的社会经济向以工业占主导的社会经济转变,在近现代史上,实现工业化是社会经济发展的主题。阅读下列材料:

材料一　18 世纪 30 年代,英国首先爆发了产业革命,这次工业化是从英国的纺织工业部门开始的。自蒸汽机的出现,标志着人类进入了蒸汽机的时代,它改变了人类以人力、畜力、水力作为主要动力的历史,使各种机器有了巨大的动力,导致人类历史上的第一次技术革命。为此,英国成为世界上第一个实现工业化的国家,成为现代经济增长的一个示范。

——摘自《英国工业化的几个特点》

材料二　1925 年,列宁逝世后,苏联党内围绕社会主义建设道路问题多次发生争论。对于工业化问题,斯大林认为,必须优先发展重工业,工业化必须高速度。

——摘自岳麓版(历史必修 2)《经济成长历程》

材料三　实现工业化,首先必须解决道路问题。毛泽东以中国经济的落后性为前提,指出:中国的工业化,既不能走欧美式的资本主义工业化道路,也不是苏联式的社会主义工业化道路,而是具有中国特色的新民主主义工业化道路……因此,选择走新民主主义工业化道路的构想一直为全党所认同,直到党的过渡时期总路线提出,毛泽东和党中央才真正放弃了走新民主主义工业化道路的设想。

——《毛泽东新民主主义工业化思想初探》

请回答:

(1)从材料一、二可看出英国的工业化进程与苏联相比有何不同?(1 分)

(2)结合十月革命后苏俄面临的历史背景分析,苏联为什么要优先发展重工业?并简要评价苏联的工业化。(7 分)

(3)结合材料三和所学知识,分析建国以来中国共产党在探索工业化道路上发生了什么变化?(3 分)

(4)综合三段材料看中苏英三国的工业化道路能给我们一些什么启示。(3 分)

天利38套 模块专题

模块二　经济文明发展史(三)

7A

考查范围：古代中国的经济　近现代中国经济结构的变化与资本主义的曲折发展　中国近现代社会生活的变迁　中国特色社会主义建设的道路　新航路的开辟、殖民扩张与资本主义世界市场的形成和发展　苏(俄)联的社会主义建设　罗斯福新政与当代资本主义的新变化　第二次世界大战后世界经济的全球化趋势

本试卷分第Ⅰ卷(选择题)和第Ⅱ卷(非选择题)两部分。满分120分，考试时间90分钟。

第Ⅰ卷(选择题　共50分)

一、选择题(本题共25小题，每小题2分，共50分。在每小题给出的四个选项中，只有一项最符合题目要求)

1. (湖南耒阳联考)祈盼"五谷丰登""六畜兴旺"是我国古代劳动人民的美好愿望，这反映了中国古代农业经济的一个特点是　(　)
A. 我国古代劳动人民有家畜养殖的传统
B. 以种植业为主，家畜饲养业为辅
C. 用牛力耕田使精耕细作的农业生产模式日益完善
D. 采用"男耕女织"式的经营方式

2. (北京宣武质检)明清时期私营手工业开始占据主导地位，产生的影响是　(　)
A. 个体农业和个体手工业的结合日益密切
B. 促进了明清商品经济的发展
C. 冲破了明清时期重农抑商政策的束缚
D. 使白银成为普遍流通的货币

3. (浙江金华期末)明清时期，徽州地区出现了"以商贾为第一生业，科第反在次之"的局面；在《婺源县志》的人物志中，商人的传记最多。上述现象反映出明清时期的徽州地区　(　)
A. 重商轻农的经济政策　　B. 重利轻义的道德观念
C. 重视商业的社会风气　　D. 出现许多的商帮

4. (浙江五校联考)据资料统计：新航路开辟后，从明后期至清前期200余年间，世界白银产量的一半流入了中国，拥有一流城市和最为密集、完善的市场网络体系的中国，成为当时世界经济和贸易的中心区域。然而当时它却没有形成强大的日后能扫荡旧经济基础的革命性变化。其中内在的直接原因在于　(　)
A. "重农抑商"和"闭关禁海"政策的压制
B. 自给自足的农耕文明不适于工商业发展
C. 由于鸦片大量流入导致白银的大量外流
D. 英国工业革命后对中国进行的商品输出

5. (合肥质检)从下图中能够得到的准确信息是　(　)

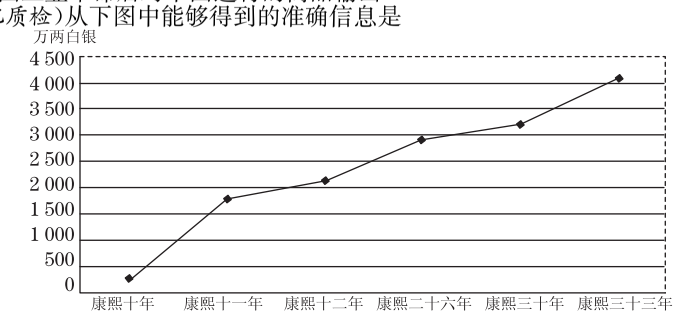

清朝康熙年间的一份国库储备统计图

A. 国家安定繁荣，库存盈余增加　　B. 商业贸易兴盛，贸易总额增加
C. 国家内忧外患，军费不断增加　　D. 对外贸易发达，关税收入增加

6. (天津六校联考)对下图中国近代各种不同经济形式曲线示意图的解读正确的是　(　)

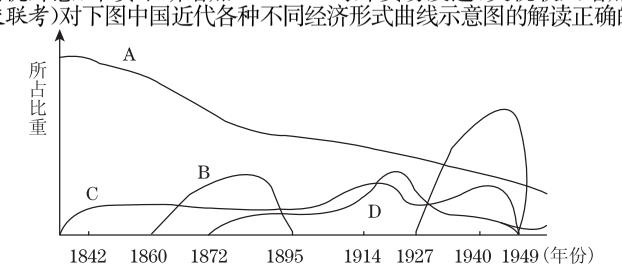

1840—1956年我国五种经济形式发展情况

A. 曲线A这类经济形式的出现与鸦片战争有关
B. 在曲线B这类企业中诞生了中国近代第一批无产阶级
C. 曲线C这类企业对中国近代经济有一定积极影响
D. 曲线D这类企业20世纪40年代末新中国对其实行没收政策

7. (江苏南通模拟)新文化运动时期，维新派诗人刘大白在《卖布谣》中说："土布粗，洋布细，洋布便宜，财主欢喜。土布没人要，饿倒哥哥嫂嫂。"这反映了　(　)
①洋布成为普通百姓的主要衣料　　②作者提倡使用国货
③知识分子对民生的强烈关注　　④作者反对机器生产
A. ②③　　B. ①④　　C. ①②　　D. ②④

8. (杭州质检)浙江是著名的侨乡，爱国华侨热心祖国建设，纷纷回乡投资。右图是民国时期东南亚华侨回国投资情况表，对此表所反映的历史信息，解读合理的是　(　)

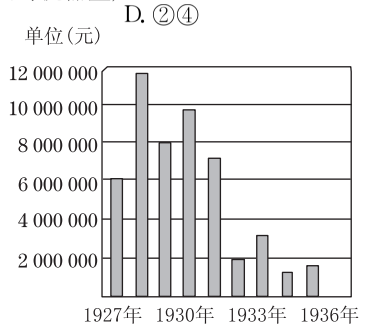

①1928年，南京国民政府建立后采取一系列发展经济政策和措施并鼓励华侨投资国内
②1929年，资本主义经济危机，不少华侨把资本转移到国内
③1931年以后，世界经济危机影响加大，众多华侨破产
④1932、1933年，因蒋介石连续发动反共内战，国内政局不稳，造成华侨投资下降
A. ①②③　　B. ②③④
C. ①②③④　　D. ①③④

9. (湖南邵阳联考)康有为曾经上书光绪帝说："今则万国交通，一切趋于尚同，而吾以一国衣服独异……且今物质修明，尤尚机器，辫发长重，行动摇舞，误缠机器……辫发与机器不相容也。"这则材料反映出康有为　(　)
A. 具有强烈的反清革命思想　　B. 反对使用机器
C. 主张"断发易服"　　D. 主张建立资本主义制度

10. (天津河西期末)吕思勉在《中国通史》"衣食"篇中提出："以中西的服饰相较，大体上，自以中国的服饰为较适宜。现在的崇尚西装，不过一时的风气罢了"。材料表明作者的观点是　(　)
A. 传统服饰有强大的生命力　　B. 西装必将风行全国
C. 中西服饰各有特点　　D. 列强侵略引起服饰变化

11. (北京石景山期末)在辛亥革命时期，老百姓能读到的报纸是　(　)



A.《人民日报》　B.《红色中华》　C.《中央日报》　D.《民报》

12. (江苏泰州期初联考)剪纸是我国的民间艺术，观察下列剪纸，它们形象地反映了　(　)

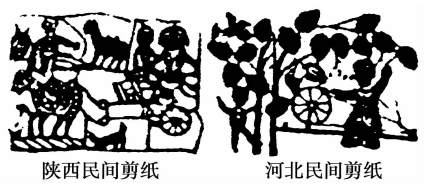
陕西民间剪纸　　河北民间剪纸

A. 男耕女织的自然经济　　B. 高度发达的商品经济
C. 领先世界的手工技术　　D. 古代社会的和谐融洽

13. (天津河西期末)下列三幅图片反映的信息不包括　(　)



A. 改革开放推动中国部分城市向国际化大都市方向发展
B. 中国主动开放，融入世界经济发展大潮中
C. 社会主义市场经济体制改革取得巨大成就
D. 中国对外开放是逐渐加大步伐，稳步前进

14. (北京宣武质检)中共十四大召开后不久，有外电评论道："这是一次加速和外国接轨的会议。中国必然会进一步影响世界。"此评论主要的依据是十四大(　)
A. 阐明了20世纪90年代中国的外交方针和政策
B. 形成了中国共产党第三代领导集体
C. 把建立社会主义市场经济体制作为改革目标
D. 高度评价了邓小平对改革开放的重大贡献

15. (江苏南通模拟)从下面这幅图反映出的信息中不能得出的结论是　(　)

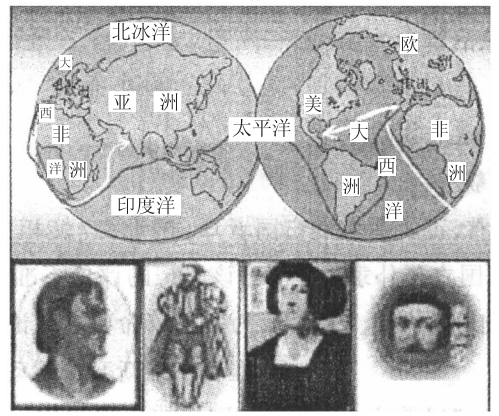

A. 结束了世界各地相对孤立的状态　B. 美洲进入世界大家庭
C. 环球航行已经成为现实　　D. 资本主义世界市场已经形成

16. (天津河西期末)新航路开辟在世界范围内产生的影响是　(　)
①加强了世界各地的经济文化联系
②西方国家开始在各大洲进行殖民掠夺
③刺激了亚洲经济发展
④给广大东方地区带来深重灾难，造成其落后
A. ①②③④　　B. ①②③　　C. ①②④　　D. ②③④

17. (北京宣武质检)17世纪中后期英国打败了荷兰。马克思说，"荷兰衰落的历史，就是一部商业资本从属于工业资本的历史。"对此理解正确的是　(　)
①文中的"工业资本"是指机器大工业确立后的工业资本
②导致荷兰衰落的直接因素是三次英荷战争的失败
③荷兰是一个专营海上转运贸易的商业国，工业基础薄弱
④英国是手工业相对发达的国家，工场手工业是商业贸易的基础
A. ①②③　　B. ②③④　　C. ①②④　　D. ①③④

18. (天津河西期末)第二次工业革命中，将世界各地的经济、政治和文化联系进一步加强的发明是　(　)
A. 电力的广泛应用　　B. 内燃机的炮制和使用
C. 新通讯手段的发明　　D. 化学、钢铁和造船业的发展

19. (杭州质检)2009年5月24日，历史学家霍布斯鲍姆在法国《解放报》上撰文指出："金融危机让人们重新发现社会主义……重回列宁时代或许可以找到挽救自由主义的办法。"下列列宁时代所采取的措施中对克服今天的金融危机仍有启示作用的是　(　)
A. 取消一切商品贸易，实施配给制
B. 国家统一地价，实行计划经济体制
C. 大中企业收归国有，小企业实行国家监督
D. 国家掌握经济命脉，允许中小企业合理发展

20. (海口月考)丘吉尔曾说过："斯大林是一个世上无出其右的最大的独裁者，他接过俄国时，俄国只有木犁，而当他撒手人寰时，俄国已拥有核武器。"苏联之所以能取得如丘吉尔所说的这一重大成就，主要是因为　(　)
A. 充分调动了农民和工人的生产积极性
B. 适时纠正了经济政策中存在的弊端
C. 合理地吸收了西方国家的经济建设经验
D. 开创并实行了高度集中的计划经济体制

21. (上海十三校联考)在1929—1933年经济危机的影响下，美国实施了罗斯福新政。与20世纪五六十年代西欧各国采取的社会经济政策相比较，它们的共同点是　(　)
①政府加强对经济的干预和管理　　②改善了人民生活条件
③进行社会改革，缓和社会矛盾　　④积极推行国有化政策
A. ①②③　　B. ①②③④　　C. ①②④　　D. ①③④

22. (湖南邵阳联考)凯恩斯在1931年曾说："我们可以看一看极端的情形。假设我们大家把收入全部储蓄起来，完全停止花费，毫无疑问，我们每一个人都会失去工作，而且不久我们也不会再有收入以供花费。那时就不会有任何一个人得以增加一便士的财富，最终我们全都得饿死。"凯恩斯在这里提倡　(　)
A. 厉行节俭　　B. 扩大消费　　C. 增加储蓄　　D. 减少浪费

23.(江苏南通模拟)下图反映的社会问题在西方国家普遍存在,为此他们 (　　)



A. 实施马歇尔计划　　B. 发展第三产业
C. 美国的经济实力受到严重阻碍　　D. 资本主义各国经济出现繁荣局面

24.(湖南耒阳联考)2007年发生于美国的"次贷"危机在几个月之内很快波及世界,几乎酿成一场世界性金融危机,连中国也明显地受到影响。这充分说明 (　　)
A. 美国仍然是资本主义世界的经济霸主
B. 美国是世界上唯一的超级大国
C. 经济区域集团化对世界影响在加大
D. 世界经济全球化趋势的不断加强

25.(辽宁锦州期末)"全球化是发达国家用来打开发展中国家市场的'敲门砖',是一种新的殖民主义形式,因此发展中国家应该团结起来,抵制全球化。"下列评述不正确的是 (　　)
A. 阐述了经济全球化的本质,其观点是正确的
B. 反映了经济全球化过程中暴露出的一些问题,但其结论是错误的
C. 折射出国际政治、经济旧秩序的影响
D. 反映了当前一部分国家人民对于经济全球化的态度

第Ⅱ卷(非选择题　共76分)

二、非选择题(本题共4小题,共70分)

26.(16分)(江苏镇江调研)北宋汴京(今河南开封)商品经济空前繁荣,是中国古代商业城市的典型代表。阅读下列材料回答问题。

材料一　"相国寺每月五次开放百姓交易,大三门上皆是飞禽猫犬之类,珍禽奇兽……第二、三门皆动用什物……殿后资圣门前,皆书籍古玩图画及诸路罢任官员土物香药之类。后廊皆日者货术传神之类。"

——(宋)孟元老《东京梦华录》

材料二　"潘楼……茶坊每五更点灯博易,买卖衣服、图画、花环、领抹之类,至晓即散,谓之'鬼市子'。"

"端午节物:百索、艾花、银样鼓儿、花花巧画扇、香糖果子、粽子……""七夕,潘楼前卖乞巧物。……至七夕前三日,车马不通行……"

——(宋)孟元老《东京梦华录》

材料三　乾兴元年(一〇二二年)六月真宗诏令:"在京都商税院并南河北市,告示客旅等。……如有大段行货,须至赊卖与人者,即买主量行货多少,召有家活物力人户三、五人以上,递相委保,写立期限文字交还。"

——《宋会要辑稿·食货三七》

(宋神宗熙宁六年,东京肉行徐中正等提出)"乞出免行役钱,更不以肉供诸处",(官府成立)"详定行户利害条贯所",(实行)"免行法",各行交纳"免行钱""官为雇人代役"。

——李焘《续资治通鉴长编》

宋前期,宋王朝出现一种类似存款收据的证券,正背面都有出票人的印记,有密码花押,票面金额在使用时填写,这就是中国最早的纸币。



北宋纸币铜版拓片

材料四　元祐四年(1089年),御史中丞梁焘就说:"汴口复成……通汇、淮八路商贾大舶,以供京师之饶。"

——《宋史·河渠志》

材料五　"臣窃见……左右侍御之人,宗戚贵臣之家,第宅园圃,服食器用,往往穷天下之珍怪,极一时之鲜明。……以豪华相尚,以俭陋相訾。愈厌而好新,月异而岁殊。"

——《司马光文集》卷二三

"当时(宋代)都市制度上的种种限制已经除掉,居民的生活已经颇为自由、放纵,过着享乐的日子。"

——(日)加藤繁《中国经济史考证》

(1)材料一、二叙述了汴京城的"市场"有哪几种类型?(3分)

(2)依据材料三、四,概括汴京城商品经济繁荣的原因。(6分)

(3)材料五反映出汴京城的贵胄和市民生活出现了怎样的风气?请结合所学知识阐释这种风气对商品经济发展带来的双重影响。(3分)

(4)在以下两题中任选其一进行作答。(4分)
问题一:请对上述史料的性质进行分类。
问题二:有人依据材料一得出"宋代已经出现了资本主义萌芽"的结论,他的论证有何错误?

27.(12分)(上海十三校联考)阅读材料,回答问题。

材料一　下列两幅图片是重庆市游自国先生家族成员的老照片。



穿着改良旗袍的五位婆婆



不再缠足的姑姑

材料二　孙中山先生的生活照



穿着西服的孙中山



穿着中山装的孙中山

(1)材料一中的照片拍摄最早可能出现在什么时期?(4分)

(2)材料一和材料二中的照片反映出人们的生活发生了怎样的变化?(4分)

(3)分析出现这些变化的历史原因。(4分)

28.(18分)(山东泰安检测)阅读下列材料:

材料一　下图是1851年伦敦举办第一届世界工业产品博览会而修建的钢铁玻璃结构的"水晶宫"。在博览会期间,最受参观者瞩目的展品是蒸汽机、水力印刷机、纺织机械等技术型产品。



材料二　1854—1856年间,英国进出口贸易中,三种类型商品所占份额图

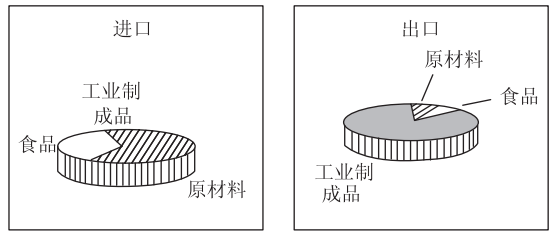

材料三　为了纪念独立100周年,1876年美国在费城举办了世界博览会,在博览会会址建了一个火车站,并建有通往世界各地的有轨电车线,突出交通设施建设成果。1904年在美国圣路易斯举办世博会,向观众介绍了飞机和无线电。

材料四　1851年,伦敦世博会上,上海英商"宝顺洋行"买办徐荣村携自己经营的"荣记湖丝"参加了伦敦世博会,获金银大奖。1904年美国圣路易斯举办的世博会上,中国馆的展品是中国传统的农产品、手工业产品和工艺品,汇聚了各种各样富有中华特色的游艺戏院、一间佛殿、一间茶室、一个东方美食园。

请回答:
(1)材料一、三中,世博会展品的变化说明了什么?(3分)

(2)材料二、四分别反映了什么历史现象?(6分)分析出现材料二中这一现象的原因。(6分)

(3)世界博览会被称为世界经济奥运会,以上材料,反映了怎样的历史发展趋势?(3分)

29.(24分)(广东深圳调研)100多年来,国际货币金融体系不断演变。阅读下列材料,结合所学知识回答问题。

时　期	演　变
1870—1914年间的古典金本位时期	19世纪下半叶,以英镑为中心的国际贸易和投资体系覆盖全球,90%的国际支付以英镑进行
1915—1945年间的前布雷顿森林体系时期	1914年第一次世界大战的爆发,各国纷纷停止了本国货币与黄金的直接兑换,各国货币之间没有一个固定的汇率形成体制,处于各行其是的状态
1945—1973年间的布雷顿森林体系时期	1944年,布雷顿森林体系确立了美元与黄金挂钩,其他成员国货币与美元挂钩的国际货币格局。美元取代英镑成为具有主导地位的货币
1973年以后的后布雷顿森林体系时期	20世纪70年代布雷顿森林体系瓦解之后,各国采用了不同的汇率制度。美元仍然充当着世界主要储备货币的角色
20世纪80年代中后期货币区域化和美元化时期	一种新型单一货币联盟出现,具有透明性、节省信息和交易成本的优势。欧洲货币联盟即属此类

材料来源:钟伟《国际货币体系的百年变迁和远瞻》
(1)19世纪下半叶,英镑之所以在国际货币金融体系中占据主导地位,其有利条件是什么?(6分)

(2)布雷顿森林体系是在怎样的历史背景下形成的?(6分)它的形成对世界经济发展产生了怎样的影响?(6分)

(3)世界货币体系经历了以英镑为中心、以美元为主导以及欧元崛起的演变,这个过程说明了什么?(6分)

天利38套 模块专题

模块二　经济文明发展史(四)

8A

考查范围：古代中国的经济　近现代中国经济结构的变化与资本主义的曲折发展　中国近现代社会生活的变迁　中国特色社会主义建设的道路　新航路的开辟、殖民扩张与资本主义世界市场的形成和发展　苏(俄)联的社会主义建设　罗斯福新政与当代资本主义的新变化　第二次世界大战后世界经济的全球化趋势

本试卷分第Ⅰ卷(选择题)和第Ⅱ卷(非选择题)两部分。满分120分，考试时间90分钟。

第Ⅰ卷(选择题　共50分)

一、选择题(本题共25小题，每小题2分，共50分。在每小题给出的四个选项中，只有一项最符合题目要求)

1. (杭州质检)我国的二十四节气具体有“立春、雨水、惊蛰、春分、清明……冬至、小寒、大寒”等名称。下列关于二十四节气的表述不正确的是　(　)
A. 节气反映四季变化与中国传统农业密切相关
B. 节气体现了国家的“重农抑商”政策
C. 节气影响着中国人的生产与生活
D. 节气体现中国古代天文历法的进步

2. (北京海淀期中)秦汉时期丝织业中心集中于北方，而到了唐宋时期丝织业中心逐渐集中于南方。造成此种格局变化的主要原因是　(　)
A. 自然环境的变化　　B. 王朝都城的东迁
C. 经济重心的南移　　D. 大运河的开通

3. (武汉调研)徽商故里西递村康熙年间建造的“履福堂”有一副楹联：“读书好，营商好，效好便好；创业难，守成难，知难不难。”下列解读不正确的是　(　)
A. 明清时期商品经济进一步发展　　B. “工商为末”的社会观念发生较大转变
C. 传统的“士农工商”社会等级观念瓦解　　D. 徽商争取社会地位的愿望强烈

4. (江苏南通模拟)明清统治者实行“海禁”政策的出发点是　(　)
A. 避免西方经济侵略　　B. 巩固自然经济基础
C. 稳定国内统治秩序　　D. 缓和中外民族矛盾

5. (福建厦门质检)“其目的在于确保土地的平均分配，以避免出现类似于汉朝时期的土地兼并。这项制度根据土地的贫瘠和受地者的需要将土地分配给个人及其家庭。”《新全球史》中提到的这一制度是　(　)
A. 井田制　　B. 地主土地私有制　　C. 均田制　　D. 农民土地私有制

6. (浙江金华期末)1896年，清朝政府下令“多以广开矿产为方今济急要图，当通谕各省将军督抚，体察各省情形，酌度办法具奏”。这一谕令反映出当时清朝政府(　)
A. 思想保守，阻碍了民族工业的发展　　B. 出卖矿产资源，维护列强在华利益
C. 应对时局，放宽对民间设厂的限制　　D. 强化中央集权，加强对地方的控制

7. (江苏泰州联考)观察下图，对图中信息解读不正确的是　(　)



(注：第一时期外国人所办工业为1843—1894年的合计)
中国境内两个历史时期的近代工业资本统计示意图

A. 两类资本都在不断扩大　　B. 两类资本所占比重差距在缩小
C. 外国资本一直占有优势　　D. 民族工业发展缓慢

8. (福建厦门质检)阅读下表，从中可得出的正确结论是　(　)

1920、1936年中国工业发展水平估算　　单位：亿元

年份	工农业总产值	工业总产值			占工业总产值中的%		占工农业总产值中的%	
		近代工业产值	手工业产值	工业总产值	近代工业	手工业	近代工业	手工业
1920	219.03	10.66	43.17	53.83	19.8	80.2	4.9	19.7
1936	306.12	33.19	73.71	106.89	31.0	69.0	10.8	24.1

①南京国民政府统治前期工业有所发展
②抗日战争前夕中国的工业化基本完成
③手工业在近代国民经济中具有重要地位
④列强的侵略中断了中国的工业化进程
A. ①③　　B. ②③　　C. ②④　　D. ①④

9. (浙江金华期末)下列对右图的释读，正确的是　(　)



①近代人们的生活方式发生了变化
②广告的营销方式被运用
③近代革命推动了社会生活的巨变
④刷牙习惯已被城乡百姓普遍接受
A. ①②　　B. ①③
C. ②③　　D. ③④

10. (天津河西期末)随着汽车、火车、轮船在近代中国的出现，“乘客不分男女座，可怜坐下挤非常”这样的竹枝词也开始流行起来。这反映了　(　)
A. 新式交通工具的出现冲击了传统的伦理道德
B. 新式交通工具并没有改善人们的出行状况
C. 人们对新式交通工具的赞同与认可
D. 人们从没有停止过对交通工具改进的追求

11. (合肥质检)1872年，有人作诗云：“见闻历历备于此，读之可惊复可喜。费去十文买一纸，博古通今从此始。”诗中所提的“纸”是　(　)
A. 传单　　B. 信件　　C. 报纸　　D. 书籍

12. (江苏无锡调研)右图是乾隆二十五年政府发给中国商人的海外渡航证明书，其直接动机是　(　)


乾隆二十五年(1760年)发给中国商人的海外渡航证明

A. 保护国人的海外活动
B. 便于对外商统一管理
C. 巩固清朝的专制统治
D. 限制国人的海外活动

13. (北京东城期末)流行语常常代表社会发展的潮流，下列流行语体现了中国20世纪50年代特征的是　(　)
A. 超英赶美　　B. 效率就是生命
C. 摸着石头过河　　D. 造反有理

14. (江苏泰州联考)下图反映了1979年以后我国进出口贸易发展变化，出现这种变化的原因包括　(　)

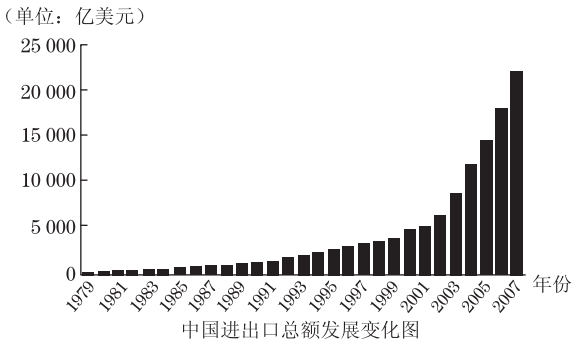

中国进出口总额发展变化图

①十一届三中全会决定以经济建设为中心　②社会主义市场经济体制逐渐建立
③中国加入世界贸易组织　④对外开放格局形成
A. ①②③④　　B. ①②③　　C. ②③④　　D. ①②④

15. (湖南耒阳联考)从18世纪起，欧洲主要国家因为“纺织机器、采矿、炼铁设备及交通工具的改造或发明”，所以“19世纪的人口大量集中到城市”该论述在“因为”到“所以”之间缺少的必要条件是　(　)
A. 自由主义思潮兴起　　B. 马克思阶级斗争理论的影响
C. 新型工厂制度产生　　D. 传统精密制造业吸引投资意愿

16. (山东潍坊抽样)有人说，是哥伦布给美洲带来了今天的繁荣，而委内瑞拉总统查韦斯却说，哥伦布是人类历史上最大的侵略与种族灭绝的先锋。上述评价的差异反映了价值判断的　(　)
A. 客观性　　B. 随意性　　C. 相对性　　D. 时代性

17. (北京宣武质检)英国工业革命后，大量的棉纺厂在城市中得以兴建，其关键因素是　(　)
A. 城市拥有众多的劳动力　　B. 交通工具有了重大突破
C. 城市居民市场潜力大　　D. 改良蒸汽机的投入使用

18. (天津河西期末)第一次工业革命使工业生产出现了革命性的变化，确切地说是指　(　)
A. 珍妮纺纱机的发明　　B. 蒸汽机的发明
C. 交通运输进入以蒸汽为动力的新时代　　D. 机器生产取代了手工劳动

19. (北京崇文期末)影响右图曲线变化的因素有　(　)

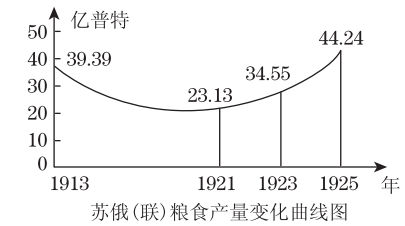

苏俄(联)粮食产量变化曲线图

①第一次世界大战
②战时共产主义政策
③新经济政策
④斯大林经济体制
A. ①②③　　B. ①②④
C. ①③④　　D. ①②③④

20. (江苏泰州期末)有学者提出：“从一定意义上说，赫鲁晓夫是斯大林模式的掘墓人，但最终还是扮演了守墓人的角色。”主要是指赫鲁晓夫　(　)
A. 揭露了斯大林的个人崇拜，但不够实事求是
B. 改革缺乏正确指导思想
C. 改革冲击了斯大林模式，但仍未从根本上摆脱斯大林模式的束缚
D. 坚持斯大林模式，不愿进行改革

21. (天津河西期末)美国著名记者约翰逊曾写道：“他推翻的先例比任何人都多，他砸烂的古老结构比任何人都多，他对美国整个面貌的改变比任何人都要迅猛而激烈。然而正是他最深切地相信，美国这座建筑物从整个来说，是相当美好的。”对以上评述理解不正确的是　(　)
A. 罗斯福改变了资本主义的自由放任政策
B. 罗斯福使美国率先进入国家垄断资本主义阶段
C. 罗斯福新政使美国政治制度发生了本质变化
D. 罗斯福新政的实质是资本主义制度的自我完善

22. (杭州质检)在历史学习中，我们经常会碰到“历史现象”与“历史结论”的区别问题。“历史结论”是在对历史现象的理性认识和基本判断基础上形成的结论。下列属于历史结论的是　(　)
A. 在1932年的总统选举中，胡佛在四面楚歌中下台
B. 罗斯福新政开创国家干预经济新模式，对资本主义发展产生深远影响
C. 克林顿上台后实施了“宏观调控、微观自主”的经济政策
D. 为实现工业化，苏联人民以饱满的热情投身于国家建设当中

23. (福建厦门质检)2009年9月，美国宣布对从中国进口的轮胎加征特别关税。就此事件，厦门某中学展开《美国——开历史倒车》的研究性学习。能论证该课题的最有效材料是　(　)
A.《北美自由贸易协定》
B.《关税与贸易总协定临时适用协定书》
C.《国际货币基金协定》
D.《国际复兴开发银行(世界银行)协定》

24. (哈尔滨期末)以美国雷曼兄弟倒闭为标志，美国由于次贷危机引发的金融动荡又向更高层级发展，而这场由美国华尔街延展开来的金融风暴已经影响了全世界的经济发展。这表明　(　)
①当今世界是开放的世界，各国的经济联系日益紧密
②经济全球化使得一个国家的经济波动可能殃及他国，甚至影响全世界
③政府要干预经济，限制资本流动
④经济全球化加剧全球经济的不稳定性，要严加抵制经济全球化
A. ①　　B. ①②　　C. ①②③　　D. ①②③④

25. (湖南邵阳联考)亚太经合组织、北美自由贸易区、欧盟等区域经济集团　(　)
①是经济全球化的现实表现　　②推动了国家间经济技术的合作
③有利于世界向多极化方向发展　　④都属于政治经济一体化组织
A. ①②③　　B. ①③④　　C. ②③④　　D. ①②③④

需要全本请访问 www.ertongbook.com