书　　名　大练兵·中考白皮书
——2007 年中考地理全真模拟试题
作　　者　《大练兵》编委会
出版发行　青岛出版社
社　　址　青岛市徐州路 77 号（266071）
本社网址　http：//www.qdpub.com
邮购电话　13335059110　（0532）85814750（兼传真）　80998664
责任编辑　李忠东　　电话　（0532）85816241
责任校对　张性阳
照　　排　青岛达德印刷有限公司
印　　刷
出版日期　2007 年 3 月第 1 版　2007 年 3 月第 1 次印刷
开　　本　8 开（787mm×1092mm）
印　　张　8
字　　数　130 千
书　　号　ISBN 978-7-5436-4140-2
定　　价　9.80 元
编校质量、盗版监督电话　（0532）80998671
青岛版图书售出后如发现印装质量问题，请寄回青岛出版社印刷物资处调换。
电话　（0532）80998826

# 目　录

2007 年中考全真模拟试题（A 卷）

地理试题 …… [1]

2007 年中考全真模拟试题（B 卷）

地理试题 …… [15]

2007 年中考全真模拟试题（C 卷）

地理试题 …… [29]

2007 年中考全真模拟试题（D 卷）

地理试题 …… [43]

2007 年中考全真模拟试题（E 卷）

地理试题 …… [57]

2007 年中考全真模拟试题（F 卷）

地理试题 …… [71]

2007 年中考全真模拟试题（G 卷）

地理试题 …… [85]

2006 年青岛市初级中学学业水平统一考试

地理试题 …… [99]

参考答案 …… [113]

# 2007 年中考全真模拟试题（A 卷）

# 地 理 试 题

## 友情提示：

嘿！亲爱的同学，你好！经过两年的学习，相信你一定具备了相当强的地理学习水平和能力。展示自己的时候到了，只要你仔细审题、冷静思考、沉着应答，肯定会有出色的表现。相信自己，你会成功！

**来，做一个深呼吸，开始吧。加油啊！**

1. 本试题分第Ⅰ卷和第Ⅱ卷两部分。第Ⅰ卷 6 页为选择题 40 分；第Ⅱ卷 8 页为综合题 60 分，共 100 分。考试时间为 90 分钟。
2. 答第Ⅰ卷前务必将自己的姓名、考号、考试科目涂写在答题卡上。考试结束，试题和答题卡一并收回。
3. 第Ⅰ卷每题选出答案后，都必须用 2B 铅笔把答题卡上对应题目的答案标号（ABCD）涂黑，如需改动，必须先用橡皮擦干净，再改涂其他答案。

## 第Ⅰ卷（选择题　共 40 分）

一、单项选择题（下列各题的四个选项中，只有一个是符合题意要求的；每题 1 分，共 40 分）

据报道：当地时间 2003 年 5 月 21 日晚 7 时 45 分，阿尔及利亚首都阿尔及尔突发地震。这已是近 50 年来的第六次强烈地震了。结合图 1 完成 1—4 题。

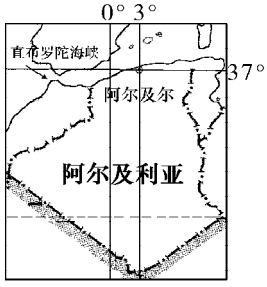


图 1

1. 本次地震中心——阿尔及尔位于

A. 37°S，3°W　　B. 37°S，3°E

C. 37°N，3°E　　D. 37°N，3°W

2. 采用东一区区时的阿尔及尔发生地震时，北京时间为

A. 21 日 12 时 45 分　　B. 22 日凌晨 2 时 45 分



此为试读，需要完整PDF请访问：www.ertongbook.com

C. 22 日 12 时 45 分　　D. 21 日凌晨 2 时 45 分

3. 该地地震多发是因为

A. 位于沿海地区　　B. 位于环太平洋沿岸地带

C. 位于沙漠边缘　　D. 位于地中海—喜马拉雅山脉地带

4. 再过两个月，该地的气候特征可能是

A. 炎热干燥　　B. 温和多雨

C. 温和干燥　　D. 高温多雨

5. 苗苗想去青岛市博物馆参观，不知如何乘车，应选择

A. 山东省政区图　　B. 青岛城市交通图

C. 中国政区图　　D. 青岛地形图

6. 一艘货轮从上海驶往汉堡，依次经过的海峡为

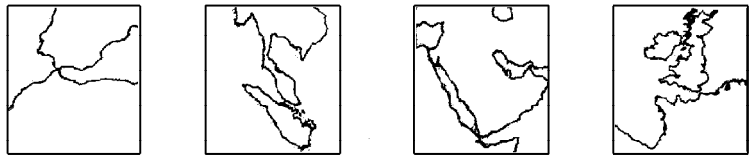

①　　②　　③　　④

图 2

A. ①②③④　　B. ②③①④　　C. ③②①④　　D. ④②③①

7. 埃及的主要经济支柱有

A. 苏伊士运河的收入、粮食出口　　B. 信息产业、石油加工

C. 长绒棉出口、造纸业　　D. 旅游、侨汇

8. 小明的爸爸从东南亚采购了一船货物回国，入关时报货单上的货物名称可能是

A. 棕油、锡矿砂　　B. 棉布、服装

C. 椰枣、铁矿石　　D. 羊毛、小麦

9. 四大文明发源地不在亚洲的是

A. 两河流域　　B. 尼罗河流域

C. 黄河—长江中下游流域　　D. 印度河流域

10. 下列有关“世界之最”的叙述，正确的是

A. 最长的河流——密西西比河　　B. 最高的高原——巴西高原

C. 最大的湖泊——苏必利尔湖　　D. 最长的山系——科迪勒拉山系

11. 下列属于地广人稀的国家的是

A. 日本、印度　　B. 美国、德国

C. 俄罗斯、澳大利亚　　D. 中国、埃及

12. 下列关于巴西的叙述，正确的是

A. 人口主要分布在亚马孙平原　　B. 拥有世界上面积最大的热带雨林区

C. 首都为里约热内卢　　D. 赤道穿过大陆南部

13. 下列属于我国内海的是

A. 渤海、黄海　　B. 黄海、东海

C. 南海、东海　　D. 渤海、琼州海峡

14. 分布在我国第二级阶梯上的主要地形类型是

A. 山地、丘陵　　B. 高原、盆地　　C. 平原、丘陵　　D. 盆地、山地

15. 青藏高原比同纬度东部地区气温低的原因是

A. 深居内陆　　B. 气压高

C. 海拔高　　D. 太阳辐射强度小

16. 下列地区中，雨季最长的是

A. 珠江三角洲　　B. 黄河三角洲

C. 长江三角洲　　D. 辽河平原

17. 下列四地冬夏温差最小的是

A. 青岛　　B. 呼和浩特　　C. 哈尔滨　　D. 广州

18. 我国最大的湖泊是

A. 鄱阳湖　　B. 青海湖　　C. 洞庭湖　　D. 太湖

读图 3，完成 19—20 题。

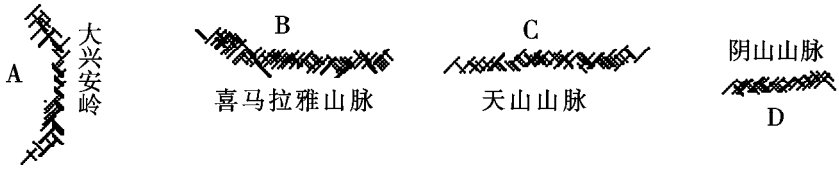


图 3

19. 图中字母所在的地形区代表盆地的是

A. A　　B. B　　C. C　　D. D

20. 图中四列山脉中，属于我国地势第二、三级阶梯分界的是

A. A　　B. B　　C. C　　D. D

读图 4，完成 21—22 题。

21. 图中反映的现象位于

A. 山东　　B. 河南

C. 陕西　　D. 山西

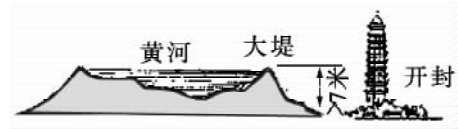


图 4

22. 治理图中现象的根本措施是

A. 源头建自然保护区　　B. 上、中游修建水利工程

C. 中游加强水土保持　　D. 下游加固两岸大堤

23. 为迎接 2008 年奥运会，北京提出“建设森林城市”计划，其主要作用是

A. 防风固沙　　B. 保持水土

C. 提供木材　　D. 调节气候

24. 青岛市急需从广州购进一批红外线体温检测仪，恰当的运输方式为

A. 铁路运输　　B. 公路运输

C. 航空运输　　D. 水路运输

近 20 多年来，我国经济发展速度高居世界前列，但是各地发展速度有所不同，尤其是东部与西部的经济差距逐渐扩大，国家为此实施了西部开发战略。据此完成 25—26 题。

25. 制约西部经济发展的主要因素是

A. 资金、技术不足　　B. 水源不足

C. 能源短缺　　D. 劳动力缺乏

26. 为了改善西部交通条件，我国建设的重点工程是

A. 西气东输　　B. 青藏铁路

C. 西电东送　　D. 南水北调

27. 优良畜种三河马、三河牛主要产于我国

A. 新疆牧区　　B. 青海牧区

C. 西藏牧区　　D. 内蒙古牧区

28. 下列关于我国宝岛台湾的叙述，不正确的是

A. 樟脑的产量居世界首位

B. 热带、亚热带水果四季不断

C. 周围大陆架分布有丰富的油气资源

D. 东海岸沙滩广布，是我国重要海盐产区

读图 5——“我国四个省区图”，完成 29—31 题。

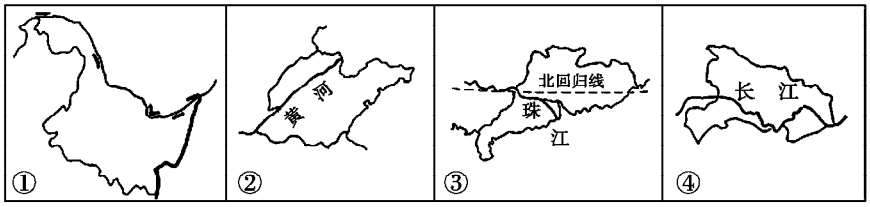


图 5

29. 有两个我国地理位置“端点”的省级行政区是

A. ①　　B. ②　　C. ③　　D. ④

30. 在③省广泛分布的农作物是

A. 冬小麦　　B. 油菜　　C. 棉花　　D. 甘蔗

31. 下列与②省相邻的省份是

A. 安徽、江苏　　B. 湖北、河南　　C. 北京、天津　　D. 河北、山西

读图 6——“某地区简图”，完成 32—34 题。

32. D 城市气候类型属于

A. 亚热带湿润气候

B. 热带沙漠气候

C. 热带草原气候

D. 地中海气候

33. 图中 A 表示的大洋是

A. 太平洋　　B. 大西洋

C. 印度洋　　D. 北冰洋

34. D 城市所在国储量居世界首位的矿产资源是

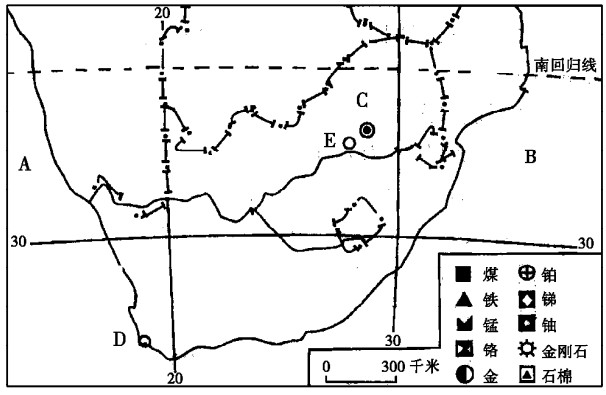


图 6



此为试读，需要完整PDF请访问：www.ertongbook.com

A. 黄金　　B. 铜　　C. 金刚石　　D. 煤

读图 7——“我国珠江三角洲区域简图”，完成 35—36 小题。

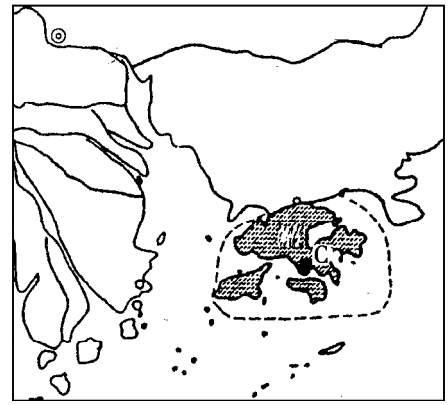


图 7

35. 本区所临的海洋是

A. 黄海　　B. 北海

C. 珠海　　D. 南海

36. 下列对图中河流的叙述，错误的是

A. 河流冬季凌汛现象主要出现在下游

B. 河流汛期较长

C. 河流主要流经湿润地区

D. 河流流经广东省省会广州

秦岭与淮河是我国东部重要的地理界线，在它的南北两侧，自然环境、地理景观和居民的生产生活习惯有显著的差异。读以上材料，完成 37—39 题。

37. 秦岭—淮河没有经过的省区是

A. 陕西　　B. 甘肃　　C. 山西　　D. 河南

38. 下列关于秦岭—淮河一线的叙述，错误的是

A. 接近 400mm 年等降水量线

B. 旱地与水田的分界

C. 北方与南方的分界

D. 与 1 月份 0　等温线差不多一致

39. 下列经济林木中，属于此线以南的是

A. 葡萄　　B. 苹果　　C. 柑橘　　D. 桃子

40. 图 8 四幅景观图中属于非洲热带草原气候区的是：

A　　B　　C　　D

图 8

# 2007 年中考全真模拟试题（A 卷）

# 地 理 试 题

| 座号 | |
|---|---|

## 第Ⅱ卷（综合题　共 60 分）

**友情提示：仔细审题，沉着应答，相信你会成功！**

1. 第Ⅱ卷 8 页，用钢笔或圆珠笔直接答在试卷上。
2. 答卷前将座号和密封线内的项目填写清楚。

| 题号 | 41 | 42 | 43 | 44 | 45 | 46 | 47 | 48 | 49 | 总 分 |
|---|---|---|---|---|---|---|---|---|---|---|
| 得分 | | | | | | | | | | |

**二、综合题**

| 得 分 | |
|---|---|
| 阅卷人 | |

41. 画一画，算一算。（4 分）

⑴ 已知居民区在商业区的正东方，请画出该图的指向标 [　　] 。

⑵ 在商业区的东南方有一个工业区，请你在图中画出。

⑶ 有一条小河流经工业区，并且自北向南流，请你在图中画出。

⑷ 假如该图的比例尺为 1∶200000，那么商业区与居民区最短的距离为_____千米。

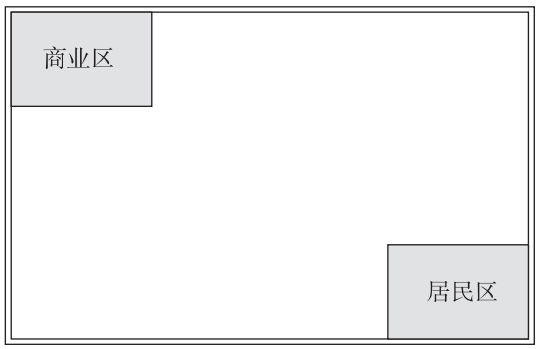

| 得 分 | |
|---|---|
| 阅卷人 | |

42. 读下图，完成相关问题。（5 分）

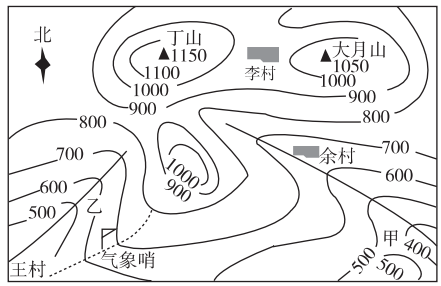


(1) 三个村当中，海拔最高的是_____。

(2) 王村与大月山的相对高度是_____米。

(3) 甲、乙两地相比较，坡度较陡的是_____点，判断的依据是_____

_____。

(4) 若某日气象哨的气温为 12 ，那么丁山的气温应是_____ 。

| 得 分 | |
|---|---|
| 阅卷人 | |

43. 读下图，完成相关问题。（6 分）

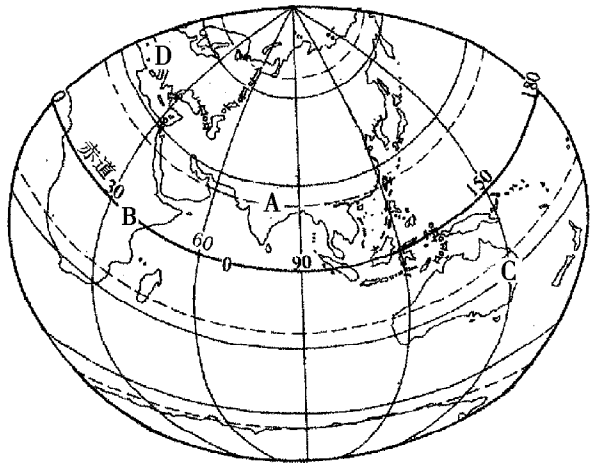


(1) 图中所示区域主要位于_____（东、西）半球，120°E 经线穿过的大陆有_____

_____。

(2) 在图中相应位置注出太平洋名称。

(3) 下列对 A、B、C、D 四地的描述，可信的是（　　）。

①A 地有许多古老的动物，像袋鼠、鸸鹋以及鸭嘴兽，还有世界最著名的珊瑚礁……

②B 地生活着许多野生动物，羚羊在奔跑，成群的斑马向水草地迁移……

③C 地晴空下，沙丘连连，绵延万里；夜晚，气温骤降，风沙袭人……

④D 地是一片茫茫的林海雪原，人们坐着雪橇和驯鹿一起赛跑……

| 得 分 | |
|---|---|
| 阅卷人 | |

44. 读长江流域部分地区示意图，完成下列问题。（10 分）

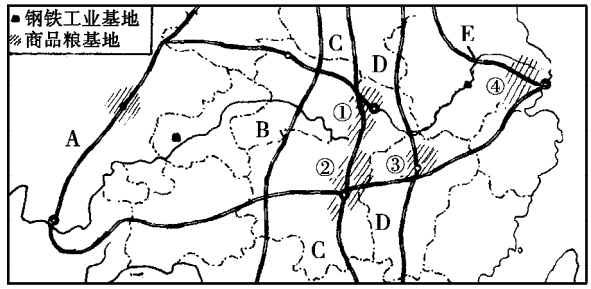


(1) 图中与长江干流相交的铁路干线，自西向东依次是：A. _____线，B. _____线，C. 京广线，D. _____线，E. 京沪线。

(2) 图中长江沿岸的大型钢铁工业基地，自东向西依次为：上海、马鞍山、_____和攀枝花。

(3) 图中数码①、②、③表示的是商品粮基地，其中①表示的是_____，②是洞庭湖平原，③是_____。

(4) 请将下文中几处有错误的地方用括号表示出来。（提示：有 4 处错误）

长江经济带气候温暖湿润，是我国稻米、小麦、棉花、油菜子、桑蚕、茶叶、苹果和淡水鱼的主要产区，也是我国多种农产品的重要商品性生产基地。长江经济带工业发达，人口众多，煤、铁、石油等矿产和能源资源丰富；水运条件优越，是一个由沿海深入内地的综合经济带。

| 得 分 | |
|---|---|
| 阅卷人 | |

45. 海洋，是多么浩瀚而又美丽，博大而又神秘，它向人类无私地奉献着自己。请根据下面这幅图，说说海洋给人类带来的好处。（4 分）

(1) _____；

(2) _____；

(3) _____；



此为试读，需要完整PDF请访问：www.ertongbook.com

(4) _____。



| 得 分 | |
|---|---|
| 阅卷人 | |

46. 读“某地区示意图”和“沿 78°E 线地形剖面图”,完成下列问题。(10 分)

某地区示意图

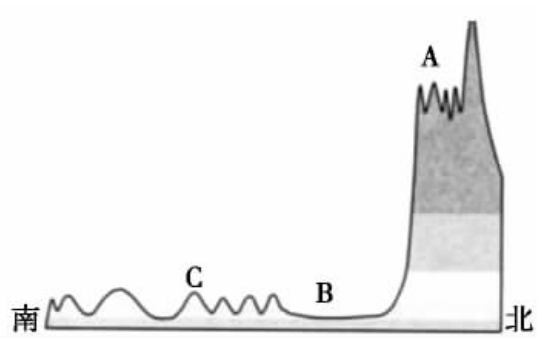


沿 78°E 线地形剖面图

(1) 由图可以判断此地区是_____地区。

(2) 此地区最大的半岛名称是_____半岛。请观察该地区示意图,用一句话描述此半岛的地势特点_____,判断依据是_____。

(3) 从该地区的地形剖面图看,该地区分三大地形区,请写出其地形区名称:

A 是_____山脉,B 是_____平原,C 是_____高原;其中 A 山脉因为海拔高,阻挡了北部冷空气的南下,使该地区比同纬度其他地区的气温表现出的特点是_____,具有_____(温度带)的特征。

(4) A 山脉北侧的国家是_____。

| 得 分 | |
|---|---|
| 阅卷人 | |

47. 根据下面提供的文字信息，请你利用已经学过的地理原理，用适当的文字，按因果关系将它们连接起来。（2 分）

地轴倾斜　地球公转　昼夜长短　四季　太阳光热

要求：所连接的文段中必须涵盖上面列出的全部词语；必须准确、完整地表达地理原理。

| 得 分 | |
|---|---|
| 阅卷人 | |

48. 读下图，完成相关问题。（10 分）

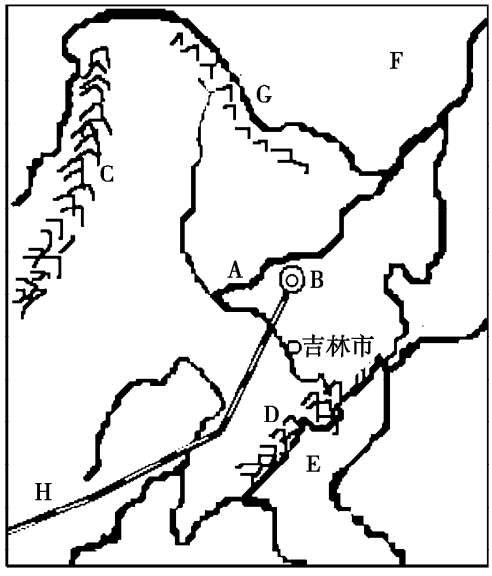


（1）图中山脉 C 为_____，D 为_____，两列山脉之间为我国最大的平原_____平原。此处种植的农作物自然条件下一年_____熟，粮食作物主要为_____。

（2）图中 A 河为_____，2005 年 11 月 13 日吉林中石油吉化公司双苯厂车间发生爆炸，大量污染物流入该河，导致 B 城市_____停水多日。

（3）北京市有大量物资支援清理污染，通过 H 铁路_____线运达。

⑷ 请在图上圈出我国陆地最东端。

⑸ 假如你是 H 市的一位居民，家庭当中该如何应对一周的缺水状况？

| 得 分 | |
|---|---|
| 阅卷人 | |

49. 按照下列程序和要求，完成活动探究。（9 分）

我国疆域辽阔，自然与人文景观异彩纷呈而又迥然不同。某市地理兴趣小组的同学们准备对我国区域的划分进行探究。

探究课题：

学习区域的划分。

探究准备：

⑴ 区域的划分应依据一定的指标。总体来说，区内主要指标有明显的一致性，区域间有显著的差异性。⑵ 部分资料（见下图）。

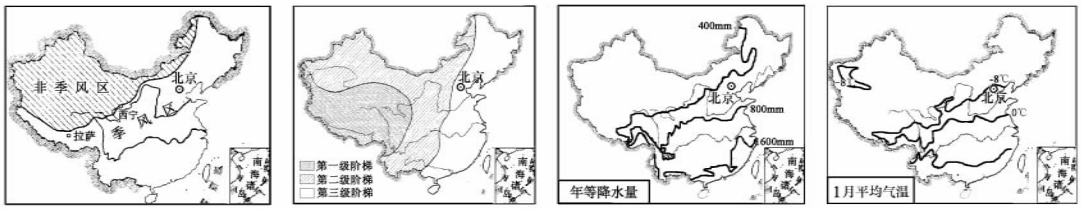


我国几条重要地理界线图

探究一：

我国四大地理区域的划分。

探究过程：

⑴ 在下图中相应位置，写出我国四大地理区域名称。

⑵ 请参照提示，完成探究。

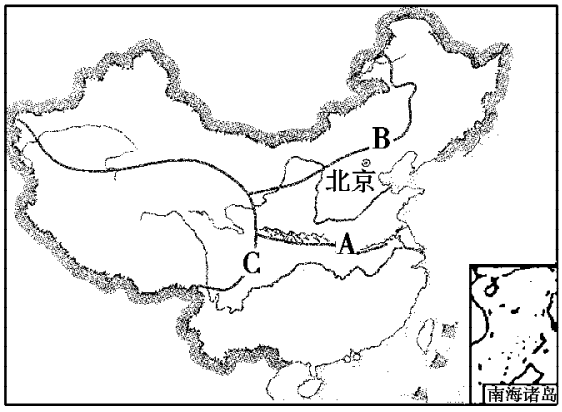


[提示]

观察界线 A 的分布：它与 1 月 0 等温线和 800mm 年等降水量线的分布最接近（与秦岭—淮河一线大体一致）。界线两侧的区域差异表现在气温和降水方面。

| | |
|---|---|
| 观察界线 B 的分布：_____ | 观察界线 C 的分布：_____ |
| 拓展：四大地理区域的划分是综合因素影响的结果。 | |

探究二：

为了进一步认识我国四大地理区域间的差异，请你以我国南方地区和北方地区为例，任选一课题进行对比分析。

选题 1：自然地理特征对比分析（提示：主要地形、年降水量、1 月平均气温等方面）。

选题 2：人文地理特征对比分析（提示：农田类型、传统运输方式、民居特色等方面）。

探究结论：

# 2007 年中考全真模拟试题（B 卷）

# 地 理 试 题

## 友情提示：

嘿！亲爱的同学，你好！经过两年的学习，相信你一定具备了相当强的地理学习水平和能力。展示自己的时候到了，只要你仔细审题、冷静思考、沉着应答，肯定会有出色的表现。相信自己，你会成功！

**来，做一个深呼吸，开始吧。加油啊！**

1. 本试题分第Ⅰ卷和第Ⅱ卷两部分。第Ⅰ卷 6 页为选择题 40 分；第Ⅱ卷 8 页为综合题 60 分，共 100 分。考试时间为 90 分钟。
2. 答第Ⅰ卷前务必将自己的姓名、考号、考试科目涂写在答题卡上。考试结束，试题和答题卡一并收回。
3. 第Ⅰ卷每题选出答案后，都必须用 2B 铅笔把答题卡上对应题目的答案标号（ABCD）涂黑，如需改动，必须先用橡皮擦干净，再改涂其他答案。

## 第Ⅰ卷（选择题　共 40 分）

**一、单项选择题（下列各题的四个选项中，只有一个是符合题意要求的；每题 1 分，共 40 分）**

读图 1，完成 1—2 题。

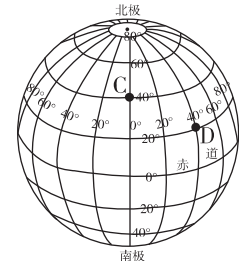


图 1

1. D 点的经纬度位置是

   A. 20°N，40°E　　B. 40°N，20°E

   C. 20°S，40°W　　D. 40°N，20°W

2. 下列有关 C 点的叙述，正确的是

   A. 在西半球上　　B. 在南半球上

   C. 在中纬度带　　D. 在热带

3. 图 2 是某村的平面图。一辆汽车沿箭头的方向前进，其运动方向是：

   A. 向正东方向

   B. 向正北方向

   C. 向东南方向

   D. 向东北方向

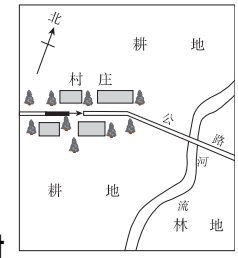


图 2

4. 图 3 四幅图中能正确反映地球表面海陆（海洋▒，陆地□）面积对



此为试读，需要完整PDF请访问：www.ertongbook.com