1

2006 年天津市
初中毕业生学业考试政治试卷(课改实验区)(开　卷)

第 I 卷　(选择题　共两大题　共 36 分)

一、单项选择题　(本大题共 14 小题，每小题 2 分，共 28 分)　下列每小题给出的四个选项中，只有一个最符合题意，请将其序号涂在答题卡上。

1. 2005 年 10 月 8 日至 11 日，中国共产党第十六届中央委员会第五次全体会议在北京举行。全会审议通过了　(　)
   A.《中共中央关于国有企业改革和发展若干重大问题的决定》
   B.《中共中央关于制定国民经济和社会发展第十一个五年规划的建议》
   C.《中共中央关于加强党的执政能力建设的决定》
   D.《中共中央关于加强和改进党的作风建设的决定》
2. 2005 年 10 月 12 日，我国自主研制的_____载人飞船发射成功，标志着我国在探索太空的征程中取得了重大进展。
   A.“神舟”一号　　B.“神舟”二号
   C.“神舟”三号　　D.“神舟”六号
3. 2008 年北京奥运会的主题口号是　(　)
   A. 欢迎回家　　B. 同一个世界　同一个梦想
   C. 点燃心中之火　　D. 分享奥林匹克精神
4. 在我国，有一部法律既是环境保护领域的基本法律，又是制定专门性环保单行法规的基本依据。这部法律是　(　)
   A.《中华人民共和国水污染防治法》　　B.《中华人民共和国节约能源法》
   C.《中华人民共和国土地管理法》　　D.《中华人民共和国环境保护法》
5. 犯罪分子应受刑罚处罚。根据刑法的规定，我国刑罚的两大种类是　(　)
   A. 管制和拘役　　B. 主刑和附加刑
   C. 罚金和没收财产　　D. 有期徒刑和无期徒刑
6. 某杂志社以营利为目的，在未经小王本人同意的情况下，擅自将她的照片印在了杂志的封面上，该杂志社侵犯了小王的　(　)
   A. 姓名权　　B. 隐私权
   C. 肖像权　　D. 荣誉权
7. 小军今年 14 岁，没有读到初中毕业，就中途辍学，他没有履行　(　)
   A. 接受规定年限的义务教育的义务　　B. 按时入学的义务
   C. 尊敬师长的义务　　D. 遵守社会秩序的义务
8. 行政诉讼是人民法院为解决行政纠纷，审理行政案件的活动，俗称“民告官”。在我国，规定行政诉讼程序的法律是　(　)
   A.《中华人民共和国国家安全法》　　B.《中华人民共和国行政诉讼法》
   C.《中华人民共和国刑事诉讼法》　　D.《中华人民共和国民事诉讼法》
9. 在我国，任何组织和个人都要在宪法和法律的范围内活动。任何人，不论其职位多高、功劳多大，都不能有超越宪法和法律的特权。这说明了我国公民权利的　(　)
   A. 真实性　　B. 平等性
   C. 广泛性　　D. 整体性
10. 从 18 世纪中叶开始，世界先后爆发了三次科学技术革命，社会生产力得到迅速发展。其中第一次科技革命的标志是　(　)
    A. 电力的广泛应用
    B. 蒸汽机的发明和使用
    C. 电子计算机、原子能的发明与应用
    D. 空间科学技术的发明与应用
11. 在资本主义企业里，资本家剥削工人的秘密是　(　)
    A. 增强工人的劳动强度　　B. 提高工人的工作定额
    C. 延长工人的劳动时间　　D. 无偿占有工人所创造的剩余价值
12. 目前，世界上可被人类利用的 150 多种矿产中，我国已初步探明储量的就有 137 种，许多矿产储量位居世界前列，但各类主要自然资源的人均占有量，大都低于世界平均水平。这一事实表明我国　(　)
    A. 自然资源浪费严重　　B. 环境形势严峻
    C. 自然资源既有优势又有劣势　　D. 自然资源分布不平衡
13. 我国的根本政治制度是　(　)
    A. 社会主义制度　　B. 政治协商制度
    C. 人民代表大会制度　　D. 民族区域自治制度
14. 在当代，世界还很不安宁，人类面临着许多严峻挑战，很多问题都没有解决，面对这些问题，当今时代的主题是　(　)
    A. 和平与发展　　B. 和平与公正
    C. 竞争与合作　　D. 竞争与对抗

二、不定项选择题　(本大题共 4 小题，每小题 2 分，共 8 分)　下列每小题的四个选项中，至少有一个是最符合题意的，请将其序号涂在答题卡上，多选、错选、漏选，该小题无分。)

15. 我们既要坚持依法治国，又要坚持以德治国，把依法治国和以德治国结合起来，这是因为　(　)
    A. 我国法律和社会主义道德互相配合，互相促进，互相补充
    B. 凡是社会主义道德所谴责的，都是我国法律所制裁的
    C. 我国法律和社会主义道德的目的和任务相同，具有同样的作用
    D. 把依法治国和以德治国结合起来，有利于国家的长治久安
16. “三个代表”重要思想是中国共产党的立党之本、执政之基、力量之源，也是中国共产党先进性的集中体现。“三个代表”重要思想是中国共产党必须长期坚持的指导思想。“三个代表”是指中国共产党始终代表　(　)
    A. 中国先进生产力的发展要求
    B. 中国先进文化的前进方向
    C. 中国最广大人民的根本利益
    D. 中国现代化前进的步伐
17. 我国现在处于并将长期处于社会主义初级阶段，这是当代中国最基本的国情。贯穿我国社会主义初级阶段的整个过程和社会生活的各个方面的主要矛盾是　(　)
    A. 经济发展与人口众多的矛盾
    B. 经济建设与环境污染的矛盾
    C. 人民日益增长的物质文化需要同落后的社会生产之间的矛盾
    D. 人民日益增长的物质资源需要同快速的发展状况之间的矛盾
18. 中国特色社会主义的文化，渊源于中华民族五千多年文明史，又植根于中国特色社会主义的实践，它具有鲜明的　(　)
    A. 民族性　　B. 地域性
    C. 时代感　　D. 自豪感

第 II 卷　(非选择题　共三大题　共 64 分)

19. (4 分)
《中共中央国务院关于推进社会主义新农村建设的若干意见》是指导社会主义新农村建设的纲领性文件。
“生产发展”是社会主义新农村的内涵之一，请写出社会主义新农村的其他几个内涵。

20. (6 分)
年仅 17 岁的中学生李某结识了一些社会上的不良分子并多次参与赌博，欠下赌债五百多元。为了偿还赌债，他多次手持三棱刮刀，强抢 9 名小学生的财物，得赃款四百多元。李某被公安机关抓获，最后人民法院认定李某犯了抢劫罪，依据刑法判处其有期徒刑 5 年。
(1) 李某的行为属于哪种违法行为？违法行为还有哪些种类？(4 分)

(2) 请你谈谈对上述案例的认识。(2 分)

21. (6 分)
没有无义务的权利，也没有无权利的义务。
我国公民权利和义务的一致性主要表现在哪几个方面？

22. (6 分)
推进天津滨海新区开发开放，被写进《中华人民共和国国民经济和社会发展第十一个五年规划纲要》。十多年来，天津滨海新区生产总值由当时的 112.3 亿元增加到 1500 亿元，增长了 12.3 倍，年均增长 20% 以上，显示出强劲的发展势头。
请结合所学知识和上述材料，至少从三个方面说明天津滨海新区取得成就的原因。

需要全本请访问 www.ertongbook.com

23. （8 分）

目前，天津市获得“国家环境保护模范城市”称号。在经济快速发展的同时，天津市政府加强城市环境综合治理，实施蓝天、碧水等环保工程，下力量解决了污染环境的突出问题，使得环境质量有了明显的提高，投资环境有了进一步改善，城市面貌发生了明显变化。

（1）以上材料说明了什么？（6 分）

（2）作为“国家环境保护模范城市”的一名中学生，你打算为家乡的环境保护做哪些事情？（2 分）

四、分析说明题（共 24 分）

24. （12 分）

初中生小刚收到一份某印刷厂寄来的征订单和宣传资料，他发现这些宣传资料是介绍犯罪手法和宣传淫秽的不健康读物，属于非法出版物，就把它们交给了老师。他担心其他同学也可能收到这种资料，如果同学订购就会受毒害，于是，向当地的新闻出版局和公安机关写信举报。结果这家印刷厂受到了应有的法律制裁。

（1）该印刷厂向初中生小刚邮寄不健康读物的做法违反了哪部法律？（2 分）

（2）为什么国家要制定上述这部法律？（6 分）

（3）谈谈小刚的做法带给你哪些启示。（4 分）

25. （12 分）

2005 年度国家最高科学技术奖的获得者是叶笃正和吴孟超。

叶笃正，中国科学院院士。他曾经留学美国，一位美国科学家问他当年为什么选择回国，他简洁而又坚定地答道：“因为我是个中国人，我得回去给中国做事。新中国成立了，中国有了希望，我一定要回去。”

吴孟超，中国科学院院士。他在肝胆外科中，创造了很多个中国第一和世界第一。他创立了肝脏外科的关键理论和技术体系，开辟了肝癌基础研究的新领域……

（1）叶笃正院士的话体现了什么精神？（2 分）

（2）结合吴孟超院士创造的多个“第一”，谈谈你对创新的认识。（6 分）

（3）结合两位院士的事迹，谈谈作为祖国未来的建设者，我们应该如何做。（4 分）

五、探究与实践（共 10 分）

26. （10 分）

胡锦涛总书记指出，要教育广大干部群众特别是广大青少年树立社会主义荣辱观。某学校要围绕“八荣八耻”开展专题教育活动。小明是校园电视台的小记者，为配合学校的专题教育活动，他抓拍了以下“校园镜头”，想以此为素材编制一个专题短片，以引起大家对某些校园日常生活现象的思考。

校园镜头 1　课间休息后，一位靠窗而坐的同学将废弃的纸屑随手抛出窗外。

校园镜头 2　午餐后，一些尚未吃完的馒头、汉堡包、盒饭……被扔进了垃圾箱。

（1）请你结合上述内容，帮助小明给这个专题短片写一个主题。（2 分）

（2）请你以编写“校园镜头”画外音的形式，发表自己的想法。（6 分）

校园镜头 1：（画外音）

校园镜头 2：（画外音）

（3）小明想再搜集一些积极健康的“校园镜头”，请你为他提供一个素材。（2 分）

（回答问题时，请不要出现真实的校名、人名）

2

黑龙江省2006年八市（地）初中毕业学业考试（课改实验区）

政 治 试 卷

一、单项选择题（下列各题的四个选项中，有一个是最符合题意的，请选出，并将字母填入题后的括号内。）

（一）单项选择题第一部分（每题1分，共10分）

1. 2005年6月21日，在国务院召开的全体会议上，被任命为香港特别行政区行政长官的是（ ）
   A. 董建华　B. 何厚铧　C. 曾荫权　D. 马英九
2. 2005年11月29日，在法国国际环境电影节上获得大奖的中国故事片是（ ）
   A.《英雄》　B.《无极》　C.《功夫》　D.《可可西里》
3. 2006年1月25日，国家统计局宣布，2005年我国国内生产总值为18 2321亿元，比上年增长（ ）
   A. 7.8%　B. 8.6%　C. 9.1%　D. 9.9%
4. 在2006年都灵冬奥会女子500米短道速滑比赛项目中，为中国夺得首枚金牌的黑龙江省籍选手是（ ）
   A. 王濛　B. 韩晓鹏　C. 张丹　D. 张昊
5. 2005年10月15日，在拉萨举行全线贯通庆祝大会的西部大开发标志性工程是（ ）
   A. 西气东输　B. 西电东送　C. 青藏铁路　D. 南水北调
6. 今天（6月26日）是国际禁毒日，2005年国际禁毒日的主题是（ ）
   A. 营造绿色城市，呵护地球家园　B. 珍惜自我，健康抉择
   C. 心身健康，幸福一生　D. 平等=授权
7. 2005年5月15日，被联合国湿地公约秘书处批准为全球最有影响力的高原湿地是（ ）
   A. 扎龙　B. 五大连池　C. 兴凯湖　D. 三江源
8. 据2006年2月21日《黑龙江日报》报道，被国家科技部批准的全国第五个国家级高新技术产业带是（ ）
   A. 哈大牡高新技术产业带　B. 哈大齐高新技术产业带
   C. 牡齐大高新技术产业带　D. 牡哈佳高新技术产业带
9. 下列选项中最能体现“法律具有普遍约束力”这一法律特征的是（ ）
   A. 十届全国人大常委会第十七次会议通过了《中华人民共和国公证法》
   B. 中央治理商业贿赂领导小组部署开展治理商业贿赂专项工作
   C. 第二十二届世界法律大会在北京召开
   D. 河北省原外贸厅副厅长李友灿因贪污受贿4 744万余元，被依法执行死刑
10. 排行我老大，子法是我生，若与我抵触，此法必定废。“我”是（ ）
    A. 刑法　B. 宪法　C. 民法　D. 诉讼法

（二）单项选择题第二部分（每题2分，共10分）

11. 2005年中国地质大学261名毕业生被确定去西部地区服务和就业，他们（ ）
    ① 勇于承担社会责任
    ② 积极投身社会实践，提高社会能力
    ③ 支持西部地区建设，努力实现自身价值
    ④ 追求个人名利
    A. ①②③　B. ①②④　C. ②③④　D. ①③④
12. 2005年9月10日，中国纳税百强排定，我省大庆油田名列榜首。下列关于税收说法正确的是（ ）
    A. 税收利了国家，亏了个人
    B. 税收取之于民，用之于国
    C. 税收的特征是有偿性、固定性、强制性
    D. 税收是国家财政收入的重要来源
13. 2006年3月，十届全国人大四次会议期间，人大代表诤言议国事，寸心系民情，就《“十一五”规划纲要》进行了34处修改完善，对《政府工作报告》进行了8处修改。这说明我国的根本政治制度是（ ）
    A. 社会主义制度　B. 民主集中制度
    C. 人民代表大会制度　D. 人民民主专政制度
14. 2006年4月20日，胡锦涛主席对美国进行了国事访问，希望通过这次访问（ ）
    ① 加强对话，扩大共识　② 增进互信　③ 深化合作　④ 化解一切矛盾
    A. ①②④　B. ①②③　C. ②③④　D. ①③④
15. 胡锦涛主席在访美期间，访问美国的世界著名高等学府是（ ）
    A. 哈佛大学　B. 耶鲁大学　C. 麻省理工学院　D. 华盛顿大学

二、不定项选择题（下列各题的四个选项中，至少有一个是符合题意的答案。请选出正确的答案，将字母填入题后的括号内，有错选的该题不得分，漏选一项扣1分。每小题2分，共20分）

16. 2006年，党中央、国务院作出了建设创新型国家的重大战略决策，走中国特色自主创新道路，推动科学技术跨越发展。下列选项体现这一要求的有（ ）
    A. 2005年10月，世界上第一颗0.13微米工艺TD-SCDMA3G手机芯片在重庆诞生
    B. 2005年10月，我国自主研制的“神舟”六号载人飞船在酒泉卫星发射中心发射成功
    C. 十届全国人大常委会第十七次会议修改并通过了《中华人民共和国妇女权益保障法》
    D. 中国诗人季羡林等三人在第十九届世界诗人大会上当选世界桂冠诗人
17. 下列选项中属于侵犯公民人身权利的有（ ）
    A. 小红偷看他人日记并到处散播
    B. 自选商场保安拘禁偷窃嫌疑人
    C. 某人为了集邮毁弃他人信件
    D. 某报纸对某人偷税事实加以披露
18. “守法乐朝朝，违法日日愁”，对这一说法理解正确的是（ ）
    A. 公民应自觉履行法定义务　B. 法律鼓励的积极去做
    C. 法律要求做的必须去做　D. 法律禁止的坚决不做
19. 小强英语考试得了68分，老师要求回家让父母签字。小强觉得分数太少，没有面子，便找来红笔把“68”分改成“88”分，小强的行为是（ ）
    A. 掩盖真相，弄虚作假
    B. 爱慕虚荣，不能客观对待自己
    C. 小事一桩，不影响他的做人原则
    D. 违背对人守信、对事负责的基本要求
20. 2006年1月27日，我国选手郑洁/晏紫在澳大利亚网球公开赛女双决赛中以2：1击败头号种子雷蒙德/斯托瑟，为中国网球迎来第一个大满贯赛事的冠军头衔，这充分体现了（ ）
    A. 团结合作，互相支持的团队精神　B. 不屈不挠，顽强拼搏的精神
    C. 追逐个人名利，显示自己的成绩　D. 超越自我，勇于奉献的精神
21. 当前，大学生就业形势严峻，而国内技术工人又十分紧缺，上海市公布的四类工资最高的职位，有两类是高级和中级技术工种。因此，我们在确定成才目标时（ ）
    A. 要符合社会的发展要求　B. 要符合人民的根本利益
    C. 要从实际出发　D. 要一切从个人的利益出发
22. 下列体现中华民族精神的名言警句有（ ）
    A. 粉身碎骨浑不怕，要留清白在人间
    B. 出师未捷身先死，长使英雄泪满襟
    C. 艰难困苦，玉汝于成
    D. 不经一番寒彻骨，怎得梅花扑鼻香

2006年1月9—11日，全国科技大会在北京举行。中国科学院叶笃正、吴孟超两位院士获2005年度国家最高科学技术奖。根据材料回答23、24题。

23. 国家重奖科技人员体现了（ ）
    A. 我国实施科教兴国战略
    B. 国际竞争的实质是人才竞争
    C. 科技进步是经济发展的决定性因素
    D. 只有重奖科技人员，才能调动他们的积极性
24. 两位院士之所以会受到嘉奖，是因为（ ）
    A. 他们有敢于创新的精神
    B. 他们有高度的社会责任感
    C. 他们有无私的奉献精神
    D. 他们以实际行动为祖国争光添彩，是爱国主义的表现
25. 2005年12月31日，胡锦涛主席发表的题为“携手建设持久和平、共同繁荣的和谐世界”的新年贺词显示了（ ）
    A. 和平与发展是当今世界的主题
    B. 中国人民渴望建立公正合理的国际新秩序
    C. 渴望实现国际关系民主化
    D. 渴望促进共同发展和共同繁荣

三、简要回答下列各题（共25分）

26.（6分）围绕“以诚实守信为荣，以见利忘义为耻”这一主题，请拟出学习和生活中具体的“三荣三耻”。

以①_____ ②_____ ③_____为荣；以①_____ ②_____ ③_____为耻

27.（6分）在武汉，有一个10岁女孩被3名歹徒劫持后，利用歹徒吃夜宵之机，趁歹徒不备，一面向饭店老板暗指3名歹徒，一面表情痛苦地用双手卡自己的脖子，老板明白后立即设法报警，几分钟后，3名歹徒被民警抓获。

警示平台：“10岁女童智斗歹徒”给我们什么启示？（2分）

小鬼当家：在日常生活中，除了来自违法犯罪的侵害外，还可能遇到哪些侵害？你将如何自护自救？（4 分）

28. （8 分）温家宝总理在十届全国人大四次会议《政府工作报告》中指出，要加快建设环境友好型社会，为人民群众创造清洁、良好的生活和工作环境，为子孙后代留下蓝天绿地、碧水青山。为实现这一目标，有政协委员呼吁，需要来个“绿色总动员”。

想一想：我国目前的环境面临怎样的现状？（3 分）

议一议：重新思考日常行为，我们应该从身边哪些小事做起？（3 分）

做一做：请你帮助学校团委拟一个面向全校学生的绿色总动员令。（2 分）

29. （5 分）有资料显示，在“最缺乏公德的行为”调查活动中，发现种种公德缺失现象：公共通道常常被小商小贩占满，你必须费力挤过去；公共场所中明明挂着“禁止吸烟”字样的牌子，但就是有一些人吞云吐雾；乘公交、坐火车，大家在有秩序地排队时，总有人想加塞儿……

观察感悟：你认为在现实生活中还有哪些有失公德的现象？（2 分）

明理导行：在大力提倡社会公德，树立社会主义荣辱观的今天，你怎样做一名新时期合格的小公民？（3 分）

四、探究与实践 （共 10 分）

30. 材料一：据《人民日报》2006 月 6 月 2 日报道，截至 2005 年底，我国网民已达 1. 24 亿人，其中 18 岁以下的未成年人占 16. 4%，而染有“网瘾”的未成年人约达 250 万人。目前，青少年违法犯罪案件中，与网络有关的案件已经占到 70% —80%，网络不良信息的严重泛滥已经成为一种新的社会公害。加强网络道德教育、营造健康网络环境势在必行。

材料二：据《人民日报》2006 年 3 月 23 日报道，共青团中央、国务院新闻办、教育部、公安部等 14 家部委日前联合发出通知：实施青少年绿色网络行动。

畅所欲言：根据上述材料，你认为青少年学生在上网时应做到哪些？（3 分）

倾诉心声：为营造一个健康的网络环境，作为政府应当建立健全法律法规体系，采取技术性防范措施，严厉打击网络色情、网络犯罪等，作为学校和家长，你希望他们应当怎么做？（4 分）

① 学校：

② 家长：

道德践行：在实施青少年绿色网络行动中，作为宣传使者的你能做哪些工作？（3 分）

五、分析说明题 （共 10 分）

31. 材料：非物质文化遗产是指各民族人民世代相承的、与群众生活密切相关的各种传统文化表现形式 （如民俗活动、表演艺术、传统知识和技能，以及与之相关的器具、实物、手工制品等） 和文化空间。保护和利用好非物质文化遗产，对于继承和发扬民族优秀文化传统和民族精神、增强民族自信心和凝聚力、促进社会主义精神文明建设都具有重要而深远的意义。从今年起，我国把每年 6 月的第二个星期六设立为“文化遗产日”。

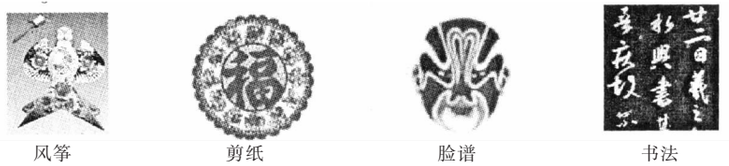

风筝　　剪纸　　脸谱　　书法

艺海拾贝：除上图所示外，你还了解哪些非物质文化遗产？（至少举出三例） （3 分）

薪火相传：在我国五千年的历史长河中，至今仍保留着无数晶莹璀璨的文化瑰宝，我们应怎样传承和保护？（4 分）

博采众长：在对外开放的过程中，面对外来文化的涌入和冲击，我们应如何对待？（3 分）

六、小论文 （15 分）

32. 请你根据以下材料，结合所学知识，联系生活实际，从 A，B 两组材料中任选一组，写一篇小论文，题目自拟。

A　材料一：温家宝总理指出，建设社会主义新农村，是党的十六届五中全会提出的重大历史任务，事关全面建设小康社会和现代化建设全局。要按照“生产发展、生活宽裕、乡风文明、村容整洁、管理民主”的要求，扎实稳步推进社会主义新农村建设。

材料二：在社会主义新农村建设过程中，也存在着许多不和谐的音符 （如图①、图②）。



B　材料一：据《人民日报》报道，2006 年 5 月 20 日，三峡大坝全线浇筑到顶，三峡总公司在右岸电站紧张施工的轰鸣声中，仅用 8 分钟时间举行了简单的大坝庆祝仪式。庆典会场没有主席台，没有一张桌子、一把椅子，整个仪式包括鞭炮、标语、彩旗等花费只有几百元。“8 分钟庆典”因节俭而精彩。

材料二：在建设节约型社会的今天，也存在着一些与之相背离的现象 （如图③、图④）。

3

太原市2006年初中学业考试
政治历史（课改实验区）

政治部分

一、选择题（本大题含14个小题，每小题2分，共28分）在每小题给出的四个选项中，只有一项最符合题目要求，请选出并在答题卡上将该项涂黑。

1. 2005年10月12日，中华人民共和国第十届运动会召开。本届运动会的主题口号是（　）
   A. 体育的盛会，人民的节日　　B. 同一个世界，同一个梦想
   C. 为人民争光，为祖国添彩　　D. 发展体育运动，增强人民体质

2. 2006年3月1日，_____正式实施，它在维护社会治安，保障公共安全，维护社会稳定等方面将起到更加积极的作用。
   A.《中华人民共和国公务员法》
   B.《中华人民共和国妇女权益保障法》
   C.《中华人民共和国治安管理处罚条例》
   D.《中华人民共和国治安管理处罚法》

3. 2006年1月1日，中华人民共和国中央政府门户网站正式开通。其网址是（　）
   A. www. china. com. cn　　B. www. sina. com. cn
   C. www. people. com. cn　　D. www. gov. cn

4. 中华人民共和国中央政府门户网站的开通（　）
   ①为广大公民行使批评、建议权提供了新的途径　②体现了政府工作的与时俱进　③能进一步促进政府决策的科学化、民主化，推进我国的民主政治建设　④有利于人民群众直接行使管理国家的权力
   A. ①②③④　　B. ①②③　　C. ②③④　　D. ①③④

5. 右图形象地说明（　）
   

   A. 喜怒哀惧是人最基本的情绪
   B. 兴趣不同，情绪感受就会不同
   C. 性格不同，情绪感受就会不同
   D. 我们每个人都是自己情绪的主人

6. 性格内向的小璐，从来不敢参加班级活动，为此她感到很苦恼，决定改变自己。于是，每天早晨她都要对着镜子大声朗读。坚持了一段时间以后，她逐渐变得大胆、开朗了，对班级的事情也敢参与了。小璐的变化说明（　）
   A. 小璐天生活泼，只是以前没有表现出来
   B. 养成良好的行为习惯对于塑造性格十分重要
   C. 每个人都应该发挥自己的性格优势
   D. 每个人的性格既有优势，又有弱点

7. 在楚汉之争中，刘邦广纳贤士，善于听取部下的意见，终成一代帝业；而项羽却自封“西楚霸王”，刚愎自用，置范增等人的建议于不顾，终落得乌江自刎。上述事例给我们的启示是（　）
   A. 要自尊自信，不要虚荣嫉妒　　B. 要自尊自信，不要自卑自弃
   C. 要自尊自信，不要自轻自贱　　D. 要自尊自信，不要自傲自负

8. 2005年12月16日，原贵州省交通厅厅长卢某，因受贿罪、巨额财产来源不明罪和偷越国境罪被执行死刑。这一事实说明，法律最主要的特征是（　）
   A. 对全体社会成员具有普遍约束力　B. 靠国家强制力保证实施
   C. 以规定权利义务为内容　　D. 维护广大人民的根本利益

9. 2006年4月9日，北京千龙网等网站联合向全国因特网界发出倡议书，倡议文明办网，把因特网站建设成为传播先进文化的阵地。这一倡议有利于对未成年人实施（　）
   A. 家庭保护　　B. 学校保护　　C. 社会保护　　D. 司法保护

10. 我国南方某地的大宝山矿，在生产过程中将含有大量重金属的洗矿水排入河流，致使当地农作物大量减产，附近村民癌症发病率不断上升。惨痛的事实告诉我们（　）
    A. 我国急需制定水污染防治法
    B. 发展经济必然产生环境问题
    C. 依法治理环境十分重要和紧迫
    D. 解决环境问题是我国当前的中心工作

11. 社会主义初级阶段我国各族人民的共同理想是（　）
    A. 实现共产主义社会
    B. 全面建设小康社会
    C. 提高全民族的思想道德素质和科学文化素质
    D. 建设富强、民主、文明的社会主义现代化国家

12. 目前，我国社会生活中还存在着人民群众“接受优质教育难”、“获得及时就医难”、“入住必备住房难”等问题。解决这些问题最根本的途径是（　）
    A. 坚持四项基本原则
    B. 弘扬宪法精神，保障公民权利
    C. 集中力量发展社会生产力
    D. 把教育摆在优先发展的战略地位

13. 下列对人类社会历史现象的认识，正确的是（　）
    ① 原始社会没有剥削没有压迫，是由当时人们较高的道德水平决定的
    ② 奴隶社会是最野蛮的剥削社会，也是人类文明时代的开端　③ 中国封建社会的科技文化成就，代表了全人类在封建时代所达到的水平　④ 封建土地所有制是封建剥削和压迫的基础　⑤ 资本主义社会的基本矛盾是工人阶级与资产阶级之间的矛盾
    A. ①②⑤　　B. ②③④　　C. ②④　　D. ①⑤

14. 2005年9月3日，纪念中国人民抗日战争暨世界反法西斯战争胜利60周年大会在北京举行。国家主席胡锦涛发表重要讲话，强调要“牢记历史，不忘过去，珍爱和平，开创未来”。为此我们要（　）
    ① 反对霸权主义，维护世界和平　② 抓住机遇，更好地全面建设小康社会
    ③ 自觉承担起实现中华民族伟大复兴的历史使命　④ 自觉履行维护国家统一、保卫祖国安全的义务
    A. ①②③　　B. ②③④　　C. ①③④　　D. ①②③④

二、简答题（本大题含3个小题，共21分）

15. 漫画解读（8分）
    
    图1　春风
    

    图2　法网恢恢
    

    图3　包治百病
    （1）图1说明_____（2分）
    （2）图2说明_____（2分）
    （3）图3中经营者对药品性能的夸大宣传，违反了_____，（2分）侵犯了消费者的_____。（2分）

16. 数字启示（10分）
    材料一：令人振奋的数字
    2005年我国国内生产总值为182 321亿元，按可比价格计算，比上年增长9.9%。城镇居民人均可支配收入达到10 493元，扣除价格因素，增长9.6%；农村居民人均纯收入达到3 255元，扣除价格因素，增长6.2%。
    材料二：令人警醒的数字
    截至2006年2月底，我国外汇储备已达到8 536亿美元，跃居世界第一，但人均外汇储备并不高。我国每创造一美元国民生产总值，消耗掉的煤、电等能源是美国的4.3倍，德国和法国的7.7倍，日本的11.5倍。
    阅读上述材料，简要回答下列问题。
    （1）材料一中的数字反映了什么？（2分）
    （2）为解决材料二所反映的问题，我国已经制定并实施了哪些国策、战略？（8分）

17. 实践模拟（3分）
    在“社会主义荣辱观”教育活动中，某校九年（1）班的同学，对照“八荣八耻”的要求，开展了“知荣辱见行动”活动。
    

    如果你是其中一员，请根据“八荣八耻”第三条的要求，谈谈自己应该做到什么。
    具体做法：
    例：（1）
    （2）
    （3）

三、辨析题（本大题含1个小题，共9分）

18. 4月23日是“世界读书日”。某报记者对中学生的读书情况进行了调查，发现有部分学生在传阅一些宣扬恐怖、暴力等内容不健康的书籍。当问及他们为什么要读这类书籍时，有的同学说：“我也知道读这些书不好，但是看到周围的人在读，就忍不住也跟着读。”有的同学说：“这些书能教会我受到别人欺负时，如何用拳头解决问题。”还有的同学说：“从这些书里，能学到获取他人秘密的方法，这样在与同学聊天时，能显得自己消息灵通、见多识广。”

需要全本请访问 www.ertongbook.com

你认为这些同学的认识和行为对吗？为什么？

四、分析说明题（本大题含 1 个小题，共 12 分）

19. 材料：今年“五一”黄金周期间，来自全国各地的游客纷纷汇集到我省平遥、祁县、太谷等地，探寻晋商足迹，感受晋商文化的独特魅力。

在长达五百年的辉煌中，晋商恪守诚信为本的商业精神、商业道德，主张“事在人为，得人者兴，失人者衰”的理念，开创了人身顶股制、经理负责制等一系列管理制度。他们跋涉山水大漠，辗转东西南北，创立了一批享有盛誉的老字号，也传留下了扶危济困、眷念国家的情怀。

请运用所学知识，简要分析说明上述材料对振兴家乡经济、再创晋商故里辉煌有哪些启示。（不少于四方面）

历史部分

一、选择题（本大题含 15 个小题，每小题 1 分，共 15 分）

在每小题给出的四个选项中，只有一项符合题目要求，请选出并在答题卡上将该项涂黑。

1. 右图古迹所在的文明区域是 （ ）



A. 尼罗河流域　B. 两河流域
C. 印度河流域　D. 黄河流域

2. 一位意大利旅行家，曾在元朝生活十几年后回到欧洲。他的经历和见闻，激起了欧洲人对东方的向往。他是 （ ）
A. 亚历山大　B. 马可·波罗
C. 麦哲伦　D. 利玛窦

3. 文艺复兴时期，明确表达了对天主教会的厌恶，率先对教会提出批评的诗人及其作品是 （ ）
A. 但丁《神曲》　B. 达·芬奇《最后的晚餐》
C. 列夫·托尔斯泰《复活》　D. 莎士比亚《哈姆雷特》

4. 新航路开辟后，在连续三百多年的“三角贸易”中，遭受灾难最深重的地区是 （ ）
A. 欧洲　B. 亚洲　C. 美洲　D. 非洲

5. 发生在 1836—1848 年间，工人们要求取得普选权，以便有机会参与国家管理的政治运动是 （ ）
A. 英国宪章运动　B. 印度民族起义
C. 法国巴黎公社　D. 俄国二月革命

6. 第一次把生物学建立在完全科学的基础上，推翻了神创论和物种不变化的科学家是 （ ）
A. 牛顿　B. 达尔文　C. 居里夫人　D. 爱因斯坦

7. 既是犹太教、基督教和伊斯兰教的“圣地”，又是巴勒斯坦和以色列争夺控制权的城市是 （ ）
A. 巴比伦城　B. 麦加　C. 耶路撒冷　D. 麦地那

8. 决定成立联合国的会议是 （ ）
A. 巴黎会议　B. 慕尼黑会议　C. 日内瓦会议　D. 雅尔塔会议

9. 张之洞对中国近代化作出的主要贡献有 （ ）
① 率兵收复新疆　② 开办汉阳铁厂　③ 创办京师大学堂　④ 奏请停止科举，普遍兴办学校
A. ①②　B. ②③　C. ②④　D. ③④

10. 创办大生纱厂的清末状元实业家是 （ ）
A. 张謇　B. 荣德生　C. 荣宗敬　D. 范旭东

11. 以下属于抗日战争时期彭德怀指挥的战役是 （ ）
A. 卢沟桥血战　B. 平型关大捷　C. 台儿庄战役　D. 百团大战

12. 中华人民共和国诞生的时间是 （ ）
A. 1911 年 10 月 10 日　B. 1919 年 5 月 4 日
C. 1921 年 7 月 1 日　D. 1949 年 10 月 1 日

13. 在 1954 年的万隆会议上，周恩来提出的促进会议圆满成功的方针是 （ ）
A. 独立自主　B. 求同存异　C. 和平共处　D. 一国两制

14. 下列人物中，提出“教育要面向现代化，面向世界，面向未来”的是 （ ）
A. 毛泽东　B. 邓小平　C. 周恩来　D. 江泽民

15. “中国海尔公司在美国、意大利、摩洛哥等地建立了 13 家工厂，在全球大部分地区实现了设计、生产和销售的本地化……”这一现象反映了 （ ）
A. 政治多极化趋势　B. 区域经济集团化趋势
C. 经济全球化趋势　D. 地区经济一体化趋势

二、列举题（本大题含 1 个小题，共 3 分）

16. 请根据提示信息列出相应的不平等条约。
使中国开始沦为半殖民地半封建社会的是：
使中国半殖民地化程度大大加深的是：
使中国完全沦为半殖民地半封建社会的是：

三、实践应用题（本大题含 1 个小题，共 9 分）

17. 请你参与讨论交通事业中“路与车”的发展问题，完成以下 5 个小题。

【资料积累】

(1) 图 A、图 B 分别是什么时期的成就？(2 分)



图 A：史蒂芬孙发明的火车机车



图 B：安装内燃机的早期汽车

(2) 写出 20 世纪初詹天佑为中国铁路建设作出的突出贡献。(1 分)

(3) 写出新中国第一个五年计划期间汽车工业和公路建设的突出成就。(2 分)

(4) 图 C、图 D 是我国什么时期的成就？(1 分)



图 C：高速公路



图 D：上海的磁悬浮列车

(5) 运用以上资料，从科技、经济、生活三方面，就“路与车”的发展谈谈你的认识。(3 分)

四、简答题（本大题含 1 个小题，共 5 分）

18. 1917 年的俄国十月革命和 1921—1922 年华盛顿会议上签署的《九国公约》，都对中国产生了重大影响。

(1) 俄国十月革命对中国产生了怎样的影响？(3 分)

(2) 《九国公约》对中国产生了怎样的影响？(2 分)

五、材料解析题（本大题含 1 个小题，共 8 分）

19. 阅读材料，回答问题。

17 世纪 80 年代至 19 世纪 40 年代，英国资本主义经济的增长速度超过了其他任何一个欧洲国家……同 19 世纪 70 年代至 20 世纪初相比，1929—1945 年间世界资本主义经济增长速度大大放慢……20 世纪 50 年代初至 70 年代初，资本主义国家的经济发展进入了一个黄金时期。其中，西欧和日本的发展尤为迅速……

(1) 17 世纪 80 年代至 19 世纪 40 年代，英国领先于欧洲各国的主要原因有哪些？(2 分)

(2) “1929—1945 年间世界资本主义经济增长速度大大放慢”的主要原因是什么？(2 分)

(3) 根据材料，列出世界资本主义经济飞速发展的两个历史时期，并简要分析这两个历史时期经济发展的共同原因。(4 分)

4

浙江省宁波市2006年初中毕业生学业考试
社会政治试题（课改实验区）

试 题 卷 Ⅰ

一、选择题（本题有16小题，每小题2分，共32分。请选出各题中一个符合题意的正确选项，不选、多选、错选均不给分）

1. 2005年10月12日，我国自主研制的_____载人飞船发射成功。
A.“神舟”四号　B.“神舟”五号　C.“神舟”六号　D.“神舟”七号

2. 2005年11月11日，2008年北京奥运会吉祥物“_____”正式亮相。
A. 中国印　B. 中国结　C. 熊猫　D. 中国福娃

3. 2006年3月4日，胡锦涛在看望全国政协委员时发表了关于社会主义_____的重要讲话。
A. 道德观　B. 价值观　C. 荣誉观　D. 荣辱观

4. 假如你生活在20世纪初的英国伦敦，不可能做的是（　）
A. 周末乘火车去较远的朋友家做客　B. 晚上用QQ和网友聊天
C. 打电话给在大学工作的父亲　D. 利用空余时间看《每日邮报》

5. 中国古代历史上有这样两次重要的改革：一次使秦国成为战国中后期实力最强的国家，另一次使鲜卑族人吸收了汉族先进文化，加快了北方民族融合的步伐。这两次改革为（　）
①商鞅变法　②北魏孝文帝改革
③李悝变法　④戊戌变法
A. ①②　B. ①③　C. ②③　D. ①④

6. 1890年，北京一茶馆里四位中国人在聊天。①赵一说：“我参加过甲午战争。”②钱二说：“我参加过太平天国运动。”③孙三说：“我在同文馆里读过书。”④李四说：“我参加过‘公车上书’。”符合史实的有（　）
A. ①③　B. ②③　C. ①④　D. ③④

7. 2005年11月7日，为期10天的上海合作组织防务安全论坛在北京开幕。关于上海合作组织的说法中，正确的是（　）
①它进一步加强了我国与周边国家的关系
②它是第一个以中国城市命名的国际组织
③它是中国成为发达国家的标志
④它是中国加入的第一个国际组织
A. ①②　B. ③④　C. ①③　D. ②④

8. 下列反映我国社会性质发生根本性变化的是（　）
A. 中华人民共和国成立
B. 土地改革的完成
C. 生产资料私有制的社会主义改造基本完成
D. 中共十一届三中全会的召开

9. 对右边漫画理解正确的是（　）



① 当今世界并不太平
② 恐怖主义依然威胁着世界和平
③ 恐怖主义是引发战争的主要根源
④ 总体和平，局部战乱是当今世界的总体态势
A. ①②④　B. ①②
C. ①③④　D. ②③④

10. 王同学在校运动会的跳高比赛中失利，他很伤心，回到家里，高歌一曲，感觉心情好多了。王同学采取调节情绪的方法是（　）
A. 自我激励　B. 主动控制情绪
C. 合理发泄情绪　D. 自我暗示

11. 对于不屈从于挫折的人来说，就会把挫折当做是对自己的考验和挑战，总结经验教训，奋起努力，争取成功。这句话表明（　）
① 没有经历挫折的人不能取得成功
② 失败是成功之母
③ 不屈从挫折的人不能取得成功
④ 挫折孕育着成功
A. ①②③　B. ②④
C. ②③　D. ②③④

12. 谎报疫情、警情，扬言实施放火。这些行为属于（　）
A. 扰乱公共秩序的行为
B. 妨害公共安全的行为
C. 侵犯财产权的行为
D. 妨害社会管理的行为

13. 2006年国家对西部地区农村义务教育阶段学生全部免除学杂费。这一政策为公民_____的实现提供了物质保障。
A. 受教育权　B. 生命健康权
C. 人身自由权　D. 劳动权

14. 2005年中央财政全年安排扶贫资金122亿元，用于社会保障的资金达1 465亿元，比上年增长了18.1%。上述举措主要有利于（　）
①构建和谐社会　②实现按劳分配　③实现同步富裕
④实现共同富裕
A. ①②　B. ①③　C. ②③　D. ①④

15. 下列选项能反映经济全球化的有（　）
① 肯德基快餐中国连锁店
② 挂着日本本田标志的广州产本田汽车
③ 法国梦特娇服装中国专卖店
④ 美国超市里的中国海尔电器
A. ①③④　B. ①②④
C. ②③④　D. ①②③④

16. 2005年宁波市国内生产总值超过2 400亿元，城市综合竞争力跻身全国十强。这些成就取得的主要原因是（　）
① 坚持以经济建设为中心
② 坚持和平共处五项原则
③ 坚持四项基本原则
④ 坚持改革开放
A. ①②③　B. ①③④
C. ①②④　D. ②③④

试 题 卷 Ⅱ

二、非选择题（本题有6题，每题8分，共48分）

17. 认真观察右图，根据所学知识完成下列各题：

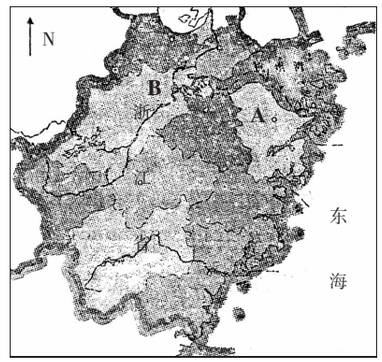

⑴ 从地图“语言”看，该图缺少的是_____、_____。（2分）

⑵ 该图中的“A”是_____市，其气候类型是_____；“B”是_____市。（3分）

⑶ A，B两市都是历史名城。A市在《____条约》中被列为五处通商口岸之一。B市于公元1127年被定为_____（朝代）的都城，当时名为_____。（3分）

18. 请看台湾中学生小洋的日记，回答：

今天我参观纪念抗日战争胜利60周年展览，学到了很多历史知识，看到了日本侵略者的丑恶嘴脸，认识到日本侵略者的罪恶。包括台湾人民在内的炎黄子孙以不屈不挠的牺牲精神，打赢了这场战争，战争的胜利使得我的家乡回到了祖国的怀抱。由此我对日本国内的右翼势力篡改教科书事件，感到非常气愤。

⑴ 台湾在哪个条约中被割让给日本？（1分）

⑵ 列举日本在侵华战争中所犯下的罪行。（至少两条）（2分）

⑶ 中国人民打赢这场战争的主要原因有哪些？（3分）

⑷ 面对日本右翼势力歪曲日军侵华史实的做法，我们中学生应该怎么办？（2分）

19. 在学完九年级《历史与社会》第二单元后，老师围绕“节约资源，保护环境”的内容布置了书面作业和实践作业，请你完成。

⑴ 书面作业：

① 写出我国在节约资源、保护环境方面的基本国策和战略。（2 分）

② 选出符合循环经济发展模式的选项。（2 分）

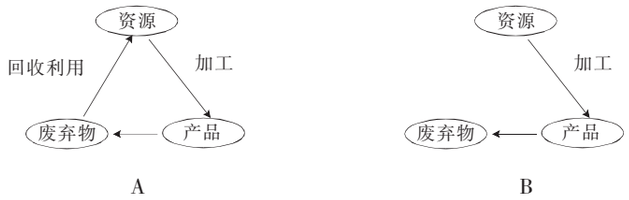

⑵ 实践作业：按照下面的活动设计，你打算怎样做到节约资源，保护环境？（4 分）

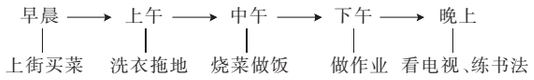

20. 材料一：2006 年 1 月 9 日，全国科学技术大会在北京召开，中共中央、国务院为我国科技事业的发展作出突出贡献的科技工作者进行表彰和奖励。胡锦涛在会上指出：到 2020 年使我国的自主创新能力显著增强，进入创新型国家行列，为全面建设小康社会提供强有力的支撑。

材料二：为落实全国科技大会精神，某校拟定开展一次“科技创新周”活动。

阅读上述材料，回答问题：

⑴ 在这次大会上哪两位科学家获得 2005 年度国家最高科学技术奖？（2 分）

⑵ 结合初三思想政治课的有关内容说明我国为什么要建设创新型国家。（2 分）

⑶ 为有效开展科技创新周活动，你认为可采用哪些形式？（至少写出两种）参与这一活动对我们青少年学生的成长有何作用？（4 分）

21. 阅读下边漫画，回答问题：



⑴ 漫画中消费者的哪些权利受到了侵害？（2 分）

⑵ 漫画中“朋友一”、“朋友二”的观点对吗？分别说明理由。（4 分）

⑶ 如果遇到类似的侵权情况，你应该如何处理？（2 分）

22. 材料一：被评为“2005 年感动中国十大人物”之一的洪战辉从高中起，一边勤工俭学，一边照顾患病的父亲和捡来的小妹妹，已经十多年了。他曾动情地说：“苦难的经历并不是我们博得别人同情的资本，奋斗才是最重要的。”

材料二：丛飞，一位著名的歌手，10 多年来，他公益演出 300 多场，义工服务 3600 多个小时，无私捐助超过 300 万元。捐了那么多钱，自己却没钱治病。他的事迹感动了中国，但还有人认为丛飞是傻瓜。丛飞和他女儿的对话也印证了这一点。“爸爸是什么？”“傻瓜。”“爸爸还是啥？”“疯子。”“为啥？”“爸爸挣钱给别人花。”

阅读上述材料，回答问题：

⑴ 洪战辉的品德体现了中华民族精神的哪些内容？（2 分）

⑵ 你认为丛飞是傻瓜吗？请说说理由。（3 分）

⑶ 宣传洪战辉和丛飞的事迹属于社会主义精神文明建设哪方面内容？你打算如何宣传？（3 分）

5

2006 年浙江省温州市
初中毕业生学业考试（课改实验区）

社会政治 （开卷）

卷 一

一、选择题 （本大题有 20 小题，每小题 2 分，共 40 分。请选出各题中一个符合题意的正确选项，不选、错选、多选均不给分。）

1. 2006 年 3 月 4 日，中共中央总书记胡锦涛提出的社会主义荣辱观是 （ ）
   A. 科学发展观　　B. 和谐社会　　C. “八荣八耻”
2. 2006 年 2 月 9 日，《国家中长期科学和技术发展规划纲要 （2006—2020 年）》发表。《纲要》强调，要立足自主创新，到 2020 年使我国成为 （ ）
   A. 创新型国家　　B. 发达国家　　C. 发展中国家
3. 2006 年 4 月 6 日，中办国办印发《关于进一步加强和改进未成年人_____建设和管理工作的意见》，进一步推动了未成年人思想道德建设。
   A. 家庭活动场所　　B. 学校活动场所　　C. 校外活动场所
4. 2006 年 2 月，_____恢复铀浓缩活动，导致国际社会解决该国核问题又添新变数。
   A. 伊拉克　　B. 伊朗　　C. 以色列

李华期末试卷上的一处错误没有被老师批改出来，成绩多了 3 分。他主动要求老师把成绩减下来。班里有些同学很不理解，还嘲笑他。李华因此十分苦恼。据此回答 5、6 题。

5. 李华的做法值得提倡，因为这样做可以 （ ）
   A. 博得老师的好感　　B. “出风头”，表现自己　　C. 培养诚信的品质
6. 李华可以通过哪些方法来调节自己的情绪？ （ ）
   ① 转移注意力　　② 合理发泄　　③ 独自生闷气
   A. ①②　　B. ①③　　C. ②③

今年 5 月，齐齐哈尔第二制药有限公司生产的假药导致患者出现严重不良反应，甚至致人死亡。据此回答 7、8 题。

7. 我市药监局根据国家有关部门要求，紧急查封、扣押、停止销售和使用该公司的所有药品。这是为了保护公民的 （ ）
   A. 人格尊严权　　B. 生命健康权　　C. 依法求偿权
8. 制造假药的行为具有严重社会危害性，已触犯刑法，必将受到刑罚的处罚。据此，可以判定该行为是 （ ）
   A. 违反纪律行为　　B. 一般违法行为　　C. 犯罪行为
9. 读表回答：

温州私营企业、个体工商户发展一览表

	1985 年	2004 年
私营企业	0.2 万户	3.86 万户
个体工商户	1.3 万户	24.6 万户
占全市工业总产值的比例	27.8%	96.0%

以上数据表明，私营企业、个体工商户在哪一方面发挥了重要作用？（ ）
A. 经济建设　　B. 科学文化　　C. 思想道德

10. 某校特意为回族学生开设了清真食堂，烧菜不用猪肉，受到了回族学生的好评。这说明维护民族团结
    ①没有必要小题大做　②是我们每个人的义务　③要尊重少数民族的风俗习惯
    A. ①②　　B. ①③　　C. ②③
11. 下列省级行政区中名称与简称相符的是 （ ）
    A. 上海——沪　　B. 福建——赣　　C. 安徽——粤
12. 小明的父母在英国经商，现有一批货物从温州港口出发，海运到英国。沿右图所示航线航行，该货船依次要经过的大洋是 （ ）

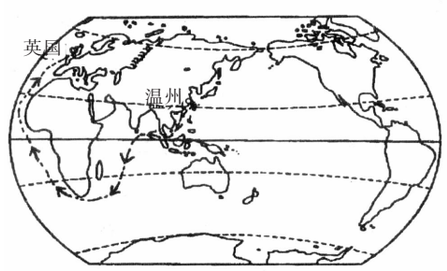

    A. 印度洋、太平洋、北冰洋
    B. 太平洋、印度洋、大西洋
    C. 太平洋、大西洋、印度洋
13. 温州市位于我国东南沿海，人多地少，自然资源缺乏。我国西部地区土地广袤，资源丰富，温州一些企业纷纷到西部投资办厂。对此做法，正确的认识是 （ ）
    A. 只对温州有利，因为温州可以利用西部丰富的资源
    B. 只对西部有利，因为西部从温州获得资金、技术和人才
    C. 对双方都有利，因为互通有无、优势互补才能共同发展
14. “富贵不能淫，贫贱不能移，威武不能屈”出自诸子百家中谁的言论？ （ ）
    A. 孟子　　B. 老子　　C. 墨子
15. 下列史实之间有直接关联的是 （ ）
    A. 郑和下西洋——发现美洲新大陆
    B. 哥伦布远航——到达印度
    C. 张骞通西域——开辟丝绸之路
16. 攻克巴士底狱标志着哪一次资产阶级革命运动的爆发？ （ ）
    A. 美国独立战争　　B. 法国资产阶级革命　　C. 英国资产阶级革命
17. 看图选择：



图 1　水浮法指南针



图 2　蒸汽机车



图 3　电灯

小强要选一幅反映 19 世纪后半期工业革命新阶段成果的图片，应该选 （ ）
A. 图 1　　B. 图 2　　C. 图 3
18. 20 世纪 70 年代初，巴西用 66 大包咖啡换发达国家生产的一辆载重货车。10 年后，则需要 132 大包咖啡。1960 年，最富国家和最穷国家之间收入差距为 37 倍，现在则达到 74 倍。这则材料说明，导致南北问题的原因是 （ ）
    A. 一些发展中国家长期战乱
    B. 国际贸易中的不等价交换
    C. 发展中国家债务负担沉重
19. 今年 2 月 27 日，陈水扁决定终止“国统会”运作和“国统纲领”，遭到了两岸同胞的强烈反对和国际社会的谴责。这说明 （ ）
    ①“台独”违背海内外中华儿女的共同心愿
    ②“台独”活动严重阻碍我国和平统一进程
    ③ 我们绝不允许任何人把台湾从祖国分裂出去
    A. ①　　B. ①②　　C. ①②③
20. 2008 年北京奥运会会徽“中国印 · 舞动的北京”将中国传统的印章和书法等艺术形式和奥林匹克精神完美结合，获得了国内外人士的齐声喝彩。这说明 （ ）
    A. 要珍惜我国优秀的民族文化传统
    B. 全世界应该形成一种单一的文化
    C. 民族文化不能与其他文化相交融



第 29 届北京奥运会会徽

卷 二

二、非选择题 （本大题有 6 小题，共 60 分）

21. （8 分） 今年 4 月 29 日，温州半岛工程——灵霓北堤建成通车，洞头与温州市区直接相连。
    读图 1 和图 2 回答：
    （1） 从温州市区乘车到洞头，汽车大致朝什么方向行驶？（2 分）

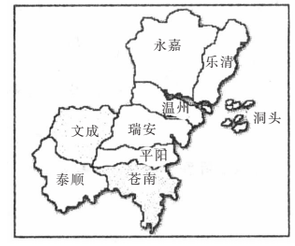

图 1

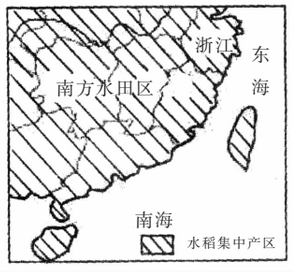

图 2

    （2） 温州濒临我国哪个海？（2 分）
    （3） 温州属于什么气候类型？这种气候特点为什么适宜水稻种植？（4 分）

22. （12 分）
    运用读书摘记卡收集和整理信息是一种学习的好方法。下面是张凯同学的一张尚未完成的读书摘记卡，请你帮助他完成。

读 书 摘 记 卡

专题：中国抗日战争

一、侵华事变：在右边的两个日子里，日本发动了：



⑴ _____

⑵ _____ （4 分）

二、日军罪行：

⑴ 1937 年日军制造南京大屠杀，至少 30 万中国平民和俘虏被杀害。

⑵ _____ （2 分）

三、抗战胜利：⑴ 日本宣布无条件投降的日子：_____ （1 分）

⑵ 抗战胜利的意义：_____ （3 分）

四、我的感受：_____

_____ （2 分）

23. （11 分）材料一：A 村水清林幽，环境优美，适宜开发旅游业。可是一些村民引进废塑料洗涤加工业，小溪边堆满了废塑料，空气中弥漫着臭气，又黑又臭的污水使鱼虾绝迹，村民生病增多，也让一些想到这里投资的开发商“望而却步”。

材料二：在新农村建设中，B 村开发生态农业，建设无公害茶叶基地；同时开发休闲观光旅游，让游客来这里览茶海、赏茶艺、品香茗。本没有旅游优势的地方成了旅游热点。

根据材料，结合所学的知识回答：

⑴ A 村村民的做法给当地带来哪些不利的影响？（6 分）

⑵ B 村村民的做法体现了哪一条发展道路？（2 分）

⑶ 结合 A 村和 B 村的情况谈谈保护环境与科学利用资源的关系。（3 分）

24. （6 分）

班里召开“培养和锻炼坚强意志”经验交流会，请你为同学们介绍自己成功的做法：

示例：从小事做起，从现在开始方面：坚持先做完作业，再看电视。

⑴ 拒绝不良诱惑方面：_____。（2 分）

⑵ 持之以恒，善始善终方面：_____。（2 分）

⑶ 要有明确的目标和计划方面：_____。（2 分）

25. （10 分）

漫画：“如此家长”



⑴ 要说服漫画中那样的家长让孩子接受义务教育，请你提供两条法律依据。（4 分）

示例 ：《中华人民共和国未成年人保护法》规定，父母必须让适龄未成年人按照规定接受义务教育，不得使在校接受义务教育的未成年人辍学。

⑵ 今年秋季起，省财政对我市增加补贴 1 亿多元，我市义务教育阶段 91 万中小学生上学将不需要交杂费。这体现了义务教育的哪一个特征？（2 分）

⑶ 初中生小王因沉迷网络游戏而逃学旷课。他说“受教育是我的权利，我有权不上学”。他的话对吗？为什么？（4 分）

26. （13 分）

（本题含思维或创新分，凡答题思路清晰，逻辑严密或提出活动建议有创意的得 1 分。）

材料一：黄伯云教授是 2005 年“感动中国年度人物”。他留学后回国创业，“抱定赤子之心，寒窗苦守，艰难困苦，玉汝于成……”。近 20 年来，经过无数次试验，终于在世界最先进的航空制动材料的研制方面获得成功，改写了中国飞机依赖进口刹车片的历史。

材料二：我国创造 1. 6 万亿元的国内生产总值需要用 50 亿吨的自然资源，而日本只用 20 亿吨，差别在于技术进步和创新。目前，欧美等发达国家掌握了全球 90% 以上的核心技术，而我国许多高端核心技术还依赖进口，甚至有的技术引进还受到限制。

根据材料，结合所学知识回答：

⑴ 黄伯云教授奋斗的过程体现出了哪些民族精神？（4 分）

⑵ 材料二说明我国要实施什么发展战略？为什么？（6 分）

⑶ 学校开展“爱科学、学科学、用科学”的科技节活动，请你提出一项活动建设。（2 分）

6

武汉市 2006 年
初中毕业生学业考试（课改实验区）

第 I 卷 （选择题，共 60 分）

1. “挡百年一遇之洪水，输能量巨大之电力”。“世界第一坝”——三峡大坝的建设者们历经 13 年风风雨雨，以无比坚强的意志克服了重重困难，攻克了一道道难关，创造了人类水利史上的奇迹。他们的感人事迹告诉我们（　）
   A. 成就一番事业，需要坚强的意志
   B. 只要有了困难和挫折，就一定会取得事业的成功
   C. 艰苦的环境是取得事业成功的重要保障
2. 在初中毕业生综合素质评价活动中，通过同学互评，小静发现了一些自己并未意识到的优点，也清楚地找到了自己的不足之处。由此看出　（　）
   A. 同学对小静的评价都是错误的
   B. 小静是一个自卑的人
   C. 小静学会了全面认识自己
3. “清晨，聆听林间第一声鸟鸣；夜晚，眺望远方璀璨的星空。在不断发现美、描绘美、感悟美的过程中，我获得了智慧和力量。”这位“新三好”学生的成长心得告诉我们　（　）
   A. 生活情趣是丰富多彩的，并无高雅与庸俗之分
   B. 我们生活的世界没有美的事物
   C. 高雅的生活情趣有益于青少年的健康成长
4. 右图漫画中“早产”蛋糕的经营者侵犯了消费者的　（　）



   A. 自主选择权
   B. 知情权和安全权
   C. 依法求偿权
5. 为了大力普及和巩固九年义务教育，促进教育的均衡发展，今春开学，湖北省 81 万名农村贫困家庭学生享受“两免一补”政策；武汉市近 300 所中小学免收农民工子女借读费。这些举措　（　）
   ①有力保障了公民受教育的权利　②体现了党和政府对教育的高度重视
   ③妨碍了城市教育的发展　④有利于广大青少年的成长和发展
   A. ①②④　　B. ②③④　　C. ①③④
6. 公民贾某去世后留下 8 万元遗产，贾某的妻儿、兄弟姐妹、父母都提出继承其遗产的要求。按照我国继承法的规定，属于第一顺序继承人的应该是贾某的　（　）
   A. 妻儿、兄弟姐妹
   B. 妻儿、父母
   C. 父母、兄弟姐妹
7. 据有关资料统计，吸毒者多数短命，死亡率高出一般人群 15 倍，而且吸毒已成为滋生艾滋病的“温床”，严重危害着人类的健康。这则材料告诉我们　（　）
   A. 毒品威力强大，我们无法与之抗衡
   B. 毒品、艾滋病离我们十分遥远，我们不必知道其危害
   C. 青少年要珍爱生命，远离毒品，自觉抵制不良诱惑
8. 在“创新素质实践行”活动中，我市某中学的同学们踊跃开展小发明、小创造等活动，仅 2005 年，该校学生已向市知识产权局提出实用新型发明专利申请 238 件。这表明我们中学生　（　）
   A. 享有智力成果权
   B. 享有人格尊严权
   C. 主要任务是参加社会实践，搞发明创造
9. 继去年访问大陆踏上“和平之旅”后，今年 4 月，中国国民党荣誉主席连战再赴北京，参加两岸经贸论坛。他呼吁两岸同胞抓住机会、加强合作，达到共荣双赢的目标。这说明　（　）
   A. 实现祖国的完全统一是海内外中华儿女的共同心愿
   B. 加强两岸经贸合作是发展两岸关系和实现和平统一的基础
   C. 解决台湾问题是当前一切工作的中心
10. 2006 年 5 月 13 日，武汉市组织 14 个局级单位的“一把手”在汉口西北湖广场接受市民的咨询和投诉，现场解答百姓提出的问题。这次“听民声、解民忧”的活动是　（　）
    ①贯彻落实“三个代表”重要思想的体现　②以人为本、执政为民的具体措施　③构建和谐武汉的需要　④解决市民实际问题的唯一途径
    A. ①②③　　B. ②③④　　C. ①②④
11. 在建设中国特色社会主义的伟大实践中，制定一切路线、方针、政策都必须从中国的实际出发。当前我国最大的“实际”是　（　）
    A. 我国人民生活已达到发达国家水平
    B. 我国正处在社会主义初级阶段
    C. 多种所有制经济已经成为社会主义经济制度的基础
12. 贯穿于我国社会主义初级阶段的整个过程和社会生活各个方面的主要矛盾是　（　）
    A. 社会主义物质文明建设与精神文明建设的矛盾
    B. 人口众多与经济发展的矛盾
    C. 人民日益增长的物质文化需要同落后的社会生产之间的矛盾
13. 今年温家宝总理在政府工作报告中指出，当前改革正处于攻坚阶段，必须以更大的决心加快推进各项改革。改革的根本目的是　（　）
    A. 坚持对外开放的基本国策，以更加积极的姿态走向世界
    B. 在各方面形成与社会主义初级阶段基本国情相适应的比较成熟、比较定型的制度
    C. 建立完善的人民代表大会制度
14. 建设社会主义新农村作为“十一五”规划提出的重大发展战略，受到广大人民群众的热切关注。建设社会主义新农村　（　）
    ① 是贯彻落实科学发展观的要求　② 是全面建设小康社会的需要
    ③ 有利于实现全体人民同步富裕　④ 是努力构建和谐社会的重大举措
    A. ①②③　　B. ②③④　　C. ①②④
15. 当“同一个世界、同一个梦想”的口号唱响欢腾的五洲；当舞动的“中国印”、憨态可掬的“福娃”走进人们的生活，北京 2008 奥运会离我们越来越近了。这次奥运会将是全球体坛的盛会，也将是中外文化交流的最好契机。下列说法正确的是　（　）
    A. 既要理解和尊重世界各国文化，又要向世界展示、传播中华民族的优秀文化
    B. 弘扬中华文化，必须杜绝一切外来文化
    C. 中外文化相辅相成，相互替代
16. “珍爱生命，远离毒品”是全人类的共识。鸦片是一种对社会危害极其严重的毒品，在禁绝毒品、铲除鸦片方面，我们应该永远铭记　（　）
    A. 林则徐虎门销烟
    B. 左宗棠收复新疆
    C. 邓世昌黄海抗日
17. 右图所示企业，由张之洞创办，是武汉近代工业发展的一个足迹。它出现在　（　）



汉阳铁厂——中国第一个近代化的钢铁厂

    A. 洋务运动时期
    B. 戊戌变法时期
    C. 五四运动时期
18. 继承革命传统，感悟长征精神。在纪念长征胜利 70 周年的大型图片展览中，我们能够感受到红军不畏艰险、勇往直前的革命英雄主义精神的场景是　（　）
    ⑴ 会师井冈山　⑵ 强渡大渡河　⑶ 飞夺泸定桥
    A. ⑴ ⑵　　B. ⑵ ⑶　　C. ⑴ ⑶
19. 为了激发同学们的爱国热情，班级计划组织“团结御侮、振兴中华”的主题班会，你打算帮助同学们从哪本书中收集资料？　（　）
    A. 《南昌起义回忆录》
    B. 《抗日战争史》
    C. 《三大战役资料选辑》
20. 请你从以下三句话中选择最为贴切的一句话，说明中华人民共和国成立的伟大历史意义　（　）
    A. 封建帝制被推翻了
    B. 中国人民站起来了
    C. 中国实现现代化了
21. 图片“台湾同胞返乡探亲团团员穿的夹克衫”充分反映了　（　）



台湾同胞返乡探亲团团员穿的夹克衫

    A. 海峡两岸开始了高层互访
    B. 海峡两岸实行不同的社会制度
    C. 台湾人民期盼祖国统一的愿望
22. 如果请你借用图片介绍 21 世纪之初中国外交取得的重大成就，你会选择下列哪幅图片？



A.万隆会议期间的周恩来



B.乔冠华开怀大笑



C.上海 APEC 会议主会场

23. 下列说法中，正确的是　（　）
    A. 哥伦布发现了美洲大陆

需要全本请访问 www.ertongbook.com

B. 君主立宪制最早出现在法国
C. 拿破仑是美国独立战争的领导人

24. 人权，既是人类长期以来的共同追求，也是现实社会中的热门话题。就18世纪70年代的美国而言，在摆脱英国殖民统治、争取人权方面具有进步意义的文献是（　）
A. 《独立宣言》　B. 《权利法案》　C. 《人权宣言》

25. 19世纪60年代，俄国推行了农奴制改革，日本进行了明治维新。这两个国家社会改革的共同点是（　）
A. 都废除了农奴制度
B. 都阻碍了社会进步
C. 都改变了社会性质

26. 电给人类带来了光明。历史上，发明电灯泡，将电能转化为光能的科学家是（　）
A. 牛顿　B. 爱迪生　C. 爱因斯坦

27. 战争狂人希特勒自杀身亡，墨索里尼暴尸街头，东条英机受到正义审判。这些法西斯恶魔的结局恰恰印证了（　）
A. 发动侵略战争者没有好下场
B. 历史上的战争都是非正义的
C. 战争是解决争端的唯一办法

28. 右图所示货币，近来在国际金融市场排名第二。这一货币的出现，反映了哪一组织成员国之间经济联系日益密切？（　）


欧元

A. 联合国
B. 欧洲联盟
C. 北大西洋公约组织

29. 每次，一些日本政要参拜靖国神社，都严重伤害了包括中国在内的亚洲被侵略国家人民的感情。我们在谴责日本歪曲侵略历史的同时，也应对日本右翼保持应有的警惕，因为（　）
A. 日本是资本主义国家
B. 日本推行“科技立国”政策
C. 日本曾是亚洲、太平洋地区诸多战争的发动者

30. 2005年10月17日凌晨，“神舟”六号返回舱顺利着陆，宣告我国首次真正意义上有人参与的空间科学实验取得圆满成功。这反映了哪一次工业革命对中国产生了深刻的影响？（　）
A. 第一次工业革命　B. 第二次工业革命　C. 第三次工业革命

第Ⅱ卷（非选择题，共20分）

一、历史试题（共10分）

31. 材料阅读思考

材料一：1851年，在英国伦敦举行的第一届世界博览会上，蒸汽机、水力印刷机、纺织机械等展品引人注目。1863年，世界上第一条地下铁路——伦敦地铁开始通车。

材料二：19世纪后期，日本东京修筑铁路，举办邮政和电讯事业，街头出现了电灯。

材料三：武汉市汉口城区有中山大道、解放大道、建设大道、发展大道等主干道，这些道路名称深深地打上了时代的烙印。

①1851年，蒸汽机在英国伦敦世博会上展出反映了哪一历史事件的成就？（1分）

②19世纪后期，日本东京街头出现了电灯，说明给日本带来这一新变化的历史原因。（1分）

③道路名称可以折射出城市发展的轨迹。下列哪一道路的命名，主要是为了纪念辛亥革命？（　）（1分）
A. 中山大道　B. 解放大道　C. 建设大道

④上述材料表明（正确的请打“✓”；错误的请打“×”）（2分）
a. 工业革命推动了城市的发展（　）
b. 城市的发展仅仅表现为道路交通的进步（　）

32. 问题分析探究

杰出人物对历史发展起到了重要推动作用。

① 列举下图人物推动社会进步的主要历史活动（各举出一个活动即可）。（2分）

列宁


毛泽东

罗斯福

列宁：_____

毛泽东：_____

罗斯福：推行新政、领导美国进行反法西斯战争。

② 对于这些杰出人物历史作用的评价，正确的是（　）（1分）
A. 列宁——在苏联建成了共产主义
B. 毛泽东——提高了中国的国际地位
C. 罗斯福——加剧了美国的经济危机

③在“20世纪杰出人物成功之路”的探究活动中，你发现这三位杰出历史人物有哪些优秀品质？（写出两条即可）（2分）

_____

_____

二、思想品德试题（共10分）

[焦点访谈]

33. 一年一度的全国“两会”越来越公开、越来越透明了。现在某媒体《论和谐、话发展》栏目邀请部分全国人大代表进行访谈。代表们关于以下话题的精彩言论带给你哪些感悟和启示？

[话题一] 建设资源节约型、环境友好型社会

人大代表甲：世界本无垃圾，垃圾是放错了位置的资源。

人大代表乙：在经济发展的同时，不忘为子孙后代留下蓝天绿地、碧水青山。

感悟：（2分）

[话题二] 建设创新国家

人大代表丙：“神六”腾飞，我们倍感自豪；自主创新，成就飞天梦想。

人大代表丁：我们只有一条路——将更多的“中国制造”提升为“中国创造”。

启示：（2分）

[探究实践]

34. 一次晨会上，小明同学作了“我心中的荣辱观”的主题演讲。小明说：“……在飞速发展、日新月异的现代社会，是与非、美与丑、善与恶交织存在着，这让我们在满眼的纷乱中有些迷茫。我认为：大力弘扬社会主义荣辱观，是促进我们青少年健康成长的需要。”

树立社会主义荣辱观的“八个为荣、八个为耻”



我十分赞同他的观点。对此，我的理解是：_____

_____

_____

_____。（2分）

小明在演讲中说：“‘小事’见荣辱。我们应该学会用正确的荣辱观来思考生活中的‘小事’。”请你运用所学知识对下列“小事”进行思考、分析。（以下三种情境任选其二作答）（4分）

★升旗时，同学们深情地向国旗行礼，高唱国歌。

我的评价：_____

★考场里，好朋友传来试题的答案。

我的选择：_____

★进餐后，服务员建议我将吃剩的食物“打包”带回家。

我的打算：_____

7

2006 年湖南省常德市
初中毕业生学业考试历史试卷（课改实验区）

一、选择题（每小题 1 分，共 30 分。每小题只有一个最佳答案，请将各题答案的英文字母代号填入下列相应题号的括号内。）

1. 某同学利用暑假准备实地考察我国境内已知的最早人类遗址，他应该去（　）
   A. 陕西省　B. 北京市　C. 云南省　D. 浙江省
2. 下列农作物在中国开始种植的先后顺序是（　）
   ①水稻　②占城稻　③葡萄
   A. ①②③　B. ③①②　C. ②③①　D. ①③②
3. 商鞅变法的内容中，能反映中央集权思想的措施是（　）
   A. 土地私有　B. 奖励耕织　C. 奖励战功　D. 推行县制
4. 有人为曹操翻案时说：“如果说曹操篡汉是为汉贼，岂不是儿子产生老子？”这里“儿子产生老子”的含义是（　）
   A. 曹丕废汉自立使曹操背受骂名
   B. 曹丕废汉自立是从曹操开始的
   C. 曹操废汉自立是从曹丕开始的
   D. 曹操废汉自立使曹丕背受骂名
5. 江南经济开发是中国古代经济的一个重要增长点。下列各项与江南经济持续开发不相关的是（　）
   A. 东汉末年以来北方人口南迁
   B. 北魏孝文帝改革促进了江南经济的发展
   C. 隋朝大运河的开凿
   D. 南宋时流传着“苏湖熟，天下足”的谚语
6. 在唐朝之前，黄河流域一直是中国古代的经济文化中心，出现这一格局的原因主要在于黄河流域（　）
   A. 开发较早，农耕发达　B. 战乱较少，社会安定
   C. 建都较多，地位重要　D. 人口密集，劳力充足
7. 关于科举制的表述，不正确的是（　）
   A. 正式形成于隋炀帝时　B. 唐朝时分为明经科和进士科
   C. 明经科是做高官的主要途径　D. 明朝时考试内容限于四书五经
8. 下列遗址遗迹中最能体现国内民族团结友好的是（　）
   A. 秦兵马俑遗址　B. 大昭寺会盟碑
   C. 唐招提寺鉴真坐像　D. 敦煌莫高窟
9. 按时间先后顺序排列我国古代对北京的称呼（　）
   ①大都　②蓟　③京师　④涿郡
   A. ②④③①　B. ②④①③　C. ④②①③　D. ③②④①
10. 下列对宋代历史特点的描述，正确的是（　）
    A. 经济发达但文化上并不繁荣　B. 科技发达但政治上并不强大
    C. 军事强大但科技上并不先进　D. 政治强大但经济上并不发达
11. 西汉太中大夫东方朔撰文上书汉武帝，所用竹简需要两人抬进宫。以后改变这种携书不方便现象首次得益于发明了（　）
    A. 雕版印刷术　B. 活字印刷术　C. 造纸技术　D. 制墨技术
12. 清政府与西方资本主义国家的第一次军事较量是（　）
    A. 郑成功收复台湾　B. 雅克萨之战
    C. 中英鸦片战争　D. 甲午中日战争
13. 19 世纪末，中国近代化的核心内容是（　）
    A. 学习西方军事技术　B. 学习西方政治制度
    C. 学习西方经济技术　D. 学习西方自然科学
14. 南京是近代中国历史的缩影。下列史实不能印证这一观点的是（　）
    A. 八国联军侵华　B. 中华民国成立
    C. 日本法西斯制造屠杀惨案　D. 蒋家王朝覆灭
15. 人民公社化运动对我国国民经济造成严重伤害，其错误的实质是（　）
    A. 生产关系的调整不符合生产力的实际水平
    B. 打破国家财政收支平衡
    C. 破坏国民经济正常的比例关系
    D. 没有注意到生态环境的保护
16. 一位美国记者评论周恩来在某次重大会议中的作用时说：“周恩来并不打算改变任何一个坚持反共立场的领导人的态度，但是他改变了会议的航向。”这次会议是（　）
    A. 日内瓦会议　B. 万隆会议
    C. 第 26 届联合国大会　D. 上海 APEC 会议
17. 古代埃及、巴比伦、印度、中国被称为四大文明古国的最主要原因是（　）
    A. 人类最早居住的地区
    B. 创造了人类最早的文字
    C. 最先由原始社会进入奴隶社会
    D. 对人类文化贡献最大
18. 阿拉伯数字在我们的学习、工作和生活中运用相当广泛，它的发明者和传播者分别是（　）
    A. 古代印度人、巴比伦人　B. 古代阿拉伯人、罗马人
    C. 古代印度人、阿拉伯人　D. 古代阿拉伯人、埃及人
19. 文明冲撞与融合的方式多种多样。下列所举哪一项与其他三项明显不同？（　）
    A. 亚历山大大帝东征　B. 希波战争
    C. 罗马帝国的扩张　D. 马可·波罗来华
20. 英国资产阶级革命是英国历史的转折点，主要是因为（　）
    A. 处死了专制国王　B. 创立了议会民主制度
    C. 建立了君主立宪制　D. 1649 年建立共和国
21. 下列四国中，哪一个国家与其他三国走上资本主义道路的途径不同？（　）
    A. 英国　B. 法国　C. 美国　D. 俄国
22. 被誉为“南美解放者”的是（　）
    A. 玻利瓦尔　B. 圣马丁　C. 伊达尔哥　D. 苏克雷
23. 引起交通领域革命性变革的发明是（　）
    A. 蒸汽机　B. 电动机　C. 飞机　D. 内燃机
24. 大化改新和明治维新的共同点是（　）
    A. 摆脱了半殖民地的危机　B. 结束了闭关锁国的状态
    C. 加强了资产阶级统治　D. 学习了他国的先进经验
25. 三国同盟和三国协约的成员国中，位于最南边的国家是（　）
    A. 英国　B. 法国　C. 意大利　D. 奥匈帝国
26. 下列有关俄国十月革命的评价不正确的一项是（　）
    A. 推动了马列主义在世界的传播
    B. 是世界现代史的开端
    C. 鼓舞了被压迫民族的解放斗争
    D. 是建立无产阶级专政的第一次伟大尝试
27. 从世界范围看，开辟了第一个大规模反法西斯战场的国家是（　）
    A. 苏联　B. 英国　C. 美国　D. 中国
28. 联合国在促进国际和平与安全方面起了重要作用，决定组建联合国是在（　）
    A. 第一次世界大战前　B. 第一次世界大战期间
    C. 第二次世界大战期间　D. 第二次世界大战后
29. 关于欧洲联盟的表述不正确的是（　）
    A. 成立于 1993 年
    B. 是欧洲国家的政治军事集团
    C. 是世界多极化格局中重要的一极
    D. 促进了欧洲一体化的进程
30. 当今世界经济发展的重要趋势表现在（　）
    A. 全力追求现代化　B. 经济多极化
    C. 区域经济集团化与经济全球化　D. 美、欧、日三国鼎立

二、判题断（每小题 1 分，共 10 分。是对是错，请你当 裁判。正确的在题前括号内打“✓”，错误的打“×”。）

[　] 31. 春秋时期形成了“百家争鸣”的局面，其中孔子创立了儒家学派。
[　] 32. 元朝的统一促进了民族关系的发展，形成了一个新的民族——回族。
[　] 33. 明朝为了加强皇帝的专制统治，废除了自秦国以来行之一千余年的丞相制度。
[　] 34. 辛亥革命推翻了清朝统治，结束了两千多年的君主专制制度，实现了 20 世纪第一次历史巨变。
[　] 35. 第一颗人造地球卫星的发射，表明在“文革”期间由于广大群众、干部对“左”倾错误的抵制，科技领域仍然取得了一定成就。
[　] 36. 中美建交使中国改善了与西方大国的关系，致使中国在联合国的合法席位得以恢复。
[　] 37. 现存古代第一部比较完备的成文法典产生于西亚两河流域。
[　] 38. 萨拉托加大捷、章西保卫战、葛底斯堡大捷都是世界民族解放运动中的重大战役。
[　] 39. 巴黎和会与华盛顿会议均损害了中国的主权。
[　] 40. 1938 年春节，刚上初中的小强运用所学网络知识，给叔叔发了一张精美的电子贺卡。

三、材料分析题（每小题 10 分，共 20 分。）

41. 中国近代史既是中国沦为半殖民地半封建社会的历史，也是中国追随世界历史潮流，走向近代化的历史。阅读下列材料：

材料一：清朝大学士徐桐对有人把美国翻译成“美利坚”十分恼火，说我们中国什么都是美的，美国还有什么“美”的？我们中国什么都顺利，美国还有什么可“利”的？我们帝国军队的兵器无所不坚，美国还有什么

可“坚”吗？

——刘成禺《世载堂杂忆》

材料二：“是书何以作？曰为以夷攻夷而作，以夷款夷而作，为师夷长技以制夷而作。”

——《海国图志·序》

材料三：1862 年，清政府设立“京师同文馆”，培养外语和外交人才。学生最多时达 120 人，主要学习外文，聘有外籍老师任教。

——《中国历史》八年级上册第 25 页

材料四：上海轮船招商局创立后三年内，外轮损失 1300 万两（白银），湖北官办织布开办后，海南海关每年进口洋布减少十五万匹。

材料五：中华民国的主权属于国民全体，国内各民族一律平等，国民有人身、居住、财产、言论、结社、宗教信仰等自由。

——《中华民国临时约法》

请回答：

⑴ 材料一反映了清朝统治者是怎样认识清王朝和世界的？对此你是如何评价的？（4 分）

⑵ 材料二反映了谁的什么思想主张？（1 分）

⑶ 材料三、四反映了清政府中什么派别的活动？从这两则材料来看，他们的活动有什么作用？（3 分）

⑷ 根据材料五的内容分析，它体现了中国在近代化过程中的哪些主要进步？（2 分）

42. 阅读下列材料：

材料一：20 世纪 30 年代一位《纽约时报》的记者写道：“夜间敲门讨饭的人，可能是几个月或一年前在银行里爽快地签发过你的贷款，或者是在你所读的报纸上写过社论，或者是某家大地产公司的副经理……”

材料二：“值此我就职之际，同胞们肯定期望我以我国当前情势所要求坦率、果断来发表演说。……我们的国家过去经得起考验，今后还会经得起考验，复兴起来，繁荣下去……”

材料三：经济危机对日本的打击同样沉重，日本的工业生产大幅度下降，失业人数剧增，农民大批破产，阶级矛盾十分尖锐。以军部为核心的法西斯势力迅速抬头。

——《世界历史》下册

请回答：

⑴ 材料一反映了从何时何地爆发的经济危机的状况？（2 分）

⑵ 材料二是谁发表的演说？表明了他什么意图？他所实行的政策在美国资本主义发展史上有何作用？（6 分）

⑶ 根据材料三，日本经济危机发生后对中国发动了哪两次重大的侵华事变？（2 分）

四、问答题（共 3 道小题，第 43 题 13 分，第 44 题 13 分，第 45 题 14 分，共 40 分。）

43. 我国是一个统一的多民族国家，在历史上有过分裂时期，但统一始终是历史发展的主流。维护中国统一是中华儿女不变的追求。结合所学知识回答：

⑴ 中国历史上第一次大统一是什么？有什么重大意义？（4 分）

⑵ 汉武帝时期是怎样巩固大一统局面的？（3 分）

⑶ 近代以来，台湾与祖国大陆经历了哪两次大的分离和一次回归？两次分离的本质区别是什么？（4 分）

⑷ 你认为当前阻碍台湾与大陆统一的主要因素有哪些？（2 分）

44. 百余年的中国近代史，既是一部列强侵华史，又是一部中华民族的抗争史。结合有关史实回答下列问题：

⑴ 结合列强发动的主要侵华战争简要说明中国社会性质的变化。（3 分）

⑵ 中国人民取得的鸦片战争以来第一次完全胜利的民族战争是什么？简要说明它的历史意义。（5 分）

⑶ 结束了中国百年来任人宰割的屈辱历史的重大历史事件是什么？根据所学知识，你认为能够结束屈辱历史的主要原因有哪些？（5 分）

45. 第二次工业革命的浪潮形成于什么时候？与第一次工业革命相比具有怎样的特点？对殖民地半殖民地产生了怎样的影响？对此，中国社会各阶级阶层在 19 世纪末 20 世纪初进行了哪些抗争与探索？（14 分）

8 贵阳市2006年初中学业考试试卷（课改实验区）
思想品德·历史

思 想 品 德

一、请你选择（下列各题的备选答案中，只有一项是正确的或符合题意的，请将其字母填写在相应的题号下面。）

1. 对他人、对社会负责任的人，首先应该是（　）
   A. 对自己负责的人　　B. 社会地位很高的人
   C. 经济实力很强的人
2. 下列对于集体利益与个人利益关系的认识，正确的是（　）
   A. 集体利益与个人利益是相互对立的
   B. 集体利益与个人利益是相互依存的
   C. 集体利益与个人利益是互不相干的
3. 温家宝总理在十届全国人大四次会议工作报告中承诺：让全国人民共享改革发展成果；让每个孩子都有平等接受义务教育的权利；努力增加城乡居民收入……这说明中国共产党始终代表（　）
   A. 中国先进生产力的发展要求　　B. 中国先进文化的前进方向
   C. 中国最广大人民的根本利益
4. 某制药厂不重视技术创新，高价购买国外药品的现成配方，生产成本加大，药价高，在激烈的市场竞争中遭受挫折，濒临倒闭。你认为该制药厂遭受挫折的主要原因是（　）
   A. 缺乏资金运转　　B. 缺乏其他企业的帮助
   C. 缺乏科技创新能力
5. 2005年中国人民抗日战争暨世界反法西斯战争胜利60周年，全国各地开展了多种形式的纪念活动，极大地凝聚了民族精神。民族精神的核心是（　）
   A. 共产主义　　B. 爱国主义　　C. 集体主义
6. 在我国，最高国家权力机关是（　）
   A. 国务院　　B. 全国人民代表大会　　C. 最高人民法院
7. 江苏省华西村是我国农村先富起来的典范。该村书记吴仁宝说：“个人富了不算富，集体富了才算富；一村富了不算富，全国富了才算富。”他的这句话体现了（　）
   A. 社会主义共同富裕的根本原则
   B. 社会主义的根本任务
   C. 社会主义公有制经济为主体的根本原则
8. 我省自今年3月起，在全省范围内举行了一场以“热爱贵州，唱响贵州，建设贵州”为主题的“多彩贵州”歌唱大赛。这是我省多年来参与人数最多、历时最长的一次群众文化活动。这次活动的举行（　）
   A. 大力推动了贵州省科学技术的发展
   B. 有力促进了贵州省的精神文明建设
   C. 解决了贵州省发展过程中的一切难题
9. 对我国现在达到的小康水平的认识，错误的是（　）
   A. 我国现在达到的小康是高水平的、全面的小康
   B. 我国现在达到的小康是低水平的、不全面的小康
   C. 我国现在达到的小康是发展很不平衡的小康
10. 在当今社会，终身学习逐渐成为一种生活方式。终身学习既是个人可持续发展的要求，也是（　）
    A. 个人幸福的必然要求　　B. 家庭和谐的必然要求
    C. 社会发展的必然要求

二、请你参与（请按题目要求，完成参与任务。）

11. 在社会的舞台上，每个人都在扮演着不同的角色，而每一种角色往往都意味着一种责任。你现在最珍惜的角色是_____，其主要责任是_____；你将来最想扮演的角色是_____，其主要责任是_____。
12. 面对人口、资源、环境方面的国情，我国制定的基本国策是_____、_____。在保护环境、节约资源方面中学生能做的事有_____。（至少2件）
13. 为让一切劳动、知识、技术、管理和资本的活力竞相迸发，让一切创造社会财富的源泉充分涌流，党和政府倡导“四个尊重”，其内容是_____。国家为我们创业创造了良好的条件。作为个人，我们应该_____。
14. 在社会主义初级阶段，我国各族人民的共同理想是_____。要实现共同理想，我们必须始终保持谦虚谨慎、艰苦奋斗的作风。作为中学生，发扬艰苦奋斗的精神就应该在：学习上_____；生活上_____。

三、简要回答（紧扣题意，简明扼要。）

15. 李春燕是我省从江县壅里乡大堂村的一名乡村医生，中国102万乡村医生的杰出代表。2000年她从卫校毕业后回到家乡成为当地唯一的“赤脚医生”。5年来，她卖掉自己的家当，甚至是结婚戒指，不计得失地为贫困的乡亲们诊病治病。李春燕无怨无悔地为乡亲们服务的感人事迹，经新闻媒体报道后，引起了社会的强烈反响。她被评为央视2005年“感动中国”十大新闻人物之一。
    根据材料，请你回答：
    ⑴ 李春燕为承担责任付出了哪些？得到什么回报？

    ⑵ 请你用一句话评价李春燕。

16. 两个中学生争论关于在社会主义初级阶段应该以什么工作为中心的问题。甲同学认为：在我国现阶段，各项工作都必须服从和服务于经济建设；乙同学认为：在我国现阶段，各项工作都必须服从和服务于文化建设。
    你同意谁的观点？请简要说明理由。

17. 我国公民享有广泛的政治权利。我们要关心国家大事，积极参与政治生活，行使建议权和监督权。在我们行使建议权和监督权时，应注意哪些事项？

18. 小青是初三毕业班学生，她学习认真、成绩优异，老师、家长都对她寄予厚望。可是，最近每逢考试时，她就感到头昏，心跳加快，还总是问自己“万一我考不好怎么办？”“怎么连这样简单的问题都回答不出来？”……小青患上了考试焦虑症。
    请你运用所学知识告诉小青克服考试焦虑的办法。

四、辨别分析（运用所学知识作简要分析。）

19. 有人认为：“发展先进文化就是指加强社会主义思想道德建设。”

五、实践探究（阅读材料，结合课本知识按要求作答。）

20. 为认真学习贯彻胡锦涛总书记关于社会主义荣辱观的重要论述，某校团委要求各班开展形式多样的教育活动。初三⑴班决定围绕“以热爱祖国为荣、以危害祖国为耻”这一主题开展演讲比赛；初三⑵班决定针对中学生中存在的不良行为，结合“八荣八耻”的内容开一次讨论会。
    根据上述材料，请你按要求完成下列任务：
    ⑴ 假如你是初三⑴班学生，请你从九年级《思想品德》第五课和第六课中分别摘选符合演讲主题的文字材料，为写演讲稿作准备。（要求100字左右）

    ⑵ 假如你是初三⑵班学生，请你结合“八荣八耻”的内容，列举中学生中存在的不良行为。（至少3例）

    ⑶ 通过参加以上活动，你有什么感悟？

历　史

一、单项选择（每小题四个选项，只有一项符合题意，请将正确的选项填在相应的题号下面。）

1. 在中国近代历史上，第一个侵略中国的西方列强是（　）
A. 俄国　B. 法国　C. 日本　D. 英国

2. 将宝岛台湾割让给列强的不平等条约是（　）
A. 《马关条约》　B. 《南京条约》　C. 《北京条约》　D. 《辛丑条约》

3. 1895 年，假如你在北京参加科举考试，你将目睹到的历史事件是（　）
A. 火烧圆明园　B. 公车上书
C. 谭嗣同殉难　D. 八国联军侵略中国

4. 中国近代第一所由国家建立的最高学府是（　）
A. 北京师范大学　B. 京师大学堂
C. 同文馆　D. 清华大学

5. 贵阳市的“民生路”、“三民路”等路名，会让我们联想到下面哪一位历史人物？（　）
A. 康有为　B. 孙中山　C. 魏源　D. 李鸿章

6. 国共两党在第一次合作期间进行了伟大的北伐战争。北伐的主要对象是（　）
① 吴佩孚　② 孙传芳　③ 张作霖　④ 袁世凯
A. ①③④　B. ②③④　C. ①②③　D. ①②④

7. 下列运动中，彻底废除了在我国延续两千多年封建土地剥削制度的是（　）
A. 土地改革运动　B. 三大改造的完成
C. 人民公社化运动　D. 大跃进运动

8. 新中国成立后，为了巩固新生的人民政权，我们进行了抗美援朝。参加抗美援朝军队的名称是（　）
A. 红军　B. 八路军
C. 中国人民解放军　D. 中国人民志愿军

9. 西藏的和平解放，标志着祖国大陆基本获得统一。今年是西藏和平解放多少周年？（　）
A. 54 年　B. 55 年　C. 56 年　D. 57 年

10. 在天文学、数学、力学等许多领域均有杰出贡献，并被誉为“现代科学之父”的科学家是（　）
A. 爱因斯坦　B. 牛顿　C. 达尔文　D. 哥白尼

11. 在拉丁美洲独立运动中，被称为“南美解放者”的是（　）
A. 玻利瓦尔　B. 圣马丁　C. 伊达尔哥　D. 卡斯特罗

12. 《国际歌》作为世界无产阶级的革命战歌，它的诞生与下列哪一史实有关？（　）
A. 巴黎公社　B. 英国宪章运动
C. 俄国十月革命　D. 《共产党宣言》的发表

13. 第一次世界大战期间，德国属于下面哪一军事集团的成员？（　）
A. 协约国　B. 同盟国
C. 轴心国　D. 北大西洋公约组织

14. 在 1919 年召开的巴黎和会上起操纵作用的国家有（　）
A. 英、法、德　B. 英、日、美
C. 英、法、美　D. 英、法、日

15. 使美国摆脱 1929—1933 年经济危机的重大措施是（　）
A. 新经济政策　B. 马歇尔计划
C. 罗斯福新政　D. 战时共产主义政策

16. 曾在他的作品《格尔尼卡》中控诉了法西斯侵略暴行的艺术家是（　）
A. 达·芬奇　B. 毕加索　C. 莫奈　D. 凡·高

17. 以下是发生在第二次世界大战中的重大事件，按时间先后顺序排列正确的是（　）
① 雅尔塔会议　② 斯大林格勒保卫战　③ 百团大战　④ 日本偷袭珍珠港
A. ③④②⑤①　B. ④③②⑤①　C. ③②④⑤①　D. ④③①⑤②

18. 第二次世界大战结束后，欧洲资本主义经济的恢复得益于下列哪一个国家的援助？（　）
A. 苏联　B. 美国　C. 英国　D. 法国

二、材料解析与探究题

19. 下列图片分别记录了我国 20 世纪 70 年代以来发生的重大史实，请运用所学历史知识与图片提供的史实相连接，相信呈现在你眼前的是一条较清晰的历史发展线索。



在联合国大厦前飘扬的五星红旗

图 1



历史性的握手 周恩来迎接来访的美国总统

图 2



中英香港政权交接仪式

图 3

根据图片回答：

(1) 图 1 反映的史实发生在哪一年？

(2) 图 2 中访问中国的美国总统是谁？中美正式建立外交关系是什么时候？

(3) 图 3 反映的史实是什么？

(4) 三幅图片给你提供的共同信息是什么？

20. “共同体的目标应是：通过共同市场的建立和各成员国经济政策的逐步接近，在整个共同体内促进经济活动的和谐发展……以及各成员国间越来越密切的关系。”

——《欧洲经济共同体条约》

根据上述材料回答：

(1) “欧洲共同体”成立于何时？该组织是由哪些国家发起建立的？（任举出四个）

(2) “欧洲共同体”的建立对成员国的发展起了什么作用？反映了当今世界经济发展的什么趋势？

三、综合分析题

21. 中国的近代史是一部中华民族充满屈辱、灾难深重的历史，同时也是一部中华民族不怕牺牲、前仆后继捍卫民族尊严与国家主权的抗争史。请结合所学知识回答：

(1) 近代历史上给中华民族带来深重灾难的侵略战争有哪些？（举三例）

(2) 中华民族在近代抗击外来侵略的战争中，第一次取得完全胜利的是哪一次？它有何历史意义？

(3) 回顾近代中国人民的探索和抗争历程，你有何感想？

22. 在近代文明的历史上，思想的进步往往会对历史的进步产生巨大的影响。近代欧洲在 14 世纪和 17 世纪先后出现过两次思想解放运动，产生了一批又一批伟大的思想家，他们以其深刻的理论成果成为推动人类社会前进的思想先驱。

请结合所学历史知识回答：

(1) 欧洲近代两次思想解放运动分别是指哪两次？

(2) 两次思想解放运动中的代表人物主要有哪些？（各举两位）

(3) 在中国近代历史上，一批先进的知识分子受西方民主、平等、自由、博爱思想的影响，高举“民主”、“科学”的旗帜掀起了一场伟大的思想解放运动。请说出这次思想解放运动的名称是什么，代表人物有哪些（任举两人）。

9 云南省2006年高中(中专)招生考试政治试题(课改实验区)

一、选择题(下列各题的四个选项中，只有一个是最符合题意的答案，请选出并将其字母填入答题卷相应题号的空格内。每小题2分，共40分)

1. 中国共产党第十六届中央委员会第五次全体会议于2005年10月8日至11日在北京举行。会议审议通过了 (　　)
   A. 《关于落实科学发展观加强环境保护的决定》
   B. 《关于实施科技规划纲要增强自主创新能力的决定》
   C. 《关于推进社会主义新农村建设的若干意见》
   D. 《关于制定国民经济和社会发展第十一个五年规划的建议》
2. 胡锦涛总书记提出的要“……以团结互助为荣、以损人利己为耻；以诚实守信为荣、以见利忘义为耻；以遵纪守法为荣、以违法乱纪为耻；以艰苦奋斗为荣、以骄奢淫逸为耻”的“八荣八耻”是 (　　)
   A. 全体公民的最高行为准则
   B. 我国公民的基本道德规范
   C. 广大干部群众和学生应树立的社会主义荣辱观
   D. 广大干部群众和学生明确是非、善恶、美丑的主要法律标准
3. 下列选项中，对科学发展观的全面、准确的理解是 (　　)
   A. 坚持以人为本，全面、协调、可持续的发展观
   B. 坚持以实现人的全面发展为目标的发展观
   C. 坚持让发展的成果惠及全体人民的发展观
   D. 坚持统筹经济社会发展、人与自然和谐发展的发展观
4. 2005年12月26日，我国第二大水电站溪洛渡水电站正式开工仪式在_____举行。
   A. 四川省雷波县　　B. 云南省永善县
   C. 云南省永胜县　　D. 云南省罗平县
5. 2005年6月26日，北京奥组委宣布2008年北京奥运会的主题口号是 (　　)
   A. “北京欢迎你”
   B. “新北京，新奥运”
   C. “同一个世界，同一个梦想”
   D. “体育的盛会，人民的节日”
6. 2005年9月3日，纪念_____大会在北京隆重举行。 (　　)
   A. 联合国成立60周年
   B. 郑和下西洋600周年
   C. 台湾光复60周年
   D. 抗日战争暨世界反法西斯战争胜利60周年
7. 2006年2月9日，中央电视台播出《感动中国·2005年度人物评选》颁奖典礼。“神舟”六号航天员费俊龙、聂海胜及湖南怀化学院大学生洪战辉等十人被评为“感动中国十大年度人物”。同时，_____被授予特别奖。
   A. 三峡工程建设者　　B. 青藏铁路建设者
   C. “三下乡”活动志愿者　　D. “希望工程”志愿者
8. 花草树木是人们生活环境的一部分，国家为了美化、改善生活环境，花费很大的人力、物力，植草坪、种花卉、栽树木。但我们却常常看到有的人随意践踏草坪，擅入绿地，攀折花木，这种行为是 (　　)
   A. 扰乱公共秩序的违法行为　　B. 妨害社会管理秩序的违法行为
   C. 破坏经济秩序的犯罪行为　　D. 侵犯国家财产的犯罪行为
9. 我国宪法规定公民享有的最起码、最基本的权利，同时也是公民享有其他一切权利的先决条件是 (　　)
   A. 选举的权利　　B. 人身自由权利
   C. 生命健康权利　　D. 人格尊严权利
10. 在制定国家“十一五”规划的过程中，共有412万我国公民为“十一五”规划建言献策，这些意见被充分吸纳到规划的编制之中。公民为“十一五”规划建言献策，是在依法行使公民享有的 (　　)
    ① 建议权　② 言论自由权　③ 选举权　④ 参与国家政治生活的权利
    A. ②③④　　B. ①②③　　C. ①②④　　D. ①②③④
11. 下列做法，能体现遵循经济建设与环境保护协调发展这一环保原则的是 (　　)
    A. 某单位在改、扩建工程项目时，与防治污染设施同时设计，同时施工，同时投产
    B. 某环保部门既认识到产生环境问题的根源，又积极解决已经产生的环境问题
    C. 某些向环境排放污染物的单位和个人按规定向国家缴纳排污费
    D. 某些中小学校组织学生参加保护环境的宣传和调查活动
12. 在社会生活中，公共道德、学生守则、国家法律等，都是用来约束和调整人们行为的规范。其中，法律是一种特殊的行为规范。这是由于法律是 (　　)
    ① 由国家制定或认可的行为规范　② 以规定权利义务为内容的行为规范
    ③ 具有国家强制性和普遍约束力的行为规范　④ 靠舆论、习惯、信念的力量来保证实施的行为规范
    A. ①②③④　　B. ①②③　　C. ①②④　　D. ①③④
13. 个体书贩李某，经常在当地中小学校园门口兜售一些宣扬封建迷信、暴力凶杀、淫秽等思想和内容不健康的书刊、图片。为保护青少年学生的健康成长，公安机关依法对李某给予拘留和罚款的处罚。这表明 (　　)
    A. 法律对精神文明建设的主要内容作了明确规定
    B. 法律对建设精神文明的措施作了明确规定
    C. 法律具有规范、引导社会主义精神文明建设的功能
    D. 法律具有禁止、制裁损害精神文明建设行为的功能
14. 欠债不还、拾获他人遗失的钱物不还、损害别人的名誉、盗用他人的姓名等违法行为，都属于 (　　)
    A. 违宪行为　　C. 民事违法行为
    B. 刑事违法行为　　D. 行政违法行为
15. 乔丽是初二学生，开个体饭馆的爸爸以“女儿早晚是人家的人”、“上学花钱不挣钱”、“饭馆正缺人手”等理由，非让乔丽退学到饭馆帮忙不可。你认为乔丽爸爸的行为是 (　　)
    A. 合情合理合法的行为　　B. 为了乔丽健康成长的合法行为
    C. 违反义务教育法的严重违法行为　　D. 侵犯乔丽受教育权的违法行为
16. 人类社会从古到今变化发展的历史事实说明，人类社会向前发展是不以人的主观意志为转移的，而是受_____决定的。
    A. 生产关系的变革
    B. 社会制度的变革
    C. 生产关系一定要适应生产力发展的规律
    D. 生产力一定要适应生产关系发展的规律
17. 集思想性、艺术性、观赏性为一体的国产优秀影片《大东巴的女儿》，在2006年希腊——塞浦路斯国际电影节上荣获3项国际大奖。影片讲述了一位纳西族哑女通过不懈努力，终于成为纳西族舞王的浪漫动人故事，表现了纳西族坚韧、善良的民族精神，反映了当代云南少数民族幸福和谐的生活和积极进取的精神风貌。这从一个侧面表明了 (　　)
    A. 中国特色的社会主义文化，具有鲜明的民族性和强烈的时代感
    B. 要把弘扬和培育民族精神作为文化建设的基础工程
    C. 要博采各国文化之所长，吸收发达国家的文明成果
    D. 弘扬和培育民族精神，应努力吸收一切外国的优秀文化成果
18. 近年来，党和政府提出了建设社会主义新农村的伟大战略、对农村义务教育阶段的贫困学生实行“两免一补”(免书本费、杂费，补助寄宿学生生活费)政策、废止农业税条例等。这些重大举措体现了 (　　)
    ①“三个代表”重要思想　② 社会主义本质的必然要求　③ 实现共同富裕的必然要求　④ 全面建设小康社会的必然要求
    A. ①②③　　B. ②③④　　C. ①②④　　D. ①②③④

云南省一些中小学校开展了毒品预防教育活动，如参观戒毒所和禁毒教育图片展览、观看禁毒教育影视和召开主题班会等。回答19、20题。

19. 通过活动，同学们产生了以下的认识，其中正确的有 (　　)
    ① 吸毒是一种违法行为，对人体和社会有高危害性　② 走私、贩卖、运输、制造毒品的行为是犯罪行为，应依法严惩　③ 禁毒与云南边疆精神文明建设和物质文明建设关系不大　④ 青少年要珍爱生命，拒绝和远离毒品
    A. ①②④　　B. ①③④　　C. ②③④　　D. ①②③
20. 参加学校组织的禁毒教育活动，提高了我们的认识，也要求我们自觉做到 (　　)
    ① 不吸毒、不贩毒、不种毒　② 向亲朋好友宣传毒品的各种危害　③ 发现毒品或贩毒人员，及时向公安机关或学校报告　④ 积极参加惩治毒品罪犯和禁毒立法活动
    A. ①③④　　B. ①②④　　C. ②③④　　D. ①②③

二、判断题(判断正误，并将答案填写在答题卷相应题号的空格内，对的打“✓”，错的打“×”。每小题1分，共10分)

21. 我国公民的财产所有权和继承权是由宪法、民法、刑法、继承法等法律加以确认和保护的。(　　)
22. 在我国，公民所享有的权利和自由要以保证他人也同样享有这种权利为前提。(　　)
23. 《中华人民共和国治安管理处罚法》是处罚违法犯罪行为的有效法律武器。(　　)
24. 在市场经济条件下，经济活动的参与者包括生产者和销售者，只要依法规范他们的行为，就能保证经济活动的顺利进行。(　　)
25. 税收对调节经济增长、贫富差距具有重要作用。凡偷税、欠税、骗税、抗税的行为都是违法行为，都要受法律制裁。(　　)
26. 在我国，人民代表大会是国家的最高权力机关，拥有决定国家大事的最高权力，行使制定和修改宪法的立法权。(　　)

需要全本请访问 www.ertongbook.com