当代中国概论

高雄飞 主编

暨南大学出版社
中国·广州

需要全本请访问 www.ertongbook.com

图书在版编目（CIP）数据

当代中国概论/高雄飞主编. —广州：暨南大学出版社，2004.9
ISBN 7-81079-460-4

Ⅰ.当… Ⅱ.高… Ⅲ.中国—概况 Ⅳ.K92

中国版本图书馆 CIP 数据核字（2004）第 088265 号

出版发行：暨南大学出版社

地　址：中国广州暨南大学
电　话：编辑部（8620）85221601　85226593
营销部（8620）85225284　85228291　85220602（**邮购**）
传　真：（8620）85221583（**办公室**）　85223774（**营销部**）
邮　编：510630
网　址：http://www.jnupress.com　http://press.jnu.edu.cn

排　版：暨南大学出版社照排中心
印　刷：

开　本：787mm×960mm　1/16
印　张：16
字　数：301 千
版　次：2004 年 9 月第 1 版
印　次：2004 年 9 月第 1 次
印　数：1—3000 册

定　价：25.00 元

（暨大版图书如有印装质量问题，请与出版社营销部联系调换）

当代中国概论

主　编：高雄飞

副主编：李付安　程京武

编写者：（以编写章节为序）

李付安　程京武　郭海宏

卢　宁　龚红月　杜应娟

序

文化自觉与人才成长

蒋述卓

《当代中国概论》是一本关于中国国情和文化的书。对于广大大学生尤其是在中国内地求学的海外和港澳台学生而言，了解中国国情和文化是极其有益和重要的。

当今世界，文化多元化趋势日趋彰显，业已成为与经济全球化、政治多极化和信息网络化并列的世界发展的重要特征。在这种多元文化的语境下，“文化自觉”问题日益紧迫地凸显出来。什么是文化自觉？中国著名人类学家和社会学家费孝通先生对自己最先提出的这一命题是这样诠释的：文化自觉是当今时代的要求，并不是哪一个人的主观空想，它指的是生活在一定文化中的人对其文化有“自知之明”，明白它的来历、形成的过程、所具有的特色和它的发展趋向及其优点和弱点，懂得发挥优势，克服弱点。自知之明是为了加强文化转型的自主能力，取得适应新环境、新时代文化选择的自主地位（即对传统文化进行新的现代诠释，使其得到更新，有益于今天）。同时，“文化自觉”指的还是生活在不同文化中的人，在对自身文化有“自知之明”的基础上，了解其他文化及其与自身文化的关系，进而使自身文化为世界所用，成为世界文化新建构中不可或缺的重要组成部分。他指出，“文化自觉”在全球化过程中，就是在全球范围内实行和确定“和而不同”的文化关系。按照我的理解，费先生的诠释包括两个层次：其一，就国家和民族以及国家之间、民族之间关系而言，只有获得了“文化自觉”，才有可能最大限度地避免冲突，才有可能最为合理地实现融合，才有可能持久地推动发展，从而达到费孝通先生所倡导的“各美其美，美人之美，美美与共，天下大同”的理想境界（也即“和而不同”）。其二，就个体而言，作为文化主体的人，唯有做到“文化自觉”，在

对自身文化有正确认识的基础上，不断从其他文化中汲取有效营养，方能处理好个人与国家、集体、他人的关系，提高和完善自己的文化素养和处世能力，进而获得更大更多的发展自由。无论是对国家和民族，还是对个人，文化自觉的意义和影响都是无比深刻和重大的。它是我们认识自己、认识他者、认识世界的根本出发点和归宿。事实上，世界的事由之根就是“文化”。一个人不讲德不讲仁，不爱国，缺乏民族自豪感、自尊心和自信心，都是文化不自觉的时候；一个民族和国家霸道、贪婪的时候，就是文化不自觉在作祟的时候；国家与国家、地区与地区、人与人之间产生误解、隔阂、冲突甚至战争，都是文化不自觉的结果。“一国两制”构想伟大之根本处在于，它是对我国传统文化中“和而不同”重要思想的具体运用，是实现文化自觉后的一次实践创新。

这里，我想阐明并强调我从上述内容中引申的一个基本观点：就文化个体而言，实现文化自觉的过程，实质上是一定文化中的人的能力和素质不断提高和完善的过程，也即是一个学习和教育的过程。换言之，从文化教育学角度看，一个人的成长过程其实是其不断获得文化自觉的过程。德国伟大的思想家马克思说：“文化上的每一个进步都是迈向自由的进步。”对文化的每一次自觉，都代表着人的素质发展迈上了一个新台阶。大学是人才成长的重要时期，也是文化自觉的关键时期。大学生如何实现文化自觉？他们对祖国和民族的自豪感、责任感和使命感从哪里来？我认为，大学生文化自觉的实现，以及对祖国和民族情感的形成，首先必须建立在对祖国文化和国情的充分了解和正确认识上。认识是自觉和情感的最起码基础，缺乏认识的自觉是难以做到的，缺乏认识的情感是盲目的和不可持久的。这是客观规律，不能违背。随着中国社会、经济的飞速发展和改革开放的不断深入，中国与他国，特别是中国内地与港澳台的关系日趋紧密。在这种大背景下，对于在中国大陆求学的广大海外和港澳台学生而言，学习中国文化，了解中国国情，正确认识中国，进而实现文化自觉，就显得尤为迫切和必要。

作为中国华侨最高学府，暨南大学始终坚持“面向海外，面向港澳台”的办学方针和“宏教泽而系侨情”的办学宗旨，十分重视并不断加强对海外和港澳台学生的爱国主义、中华文化和中国国情教育，把它作为提高和完善他们文化素质的重要手段和途径。《当代中国概论》的出版，是我校在对外教育方面不断探索、不懈努力的又一有力印证。

综观该书，我感受最深的是该书科学而精巧的整体构思。该书站在时代的瞭望台上，把中国的政治、经济、文化、地理、民情等放到斩不断的历史长河中去“诉说”，通过纵向比较，弄清国情的来龙去脉，辨明社会发展的趋向；同时，站在“中国的大道上”，把中国的现状放在世界风云的大背景中来斟

需要全本请访问 www.ertongbook.com

酌，通过横向比较，找出水平差距，认准奋斗目标。更难能可贵的是，该书在纵横比较的同时，对中国面临的若干现实问题进行了多层次、全方位的辩证思考：既展示了我们前进路上的种种障碍，增强了改革发展的紧迫感；又讲明了业绩的辉煌和任务的艰巨，确立了历史的责任感；既在国情分析中给人以客观、冷静和希望，又从理论导向上给人以振奋、信心和力量。可以说，该书的整体构思是其最大的亮点。倘若读者能充分理解和把握该书的构思，并将它作为研读该书的基本路径，定会收到良好效果。当然，该书显然不是对中国国情和文化的详尽介绍。中国似一幅壮阔绵长的历史和现实画卷，纷繁厚重，不可能靠一本书就能全面绘制。该书只是从源流、国情和发展三个不同角度，对中国国情进行了宏观的历史扫描和理性梳理，力求从客观事实与理论分析的结合上，揭示中国近现代社会演进嬗变的种种必然，特别是揭示我国当代改革开放和现代化建设的必然以及实现中华民族伟大复兴的可能。

《当代中国概论》一书，是暨南大学部分社科理论工作者辛勤和智慧的结晶。它的出版，难能可贵，可喜可贺，在我校对外教育理论和实践上都是件极具意义和价值的好事。是为序!

2004 年 6 月

目　录

序 …… 蒋述卓 [1]

源 流 篇

第一章　当代中国社会演进的地理基础和历史前提 …… [2]
第一节　富饶的自然资源 …… [2]
一、得天独厚的地理环境 …… [2]
二、中国的国土资源 …… [11]
三、中国的生态状况 …… [15]
第二节　丰沛的人力资源 …… [18]
一、中国人口的数量状况 …… [18]
二、中国人口的质量状况 …… [21]
第三节　近代中国的痛苦年轮 …… [26]
一、古代中国的悠久历史和灿烂文化 …… [26]
二、世界大变局中的中国——难圆的富国强兵之梦 …… [30]
三、历史的必然选择 …… [40]

第二章　当代中国发展的历史背景 …… [45]
第一节　新中国的辉煌成就和曲折 …… [45]
一、新中国的辉煌成就 …… [45]
二、问题与偏差 …… [48]
三、曲折中的探索 …… [51]
第二节　当代中国的历史定位 …… [55]
一、社会主义初级阶段——当代中国所处的社会发展阶段 …… [56]
二、发展生产力——当代中国的根本任务 …… [59]
三、改革开放——当代中国的发展动力 …… [62]
第三节　当代中国的时代背景 …… [66]

一、和平与发展——当代中国应对的时代主题 …… [67]
二、经济全球化——当代中国面临的时代特征 …… [70]
三、新科技革命——当代中国所处的时代机遇 …… [74]

国 情 篇

第三章 当代中国的经济状况 …… [78]
第一节 公有制为主体、多种所有制经济共同发展的基本经济制度
…… [78]
一、公有制为主体、多种所有制经济共同发展的所有制结构 …… [78]
二、巩固和发展公有制经济 …… [80]
三、鼓励、支持和引导非公有制经济发展 …… [89]
第二节 按劳分配为主体、多种分配方式并存的分配制度 …… [92]
一、按劳分配为主体、多种分配方式并存的分配制度 …… [92]
二、“先富”、“共富”政策和效率优先、兼顾公平的分配原则 …… [95]
三、改革和完善社会保障制度 …… [97]
第三节 社会主义市场经济体制 …… [105]
一、计划和市场都是经济手段 …… [105]
二、市场经济体制优于计划经济体制 …… [108]
三、社会主义市场经济的基本框架 …… [111]

第四章 当代中国的政治状况 …… [117]
第一节 当代中国基本政治制度 …… [117]
一、人民代表大会制度 …… [117]
二、中国共产党领导的多党合作和政治协商制度 …… [122]
三、社会主义民主政治与法制 …… [130]
第二节 当代中国人权状况 …… [136]
一、人权建设 …… [136]
二、体现各民族共同发展的民族政策 …… [141]
三、实行信仰自由的宗教政策 …… [147]
第三节 华侨华人 …… [149]
一、华侨华人历史与现状 …… [149]
二、华侨对祖国的贡献 …… [150]
三、侨务政策 …… [152]

第五章　当代中国文化的特征及其发展 …… [154]
第一节　当代中国文化的现状 …… [154]
一、主导意义的文化形式 …… [154]
二、功能意义的文化形式 …… [159]
三、实践意义的文化形式 …… [165]
第二节　当代中国文化的性质 …… [169]
一、当代中国的文化性质及其价值取向 …… [169]
二、当代中国的文化体制及其改革 …… [175]
三、当代中国先进文化的起点与时代任务 …… [184]
第三节　当代中国文化的发展之路 …… [187]
一、当代中国文化发展的意义 …… [187]
二、当代中国文化发展的结构和进程 …… [191]
三、当代中国文化发展战略的初步设想 …… [193]

发展篇

第六章　当代中国的战略定位 …… [198]
第一节　新世纪的宣言——“三个代表” …… [198]
一、“三个代表”是中国发展的指导思想 …… [198]
二、与时俱进，开拓中国发展的新境界 …… [202]
三、发展是执政兴国的第一要务 …… [203]
第二节　全面建设小康社会，不断提高综合国力 …… [206]
一、人民生活总体达到小康水平 …… [206]
二、中国综合国力稳步上升 …… [210]
三、全面建设小康社会，不断提高综合国力 …… [212]
第三节　坚持独立自主的外交政策 …… [215]
一、外交政策的基本目标和基本内容 …… [215]
二、在和平共处五项原则基础上建立国际新秩序 …… [221]
三、反对霸权主义，维护世界和平 …… [223]
第四节　“一国两制”与祖国统一 …… [225]
一、“一国两制”理论的形成和发展 …… [226]
二、“一国两制”理论的基本内容及其实践 …… [228]
三、“一国两制”的重大意义 …… [231]

需要全本请访问 www.ertongbook.com

结束语　实现中华民族的伟大复兴 …… [235]
一、实现中华民族伟大复兴的基础和前提 …… [235]
二、实现中华民族伟大复兴的思路和决策 …… [236]
三、实现中华民族伟大复兴的前景和展望 …… [239]

主要参考书目 …… [242]
后记 …… [246]

当代中国概论

源流篇

第一章 当代中国社会演进的地理基础和历史前提

第一节 富饶的自然资源

一、得天独厚的地理环境

(一) 中国的位置、疆域和行政区划

中国位于亚洲大陆的东部，太平洋的西岸，有辽阔的领土和漫长的海岸线，是一个背陆面海、海陆兼备的国家。

中国是世界上面积最大的国家之一，领土面积有960万平方千米，约占世界陆地总面积的1/15，占亚洲面积的1/4，仅次于俄罗斯和加拿大，居世界第三位。

中国位于北半球，领土最北边是黑龙江省漠河以北，黑龙江主航道的中心线（北纬50度33分）；最南端是北纬4度附近南沙群岛的曾母暗沙。南北跨纬度近50度，长达5 500千米。当北方黑龙江省的白山黑水千里冰封之时，江南田野已是春耕大忙景象，而南海诸岛则是一派盛夏风光。中国是东半球的国家，领土最东端在约东经135度的乌苏里江和黑龙江的合流处，最西端在帕米尔高原乌孜别里山口（东经73度40分），横贯经度约62度，东西宽达5 200千米，东西时差4个多小时。乌苏里江旭日东升时刻，帕米尔高原依然是满天星斗。

中国陆地疆界绵延长达2.28万千米，与10多个国家相邻接。东北与朝鲜为邻；东北、西北与俄罗斯和独联体诸国接壤；北面是蒙古人民共和国；南接越南、老挝、缅甸；西部与阿富汗、巴基斯坦相接；西南毗邻印度、尼泊尔、不丹、锡金。

中国的大陆海岸线长达1.8万多千米，北起中国与朝鲜边界的鸭绿江口，

南到中国与越南交界的北仑河口。沿着中国内地的边缘，有广大的海域。渤海、黄海、东海、南海四海相连，环绕着中国的东部和东南部，呈现东北——西南向的弧形。这广阔无垠的“蓝色陆地”，总面积达470多万平方千米，在广阔的海域里，分布着5 000多个岛屿，它们绝大多数分布在东海和南海，总面积约80 000平方千米。远隔茫茫的海域，中国在东面与日本，东南面与菲律宾、马来西亚、印度尼西亚遥遥相望。

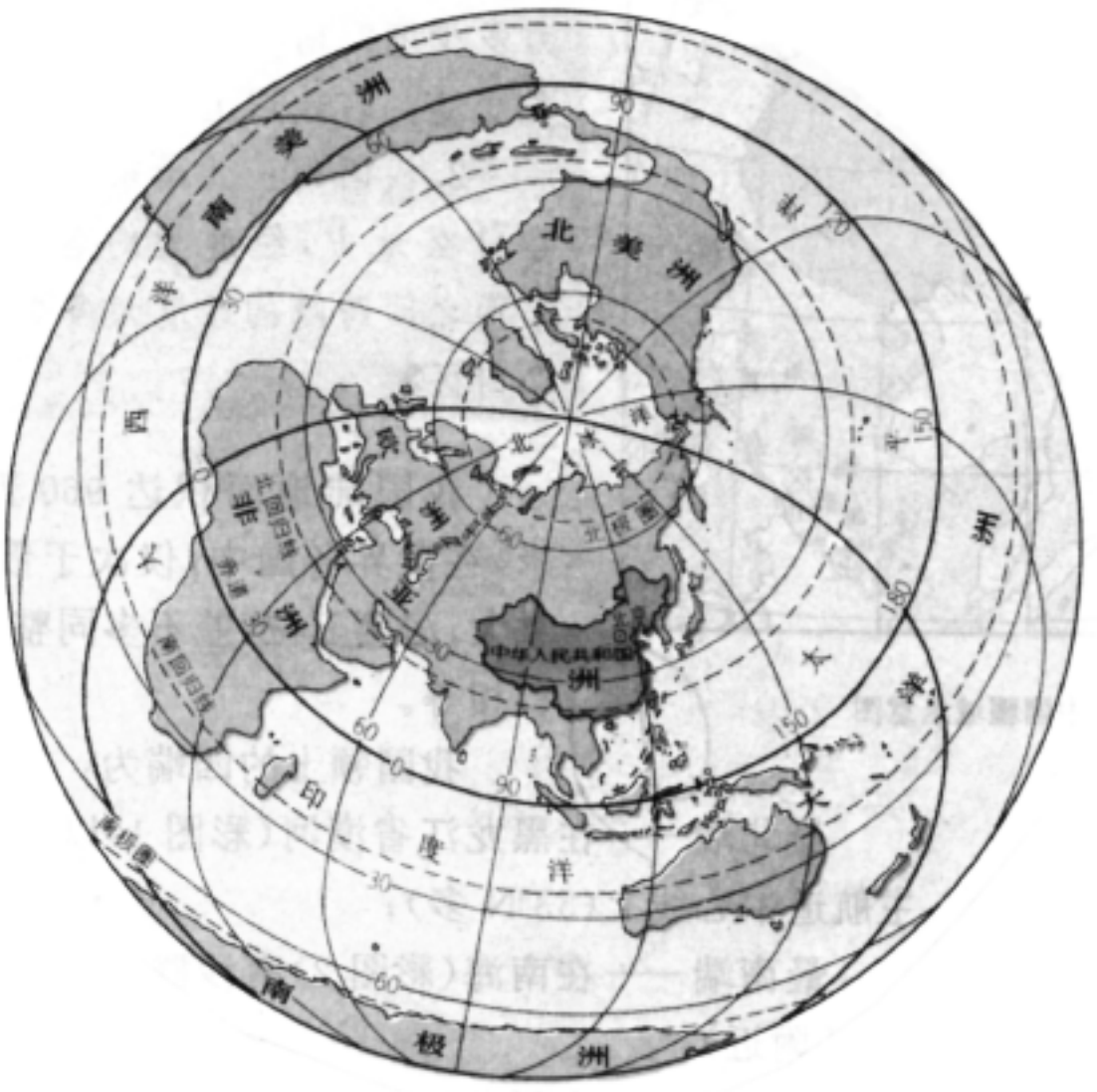

图1.1　中国在地球上的位置示意图
(图样来源：全国初中教科书．地理．第三册．人民教育出版社地理社会室，1993．第一版)

中国根据有利于社会主义制度，有利于国防，有利于对全国政治、经济的统一领导，有利于发挥中央和地方两个积极性，有利于全国各民族人民的团结，有利于民族区域自治，加强基层政权的原则，在全国划分了省（自治区、直辖市）、县（自治县、市、旗）、乡（镇、民族乡）三级行政区域。目前，中国行政区划为23个省、5个自治区、4个直辖市和香港、澳门两个特别行政区。

表 1.1　　中国行政区划简表

省（自治区、直辖市）	简　　称	省（自治区、直辖市）	简　　称
北京市	京	天津市	津
河北省	冀	山西省	晋
内蒙古自治区	内蒙古	辽宁省	辽
吉林省	吉	黑龙江	黑
上海市	沪	江苏省	苏
山东省	鲁	安徽省	皖
浙江省	浙	福建省	闽
江西省	赣	河南省	豫
湖北省	鄂	广东省	粤
海南省	琼	广西壮族自治区	桂
湖南省	湘	四川省	川或蜀
重庆市	渝	贵州省	黔或贵
云南省	滇或云	西藏自治区	藏
陕西省	陕或秦	甘肃省	甘或陇
青海省	青	宁夏回族自治区	宁
新疆维吾尔自治区	新	台湾省	台
香港特别行政区	港	澳门特别行政区	澳

（二）中国的地形

1. 地势西高东低，呈现四级阶梯

中国山河壮丽，千姿百态，地貌丰富多样：有巍峨连绵的群山、雄伟壮阔的高原；也有富饶肥美的盆地、坦荡无边的平原；还有逶迤的丘陵、起伏的沙漠。整个地势西高东低，呈四级阶梯形状分布。在中国的西南部，雄踞着被称为“世界屋脊”的青藏高原，平均海拔4 000米以上，是世界上地势最高的大高原，其周围有喜马拉雅山、昆仑山、祁连山、横断山围绕，形成中国地势最高的一级阶梯，也是东亚和南亚许多河流的发源地。越过青藏高原东部横断山脉和北部的昆仑山和祁连山，地势急剧下降，至大兴安岭、太行山、乌山和云贵高原东坡，大部分是海拔1 000～2 000米的高原和盆地，即内蒙古高原、黄土高原、云贵高原，塔里木盆地和四川盆地。这些高原和盆地，形成了中国地

势的第二级阶梯。自第二级阶梯东缘的大兴安岭、太行山、巫山和雪峰山以东，进入地势的第三级阶梯。这一阶梯大部地区海拔在500米左右，自北向南分布着东北平原、华北平原和长江中下游平原及大片低山丘陵区。第三级阶梯以东，是大陆向海洋延伸的大陆架和岛屿带。这里碧波万顷、白帆点点，岛屿星罗棋布，水深大部分不到200米，是第四级阶梯。这种西高东低呈阶梯形延伸到海的地势，有利于东面海洋的温暖空气深入内陆，带进大量水汽；又使长江、黄河等大河顺势滚滚东流入海，有利水路运输。多阶梯地势形成河流多级落差，蕴藏着丰富的水利资源。广阔的浅海大陆架，为开发海底资源和发展水产养殖、海洋渔业提供了有利条件。

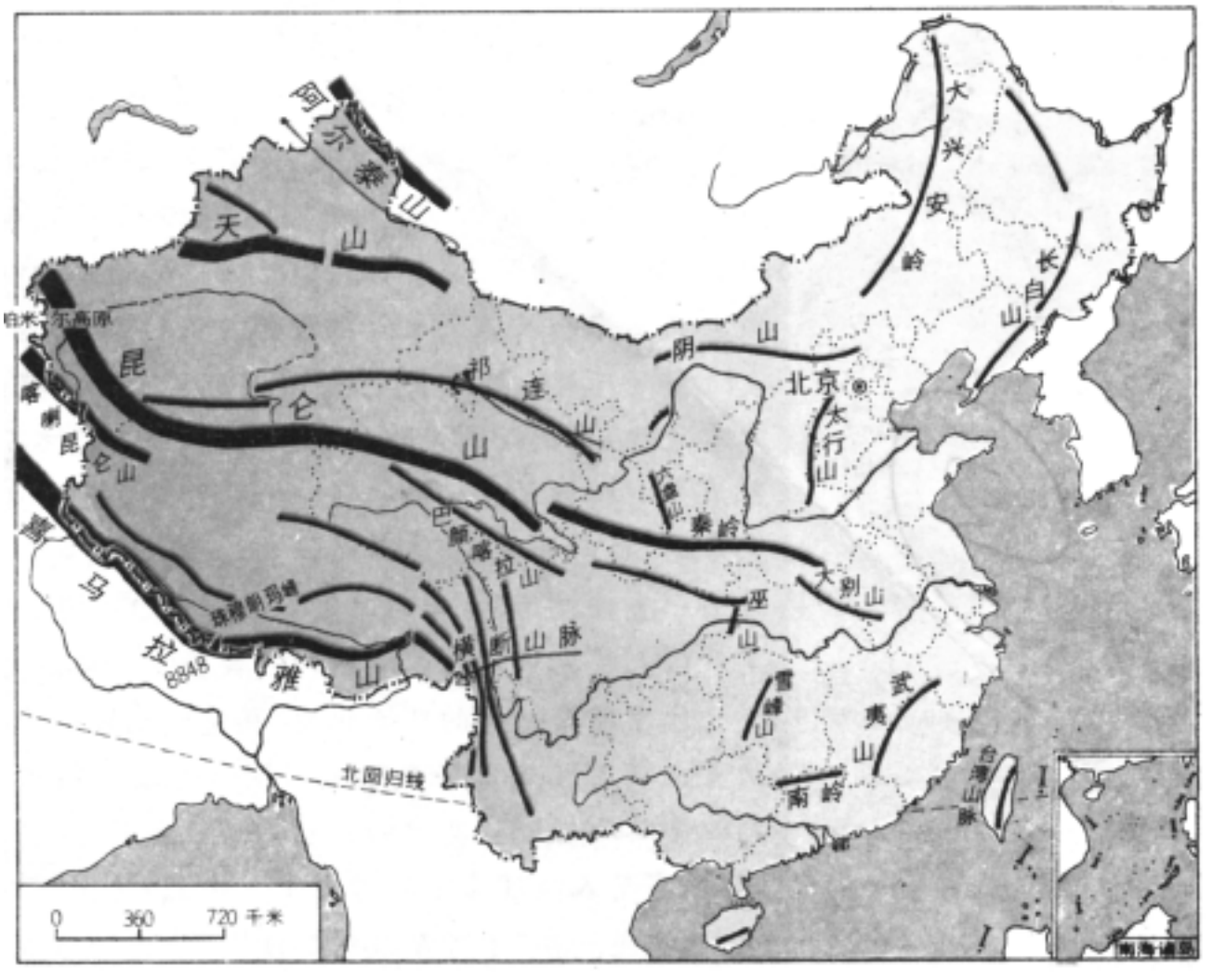

图1.2　中国地形梯级分布示意图

(图样来源：全国初中教科书．地理．第三册．人民教育出版社地理社会室，1993. 第一版)

2. 地形复杂多样，山区面积广大

中国自然地理的一个重要特点是地形复杂多样，山地、高原、盆地、平原、丘陵，各种地貌俱全，相互交织，景象万千。其中山地占陆地总面积的

33%，高原占26%，盆地占19%，平原占12%，丘陵占10%。山地和高原主要分布在西部，平原和丘陵主要分布在东部，各种地形具有不同的海拔高度、地势起伏和面积、坡度。复杂多样的地形，为社会经济的全面发展提供了有利条件，但也有交通不便、水源渗漏、水土流失、风沙侵蚀、农田相对较少的不利因素。

中国山地面积特别广大。以海拔高度为标量算，如果把广义的山地（包括山地、丘陵和高原都算在内）称为山区，那么全国2/3以上的面积均为山区。

表1.2　　中国领土面积海拔高度分配比例表

海拔（米）	500以下	500～1 000	1 000～2 000	2 000～5 000	7 500以上
占全国面积	16%	19%	28%	18%	19%

中国的山脉按其走向主要有五大体系：①东西走向：天山——阴山——燕山，昆仑山——秦岭——大别山，南岭山系。这些重要的山脉形成了中国地理上重要的分界线。②南北走向：贺兰山——六盘山——横断山等。③东北、西南走向：大兴安岭——太行山——巫山——雪峰山，长白山、武夷山，台湾山脉。这三列东北——西南走向的山脉多分布在东部，与三列东西走向的山脉相交错，大体呈现出网格状排列。④西北、东南走向：祁连山、阿尔泰山等。⑤弧形山脉：主要指喜马拉雅山与横断山脉构成的巨大山脉。

中国不仅是多山之国，许多大山千姿百态、雄伟壮丽，高度在1 000米以上，海拔3 500米以上的高山、极高山也很常见。全球最高峰——珠穆朗玛峰位于中国与尼泊尔的国境线上，其绝对高度为8 848.13米。这在世界地理上是独一无二的。

中国有广阔的高原，最著名的有青藏高原、内蒙古高原、黄土高原和云贵高原。青藏高原位于中国的西南部，是由一系列高大山脉组成的高原，地理学家称之为“山原”。它东西长2 700千米，南北宽1 400千米，面积250万平方千米，占全国面积的1/4以上。青藏高原上分布着许多长达一两千千米以上的大山脉，把整个高原分割成许多盆地和宽谷。高原上冰川众多，海拔5 000米以上的山脉终年积雪。它是高原地区的典型，是大自然奇特的实验室。它具有独特的高原气候和丰富的水力资源、地热资源和其他矿产资源，特有的高原气候和地形使其形成了特有的自然植被和动物。内蒙古高原在中国北部，西起甘肃、新疆和祁连山麓，东到大兴安岭，包括内蒙古自治区大部和甘肃、宁夏、河北一部。内蒙古高原没有显著的山脉和谷地。这一地区气候干旱，地表河流

少，保持着宽阔的地貌，平坦的高原上覆盖着一望无际的草原，肥美的草原构成了天然牧场的基础。黄土高原位于内蒙古高原南面，北起长城，南连秦岭，西抵祁连山，东到太行山，海拔在1 000～2 000米之间，面积60万平方千米。高原上绝大部分地面被黄土覆盖，平均厚度达50～80米，是世界上最典型的黄土地形区域。其中沟壑纵横，地貌多样，而夏季暴雨冲刷，加上植被稀薄，因而水土流失严重。云贵高原在云南和贵州两省境内，包括云南东部和贵州大部，其地势西高东低，海拔从2 000米降至1 000米，其间地面崎岖，山地、丘陵、平原、河谷、盆地交错。云贵高原中南部是世界上熔岩地形最典型的地区。

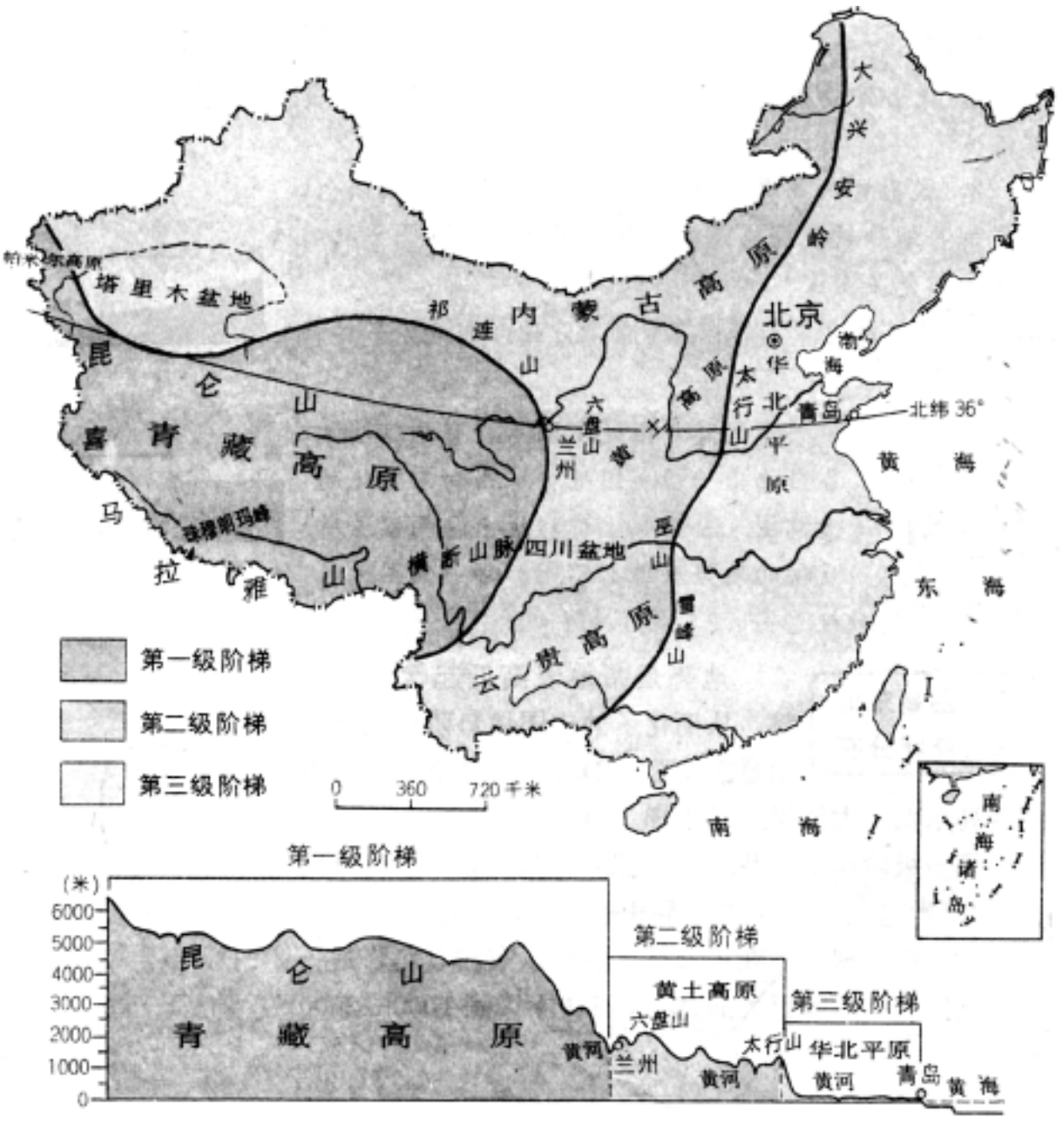

图1.3　中国山脉分布示意图

(图样来源：全国初中教科书．地理．第三册．人民教育出版社地理社会室，1993．第一版)

需要全本请访问 www.ertongbook.com