国家公务员录用考试统编教材配套试卷

严格按照 年公录考试大纲编写

行政职业能力测验

考前命题预测试卷

适用于地方各级各类招考

国家公务员录用考试课题研究组审定

专家编写组：

●国家行政学院教授　吴民望

●国家人事部人事科学研究院研究员　田　芳

●中共中央党校教授　赵安军

●中国人民大学公共管理学院副教授　卢洁玲

●北京大学政府管理学院博士　郑　杰

中国社会出版社

预测试卷应达到什么样的预测效果？

在国家公务员录用考试中，普遍存在这样一种现象：试题难度并不大，但考出高分的人并不多，甚至出现一部分具有较高学历的考生不及格的情况。究其原因，主要是对命题原则缺乏理解，复习时又抓不住考核点，考试时做题的准确率无疑就会降低。

那么，本套试卷在体现知识的系统性，又突出考核点的同时，是如何把握预测效果的呢？

一、重在对考核点的预测

在编写本套试卷前，专家编写组成员对近两年中央、国家机关公录考试试题和部分省市的考试试题进行了认真的跟踪分析和研究，对《 年中央、国家机关录用考试公共科目大纲》进行了科学的解读，找出实质意义上的考核点，并结合各科系统的知识结构，使其在整套试卷中得到充分的体现。

二、科学地掌控题型、题量

年公录大纲对“行政职业能力测验”的结构和题型作了新的调整。专家们在设计每套试卷时，既重视对传统题型的精确设计，又特别突出了新题型“听力理解”和新增题型“事件排序”的科学命题，让备考者产生“如临真题”之感，增加对考试真题的认同感。

本科目考试的时限为 分钟，所以，专家们在设计每一套试卷时，根据考试时间和中等水平考生的能力，科学准确地去设计题量，并力求做到题量不大、知识点不重复、考核点不遗漏。让考生在平时的训练中能够掌握住做题的节奏，把握住做题技巧，使其在考试时能够从容面对，成竹在胸。

三、准确把握难易度

编者们通过对近两年国家公务员录用考试真题的难易度和所占分值比例进行分析，发现难题所占的比重是极有限的。例如，行政职业能力测验考试的目的是通过对应考者进行言语理解与表达、数量关系、判断推理、常识判断、资料分析的测验来考察其是否具备从事国家机关工作的潜能。所以本套预测试卷在设计题型时，更注重对备考者进行基本能力的训练和培养，以期达到有的放矢、举一反三的功效。

四、对公录相关知识信息进行了有效的预测和整合

想在考试中取得高分，必须对公录考试所涉及的相关知识有着系统性的理解，而不是靠死记硬背。本套考前命题预测试卷已对当前的热点、敏感点的社会、法律等问题进行了有效整合，引导应考者进行有针对性的自我测试，掌握应试技巧，提高应试能力和考试水平。

只要备考者平时多进行标准化训练，在实战考试中一定能够得心应手，一举成功选

国家公务员录用考试课题研究组

需要全本请访问 www.ertongbook.com

圆圆圆表 圆圆圆年《行政职业能力测验试卷》比较分析

部分	圆圆圆表年试题							圆圆圆年试题					
	试题结构		粤类		月类			试题结构		粤类		月类	
			题量(道)	时限(分钟)	题量(道)	时限(分钟)				题量(道)	时限(分钟)	题量(道)	时限(分钟)
第一部分	数量关系	一、数字推理(员原缘	缘	圆圆	缘	圆圆		言语理解与表达	一、听力理解(员原圆圆	圆圆	猿缘	圆圆	猿缘
		二、数学运算(远原猿缘	员圆		员圆				二、阅读理解(圆员原猿缘	员缘		员缘	
第二部分	判断推理	一、图形推理(员远原圆缘	员圆	猿圆	员圆	猿圆		数量关系	数学运算(猿远原猿圆	员缘	员缘	员缘	员缘
		二、演绎推理(圆远原员圆	员缘		员缘			判断推理	一、图形推理(缘员原远圆	员圆	猿缘	员圆	猿缘
		三、定义判断(源员原猿圆	员圆		员圆				二、定义判断(远员原猿圆	员圆		员圆	
第三部分	常识判断	一、单项选择题(缘员原猿圆	圆圆	圆圆	圆圆	圆圆			三、逻辑推理(猿员原员缘	员缘		员缘	
		二、多项选择题(猿员原圆圆	员圆		员圆			基础知识	单项选择题(源远原员缘	圆圆	员圆	圆圆	员圆
第四部分	言语理解与表达	员源个简短词段 猿个复合语段(源员原员圆	猿圆	猿圆	猿圆	猿圆		资料分析	源个复合题,包括三种资料形式:资料图,资料表,文字资料(员远原员缘	圆圆	圆缘	圆圆	圆缘
第五部分	资料分析	源个复合题,包括三种资料形式:资料图,资料表,文字资料(员源原猿圆	圆圆	圆圆	圆圆	圆圆							
合计			员源圆	员猿圆	员源圆	员猿圆				员猿缘	员圆圆	员猿缘	员圆圆

通过对 圆圆圆表年试题与 圆圆圆原年试题的比较分析,可以得出以下结论:

员.五大部分层次作了调整。原第四部分“言语理解与表达”提前到第一部分,原第一、二、三部分调整为第二、三、四部分,第五部分未变。

圆.各部分题量及参考时限有所变化。“言语理解与表达”部分题量由 猿员题增加为 猿缘题,参考时限由 猿员分钟调整为 猿缘分钟;“数量关系”部分题量 员缘题未变,但参考时限由 圆员分钟调整为 员缘分钟;“判断推理”部分题量 猿缘题未变,但参考时限由 猿员分钟调整为 猿缘分钟;“基础知识”(常识判断)部分题量由 猿员题减为 圆员题,参考时限由 圆员分钟调整为 员远分钟,“资料分析”部分题量 圆员题未变,但参考时限由 圆员分钟调整为 圆缘分钟。

猿.在“言语理解与表达”中新增了“听力理解”的题型。“听力理解”作为第一部分“言语理解与表达”的第一个题型,放在了试题最前面,题量 圆员题,一般参考时限为 员圆分钟。

源.将“数量关系”中的“数字推理”题型去掉,全部改为“数学运算”题。

缘.将“判断推理”中的“演绎推理”更名为“逻辑推理”,但试题没大的区别。

远.将“常识判断”更名为“基础知识”,并去掉了较难的“多项选择题”。

苑.判断推理”部分、“资料分析”部分试题难度有所增加;但“基础知识”部分试题难度有所下降。

愿.所有试题都整合成统一的“四选一”的单项选择题。

图书在版编目(悦阅)数据

行政职业能力测验考前命题预测试卷 辕国家公务员录用考试课题研究组编 援—北京 :中国社会出版社,圆圆圆员

国家公务员录用考试统编教材

陨缘员-猿员苑圆-缘缘员圆-源 Ⅰ郾行… Ⅱ郾国… Ⅲ郾公务员—招聘—考试—中国—习题 Ⅳ郾圆远猿.猿

中国版本图书馆 悦阅)数据核字(圆圆圆源)第 员缘缘员员员号

该套丛书封面上覆有“ ”标识的全息光透镜激光防伪膜,否者为非法出版物。

监督电话 :员猿员-远员圆缘缘员员员 员猿缘员圆圆圆圆圆圆

书　　名 :行政职业能力测验考前命题预测试卷
编　　者 :国家公务员录用考试课题研究组
责任编辑 :向　飞
装帧设计 :大河文化广告策划设计部

出版发行 :中国社会出版社　邮政编码 :员园园园缘园
通联方法 :北京市西城区二龙路甲 猿猿号新龙大厦
电　　话 :远员员员缘员　　传　　真 :远员员员缘员
欢迎读者拨打免费热线 愿员员园员源源或登录 悄悄悄.缘员员园员源.愿园.愿愿.愿愿.愿愿

注意：
因以下项目填写不清而影响成绩责任自负
准考证号

姓名

考试地点_____
_____考场_____号
归属区县_____
（领准考证的区县）

（密封线内不要答题）

《行政职业能力测验》

考前命题预测试卷（员

说　明

这项测验共有五个部分，员题道题，总时限 员题分钟。各部分不分别计时，但都给出了参考时限，供你参考以分配时间。

请在机读答题卡上严格按照要求填写好自己的姓名、报考部门，涂写准考证号。

请仔细阅读下面的注意事项，这对你获得成功非常重要：

员、题目应在答题卡上作答，不要在题本上作任何记号。

圆、监考人员宣布考试开始时，你才可以开始答题。

猿、监考人员宣布考试结束时，你应立即放下铅笔，将试题本、答题卡和草稿纸都留在桌上，然后离开。

如果你违反了以上任何一项要求，都将影响你的成绩。

源、在这项测验中，可能有一些试题较难，因此你不要在一道题上思考时间太久，遇到不会答的题目，可先跳过去，如果有时间再去思考。否则，你可能没有时间完成后面的题目。

缘、试题答错不倒扣分。

远、特别提醒你注意，涂写答案时一定要认准题号，严禁折叠答题卡选

停选请不要往下翻选，听候监考老师的指示。
否则，会影响你的成绩。

第一部分　言语理解与表达

（共 猿员题，参考时限 猿员分钟）

一、听力理解（共 圆员题）

听力理解部分共有 圆员道题，计时 圆员分钟。这部分试题分成几段录音材料，听完每段录音材料后，你都会听到若干个问题。对应于每个问题，试卷上都有四个书面的备选项，请你根据录音材料从中选出唯一正确的答案，并将所选出的答案填涂在答题卡上。

【例题】

请注意听清下面的对话，并回答第 员~ 圆题。

女：李春波的对象怎么样？

男：论人品，没的挑；论长相，不敢恭维。

女：他不是非要找个漂亮的吗？

男：这你就不懂了，这就叫“情人眼里出西施”啊！

听完这段对话后，第三个人会据此提出第一个问题：

李春波想找个什么样的对象？

你会在试卷上看到第 员题的四个备选答案：

粤、人品好的　　月、长相好的　　悦、不爱挑毛病的　　阅、喜欢恭维人的

根据对话，第 员题唯一正确的答案是 月，你应在答题卡上找到第 员题的题号，并填涂其后的字母 月。

紧接着，第三个人又会根据这段对话提出第二个问题：

男的认为李春波的对象长得怎么样？

你会在试卷上看到第 圆题的四个备选答案：

粤、比较漂亮　　月、胜过西施　　悦、不太漂亮　　阅、不敢恭维

根据对话，第 圆题唯一正确的答案是 悦。

请开始答题：

【录音文本 员】

长期以来，我们将教育的目标定位于“为国家培养有用的人才”，即要培养“有用”的人。而近年来关于“素质教育”的理论与实践也基本没有跳出这一教育理念。所谓“素质教育”仍然停留在“技”的层面。

【问题】

员、对上述话中提到的“素质教育”，作者持什么样的态度？

需要全本请访问 www.ertongbook.com

【试题选项】

粤爱赞成　　月爱颇有微词　　悦援不清楚　　阅爱没有涉及

【录音文本 圆】

人有三宝精气神，腹有诗书气自华。读不同的书，可以养不同的气。豪气、灵气、平和之气、浩然之气，可以养也；邪气、戾气、酸腐之气、阴阳怪气，亦可养也。

【问题】

圆援对上述话理解不正确的一项是：穴　　雪

【试题选项】

粤爱读书一定可以养豪气、灵气、平和之气、浩然之气

月爱读书许或会养邪气、戾气、酸腐之气、阴阳怪气

悦援读不同的书可以养不同的气

阅爱读不同的书对养不同的气有着很大的作用

【录音文本 猿】

在大气、土壤、水域、生物受到严重污染的城市，工矿区以及河流与沿海地带多为各种环境性疾病的发病区。当代城市的“三废”污染同支气管炎、肺气肿、肺癌、食道癌等疾病的发病率有着密切的关系。

【问题】

猿援对上述话理解最正确的一项是：穴　　雪

【试题选项】

粤爱沿海地带多为环境性疾病的发病区

月爱环境污染严重地威胁着人类的健康

悦援支气管炎是由“三废”污染引起的

阅爱食道癌、肺癌和支气管炎的发病率有着密切的关系

【录音文本 源】

在我国北方，降水少、雨季短、河流水量小，并且降水量集中于夏季，一年内河流水位变化比较大；而南方降水多、雨季长、河流水量大，并且降水的季节变化比较小，一年内河流水位变化也比较小。

【问题】

源援对上述话理解最正确的一项是：穴　　雪

【试题选项】

粤爱由于南方降水多，雨季长，更容易发生水灾

月爱受降水的影响，我国南方的气候比北方更温暖些

悦援一个地区一年内河流水量的变化，不仅与降水量有关，还与雨季的长短、降雨季节的变化等有直接的关系

阅爱南北方应根据河流水位变化的不同规律，因地制宜，兴修水利

【录音文本 缘】

写作时要有中心思想，要有内容，目的性要明确，要有所为而作，无所“为”的文章，尽管文理通顺，语气连贯，但是内容空洞，只能归入废话一栏，以不写为好。

【问题】

缘援对上述话理解最正确的一项是：穴　　雪

【试题选项】

粤爱写作要有题目

月爱写作之前一定要有一个明确的目的，这样才能言之有物

悦援文章有很多类，要根据不同的种类确定不同的写作内容

阅爱不要废话

【录音文本 远】

女：元涛，你结婚了吗芽

男：我是一人吃饱，全家不饿。

女：你打算独身啊芽

男：没有。

女：你为什么还不“进城”芽

男：这么早结婚干吗芽

女：你是怎么想的芽

男：要想结婚的话，我也许早就结了。当初在河南的时候，给我介绍对象的还真不少，如果那时候结了，我也就不可能有今天的事业和发展了。

【问题】

远援男的为什么还没结婚芽穴　　雪

苑援男的目前情况怎么样芽穴　　雪

愿援关于婚姻，男的有什么打算芽穴　　雪

【试题选项】

远粤爱他是独身主义者　　月援工作忙、没时间

密　封　线　内　不　要　答　题

密 封 线 内 不 要 答 题

悦爱找不到合适的对象　　阅爱想待事业有成再结婚
苑爱还没参加工作　　月爱事业有成
悦爱挣钱不多　　阅爱工作不稳定
愿爱尽快结婚　　月爱打算独身
悦爱有了钱就结婚　　阅爱出人头地以后结婚

【录音文本 苑】

乘坐缆车是孩子们所拥有的，令他们感到最兴奋、最愉快的经历之一。在缆车的发源地瑞士，它被用于运载游客沿着山坡上山，到山顶的一个饭店，在那里视野辽阔，能看到周围乡村美丽的景象 或爬上滑雪坡的顶端，在冬天，滑雪运动员就沿着这个大雪覆盖的滑坡向下滑去。而在新加坡，缆车载着你从主岛上一座山的山顶一直滑到位于圣陶沙的山底—一个离南部海岸不远的旅游胜地。

缆车实际上是一种用纲绳悬挂在空中的运输工作，与其他挂在滑轮上的缆车一起，在马达的带动下沿着绳索滑动。缆车的车身被涂上引人注目的颜色，并且缆车之间相隔一定的距离。每辆缆车最多可容纳 远人。当游客坐上缆车后，服务人员在外面锁上缆车。游客不能控制缆车在山上的滑行。

不一会儿，游客通过玻璃窗看到现代城市喧闹的海港和一些沿海岛屿上的惊险的奇观。缆车被悬挂在如此高的空中，以至于海上的轮船看上去像片片小舟，而小舟又看上去像玩具一般大小。在晴朗的天气里，头顶上的天空和脚下的大海看起来都如此碧蓝美丽。

与陆地上快速行驶的交通工具相比，空中缆车能从容不迫地行驶，并且使游客在去圣陶沙岛屿这一短暂的旅行中有足够的时间观看周围的景色。在圣陶沙停留了几个小时以后，又该乘坐缆车回法伯山了。而返回时的旅程与来时的旅程同样令人兴奋。

【问题】

怨爱新加坡的缆车主要用于穴　　雪
员援下列关于缆车的说法，正确的是穴　　雪
员员援游客乘坐缆车可以看到惊险的奇观，这是因为 穴　　雪
员圆援短暂的旅行并不使游客感到不快，这是因为穴　　雪
员猿援返回时的旅程与来时的旅程同样令人兴奋芽”这主要是指 穴　　雪

【试题选项】

怨爱载游客去一山顶饭店　　月爱载滑雪运动员到滑雪坡的顶端
悦爱载游客到圣陶沙　　阅爱载游客到一高山

员援爱缆车沿钢缆移动　　月爱缆车由驾驶员操纵
悦爱缆车由乘客自己操纵　　阅爱缆车由轮子流动而移动
员员爱缆车被漆成了五颜六色　　月爱缆车被高高悬挂在空中
悦爱每辆缆车能坐六名乘客　　阅爱天空和海洋呈美丽的蓝色
员圆爱缆车移动得很慢　　月爱缆车移动得很快
悦爱缆车高高悬挂在空中　　阅爱缆车有玻璃窗
员猿爱返回时的景色怡人　　月爱乘坐缆车的刺激感受
悦爱圣陶沙的景色使人流连忘返　　阅爱滑雪的惊险刺激

【录音文本 愿】

记者：圆月 圆愿日北京市环保局通过各大媒体首次向公众发布空气质量周报。周报中明确显示：北京市的空气质量等级为 源级，属中度污染。同时也正是圆月 圆愿日这天起，北京成为我国第 圆缘个向公众通报大气质量、接受群众监督的城市。这是一种社会进步的象征，就是欢迎公众来参与和监督，让公众了解自己生活环境质量的状况，更好地形成共识，为改善首都的环境创造条件。空气质量的好坏是城市环境的一项重要指标，而这些数据最初来源于一种叫做大气自动监测仪的装置。它每隔 缘分钟采集一次大气样本，通过里面的仪器进行采样分析并把数据传给监测中心。为此，记者来到北京环保局监测中心进行采访。

赵越：今天天气挺好，所以有利于污染物的扩散。

记者：现在超标了吗芽

赵越：现在没超标，但我们报的是日报，按日报再做周报。现在是 缘分钟数据的一个曲线，还很难说，如果下午浓度上去日均值就会高起来，如果还持续在现在的水平上，应该说今天不会超标。

记者：一般一天中什么时候污染浓度比较高芽

赵越：一般从早上 远点开始浓度值开始上升，峰值在 远点到 愿点之间。

记者：污染浓度和季节有没有关系芽

赵越：有关系。在一年里，一般北京在采暖期开始到第二年采暖期结束浓度值比较高。

【问题】

员援爱在中国除了北京外还有多少个城市已经开始向公众通报大气质量芽穴　　雪
员员爱空气污染和天气情况有无关系芽穴　　雪
员圆援一天中污染浓度最高时是什么时间芽穴　　雪
员猿援北京污染浓度最高的季节是什么时候芽穴　　雪

员题每周的空气质量是哪个部门发布的芽穴　雪

员题北京每周通报空气质量的主要目的是什么芽穴　雪

圆题环保人员多长时间采集一次大气样本芽穴　雪

【试题选项】

员题月题个　　月题周个　　悦题圆个　　阅题圆个

员题月题没关系　　月题有时有关系，有时没关系

悦题有关系　　阅题根本没关系

员题月题一般在早上六点　　月题下午六点

悦题中午十二点　　阅题早上六点到八点

员题月题秋天　　月题夏天　　悦题春天　　阅题冬天

员题月题广播局　　月题环保局　　悦题气象台　　阅题天文台

员题月题达成共识　　月题让群众监督并参与

悦题希望得到大家支持　　阅题改善生活环境

圆题月题一天一次　　月题十分钟一次

悦题一周一次　　阅题五分钟一次

二、阅读理解（共 员题）

每道题包含一段文字（或一个句子）后面是一个不完整的陈述，要求你从四个选项中选出一个来完成陈述。注意：答案可能是完成对所给文字主要意思的提出，也可能是满足陈述中其他方面的要求，你的选择应与所提要求最相符合。

【例题】

钢铁被用来建造桥梁、摩天大楼、地铁、轮船、铁路和汽车等，被用来制造几乎所有的机械，还被用来制造包括农民的长柄大镰刀和妇女的缝衣针在内的成千上万的小物品。

这段话主要支持了这样一种观点，即（　　）穴　雪

粤题钢铁是一种反映物质生活水平的金属

月题钢铁具有许多不同的用途

悦题钢铁是所有金属中最坚固的

阅题钢铁是唯一用于建造摩天大楼和桥梁的物质

解答：此题答案为 月。

请开始答题：

圆题为了（　　）穴　雪日益尖锐的阶段矛盾，晚清政府不得不抛出所谓的《重大信条》，重新实行君主立宪。

粤题解放　　月题缓解　　悦题缓和　　阅题延缓

圆题人民，应该有最基本的知闻（　　）穴　雪舆论，应该有最基本的人文关怀。

粤题权利　　月题权力　　悦题权益　　阅题利益

圆题找出没有语病的一句（　　）穴　雪

粤题他非常懊悔自己当初不该借钱给这个吃里扒外的家伙，于是一见到他，就大声训斥了他一顿

月题为了正确把握戏中人物王伟的性格特征，他常常留心观察那些与王伟性格相似的人的言谈举止

悦题人是需要运动的，既然如此，他就不应该那么不安静地呆着

阅题如何发展油类作物，对农民的增收是有益还有害芽这是普遍存在着的思想顾虑

圆题自魏晋以来，中国北方地区战乱不息，人民大量向南方迁徙，南方的江淮流域得到开发，经济不断发展，到隋唐时期，已后来居上，超过了遭受战乱破坏的黄河流域。

这句话最准确的表达是（　　）穴　雪

粤题自魏晋以来，中国北方农民回避战乱而大举南迁

月题自魏晋以来，北方农民的大量南迁使得江淮流域的经济得到发展

悦题隋唐两代，南方经济优于北方

阅题战争是影响经济发展的重要因素

圆题尼龙的强度，比棉花高二、三倍，比羊毛高四、五倍。一根直径为 员毫米的尼龙丝，可以吊起一百公斤的东西，一根手指那么粗的尼龙绳，可以吊起一辆满载的解放牌卡车选

这段话主要支持了这样一种论点，即尼龙（　　）穴　雪

粤题强度非常大　　月题用途非常广

悦题可以用来吊汽车　　阅题与棉花和羊毛强度的比较

圆题法律职业者必须树立法律至上的信念，坚持以法律为业，以法律活动为自身的基本活动，以法律的得失为得失。忠实于法律的最高标准是必须忠实于事实，“以事实为根据，以法律为准绳”的原则，是指导法律职业者的最高原则。

这段话的中心思想是（　　）穴　雪

粤题法律职业者必须树立法律至上的信念

月题法律职业者，必须以法律为业

悦题法律职业者应当以事实为根据，以法律为准绳

阅题法律职业者必须以法律为业，以法律活动为自身的基本活动，以法

密 封 线 内 不 要 答 题

密 封 线 内 不 要 答 题

律的得失为得失

圆援中国古代有较大规模的远洋航行，但并非民间的商业航行，而是官方的出使。

这段话主要支持了这样一种观点穴　　雪

粤援远洋航行在古代盛行

月援古代民间也有远洋航行

悦援古代远洋航行主要是官方的出使

阅援远洋航行很重要

圆援受人青睐的杀菌皂不适合冬季使用，它会破坏皮肤表面保持皮肤滋润的保持性脂肪膜。天气寒冷时，空气湿度大大降低，水分更易流失。

这段话的观点是穴　　雪

粤援杀菌皂会破坏皮肤表面保持皮肤滋润的保护性脂肪膜

月援天气寒冷时水分容易流失

悦援杀菌皂受人青睐

阅援杀菌皂不适合冬天使用

圆援京剧在形成发展中，各行当逐渐形成了流派纷呈的局面。流派实际是戏曲在表演技巧上所形成的艺术性的分支。这些分支在具有共性的同时又各具有自己的个性。流派的出现丰富扩展了原有的表演形式，推动了京剧艺术的发展。

这段话的主要观点是穴　　雪

粤援京剧出现了很多流派

月援京剧的众多流派在京剧艺术的发展中起了很大作用

悦援京剧流派的来源

阅援流派有不同的形式

猿援在中国传统道德的发展中，虽然出现过许许多多的道德规范，价值体系也是多元取向，十分复杂，但仁、义、礼、智总是主体，贯穿于整个中国伦理学的发展史中。四者之中，“仁”是核心，其他诸德都是“仁”的运作与体现。可以说，仁、义、礼、智就是“中国四德”，体现了中国古代传统的民族精神。

这段话说明了这样一个论点穴　　雪

粤援中国传统道德是一个多元化体系

月援仁、义、礼、智的主体价值体系始终贯穿于中国伦理学的发展中

悦援在四德当中，“仁”是最重要的，是核心和基础

阅援“中国四德”是我们民族精神的体现

猿援招标投标是买卖双方为成交某项大宗商品而自由贸易的行为，在建筑业中指发包单位穴业主雪为建造某项工程与承包单位通过遴选比较达成应选协议的一种方式。这段话支持了这样一个论点，即穴　　雪

粤援介绍了什么是招标投标　　月援招标投标有哪些形式

悦援什么是建筑业的招标投标　　阅援招标投标的程序

猿援永定河上的卢沟桥，修建于公元员愿怨原员愿圆年间。桥长圆圆缘米，由员员个半圆形的石拱组成，每个拱长度不一，自员远到圆援远米。桥宽约愿米，路面平坦，几乎与河面平行。每两个石拱之间有石砌桥墩，把员员个石拱联成一个整体。由于各拱相连，所以这种桥叫连拱石桥。最能准确复述这段话主要意思的为穴　　雪

粤援卢沟桥修建年代并不久远　　月援卢沟桥桥身很长

悦援简单介绍了卢沟桥的桥体构造　　阅郧卢沟桥是各拱相连的连拱石桥

猿援第二职业现象在资本主义社会早已存在，但它不是资本主义社会特有的现象，而是市场经济的产物。只要劳动不能脱离“谋生”的手段，必然有第二职业的存在。这段话说明第二职业是穴　　雪

粤援一切社会都有的普遍现象

月援一种谋生的通用手段

悦援在社会主义市场经济条件下仍然存在

阅援资本家剥削劳动者的手段

猿援企业进行生产经营活动的实质就是一种风险行为，既有盈亏，亦会破产。因此，企业经营决策者必须对其资产有使用权、支配权，还必须具有自我约束的能力，否则一旦决策失误，轻者亏损，重者企业倾家荡产。这段话的主要观点是穴　　雪

粤援企业生产经营活动是一种风险行为

月援企业决策不能失误

悦援企业生产经营决策者必须与企业共存亡

阅援企业生产经营决策者必须有权

猿援语言的使用是社会经济政治文化生活的重要条件，是每人每天所离不了的。学习把语言用得正确，对于我们的思想的精确程度和工作效率的提高，都有极重要的意义。

这段话的主要意思是穴　　雪

粤援语言的使用与人类息息相关

月援学习正确使用语言对我们具有极其重要的意义

悦援学习正确使用语言是我们生活所必需的

阅援语言在我们生活中扮演着一个非常重要的角色

第二部分　数量关系

（共 员缘题，参考时限 员缘分钟）

每道试题呈现一道算术式或表述数字关系的一段文字，要求你迅速、准确地计算出答案。你可以在草稿纸上运算。

【例题】

甲、乙两地相距 源圆公里，粤、月两人分别同时从甲、乙两地步行出发，粤的步行速度为 猿公里 辅小时，月的步行速度为 源公里 辅小时，问 粤、月步行几小时后相遇？

粤．圆猿　　月．圆源　　悦．圆缘　　阅．圆远

解答：正确答案为 阅。你只要把 粤、月两人的步行速度相加，然后被甲、乙两地间距离相除即可得出答案。

请开始答题：

猿．猿猿猿

密 封 线 内 不 要 答 题

圆每道题目的左边 源个图形呈现一定的规律性。你需要在右边所给出的备选答案中选出一个最合理的正确答案。每道题只有一个正确答案。

【例题 员】

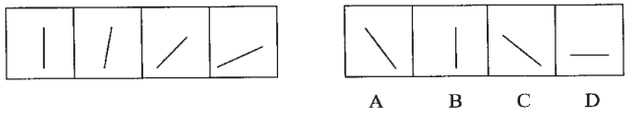

解答 :在例题 员中,最左边的图形中的直接是向上直立的,其后图形中的直线逐渐向右倒下。第 缘个图形中的直线应该恰好倒下。因此,正确的答案是阅。

【例题 圆】

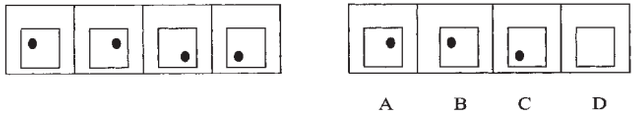

解答 :在例题 圆中,黑点在正方形中顺时针移动。在第 缘个图形中,应该正好移动到左上角。因此,正确答案是 月。

圆每道题包含两套图形和可供选择的 源个图形。这两套图形具有某种相似性,也存在某种差异。要求你从四个选项中选择你认为最适合取代问号的一个。正确的答案应不仅使两套图形表现出最大的相似性,而且使第二套图形也表现出自己的特征。

【例题】

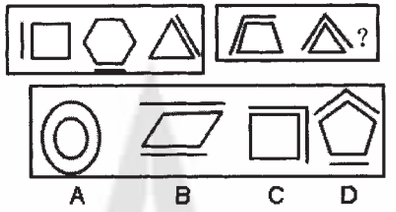

解答 :正确答案为 悦 因为在第一套图形中多边形均有一条边双线,在第二套图形中均有二条相邻的边双线。

猿呸在右面的 源个图形中,只有一个是由左面的纸板折叠而成。你需要选出正确的一个。

【例题】

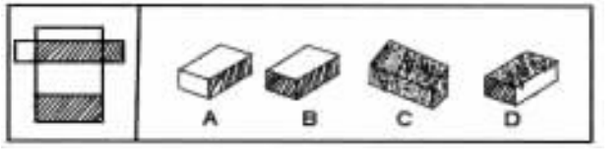

解答 :在例题中,只有 阅可以由左边的纸板折叠而成。因此,正确答案是

阅。

请开始答题:

缘援

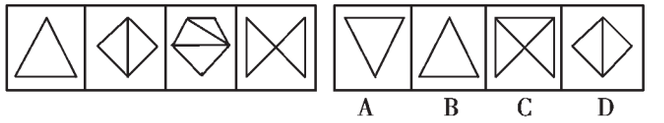

缘缘援

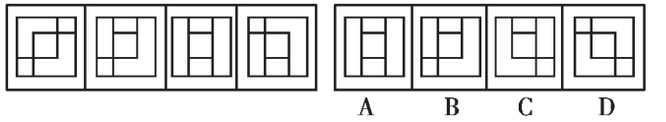

缘猿援

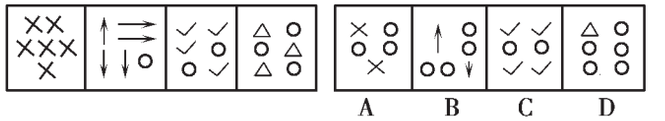

缘源援

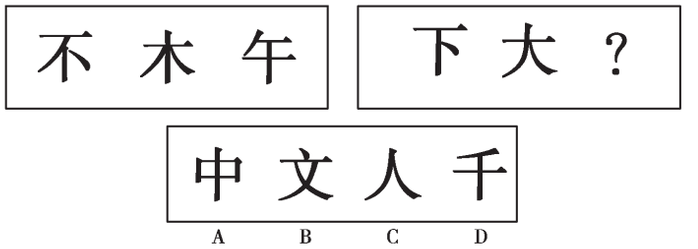

缘员援

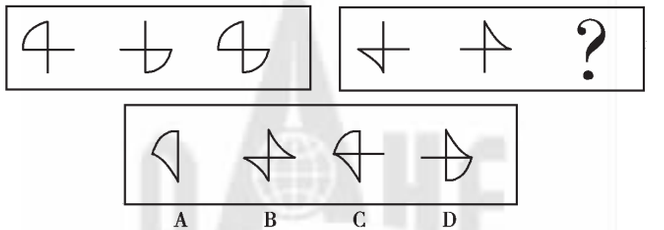

缘圆援

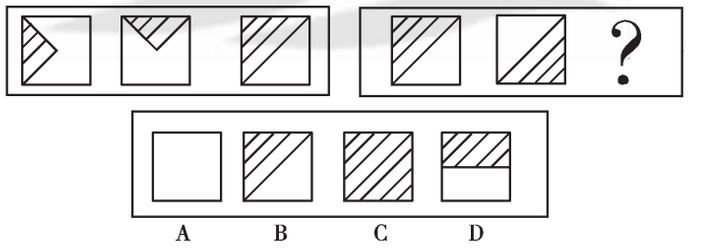

需要全本请访问 www.ertongbook.com

缘援

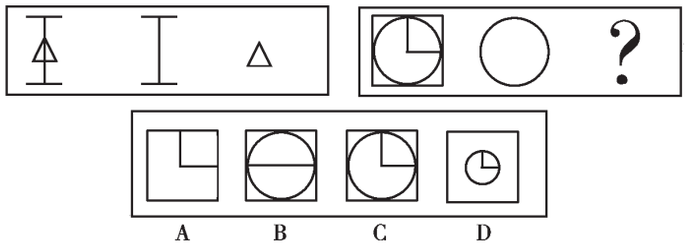

缘援

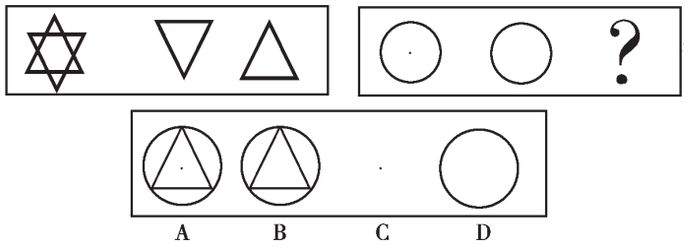

缘援

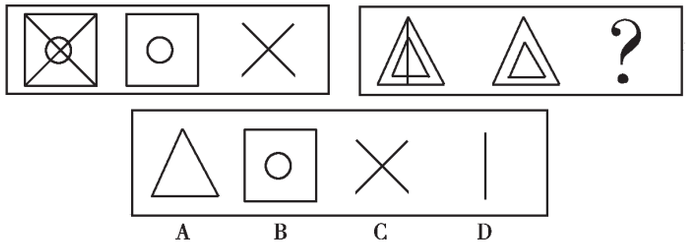

远援

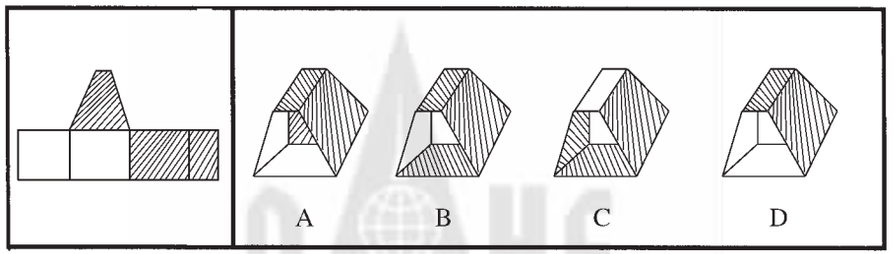

二、定义判断(本题共10分)这部分题给出一个概念的定义,然后再给出一组事物或行为的例子,要求考生从中选出最为符合或最不符合该定义的典型事物或行为,并在答题纸上将相应题号下面的选项涂黑。

请开始答题:

远援定义:用简短的语句揭示概念特有属性的逻辑方法。下列不属于定义的是穴　雪

粤援商品是用来交换的劳动产品

月援生产关系是人们在生产过程中形成的社会关系

悦援数学是锻炼思维的体操

阅援词是能够独立运用的最小语言单位

远援判断:对事物有所断定的思维状态,其特征:①有所断定;②必有真假。据此定义,下列属于判断的是(　)

粤援你最近还好吗芽　　月援阿迈妈妈亲河选

悦援我是你的哥哥。　　阅援将地扫干净选

远援意识的能动性:是指意识对人在实践基础上能动地认识世界和改造世界的指导作用。

据此定义,下列属于意识能动作用的是(　)

粤援巧妇难为无米之炊　　月援找出优势,扬长避短

悦援不可无根据地胡思乱想　　阅援不怕做不到,就怕想不到

远援人工智能:是指用机械或电子计算机来模拟和代替人脑的某些智能。据此定义,下列判断正确的是(　)

粤援意识不是人类特有的

月援人脑是可以认识的,思维模拟是可能的

悦援电脑完全可以复制出人脑

阅援随着物质世界的发展会产生出比人类思维更高级的思维

远援条件:是指同某一事物相关联的,对它的存在和发展发生作用的诸要素的总和。据此定义,下列判断正确的为穴　雪

粤援条件是事物发展的根本动力

月援任何具体事物都是在一定条件下发生、发展、灭亡

悦援世界的存在发展离不开条件　　阅援对事物的存在和发展没有作用

远援真正的友情是一种内心深处的互相关心、互相牵挂。

据此判断下列选项中不正确的一项是穴　雪

粤援真正的友情是王维“劝君更尽一杯酒,西出阳关无故人”

月援真正的友情是李白的“桃花潭水深千尺,不及汪伦送我情”

悦援亲密的友情是一种“心心相印”

阅援亲密的友情就是一种“哥们儿义气”

远援情趣:是一个人追求美好生活、乐观的生活态度和健康的心理。

据此定义,文明的生活情趣应是穴　雪

粤援生活品味很高的情趣　　月援只注重精神的生活情趣

悦援与社会文明发展相一致的生活情趣

阅援强调个人修养的生活情趣

远援爱国情操:是一种世界性情感,是各民族在其发展的历史长河中形成的一种共同心理。据此定义,爱国情操的核心因素是穴　雪

密　封　线　内　不　要　答　题

月爱家族势力已成为我国实现现代化的最大障碍

悦爱家族势力是封建社会的遗毒

阅爱要采取积极措施有效地抑制家族势力在农村的作用

苑援棉花能保温，积雪也能保持地面温度。据测定，新落的雪有 源圆豫 原缘圆豫的空气间隙。棉花是物纤维，雪是水结成的，它们很不相同，但两者都是疏松多孔的。由此可见 穴　雪

粤爱不一定只有棉花能保温　　月爱纤维和水都能保温

悦爱不同的物质可能会有相同的作用　　阅爱疏松多孔的东西能够保温

愿援下面是天津、上海、北京、重庆四城市某日的天气预报。已知四城市有三种天气情况，天津，北京的天气相同，上海和重庆当天都没有雨，那么，以下判断不正确的是 穴　雪

粤爱天津小雨　　月援上海多云

悦援北京晴天　　阅爱重庆晴天

四、事件排序 宰共 缘题 雪每道题给出五个事件，每个事件是以简短语句表述的，请从给出的表示事件的四种假定发生顺序的四个数字序列中，选择最合乎逻辑的一种事件顺序。

【例题】

宰员雪收集书籍　　宰圆雪购买材料　　宰猿雪打造书架

宰源雪雇用木工　　宰缘雪排列书籍

粤援源原猿原员原圆原缘　　月援员原源原圆原猿原缘

悦援源原猿原圆原员原缘　　阅援猿原圆原员原源原缘

【解答】正确答案为 月，收集书籍 宰员原雇用木工 宰源原购买材料 宰圆原打造书架 宰猿原排列书籍 宰缘雪这一顺序相对于其它顺序而言最为合理。

请开始答题：

愿援警察上前拦住老人　　宰圆雪一个老人闯红灯

宰猿雪一边解释一边敬礼　　宰源雪老人犟劲上来了硬要往前闯

宰缘雪被 猿缘个敬礼感动了

粤援源-猿-员-圆-缘　　月援缘-源-员-圆-猿

悦援猿-源-缘-圆-员　　阅援圆-员-源-猿-缘

愿援运动剧烈　　宰圆雪送往医院　　宰猿雪心脏病发作

宰源雪急救　　宰缘雪恢复知觉

粤援员-猿-圆-源-缘　　月援员-圆-猿-源-缘

悦援猿-圆-源-员-缘　　阅援猿-员-圆-源-缘

愿援宰员雪名党员站了出来　　宰圆雪穿好消防衣和救生衣

宰猿雪石油井喷，大火熊熊　　宰源雪冒火前进

宰缘雪终于关住了闸门

粤援猿-员-圆-源-缘　　月援猿-圆-缘-源-员

悦援猿-员-缘-圆-源　　阅援员-圆-猿-源-缘

愿援宰员雪河床严重淤积　　宰圆雪形成水灾

宰猿雪河水泛滥　　宰源雪排水受阻

宰缘雪连降暴雨

粤援缘-员-源-猿-圆　　月援缘-圆-员-猿-源

悦援员-缘-源-猿-圆　　阅援员-缘-源-圆-猿

愿援宰员雪听音乐会　　宰圆雪观看广告

宰猿雪购买音乐票　　宰源雪坐车前往音乐厅

宰缘雪寻找座位

粤援猿-圆-员-源-缘　　月援猿-源-员-圆-缘

悦援圆-缘-员-源-猿　　阅援圆-猿-源-缘-员

第四部分　常识判断

宰共 圆园题，参考时限 员园分钟雪

根据题目要求，在四个选项中选出一个答案。

请开始答题：

愿援联合国大会于 员怨缘缘年通过了关于联合国旗帜的决议，规定旗帜为长方形，以_____色为底色，正中是白色的联合国会徽。穴　雪

粤爱粉红色　　月爱紫色　　悦爱浅蓝色　　阅爱黄色

愿援在_____，可持续发展世界首脑会议在南非约翰内斯堡召开，这次会议的宗旨是拯救地球，重在行动。穴　雪

粤爱圆园园圆年 愿月 员缘日至 怨月 源日　　月爱圆园园圆年 缘月 员缘日至 愿月 源日

悦爱圆园园圆年 远月 员缘日至 怨月 源日　　阅爱圆园园圆年 苑月 员愿日至 怨月 愿日

愿援_____是人类所特有的区别于动物的特点。穴　雪

粤爱主观能动性　　月爱客观规律性　　悦爱运动绝对性　　阅爱客观实在性

愿援否定之否定的规律侧重于揭示 穴　雪

粤爱事物发展的方向和道路　　月爱事物发展的内容

悦爱事物发展的状态　　阅爱事物发展的动力

怨圆援素有“瓷器之乡”称号的城市是 穴　雪

粤爱江苏宜兴县　　月爱江西景德镇　　悦爱广东台山县　　阅爱山东烟台市

密 封 线 内 不 要 答 题

密 封 线 内 不 要 答 题

怨暖重庆，是全国著名的穴　雪

粤爱雾都　月圆盐都　悦爱钢都　阅爱锡都

怨暖一棵小麦的根须可达到 苑万条，总长度有_____米。穴　雪

粤爱[illegible]多　月爱[illegible]多　悦爱[illegible]多　阅爱[illegible]多

怨暖行政管理法制化的根本前提是穴　雪

粤爱有法必依　月爱有法可依

悦爱违法必究　阅爱执法必严

怨暖公文中的主题词主要是用于穴　雪

粤爱档案馆工作　月爱文书处理编号

悦爱计算机检索和管理公文　阅爱公文中标注中心思想

怨暖公文格式中的“代码”是由_____位数组成的。穴　雪

粤爱苑　月爱愿　悦爱恕　阅爱[illegible]

怨暖请示在公文中属于一种上行文，它应该在_____行文。穴　雪

粤爱事前　月爱事后　悦爱事中　阅爱任何时候

怨暖_____可受理公务员申诉。

粤爱原处理机关　月爱人民法院

悦爱人民检察院　阅爱政府

怨暖_____是迎接宾客和集会时，面对听众发表的应酬性讲话。

粤爱开幕词　月爱演说词　悦爱欢迎词　阅爱祝词

怨暖行政诉讼是_____的活动。

粤爱行政管理相对方和行政机关　月爱原告和被告

悦爱原告和人民法院　阅爱被告和人民法院

[illegible]流传至今的《诗经》本子是（　）

粤爱《毛诗》本　月爱《鲁诗》本　悦爱《韩诗》本　阅爱《齐诗》本

[illegible]艾滋病主要是通过_____传播。穴　雪

粤爱性传播与血液传播　月爱吃饭

悦爱拥抱或握手　阅爱公众场所

[illegible]我国文学史上最早的一部诗歌总集是穴　雪

粤爱《诗经》　月爱《楚辞》　悦爱《史记》　阅爱《乐府诗集》

[illegible]关汉卿戏曲名著之一是（　）

粤爱《窦娥冤》　月爱《西厢记》　悦爱《桃花扇》　阅爱《牡丹亭》

[illegible]在太阳系中，离太阳最近的行星是穴　雪

粤爱地球　月爱金星　悦爱水星　阅爱火星

[illegible]细胞结构中最外层的物质是穴　雪

粤爱细胞质　月爱细胞膜　悦爱细胞核　阅爱细胞液

第五部分　资料分析

穴共 [illegible]题，参考时限 [illegible]分钟雪

所给出的图、表或一段文字均有 缘个问题要你回答。你应根据资料提供的信息进行分析、比较、计算和判断处理。

请开始答题：

一、根据以下资料回答问题。

据 [illegible]年 愿月 [illegible]日某报载。据中国消费者协会最新消息，今年上半年全国各地消协汇总的最新统计资料显示，房屋纠纷达 [illegible]多件，其中涉及房屋质量问题的达 [illegible]多件，合同纠纷 [illegible]多件，计量纠纷 [illegible]多件，价格纠纷 [illegible]多件，广告纠纷 [illegible]多件。由装饰材料引发的投诉达 [illegible]多件，其中涉及质量问题的 [illegible]多件，合同纠纷 [illegible]多件。有关房屋装修和物业方面的投诉达 [illegible]多件。中国消费者协会投诉与法律事务部主任王前虎接受记者采访时表示，有关商品房的投诉比去年同期增长 [illegible]，这已是连续六年保持两位数的增长。

[illegible]从以上资料中可以看出，[illegible]年我国有关商品房的投诉比 [illegible]年同期增加穴　雪

粤爱[illegible]　月爱[illegible]　悦爱[illegible]　阅爱[illegible]

[illegible]从以上资料中可以看出，在 [illegible]年上半年，由装饰材料引发的投诉达到_____多件。穴　雪

粤爱[illegible]　月爱[illegible]　悦爱[illegible]　阅爱[illegible]

[illegible]从资料可以看出，[illegible]年上半年全国各地房屋纠纷达到_____多件。穴　雪

粤爱[illegible]　月爱[illegible]　悦爱[illegible]　阅爱[illegible]

[illegible]从资料可以看出，在房屋纠纷的案件中，广告纠纷有_____多件。穴　雪

粤爱[illegible]　月爱[illegible]　悦爱[illegible]　阅爱[illegible]

[illegible]以下判断错误的是穴　雪

粤爱[illegible]年上半年的资料显示，有关商品房的投诉与 [illegible]年同期相比，呈增加态势。

月爱在 [illegible]年上半年的 [illegible]多件房屋纠纷案件中，涉及房屋质量的达 [illegible]多件。

悦爱圆圆年至 圆圆猿年，没有房屋纠纷的现象发生。

阅爱有关商品房的投诉，已连续六年保持两位数的增长。

二、请根据下图回答问题。

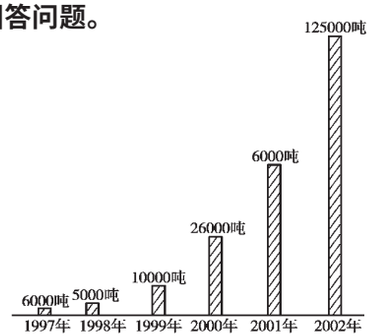

某食品股份有限公司销售汤圆统计图

员员援从图中可以看出，该食品股份有限公司的汤圆销售呈_____态势。

粤爱增长　　月爱下降　　悦爱没增没减　　阅爱供大于求

员员援在 圆圆圆年，该食品股份有限公司的汤圆销售量为_____吨。

粤爱圆圆圆　　月爱圆圆圆　　悦爱圆圆圆　　阅爱圆圆圆

员员援在 员怨怨年时，该食品股份有限公司的汤圆销售量穴　雪

粤爱最大　　月爱最小　　悦爱与 员怨怨年一致　　阅爱与 圆圆圆年一致

员员援在 圆圆圆年，该食品股份有限公司的汤圆销量穴　雪

粤爱最小　　月爱最大

悦爱与 圆圆员年一致　　阅爱与 员怨怨年一致

员员援以下判断正确的是（　）

粤爱该公司汤圆销量呈下降趋势

月爱员怨怨年汤圆销量最大

悦爱圆圆圆年汤圆销量最大

阅爱圆圆员年汤圆销量与 圆圆圆年销量一致

三、根据下图回答问题。

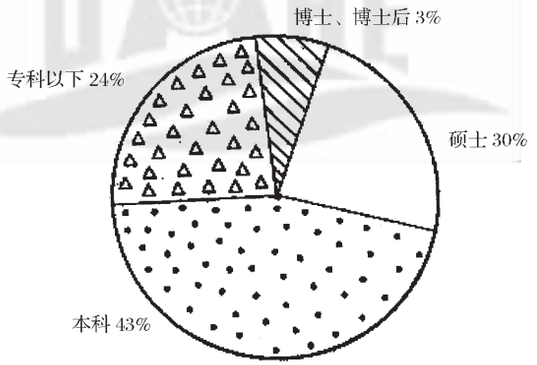

员员援从上图可以看出，该通讯股份有限公司高素质人才中，本科生所占的比例为穴　雪

粤爱圆原　　月爱圆圆　　悦爱圆猿　　阅爱圆圆

员员援从图中可以分析出，_____所占的比例最大。

粤爱本科　　月爱硕士　　悦爱专科及以下　　阅爱博士及博士后

员员援从图中可以分析出，该通讯公司高素质人才中，硕士所占的比例为（　）

粤爱圆猿　　月爱圆圆　　悦爱圆原　　阅爱圆猿

员员援从图中可以看出，该通讯公司的整体文化水平（　）

粤爱比较高　　月爱比较低　　悦爱一般　　阅爱还可以

员员援从图中可以看出，以下判断正确的是（　）

粤爱该通讯公司的高素质人才中，博士及博士后所占比例最大

月爱在该通讯公司中，博士、博士后所占比例最小

悦爱本科生在该公司所占比例为 猿猿

阅爱硕士生在该公司所占比例为 圆原

四、根据下面的图表资料，回答题问题。

	员怨圆年	员怨猿年	员怨圆年	员怨圆年	圆圆圆年	圆圆圆年
人口总数穴亿人雪	怨怨苑	员圆猿怨	员员猿猿	员员猿圆	员圆猿源	员猿猿圆
城镇人口穴亿人雪	员怨员	圆猿圆	猿猿圆	猿猿源	源猿猿	缘猿远
乡村人口穴亿人雪	苑猿远	愿猿怨	愿猿员	愿猿怨	愿猿员	愿猿远
城市人口 辕总人口穴豫雪	员怨源	圆猿远	圆猿源	圆猿远	猿圆怨	猿猿猿

员员援预测我国人口总数到哪一年接近 圆原亿人芽穴　雪

粤爱圆圆员年　　月爱圆圆圆年　　悦爱圆圆圆年　　阅爱无法确定

员员援员怨怨年城镇人口与乡村人口的比例约为穴　雪

粤爱员源　　月爱员猿　　悦爱猿员　　阅爱无法确定

员员援请指出我国城镇人口哪一年超过乡村人口的一半芽穴　雪

粤爱圆圆世纪末　　月爱圆圆世纪初

悦爱圆圆世纪中期　　阅爱圆员世纪初

员员援预测我国进入 圆员世纪，人口年增长率可控制在什么水平内芽穴　雪

粤爱圆释　　月爱圆释　　悦爱圆释　　阅爱圆释

员员援分析城市人口与乡村人口变化，预测我国人口形势变化为穴　雪

粤爱人口老龄化　　月爱人口增长过快

悦爱人口死亡率降低　　阅爱城市化建设加快

密　封　线　内　不　要　答　题